Punjab Police Sub Inspector Exam 2023 All Shifts Question Papers with Answer Keys Shifts Included -

1. 20 June 9:00 AM - 11:00 AMPaper 1
2. 20 June 12:30 PM - 2:30 PM Paper 1
3. 20 June 4:00 PM - 7:00 PM Paper 2 & 3
4. 21 June - 12:30 PM - 3:30 PM Paper 2 & 3
5. 29 June - 9:00 AM - 11:00 AM Paper 1
6. 29 June - 12:30 PM - 2:30 PM Paper 1
7. 29 June 4:00 PM - 7:00 PM Paper 2 & 3
8. 1 July - 4:00 PM - 7:00 PM Paper 2 & 3
9. 2 July - 9:00 AM - 11:00 AM Paper 1
10. 2 July - 12:30 PM - 2:30 PM Paper 1
11. 2 July 4:00 PM - 7:00 PM Paper 2 & 3
12. 3 July - 12:30 PM - 3:30 PM Paper 2 & 3
13. 14 July - 9:00 AM - 11:00 AM Paper 1
14. 14 July - 12:30 PM - 2:30 PM Paper 1
15. 14 July 4:00 PM - 7:00 PM Paper 2 & 3
16. 15 July - 9:00 AM - 11:00 AM Paper 1
17. 15 July - 12:30 PM - 3:30 PM Paper 2 & 3
18. 15 July 5:00 PM - 8:00 PM Paper 2 & 3
19. 29 July - 9:00 AM - 11:00 AM Paper 1
20. 29 July - 12:30 PM - 2:30 PM Paper 1
21. 29 July 4:00 PM - 7:00 PM Paper 2 & 3
22. 31 July - 9:00 AM - 11:00 AM Paper 1
23. 31 July - 12:30 PM - 3:30 PM Paper 2 & 3
24. 31 July 5:00 PM - 8:00 PM Paper 2 & 3

Website - www.dailyjobalert.in

PUNJAB POLICE

Police to its last particle is duty

Exam Name	Recruitment for the post of Sub Inspector in Cadres of District and Armed Police 20th Jun to 31st Jul 2023 Paper I
Application No	www.dailyjobalert.in
Roll No	Telegram - Daily Job Alert Punjab
Applicant Name	instagram - Daily Job Alert Punjab
Exam Date	20/06/2023
Shift	9:00 AM - 11:00 AM
Subject	Sub Inspector Paper I

Section : **General Awareness**

Q.1 ਭਾਰਤ ਵਿੱਚ ਵਾਤਾਵਰਣ ਸੁਰੱਖਿਆ ਐਕਟ ਸਾਲ_____ ਵਿੱਚ ਪਾਸ ਕੀਤਾ ਗਿਆ ਸੀ।

Ans
✗ 1. 1990
✗ 2. 1996
✗ 3. 2004
✓ 4. 1986

Question ID : **63068059105**
Option 1 ID : **630680228043**
Option 2 ID : **630680228044**
Option 3 ID : **630680228045**
Option 4 ID : **630680228042**
Status : **Answered**
Chosen Option : **4**

Q.2 **In 2021, the Ministry of Railways announced the closure of an enterprise headquartered in New Delhi that was exclusively formed to promote green energy by introducing alternative energy, fuel efficient and emission-control technologies across the railway network. What is the name of the enterprise?**

Ans
✗ 1. Pipavav Railway Corporation Limited
✗ 2. Rail India Technical And Economic Services Limited
✗ 3. Ircon International Ltd.
✓ 4. Indian Railways Organisation for Alternative Fuels

Question ID : **63068053268**
Option 1 ID : **630680205177**
Option 2 ID : **630680205174**
Option 3 ID : **630680205175**
Option 4 ID : **630680205176**
Status : **Answered**
Chosen Option : **4**

Website - www.dailyjobalert.in

Q.3 ਹੇਠ ਦਿੱਤਿਆਂ ਵਿੱਚੋਂ ਕਿਹੜੇ ਦੇਸ਼ ਵਿੱਚ ਭਾਰਤੀ ਮਜ਼ਦੂਰਾਂ ਦਾ ' ਪਹਿਲਾ ਸਮੂਹ ' ਪਰਵਾਸ ਕੀਤਾ ਸੀ?

Ans

✗ 1. ਮੈਡਾਗਾਸਕਰ

✗ 2. ਮਲੇਸ਼ੀਆ

✓ 3. ਮਾਰੀਸ਼ਸ

✗ 4. ਸ਼੍ਰੀਲੰਕਾ

Question ID : **63068059755**
Option 1 ID : **630680230593**
Option 2 ID : **630680230590**
Option 3 ID : **630680230592**
Option 4 ID : **630680230591**
Status : **Not Answered**
Chosen Option : **--**

Q.4 ਤੁਸੀਂ ਉਸ ਸੰਘਰਸ਼ ਨੂੰ ਕੀ ਕਹਿੰਦੇ ਹੋ ਜਦੋਂ ਕੋਈ ਇਕਾਈ ਜਾਂ ਵਿਅਕਤੀ ਨਿੱਜੀ (ਜਾਂ ਸਵੈ-ਸੇਵਾ) ਹਿੱਤਾਂ ਅਤੇ ਪੇਸ਼ੇਵਰ ਕਰਤੱਵਾਂ ਜਾਂ ਜ਼ਿੰਮੇਵਾਰੀਆਂ ਵਿਚਕਾਰ ਟਕਰਾਅ ਕਾਰਨ ਭਰੋਸੇਯੋਗ ਨਹੀਂ ਰਹਿੰਦਾ ਹੈ?

Ans

✗ 1. ਦੇਖਭਾਲ ਦਾ ਸੰਘਰਸ਼ (Conflict of care)

✗ 2. ਕਾਨੂੰਨੀ ਸੰਘਰਸ਼ (Conflict of law)

✓ 3. ਹਿੱਤਾਂ ਦਾ ਸੰਘਰਸ਼ (Conflict of interest)

✗ 4. ਚਿੰਤਾ ਦਾ ਸੰਘਰਸ਼ (Conflict of concern)

Question ID : **630680238331**
Option 1 ID : **630680924341**
Option 2 ID : **630680924343**
Option 3 ID : **630680924340**
Option 4 ID : **630680924342**
Status : **Answered**
Chosen Option : **3**

DAILY JOB Alert ਪੰਜਾਬ

Q.5 ਭਾਰਤ ਦੇ ਰਾਸ਼ਟਰੀ ਪਾਰਕਾਂ ਨੂੰ ਉਹਨਾਂ ਰਾਜਾਂ ਨਾਲ ਮਿਲਾਓ ਜਿਨ੍ਹਾਂ ਵਿੱਚ ਉਹ ਸਥਿਤ ਹਨ।

Sr.No.	ਰਾਸ਼ਟਰੀ ਪਾਰਕ	Sr.No.	ਰਾਜ
a)	ਮੋਲੇਮ	I.	ਅਰੁਣਾਚਲ ਪ੍ਰਦੇਸ਼
b)	ਅੰਸ਼ੀ	II.	ਛੱਤੀਸਗੜ੍ਹ
c)	ਇੰਦਰਾਵਤੀ	III.	ਕਰਨਾਟਕ
d)	ਨਮਦਾਫਾ	IV.	ਗੋਆ

Ans
✗ 1. a-II, b-I, c-IV, d-III
✓ 2. a-IV, b-III, c-II, d-I
✗ 3. a-I, b-II, c-III, d-IV
✗ 4. a-III, b-II, c-I, d-IV

Question ID : **630680115713**
Option 1 ID : **630680448192**
Option 2 ID : **630680448190**
Option 3 ID : **630680448193**
Option 4 ID : **630680448191**
Status : **Answered**
Chosen Option : **2**

Q.6 ਅਕਤੂਬਰ 2021 ਵਿੱਚ ਕਿਸ ਸ਼ਹਿਰ ਦੀ ਪੁਲਿਸ ਨੇ ਔਰਤਾਂ ਦੀ ਸੁਰੱਖਿਆ ਲਈ 'ਸਾਤ ਸਾਤ ਅਬ ਔਰ ਬੀ ਪਾਸ (Saat Saat Ab Aur Bhi Pass)' ਨਾਮ ਦੀ ਪਹਿਲਕਦਮੀ ਸ਼ੁਰੂ ਕੀਤੀ ਸੀ?

Ans
✗ 1. ਭੋਪਾਲ
✓ 2. ਹੈਦਰਾਬਾਦ
✗ 3. ਮੁੰਬਈ
✗ 4. ਚੇਨਈ

Question ID : **630680134090**
Option 1 ID : **630680519254**
Option 2 ID : **630680519257**
Option 3 ID : **630680519255**
Option 4 ID : **630680519256**
Status : **Not Answered**
Chosen Option : **--**

Website - www.dailyjobalert.in

Q.7 ਨਾਮਧਾਰੀ, ਜੋ ਕਿ ਸਿੱਖ ਧਰਮ ਦੇ ਅੰਦਰ ਇੱਕ ਨਿਸ਼ਠਾਵਾਨ ਸੰਪਰਦਾ ਹੈ, ਦੀ ਸਥਾਪਨਾ _____ ਦੁਆਰਾ ਕੀਤੀ ਗਈ ਸੀ।

Ans
✔ 1. ਬਾਲਕ ਸਿੰਘ
✘ 2. ਰਤਨ ਸਿੰਘ
✘ 3. ਤਿਲਕ ਸਿੰਘ
✘ 4. ਹੀਰਾ ਸਿੰਘ

Question ID : **630680238503**
Option 1 ID : **630680925029**
Option 2 ID : **630680925028**
Option 3 ID : **630680925031**
Option 4 ID : **630680925030**
Status : **Answered**
Chosen Option : **1**

Q.8 ਫੋਰਬਸ ਮੈਗਜ਼ੀਨ ਵਿੱਚ 2021 ਵਿੱਚ ਸਭ ਤੋਂ ਵੱਧ ਭੁਗਤਾਨ ਪ੍ਰਾਪਤ ਕਰਨ ਵਾਲੇ ਅਥਲੀਟ ਦੇ ਰੂਪ ਵਿੱਚ ਕਿਸਦਾ ਨਾਮ ਸ਼ਾਮਲ ਕੀਤਾ ਗਿਆ ਸੀ?

Ans
✘ 1. ਡਾਕ ਪ੍ਰੈਸਕੋਟ (Dak Prescott)
✘ 2. ਲਿਓਨੇਲ ਮੇਸੀ (Lionel Messi)
✔ 3. ਕੋਨੋਰ ਮੈਕਗ੍ਰੇਗਰ (Conor McGregor)
✘ 4. ਮੈਨੀ ਪੈਕੀਆਓ (Manny Pacquiao)

Question ID : **63068090327**
Option 1 ID : **630680350084**
Option 2 ID : **630680350083**
Option 3 ID : **630680350082**
Option 4 ID : **630680350085**
Status : **Not Answered**
Chosen Option : **--**

Q.9 ਹੇਠ ਦਿੱਤਿਆਂ ਵਿੱਚੋਂ ਕਿਹੜਾ ਅਸ਼ੋਕ ਦੇ ਸ਼ਾਸਨ ਕਾਲ ਦੌਰਾਨ ਉਤਰਾਪਥ ਦੀ ਰਾਜਧਾਨੀ ਸੀ?

Ans
✔ 1. ਤਕਸ਼ਿਲਾ
✘ 2. ਸੁਵਰਨਗਿਰੀ
✘ 3. ਉਜੈਨ
✘ 4. ਪਾਟਲੀਪੁਤਰ

Question ID : **630680112626**
Option 1 ID : **630680436200**
Option 2 ID : **630680436199**
Option 3 ID : **630680436198**
Option 4 ID : **630680436201**
Status : **Answered**
Chosen Option : **4**

Website - www.dailyjobalert.in

Q.10 ਭਾਰਤ ਦੇ ਪੂਰਬੀ ਤੱਟ ਉੱਤੇ ਦਰਿਆ ਦੇ ਡੈਲਟਾ ਵਿੱਚ ਕਿਸ ਕਿਸਮ ਦਾ ਜੰਗਲ ਪਾਇਆ ਜਾਂਦਾ ਹੈ?

Ans
✗ 1. ਖੁਸ਼ਕ ਪਰਣਪਾਤੀ
✓ 2. ਸਦਾਬਹਾਰ
✗ 3. ਊਸ਼ਣ ਕਟਿਬੰਧ ਕੰਡੇਦਾਰ
✗ 4. ਊਸ਼ਣ ਕਟਿਬੰਧ ਪਰਬਤੀ

Question ID : **630680115199**
Option 1 ID : **630680446163**
Option 2 ID : **630680446162**
Option 3 ID : **630680446165**
Option 4 ID : **630680446164**
Status : **Answered**
Chosen Option : **2**

Q.11 ਸੁਤੰਤਰਤਾ ਸੈਨਾਨੀ ਸ਼ਹੀਦ ਸੁਖਦੇਵ ਥਾਪਰ ਦਾ ਜੱਦੀ ਘਰ ਕਿੱਥੇ ਸਥਿਤ ਹੈ?

Ans
✗ 1. ਅੰਮ੍ਰਿਤਸਰ
✗ 2. ਕਪੂਰਥਲਾ
✓ 3. ਲੁਧਿਆਣਾ
✗ 4. ਬਠਿੰਡਾ

Question ID : **630680238488**
Option 1 ID : **630680924969**
Option 2 ID : **630680924971**
Option 3 ID : **630680924968**
Option 4 ID : **630680924970**
Status : **Not Answered**
Chosen Option : **--**

Q.12 ਭਾਰਤ ਦੀ ਪਹਿਲੀ ਜੈਵਿਕ-ਇੱਟਾਂ ਆਧਾਰਿਤ ਇਮਾਰਤ ਦਾ ਉਦਘਾਟਨ 2021 ਵਿੱਚ _____ ਵਿੱਚ ਕੀਤਾ ਗਿਆ ਸੀ।

Ans
✗ 1. ਆਈਆਈਟੀ ਕਾਨਪੁਰ
✓ 2. ਆਈਆਈਟੀ ਹੈਦਰਾਬਾਦ
✗ 3. ਆਈਆਈਟੀ ਰੋਪੜ
✗ 4. ਆਈਆਈਟੀ ਮਦਰਾਸ

Question ID : **63068054457**
Option 1 ID : **630680209870**
Option 2 ID : **630680209872**
Option 3 ID : **630680209871**
Option 4 ID : **630680209873**
Status : **Not Answered**
Chosen Option : **--**

DAILY JOB Alert ਪੰਜਾਬ

Q.13 The salary of the President of India _____.

Ans
✗ 1. can be reduced during his second term
✗ 2. can be reduced during an internal emergency
✓ 3. cannot be diminished during his term of office
✗ 4. cannot be reduced after one year of his service

Question ID : **630680114544**
Option 1 ID : **630680443544**
Option 2 ID : **630680443545**
Option 3 ID : **630680443542**
Option 4 ID : **630680443543**
Status : **Answered**
Chosen Option : **3**

Q.14 ਪਰੰਪਰਾਗਤ ਤੌਰ 'ਤੇ ਦੁਨੀਆ ਭਰ ਦੇ ਸਿੱਖਾਂ ਦੁਆਰਾ ਹੋਲਾ ਮੁਹੱਲਾ ਤਿਉਹਾਰ ਕਿੰਨੇ ਦਿਨਾਂ ਲਈ ਮਨਾਇਆ ਜਾਂਦਾ ਹੈ?

Ans
✓ 1. ਤਿੰਨ
✗ 2. ਪੰਜ
✗ 3. ਚਾਰ
✗ 4. ਦੋ

Question ID : **630680238513**
Option 1 ID : **630680925069**
Option 2 ID : **630680925071**
Option 3 ID : **630680925070**
Option 4 ID : **630680925068**
Status : **Answered**
Chosen Option : **4**

Q.15 The Abuj Maria tribe used to perform the _____ dance.

Ans
✗ 1. Tapu
✗ 2. Nati
✓ 3. Kaksar
✗ 4. Bhooti

Question ID : **63068087812**
Option 1 ID : **630680340634**
Option 2 ID : **630680340636**
Option 3 ID : **630680340635**
Option 4 ID : **630680340633**
Status : **Not Answered**
Chosen Option : **--**

Website - www.dailyjobalert.in

Q.16 2021 ਵਿੱਚ ਹੇਠਾਂ ਦਿੱਤਿਆਂ ਵਿੱਚੋਂ ਕਿਹੜੀ ਬੀਚ ਨੂੰ ਵਿਸ਼ਵ ਵਿਆਪੀ ਪੱਧਰ 'ਤੇ ਮਾਨਤਾ ਪ੍ਰਾਪਤ ਈਕੋ ਲੇਬਲ ਬਲੂ ਫਲੈਗ ਸਰਟੀਫਿਕੇਟ ਪ੍ਰਾਪਤ ਹੋਇਆ?

Ans
✗ 1. ਤਾਰਕਰਲੀ ਬੀਚ
✓ 2. ਕੋਵਲਮ ਬੀਚ
✗ 3. ਗੋਕਰਨਾ ਬੀਚ
✗ 4. ਵਰਕਲਾ ਬੀਚ

Question ID : **630680115314**
Option 1 ID : **630680446609**
Option 2 ID : **630680446606**
Option 3 ID : **630680446608**
Option 4 ID : **630680446607**
Status : **Not Answered**
Chosen Option : **--**

Q.17 In which year was the Integrated Child Protection Scheme launched by the Government of Punjab?

Ans
✗ 1. 2015
✓ 2. 2010
✗ 3. 2005
✗ 4. 2020

Question ID : **630680238365**
Option 1 ID : **630680924478**
Option 2 ID : **630680924476**
Option 3 ID : **630680924479**
Option 4 ID : **630680924477**
Status : **Answered**
Chosen Option : **1**

Q.18 ਨਵੰਬਰ 2021 ਵਿੱਚ ਪੁਲਾੜ ਵਿੱਚ ਚਲਣ ਵਾਲੀ ਪਹਿਲੀ ਚੀਨੀ ਮਹਿਲਾ ਪੁਲਾੜ ਯਾਤਰੀ ਕੌਣ ਸੀ?

Ans
✗ 1. ਗੁ ਜ਼ੀਉਲੀਅਨ (Gu Xiulian)
✓ 2. ਵਾਂਗ ਯਾਪਿੰਗ (Wang Yaping)
✗ 3. ਜ਼ੌ ਚੇਂਗਯੂ (Zhou Chengyu)
✗ 4. ਲੀ ਯਾਂਗ (Liu Yang)

Question ID : **63068068653**
Option 1 ID : **630680265303**
Option 2 ID : **630680265304**
Option 3 ID : **630680265305**
Option 4 ID : **630680265302**
Status : **Not Answered**
Chosen Option : **--**

DAILY JOB Alert ਪੰਜਾਬ

Q.19 ਟੀਕਾਕਰਣ _____ ਦੀ ਇੱਕ ਉਦਾਹਰਣ ਹੈ

Ans
1. ਸਮਾਜਿਕ ਦਵਾਈ
2. ਉਪਚਾਰਕ ਦਵਾਈ
3. ਰੋਕਥਾਮ ਦਵਾਈ
4. ਇੰਟਰਵੇਂਸ਼ਨ ਦਵਾਈ

Question ID : **63068056697**
Option 1 ID : **630680218724**
Option 2 ID : **630680218722**
Option 3 ID : **630680218723**
Option 4 ID : **630680218725**
Status : **Answered**
Chosen Option : **3**

Q.20 ਛੋਟੇ ਪੈਮਾਨੇ ਦੇ ਉਦਯੋਗ ਨੂੰ ____ ਅਤੇ _____ ਦੇ ਉਦੇਸ਼ਾਂ ਨੂੰ ਉਤਸ਼ਾਹਿਤ ਕਰਨ ਲਈ ਵਿਕਸਿਤ ਕੀਤਾ ਗਿਆ ਸੀ।

Ans
1. ਰੁਜ਼ਗਾਰ; ਵਿਦੇਸ਼ੀ ਭੰਡਾਰ ਵਿੱਚ ਵਾਧਾ
2. ਰੁਜ਼ਗਾਰ; ਇਕੁਇਟੀ
3. ਖੋਜ ਅਤੇ ਵਿਕਾਸ ਪ੍ਰੋਤਸਾਹਨ : GDP ਵਾਧਾ
4. GDP ਵਾਧਾ; ਬੁਨਿਆਦੀ ਢਾਂਚਾ ਵਿਕਾਸ

Question ID : **63068059046**
Option 1 ID : **630680227809**
Option 2 ID : **630680227808**
Option 3 ID : **630680227806**
Option 4 ID : **630680227807**
Status : **Answered**
Chosen Option : **2**

Q.21 ਮਹਾਰਾਜਾ ਰਣਜੀਤ ਸਿੰਘ ਜੀ ਹੇਠਾਂ ਲਿਖਿਆਂ ਵਿਚੋਂ ਕਿਹੜੀ 'ਮਿਸਲ' ਨਾਲ ਸੰਬੰਧਿਤ ਸਨ?

Ans
1. ਭੰਗੀ
2. ਨਕੈਈ
3. ਰਾਮਗੜ੍ਹੀਆਂ
4. ਸੁਕਰਚਕੀਆ

Question ID : **630680238400**
Option 1 ID : **630680924616**
Option 2 ID : **630680924619**
Option 3 ID : **630680924618**
Option 4 ID : **630680924617**
Status : **Answered**
Chosen Option : **4**

Website - www.dailyjobalert.in

Q.22 ਕਲੋਰਮਫੇਨਿਕ੉ਲ (Chloramphenicol) ਦੀ ਖੋਜ ਕਦੋਂ ਹੋਈ ਸੀ?

Ans

✗ 1. 1945

✗ 2. 1944

✗ 3. 1948

✓ 4. 1947

Question ID : **63068049653**
Option 1 ID : **630680191042**
Option 2 ID : **630680191043**
Option 3 ID : **630680191045**
Option 4 ID : **630680191044**
Status : **Not Answered**
Chosen Option : **--**

Q.23 ਨਿਮਨਲਿਖਤ ਵਿੱਚੋਂ ਯਕਸ਼ਗਾਨ ਨਾਚ ਨਾਲ ਜੁੜੀ ਮਸ਼ਹੂਰ ਸ਼ਖਸੀਅਤ ਕੌਣ ਹੈ?

Ans

✗ 1. ਅੰਮਨੂਰ ਮਾਧਵ ਚੱਕਯਾਰ

✓ 2. ਰਾਮਚੰਦਰ ਸੁਬਰਾਯਾ ਹੇਗੜੇ ਚਿਤਾਨੀ

✗ 3. ਘਨਕਾਂਤਾ ਬੋਰਾ ਬੋਰਬਾਯਨ

✗ 4. ਕਲਾਮੰਡਲਮ ਰਮਨਕੁੱਟੀ ਨਾਇਰ

Question ID : **63068083344**
Option 1 ID : **630680323225**
Option 2 ID : **630680323226**
Option 3 ID : **630680323227**
Option 4 ID : **630680323224**
Status : **Not Answered**
Chosen Option : **--**

Q.24 ਜਲਵਾਯੂ ਪਰਿਵਰਤਨ ਬਾਰੇ ਹੇਠ ਲਿਖੇ ਕਥਨਾਂ ਵਿੱਚੋਂ ਕਿਹੜਾ ਗਲਤ ਹੈ?

Ans

✗ 1. 'ਜਲਵਾਯੂ ਪਰਿਵਰਤਨ' ਅਤੇ 'ਗਲੋਬਲ ਵਾਰਮਿੰਗ' ਸ਼ਬਦ ਅਕਸਰ ਬਦਲਵੇਂ ਰੂਪ ਵਿੱਚ ਵਰਤੇ ਜਾਂਦੇ ਹਨ, ਪਰ ਇਹਨਾਂ ਦੇ ਵੱਖਰੇ ਅਰਥ ਹਨ।

✓ 2. ਪੂਰਵ-ਉਦਯੋਗਿਕ ਕਾਲ ਤੋਂ, ਮਨੁੱਖੀ ਗਤੀਵਿਧੀਆਂ ਦੁਆਰਾ ਧਰਤੀ ਦੇ ਗਲੋਬਲ ਔਸਤ ਤਾਪਮਾਨ ਨੂੰ ਲਗਭਗ 3 ਡਿਗਰੀ ਸੈਲਸੀਅਸ ਤੱਕ ਵਧਾਉਣ ਦਾ ਅਨੁਮਾਨ ਹੈ।

✗ 3. ਜਲਵਾਯੂ ਪਰਿਵਰਤਨ ਔਸਤ ਮੌਸਮ ਦੇ ਪੈਟਰਨਾਂ ਵਿੱਚ ਇੱਕ ਲੰਮੀ-ਮਿਆਦ ਦੀ ਤਬਦੀਲੀ ਹੈ ਜੋ ਧਰਤੀ ਦੇ ਸਥਾਨਕ, ਖੇਤਰੀ ਅਤੇ ਗਲੋਬਲ ਮੌਸਮ ਨੂੰ ਪਰਿਭਾਸ਼ਿਤ ਕਰਦੀ ਹੈ।

✗ 4. ਮਨੁੱਖੀ ਗਤੀਵਿਧੀਆਂ, ਖਾਸ ਤੌਰ 'ਤੇ, ਪਥਰਾਟ ਬਾਲਣ ਬਲਣ, ਜੋ ਧਰਤੀ ਦੇ ਵਾਯੂਮੰਡਲ ਵਿੱਚ ਤਾਪ ਸੋਖਣ ਵਾਲੀ ਗ੍ਰੀਨਹਾਉਸ ਗੈਸ ਦੇ ਪੱਧਰ ਨੂੰ ਵਧਾਉਂਦਾ ਹੈ, ਧਰਤੀ ਦੀ ਸਤਹ ਦੇ ਔਸਤ ਤਾਪਮਾਨ ਨੂੰ ਵਧਾਉਂਦਾ ਹੈ।

Question ID : **630680134678**
Option 1 ID : **630680521533**
Option 2 ID : **630680521531**
Option 3 ID : **630680521530**
Option 4 ID : **630680521532**
Status : **Answered**
Chosen Option : **4**

Website - www.dailyjobalert.in

Q.25 **Which of the following is NOT true about the Directive Principles of State Policy mentioned in the Indian Constitution?**

Ans

✗ 1. They are certain ideals that the government should follow.

✓ 2. They are justiciable guidelines.

✗ 3. It is the duty of the State to apply these principles in making laws

✗ 4. They are constitutional goals that we as a society should adopt.

Question ID : **630680113307**
Option 1 ID : **630680438791**
Option 2 ID : **630680438792**
Option 3 ID : **630680438793**
Option 4 ID : **630680438790**
Status : **Answered**
Chosen Option : **2**

Q.26 **ਹਿਊਮਨ ਸੈਟਲਮੈਂਟ ਮੈਨੇਜਮੈਂਟ ਇੰਸਟੀਚਿਊਟ ਕਿੱਥੇ ਸਥਿਤ ਹੈ?**

Ans

✗ 1. ਚੈਨੱਈ

✗ 2. ਮੁੰਬਈ

✗ 3. ਪੁਨੇ

✓ 4. ਨਵੀਂ ਦਿੱਲੀ

Question ID : **63068050588**
Option 1 ID : **630680194669**
Option 2 ID : **630680194667**
Option 3 ID : **630680194668**
Option 4 ID : **630680194666**
Status : **Not Answered**
Chosen Option : **--**

Q.27 **ਹੇਠ ਲਿਖੇ ਵਿਅਕਤੀਆਂ ਵਿੱਚੋਂ ਕੌਣ ਨਾਮਧਾਰੀ ਅੰਦੋਲਨ ਜਿਸਨੂੰ ਕੂਕਾ ਅੰਦੋਲਨ ਵੀ ਕਿਹਾ ਜਾਂਦਾ ਹੈ, ਨਾਲ ਜੁੜਿਆ ਹੋਇਆ ਹੈ?**

Ans

✗ 1. ਦਰਬਾਰ ਸਿੰਘ

✓ 2. ਬਾਲਕ ਸਿੰਘ

✗ 3. ਗੁਰਦਿੱਤ ਸਿੰਘ

✗ 4. ਸ਼ਿਵ ਦਿਆਲ ਸਿੰਘ

Question ID : **630680238560**
Option 1 ID : **630680925259**
Option 2 ID : **630680925256**
Option 3 ID : **630680925258**
Option 4 ID : **630680925257**
Status : **Answered**
Chosen Option : **2**

DAILY JOB Alert ਪੰਜਾਬ

Q.28 2011 ਦੀ ਮਰਦਮਸ਼ੁਮਾਰੀ ਦੇ ਅਨੁਸਾਰ, ਪੰਜਾਬ ਦੀ ਆਬਾਦੀ ਵਿੱਚ ਕਿੰਨੇ ਪ੍ਰਤੀਸ਼ਤ ਸਿੱਖ ਹਨ?

Ans
✗ 1. 51.22%
✗ 2. 60.15%
✓ 3. 57.69%
✗ 4. 66.23%

Question ID : **630680238506**
Option 1 ID : **630680925040**
Option 2 ID : **630680925042**
Option 3 ID : **630680925041**
Option 4 ID : **630680925043**
Status : **Not Answered**
Chosen Option : **--**

Q.29 ਸਾਲ 1966 ਵਿੱਚ ਹੇਠ ਲਿਖਿਆਂ ਵਿੱਚੋਂ ਕਿਹੜਾ ਕੇਂਦਰ ਸ਼ਾਸਤ ਪ੍ਰਦੇਸ਼ ਬਣਾਇਆ ਗਿਆ ਸੀ?

Ans
✗ 1. ਦਮਨ ਅਤੇ ਦਿਓ
✓ 2. ਚੰਡੀਗੜ੍ਹ
✗ 3. ਲਕਸ਼ਦੀਪ
✗ 4. ਪੁਡੂਚੇੱਰੀ

Question ID : **63068099225**
Option 1 ID : **630680385607**
Option 2 ID : **630680385605**
Option 3 ID : **630680385606**
Option 4 ID : **630680385604**
Status : **Answered**
Chosen Option : **2**

Q.30 ਜਗਰਾਓਂ ਦਾ ਰੋਸ਼ਨੀ ਮੇਲਾ _____ ਦੀ ਦਰਗਾਹ 'ਤੇ ਲੱਗਦਾ ਹੈ।

Ans
✓ 1. ਅਬਦੁਲ ਕਾਦਰ ਜਲਾਨੀ
✗ 2. ਸ਼ਾਹ ਹੁਸੈਨ
✗ 3. ਰੌਜ਼ਾ ਸ਼ਰੀਫ਼
✗ 4. ਅਯੂਬ ਕਦਮ ਖਾਨ

Question ID : **630680238444**
Option 1 ID : **630680924795**
Option 2 ID : **630680924793**
Option 3 ID : **630680924794**
Option 4 ID : **630680924792**
Status : **Answered**
Chosen Option : **1**

DAILY JOB Alert ਪੰਜਾਬ

Q.31 Who among the following was the first Indian woman president of the Indian National Congress?

Ans
1. Annie Besant
2. Bhikaiji Cama
3. Sarojini Naidu
4. Kadambini Ganguli

Question ID : **630680146025**
Option 1 ID : **630680565000**
Option 2 ID : **630680564998**
Option 3 ID : **630680565001**
Option 4 ID : **630680564999**
Status : **Answered**
Chosen Option : **3**

Q.32 ਸ਼੍ਰੀ ਲਾਲ ਬਹਾਦੁਰ ਸ਼ਾਸਤਰੀ ਰਾਸ਼ਟਰੀ ਸੰਸਕ੍ਰਿਤ ਵਿਦਿਆਪੀਠ ਹੇਠ ਲਿਖੇ ਸ਼ਹਿਰਾਂ ਵਿੱਚੋਂ ਕਿਸ ਵਿੱਚ ਸਥਿਤ ਹੈ?

Ans
1. ਤਿਰੂਪਤੀ
2. ਨਵੀਂ ਦਿੱਲੀ
3. ਵਰਧਾ
4. ਮੁੰਬਈ

Question ID : **63068086131**
Option 1 ID : **630680333959**
Option 2 ID : **630680333956**
Option 3 ID : **630680333958**
Option 4 ID : **630680333957**
Status : **Not Answered**
Chosen Option : **--**

Q.33 ਰਾਮ ਤੀਰਥ ਮੰਦਿਰ, ਜਿੱਥੇ ਲਵ ਅਤੇ ਕੁਸ਼ ਦਾ ਜਨਮ ਹੋਇਆ ਮੰਨਿਆ ਜਾਂਦਾ ਹੈ, ਹੇਠ ਲਿਖਿਆਂ ਵਿੱਚੋਂ ਕਿਸ ਜ਼ਿਲ੍ਹੇ ਵਿੱਚ ਸਥਿਤ ਹੈ?

Ans
1. ਰੂਪਨਗਰ
2. ਹੁਸ਼ਿਆਰਪੁਰ
3. ਮੋਹਾਲੀ
4. ਅੰਮ੍ਰਿਤਸਰ

Question ID : **630680238460**
Option 1 ID : **630680924857**
Option 2 ID : **630680924856**
Option 3 ID : **630680924859**
Option 4 ID : **630680924858**
Status : **Answered**
Chosen Option : **4**

Website - www.dailyjobalert.in

Q.34 Which of the following dances is performed by a group of men in a circle that is similar to Bhangra?

Ans
✗ 1. Dhankara
✓ 2. Dhamal
✗ 3. Julli
✗ 4. Luddi

Question ID : **630680238604**
Option 1 ID : **630680925434**
Option 2 ID : **630680925435**
Option 3 ID : **630680925432**
Option 4 ID : **630680925433**
Status : **Answered**
Chosen Option : **2**

Q.35 _____ ਨੇ 2021 ਵਿੱਚ ਏਰੋਸਪੇਸ ਸਟ੍ਰਕਚਰਲ ਫੋਰਜਿੰਗਜ਼ ਵਿੱਚ ਐਪਲੀਕੇਸ਼ਨਾਂ ਲਈ ਉਦਯੋਗਿਕ ਪੈਮਾਨੇ 'ਤੇ ਵੈਨੇਡੀਅਮ, ਆਇਰਨ ਅਤੇ ਐਲੂਮੀਨੀਅਮ (Ti-10V-2Fe-3Al) ਯੁਕਤ ਉੱਚ ਸ਼ਕਤੀ ਵਾਲੀ ਮੈਟਾਸਟੇਬਲ ਬੀਟਾ ਟਾਈਟੇਨੀਅਮ ਮਿਸ਼ਰਤ ਧਾਤ ਸਵਦੇਸ਼ੀ ਤੌਰ 'ਤੇ ਵਿਕਸਤ ਕੀਤੀ?

Ans
✓ 1. ਡਿਫੈਂਸ ਰਿਸਰਚ ਐਂਡ ਡਿਵੈਲਪਮੈਂਟ ਓਰਗਾਈਨੇਸ਼ਨ(DRDO)
✗ 2. ਡਿਫੈਂਸ ਇਲੈਕਟ੍ਰੋਨਿਕਸ ਰਿਸਰਚ ਲੈਬੋਰੇਟਰੀ(DLRL)
✗ 3. ਡਿਫੈਂਸ ਇੰਸਟੀਚਿਊਟ ਆਫ਼ ਸਾਈਕੋਲੋਜੀਕਲ ਰਿਸਚਰ (DIPR)
✗ 4. ਡਿਫੈਂਸ ਇੰਸਟੀਚਿਊਟ ਆਫ ਸਾਈਕੋਲੋਜੀ ਐਂਡ ਅਲਾਇਡ ਸਾਇੰਸਿਜ਼ (DIPAS)

Question ID : **630680113604**
Option 1 ID : **630680439950**
Option 2 ID : **630680439953**
Option 3 ID : **630680439952**
Option 4 ID : **630680439951**
Status : **Not Answered**
Chosen Option : **--**

Q.36 ਸਾਲ 2020 ਵਿੱਚ ਐਸ ਰਾਮਾਨੁਜਨ ਦੀ 100ਵੀਂ ਜਨਮ ਵਰੇਗੰਢ ਮਨਾਈ ਗਈ। ਇਸ ਸੰਦਰਭ ਵਿੱਚ, ਹੇਠਾਂ ਦਿੱਤੀਆਂ ਸੰਖਿਆਵਾਂ ਵਿੱਚੋਂ ਕਿਸ ਨੂੰ 'ਹਾਰਡੀ ਰਾਮਾਨੁਜਨ ਸੰਖਿਆ' ਕਿਹਾ ਜਾਂਦਾ ਹੈ?

Ans
✗ 1. 1728
✓ 2. 1729
✗ 3. 1730
✗ 4. 1727

Question ID : **63068062016**
Option 1 ID : **630680239384**
Option 2 ID : **630680239383**
Option 3 ID : **630680239382**
Option 4 ID : **630680239385**
Status : **Not Answered**
Chosen Option : **--**

Website - www.dailyjobalert.in

Q.37 ਭਾਰਤੀ ਸੰਵਿਧਾਨ ਦੇ ਆਰਟੀਕਲ 11 ਦੇ ਤਹਿਤ, ਹੇਠਾਂ ਦਿੱਤਿਆਂ ਵਿੱਚੋਂ ਕਿਸ ਨੂੰ ਨਾਗਰਿਕਤਾ ਦੀ ਪ੍ਰਾਪਤੀ ਅਤੇ ਸਮਾਪਤੀ ਅਤੇ ਨਾਗਰਿਕਤਾ ਨਾਲ ਸੰਬੰਧਤ ਹੋਰ ਸਾਰੇ ਮਾਮਲਿਆਂ ਦੇ ਸੰਬੰਧ ਵਿੱਚ ਕੋਈ ਪ੍ਰਬੰਧ ਕਰਨ ਦਾ ਅਧਿਕਾਰ ਹੈ?

Ans
✗ 1. ਕੇਂਦਰੀ ਸੁਰੱਖਿਆ ਮੰਤਰਾਲਿਆ
✗ 2. ਭਾਰਤ ਦਾ ਚੋਣ ਕਮਿਸ਼ਨ
✗ 3. ਭਾਰਤ ਦੀ ਸੁਪਰੀਮ ਕੋਰਟ
✓ 4. ਭਾਰਤ ਦੀ ਸੰਸਦ

Question ID : **630680146504**
Option 1 ID : **630680566898**
Option 2 ID : **630680566899**
Option 3 ID : **630680566901**
Option 4 ID : **630680566900**
Status : **Answered**
Chosen Option : **4**

Q.38 ਭਾਰਤ ਵਿੱਚ ਹਰੀ ਕ੍ਰਾਂਤੀ ਦੇ ਪਹਿਲੇ ਪੜਾਅ ਦੀ ਮਿਆਦ _____ ਸੀ।

Ans
✗ 1. 1985-1990
✓ 2. 1965-1975
✗ 3. 1980-1985
✗ 4. 1950-1960

Question ID : **63068059041**
Option 1 ID : **630680227789**
Option 2 ID : **630680227787**
Option 3 ID : **630680227788**
Option 4 ID : **630680227786**
Status : **Answered**
Chosen Option : **2**

Q.39 Which Article of the Indian Constitution deals with the right to work, to education and to public assistance in certain cases?

Ans
✗ 1. Article 31
✗ 2. Article 61
✓ 3. Article 41
✗ 4. Article 51

Question ID : **630680238388**
Option 1 ID : **630680924571**
Option 2 ID : **630680924570**
Option 3 ID : **630680924568**
Option 4 ID : **630680924569**
Status : **Answered**
Chosen Option : **3**

Website - www.dailyjobalert.in

Q.40 ਨਵੰਬਰ 2021 ਵਿੱਚ ਕਿਹੜਾ ਕ੍ਰਿਕਟਰ ਆਸਟ੍ਰੇਲੀਆ ਦੀ ਬਿਗ ਬੈਸ਼ ਲੀਗ ਦੁਆਰਾ ਸਾਈਨ ਕੀਤਾ ਗਿਆ ਪਹਿਲਾ ਭਾਰਤੀ ਪੁਰਸ਼ ਕ੍ਰਿਕਟਰ ਬਣਿਆ?

Ans
1. ਸਮਿਤ ਪਟੇਲ
2. ਰਿਸ਼ਭ ਪੰਤ
3. ਉਨਮੁਕਤ ਚੰਦ
4. ਰਜਤ ਭਾਟੀਆ

Question ID : **63068061976**
Option 1 ID : **630680239222**
Option 2 ID : **630680239225**
Option 3 ID : **630680239224**
Option 4 ID : **630680239223**
Status : **Answered**
Chosen Option : **3**

Q.41 ਹੇਠ ਦਿੱਤਿਆਂ ਵਿੱਚੋਂ ਕਿਸਨੇ ਅਲੀਗੜ੍ਹ ਵਿੱਚ ਮੋਹੰਮਡਣ ਐਂਗਲੋ ਓਰੀਐਂਟਲ ਕਾਲਜ ਦੀ ਸਥਾਪਨਾ ਕੀਤੀ ਸੀ?

Ans
1. ਸਈਅਦ ਅਹਿਮਦ ਖਾਨ
2. ਸ਼ਰੀਅਤ ਉਲਾਹ
3. ਸੈਅਦ ਅਹਿਮਦ ਬਰੇਲਵੀ
4. ਟੀਟੂ ਮਿਰ

Question ID : **630680118105**
Option 1 ID : **630680457599**
Option 2 ID : **630680457598**
Option 3 ID : **630680457601**
Option 4 ID : **630680457600**
Status : **Not Answered**
Chosen Option : **--**

Q.42 ਹੇਠ ਦਿੱਤਿਆਂ ਵਿੱਚੋਂ ਕਿਹੜੇ ਸੁਤੰਤਰਤਾ ਸੈਨਾਨੀ ਨੇ ਪ੍ਰਸਿੱਧ ਨਾਅਰਾ "ਸਵਰਾਜ ਮੇਰਾ ਜਨਮ ਸਿੱਧ ਅਧਿਕਾਰ ਹੈ ਅਤੇ ਮੈਂ ਇਸਨੂੰ ਲੈਕੇ ਰਹਾਂਗਾ" ਦਿੱਤਾ ਸੀ?

Ans
1. ਬਾਲ ਗੰਗਾਧਰ ਤਿਲਕ
2. ਲਾਲਾ ਲਾਜਪਤ ਰਾਏ
3. ਗੋਪਾਲ ਕ੍ਰਿਸ਼ਨ ਗੋਖਲੇ
4. ਮਹਾਤਮਾ ਗਾਂਧੀ

Question ID : **630680146022**
Option 1 ID : **630680564986**
Option 2 ID : **630680564988**
Option 3 ID : **630680564989**
Option 4 ID : **630680564987**
Status : **Answered**
Chosen Option : **1**

Website - www.dailyjobalert.in

Q.43 ਨੈਤਿਕਤਾ ਦੀਆਂ ਹੇਠ ਲਿਖੀਆਂ ਸ਼ਾਖਾਵਾਂ ਵਿੱਚੋਂ ਕਿਹੜੀ ਨਿੱਜੀ ਅਤੇ ਜਨਤਕ ਜੀਵਨ ਵਿੱਚ ਖਾਸ ਨੈਤਿਕ ਮੁੱਦਿਆਂ ਦੀ ਦਾਰਸ਼ਨਿਕ ਜਾਂਚ ਨਾਲ ਸਬੰਧਤ ਹੈ, ਜਿਸ ਵਿੱਚ ਨੈਤਿਕ ਨਿਰਨੇ ਸ਼ਾਮਲ ਹਨ?

Ans

✗ 1. ਅਧਿਨਿਤੀ ਸ਼ਾਸਤਰ

✗ 2. ਆਦਰਸ਼ਕ ਨੈਤਿਕਤਾ

✗ 3. ਵਰਣਨਾਤਮਕ ਨੈਤਿਕਤਾ

✓ 4. ਵਿਹਾਰਕ ਨੈਤਿਕਤਾ

Question ID : **630680238347**
Option 1 ID : **630680924406**
Option 2 ID : **630680924404**
Option 3 ID : **630680924405**
Option 4 ID : **630680924407**
Status : **Answered**
Chosen Option : **2**

Q.44 What are the functions of morphine narcotics?

Ans

✓ 1. Provides relief from postoperative pain, cardiac pain and pains of terminal cancer and in child birth

✗ 2. Effective treatment towards syphilis

✗ 3. Helps the prevention of heart attacks

✗ 4. Helps in reducing fever

Question ID : **63068059168**
Option 1 ID : **630680228294**
Option 2 ID : **630680228296**
Option 3 ID : **630680228297**
Option 4 ID : **630680228295**
Status : **Not Answered**
Chosen Option : **--**

Q.45 ਲੋਧੀ ਕਿਲ੍ਹਾ, ਜਿਸ ਨੂੰ ਪੁਰਾਣਾ ਕਿਲ੍ਹਾ ਵੀ ਕਿਹਾ ਜਾਂਦਾ ਹੈ, ਕਿਸ ਨਦੀ ਦੇ ਕੰਢੇ 'ਤੇ ਬਣਾਇਆ ਗਿਆ ਹੈ?

Ans

✗ 1. ਰਾਵੀ

✓ 2. ਸਤਲੁਜ

✗ 3. ਬਿਆਸ

✗ 4. ਘੱਗਰ

Question ID : **630680238451**
Option 1 ID : **630680924820**
Option 2 ID : **630680924822**
Option 3 ID : **630680924821**
Option 4 ID : **630680924823**
Status : **Answered**
Chosen Option : **1**

DAILY JOB Alert ਪੰਜਾਬ

Q.46 ਦਿੱਲੀ ਦਾ ਲੋਟਸ ਟੈਂਪਲ (Lotus Temple) _____ ਵਿਸ਼ਵਾਸੀਆਂ ਦਾ ਪੂਜਾ ਸਥਾਨ ਹੈ।

Ans
✔ 1. ਬਹਈ
✘ 2. ਜੈਨ
✘ 3. ਸਿੱਖ
✘ 4. ਬੁੱਧ

Question ID : **630680183677**
Option 1 ID : **630680711719**
Option 2 ID : **630680711720**
Option 3 ID : **630680711718**
Option 4 ID : **630680711717**
Status : **Answered**
Chosen Option : **2**

Q.47 ਭਾਰਤ ਵਿੱਚ ਇੱਕ ਰਾਜਪਾਲ ਦੀ ਨਿਯੁਕਤੀ ਲਈ ਘੱਟੋ-ਘੱਟ ਯੋਗ ਉਮਰ ਦੀ ਯੋਗਤਾ ਕੀ ਹੈ?

Ans
✘ 1. 30 ਸਾਲ
✔ 2. 35 ਸਾਲ
✘ 3. 25 ਸਾਲ
✘ 4. 40 ਸਾਲ

Question ID : **630680100475**
Option 1 ID : **630680390597**
Option 2 ID : **630680390598**
Option 3 ID : **630680390596**
Option 4 ID : **630680390599**
Status : **Answered**
Chosen Option : **2**

Q.48 ਸੂਚੀ-1 (ਮੰਦਿਰ ਦਾ ਨਾਮ) ਦਾ ਸੂਚੀ-2 (ਵਸਤੂਕਲਾ ਸ਼ੈਲੀ) ਨਾਲ ਮੇਲ ਕਰੋ ।

ਸੂਚੀ-1 (ਮੰਦਿਰ ਦਾ ਨਾਮ)	ਸੂਚੀ-2 (ਵਸਤੂਕਲਾ ਸ਼ੈਲੀ)
1. ਲਕਸ਼ਮਣ ਮੰਦਿਰ, ਖੁਜਰਾਹੋ	A. ਨਾਗਰ ਸ਼ੈਲੀ
2. ਹੋਆਸਲੇਸਵਰ ਮੰਦਿਰ, ਹਾਲੇਬਿਡ	B. ਦ੍ਰਾਵਿੜਿਅਨ ਸ਼ੈਲੀ
3. ਸ਼ੋਰ ਮੰਦਿਰ, ਮਹਾਂਬਲੀਪੁਰਮ	C. ਵੇਸਰ ਸ਼ੈਲੀ

Ans
✔ 1. 1-A, 2-C, 3-B
✘ 2. 1-C, 2-B, 3-A
✘ 3. 1-B, 2-A, 3-C
✘ 4. 1-C, 2-A, 3-B

Question ID : **630680139306**
Option 1 ID : **630680539301**
Option 2 ID : **630680539298**
Option 3 ID : **630680539299**
Option 4 ID : **630680539300**
Status : **Not Answered**
Chosen Option : **--**

Website - www.dailyjobalert.in

Q.49 ਚਿਪਕੋ ਅੰਦੋਲਨ ਦੀ ਸ਼ੁਰੂਆਤ ਸਾਲ _____ ਵਿੱਚ ਹੋਈ।

Ans
✔ 1. 1973
✘ 2. 1986
✘ 3. 1979
✘ 4. 1968

Question ID : **63068085280**
Option 1 ID : **630680330625**
Option 2 ID : **630680330624**
Option 3 ID : **630680330627**
Option 4 ID : **630680330626**
Status : **Answered**
Chosen Option : **2**

Q.50 ਹੇਠ ਦਿੱਤਿਆਂ ਵਿੱਚੋਂ ਕਿਹੜੇ ਗ੍ਰੰਥ ਵਿੱਚ ਬਿੰਦੂਸਾਰ ਦੇ ਸ਼ਾਸਨ ਕਾਲ ਵਿੱਚ ਤਕਸ਼ਿਲਾ ਵਿੱਚ ਹੋਏ ਵਿਦਰੋਹ ਦਾ ਉਲੇਖ ਹੈ?

Ans
✘ 1. ਮਹਾਭਾਸ਼ੇ
✔ 2. ਦਿਵਯਦਾਨ
✘ 3. ਮੁਦਰਾਰਾਕਸ਼ਸ
✘ 4. ਇੰਡੀਕਾ

Question ID : **63068053057**
Option 1 ID : **630680204330**
Option 2 ID : **630680204331**
Option 3 ID : **630680204333**
Option 4 ID : **630680204332**
Status : **Answered**
Chosen Option : **4**

Section : **Quantitative Aptitude and Numerical Skills**

Q.51 $(243)^{0.8} \div (243)^{0.4}$ ਦਾ ਮੁੱਲ ਪਤਾ ਕਰੋ।

Ans
✘ 1. 7
✘ 2. 6
✘ 3. 8
✔ 4. 9

Question ID : **630680105227**
Option 1 ID : **630680408989**
Option 2 ID : **630680408990**
Option 3 ID : **630680408988**
Option 4 ID : **630680408987**
Status : **Not Answered**
Chosen Option : **--**

Website - www.dailyjobalert.in

Q.52 ਦੋ ਸਟੇਸ਼ਨ A ਅਤੇ B ਵਿਚਕਾਰ ਦੂਰੀ 778 km ਹੈ। ਰੇਲਗੱਡੀ 84 km/h ਦੀ ਚਾਲ ਨਾਲ A ਤੋਂ B ਤੱਕ ਦੀ ਯਾਤਰਾ ਤੈਅ ਕਰਦੀ ਹੈ ਅਤੇ 56 km/h ਦੀ ਇਕਸਮਾਨ ਚਾਲ ਨਾਲ ਵਾਪਸ A 'ਤੇ ਆਉਂਦੀ ਹੈ। ਪੂਰੀ ਯਾਤਰਾ ਦੌਰਾਨ ਰੇਲਗੱਡੀ ਦੀ ਔਸਤ ਚਾਲ ਪਤਾ ਕਰੋ।

Ans
✗ 1. 65.2 km/h
✗ 2. 65.7 km/h
✗ 3. 56.7 km/h
✓ 4. 67.2 km/h

Question ID : **630680108193**
Option 1 ID : **630680419836**
Option 2 ID : **630680419839**
Option 3 ID : **630680419838**
Option 4 ID : **630680419837**
Status : **Answered**
Chosen Option : **4**

Q.53 ਜੇਕਰ A: B =2: 4 ਹੈ, B:C= 3:5 ਅਤੇ C:D= 4:6 ਹੈ, ਤਾਂ A:D _____ ਦੇ ਬਰਾਬਰ ਹੈ।

Ans
✓ 1. 6:30
✗ 2. 8:24
✗ 3. 5:10
✗ 4. 7:21

Question ID : **630680135750**
Option 1 ID : **630680525719**
Option 2 ID : **630680525721**
Option 3 ID : **630680525718**
Option 4 ID : **630680525720**
Status : **Answered**
Chosen Option : **1**

Q.54 ਜੇਕਰ 'P', '+' ਨੂੰ ਦਰਸਾਉਂਦਾ ਹੈ, 'Q', '–' ਨੂੰ ਦਰਸਾਉਂਦਾ ਹੈ, 'R', '×' ਨੂੰ ਦਰਸਾਉਂਦਾ ਹੈ ਅਤੇ 'S', '÷' ਨੂੰ ਦਰਸਾਉਂਦਾ ਹੈ, ਤਾਂ
120 Q 8 R 72 S 8 P 45
ਦਾ ਮੁੱਲ ਕਿੰਨਾ ਹੋਵੇਗਾ?

Ans
✓ 1. 93
✗ 2. 95
✗ 3. 92
✗ 4. 94

Question ID : **630680107259**
Option 1 ID : **630680416423**
Option 2 ID : **630680416422**
Option 3 ID : **630680416421**
Option 4 ID : **630680416420**
Status : **Answered**
Chosen Option : **1**

Website - www.dailyjobalert.in

Q.55 ਦੋ ਪਾਈਪਾਂ A ਅਤੇ B ਵੱਖਰੇ ਤੌਰ 'ਤੇ ਕ੍ਰਮਵਾਰ 130 ਮਿੰਟਾਂ ਅਤੇ 195 ਮਿੰਟਾਂ ਵਿੱਚ ਇੱਕ ਟੈਂਕ ਨੂੰ ਭਰ ਸਕਦੀਆਂ ਹਨ। ਟੈਂਕ ਦੇ ਤਲ ਵਿੱਚ ਇੱਕ ਨਿਕਾਸੀ ਪਾਈਪ C ਹੈ। ਜੇਕਰ ਤਿੰਨੋਂ ਪਾਈਪਾਂ ਨੂੰ ਇਕੱਠੇ ਖੋਲ ਦਿੱਤਾ ਜਾਵੇ ਤਾਂ ਟੈਂਕ 234 ਮਿੰਟਾਂ ਵਿੱਚ ਭਰ ਜਾਂਦਾ ਹੈ, ਤਾਂ ਪਾਈਪ C ਨੂੰ ਟੈਂਕ ਨੂੰ ਖਾਲੀ ਕਰਨ ਵਿੱਚ ਕਿੰਨਾ ਸਮਾਂ ਲੱਗੇਗਾ?

Ans
✗ 1. 130 ਮਿੰਟ
✓ 2. 117 ਮਿੰਟ
✗ 3. 224 ਮਿੰਟ
✗ 4. 195 ਮਿੰਟ

Question ID : **630680212926**
Option 1 ID : **630680825792**
Option 2 ID : **630680825791**
Option 3 ID : **630680825793**
Option 4 ID : **630680825794**
Status : **Answered**
Chosen Option : **3**

Q.56 ਇੱਕ ਸਮਭੁਜ ਤਿਕੋਣ ਦਾ ਖੇਤਰਫਲ ਪਤਾ ਕਰੋ ਜਿਸਦੀ ਭੁਜਾ 12 cm ਹੈ।

Ans
✗ 1. $38\sqrt{3}\ cm^2$
✓ 2. $36\sqrt{3}\ cm^2$
✗ 3. $144\sqrt{3}\ cm^2$
✗ 4. $3\sqrt{3}\ cm^2$

Question ID : **630680108917**
Option 1 ID : **630680422560**
Option 2 ID : **630680422561**
Option 3 ID : **630680422562**
Option 4 ID : **630680422563**
Status : **Answered**
Chosen Option : **3**

Q.57 ਰੇਲਗੱਡੀ ਦੀ ਚਾਲ 108 km/h ਹੈ। ਰੇਲਗੱਡੀ ਦੁਆਰਾ 7 ਸਕਿੰਟਾਂ ਵਿੱਚ ਤੈਅ ਕੀਤੀ ਦੂਰੀ ਪਤਾ ਕਰੋ।

Ans
✗ 1. 500 ਮੀਟਰ
✓ 2. 210 ਮੀਟਰ
✗ 3. 410 ਮੀਟਰ
✗ 4. 320 ਮੀਟਰ

Question ID : **630680104033**
Option 1 ID : **630680404347**
Option 2 ID : **630680404348**
Option 3 ID : **630680404350**
Option 4 ID : **630680404349**
Status : **Answered**
Chosen Option : **2**

DAILY JOB Alert

Q.58 How many numbers between 31 and 250 are divisible by 2, 3 and 5?

Ans
✗ 1. 6
✗ 2. 9
✗ 3. 8
✓ 4. 7

Question ID : **63068084234**
Option 1 ID : **630680326465**
Option 2 ID : **630680326466**
Option 3 ID : **630680326464**
Option 4 ID : **630680326467**
Status : **Not Answered**
Chosen Option : **--**

Q.59 ਕ੍ਰਮਵਾਰ 6cm, 8cm ਅਤੇ 10cm ਅਰਧ-ਵਿਆਸ ਵਾਲੇ ਧਾਤਵੀ ਗੋਲਿਆਂ ਨੂੰ ਇੱਕ ਠੋਸ ਗੋਲਾ ਬਣਾਉਣ ਲਈ ਪਿਘਲਾਇਆ ਜਾਂਦਾ ਹੈ, ਨਤੀਜੇ ਵਜੋਂ ਪ੍ਰਾਪਤ ਗੋਲੇ ਦਾ ਅਰਧ-ਵਿਆਸ ਪਤਾ ਕਰੋ।

Ans
✓ 1. 12 cm
✗ 2. 24 cm
✗ 3. 48 cm
✗ 4. 36 cm

Question ID : **630680109275**
Option 1 ID : **630680423881**
Option 2 ID : **630680423880**
Option 3 ID : **630680423883**
Option 4 ID : **630680423882**
Status : **Not Answered**
Chosen Option : **--**

Q.60 Find the rate of discount when the selling price and marked price are in the ratio 12:15.

Ans
✗ 1. 18%
✓ 2. 20%
✗ 3. 22%
✗ 4. 15%

Question ID : **630680106795**
Option 1 ID : **630680414797**
Option 2 ID : **630680414798**
Option 3 ID : **630680414799**
Option 4 ID : **630680414796**
Status : **Answered**
Chosen Option : **2**

Website - www.dailyjobalert.in

Q.61 ਇੱਕ ਦੁਕਾਨਦਾਰ ਨੂੰ ਆਪਣੀਆ ਵਸਤੂਆਂ ਉੱਤੇ ਖਰੀਦ ਮੁੱਲ ਤੋਂ ਕਿੰਨੇ ਪ੍ਰਤੀਸ਼ਤ ਵੱਧ ਮੁੱਲ ਅੰਕਿਤ ਕਰਨਾ ਚਾਹੀਦਾ ਹੈ ਤਾਂ ਜੋ ਅੰਕਿਤ ਮੁੱਲ ਉੱਤੇ 15% ਦੀ ਛੋਟ ਦੇਣ ਦੇ ਬਾਵਜੂਦ ਵੀ ਉਸ ਨੂੰ 30% ਲਾਭ ਹੋਵੇ?

Ans
1. 51.9%
2. 53.9%
3. 52.9% ✔
4. 50.9%

Question ID : **630680135743**
Option 1 ID : **630680525692**
Option 2 ID : **630680525690**
Option 3 ID : **630680525691**
Option 4 ID : **630680525693**
Status : **Not Answered**
Chosen Option : **--**

Q.62 $\left[2\frac{3}{4} \div \left\{1\frac{1}{6} - \frac{1}{3}\left(1\frac{1}{3} - \left|\frac{1}{6} - \frac{1}{12}\right|\right)\right\}\right] \div \frac{1}{3} \text{ of } 5\frac{1}{2}$ ਸਰਲ ਕਰੋ।

Ans
1. $\frac{1}{12}$
2. 2 ✔
3. 3
4. $\frac{1}{6}$

Question ID : **630680182966**
Option 1 ID : **630680708958**
Option 2 ID : **630680708960**
Option 3 ID : **630680708959**
Option 4 ID : **630680708957**
Status : **Not Answered**
Chosen Option : **--**

Q.63 What will be the compound interest on ₹4,000 at 4% per annum in a year if the interest is compounded half-yearly?

Ans
1. ₹180.60
2. ₹140.40
3. ₹161.60 ✔
4. ₹200.40

Question ID : **630680138523**
Option 1 ID : **630680536282**
Option 2 ID : **630680536285**
Option 3 ID : **630680536284**
Option 4 ID : **630680536283**
Status : **Answered**
Chosen Option : **3**

Website - www.dailyjobalert.in

Q.64 $\frac{0.93^3-0.7^3}{0.93^2+0.651+0.7^2}=?$

Ans
✔ 1. 0.23

✘ 2. 1

✘ 3. 0.86

✘ 4. 0.21

Question ID : **630680102872**
Option 1 ID : **630680399750**
Option 2 ID : **630680399748**
Option 3 ID : **630680399747**
Option 4 ID : **630680399749**
Status : **Answered**
Chosen Option : **3**

Q.65 ਹੇਠ ਦਿੱਤੀ ਵਿਅੰਜਕ ਸਰਲ ਕਰੋ।

$$\frac{x^2+3x-54}{x^2-36}+\frac{9}{(x+6)^2}-\frac{3}{4}$$

Ans
✘ 1. $1+\frac{3}{(x+6)}$

✔ 2. $\left(\frac{3}{(x+6)}+\frac{1}{2}\right)^2$

✘ 3. $\left(\frac{3}{(x+6)}-\frac{1}{2}\right)^2$

✘ 4. $\frac{3}{(x+6)}+\frac{1}{4}$

Question ID : **630680180142**
Option 1 ID : **630680698315**
Option 2 ID : **630680698313**
Option 3 ID : **630680698314**
Option 4 ID : **630680698312**
Status : **Not Answered**
Chosen Option : **--**

DAILY JOB Alert ਪੰਜਾਬ

Q.66 In a school function, what will be the maximum number of students among whom 1017 cakes and 904 chocolates can be distributed in such a way that each student gets the same number of cakes and chocolates?

Ans
✔ 1. 113
✘ 2. 894
✘ 3. 904
✘ 4. 240

Question ID : **630680153031**
Option 1 ID : **630680592065**
Option 2 ID : **630680592067**
Option 3 ID : **630680592066**
Option 4 ID : **630680592064**
Status : **Answered**
Chosen Option : **1**

Q.67 ਇਹਨਾਂ ਵਿੱਚੋਂ ਕਿਹੜਾ 12 ਨਾਲ ਪੂਰਨ ਤੌਰ 'ਤੇ ਭਾਗਯੋਗ ਹੈ?

Ans
✘ 1. 45628796
✔ 2. 45236856
✘ 3. 56287445
✘ 4. 56924741

Question ID : **630680102869**
Option 1 ID : **630680399738**
Option 2 ID : **630680399735**
Option 3 ID : **630680399736**
Option 4 ID : **630680399737**
Status : **Answered**
Chosen Option : **4**

Q.68 ਅਸ਼ੋਕ 2% ਸਲਾਨਾ ਦਰ ਨਾਲ ਸਧਾਰਨ ਵਿਆਜ 'ਤੇ 1 ਸਾਲ ਲਈ ₹4,250 ਉਧਾਰ ਲੈਂਦਾ ਹੈ। ਉਹ ਤੁਰੰਤ ਇਸਨੂੰ ਕਿਸੇ ਹੋਰ ਵਿਅਕਤੀ ਨੂੰ 1 ਸਾਲ ਲਈ 5% ਪ੍ਰਤੀ ਸਾਲ ਦੀ ਦਰ ਦੇ ਹਿਸਾਬ ਨਾਲ ਉਧਾਰ ਦਿੰਦਾ ਹੈ। ਉਸ ਸਾਲ ਲਈ ਉਸਨੂੰ ਕਿੰਨਾ ਵਿਆਜ ਮਿਲਦਾ ਹੈ?

Ans
✘ 1. ₹140.8
✘ 2. ₹160.5
✘ 3. ₹150.8
✔ 4. ₹127.5

Question ID : **630680144654**
Option 1 ID : **630680559662**
Option 2 ID : **630680559664**
Option 3 ID : **630680559663**
Option 4 ID : **630680559665**
Status : **Answered**
Chosen Option : **4**

DAILY JOB Alert ਪੰਜਾਬ

Q.69 7 cm ਅਰਧ-ਵਿਆਸ ਵਾਲੇ ਇੱਕ ਸ਼ੰਕੂ ਦਾ ਆਇਤਨ $735\pi\ cm^3$ ਹੈ। ਇਸਦੀ ਉਚਾਈ ਪਤਾ ਕਰੋ।

Ans
1. 40 cm
2. 49 cm
3. 42 cm
4. 45 cm ✔

Question ID : **630680103191**
Option 1 ID : **630680401024**
Option 2 ID : **630680401023**
Option 3 ID : **630680401026**
Option 4 ID : **630680401025**
Status : **Not Answered**
Chosen Option : **--**

Q.70 8 ਵਿਅਕਤੀਆਂ ਦੇ ਬੈਠਣ ਲਈ ਇੱਕ ਸ਼ੰਕੂ-ਆਕਾਰੀ ਤੰਬੂ ਦੀ ਲੋੜ ਹੈ ਅਤੇ ਹਰੇਕ ਵਿਅਕਤੀ ਨੂੰ ਜਮੀਨ ਉੱਤੇ 10 cm^2 ਸਥਾਨ ਅਤੇ ਸਾਹ ਲੈਣ ਲਈ 200 ਘਣ ਮੀਟਰ ਹਵਾ ਦੀ ਲੋੜ ਹੁੰਦੀ ਹੈ। ਤੰਬੂ ਦੀ ਲੰਬਕਾਰੀ ਉਚਾਈ ਪਤਾ ਕਰੋ।

Ans
1. 60 m ✔
2. 65 m
3. 58 m
4. 66 m

Question ID : **63068087397**
Option 1 ID : **630680338979**
Option 2 ID : **630680338980**
Option 3 ID : **630680338978**
Option 4 ID : **630680338977**
Status : **Not Answered**
Chosen Option : **--**

Q.71 ਜੇਕਰ ਇੱਕ ਅਰਧ-ਗੋਲੇ ਦਾ ਆਇਤਨ 18π ਘਣ ਇਕਾਈ ਹੈ, ਤਾਂ ਇਸ ਅਰਧ-ਗੋਲੇ ਦਾ ਅਰਧ-ਵਿਆਸ ਪਤਾ ਕਰੋ।

Ans
1. 3 ਇਕਾਈਆਂ ✔
2. 4 ਇਕਾਈਆਂ
3. 2 ਇਕਾਈਆਂ
4. 6 ਇਕਾਈਆਂ

Question ID : **630680109090**
Option 1 ID : **630680423179**
Option 2 ID : **630680423178**
Option 3 ID : **630680423176**
Option 4 ID : **630680423177**
Status : **Answered**
Chosen Option : **1**

Website - www.dailyjobalert.in

Q.72 Find the 3rd proportional to 3 and 15 in the given order.

Ans
✗ 1. 9
✗ 2. 21
✗ 3. 35
✓ 4. 75

Question ID : **630680108774**
Option 1 ID : **630680422011**
Option 2 ID : **630680422008**
Option 3 ID : **630680422009**
Option 4 ID : **630680422010**
Status : **Answered**
Chosen Option : **4**

Q.73 A, B and C started a business by investing in the ratio 5:4:3. C manages the business and charges ₹x per month as salary. After one year, A and C gets equal share. What is the salary (in ₹) per month of C if B gets ₹36,000 as profit from the business?

Ans
✓ 1. 1,500
✗ 2. 1,800
✗ 3. 2,400
✗ 4. 2,100

Question ID : **63068094954**
Option 1 ID : **630680368511**
Option 2 ID : **630680368512**
Option 3 ID : **630680368514**
Option 4 ID : **630680368513**
Status : **Answered**
Chosen Option : **1**

DAILY JOB Alert ਪੰਜਾਬ

Q.74 ਇੱਕ ਅਪਾਰਟਮੈਂਟ ਵਿੱਚ 85 ਫਲੈਟ ਹਨ। ਹੇਠਾਂ ਦਿੱਤੀ ਗਈ ਬਾਰੰਬਾਰਤਾ ਵੰਡ ਬਿਜਲੀ ਦੀ ਮਹੀਨਾਵਾਰ ਖਪਤ ਨੂੰ ਦਰਸਾਉਂਦੀ ਹੈ।

ਪ੍ਰਤੀ ਫਲੈਟ ਔਸਤ ਖਪਤ ਕਿੰਨੀ ਹੋਵੇਗੀ?

ਮਹੀਨਾਵਾਰ ਖਪਤ (ਇਕਾਈਆਂ ਵਿੱਚ)	ਖਪਤਕਾਰਾਂ ਦੀ ਗਿਣਤੀ
51-65	11
66-80	8
81-95	14
96-110	22
111-125	18
126-140	9
141-155	3

Ans

✗ 1. 102.5315

✓ 2. 99.8235

✗ 3. 96.5634

✗ 4. 101.9328

Question ID : **630680183182**
Option 1 ID : **630680709797**
Option 2 ID : **630680709798**
Option 3 ID : **630680709799**
Option 4 ID : **630680709800**
Status : **Not Answered**
Chosen Option : **--**

Q.75 ਦਿੱਤੇ ਵਿਅੰਜਕ ਨੂੰ ਸਰਲ ਕਰੋ।

$$\frac{(-4-6)^4-6^3+\frac{10}{2}}{18-7\div 7-4}$$

Ans

✓ 1. 753

✗ 2. 649

✗ 3. 874

✗ 4. 816

Question ID : **630680208131**
Option 1 ID : **630680806756**
Option 2 ID : **630680806758**
Option 3 ID : **630680806757**
Option 4 ID : **630680806755**
Status : **Not Answered**
Chosen Option : **--**

Website - www.dailyjobalert.in

Q.76 The profit earned by Kapil on selling an article for ₹1,450 is the same as the loss incurred by selling the article for ₹1,280. What is the cost price of the article?

Ans
1. ₹1,385
2. ₹1,355
3. ₹1,365
4. ₹1,405

Question ID : **630680131198**
Option 1 ID : **630680508058**
Option 2 ID : **630680508060**
Option 3 ID : **630680508061**
Option 4 ID : **630680508059**
Status : **Not Answered**
Chosen Option : **--**

Q.77 10 ਵਿਅਕਤੀਆਂ ਦਾ ਔਸਤ ਭਾਰ 2.5 kg ਵੱਧ ਜਾਂਦਾ ਹੈ ਜਦੋਂ ਇੱਕ ਨਵਾਂ ਵਿਅਕਤੀ 70 kg ਭਾਰ ਵਾਲੇ ਵਿਅਕਤੀ ਦੀ ਥਾਂ 'ਤੇ ਆਉਂਦਾ ਹੈ। ਨਵੇਂ ਵਿਅਕਤੀ ਦਾ ਭਾਰ (kg ਵਿੱਚ) ਕਿੰਨਾ ਹੋਵੇਗਾ?

Ans
1. 95
2. 90
3. 70
4. 47.5

Question ID : **630680107361**
Option 1 ID : **630680416809**
Option 2 ID : **630680416811**
Option 3 ID : **630680416810**
Option 4 ID : **630680416808**
Status : **Answered**
Chosen Option : **1**

Q.78 In an asymmetrical distribution, if the mean and median of the distribution are 590 and 470, respectively, then the mode is:

Ans
1. 830
2. 230
3. 320
4. 520

Question ID : **630680198878**
Option 1 ID : **630680771239**
Option 2 ID : **630680771240**
Option 3 ID : **630680771242**
Option 4 ID : **630680771241**
Status : **Not Answered**
Chosen Option : **--**

Website - www.dailyjobalert.in

Q.79 In the new budget, the price of kerosene oil rose by 40%. By what per cent must a person reduce his consumption so that his expenditure on it remains unchanged?

Ans

✔ 1. $28\frac{4}{7}\%$

✘ 2. $28\frac{1}{7}\%$

✘ 3. $28\frac{7}{3}\%$

✘ 4. $28\frac{3}{7}\%$

Question ID : **630680137277**
Option 1 ID : **630680531703**
Option 2 ID : **630680531702**
Option 3 ID : **630680531705**
Option 4 ID : **630680531704**
Status : **Not Answered**
Chosen Option : **--**

Q.80 Simplify the following.
325 × 325 + 275 × 275 − 12 + (4140 ÷ 345)

Ans

✔ 1. 181250

✘ 2. 181550

✘ 3. 181750

✘ 4. 181150

Question ID : **630680139413**
Option 1 ID : **630680539728**
Option 2 ID : **630680539727**
Option 3 ID : **630680539729**
Option 4 ID : **630680539726**
Status : **Not Attempted and Marked For Review**
Chosen Option : **--**

Section : **Punjabi Language**

Q.81 ਹਿੰਗ ਲੱਗੇ ਨਾ ਫਟਕੜੀ ...
ਅਖਾਣ ਨੂੰ ਪੂਰਾ ਕਰੋ।

Ans

✔ 1. ਰੰਗ ਗੂੜਾ ਆਵੇ

✘ 2. ਰੰਗ ਕਿਥੋਂ ਆਵੇ

✘ 3. ਰੰਗ ਫਿੱਕਾ ਆਵੇ

✘ 4. ਇਹ ਕਿਹੋ ਜਿਹੀ ਤੱਕੜੀ

Question ID : **630680241009**
Option 1 ID : **630680934512**
Option 2 ID : **630680934511**
Option 3 ID : **630680934513**
Option 4 ID : **630680934514**
Status : **Answered**
Chosen Option : **4**

Website - www.dailyjobalert.in

Q.82 ਸ਼ੁੱਧ ਸ਼ਬਦ ਦੀ ਚੋਣ ਕਰੋ।

Ans
1. ਸਹੂਰਾ
2. ਸਹੁਰਾ
3. ਸੌਹਰਾ
4. ਸੌਅਰਾ

Question ID : **630680241000**
Option 1 ID : **630680934476**
Option 2 ID : **630680934475**
Option 3 ID : **630680934477**
Option 4 ID : **630680934478**
Status : **Answered**
Chosen Option : **2**

Q.83 "ਉਸ ਨੇ ਸਾਨੂੰ ਦੱਸਿਆ ਨਹੀਂ ਕਿ ਉਹ ਕੱਲ੍ਹ ਨਹੀਂ ਆਵੇਗਾ।" ਵਾਕ ਕਿਹੜੀ ਸ਼ਬਦ ਸ਼੍ਰੇਣੀ ਨੂੰ ਪ੍ਰਗਟਾਉਂਦਾ ਹੈ ?

Ans
1. ਸੰਬੰਧਕ, ਪੂਰਨ ਸੰਬੰਧਕ, ਸਬੰਧੀ 'ਉਸ', ਸਬੰਧਮਾਨ 'ਕੱਲ੍ਹ'
2. ਯੋਜਕ, ਸਮਾਨ ਯੋਜਕ, ਦੋ ਵਾਕਾਂ ਨੂੰ ਜੋੜਦਾ ਹੈ।
3. ਯੋਜਕ, ਅਧੀਨ ਯੋਜਕ, ਪ੍ਰਧਾਨ ਉਪ-ਵਾਕ ਤੇ ਅਧੀਨ ਉਪ-ਵਾਕ ਨੂੰ ਆਪਸ ਵਿੱਚ ਜੋੜਦਾ ਹੈ ।
4. ਵਿਸਮਿਕ, ਹੈਰਾਨੀ-ਵਾਚਕ ਵਿਸਮਿਕ।

Question ID : **630680240998**
Option 1 ID : **630680934467**
Option 2 ID : **630680934469**
Option 3 ID : **630680934468**
Option 4 ID : **630680934470**
Status : **Answered**
Chosen Option : **2**

Q.84 ਹੇਠ ਲਿਖਿਆਂ ਵਿੱਚੋਂ ਕਿਹੜਾ 'ਖੁਸ਼ਬੂ' ਸ਼ਬਦ ਦਾ ਸਮਾਨਾਰਥੀ ਸ਼ਬਦ ਨਹੀਂ ਹੈ ।

Ans
1. ਵਾਸ਼ਨਾ
2. ਖੁਸ਼ੀ
3. ਮਹਿਕ
4. ਸੁਗੰਧ

Question ID : **630680241003**
Option 1 ID : **630680934489**
Option 2 ID : **630680934490**
Option 3 ID : **630680934487**
Option 4 ID : **630680934488**
Status : **Answered**
Chosen Option : **2**

Website - www.dailyjobalert.in

Q.85 'Linguistics a Science of Language or a Scientific study of language.' ਦਾ ਪੰਜਾਬੀ ਵਿੱਚ ਤਰਜਮਾ ਹੈ।

Ans

✗ 1. ਭਾਸ਼ਾ ਇੱਕ ਵਿਗਿਆਨ ਦੀ ਭਾਸ਼ਾ ਜਾਂ ਇੱਕ ਵਿਗਿਆਨ ਦੇ ਅਧਿਐਨ ਦੀ ਭਾਸ਼ਾ ਹੈ।

✓ 2. ਭਾਸ਼ਾ ਵਿਗਿਆਨ ਭਾਸ਼ਾ ਦਾ ਇੱਕ ਵਿਗਿਆਨ ਹੈ ਜਾਂ ਭਾਸ਼ਾ ਦਾ ਇੱਕ ਵਿਗਿਆਨਕ ਅਧਿਐਨ ਹੈ।

✗ 3. ਭਾਸ਼ਾ ਵਿਗਿਆਨ ਦਾ ਅਧਿਐਨ ਹੈ ਜਾਂ ਭਾਸ਼ਾ ਵਿਗਿਆਨਕਾਂ ਦਾ ਅਧਿਐਨ ਹੈ

✗ 4. ਇੱਕ ਵਿਗਿਆਨ ਦੇ ਅਧਿਐਨ ਦੀ ਭਾਸ਼ਾ ਜਾਂ ਭਾਸ਼ਾ ਇੱਕ ਵਿਗਿਆਨ ਦੀ ਭਾਸ਼ਾ ਹੈ।

Question ID : **630680241011**
Option 1 ID : **630680934519**
Option 2 ID : **630680934521**
Option 3 ID : **630680934522**
Option 4 ID : **630680934520**
Status : **Answered**
Chosen Option : **1**

Q.86 ਸਹੀ ਵਿਸਰਾਮ-ਚਿਨ੍ਹ ਵਾਲਾ ਵਾਕ ਚੁਣੋ।

Ans

✗ 1. ਬੇਟਾ ! ਤੁਹਾਡਾ ਨਾਂ ਕੀ ਹੈ।

✓ 2. ਬੇਟਾ, ਤੁਹਾਡਾ ਨਾਂ ਕੀ ਹੈ?

✗ 3. ਬੇਟਾ ਤੁਹਾਡਾ, 'ਨਾਂ' ਕੀ ਹੈ।

✗ 4. ਬੇਟਾ 'ਤੁਹਾਡਾ' ਨਾਂ ਕੀ ਹੈ।

Question ID : **630680240997**
Option 1 ID : **630680934465**
Option 2 ID : **630680934463**
Option 3 ID : **630680934464**
Option 4 ID : **630680934466**
Status : **Answered**
Chosen Option : **1**

Q.87 'ਉਜਾੜ' ਸ਼ਬਦ ਦਾ ਵਿਰੋਧੀ ਹੈ।

Ans

✓ 1. ਵਸੋਂ

✗ 2. ਰੇਤਲਾ

✗ 3. ਸੁੰਨਸਾਨ

✗ 4. ਪਥਰੀਲਾ

Question ID : **630680241005**
Option 1 ID : **630680934497**
Option 2 ID : **630680934495**
Option 3 ID : **630680934496**
Option 4 ID : **630680934498**
Status : **Answered**
Chosen Option : **1**

Website - www.dailyjobalert.in

Q.88 ਬਣਤਰ ਅਨੁਸਾਰ ਵਾਕ ਦੀਆਂ ਕਿੰਨੀਆਂ ਕਿਸਮਾਂ ਹੁੰਦੀਆਂ ਹਨ?

Ans
1. ਪੰਜ
2. ਤਿੰਨ
3. ਦੋ
4. ਚਾਰ

Question ID : **630680240996**
Option 1 ID : **630680934462**
Option 2 ID : **630680934461**
Option 3 ID : **630680934459**
Option 4 ID : **630680934460**
Status : **Answered**
Chosen Option : **3**

Q.89 'ਜਿਹੜਾ ਲੋਕਾਂ 'ਤੇ ਜ਼ੁਲਮ ਕਰੇ' ਉਸ ਨੂੰ ਕੀ ਆਖਦੇ ਹਨ?

Ans
1. ਗੁਸੈਲਾ
2. ਨਿਰਧਨ
3. ਨਿਰਦਈ
4. ਦੁਰਾਚਾਰੀ

Question ID : **630680241006**
Option 1 ID : **630680934499**
Option 2 ID : **630680934501**
Option 3 ID : **630680934502**
Option 4 ID : **630680934500**
Status : **Answered**
Chosen Option : **3**

Q.90 ਹੇਠ ਲਿਖਿਆ ਵਿੱਚੋਂ ਸ਼ੁੱਧ ਸ਼ਬਦ ਚੁਣੋ।

Ans
1. ਏਕ ਸੋ ਪੰਜੀ
2. ਏਕ ਸੌ ਪੰਛੀ
3. ਇੱਕ ਸੌ ਪੰਜੀ
4. ਇੱਕ ਸੌ ਪੱਚੀ

Question ID : **630680241002**
Option 1 ID : **630680934483**
Option 2 ID : **630680934485**
Option 3 ID : **630680934484**
Option 4 ID : **630680934486**
Status : **Answered**
Chosen Option : **4**

Website - www.dailyjobalert.in

Q.91 ਕਿਹੜਾ ਸ਼ਬਦ ਸ਼ੁੱਧ ਹੈ?

Ans
✗ 1. ਬੁਜਾ
✗ 2. ਬੁੱਝਾ
✗ 3. ਬ੍ਰਜਾ
✓ 4. ਬੁਝਾ

Question ID : **630680241001**
Option 1 ID : **630680934479**
Option 2 ID : **630680934482**
Option 3 ID : **630680934480**
Option 4 ID : **630680934481**
Status : **Answered**
Chosen Option : **2**

Q.92 ਪਰਦੇਸ ਗਏ ਪੁੱਤਰ ਦੀ ਉਡੀਕ ਵਿੱਚ ਮਾਪਿਆਂ ਦੀਆਂ....
ਅਖਾਣ ਨੂੰ ਪੂਰਾ ਕਰੋ।

Ans
✗ 1. ਮਨ ਦੀ ਮਨ ਵਿੱਚ ਰਹਿਣੀ
✗ 2. ਅਕਲ 'ਤੇ ਪਰਦੇ ਪੈਣੇ
✗ 3. ਦਿਨ-ਰਾਤ ਇੱਕ ਕਰਨਾ
✓ 4. ਅੱਖਾਂ ਪੱਕ ਜਾਣੀਆਂ

Question ID : **630680241008**
Option 1 ID : **630680934508**
Option 2 ID : **630680934507**
Option 3 ID : **630680934510**
Option 4 ID : **630680934509**
Status : **Answered**
Chosen Option : **4**

Q.93 'ਤੀਵੀਆਂ ਦੇ ਇਸ਼ਨਾਨ ਲਈ ਬਣਾਈ ਗਈ ਨਵੇਕਲੀ ਥਾਂ' ਨੂੰ ਕੀ ਕਿਹਾ ਜਾਂਦਾ ਹੈ?

Ans
✗ 1. ਬੇਟ
✗ 2. ਬੋਲਾ
✓ 3. ਪੋਣਾ
✗ 4. ਢਾਹਾ

Question ID : **630680241007**
Option 1 ID : **630680934506**
Option 2 ID : **630680934504**
Option 3 ID : **630680934505**
Option 4 ID : **630680934503**
Status : **Answered**
Chosen Option : **1**

Website - www.dailyjobalert.in

Q.94 ਹੇਠ ਦਿੱਤੇ ਵਾਕਾਂ ਵਿੱਚ ਯੋਜਕ ਵਾਕ ਚੁਣੋ।

Ans
✔ 1. ਹਰਮਨ ਨੂੰ ਸਨੇਹਾ ਭੇਜੋ ਕਿ ਉਹ ਜਲਦੀ ਆ ਜਾਏ
✗ 2. ਉਹ ਪਾਸ ਹੋ ਗਿਆ ਹੈ।
✗ 3. ਵਿਦਿਆਰਥੀ ਪੜ੍ਹ ਰਹੇ ਹਨ।
✗ 4. ਮੈਂ ਤੁਹਾਨੂੰ ਮਿਲਣ ਆਇਆ ਸੀ।

Question ID : **630680240999**
Option 1 ID : **630680934474**
Option 2 ID : **630680934472**
Option 3 ID : **630680934471**
Option 4 ID : **630680934473**
Status : **Answered**
Chosen Option : **1**

Q.95 'Slang' ਸ਼ਬਦ ਦੇ ਪੰਜਾਬੀ ਵਿੱਚ ਅਰਥ ਹੈ।

Ans
✗ 1. ਉਪਬੋਲੀ
✗ 2. ਆਂਚਲਿਕ
✔ 3. ਅਪਭਾਸ਼ਾ
✗ 4. ਉਪ-ਭਾਸ਼ਾ

Question ID : **630680241010**
Option 1 ID : **630680934515**
Option 2 ID : **630680934516**
Option 3 ID : **630680934517**
Option 4 ID : **630680934518**
Status : **Answered**
Chosen Option : **1**

Q.96 ਵਸਲ, ਜੋੜ, ਮੇਲ ਸ਼ਬਦਾਂ ਦਾ ਕਿਸ ਸ਼ਬਦ ਨਾਲ ਸਬੰਧ ਹੈ।

Ans
✔ 1. ਮਿਲਾਪ
✗ 2. ਸੰਗ
✗ 3. ਵਿਯੋਗ
✗ 4. ਹਿਜਰ

Question ID : **630680241004**
Option 1 ID : **630680934492**
Option 2 ID : **630680934494**
Option 3 ID : **630680934493**
Option 4 ID : **630680934491**
Status : **Answered**
Chosen Option : **1**

Website - www.dailyjobalert.in

Comprehension:

ਅਸੀਂ ਮੰਨਿਆ ਹੈ ਕਿ ਜ਼ਿੰਦਗੀ ਦਾ ਉਦੇਸ਼ ਅਧਿਆਤਮਕ ਪ੍ਰਾਪਤੀ ਹੈ। ਅਨੰਦ ਜਿੱਤ ਦਾ ਲੱਛਣ ਹੈ। ਜਿਹੜੀਆਂ ਕਿਤਾਬਾਂ ਸਾਨੂੰ ਅਨੰਦ ਦਿੰਦੀਆਂ ਹਨ,
ਉਹ ਉਹਨਾਂ ਕਿਤਾਬਾਂ ਨਾਲੋਂ ਵੱਖਰੀਆਂ ਹਨ, ਜੋ ਸਾਡੀਆਂ ਇੰਦਰੀਆਂ ਨੂੰ ਤ੍ਰਿਪਤੀ ਦਿੰਦੀਆਂ ਹਨ। ਅਨੰਦ ਪ੍ਰੌੜ੍ਹਤਾ ਦੀ ਨਿਸ਼ਾਨੀ ਹੈ। ਜਦ ਅਸੀਂ ਕੋਈ ਕਿਤਾਬ ਪੜ੍ਹਦਿਆਂ ਅਨੰਦ ਪਾਉਂਦੇ ਹਾਂ ਤਾਂ ਉਸ ਵਿੱਚ ਲਿਖੇ ਵਿਚਾਰਾਂ ਨਾਲ ਸਾਂਝ ਮਹਿਸੂਸ ਕਰਦੇ ਹਾਂ—ਉਸੇ ਤਰ੍ਹਾਂ ਜਿਵੇਂ ਅਸੀਂ ਸੰਗੀਤ ਸੁਣਦਿਆਂ ਉਸ ਵਿੱਚ ਡੁੱਬ ਜਾਂਦੇ ਹਾਂ।
ਅਨੰਦ ਸਰੀਰਕ ਸੁਖ ਨਾਲੋਂ ਵਧੇਰੇ ਸਥਾਈ ਹੁੰਦਾ ਹੈ ਅਤੇ ਪੀੜ ਵਿੱਚ ਵੀ ਮਾਣਿਆ ਜਾ ਸਕਦਾ ਹੈ। ਜਿਹੜੀਆਂ ਕਿਤਾਬਾਂ ਅਨੰਦ ਪੈਦਾ ਕਰਦੀਆਂ ਹਨ, ਉਹ ਸਾਡੀ ਹਉਮੈ ਨੂੰ ਮਾਰ ਸੁੱਟਦੀਆਂ ਹਨ। ਉਹਨਾਂ ਵਿੱਚ ਨਿਰੀ ਭਾਵੁਕਤਾ ਜਾਂ ਤਕਨੀਕੀ ਚਲਾਕੀ ਨਹੀਂ ਹੁੰਦੀ ਸਗੋਂ ਵਿਚਾਰਾਂ ਨੂੰ ਜਗਾਉਣ ਵਾਲੇ ਮਨੋ ਭਾਵ ਹੁੰਦੇ ਹਨ, ਜਿਨ੍ਹਾਂ ਬਾਰੇ ਗਹਿਰਾਈ ਨਾਲ ਸੋਚਿਆ ਹੁੰਦਾ ਹੈ ।
ਜਿਹੜਾ ਬੰਦਾ ਰਿਸ਼ੀ ਅਰਥਾਤ ਦ੍ਰਸ਼ਟਾ ਨਹੀਂ ਹੈ, ਉਹ ਮਹਾਨ ਸਾਹਿਤ ਦੀ ਸਿਰਜਣਾ ਨਹੀਂ ਕਰ ਸਕਦਾ।

SubQuestion No : 97

Q.97 ਮਹਾਨ ਸਾਹਿਤ ਦੀ ਸਿਰਜਣਾ ਕੌਣ ਕਰਦੇ ਹਨ?

Ans
- ✗ 1. ਜਿਨ੍ਹਾਂ ਦੀਆਂ ਇੰਦਰੀਆਂ ਤ੍ਰਿਪਤੀ ਦਿੰਦੀਆਂ ਹਨ।
- ✓ 2. ਰਿਸ਼ੀ ਹੀ ਮਹਾਨ ਸਾਹਿਤ ਦੀ ਸਿਰਜਣਾ ਕਰਦੇ ਹਨ।
- ✗ 3. ਜਿਨ੍ਹਾਂ ਕੋਲ ਅਧਿਆਤਮਕ ਗਿਆਨ ਹੁੰਦਾ ਹੈ।
- ✗ 4. ਜਿਨ੍ਹਾਂ ਕੋਲ ਭਾਵੁਕਤਾ ਤੇ ਤਕਨੀਕੀ ਨਹੀਂ ਹੁੰਦੀ।

Question ID : **630680241014**
Option 1 ID : **630680934530**
Option 2 ID : **630680934529**
Option 3 ID : **630680934527**
Option 4 ID : **630680934528**
Status : **Answered**
Chosen Option : **2**

Comprehension:

ਅਸੀਂ ਮੰਨਿਆ ਹੈ ਕਿ ਜ਼ਿੰਦਗੀ ਦਾ ਉਦੇਸ਼ ਅਧਿਆਤਮਕ ਪ੍ਰਾਪਤੀ ਹੈ। ਅਨੰਦ ਜਿੱਤ ਦਾ ਲੱਛਣ ਹੈ। ਜਿਹੜੀਆਂ ਕਿਤਾਬਾਂ ਸਾਨੂੰ ਅਨੰਦ ਦਿੰਦੀਆਂ ਹਨ,
ਉਹ ਉਹਨਾਂ ਕਿਤਾਬਾਂ ਨਾਲੋਂ ਵੱਖਰੀਆਂ ਹਨ, ਜੋ ਸਾਡੀਆਂ ਇੰਦਰੀਆਂ ਨੂੰ ਤ੍ਰਿਪਤੀ ਦਿੰਦੀਆਂ ਹਨ। ਅਨੰਦ ਪ੍ਰੌੜ੍ਹਤਾ ਦੀ ਨਿਸ਼ਾਨੀ ਹੈ। ਜਦ ਅਸੀਂ ਕੋਈ ਕਿਤਾਬ ਪੜ੍ਹਦਿਆਂ ਅਨੰਦ ਪਾਉਂਦੇ ਹਾਂ ਤਾਂ ਉਸ ਵਿੱਚ ਲਿਖੇ ਵਿਚਾਰਾਂ ਨਾਲ ਸਾਂਝ ਮਹਿਸੂਸ ਕਰਦੇ ਹਾਂ—ਉਸੇ ਤਰ੍ਹਾਂ ਜਿਵੇਂ ਅਸੀਂ ਸੰਗੀਤ ਸੁਣਦਿਆਂ ਉਸ ਵਿੱਚ ਡੁੱਬ ਜਾਂਦੇ ਹਾਂ।
ਅਨੰਦ ਸਰੀਰਕ ਸੁਖ ਨਾਲੋਂ ਵਧੇਰੇ ਸਥਾਈ ਹੁੰਦਾ ਹੈ ਅਤੇ ਪੀੜ ਵਿੱਚ ਵੀ ਮਾਣਿਆ ਜਾ ਸਕਦਾ ਹੈ। ਜਿਹੜੀਆਂ ਕਿਤਾਬਾਂ ਅਨੰਦ ਪੈਦਾ ਕਰਦੀਆਂ ਹਨ, ਉਹ ਸਾਡੀ ਹਉਮੈ ਨੂੰ ਮਾਰ ਸੁੱਟਦੀਆਂ ਹਨ। ਉਹਨਾਂ ਵਿੱਚ ਨਿਰੀ ਭਾਵੁਕਤਾ ਜਾਂ ਤਕਨੀਕੀ ਚਲਾਕੀ ਨਹੀਂ ਹੁੰਦੀ ਸਗੋਂ ਵਿਚਾਰਾਂ ਨੂੰ ਜਗਾਉਣ ਵਾਲੇ ਮਨੋ ਭਾਵ ਹੁੰਦੇ ਹਨ, ਜਿਨ੍ਹਾਂ ਬਾਰੇ ਗਹਿਰਾਈ ਨਾਲ ਸੋਚਿਆ ਹੁੰਦਾ ਹੈ ।
ਜਿਹੜਾ ਬੰਦਾ ਰਿਸ਼ੀ ਅਰਥਾਤ ਦ੍ਰਸ਼ਟਾ ਨਹੀਂ ਹੈ, ਉਹ ਮਹਾਨ ਸਾਹਿਤ ਦੀ ਸਿਰਜਣਾ ਨਹੀਂ ਕਰ ਸਕਦਾ।

SubQuestion No : 98

Q.98 ਉਪਰੋਕਤ ਦਿੱਤੇ ਪੈਰ੍ਹੇ ਦੇ ਢੁਕਵੇਂ ਸਿਰਲੇਖ ਦੀ ਚੋਣ ਕਰੋ।

Ans
- ✓ 1. ਜ਼ਿੰਦਗੀ ਵਿੱਚ ਪੁਸਤਕਾਂ ਦਾ ਮਹੱਤਵ
- ✗ 2. ਅਨੰਦ ਦੀ ਪ੍ਰਾਪਤੀ
- ✗ 3. ਸਾਹਿਤ ਦੀ ਸਿਰਜਣਾ
- ✗ 4. ਜ਼ਿੰਦਗੀ ਦਾ ਉਦੇਸ਼

Question ID : **630680241013**
Option 1 ID : **630680934526**
Option 2 ID : **630680934524**
Option 3 ID : **630680934525**
Option 4 ID : **630680934523**
Status : **Answered**
Chosen Option : **1**

Website - www.dailyjobalert.in

Comprehension:

ਅਸੀਂ ਮੰਨਿਆ ਹੈ ਕਿ ਜ਼ਿੰਦਗੀ ਦਾ ਉਦੇਸ਼ ਅਧਿਆਤਮਕ ਪ੍ਰਾਪਤੀ ਹੈ। ਅਨੰਦ ਜਿੱਤ ਦਾ ਲੱਛਣ ਹੈ। ਜਿਹੜੀਆਂ ਕਿਤਾਬਾਂ ਸਾਨੂੰ ਅਨੰਦ ਦਿੰਦੀਆਂ ਹਨ,
ਉਹ ਉਹਨਾਂ ਕਿਤਾਬਾਂ ਨਾਲੋਂ ਵੱਖਰੀਆਂ ਹਨ, ਜੋ ਸਾਡੀਆਂ ਇੰਦਰੀਆਂ ਨੂੰ ਤ੍ਰਿਪਤੀ ਦਿੰਦੀਆਂ ਹਨ। ਅਨੰਦ ਪ੍ਰੌੜ੍ਹਤਾ ਦੀ ਨਿਸ਼ਾਨੀ ਹੈ। ਜਦ ਅਸੀਂ ਕੋਈ ਕਿਤਾਬ ਪੜ੍ਹਦਿਆਂ ਅਨੰਦ ਪਾਉਂਦੇ ਹਾਂ ਤਾਂ ਉਸ ਵਿੱਚ ਲਿਖੇ ਵਿਚਾਰਾਂ ਨਾਲ ਸਾਂਝ ਮਹਿਸੂਸ ਕਰਦੇ ਹਾਂ—ਉਸੇ ਤਰ੍ਹਾਂ ਜਿਵੇਂ ਅਸੀਂ ਸੰਗੀਤ ਸੁਣਦਿਆਂ ਉਸ ਵਿੱਚ ਡੁੱਬ ਜਾਂਦੇ ਹਾਂ।
ਅਨੰਦ ਸਰੀਰਕ ਸੁਖ ਨਾਲੋਂ ਵਧੇਰੇ ਸਥਾਈ ਹੁੰਦਾ ਹੈ ਅਤੇ ਪੀੜ ਵਿੱਚ ਵੀ ਮਾਣਿਆ ਜਾ ਸਕਦਾ ਹੈ। ਜਿਹੜੀਆਂ ਕਿਤਾਬਾਂ ਅਨੰਦ ਪੈਦਾ ਕਰਦੀਆਂ ਹਨ, ਉਹ ਸਾਡੀ ਹਉਮੈ ਨੂੰ ਮਾਰ ਸੁੱਟਦੀਆਂ ਹਨ। ਉਹਨਾਂ ਵਿੱਚ ਨਿਰੀ ਭਾਵੁਕਤਾ ਜਾਂ ਤਕਨੀਕੀ ਚਲਾਕੀ ਨਹੀਂ ਹੁੰਦੀ ਸਗੋਂ ਵਿਚਾਰਾਂ ਨੂੰ ਜਗਾਉਣ ਵਾਲੇ ਮਨੋ ਭਾਵ ਹੁੰਦੇ ਹਨ, ਜਿਨ੍ਹਾਂ ਬਾਰੇ ਗਹਿਰਾਈ ਨਾਲ ਸੋਚਿਆ ਹੁੰਦਾ ਹੈ ।
ਜਿਹੜਾ ਬੰਦਾ ਰਿਸ਼ੀ ਅਰਥਾਤ ਦ੍ਰਸ਼ਟਾ ਨਹੀਂ ਹੈ, ਉਹ ਮਹਾਨ ਸਾਹਿਤ ਦੀ ਸਿਰਜਣਾ ਨਹੀਂ ਕਰ ਸਕਦਾ।

SubQuestion No : 99

Q.99 ਅਸੀਂ ਕਿਸ ਨਾਲ ਸਾਂਝ ਮਹਿਸੂਸ ਕਰਦੇ ਹਾਂ?

Ans
- ✗ 1. ਕਿਤਾਬਾਂ ਨਾਲ
- ✗ 2. ਆਨੰਦ ਨਾਲ
- ✗ 3. ਸੰਗੀਤ ਨਾਲ
- ✓ 4. ਵਿਚਾਰਾਂ ਨਾਲ

Question ID : **630680241015**
Option 1 ID : **630680934532**
Option 2 ID : **630680934533**
Option 3 ID : **630680934531**
Option 4 ID : **630680934534**
Status : **Answered**
Chosen Option : **4**

Comprehension:

ਅਸੀਂ ਮੰਨਿਆ ਹੈ ਕਿ ਜ਼ਿੰਦਗੀ ਦਾ ਉਦੇਸ਼ ਅਧਿਆਤਮਕ ਪ੍ਰਾਪਤੀ ਹੈ। ਅਨੰਦ ਜਿੱਤ ਦਾ ਲੱਛਣ ਹੈ। ਜਿਹੜੀਆਂ ਕਿਤਾਬਾਂ ਸਾਨੂੰ ਅਨੰਦ ਦਿੰਦੀਆਂ ਹਨ,
ਉਹ ਉਹਨਾਂ ਕਿਤਾਬਾਂ ਨਾਲੋਂ ਵੱਖਰੀਆਂ ਹਨ, ਜੋ ਸਾਡੀਆਂ ਇੰਦਰੀਆਂ ਨੂੰ ਤ੍ਰਿਪਤੀ ਦਿੰਦੀਆਂ ਹਨ। ਅਨੰਦ ਪ੍ਰੌੜ੍ਹਤਾ ਦੀ ਨਿਸ਼ਾਨੀ ਹੈ। ਜਦ ਅਸੀਂ ਕੋਈ ਕਿਤਾਬ ਪੜ੍ਹਦਿਆਂ ਅਨੰਦ ਪਾਉਂਦੇ ਹਾਂ ਤਾਂ ਉਸ ਵਿੱਚ ਲਿਖੇ ਵਿਚਾਰਾਂ ਨਾਲ ਸਾਂਝ ਮਹਿਸੂਸ ਕਰਦੇ ਹਾਂ—ਉਸੇ ਤਰ੍ਹਾਂ ਜਿਵੇਂ ਅਸੀਂ ਸੰਗੀਤ ਸੁਣਦਿਆਂ ਉਸ ਵਿੱਚ ਡੁੱਬ ਜਾਂਦੇ ਹਾਂ।
ਅਨੰਦ ਸਰੀਰਕ ਸੁਖ ਨਾਲੋਂ ਵਧੇਰੇ ਸਥਾਈ ਹੁੰਦਾ ਹੈ ਅਤੇ ਪੀੜ ਵਿੱਚ ਵੀ ਮਾਣਿਆ ਜਾ ਸਕਦਾ ਹੈ। ਜਿਹੜੀਆਂ ਕਿਤਾਬਾਂ ਅਨੰਦ ਪੈਦਾ ਕਰਦੀਆਂ ਹਨ, ਉਹ ਸਾਡੀ ਹਉਮੈ ਨੂੰ ਮਾਰ ਸੁੱਟਦੀਆਂ ਹਨ। ਉਹਨਾਂ ਵਿੱਚ ਨਿਰੀ ਭਾਵੁਕਤਾ ਜਾਂ ਤਕਨੀਕੀ ਚਲਾਕੀ ਨਹੀਂ ਹੁੰਦੀ ਸਗੋਂ ਵਿਚਾਰਾਂ ਨੂੰ ਜਗਾਉਣ ਵਾਲੇ ਮਨੋ ਭਾਵ ਹੁੰਦੇ ਹਨ, ਜਿਨ੍ਹਾਂ ਬਾਰੇ ਗਹਿਰਾਈ ਨਾਲ ਸੋਚਿਆ ਹੁੰਦਾ ਹੈ ।
ਜਿਹੜਾ ਬੰਦਾ ਰਿਸ਼ੀ ਅਰਥਾਤ ਦ੍ਰਸ਼ਟਾ ਨਹੀਂ ਹੈ, ਉਹ ਮਹਾਨ ਸਾਹਿਤ ਦੀ ਸਿਰਜਣਾ ਨਹੀਂ ਕਰ ਸਕਦਾ।

SubQuestion No : 100

Q.100 'ਤ੍ਰਿਪਤੀ' ਸ਼ਬਦ ਦੇ ਅਰਥ ਦੱਸੋ।

Ans
- ✗ 1. ਖੁਸ਼ੀ
- ✓ 2. ਸੰਤੁਸ਼ਟੀ
- ✗ 3. ਅਨੰਦ
- ✗ 4. ਸੁੱਖ

Question ID : **630680241016**
Option 1 ID : **630680934538**
Option 2 ID : **630680934535**
Option 3 ID : **630680934537**
Option 4 ID : **630680934536**
Status : **Answered**
Chosen Option : **2**

Website - www.dailyjobalert.in

PUNJAB POLICE

Police to its last particle is duty

Exam Name	Recruitment for the post of Sub Inspector in Cadres of District and Armed Police 20th Jun to 31st Jul 2023 Paper I
Application No	www.dailyjobalert.in
Roll No	Telegram - Daily Job Alert Punjab
Applicant Name	instagram - Daily Job Alert Punjab
Exam Date	20/06/2023
Shift	12:30 PM - 2:30 PM
Subject	Sub Inspector Paper I

Section : **General Awareness**

Q.1 ਹੇਠ ਲਿਖੇ ਮੰਤਰਾਲਿਆਂ ਵਿੱਚੋਂ ਕਿਹੜੇ ਮੰਤਰਾਲੇ ਨੇ ਅਗਸਤ 2021 ਵਿੱਚ ਕੁਆਂਟਮ ਕੰਪਿਊਟਰ ਸਿਮੂਲੇਟਰ (QSim) ਟੂਲਕਿੱਟ ਲਾਂਚ ਕੀਤੀ ਸੀ?

Ans
- ✗ 1. ਸਿੱਖਿਆ ਮੰਤਰਾਲਾ
- ✓ 2. ਇਲੈਕਟ੍ਰੋਨਿਕਸ ਅਤੇ ਸੂਚਨਾ ਤਕਨੀਕੀ ਮੰਤਰਾਲਾ
- ✗ 3. ਭੂ ਅਤੇ ਵਿਗਿਆਨ ਮੰਤਰਾਲਾ
- ✗ 4. ਦੂਰ ਸੰਚਾਰ ਮੰਤਰਾਲਾ

Question ID : **630680113602**
Option 1 ID : **630680439942**
Option 2 ID : **630680439944**
Option 3 ID : **630680439943**
Option 4 ID : **630680439945**
Status : **Answered**
Chosen Option : **1**

Q.2 ਭਾਰਤੀ ਸੰਵਿਧਾਨ ਦਾ ਕਿਹੜਾ ਅਨੁਛੇਦ ਰਾਸ਼ਟਰੀ ਅਨੁਸੂਚਿਤ ਜਾਤੀ ਆਯੋਗ ਨਾਲ ਸੰਬੰਧਿਤ ਹੈ?

Ans
- ✗ 1. ਅਨੁਛੇਦ 328
- ✗ 2. ਅਨੁਛੇਦ 318
- ✗ 3. ਅਨੁਛੇਦ 348
- ✓ 4. ਅਨੁਛੇਦ 338

Question ID : **630680238378**
Option 1 ID : **630680924529**
Option 2 ID : **630680924530**
Option 3 ID : **630680924531**
Option 4 ID : **630680924528**
Status : **Answered**
Chosen Option : **4**

Website - www.dailyjobalert.in

Q.3 'ਪੁਰਾਣਾਂ' ਦੇ ਅਨੁਸਾਰ, ਭਾਰਤ ਵਿੱਚ ਸ਼ੁੰਗ ਸ਼ਾਸਨ _____ ਸਾਲਾਂ ਤੱਕ ਚਲਿਆ।

Ans
1. 119
2. 121
3. 112
4. 102

Question ID : **63068069632**
Option 1 ID : **630680269194**
Option 2 ID : **630680269197**
Option 3 ID : **630680269195**
Option 4 ID : **630680269196**
Status : **Answered**
Chosen Option : **2**

Q.4 2020 ਵਿੱਚ, ਯੁਵਾ ਕਲਿਆਣ ਅਤੇ ਖੇਡ ਮੰਤਰਾਲੇ ਨੇ ਅਰਜੁਨ ਪੁਰਸਕਾਰ ਦੀ ਰਾਸ਼ੀ 5 ਲੱਖ ਰੁਪਏ ਤੋਂ ਵਧਾਕੇ _____ ਕਰ ਦਿੱਤੀ।

Ans
1. 10 ਲੱਖ ਰੁਪਏ
2. 25 ਲੱਖ ਰੁਪਏ
3. 20 ਲੱਖ ਰੁਪਏ
4. 15 ਲੱਖ ਰੁਪਏ

Question ID : **630680112692**
Option 1 ID : **630680436462**
Option 2 ID : **630680436465**
Option 3 ID : **630680436464**
Option 4 ID : **630680436463**
Status : **Answered**
Chosen Option : **1**

Q.5 ਸਤੰਬਰ 2021 ਵਿੱਚ, ਨਜਲਾ ਬੌਡੇਨ ਰੋਮਧਨੇ (Najla Bouden Romdhane) ਨੂੰ _____ ਦੀ ਪਹਿਲੀ ਮਹਿਲਾ ਪ੍ਰਧਾਨ ਮੰਤਰੀ ਵਜੋਂ ਨਿਯੁਕਤ ਕੀਤਾ ਗਿਆ ਸੀ।

Ans
1. ਅਲਜੀਰੀਆ (Algeria)
2. ਮੋਰੋਕੋ (Morocco)
3. ਟਿਊਨੀਸ਼ੀਆ (Tunisia)
4. ਲੀਬੀਆ (Libya)

Question ID : **63068068651**
Option 1 ID : **630680265294**
Option 2 ID : **630680265296**
Option 3 ID : **630680265297**
Option 4 ID : **630680265295**
Status : **Answered**
Chosen Option : **1**

Website - www.dailyjobalert.in

Q.6 ਹੇਠਾਂ ਦਿਤਿਆਂ ਵਿੱਚੋਂ ਕੌਣ ਮੁੱਖ ਤੌਰ 'ਤੇ ਸ਼ਾਸਤਰੀ ਨਾਚੀ ਹੈ?

Ans

✗ 1. ਸ਼ਬਾਨਾ ਆਜ਼ਮੀ

✓ 2. ਸੋਨਲ ਮਾਨਸਿੰਘ

✗ 3. ਮਹਾਸ਼ਵੇਤਾ ਦੇਵੀ

✗ 4. ਅੰਮ੍ਰਿਤਾ ਪ੍ਰੀਤਮ

Question ID : **63068087344**
Option 1 ID : **630680338768**
Option 2 ID : **630680338765**
Option 3 ID : **630680338766**
Option 4 ID : **630680338767**
Status : **Answered**
Chosen Option : **3**

Q.7 ਮੌਰੀਆ ਸਾਮਰਾਜ ਵਿੱਚ ਸੰਸਥਾ ਪ੍ਰਧਾਨ ਕੌਣ ਹੁੰਦਾ ਸੀ?

Ans

✗ 1. ਉਹ ਵਿਅਕਤੀ ਜੋ ਖਾਣਾਂ ਦੀ ਦੇਖਭਾਲ ਕਰਦਾ ਸੀ

✓ 2. ਉਹ ਵਿਅਕਤੀ ਜੋ ਬਜ਼ਾਰਾਂ ਦੀ ਦੇਖਭਾਲ ਕਰਦਾ ਸੀ

✗ 3. ਖੇਤੀਬਾੜੀ ਪ੍ਰਬੰਧਨ ਅਧਿਕਾਰੀ

✗ 4. ਉਹ ਵਿਅਕਤੀ ਜੋ ਧਾਰਮਿਕ ਰੀਤੀ-ਰਿਵਾਜਾਂ ਦੀ ਦੇਖਭਾਲ ਕਰਦਾ ਸੀ

Question ID : **630680112625**
Option 1 ID : **630680436195**
Option 2 ID : **630680436197**
Option 3 ID : **630680436194**
Option 4 ID : **630680436196**
Status : **Answered**
Chosen Option : **3**

Q.8 ਹੇਠ ਲਿਖਿਆਂ ਵਿੱਚੋਂ ਕਿਹੜਾ ਸ਼ਬਦ ਆਪਣੇ ਜੀਵਨ ਸਾਥੀ ਪ੍ਰਤੀ ਵਫ਼ਾਦਾਰ ਰਹਿਣ ਅਤੇ ਵਾਸਨਾਤਮਿਕ ਵਿਅਕੁਲਤਾ ਜਾਂ ਅਣ-ਉਚਿਤ ਜਿਨਸੀ ਸੰਬੰਧਾਂ ਤੋਂ ਬਚਣ ਦਾ ਹਵਾਲਾ ਦਿੰਦਾ ਹੈ?

Ans

✗ 1. ਰੱਬੀ ਹੁਕਮ

✓ 2. ਵਫ਼ਾਦਾਰੀ

✗ 3. ਜਵਾਬਦੇਹੀ

✗ 4. ਸਚਿਆਰਤਾ

Question ID : **630680238357**
Option 1 ID : **630680924447**
Option 2 ID : **630680924444**
Option 3 ID : **630680924445**
Option 4 ID : **630680924446**
Status : **Answered**
Chosen Option : **2**

DAILY JOB Alert ਪੰਜਾਬ

Q.9 ਜ਼ਿਲ੍ਹਾ ਪੇਂਡੂ ਵਿਕਾਸ ਏਜੰਸੀ ਦੇ ਪੁਨਰਗਠਨ ਬਾਰੇ ਕਮੇਟੀ, 2011' ਦਾ ਚੇਅਰਮੈਨ ਕੌਣ ਸੀ?

Ans
✔ 1. ਵੀ ਰਾਮਚੰਦਰਨ

✘ 2. ਲਲਿਤ ਮਾਥੁਰ

✘ 3. ਮਨੀ ਸ਼ੰਕਰ ਅਈਅਰ

✘ 4. ਰਾਜਵੰਤ ਸੰਧੂ

Question ID : **63068054206**
Option 1 ID : **630680208866**
Option 2 ID : **630680208867**
Option 3 ID : **630680208868**
Option 4 ID : **630680208869**
Status : **Answered**
Chosen Option : **4**

Q.10 1921-1951 ਦੇ ਦਸ਼ਕਾਂ ਵਿੱਚ, ਭਾਰਤ ਵਿੱਚ ਸਥਿਰ ਜਨਸੰਖਿਆ ਵਾਧਾ ਹੋਇਆ ਸੀ ਅਤੇ ਸਿਹਤ ਅਤੇ ਸਵਛਤਾ ਵਿੱਚ ਸੁਧਾਰ ਦੇ ਕਾਰਨ ਮੌਤ ਦਰ _____ ਸੀ।

Ans
✔ 1. ਘੱਟ ਗਈ

✘ 2. ਵੱਧ ਗਈ

✘ 3. ਸਥਿਰ

✘ 4. ਦੁਬਾਰਾ ਦੁਗਣੀ ਹੋ ਗਈ

Question ID : **630680117310**
Option 1 ID : **630680454526**
Option 2 ID : **630680454527**
Option 3 ID : **630680454528**
Option 4 ID : **630680454529**
Status : **Answered**
Chosen Option : **1**

Q.11 ਭਾਰਤ ਵਿੱਚ, ਅੱਠਵੀਂ ਪੰਜ-ਸਾਲਾ ਯੋਜਨਾ ਦੀ ਮਿਆਦ _____ਸੀ।

Ans
✔ 1. 1992 – 1997

✘ 2. 1980 – 1985

✘ 3. 1985 – 1990

✘ 4. 1991 – 1996

Question ID : **63068056645**
Option 1 ID : **630680218514**
Option 2 ID : **630680218517**
Option 3 ID : **630680218516**
Option 4 ID : **630680218515**
Status : **Answered**
Chosen Option : **4**

Website - www.dailyjobalert.in

Q.12 ਜਦੋਂ ਮਹਾਰਾਜਾ ਯਾਦਵਿੰਦਰ ਸਿੰਘ ਦੀ ਮੌਤ ਹੋਈ ਸੀ, ਉਹ ਹੇਠ ਲਿਖੇ ਦੇਸ਼ਾਂ ਵਿੱਚੋਂ ਕਿਸ ਦੇਸ਼ ਵਿੱਚ ਭਾਰਤੀ ਰਾਜਦੂਤ ਸੀ?

Ans
- ✗ 1. ਕੈਨੇਡਾ
- ✓ 2. ਨੀਦਰਲੈਂਡ
- ✗ 3. ਜਰਮਨੀ
- ✗ 4. ਯੂ.ਐਸ.ਏ.

Question ID : **630680238416**
Option 1 ID : **630680924681**
Option 2 ID : **630680924680**
Option 3 ID : **630680924683**
Option 4 ID : **630680924682**
Status : **Answered**
Chosen Option : **2**

Q.13 ਹੇਠ ਦਿੱਤਿਆਂ ਵਿੱਚੋਂ ਕੌਣ, ਦੂਸਰੇ ਐਂਗਲੋ-ਅਫਗਾਨ ਯੁੱਧ ਦੌਰਾਨ ਅਫਗਾਨਿਸਤਾਨ ਦਾ ਸ਼ਾਸਕ ਸੀ?

Ans
- ✗ 1. ਦੋਸਤ ਮੁਹੰਮਦ ਖਾਨ
- ✗ 2. ਆਯੂਬ ਖਾਨ
- ✗ 3. ਅਕਬਰ ਖਾਨ
- ✓ 4. ਸ਼ੇਰ ਅਲੀ ਖਾਨ

Question ID : **630680184305**
Option 1 ID : **630680714229**
Option 2 ID : **630680714231**
Option 3 ID : **630680714230**
Option 4 ID : **630680714232**
Status : **Answered**
Chosen Option : **2**

Q.14 ਨਸ਼ਾ ਕਰਨ ਵਾਲਿਆਂ ਲਈ ਪੰਜਾਬ ਦਾ ਪਹਿਲਾ ਸਰਕਾਰੀ ਨਸ਼ਾ ਮੁਕਤੀ ਕੇਂਦਰ/ਮੁੜ ਵਸੇਬਾ ਕੇਂਦਰ ਕਿੱਥੇ ਖੋਲ੍ਹਿਆ ਗਿਆ ਸੀ?

Ans
- ✗ 1. ਚੰਡੀਗੜ੍ਹ
- ✓ 2. ਅਮ੍ਰਿਤਸਰ
- ✗ 3. ਲੁਧਿਆਣਾ
- ✗ 4. ਮੋਹਾਲੀ

Question ID : **630680238380**
Option 1 ID : **630680924537**
Option 2 ID : **630680924536**
Option 3 ID : **630680924538**
Option 4 ID : **630680924539**
Status : **Answered**
Chosen Option : **1**

DAILY JOB Alert ਪੰਜਾਬ

Q.15 ਹੇਠਾਂ ਦਿੱਤੇ ਵਿੱਚੋਂ ਕਿਹੜਾ ਸਵੈ-ਰੁਜ਼ਗਾਰ ਪ੍ਰੋਗਰਾਮ ਨਹੀਂ ਹੈ?

Ans

✗ 1. ਪ੍ਰਧਾਨ ਮੰਤਰੀ ਰੋਜ਼ਗਾਰ ਯੋਜਨਾ

✓ 2. ਮਹਾਤਮਾ ਗਾਂਧੀ ਰਾਸ਼ਟਰੀ ਪੇਂਡੂ ਰੁਜ਼ਗਾਰ ਗਾਰੰਟੀ ਐਕਟ

✗ 3. ਸਵਰਨ ਜਯੰਤ ਗ੍ਰਾਮ ਸਵੈਰੋਜ਼ਗਾਰ ਯੋਜਨਾ

✗ 4. ਸਵਰਨ ਜੈਅੰਤੀ ਸ਼ਹਿਰੀ ਰੋਜ਼ਗਾਰ ਯੋਜਨਾ

Question ID : **63068071446**
Option 1 ID : **630680276332**
Option 2 ID : **630680276333**
Option 3 ID : **630680276330**
Option 4 ID : **630680276331**
Status : **Answered**
Chosen Option : **4**

Q.16 ਫੁਹਾਰਾ ਚੌਕ ਵਿਖੇ ਪ੍ਰਾਚੀਨ ਕ੍ਰਾਈਸਟ ਚਰਚ (Ancient Christ Church) ਪੰਜਾਬ ਦੇ ਕਿਹੜੇ ਸ਼ਹਿਰ ਵਿੱਚ ਸਥਿਤ ਹੈ?

Ans

✗ 1. ਅੰਮ੍ਰਿਤਸਰ

✗ 2. ਬਠਿੰਡਾ

✓ 3. ਲੁਧਿਆਣਾ

✗ 4. ਜਲੰਧਰ

Question ID : **630680238537**
Option 1 ID : **630680925164**
Option 2 ID : **630680925167**
Option 3 ID : **630680925165**
Option 4 ID : **630680925166**
Status : **Answered**
Chosen Option : **2**

Q.17 ਪਾਰਸਨਾਥ ਚੋਟੀ ਹੇਠ ਦਿੱਤਿਆਂ ਵਿੱਚੋਂ ਕਿਹੜੀ ਪਠਾਰ ਵਿੱਚ ਸਥਿਤ ਹੈ?

Ans

✗ 1. ਮੇਘਾਲਿਆ ਪਠਾਰ

✗ 2. ਮਾਲਵਾ ਪਠਾਰ

✗ 3. ਬਘੇਲ ਪਠਾਰ

✓ 4. ਛੋਟਾ ਨਾਗਪੁਰ ਪਠਾਰ

Question ID : **630680125222**
Option 1 ID : **630680485655**
Option 2 ID : **630680485656**
Option 3 ID : **630680485654**
Option 4 ID : **630680485657**
Status : **Answered**
Chosen Option : **3**

Website - www.dailyjobalert.in

Q.18 ਤਖ਼ਤ-ਏ-ਅਕਬਰੀ ਪੰਜਾਬ ਦੇ _____ ਜ਼ਿਲ੍ਹੇ ਵਿੱਚ ਸਥਿਤ ਹੈ।

Ans
✔ 1. ਗੁਰਦਾਸਪੁਰ
✘ 2. ਬਠਿੰਡਾ
✘ 3. ਮਾਨਸਾ
✘ 4. ਤਰਨਤਾਰਨ

Question ID : **630680238594**
Option 1 ID : **630680925395**
Option 2 ID : **630680925393**
Option 3 ID : **630680925392**
Option 4 ID : **630680925394**
Status : **Answered**
Chosen Option : **1**

Q.19 _____ ਇੱਕ ਗ੍ਰੀਨਹਾਊਸ ਗੈਸ ਹੈ ਜੋ ਗਲੋਬਲ ਵਾਰਮਿੰਗ ਦੀ ਸਮੱਸਿਆ ਦਾ ਇੱਕ ਵੱਡਾ ਕਾਰਨ ਹੈ।

Ans
✔ 1. ਕਾਰਬਨ ਡਾਈਆਕਸਾਈਡ
✘ 2. ਆਕਸੀਜਨ
✘ 3. ਨਾਈਟ੍ਰੋਜਨ
✘ 4. ਹਾਈਡ੍ਰੋਜਨ

Question ID : **63068059107**
Option 1 ID : **630680228053**
Option 2 ID : **630680228051**
Option 3 ID : **630680228050**
Option 4 ID : **630680228052**
Status : **Answered**
Chosen Option : **3**

Q.20 ਹੇਠ ਦਿੱਤਿਆਂ ਵਿੱਚੋਂ ਕੌਣ 2022 ਵਿੱਚ 'ਗਣਿਤ ਵਿਗਿਆਨ ਵਿੱਚ ਇਨਫੋਸਿਸ ਇਨਾਮ' ਦਾ ਜੇਤੂ ਸੀ?

Ans
✘ 1. ਰੋਹਿਣੀ ਪਾਂਡੇ
✘ 2. ਚੰਦਰਸ਼ੇਖਰ ਨਾਇਰ
✘ 3. ਵਿਦਿਤਾ ਵੈਦਿਆ
✔ 4. ਮਹੇਸ਼ ਕਾਕੜੇ

Question ID : **630680191793**
Option 1 ID : **630680743780**
Option 2 ID : **630680743777**
Option 3 ID : **630680743779**
Option 4 ID : **630680743778**
Status : **Answered**
Chosen Option : **4**

Website - www.dailyjobalert.in

Q.21 ਝਾਰਖੰਡ ਦਾ ਕਿਹੜਾ ਕੋਲਾ ਖੇਤਰ ਸਭ ਤੋਂ ਵੱਡੀ ਅਤੇ ਸਭ ਤੋਂ ਮਹੱਤਵਪੂਰਨ ਕੋਲਾ ਉਤਪਾਦਕ ਖਾਣ ਹੈ?

Ans
✗ 1. ਹੁਟਾਰ ਕੋਲਾ ਖੇਤਰ
✓ 2. ਝਰੀਆ ਕੋਲਾ ਖੇਤਰ
✗ 3. ਬੋਕਾਰੋ ਕੋਲਾ ਖੇਤਰ
✗ 4. ਡਾਲਟਨਗੰਜ ਕੋਲਾ ਖੇਤਰ

Question ID : **63068053178**
Option 1 ID : **630680204815**
Option 2 ID : **630680204817**
Option 3 ID : **630680204814**
Option 4 ID : **630680204816**
Status : **Answered**
Chosen Option : **1**

Q.22 ਅਕਤੂਬਰ 2021 ਵਿੱਚ, ਭਾਰਤ ਨੇ ਮਾਲੇ (Male) ਵਿੱਚ ਆਯੋਜਿਤ SAFF ਚੈਂਪੀਅਨਸ਼ਿਪ 2021 ਜਿੱਤਣ ਲਈ _____ ਨੂੰ ਹਰਾਇਆ।

Ans
✗ 1. ਮਲੇਸ਼ੀਆ
✗ 2. ਸਾਊਥ ਕੋਰੀਆ
✓ 3. ਨੇਪਾਲ
✗ 4. ਬੰਗਲਾਦੇਸ਼

Question ID : **63068068852**
Option 1 ID : **630680266098**
Option 2 ID : **630680266101**
Option 3 ID : **630680266100**
Option 4 ID : **630680266099**
Status : **Answered**
Chosen Option : **2**

Q.23 ਹੇਠਾਂ ਦਿੱਤੇ ਭਾਰਤੀ ਰਾਜਾਂ ਵਿੱਚੋਂ, ਮਲਵਈ ਗਿੱਧਾ ਮੁੱਖ ਰੂਪ ਨਾਲ ਕਿਹੜੇ ਰਾਜ ਵਿੱਚ ਪੇਸ਼ ਕੀਤਾ ਜਾਂਦਾ ਹੈ?

Ans
✗ 1. ਹਰਿਆਣਾ
✗ 2. ਗੁਜਰਾਤ
✓ 3. ਪੰਜਾਬ
✗ 4. ਬਿਹਾਰ

Question ID : **630680238542**
Option 1 ID : **630680925187**
Option 2 ID : **630680925186**
Option 3 ID : **630680925184**
Option 4 ID : **630680925185**
Status : **Answered**
Chosen Option : **3**

DAILY JOB Alert ਪੰਜਾਬ

Q.24 2010 ਦੇ ਸੀਜ਼ਨ ਵਿੱਚ ਪੰਜਾਬ ਕਿੰਗਜ਼ IPL ਕ੍ਰਿਕਟ ਟੀਮ ਦੀ ਅਗਵਾਈ ਕਿਸਨੇ ਕੀਤੀ?

Ans
✗ 1. ਐਡਮ ਗਿਲਕ੍ਰਿਸਟ
✓ 2. ਕੁਮਾਰ ਸੰਗਾਕਾਰਾ
✗ 3. ਬ੍ਰੈਟ ਲੀ
✗ 4. ਯੁਵਰਾਜ ਸਿੰਘ

Question ID : **630680238501**
Option 1 ID : **630680925023**
Option 2 ID : **630680925021**
Option 3 ID : **630680925022**
Option 4 ID : **630680925020**
Status : **Answered**
Chosen Option : **4**

Q.25 ਭਾਰਤੀ ਸੰਵਿਧਾਨ _____ ਹੈ।

Ans
✗ 1. ਦੁਨੀਆ ਦਾ ਸਭ ਤੋਂ ਲੰਬਾ ਅਣਲਿਖਤ ਸੰਵਿਧਾਨ
✗ 2. ਦੁਨੀਆ ਦਾ ਸਭ ਤੋਂ ਛੋਟਾ ਅਣਲਿਖਤ ਸੰਵਿਧਾਨ
✗ 3. ਦੁਨੀਆ ਦਾ ਸਭ ਤੋਂ ਛੋਟਾ ਲਿਖਤੀ ਸੰਵਿਧਾਨ
✓ 4. ਦੁਨੀਆ ਦਾ ਸਭ ਤੋਂ ਲੰਬਾ ਲਿਖਤੀ ਸੰਵਿਧਾਨ

Question ID : **63068086788**
Option 1 ID : **630680336547**
Option 2 ID : **630680336548**
Option 3 ID : **630680336545**
Option 4 ID : **630680336546**
Status : **Answered**
Chosen Option : **4**

Q.26 ਵਾਤਾਵਰਣ ਸੰਬੰਧੀ ਔਖੀਆਂ ਸਮੱਸਿਆਂ ਨੂੰ ਹੱਲ ਕਰਨ ਦੇ ਯਤਨਾਂ ਲਈ ਕਿਸਨੂੰ '2021 ਇੰਟਰਨੈਸ਼ਨਲ ਯੰਗ ਈਕੋ-ਹੀਰੋ' ਦਾ ਨਾਮ ਦਿੱਤਾ ਗਿਆ ਸੀ?

Ans
✗ 1. ਕ੍ਰਿਤੀ ਕਰੰਥ (Krithi Karanth)
✓ 2. ਅਯਾਨ ਸ਼ਾਂਕਤਾ (Ayaan Shankta)
✗ 3. ਜਿਸ ਸਬੇਸਟੀਅਨ (Jis Sebastian)
✗ 4. ਤਿਆਸਾ ਆਧਿਆ (Tiasa Adhya)

Question ID : **63068053257**
Option 1 ID : **630680205130**
Option 2 ID : **630680205132**
Option 3 ID : **630680205131**
Option 4 ID : **630680205133**
Status : **Answered**
Chosen Option : **2**

DAILY JOB Alert

Q.27 MSP ਨੀਤੀ ਖੇਤੀ ਪ੍ਰਣਾਲੀ ਵਿੱਚ ਭਾਰਤ ਸਰਕਾਰ ਦੀ ਇੱਕ ਮਹੱਤਵਪੂਰਨ ਪਹਿਲ ਹੈ। MSP ਦਾ ਅਰਥ ਹੈ _____।

Ans
1. ਮੈਕਸੀਮਮ ਸਪੋਰਟ ਪ੍ਰਾਇਸ (Maximum Support Price)
2. ਮੈਕਸੀਮਮ ਸੇਲਿੰਗ ਪ੍ਰਾਇਸ (Maximum Selling Price)
3. ਮਿਨੀਮਮ ਸਪੋਰਟ ਪ੍ਰਾਇਸ (Minimum Support Price)
4. ਮਿਨੀਮਮ ਸੇਲਿੰਗ ਪ੍ਰਾਇਸ (Minimum Selling Price)

Question ID : **63068056708**
Option 1 ID : **630680218767**
Option 2 ID : **630680218769**
Option 3 ID : **630680218766**
Option 4 ID : **630680218768**
Status : **Answered**
Chosen Option : **1**

Q.28 ਗੰਗਾ ਨਦੀ ਦੀ ਕੁੱਲ ਲੰਬਾਈ ਲਗਭਗ _____ ਹੈ।

Ans
1. 3425 km
2. 2750 km
3. 2525 km
4. 3000 km

Question ID : **630680111978**
Option 1 ID : **630680433639**
Option 2 ID : **630680433640**
Option 3 ID : **630680433641**
Option 4 ID : **630680433638**
Status : **Answered**
Chosen Option : **1**

Q.29 ਸਿੱਕਮ ਰਾਜ ਵਿੱਚ ਸਭ ਤੋਂ ਵੱਧ ਕਿਹੜੀ ਭਾਸ਼ਾ ਬੋਲੀ ਜਾਂਦੀ ਹੈ?

Ans
1. ਭੂਟੀਆ
2. ਨੇਪਾਲੀ
3. ਲੇਪਚਾ
4. ਬਾਂਗਲਾ

Question ID : **63068090996**
Option 1 ID : **630680352743**
Option 2 ID : **630680352742**
Option 3 ID : **630680352744**
Option 4 ID : **630680352745**
Status : **Answered**
Chosen Option : **3**

Website - www.dailyjobalert.in

Q.30 ਗਵਰਨਰ ਜਨਰਲ ਲਾਰਡ ਡਲਹੌਜ਼ੀ ਨੇ ਪੰਜਾਬ ਨੂੰ ਅੰਗਰੇਜ਼ਾਂ ਦੇ ਰਾਜ ਵਿੱਚ ਕਦੋਂ ਸ਼ਾਮਲ ਕੀਤਾ?

Ans
1. 1845
2. 1849
3. 1848
4. 1846

Question ID : **630680238550**
Option 1 ID : **630680925216**
Option 2 ID : **630680925219**
Option 3 ID : **630680925218**
Option 4 ID : **630680925217**
Status : **Answered**
Chosen Option : **2**

Q.31 ਗੁਲਾਬੋ ਸਪੇਰਾ ਕਿਸ ਨਾਚ ਰੂਪ ਦੀ ਮਸ਼ਹੂਰ ਕਲਾਕਾਰ ਹੈ?

Ans
1. ਘੂਮਰ
2. ਕਾਲਬੇਲੀਆ
3. ਛਾਉ
4. ਗਰਬਾ

Question ID : **63068084250**
Option 1 ID : **630680326552**
Option 2 ID : **630680326553**
Option 3 ID : **630680326555**
Option 4 ID : **630680326554**
Status : **Answered**
Chosen Option : **2**

Q.32 ਭਾਰਤ ਵਿੱਚ ਰਾਜ ਵਿਧਾਨ ਸਭਾ ਦੇ ਸੰਦਰਭ ਵਿੱਚ, ਹੇਠ ਲਿਖਿਆਂ ਵਿੱਚੋਂ ਕਿਹੜਾ ਕਥਨ ਸਹੀ ਹੈ/ਹਨ?
1.ਵਿਧਾਨ ਸਭਾ ਦਾ ਮੈਂਬਰ ਬਣਨ ਲਈ, ਇੱਕ ਵਿਅਕਤੀ ਦੀ ਉਮਰ 30 ਸਾਲ ਦੀ ਹੋਣੀ ਚਾਹੀਦੀ ਹੈ।
2.ਵਿਧਾਨ ਸਭਾ ਦੇ ਮੈਂਬਰਾਂ ਦੀ ਗਿਣਤੀ 500 ਤੋਂ ਵੱਧ ਨਹੀਂ ਹੋ ਸਕਦੀ।
3.ਕਿਸੇ ਰਾਜ ਦੀ ਵਿਧਾਨ ਪਰਿਸ਼ਦ ਵਿੱਚ ਕੁੱਲ ਮੈਂਬਰਾਂ ਦੀ ਗਿਣਤੀ ਵਿਧਾਨ ਸਭਾ ਦੇ ਕੁੱਲ ਮੈਂਬਰਾਂ ਦੇ ਅੱਧ ਤੋਂ ਵੱਧ ਨਹੀਂ ਹੋਣੀ ਚਾਹੀਦੀ।

Ans
1. ਸਿਰਫ਼ 1 ਅਤੇ 2
2. ਸਿਰਫ਼ 1
3. ਸਿਰਫ਼ 2
4. ਸਿਰਫ਼ 2 ਅਤੇ 3

Question ID : **630680117218**
Option 1 ID : **630680454160**
Option 2 ID : **630680454158**
Option 3 ID : **630680454159**
Option 4 ID : **630680454161**
Status : **Answered**
Chosen Option : **1**

Website - www.dailyjobalert.in

Q.33 ਦਮਨ, ਦੀਵ ਅਤੇ _____ ਦੇ ਗੁਆਂਢੀ ਕੇਂਦਰ ਸ਼ਾਸਤ ਪ੍ਰਦੇਸ਼ਾਂ ਨੂੰ ਮਿਲਾ ਕੇ ਇੱਕ ਨਵਾਂ ਕੇਂਦਰ ਸ਼ਾਸਤ ਪ੍ਰਦੇਸ਼ ਬਣਾਇਆ ਗਿਆ ਹੈ।

Ans
✗ 1. ਦੌਲਤਪੁਰਾ

✗ 2. ਦਰਿਆਪੁਰ

✗ 3. ਦਿਸਪੁਰ

✓ 4. ਦਾਦਰਾ ਨਗਰ ਹਵੇਲੀ

Question ID : **630680100486**
Option 1 ID : **630680390642**
Option 2 ID : **630680390641**
Option 3 ID : **630680390640**
Option 4 ID : **630680390643**
Status : **Answered**
Chosen Option : **4**

Q.34 ਸੰਵਿਧਾਨਕ ਨੈਤਿਕਤਾ ਦਾ ਅਰਥ ਹੈ ਸੰਵਿਧਾਨਕ ਮੁੱਲਾਂ ਦੇ ਹੇਠਲੇ-ਪੱਧਰ ਦੇ ਸਿਧਾਂਤਾ ਦੀ ਪਾਲਣਾ ਜਾਂ ਉਹਨਾਂ ਲਈ ਵਫ਼ਾਦਾਰ ਹੋਣਾ। ਹੇਠ ਲਿਖਿਆਂ ਵਿੱਚੋਂ ਕਿਹੜਾ ਕਾਰਜ ਸੰਵਿਧਾਨਿਕ ਨੈਤਿਕਤਾ ਦੇ ਵਿਰੁੱਧ ਨਹੀਂ ਹੈ?

Ans
✗ 1. ਇੱਕ ਦੋਸਤ ਨੂੰ ਧੋਖਾ

✓ 2. ਫਿਲਮ ਬਾਰੇ ਇੱਕ ਨਕਾਰਾਤਮਕ ਸਮੀਖਿਆ ਲਿਖਣਾ

✗ 3. ਦਾਜ ਲੈਣਾ

✗ 4. ਇੱਕ ਬਾਲ ਮਜ਼ਦੂਰ ਨੂੰ ਕੰਮ 'ਤੇ ਰੱਖਣਾ

Question ID : **630680238330**
Option 1 ID : **630680924337**
Option 2 ID : **630680924338**
Option 3 ID : **630680924336**
Option 4 ID : **630680924339**
Status : **Answered**
Chosen Option : **2**

Q.35 ਝੀਲਾਂ ਦੀ ਉਮਰ ਵਧਣ ਦੀ ਪ੍ਰਕਿਰਿਆ ਨੂੰ ਕੀ ਤੇਜ ਕਰ ਸਕਦਾ ਹੈ?

Ans
✗ 1. ਜੈਵਿਕ ਸੰਗ੍ਰਹਿ (Bioaccumulation

✗ 2. ਕਾਈ ਦੇ ਫੈਲਾਅ ਦੁਆਰਾ (Algal bloom)

✗ 3. ਜੈਵਿਕ ਵਡਦਰਸ਼ਨ (Biomagnification))

✓ 4. ਸੱਭਿਆਚਾਰਕ ਸਪੋਸ਼ਣ (Cultural eutrophication)

Question ID : **63068049663**
Option 1 ID : **630680191085**
Option 2 ID : **630680191082**
Option 3 ID : **630680191083**
Option 4 ID : **630680191084**
Status : **Answered**
Chosen Option : **1**

Website - www.dailyjobalert.in

Q.36 ਕਿਲ੍ਹਾ ਰਾਏਪੁਰ ਖੇਡ ਮੇਲਾ ਹਰ ਸਾਲ ਲੁਧਿਆਣਾ ਜ਼ਿਲੇ ਵਿੱਚ ਹੇਠ ਲਿਖਿਆਂ ਮਹੀਨਿਆਂ ਵਿੱਚੋਂ ਕਿਸ ਮਹੀਨੇ ਵਿੱਚ ਆਯੋਜਿਤ ਕੀਤਾ ਜਾਂਦਾ ਹੈ?

Ans

✔ 1. ਫਰਵਰੀ

✘ 2. ਮਾਰਚ

✘ 3. ਜਨਵਰੀ

✘ 4. ਅਪ੍ਰੈਲ

Question ID : **630680238441**
Option 1 ID : **630680924781**
Option 2 ID : **630680924782**
Option 3 ID : **630680924780**
Option 4 ID : **630680924783**
Status : **Answered**
Chosen Option : **3**

Q.37 ਭਾਰਤ ਹੈਵੀ ਇਲੈਕਟ੍ਰੀਕਲ ਲਿਮਿਟਡ ਨੂੰ ਸਾਲ 2021 ਵਿੱਚ ਇੱਕ ਪ੍ਰਤਿਸ਼ਠਾਵਾਨ ਵਾਤਾਵਰਣ ਪੁਰਸਕਾਰ ਮਿਲਿਆ। ਇਸ ਪੁਰਸਕਾਰ ਦਾ ਨਾਮ ਦੱਸੋ।

Ans

✘ 1. ਵਾਤਾਵਰਨਿਕ ਪ੍ਰਾਪਤੀ ਲਈ ਟਾਈਲਰ ਪੁਰਸਕਾਰ

✘ 2. ਵੋਲਵੋ ਵਾਤਾਵਰਣ ਪੁਰਸਕਾਰ

✘ 3. ਵਾਤਾਵਰਨਿਕ ਸੰਭਾਲ ਲਈ ਸੁਲਤਾਨ ਕਬੂਸ ਪੁਰਸਕਾਰ

✔ 4. ਗੋਲਡਨ ਪੀਕੋਕ ਵਾਤਾਵਰਣ ਪ੍ਰਬੰਧਨ ਪੁਰਸਕਾਰ

Question ID : **630680114050**
Option 1 ID : **630680441604**
Option 2 ID : **630680441602**
Option 3 ID : **630680441603**
Option 4 ID : **630680441605**
Status : **Answered**
Chosen Option : **4**

Q.38 ਹੇਠ ਦਿੱਤਿਆਂ ਵਿੱਚੋਂ ਕਿਹੜਾ ਸੁਤੰਤਰਤਾ ਸੈਨਾਨੀ 1920 ਵਿੱਚ ਬੰਬੇ ਵਿੱਚ ਆਯੋਜਿਤ ਅਖਿਲ ਭਾਰਤੀ ਟਰੇਡ ਯੂਨੀਅਨ ਕਾਂਗਰਸ ਦੇ ਪਹਿਲੇ ਸ਼ੈਸ਼ਨ ਦਾ ਸੰਸਥਾਪਕ ਪ੍ਰਧਾਨ ਸੀ?

Ans

✘ 1. ਸੁਭਾਸ਼ ਚੰਦਰ ਬੋਸ

✔ 2. ਲਾਲਾ ਲਾਜਪਤ ਰਾਏ

✘ 3. ਗੋਪਾਲ ਕ੍ਰਿਸ਼ਨ ਗੋਖਲੇ

✘ 4. ਦਾਦਾਭਾਈ ਨਾਰੋਜੀ

Question ID : **630680146019**
Option 1 ID : **630680564974**
Option 2 ID : **630680564977**
Option 3 ID : **630680564976**
Option 4 ID : **630680564975**
Status : **Answered**
Chosen Option : **1**

DAILY JOB Alert ਪੰਜਾਬ

Q.39 ਭਾਰਤ ਵਿੱਚ _____ ਹੈ।

Ans
1. ਪਹਿਲਕਦਮੀ ਅਤੇ ਜਨ-ਮੱਤ ਜ਼ਮਹੂਰੀਅਤ
2. ਪ੍ਰਤਿਨਿਧੀ ਸੰਸਦੀ ਲੋਕਤੰਤਰ
3. ਸਰਕਾਰ ਦੀ ਇੱਕ ਰਾਸ਼ਟਰਪਤੀ ਪ੍ਰਣਾਲੀ
4. ਗੈਰ-ਪ੍ਰਤਿਨਿਧੀ ਲੋਕਤੰਤਰ

Question ID : **630680160042**
Option 1 ID : **630680619553**
Option 2 ID : **630680619552**
Option 3 ID : **630680619554**
Option 4 ID : **630680619555**
Status : **Answered**
Chosen Option : **3**

Q.40 ਭਾਰਤੀ ਸੰਵਿਧਾਨ ਦੇ ਅਨੁਛੇਦ _____ ਦੇ ਅਨੁਸਾਰ, ਰਾਜ ਸਭਾ ਦਾ ਚੇਅਰਮੈਨ ਜਾਂ ਲੋਕ ਸਭਾ ਦਾ ਸਪੀਕਰ ਕਿਸੇ ਵੀ ਮੈਂਬਰ ਨੂੰ ਵਿਸ਼ੇਸ਼ ਸਥਿਤੀਆਂ ਵਿੱਚ ਸਦਨ ਨੂੰ ਆਪਣੀ ਮਾਤ-ਭਾਸ਼ਾ ਵਿੱਚ ਸੰਬੋਧਨ ਕਰਨ ਦੀ ਇਜਾਜ਼ਤ ਦੇ ਸਕਦਾ ਹੈ।

Ans
1. 132
2. 234
3. 120
4. 343

Question ID : **63068078073**
Option 1 ID : **630680302353**
Option 2 ID : **630680302356**
Option 3 ID : **630680302354**
Option 4 ID : **630680302355**
Status : **Answered**
Chosen Option : **1**

Q.41 ਫਰਵਰੀ 2021 ਵਿੱਚ ਹੇਠਾਂ ਦਿੱਤੇ ਵਿੱਚੋਂ ਕਿਸ ਨੂੰ ਇੰਟਰਨੈਸ਼ਨਲ ਸੋਲਰ ਅਲਾਇੰਸ (ISA) ਦੇ ਡਾਇਰੈਕਟਰ ਜਨਰਲ ਵਜੋਂ ਚੁਣਿਆ ਗਿਆ ਸੀ?

Ans
1. ਡਾ.ਗਿਰਿਸ਼ ਗੌਤਮ
2. ਡਾ.ਅਜੇ ਮਾਥੁਰ
3. ਡਾ.ਹਰਸ਼ ਚੌਹਾਨ
4. ਡਾ. ਵਿਜੇ ਮਾਥੁਰ

Question ID : **630680139335**
Option 1 ID : **630680539417**
Option 2 ID : **630680539415**
Option 3 ID : **630680539416**
Option 4 ID : **630680539414**
Status : **Answered**
Chosen Option : **2**

Website - www.dailyjobalert.in

Q.42 ਹੇਠ ਦਿੱਤਿਆਂ ਵਿੱਚੋਂ ਕਿਹੜੇ ਐਕਟ ਨੇ ਕਲਕੱਤਾ ਵਿੱਚ ਸਰਵ ਉੱਚ ਅਦਾਲਤ ਦੀ ਸਥਾਪਨਾ ਦਾ ਪਰਾਵਧਾਨ ਦਿੱਤਾ?

Ans
✗ 1. 1853 ਦਾ ਚਾਰਟਰ ਐਕਟ
✗ 2. ਭਾਰਤ ਸਰਕਾਰ ਐਕਟ, 1858
✗ 3. ਭਾਰਤੀ ਪਰਿਸ਼ਦ ਐਕਟ, 1861
✓ 4. 1773 ਦਾ ਰੈਗੂਲੇਟਿੰਗ ਐਕਟ

Question ID : **630680163731**
Option 1 ID : **630680634071**
Option 2 ID : **630680634068**
Option 3 ID : **630680634070**
Option 4 ID : **630680634069**
Status : **Answered**
Chosen Option : **4**

Q.43 ਹੇਠ ਲਿਖੀਆਂ ਵਿੱਚੋਂ ਕਿਹੜੀ ਯੋਗਤਾ ਭਾਰਤ ਦੇ ਰਾਸ਼ਟਰਪਤੀ ਦੇ ਅਹੁਦੇ ਲਈ ਹੈ?

Ans
✗ 1. ਲਾਭ ਦਾ ਪਦ ਧਾਰਨ ਕਰਨ ਦੀ ਯੋਗਤਾ
✗ 2. ਰਾਜ ਸਭਾ ਦੇ ਮੈਂਬਰ ਵਜੋਂ ਚੋਣ ਲਈ ਯੋਗਤਾ
✓ 3. ਲੋਕ ਸਭਾ ਦੇ ਮੈਂਬਰ ਵਜੋਂ ਚੋਣ ਲਈ ਯੋਗਤਾ
✗ 4. 25 ਸਾਲ ਤੋਂ ਘੱਟ ਦੀ ਉਮਰ ਨਾ ਹੋਵੇ

Question ID : **630680100467**
Option 1 ID : **630680390564**
Option 2 ID : **630680390565**
Option 3 ID : **630680390566**
Option 4 ID : **630680390567**
Status : **Answered**
Chosen Option : **3**

Q.44 ਛਪਾਰ ਦਾ ਮੇਲਾ ਪੰਜਾਬ ਰਾਜ ਦੇ ਕਿਹੜੇ ਜ਼ਿਲ੍ਹੇ ਵਿੱਚ ਮਨਾਇਆ ਜਾਂਦਾ ਹੈ?

Ans
✗ 1. ਜਲੰਧਰ
✗ 2. ਪਟਿਆਲਾ
✓ 3. ਲੁਧਿਆਣਾ
✗ 4. ਅੰਮ੍ਰਿਤਸਰ

Question ID : **630680238526**
Option 1 ID : **630680925122**
Option 2 ID : **630680925123**
Option 3 ID : **630680925121**
Option 4 ID : **630680925120**
Status : **Answered**
Chosen Option : **3**

Website - www.dailyjobalert.in

Q.45 ਉੱਚ ਝਾੜ ਦੇਣ ਵਾਲੀਆਂ ਕਿਸਮਾਂ ਦੀ ਵਰਤੋਂ ਦੁਆਰਾ ਚੌਲ, ਕਣਕ, ਮੱਕੀ ਅਤੇ ਹੋਰ ਫਸਲਾਂ ਦੇ ਝਾੜ ਵਿੱਚ ਵੱਡੇ ਲਾਭਾਂ ਦਾ ਵਰਣਨ ਕਰਨ ਲਈ _____, ਨੇ ਸਭ ਤੋਂ ਪਹਿਲਾਂ "ਹਰੀ ਕ੍ਰਾਂਤੀ" ਸ਼ਬਦ ਦੀ ਵਰਤੋਂ ਕੀਤੀ।

Ans
- ✗ 1. ਨਾਰਮਨ ਬੋਰਲੌਗ
- ✓ 2. ਵਿਲੀਅਮ ਗੌਂਡ
- ✗ 3. ਐਮ. ਐਸ. ਸਵਾਮੀਨਾਥਨ
- ✗ 4. ਹੇਮ ਸਿੰਘ ਪਰੁਥੀ

Question ID : **63068059044**
Option 1 ID : **630680227800**
Option 2 ID : **630680227798**
Option 3 ID : **630680227799**
Option 4 ID : **630680227801**
Status : **Answered**
Chosen Option : **3**

Q.46 ਹੇਠ ਲਿਖਿਆਂ ਵਿੱਚੋਂ ਉਹਨਾਂ ਦੇ ਕਿਸ ਕੰਮ ਲਈ ਅੰਮ੍ਰਿਤਾ ਪ੍ਰੀਤਮ ਸਾਹਿਤ ਅਕਾਦਮੀ ਪੁਰਸਕਾਰ ਪ੍ਰਾਪਤ ਕਰਨ ਵਾਲੀ ਪਹਿਲੀ ਔਰਤ ਬਣੀ?

Ans
- ✗ 1. ਉਨ੍ਹਾਂ ਦੀ ਕਹਾਣੀ
- ✗ 2. ਅੰਮ੍ਰਿਤ ਲਹਿਰਾਂ
- ✓ 3. ਸੁਨੇਹੜੇ
- ✗ 4. ਪਿੰਜਰ

Question ID : **630680238476**
Option 1 ID : **630680924922**
Option 2 ID : **630680924921**
Option 3 ID : **630680924923**
Option 4 ID : **630680924920**
Status : **Answered**
Chosen Option : **3**

Q.47 ਦ੍ਰਵਿੜ ਜਾਂ ਦੱਖਣੀ ਭਾਰਤੀ ਸਟਾਈਲ ਦੇ ਮੰਦਰਾਂ ਬਾਰੇ ਹੇਠ ਲਿਖਿਆਂ ਵਿੱਚੋਂ ਕਿਹੜਾ ਸਹੀ ਹੈ?

Ans
- ✗ 1. ਇਹ ਨਾਗਰ ਮੰਦਰ ਵਾਂਗ ਤੰਗ ਹੈ, ਪਰ ਇਹ ਬਿਨਾਂ ਘੁਮਾਓ ਦੇ ਉਪਰ ਉੱਠਿਆ ਹੋਇਆ ਹੈ।
- ✓ 2. ਮੁੱਖ ਮੰਦਰ ਦੀ ਮਿਨਾਰ ਦਾ ਆਕਾਰ, ਜਿਸਨੂੰ ਵਿਮਾਨ ਵਜੋਂ ਜਾਣਿਆ ਜਾਂਦਾ ਹੈ, ਇੱਕ ਪੌੜੀਨੁਮਾ ਪਿਰਾਮਿਡ ਵਰਗਾ ਹੁੰਦਾ ਹੈ ਜੋ ਜਿਆਮਿਤੀ ਰੂਪ ਨਾਲ ਉੱਪਰ ਉੱਠਦਾ ਹੈ।
- ✗ 3. ਮੰਦਰ ਦੀ ਹਰ ਛੱਤ 'ਤੇ ਵਿਲੱਖਣ ਨਮੂਨੇ ਹਨ ਅਤੇ ਗੁੰਬਦਦਾਰ ਛੱਤ ਵਿੱਚ ਸੁੰਦਰ ਬਰੈਕਟ ਚਿੱਤਰ ਹਨ।
- ✗ 4. ਇਹ ਆਧਾਰ 'ਤੇ ਵਰਗਾਕਾਰ ਹੈ, ਜਿਸ ਦੀਆਂ ਕੰਧਾਂ ਸਿਖਰ 'ਤੇ ਕਿਸੇ ਬਿੰਦੂ ਤੱਕ ਅੰਦਰ ਵੱਲ ਵਕਰੀ ਜਾਂ ਝੁਕੀਆਂ ਹੋਈਆਂ ਹਨ।

Question ID : **63068083337**
Option 1 ID : **630680323198**
Option 2 ID : **630680323196**
Option 3 ID : **630680323199**
Option 4 ID : **630680323197**
Status : **Answered**
Chosen Option : **3**

DAILY JOB Alert ਪੰਜਾਬ

Q.48 ਇਹਨਾਂ ਵਿੱਚੋਂ ਕਿਹੜਾ ਇੱਕ ਜੀਵਾਣੂਨਾਸ਼ਕ ਕਿਸਮ ਦਾ ਐਂਟੀਬਾਇਓਟਿਕ ਹੈ?

Ans
1. ਟੈਟਰਾਸਾਇਕਲੀਨ (Tetracycline)
2. ਇਰੀਥਰੋਮਾਈਸਿਨ (Erythromycin)
3. ਐਮੀਨੋਗਲਾਈਕੋਸਾਈਡਜ਼ (Aminoglycosides)
4. ਕਲੋਰਮਫੇਨਿਕੋਲ (Chloramphenicol)

Question ID : **63068049654**
Option 1 ID : **630680191046**
Option 2 ID : **630680191048**
Option 3 ID : **630680191049**
Option 4 ID : **630680191047**
Status : **Answered**
Chosen Option : **4**

Q.49 ਭਾਰਤ ਵਿੱਚ ਕੋਵਿਡ-19 ਵੈਕਸੀਨ ਨਾਲ 100 ਕਰੋੜ ਲੋਕਾਂ ਦੇ ਟੀਕਾਕਰਨ ਦਾ ਟੀਚਾ ਕਦੋਂ ਪ੍ਰਾਪਤ ਕੀਤਾ ਗਿਆ ਸੀ?

Ans
1. ਸਤੰਬਰ 2021
2. ਨਵੰਬਰ 2021
3. ਦਸੰਬਰ 2021
4. ਅਕਤੂਬਰ 2021

Question ID : **63068087968**
Option 1 ID : **630680341257**
Option 2 ID : **630680341259**
Option 3 ID : **630680341260**
Option 4 ID : **630680341258**
Status : **Answered**
Chosen Option : **4**

Q.50 ਸਿੱਖ ਧਰਮ ਦੇ ਬਾਨੀ ਗੁਰੂ ਨਾਨਕ ਦੇਵ ਜੀ ਦਾ ਜਨਮ ਕਿਸ ਸਾਲ ਹੋਇਆ ਸੀ?

Ans
1. 1469
2. 1470
3. 1471
4. 1472

Question ID : **630680238508**
Option 1 ID : **630680925048**
Option 2 ID : **630680925049**
Option 3 ID : **630680925050**
Option 4 ID : **630680925051**
Status : **Answered**
Chosen Option : **1**

Section : **Quantitative Aptitude and Numerical Skills**

Website - www.dailyjobalert.in

Q.51 ਉਸ ਸ਼ੰਕੂ ਦਾ ਆਇਤਨ ਪਤਾ ਕਰੋ ਜਿਸਦਾ ਅਰਧ-ਵਿਆਸ 7 cm ਅਤੇ ਉਚਾਈ 9 cm ਹੈ।

Ans
✔ 1. $462\ cm^3$
✘ 2. $562\ cm^3$
✘ 3. $465\ cm^3$
✘ 4. $362\ cm^3$

Question ID : **63068094382**
Option 1 ID : **630680366223**
Option 2 ID : **630680366226**
Option 3 ID : **630680366224**
Option 4 ID : **630680366225**
Status : **Answered**
Chosen Option : **3**

Q.52 ਕਿਸੇ ਖਾਸ ਅੰਕੜਿਆਂ ਲਈ, ਬਹੁਲਕ, ਮੱਧਿਕਾ ਤੋਂ 2 ਵੱਧ ਹੈ ਅਤੇ ਇਸਦਾ ਮੱਧਮਾਨ 12 ਹੈ। ਅੰਕੜਿਆਂ ਦੀ ਮੱਧਿਕਾ ਪਤਾ ਕਰੋ।

Ans
✔ 1. 13
✘ 2. 15
✘ 3. 14
✘ 4. 16

Question ID : **630680180139**
Option 1 ID : **630680698300**
Option 2 ID : **630680698302**
Option 3 ID : **630680698301**
Option 4 ID : **630680698303**
Status : **Answered**
Chosen Option : **1**

Q.53 (m^2 ਵਿੱਚ), ਇੱਕ ਆਇਤ ਦਾ ਖੇਤਰਫਲ ਕਿੰਨਾ ਹੋਵੇਗਾ, ਜੇਕਰ ਇਸਦੀ ਲੰਬਾਈ ਅਤੇ ਚੌੜਾਈ ਦਾ ਜੋੜ 24 m ਹੈ ਅਤੇ ਲੰਬਾਈ ਅਤੇ ਚੌੜਾਈ ਦਾ ਅਨੁਪਾਤ 5 : 7 ਹੈ?

Ans
✔ 1. 140
✘ 2. 48
✘ 3. 120
✘ 4. 280

Question ID : **63068070763**
Option 1 ID : **630680273668**
Option 2 ID : **630680273666**
Option 3 ID : **630680273667**
Option 4 ID : **630680273669**
Status : **Answered**
Chosen Option : **2**

Website - www.dailyjobalert.in

Q.54 ਜੇਕਰ ਪਹਿਲੀ ਸੰਖਿਆ, ਤੀਜੀ ਸੰਖਿਆ ਨਾਲੋਂ 15% ਵੱਧ ਹੈ, ਅਤੇ ਦੂਜੀ ਸੰਖਿਆ, ਤੀਜੀ ਸੰਖਿਆ ਤੋਂ 20% ਘੱਟ ਹੈ, ਤਾਂ ਦੂਜੀ ਸੰਖਿਆ ਦੇ ਪ੍ਰਤੀਸ਼ਤ ਵਜੋਂ ਪਹਿਲੀ ਸੰਖਿਆ ਕਿੰਨੀ ਹੋਵੇਗੀ?

Ans
✗ 1. 115.5%
✗ 2. 142.5%
✗ 3. 125.5%
✓ 4. 143.75%

Question ID : **630680115620**
Option 1 ID : **630680447832**
Option 2 ID : **630680447831**
Option 3 ID : **630680447833**
Option 4 ID : **630680447830**
Status : **Answered**
Chosen Option : **3**

Q.55 ਇੱਕ ਕੱਪੜੇ ਦੀ ਦੁਕਾਨ ਨੇ ਟੀ-ਸ਼ਰਟਾਂ 'ਤੇ 15% ਦੀ ਛੋਟ ਦੀ ਯੋਜਨਾ ਪੇਸ਼ ਕੀਤੀ ਹੈ। ਇੱਕ ਟੀ-ਸ਼ਰਟ ਦਾ ਅੰਕਿਤ ਮੁੱਲ ₹2,580 ਹੈ। ਇਸ ਟੀ-ਸ਼ਰਟ ਦਾ ਵਿਕਰੀ ਮੁੱਲ ਕਿੰਨਾ ਹੋਵੇਗਾ?

Ans
✗ 1. ₹2,493
✗ 2. ₹2,133
✗ 3. ₹2,293
✓ 4. ₹2,193

Question ID : **630680144647**
Option 1 ID : **630680559636**
Option 2 ID : **630680559634**
Option 3 ID : **630680559635**
Option 4 ID : **630680559637**
Status : **Answered**
Chosen Option : **3**

Q.56 $2^{100} \times 5^{104} \times 10^{100}$ ਦੇ ਅੰਕਾਂ ਦਾ ਜੋੜ ਪਤਾ ਕਰੋ।

Ans
✗ 1. 11
✗ 2. 12
✗ 3. 14
✓ 4. 13

Question ID : **630680208123**
Option 1 ID : **630680806723**
Option 2 ID : **630680806724**
Option 3 ID : **630680806726**
Option 4 ID : **630680806725**
Status : **Answered**
Chosen Option : **2**

Website - www.dailyjobalert.in

Q.57 ਜੇਕਰ m (ਇੱਕ ਸੰਪੂਰਨ ਸੰਖਿਆ) 28, 13, 18, 26, 10, m, 32 ਸੰਖਿਆਵਾਂ ਦੀ ਮੱਧਿਕਾ ਹੈ, ਤਾਂ ਹੇਠਾਂ ਦਿੱਤੇ ਵਿੱਚੋਂ ਕਿਹੜਾ m ਦਾ ਸੰਭਾਵੀ ਮੁੱਲ ਨਹੀਂ ਹੋ ਸਕਦਾ ਹੈ?

Ans
1. 23
2. 27 ✔
3. 25
4. 19

Question ID : **630680183185**
Option 1 ID : **630680709812**
Option 2 ID : **630680709811**
Option 3 ID : **630680709810**
Option 4 ID : **630680709809**
Status : **Answered**
Chosen Option : **1**

Q.58 ਇੱਕ ਆਦਮੀ 6 km/h ਦੀ ਚਾਲ ਨਾਲ 48 km ਦੀ ਦੂਰੀ ਤੈਅ ਕਰਦਾ ਹੈ। 8 km/h ਦੀ ਚਾਲ ਨਾਲ 48km ਦੀ ਇੱਕ ਹੋਰ ਦੂਰੀ ਅਤੇ 12 km/h ਦੀ ਚਾਲ ਨਾਲ 48 km ਦੀ ਤੀਜੀ ਦੂਰੀ ਤੈਅ ਕਰਦਾ ਹੈ। ਪੂਰੇ ਸਫ਼ਰ ਲਈ ਉਸਦੀ ਔਸਤ ਚਾਲ (km/h ਵਿੱਚ) ਪਤਾ ਕਰੋ।

Ans
1. 8.07
2. 8.17
3. 8 ✔
4. 8.47

Question ID : **630680106815**
Option 1 ID : **630680414877**
Option 2 ID : **630680414876**
Option 3 ID : **630680414879**
Option 4 ID : **630680414878**
Status : **Answered**
Chosen Option : **1**

Q.59 ਇੱਕ ਵੇਲਣ ਦੇ ਅਧਾਰ ਦੇ ਅਰਧ-ਵਿਆਸ ਅਤੇ ਉਚਾਈ ਦਾ ਜੋੜ 42 m ਹੈ। ਜੇਕਰ ਉਸ ਵੇਲਣ ਦੀ ਕੁੱਲ ਸਤ੍ਹਾ ਦਾ ਖੇਤਰਫਲ 2838 m^2 ਹੈ, ਤਾਂ ਵੇਲਣ ਦੀ ਵਕਰੀ ਸਤ੍ਹਾ ਦਾ ਖੇਤਰਫਲ ਪਤਾ ਕਰੋ।

Ans
1. 4233 m^2
2. 5126.61 m^2
3. 2111.61 m^2 ✔
4. 7325 m^2

Question ID : **630680131159**
Option 1 ID : **630680507903**
Option 2 ID : **630680507904**
Option 3 ID : **630680507902**
Option 4 ID : **630680507905**
Status : **Answered**
Chosen Option : **1**

Website - www.dailyjobalert.in

Q.60 ਇੱਕ ਵਿਅਕਤੀ 4 ਮਿੰਟ ਵਿੱਚ 500 ਮੀਟਰ ਲੰਬੀ ਸੜਕ ਪਾਰ ਕਰਦਾ ਹੈ। km/h ਵਿੱਚ ਉਸਦੀ ਗਤੀ ਕਿੰਨੀ ਹੈ?

Ans

✗ 1. 7.0 km/h

✗ 2. 5.5 km/h

✓ 3. 7.5 km/h

✗ 4. 6.5 km/h

Question ID : **63068091871**
Option 1 ID : **630680356221**
Option 2 ID : **630680356220**
Option 3 ID : **630680356218**
Option 4 ID : **630680356219**
Status : **Answered**
Chosen Option : **3**

Q.61 ਇੱਕ ਖੇਤਰ ਦੀ ਲੰਬਾਈ ਨੂੰ ਤਿੰਨ ਭਾਗਾਂ ਵਿੱਚ ਵੰਡਿਆ ਜਾਂਦਾ ਹੈ। ਪਹਿਲਾ ਹਿੱਸਾ ਪੂਰੀ ਲੰਬਾਈ ਦਾ $\frac{1}{3}$ ਹੈ, ਦੂਜਾ ਹਿੱਸਾ ਪਹਿਲੇ ਹਿੱਸੇ ਦਾ $\frac{3}{5}$ ਹੈ, ਅਤੇ ਤੀਜਾ ਹਿੱਸਾ 3.50 ਮੀਟਰ ਹੈ। ਖੇਤਰ ਦੀ ਲੰਬਾਈ ਪਤਾ ਕਰੋ।

Ans

✓ 1. 7.50 ਮੀਟਰ

✗ 2. 15.50 ਮੀਟਰ

✗ 3. 15 ਮੀਟਰ

✗ 4. 45.50 ਮੀਟਰ

Question ID : **63068084210**
Option 1 ID : **630680326370**
Option 2 ID : **630680326371**
Option 3 ID : **630680326368**
Option 4 ID : **630680326369**
Status : **Answered**
Chosen Option : **3**

Q.62 ਰਮੇਸ਼ ਆਪਣੀ ਮਹੀਨਾਵਾਰ ਤਨਖਾਹ ਦਾ $\frac{3}{5}$ ਭੋਜਨ 'ਤੇ ਅਤੇ ਆਪਣੀ ਤਨਖਾਹ ਦਾ $\frac{1}{3}$ ਕੱਪੜਿਆਂ ਅਤੇ ਸੈਰ-ਸਪਾਟੇ 'ਤੇ ਖ਼ਰਚ ਕਰਦਾ ਹੈ ਅਤੇ ਬਾਕੀ ਬਚਤ ਵਜੋਂ ਜਮ੍ਹਾਂ ਰੱਖਦਾ ਹੈ। ਜੇਕਰ ਉਸਦੀ ਮਹੀਨਾਵਾਰ ਤਨਖਾਹ 45,000 ਹੈ, ਤਾਂ ਉਹ 3 ਮਹੀਨਿਆਂ ਵਿੱਚ ਕਿੰਨੀ ਬਚਤ ਕਰੇਗਾ?

Ans

✗ 1. ₹12,000

✗ 2. ₹15,000

✓ 3. ₹9,000

✗ 4. ₹3,000

Question ID : **63068084212**
Option 1 ID : **630680326378**
Option 2 ID : **630680326376**
Option 3 ID : **630680326379**
Option 4 ID : **630680326377**
Status : **Answered**
Chosen Option : **1**

Website - www.dailyjobalert.in

Q.63 ਜੇਕਰ ਵਿਆਜ ₹3,000 ਹੈ, ਤਾਂ ਸਧਾਰਨ ਵਿਆਜ 'ਤੇ ਵਿਆਜ ਦੀ ਦਰ 6% ਪ੍ਰਤੀ ਸਾਲ ਹੈ, ਅਤੇ ਸਮਾਂ ਮਿਆਦ 4 ਸਾਲ ਹੈ, ਤਾਂ ਮੂਲਧਨ ਰਕਮ _____ ਹੈ।

Ans
1. ₹13,500
2. ₹12,500
3. ₹18,000
4. ₹17,500

Question ID : **630680206363**
Option 1 ID : **630680800230**
Option 2 ID : **630680800229**
Option 3 ID : **630680800227**
Option 4 ID : **630680800228**
Status : **Answered**
Chosen Option : **4**

Q.64 ਜੇਕਰ x : y = 11 : 4 ਤਦ ਹੇਠਾਂ ਦਿੱਤੇ ਅਨੁਪਾਤ ਦਾ ਪਤਾ ਲਗਾਓ।

(4x + 5y) : (4x - 5y) = ?:?

Ans
1. 8 : 5
2. 8 : 3
3. 3 : 8
4. 5 : 8

Question ID : **630680121573**
Option 1 ID : **630680471250**
Option 2 ID : **630680471251**
Option 3 ID : **630680471252**
Option 4 ID : **630680471253**
Status : **Answered**
Chosen Option : **2**

Q.65 ਇੱਕ ਆਦਮੀ 18 km/h ਦੀ ਚਾਲ ਨਾਲ ਸਾਈਕਲ 'ਤੇ ਕਿਸੇ ਜਗ੍ਹਾ ਜਾਂਦਾ ਹੈ ਅਤੇ ਧੀਮੀ ਚਾਲ ਨਾਲ ਵਾਪਸ ਆਉਂਦਾ ਹੈ। ਜੇਕਰ ਕੁੱਲ ਸਫ਼ਰ ਵਿੱਚ ਔਸਤ ਚਾਲ 8.4 km/h ਹੈ, ਤਾਂ ਵਾਪਸੀ ਦੀ ਚਾਲ (km/h ਵਿੱਚ) ਪਤਾ ਕਰੋ।

Ans
1. 6.48
2. 4.76
3. 3.95
4. 5.48

Question ID : **630680106814**
Option 1 ID : **630680414872**
Option 2 ID : **630680414874**
Option 3 ID : **630680414875**
Option 4 ID : **630680414873**
Status : **Answered**
Chosen Option : **2**

Website - www.dailyjobalert.in

Q.66 ਮੰਨ ਲਵੋ $x = (0.25)^{0.5}$ ਅਤੇ $y = (3.375)^{\frac{1}{3}}$ ਹੈ। ਵਿਅੰਜਕ $\frac{4x^2-9y^2}{3.5} \times \frac{1}{x^2-y^2}$ ਦਾ ਮੁੱਲ _____ ਹੈ।

Ans

✔ 1. $\frac{11}{4}$

✘ 2. $\frac{55}{16}$

✘ 3. $\frac{13}{4}$

✘ 4. $\frac{9}{4}$

Question ID : **63068094940**
Option 1 ID : **630680368458**
Option 2 ID : **630680368457**
Option 3 ID : **630680368455**
Option 4 ID : **630680368456**
Status : **Answered**
Chosen Option : **1**

Q.67 ਇੱਕ ਸੰਖਿਆ ਦੇ ਦੋ ਗੁਣਾ ਅਤੇ 52 ਦੇ ਤਿੰਨ ਗੁਣਾ ਦਾ ਜੋੜ 342 ਹੈ। ਉਸ ਇੱਕ ਸੰਖਿਆ ਦੇ ਚਾਰ ਗੁਣਾ ਅਤੇ 52 ਦੇ ਦੋ ਗੁਣਾ ਦਾ ਜੋੜ ਕਿੰਨਾ ਹੋਵੇਗਾ?

Ans

✘ 1. 676

✘ 2. 776

✘ 3. 576

✔ 4. 476

Question ID : **630680206380**
Option 1 ID : **630680800296**
Option 2 ID : **630680800295**
Option 3 ID : **630680800297**
Option 4 ID : **630680800298**
Status : **Answered**
Chosen Option : **1**

Q.68 A, B ਅਤੇ C ਅਨੁਪਾਤ 2 : 3 : 6 ਵਿੱਚ ਲਾਭ ਅਤੇ ਹਾਨੀ ਸਾਂਝਾ ਕਰਦੇ ਹਨ। ਜੇਕਰ 20% ਕਰ ਦਾ ਸ਼ੁਲਕ ਅਦਾ ਕਰਨ ਤੋਂ ਪਹਿਲਾਂ, ਪੂਰੇ ਸਾਲ ਲਈ ਲਾਭ ₹3,50,000 ਹੈ, ਤਾਂ ਕਰ ਤੋਂ ਬਾਅਦ ਲਾਭ ਵਿੱਚ B ਦਾ ਹਿੱਸਾ ਕਿੰਨਾ ਹੋਵੇਗਾ?

Ans

✘ 1. ₹76,336.64

✔ 2. ₹76,363.64

✘ 3. ₹76,363.46

✘ 4. ₹76,633.64

Question ID : **630680203965**
Option 1 ID : **630680791062**
Option 2 ID : **630680791061**
Option 3 ID : **630680791059**
Option 4 ID : **630680791060**
Status : **Answered**
Chosen Option : **3**

Website - www.dailyjobalert.in

Q.69 7, 12, 15 ਅਤੇ 60 ਦਾ LCM (ਲ.ਸ.ਵ) ਪਤਾ ਕਰੋ।

Ans
1. 60
2. 120
3. 420
4. 240

Question ID : **63068067705**
Option 1 ID : **630680261641**
Option 2 ID : **630680261638**
Option 3 ID : **630680261640**
Option 4 ID : **630680261639**
Status : **Answered**
Chosen Option : **2**

Q.70 ਇੱਕ ਵਪਾਰੀ ਨੇ ਦੋ ਵੱਖ-ਵੱਖ ਬੈਂਕਾਂ ਤੋਂ ਬਰਾਬਰ ਧਨਰਾਸ਼ੀ ਉਧਾਰ ਲਈ, ਜਿਨ੍ਹਾਂ ਵਿੱਚੋਂ ਇੱਕ ਵਿੱਚ 10% ਸਲਾਨਾ ਦਰ ਨਾਲ ਮਿਸ਼ਰਤ ਵਿਆਜ਼ ਛਿਮਾਹੀ ਜੋੜਿਆ ਜਾਂਦਾ ਹੈ ਅਤੇ ਦੂਜੇ ਵਿੱਚ ਕਿਸੇ ਖਾਸ ਸਲਾਨਾ ਦਰ ਨਾਲ ਮਿਸ਼ਰਤ ਵਿਆਜ ਸਲਾਨਾ ਜੋੜਿਆ ਜਾਂਦਾ ਹੈ। ਜੇਕਰ ਕਾਰੋਬਾਰੀ ਨੇ 3 ਸਾਲਾਂ ਬਾਅਦ ਓਨੀ ਹੀ ਧਨਰਾਸ਼ੀ ਵਾਪਸ ਕਰਨੀ ਹੋਵੇਗੀ, ਤਾਂ ਵਿਆਜ ਦੀ ਦੂਜੀ ਦਰ ਕਿੰਨੀ ਹੋਵੇਗੀ?

Ans
1. $10\frac{1}{3}\%$
2. $5\frac{1}{4}\%$
3. $10\frac{1}{2}\%$
4. $10\frac{1}{4}\%$

Question ID : **630680135786**
Option 1 ID : **630680525864**
Option 2 ID : **630680525865**
Option 3 ID : **630680525862**
Option 4 ID : **630680525863**
Status : **Answered**
Chosen Option : **3**

Q.71 ਸਾਇੰਸ ਕਲਾਸ ਵਿੱਚ ਇੱਕ ਸੋਲਰ ਪ੍ਰੋਜੈਕਟ ਤਿਆਰ ਕੀਤਾ ਜਾ ਰਿਹਾ ਹੈ ਜੋ 12 ਦਿਨਾਂ ਵਿੱਚ ਪੂਰਾ ਕੀਤਾ ਜਾ ਸਕਦਾ ਹੈ ਜੇਕਰ 5 ਵਿਦਿਆਰਥੀ ਹਫ਼ਤੇ ਵਿੱਚ 39 ਘੰਟੇ ਕੰਮ ਕਰਦੇ ਹਨ। ਜੇਕਰ 6 ਵਿਦਿਆਰਥੀ ਹਫ਼ਤੇ ਵਿੱਚ 30 ਘੰਟੇ ਕੰਮ ਕਰਦੇ ਹਨ, ਤਾਂ ਉਹ ਪ੍ਰੋਜੈਕਟ ਨੂੰ ਕਿੰਨੇ ਦਿਨਾਂ ਵਿੱਚ ਪੂਰਾ ਕਰਨਗੇ?

Ans
1. 14
2. 12
3. 15
4. 13

Question ID : **630680112500**
Option 1 ID : **630680435694**
Option 2 ID : **630680435695**
Option 3 ID : **630680435697**
Option 4 ID : **630680435696**
Status : **Answered**
Chosen Option : **2**

Website - www.dailyjobalert.in

Q.72 ਇੱਕ ਤਿਕੋਣ ਦਾ ਆਧਾਰ ਅਤੇ ਅਨੁਸਾਰੀ ਉਚਾਈ ਕ੍ਰਮਵਾਰ 27cm ਅਤੇ 18cm ਹੈ। ਇੱਕ ਹੋਰ ਤਿਕੋਣ ਦਾ ਆਧਾਰ ਕਿੰਨਾ ਹੋਵੇਗਾ ਜਿਸਦਾ ਖੇਤਰਫਲ ਇਸ ਤਿਕੋਣ ਤੋਂ ਦੁੱਗਣਾ ਅਤੇ ਉਚਾਈ ਬਰਾਬਰ ਹੈ?

Ans
✗ 1. 9 cm
✗ 2. 27 cm
✗ 3. 36 cm
✓ 4. 54 cm

Question ID : **63068076123**
Option 1 ID : **630680294599**
Option 2 ID : **630680294600**
Option 3 ID : **630680294597**
Option 4 ID : **630680294598**
Status : **Answered**
Chosen Option : **4**

Q.73 ਇੱਕ ਪਾਈਪ 40 ਮਿੰਟਾਂ ਵਿੱਚ ਇੱਕ ਟੈਂਕ ਨੂੰ ਖਾਲੀ ਕਰ ਸਕਦੀ ਹੈ। ਪਹਿਲੀ ਪਾਈਪ ਨਾਲੋਂ ਦੁੱਗਣੇ ਵਿਆਸ ਵਾਲੀ ਇੱਕ ਦੂਜੀ ਪਾਈਪ ਉਸ ਟੈਂਕ ਨੂੰ ਖਾਲੀ ਕਰਨ ਲਈ ਜੋੜੀ ਜਾਂਦੀ ਹੈ। ਦੋਵੇਂ ਮਿਲ ਕੇ ਟੈਂਕ ਨੂੰ ਕਿੰਨੇ ਮਿੰਟਾਂ ਵਿੱਚ ਖਾਲੀ ਕਰ ਸਕਦੀਆਂ ਹਨ?

Ans
✗ 1. 20 ਮਿੰਟ
✓ 2. 8 ਮਿੰਟ
✗ 3. 10 ਮਿੰਟ
✗ 4. $\frac{40}{3}$ ਮਿੰਟ

Question ID : **630680140030**
Option 1 ID : **630680541987**
Option 2 ID : **630680541989**
Option 3 ID : **630680541988**
Option 4 ID : **630680541986**
Status : **Answered**
Chosen Option : **3**

Q.74 ਪਤਾ ਕਰੋ ਕਿ ਇੱਕ ਪੈਮਾਨੇ ਦੀ ਅਧਿਕਤਮ ਲੰਬਾਈ ਕਿੰਨੀ ਹੋ ਸਕਦੀ ਹੈ ਜੇਕਰ ਉਸਦੀ ਵਰਤੋਂ ਲੰਬਾਈਆਂ 8 m, 4 m 65 cm ਅਤੇ 13 m 65 cm ਨੂੰ ਪੂਰਨ ਰੂਪ ਵਿੱਚ ਮਾਪਣ ਲਈ ਕੀਤੀ ਜਾ ਸਕਦੀ ਹੈ।

Ans
✓ 1. 5 cm
✗ 2. 8 cm
✗ 3. 6 cm
✗ 4. 7 cm

Question ID : **630680115513**
Option 1 ID : **630680447402**
Option 2 ID : **630680447405**
Option 3 ID : **630680447403**
Option 4 ID : **630680447404**
Status : **Answered**
Chosen Option : **1**

Website - www.dailyjobalert.in

Q.75 ਦੋ ਸੰਖਿਆਵਾਂ ਵਿਚਕਾਰ ਅੰਤਰ 1240 ਹੈ। ਵੱਡੀ ਸੰਖਿਆ ਨੂੰ ਛੋਟੀ ਸੰਖਿਆ ਨਾਲ ਭਾਗ ਕਰਨ ਤੇ, ਭਾਗਫਲ 4 ਵਜੋਂ ਹਾਸਲ ਹੁੰਦਾ ਹੈ ਅਤੇ 7 ਬਾਕੀ ਵਜੋਂ ਬਚਦਾ ਹੈ। ਉਨ੍ਹਾਂ ਵਿਚੋਂ ਵੱਡੀ ਸੰਖਿਆ ਪਤਾ ਕਰੋ।

Ans
✗ 1. 1233
✓ 2. 1651
✗ 3. 1883
✗ 4. 2884

Question ID : **63068084197**
Option 1 ID : **630680326316**
Option 2 ID : **630680326318**
Option 3 ID : **630680326317**
Option 4 ID : **630680326319**
Status : **Answered**
Chosen Option : **2**

Q.76 ₹900 ਵਿੱਚ ਖਰੀਦੀ ਗਈ ਇੱਕ ਟੀ-ਸ਼ਰਟ ਦਾ ਅੰਕਿਤ ਮੁੱਲ ਇਸ ਤਰ੍ਹਾਂ ਰੱਖਿਆ ਗਿਆ ਹੈ ਕਿ ਉਸ 'ਤੇ 12% ਲਾਭ ਮਿਲ ਸਕੇ ਅਤੇ ਫਿਰ ਅੰਕਿਤ ਮੁੱਲ 'ਤੇ 14% ਵਿਕਰੀ ਛੋਟ 'ਤੇ ਵੇਚੀ ਜਾਂਦੀ ਹੈ। ਟੀ-ਸ਼ਰਟ ਦਾ ਵਿਕਰੀ ਮੁੱਲ ਪਤਾ ਕਰੋ।

Ans
✗ 1. ₹657.9
✗ 2. ₹580
✓ 3. ₹866.9
✗ 4. ₹766.29

Question ID : **630680108478**
Option 1 ID : **630680420878**
Option 2 ID : **630680420877**
Option 3 ID : **630680420879**
Option 4 ID : **630680420876**
Status : **Answered**
Chosen Option : **1**

Q.77 $\left(\sqrt{\left(\frac{2401}{49}\right)}\right)^3$ ਦਾ ਮੁੱਲ _____ ਦੇ ਬਰਾਬਰ ਹੈ।

Ans
✓ 1. 343
✗ 2. 49
✗ 3. 7
✗ 4. 76

Question ID : **630680108511**
Option 1 ID : **630680421004**
Option 2 ID : **630680421006**
Option 3 ID : **630680421005**
Option 4 ID : **630680421007**
Status : **Answered**
Chosen Option : **1**

Website - www.dailyjobalert.in

Q.78 ਇੱਕ ਵੇਲਣਾਕਾਰ ਥੰਮ੍ਹ ਦੀ ਵਕਰੀ ਸਤ੍ਹਾ ਦਾ ਖੇਤਰਫਲ ਅਤੇ ਆਇਤਨ ਕ੍ਰਮਵਾਰ 184 m^2 ਅਤੇ 488 m^3 ਹੈ। ਥੰਮ੍ਹ ਦੀ ਉਚਾਈ ਪਤਾ ਕਰੋ।

Ans
✔ 1. 5.52 m
✘ 2. 5.93 m
✘ 3. 6.52 m
✘ 4. 6.37 m

Question ID : **630680131160**
Option 1 ID : **630680507908**
Option 2 ID : **630680507907**
Option 3 ID : **630680507909**
Option 4 ID : **630680507906**
Status : **Answered**
Chosen Option : **1**

Q.79 $96 \div 48 - \{(4^2 - 6 \times 2)^2 \div (4 \div 2) + 7\} + \left(\frac{22}{9} \div \frac{11}{8} \times 2\frac{1}{4}\right)$ ਦਾ ਮੁੱਲ ਪਤਾ ਕਰੋ?

Ans
✘ 1. −8
✘ 2. 8
✘ 3. 9
✔ 4. −9

Question ID : **630680103688**
Option 1 ID : **630680402986**
Option 2 ID : **630680402985**
Option 3 ID : **630680402984**
Option 4 ID : **630680402983**
Status : **Answered**
Chosen Option : **3**

Q.80 ਜੇਕਰ ਕਿਸੇ ਵਸਤੂ ਦਾ ਵੇਚ ਮੁੱਲ, ਉਸਦੇ ਖਰੀਦ ਮੁੱਲ ਦਾ $\frac{4}{3}$ ਗੁਣਾ ਹੈ, ਤਾਂ ਲਾਭ ਪ੍ਰਤੀਸ਼ਤ ਪਤਾ ਕਰੋ।

Ans
✔ 1. 33.33%
✘ 2. 25.25%
✘ 3. 20.33%
✘ 4. 20.50%

Question ID : **630680222913**
Option 1 ID : **630680865411**
Option 2 ID : **630680865412**
Option 3 ID : **630680865414**
Option 4 ID : **630680865413**
Status : **Answered**
Chosen Option : **1**

Section : **Punjabi Language**

Website - www.dailyjobalert.in

Q.81 'Syntax' ਦਾ ਪੰਜਾਬੀ ਵਿੱਚ ਸ਼ਾਬਦਿਕ ਅਰਥ ਚੁਣੋ।

Ans
1. ਭਾਵਾਂਸ਼ ਵਿਓਂਤ
2. ਸੰਦਰਭਮੂਲਕ ਵਿਓਂਤ
3. ਅਰਥ ਵਿਓਂਤ
4. ਵਾਕ ਵਿਓਂਤ

Question ID : **630680241031**
Option 1 ID : **630680934595**
Option 2 ID : **630680934597**
Option 3 ID : **630680934598**
Option 4 ID : **630680934596**
Status : **Answered**
Chosen Option : **3**

Q.82 ਹੇਠ ਲਿਖਿਆਂ ਵਿੱਚੋਂ ਸ਼ੁੱਧ ਸ਼ਬਦ ਚੁਣੋ।

Ans
1. ਸੇਹਰਾ
2. ਸਿਹਰਾ
3. ਸਹਿਰਾ
4. ਸੇਅਰਾ

Question ID : **630680241021**
Option 1 ID : **630680934555**
Option 2 ID : **630680934556**
Option 3 ID : **630680934558**
Option 4 ID : **630680934557**
Status : **Answered**
Chosen Option : **2**

Q.83 "ਮੌਤ ਤੋਂ ਪੂਰੇ ਸਾਲ ਬਾਅਦ ਓਹੀ ਤਰੀਕ" ਨੂੰ ਕੀ ਕਹਿੰਦੇ ਹਨ?

Ans
1. ਵਰ੍ਹੀਣਾ
2. ਸ਼ਤਾਬਦੀ
3. ਦਿਹਾੜਾ
4. ਵਰ੍ਹੇਜ

Question ID : **630680241028**
Option 1 ID : **630680934584**
Option 2 ID : **630680934586**
Option 3 ID : **630680934585**
Option 4 ID : **630680934583**
Status : **Answered**
Chosen Option : **3**

Website - www.dailyjobalert.in

Q.84 ਅਕਰਮਕ ਕਿਰਿਆ ਕਿਸ ਨੂੰ ਆਖਦੇ ਹਨ?

Ans
1. ਜਿਸ ਵਾਕ ਵਿੱਚ ਕੇਵਲ ਕਿਰਿਆ ਹੋਵੇ।
2. ਜਿਸ ਵਾਕ ਵਿੱਚ ਕਿਰਿਆ ਦਾ ਕੇਵਲ ਕਰਤਾ ਹੋਵੇ।
3. ਜਿਸ ਵਾਕ ਵਿੱਚ ਕਰਤਾ ਅਤੇ ਕਰਮ ਦੋਵੇਂ ਹੋਣ।
4. ਜਿਸ ਵਾਕ ਵਿੱਚ ਕੇਵਲ ਕਰਮ ਹੋਵੇ।

Question ID : **630680241018**
Option 1 ID : **630680934546**
Option 2 ID : **630680934543**
Option 3 ID : **630680934545**
Option 4 ID : **630680934544**
Status : **Answered**
Chosen Option : **3**

Q.85 ਕਿਹੜਾ ਸ਼ਬਦ ਅਸ਼ੁੱਧ ਨਹੀਂ ਹੈ?

Ans
1. ਵਿਆਕਰਨ
2. ਵਿਯਕਾਰਣ
3. ਵੀਆਕਰਣ
4. ਵੇਆਕਰਨ

Question ID : **630680241023**
Option 1 ID : **630680934563**
Option 2 ID : **630680934565**
Option 3 ID : **630680934566**
Option 4 ID : **630680934564**
Status : **Answered**
Chosen Option : **1**

Q.86 "Being to Notice" ਦਾ ਪੰਜਾਬੀ ਵਿੱਚ ਤਰਜਮਾ ਚੁਣੋ।

Ans
1. ਧਿਆਨ ਰੱਖਣਾ
2. ਧਿਆਨ ਵਿੱਚ ਲੈਣ
3. ਧਿਆਨ ਮੰਗਣਾ
4. ਧਿਆਨ ਦਿਵਾਉਣਾ

Question ID : **630680241032**
Option 1 ID : **630680934601**
Option 2 ID : **630680934600**
Option 3 ID : **630680934602**
Option 4 ID : **630680934599**
Status : **Answered**
Chosen Option : **4**

Website - www.dailyjobalert.in

Q.87 "ਹਿੱਸੇ 'ਤੇ ਜ਼ਮੀਨ ਲੈ ਕੇ ਵਾਹੀ ਕਰਨ ਵਾਲੇ ਕਿਰਸਾਨ" ਨੂੰ ਕੀ ਆਖਦੇ ਹਨ?

Ans
✗ 1. ਵਗਾਰ
✓ 2. ਠੇਕੇਦਾਰ
✗ 3. ਹਿੱਸੇਦਾਰ
✗ 4. ਮੁਜ਼ਾਰਾ

Question ID : **630680241027**
Option 1 ID : **630680934580**
Option 2 ID : **630680934579**
Option 3 ID : **630680934582**
Option 4 ID : **630680934581**
Status : **Answered**
Chosen Option : **3**

Q.88 ਇੱਕ ਕਰੇਲਾ _____

ਅਖਾਣ ਪੂਰਾ ਕਰੋ।

Ans
✓ 1. ਦੂਜਾ ਨਿੰਮ ਚੜਿਆ
✗ 2. ਦੂਜਾ ਕੱਦੂ
✗ 3. ਇੱਕ ਆਲੂ
✗ 4. ਦੂਜਾ ਕੇਲਾ

Question ID : **630680241029**
Option 1 ID : **630680934589**
Option 2 ID : **630680934587**
Option 3 ID : **630680934588**
Option 4 ID : **630680934590**
Status : **Answered**
Chosen Option : **4**

Q.89 'ਸੜੀਅਲ' ਦਾ ਵਿਰੋਧੀ ਸ਼ਬਦ ਚੁਣੋ।

Ans
✗ 1. ਬੇਈਮਾਨ
✗ 2. ਅੜੀਅਲ
✗ 3. ਕੰਜੂਸ
✓ 4. ਹੱਸਮੁਖ

Question ID : **630680241026**
Option 1 ID : **630680934577**
Option 2 ID : **630680934575**
Option 3 ID : **630680934578**
Option 4 ID : **630680934576**
Status : **Answered**
Chosen Option : **4**

Website - www.dailyjobalert.in

Q.90 'ਹਰਸਿਮਰਨ ਪੜ੍ਹਦਾ ਹੈ।' ਵਾਕ ਵਿੱਚ ਹਰਸਿਮਰਨ ਕਿਹੜਾ ਕਾਰਕ ਹੈ।

Ans
✔ 1. ਕਰਤਾ ਕਾਰਕ
✘ 2. ਸੰਬੰਧ ਕਾਰਕ
✘ 3. ਕਰਨ ਕਾਰਕ
✘ 4. ਅਪਾਦਾਨ ਕਾਰਕ

Question ID : **630680241020**
Option 1 ID : **630680934551**
Option 2 ID : **630680934553**
Option 3 ID : **630680934552**
Option 4 ID : **630680934554**
Status : **Answered**
Chosen Option : **1**

Q.91 ਗੁਣ-ਵਾਚਕ ਵਿਸ਼ੇਸ਼ਣ ਚੁਣੋ।

Ans
✘ 1. ਮੈਨੂੰ ਥੋੜੇ ਜਿਹੇ ਪੈਸੇ ਚਾਹੀਦੇ ਹਨ।
✔ 2. ਇਹ ਲੜਕਾ ਨਾਲਾਇਕ ਹੈ।
✘ 3. ਕਿਹੜਾ ਬੱਚਾ ਬਿਮਾਰ ਹੈ।
✘ 4. ਮੇਰੇ ਕੋਲ ਪੰਜ ਪੱਗਾਂ ਹਨ।

Question ID : **630680241019**
Option 1 ID : **630680934549**
Option 2 ID : **630680934548**
Option 3 ID : **630680934550**
Option 4 ID : **630680934547**
Status : **Answered**
Chosen Option : **2**

Q.92 ਮਾਂ ਨਾਲੋਂ ਧੀ ਸਿਆਣੀ _____
ਅਖਾਣ ਪੂਰਾ ਕਰੋ।

Ans
✔ 1. ਰਿੱਧੇ-ਪੱਕੇ ਪਾਵੇ ਪਾਣੀ
✘ 2. ਰੋਜ਼ ਸੁਣਾਵੇ ਉਹ ਕਹਾਣੀ
✘ 3. ਕਦਰ ਨਾ ਕਿਸੇ ਉਸ ਦੀ ਜਾਣੀ
✘ 4. ਨਾ ਉਸ ਦਾ ਸੀਤਾ ਰਾਣੀ

Question ID : **630680241030**
Option 1 ID : **630680934591**
Option 2 ID : **630680934593**
Option 3 ID : **630680934594**
Option 4 ID : **630680934592**
Status : **Answered**
Chosen Option : **1**

DAILY JOB Alert ਪੰਜਾਬ

Q.93 ਕਿਹੜਾ 'ਆਧੁਨਿਕ' ਦਾ ਸਮਾਨਾਰਥਕ ਸ਼ਬਦ ਨਹੀਂ ਹੈ?

Ans
✔ 1. ਪੁਰਾਤਨ
✘ 2. ਅਜੋਕਾ
✘ 3. ਮੌਜੂਦਾ
✘ 4. ਵਰਤਮਾਨ

Question ID : **630680241024**
Option 1 ID : **630680934567**
Option 2 ID : **630680934568**
Option 3 ID : **630680934570**
Option 4 ID : **630680934569**
Status : **Answered**
Chosen Option : **1**

Q.94 ਸ਼ੁੱਧ ਸ਼ਬਦ ਚੁਣੋ।

Ans
✘ 1. ਦਪਿਹਰ
✘ 2. ਦੋਪਿਹਰ
✘ 3. ਦੂਪਿਹਰ
✔ 4. ਦੁਪਿਹਰ

Question ID : **630680241022**
Option 1 ID : **630680934559**
Option 2 ID : **630680934562**
Option 3 ID : **630680934560**
Option 4 ID : **630680934561**
Status : **Answered**
Chosen Option : **4**

Q.95 'ਕੁੜੱਤਣ' ਦਾ ਵਿਰੋਧੀ ਸ਼ਬਦ ਚੁਣੋ।

Ans
✘ 1. ਨਮਕੀਨ
✔ 2. ਮਿਠਾਸ
✘ 3. ਕੌੜਾ
✘ 4. ਮਿੱਠਾ

Question ID : **630680241025**
Option 1 ID : **630680934573**
Option 2 ID : **630680934574**
Option 3 ID : **630680934571**
Option 4 ID : **630680934572**
Status : **Answered**
Chosen Option : **2**

Website - www.dailyjobalert.in

Q.96 ਹੇਠ ਦਿੱਤੇ ਵਾਕਾਂ ਵਿੱਚੋਂ ਸਥਾਨ ਵਾਚਕ ਕਿਰਿਆ-ਵਿਸ਼ੇਸ਼ਣ ਚੁਣੋ।

Ans
✔ 1. ਤੁਸੀਂ ਅੰਦਰ ਬੈਠੇ
✘ 2. ਮੈਂ ਤੇਜ਼-ਤੇਜ਼ ਤੁਰਦਾ ਹਾਂ
✘ 3. ਉਹ ਦੁਪਿਹਰੇ ਆਇਆ
✘ 4. ਉਹ ਹੀ ਤਾਂ ਚੋਰ ਹੈ

Question ID : **630680241017**
Option 1 ID : **630680934540**
Option 2 ID : **630680934541**
Option 3 ID : **630680934539**
Option 4 ID : **630680934542**
Status : **Answered**
Chosen Option : **1**

Comprehension:

ਸਾਡੇ ਅਨੇਕਾਂ ਨੌਜਵਾਨ ਜ਼ਿੰਦਗੀ ਦੇ ਚੌਰਸਤੇ ਉੱਤੇ ਡਾਵਾਂਡੋਲ ਖੜੋਤੇ ਵਿਖਾਈ ਦੇ ਰਹੇ ਹਨ। ਉਹ ਹਰ ਪਾਸੇ ਵੇਖ ਰਹੇ ਹਨ, ਪਰ ਆਪਣੀ ਜ਼ਿੰਦਗੀ ਦੇ ਕੰਮ ਦੀ ਚੋਣ ਨਹੀਂ ਕਰ ਸਕਦੇ, ਪਹਿਲੋਂ ਤਾਂ ਉਹਨਾਂ ਨੂੰ ਕਰਨ ਵਾਲੇ ਕੰਮ ਹੀ ਬਹੁਤੇ ਨਹੀਂ ਦਿਸਦੇ ਤੇ ਫੇਰ ਉਹਨਾਂ ਨੂੰ ਪਤਾ ਨਹੀਂ ਲੱਗਦਾ ਕਿ ਉਹ ਕਿਸ ਕੰਮ ਦੀ ਯੋਗਤਾ ਰੱਖਦੇ ਹਨ। ਇਸ ਚੋਣ ਉੱਤੇ ਹੀ ਜ਼ਿੰਦਗੀ ਦੀ ਕਾਮਯਾਬੀ ਨਿਰਭਰ ਹੈ। ਅਨੇਕਾਂ ਕੀਮਤੀ ਜ਼ਿੰਦਗੀਆਂ ਸਿਰਫ਼ ਏਸ ਲਈ ਆਪਣਾ ਮੁੱਲ ਨਹੀਂ ਪੁਆ ਸਕੀਆਂ ਕਿ ਉਹਨਾਂ ਦੇ ਕੰਮ ਦੀ ਚੋਣ ਗਲਤ ਸੀ, ਸਾਰੀ ਉਮਰ ਗੋਲ ਸੁਰਾਖ ਵਿੱਚ ਜੋੜਨ ਲਈ ਉਹ ਆਪਣੇ ਚੌਰਸ ਕਿੱਲੇ ਦੀਆਂ ਨੁੱਕਰਾਂ ਛਿੱਲਦੇ ਰਹਿੰਦੇ ਹਨ। ਕੰਮ ਦੀ ਚੋਣ ਜ਼ਿੰਦਗੀ ਦੇ ਪਹਿਲੇ ਇੱਕ ਜਾਂ ਦੋ ਫੈਸਲਿਆਂ ਵਿੱਚੋਂ ਹੈ। ਹਜ਼ਾਰਾਂ ਜ਼ਿੰਦਗੀਆਂ ਗਲਤ ਚੋਣ ਕਰਕੇ ਨਿਕੰਮੀਆਂ ਤੇ ਨਾਖੁਸ਼ ਰਹਿ ਜਾਂਦੀਆਂ ਹਨ। ਹਰੇਕ ਕਸਬੇ ਵਿੱਚ ਬੇਸ਼ੁਮਾਰ ਅੱਕੇ-ਥੱਕੇ ਕਾਰੀਗਰਾਂ ਦੀ ਝਾਕੀ ਦਿਸਦੀ ਹੈ। ਪਰ ਜਦ ਤੱਕ ਇੱਕ ਕਾਰੀਗਰ ਨੂੰ ਆਪਣੇ ਹੱਥਲੇ ਕੰਮ ਵਿੱਚੋਂ ਰੋਜ਼ੀ ਤੋਂ ਛੁੱਟ ਇੱਕ ਅਨੰਦ ਪ੍ਰਾਪਤ ਨਹੀਂ ਹੁੰਦਾ, ਉਹ ਨਾ ਤਾਂ ਆਪਣੇ ਕੰਮ ਵਿੱਚ ਕਮਾਲ ਦੀ ਆਸ ਰੱਖ ਸਕਦਾ ਹੈ ਤੇ ਨਾ ਉਸ ਕੰਮ ਦੇ ਵਸੀਲੇ ਨਾਲ ਆਪਣੀ ਆਤਮਾ ਵਿੱਚ ਖੇੜਾ ਲਿਆ ਸਕਦਾ ਹੈ ਤੇ ਯਾਦ ਰਹੇ ਕਿ ਜ਼ਿੰਦਗੀ ਨੂੰ ਸਫ਼ਲ ਤੌਰ ਉੱਤੇ ਚਾਲੂ ਰੱਖਣ ਲਈ ਗੁਜ਼ਾਰੇ ਨਾਲੋਂ ਖੇੜੇ ਦੀ ਲੋੜ ਵਧੇਰੇ ਹੈ। ਜਿਸ ਦਿਲ ਵਿੱਚ ਉਸ ਦੇ ਹੱਥਾਂ ਦੀ ਕਾਰ ਕਈ ਵਾਰ ਹੁਲਾਸ ਤੇ ਖੇੜਾ ਨਹੀਂ ਲਿਆਉਂਦੀ, ਉਹ ਉਸ ਫੁੱਲ ਵਾਂਗ ਬੇ-ਨਿਖਾਰ ਰਹਿੰਦਾ ਹੈ, ਜਿਸ ਉੱਤੇ ਸ਼ਬਨਮ ਦਾ ਮੋਤੀ ਨਹੀਂ ਥਰਕਿਆ, ਨਾ ਅਕਾਸ਼ੋਂ ਚਿੱਟੇ ਮੀਂਹ ਦਾ ਕਤਰਾ ਡਿੱਗਾ ਹੈ।

SubQuestion No : 97

Q.97 **ਪੈਰੇ ਦਾ ਢੁਕਵਾਂ ਸਿਰਲੇਖ ਦੱਸੋ।**

Ans
✘ 1. ਕੰਮ ਦੀ ਚੋਣ ਕਰਨ ਦਾ ਢੰਗ
✘ 2. ਕਾਰੀਗਰੀ
✘ 3. ਅਜੋਕੀ ਨੌਜਵਾਨੀ
✔ 4. ਜ਼ਿੰਦਗੀ ਦੀ ਕਾਮਯਾਬੀ

Question ID : **630680241036**
Option 1 ID : **630680934612**
Option 2 ID : **630680934613**
Option 3 ID : **630680934611**
Option 4 ID : **630680934614**
Status : **Answered**
Chosen Option : **3**

DAILY JOB Alert ਪੰਜਾਬ

Comprehension:

ਸਾਡੇ ਅਨੇਕਾਂ ਨੌਜਵਾਨ ਜ਼ਿੰਦਗੀ ਦੇ ਚੌਰਸਤੇ ਉੱਤੇ ਡਾਵਾਂਡੋਲ ਖੜੋਤੇ ਵਿਖਾਈ ਦੇ ਰਹੇ ਹਨ। ਉਹ ਹਰ ਪਾਸੇ ਵੇਖ ਰਹੇ ਹਨ, ਪਰ ਆਪਣੀ ਜ਼ਿੰਦਗੀ ਦੇ ਕੰਮ ਦੀ ਚੋਣ ਨਹੀਂ ਕਰ ਸਕਦੇ, ਪਹਿਲੋਂ ਤਾਂ ਉਹਨਾਂ ਨੂੰ ਕਰਨ ਵਾਲੇ ਕੰਮ ਹੀ ਬਹੁਤੇ ਨਹੀਂ ਦਿਸਦੇ ਤੇ ਫੇਰ ਉਹਨਾਂ ਨੂੰ ਪਤਾ ਨਹੀਂ ਲੱਗਦਾ ਕਿ ਉਹ ਕਿਸ ਕੰਮ ਦੀ ਯੋਗਤਾ ਰੱਖਦੇ ਹਨ। ਇਸ ਚੋਣ ਉੱਤੇ ਹੀ ਜ਼ਿੰਦਗੀ ਦੀ ਕਾਮਯਾਬੀ ਨਿਰਭਰ ਹੈ। ਅਨੇਕਾਂ ਕੀਮਤੀ ਜ਼ਿੰਦਗੀਆਂ ਸਿਰਫ਼ ਏਸ ਲਈ ਆਪਣਾ ਮੁੱਲ ਨਹੀਂ ਪੁਆ ਸਕੀਆਂ ਕਿ ਉਹਨਾਂ ਦੇ ਕੰਮ ਦੀ ਚੋਣ ਗਲਤ ਸੀ, ਸਾਰੀ ਉਮਰ ਗੋਲ ਸੁਰਾਖ ਵਿੱਚ ਜੋੜਨ ਲਈ ਉਹ ਆਪਣੇ ਚੌਰਸ ਕਿੱਲੇ ਦੀਆਂ ਨੁੱਕਰਾਂ ਛਿੱਲਦੇ ਰਹਿੰਦੇ ਹਨ। ਕੰਮ ਦੀ ਚੋਣ ਜ਼ਿੰਦਗੀ ਦੇ ਪਹਿਲੇ ਇੱਕ ਜਾਂ ਦੋ ਫੈਸਲਿਆਂ ਵਿੱਚੋਂ ਹੈ। ਹਜ਼ਾਰਾਂ ਜ਼ਿੰਦਗੀਆਂ ਗਲਤ ਚੋਣ ਕਰਕੇ ਨਿਕੰਮੀਆਂ ਤੇ ਨਾਖੁਸ਼ ਰਹਿ ਜਾਂਦੀਆਂ ਹਨ। ਹਰੇਕ ਕਸਬੇ ਵਿੱਚ ਬੇਸ਼ੁਮਾਰ ਅੱਕੇ-ਥੱਕੇ ਕਾਰੀਗਰਾਂ ਦੀ ਝਾਕੀ ਦਿਸਦੀ ਹੈ। ਪਰ ਜਦ ਤੱਕ ਇੱਕ ਕਾਰੀਗਰ ਨੂੰ ਆਪਣੇ ਹੱਥਲੇ ਕੰਮ ਵਿੱਚੋਂ ਰੋਜ਼ੀ ਤੋਂ ਛੁੱਟ ਇੱਕ ਅਨੰਦ ਪ੍ਰਾਪਤ ਨਹੀਂ ਹੁੰਦਾ, ਉਹ ਨਾ ਤਾਂ ਆਪਣੇ ਕੰਮ ਵਿੱਚ ਕਮਾਲ ਦੀ ਆਸ ਰੱਖ ਸਕਦਾ ਹੈ ਤੇ ਨਾ ਉਸ ਕੰਮ ਦੇ ਵਸੀਲੇ ਨਾਲ ਆਪਣੀ ਆਤਮਾ ਵਿੱਚ ਖੇੜਾ ਲਿਆ ਸਕਦਾ ਹੈ ਤੇ ਯਾਦ ਰਹੇ ਕਿ ਜ਼ਿੰਦਗੀ ਨੂੰ ਸਫ਼ਲ ਤੌਰ ਉੱਤੇ ਚਾਲੂ ਰੱਖਣ ਲਈ ਗੁਜ਼ਾਰੇ ਨਾਲੋਂ ਖੇੜੇ ਦੀ ਲੋੜ ਵਧੇਰੇ ਹੈ। ਜਿਸ ਦਿਲ ਵਿੱਚ ਉਸ ਦੇ ਹੱਥਾਂ ਦੀ ਕਾਰ ਕਈ ਵਾਰ ਹੁਲਾਸ ਤੇ ਖੇੜਾ ਨਹੀਂ ਲਿਆਉਂਦੀ, ਉਹ ਉਸ ਫੁੱਲ ਵਾਂਗ ਬੇ-ਨਿਖਾਰ ਰਹਿੰਦਾ ਹੈ, ਜਿਸ ਉੱਤੇ ਸ਼ਬਨਮ ਦਾ ਮੋਤੀ ਨਹੀਂ ਥਰਕਿਆ, ਨਾ ਅਕਾਸ਼ੋਂ ਚਿੱਟੇ ਮੀਂਹ ਦਾ ਕਤਰਾ ਡਿੱਗਾ ਹੈ।

SubQuestion No : 98

Q.98 ਇੱਕ ਕਾਰੀਗਰ ਨੂੰ ਆਪਣੇ ਕੰਮ ਵਿੱਚੋਂ ਰੋਜ਼ੀ ਤੋਂ ਇਲਾਵਾ ਹੋਰ ਕੀ ਪ੍ਰਾਪਤ ਹੋਣਾ ਚਾਹੀਦਾ ਹੈ?

Ans
- ✗ 1. ਪੈਸੇ
- ✗ 2. ਰਾਜ ਭਾਗ
- ✓ 3. ਅਨੰਦ
- ✗ 4. ਰਿਸ਼ਵਤ

Question ID : **630680241034**
Option 1 ID : **630680934603**
Option 2 ID : **630680934606**
Option 3 ID : **630680934605**
Option 4 ID : **630680934604**
Status : **Answered**
Chosen Option : **3**

Comprehension:

ਸਾਡੇ ਅਨੇਕਾਂ ਨੌਜਵਾਨ ਜ਼ਿੰਦਗੀ ਦੇ ਚੌਰਸਤੇ ਉੱਤੇ ਡਾਵਾਂਡੋਲ ਖੜੋਤੇ ਵਿਖਾਈ ਦੇ ਰਹੇ ਹਨ। ਉਹ ਹਰ ਪਾਸੇ ਵੇਖ ਰਹੇ ਹਨ, ਪਰ ਆਪਣੀ ਜ਼ਿੰਦਗੀ ਦੇ ਕੰਮ ਦੀ ਚੋਣ ਨਹੀਂ ਕਰ ਸਕਦੇ, ਪਹਿਲੋਂ ਤਾਂ ਉਹਨਾਂ ਨੂੰ ਕਰਨ ਵਾਲੇ ਕੰਮ ਹੀ ਬਹੁਤੇ ਨਹੀਂ ਦਿਸਦੇ ਤੇ ਫੇਰ ਉਹਨਾਂ ਨੂੰ ਪਤਾ ਨਹੀਂ ਲੱਗਦਾ ਕਿ ਉਹ ਕਿਸ ਕੰਮ ਦੀ ਯੋਗਤਾ ਰੱਖਦੇ ਹਨ। ਇਸ ਚੋਣ ਉੱਤੇ ਹੀ ਜ਼ਿੰਦਗੀ ਦੀ ਕਾਮਯਾਬੀ ਨਿਰਭਰ ਹੈ। ਅਨੇਕਾਂ ਕੀਮਤੀ ਜ਼ਿੰਦਗੀਆਂ ਸਿਰਫ਼ ਏਸ ਲਈ ਆਪਣਾ ਮੁੱਲ ਨਹੀਂ ਪੁਆ ਸਕੀਆਂ ਕਿ ਉਹਨਾਂ ਦੇ ਕੰਮ ਦੀ ਚੋਣ ਗਲਤ ਸੀ, ਸਾਰੀ ਉਮਰ ਗੋਲ ਸੁਰਾਖ ਵਿੱਚ ਜੋੜਨ ਲਈ ਉਹ ਆਪਣੇ ਚੌਰਸ ਕਿੱਲੇ ਦੀਆਂ ਨੁੱਕਰਾਂ ਛਿੱਲਦੇ ਰਹਿੰਦੇ ਹਨ। ਕੰਮ ਦੀ ਚੋਣ ਜ਼ਿੰਦਗੀ ਦੇ ਪਹਿਲੇ ਇੱਕ ਜਾਂ ਦੋ ਫੈਸਲਿਆਂ ਵਿੱਚੋਂ ਹੈ। ਹਜ਼ਾਰਾਂ ਜ਼ਿੰਦਗੀਆਂ ਗਲਤ ਚੋਣ ਕਰਕੇ ਨਿਕੰਮੀਆਂ ਤੇ ਨਾਖੁਸ਼ ਰਹਿ ਜਾਂਦੀਆਂ ਹਨ। ਹਰੇਕ ਕਸਬੇ ਵਿੱਚ ਬੇਸ਼ੁਮਾਰ ਅੱਕੇ-ਥੱਕੇ ਕਾਰੀਗਰਾਂ ਦੀ ਝਾਕੀ ਦਿਸਦੀ ਹੈ। ਪਰ ਜਦ ਤੱਕ ਇੱਕ ਕਾਰੀਗਰ ਨੂੰ ਆਪਣੇ ਹੱਥਲੇ ਕੰਮ ਵਿੱਚੋਂ ਰੋਜ਼ੀ ਤੋਂ ਛੁੱਟ ਇੱਕ ਅਨੰਦ ਪ੍ਰਾਪਤ ਨਹੀਂ ਹੁੰਦਾ, ਉਹ ਨਾ ਤਾਂ ਆਪਣੇ ਕੰਮ ਵਿੱਚ ਕਮਾਲ ਦੀ ਆਸ ਰੱਖ ਸਕਦਾ ਹੈ ਤੇ ਨਾ ਉਸ ਕੰਮ ਦੇ ਵਸੀਲੇ ਨਾਲ ਆਪਣੀ ਆਤਮਾ ਵਿੱਚ ਖੇੜਾ ਲਿਆ ਸਕਦਾ ਹੈ ਤੇ ਯਾਦ ਰਹੇ ਕਿ ਜ਼ਿੰਦਗੀ ਨੂੰ ਸਫ਼ਲ ਤੌਰ ਉੱਤੇ ਚਾਲੂ ਰੱਖਣ ਲਈ ਗੁਜ਼ਾਰੇ ਨਾਲੋਂ ਖੇੜੇ ਦੀ ਲੋੜ ਵਧੇਰੇ ਹੈ। ਜਿਸ ਦਿਲ ਵਿੱਚ ਉਸ ਦੇ ਹੱਥਾਂ ਦੀ ਕਾਰ ਕਈ ਵਾਰ ਹੁਲਾਸ ਤੇ ਖੇੜਾ ਨਹੀਂ ਲਿਆਉਂਦੀ, ਉਹ ਉਸ ਫੁੱਲ ਵਾਂਗ ਬੇ-ਨਿਖਾਰ ਰਹਿੰਦਾ ਹੈ, ਜਿਸ ਉੱਤੇ ਸ਼ਬਨਮ ਦਾ ਮੋਤੀ ਨਹੀਂ ਥਰਕਿਆ, ਨਾ ਅਕਾਸ਼ੋਂ ਚਿੱਟੇ ਮੀਂਹ ਦਾ ਕਤਰਾ ਡਿੱਗਾ ਹੈ।

SubQuestion No : 99

Q.99 ਅੱਜ ਦੇ ਨੌਜਵਾਨ ਡਾਵਾਂਡੋਲ ਕਿਉ ਹਨ?

Ans
- ✗ 1. ਕੰਮ ਦੀ ਸਹੀ ਚੋਣ ਕਰਕੇ
- ✗ 2. ਵਿਹਲੇ ਰਹਿਣ ਕਰਕੇ
- ✗ 3. ਕੰਮ ਨਾ ਮਿਲਣ ਕਰਕੇ
- ✓ 4. ਕੰਮ ਦੀ ਸਹੀ ਚੋਣ ਨਾ ਕਰ ਸਕਣ ਕਰਕੇ

Question ID : **630680241035**
Option 1 ID : **630680934607**
Option 2 ID : **630680934610**
Option 3 ID : **630680934608**
Option 4 ID : **630680934609**
Status : **Answered**
Chosen Option : **4**

Website - www.dailyjobalert.in

Comprehension:

ਸਾਡੇ ਅਨੇਕਾਂ ਨੌਜਵਾਨ ਜ਼ਿੰਦਗੀ ਦੇ ਚੌਰਸਤੇ ਉੱਤੇ ਡਾਵਾਂਡੋਲ ਖੜੋਤੇ ਵਿਖਾਈ ਦੇ ਰਹੇ ਹਨ। ਉਹ ਹਰ ਪਾਸੇ ਵੇਖ ਰਹੇ ਹਨ, ਪਰ ਆਪਣੀ ਜ਼ਿੰਦਗੀ ਦੇ ਕੰਮ ਦੀ ਚੋਣ ਨਹੀਂ ਕਰ ਸਕਦੇ, ਪਹਿਲੋਂ ਤਾਂ ਉਹਨਾਂ ਨੂੰ ਕਰਨ ਵਾਲੇ ਕੰਮ ਹੀ ਬਹੁਤੇ ਨਹੀਂ ਦਿਸਦੇ ਤੇ ਫੇਰ ਉਹਨਾਂ ਨੂੰ ਪਤਾ ਨਹੀਂ ਲੱਗਦਾ ਕਿ ਉਹ ਕਿਸ ਕੰਮ ਦੀ ਯੋਗਤਾ ਰੱਖਦੇ ਹਨ। ਇਸ ਚੋਣ ਉੱਤੇ ਹੀ ਜ਼ਿੰਦਗੀ ਦੀ ਕਾਮਯਾਬੀ ਨਿਰਭਰ ਹੈ। ਅਨੇਕਾਂ ਕੀਮਤੀ ਜ਼ਿੰਦਗੀਆਂ ਸਿਰਫ਼ ਏਸ ਲਈ ਆਪਣਾ ਮੁੱਲ ਨਹੀਂ ਪੁਆ ਸਕੀਆਂ ਕਿ ਉਹਨਾਂ ਦੇ ਕੰਮ ਦੀ ਚੋਣ ਗਲਤ ਸੀ, ਸਾਰੀ ਉਮਰ ਗੋਲ ਸੁਰਾਖ ਵਿੱਚ ਜੋੜਨ ਲਈ ਉਹ ਆਪਣੇ ਚੌਰਸ ਕਿੱਲੇ ਦੀਆਂ ਨੁੱਕਰਾਂ ਛਿੱਲਦੇ ਰਹਿੰਦੇ ਹਨ। ਕੰਮ ਦੀ ਚੋਣ ਜ਼ਿੰਦਗੀ ਦੇ ਪਹਿਲੇ ਇੱਕ ਜਾਂ ਦੋ ਫੈਸਲਿਆਂ ਵਿੱਚੋਂ ਹੈ। ਹਜ਼ਾਰਾਂ ਜ਼ਿੰਦਗੀਆਂ ਗਲਤ ਚੋਣ ਕਰਕੇ ਨਿਕੰਮੀਆਂ ਤੇ ਨਾਖੁਸ਼ ਰਹਿ ਜਾਂਦੀਆਂ ਹਨ। ਹਰੇਕ ਕਸਬੇ ਵਿੱਚ ਬੇਸ਼ੁਮਾਰ ਅੱਕੇ-ਥੱਕੇ ਕਾਰੀਗਰਾਂ ਦੀ ਝਾਕੀ ਦਿਸਦੀ ਹੈ। ਪਰ ਜਦ ਤੱਕ ਇੱਕ ਕਾਰੀਗਰ ਨੂੰ ਆਪਣੇ ਹੱਥਲੇ ਕੰਮ ਵਿੱਚੋਂ ਰੋਜ਼ੀ ਤੋਂ ਛੁੱਟ ਇੱਕ ਅਨੰਦ ਪ੍ਰਾਪਤ ਨਹੀਂ ਹੁੰਦਾ, ਉਹ ਨਾ ਤਾਂ ਆਪਣੇ ਕੰਮ ਵਿੱਚ ਕਮਾਲ ਦੀ ਆਸ ਰੱਖ ਸਕਦਾ ਹੈ ਤੇ ਨਾ ਉਸ ਕੰਮ ਦੇ ਵਸੀਲੇ ਨਾਲ ਆਪਣੀ ਆਤਮਾ ਵਿੱਚ ਖੇੜਾ ਲਿਆ ਸਕਦਾ ਹੈ ਤੇ ਯਾਦ ਰਹੇ ਕਿ ਜ਼ਿੰਦਗੀ ਨੂੰ ਸਫ਼ਲ ਤੌਰ ਉੱਤੇ ਚਾਲੂ ਰੱਖਣ ਲਈ ਗੁਜ਼ਾਰੇ ਨਾਲੋਂ ਖੇੜੇ ਦੀ ਲੋੜ ਵਧੇਰੇ ਹੈ। ਜਿਸ ਦਿਲ ਵਿੱਚ ਉਸ ਦੇ ਹੱਥਾਂ ਦੀ ਕਾਰ ਕਈ ਵਾਰ ਹੁਲਾਸ ਤੇ ਖੇੜਾ ਨਹੀਂ ਲਿਆਉਂਦੀ, ਉਹ ਉਸ ਫੁੱਲ ਵਾਂਗ ਬੇ-ਨਿਖਾਰ ਰਹਿੰਦਾ ਹੈ, ਜਿਸ ਉੱਤੇ ਸ਼ਬਨਮ ਦਾ ਮੋਤੀ ਨਹੀਂ ਥਰਕਿਆ, ਨਾ ਅਕਾਸ਼ੋਂ ਚਿੱਟੇ ਮੀਂਹ ਦਾ ਕਤਰਾ ਡਿੱਗਾ ਹੈ।

SubQuestion No : 100

Q.100 'ਬੇਸ਼ੁਮਾਰ' ਦਾ ਅਰਥ ਦੱਸੋ।

Ans

✗ 1. ਚੋਣਵੇਂ

✓ 2. ਅਣਗਣਿਤ

✗ 3. ਮਾਮੂਲੀ

✗ 4. ਨਿਕੰਮੇ

Question ID : **630680241037**
Option 1 ID : **630680934617**
Option 2 ID : **630680934615**
Option 3 ID : **630680934616**
Option 4 ID : **630680934618**
Status : **Answered**
Chosen Option : **2**

DAILY JOB Alert ਪੰਜਾਬ

PUNJAB POLICE

Police to its last particle is duty

Exam Name	Recruitment for the post of Sub Inspector in Cadres of District and Armed Police 20th Jun to 31st Jul 2023 S2 Paper II and III
Application No	www.dailyjobalert.in
Roll No	Telegram - Daily Job Alert Punjab
Applicant Name	instagram - Daily Job Alert Punjab
Exam Date	20/06/2023
Shift	4:00 PM - 7:00 PM
Subject	Sub Inspector Paper II and III

Section : **Logical and Analytical Reasoning and Data Interpretation**

Q.1 ਕੁਝ ਵਿਅਕਤੀ ਉੱਤਰ ਵੱਲ ਮੁੰਹ ਕਰਕੇ ਇੱਕ ਕਤਾਰ ਵਿੱਚ ਬੈਠੇ ਹਨ। M, ਕਤਾਰ ਦੇ ਸਿਰਿਆਂ ਵਿਚੋਂ ਇੱਕ ਸਿਰੇ 'ਤੇ, G ਦੇ ਠੀਕ ਖੱਬੇ ਪਾਸੇ ਬੈਠਾ ਹੈ। U, T ਦੇ ਸੱਜੇ ਪਾਸੇ ਤੋਂ ਤੀਜੇ ਸਥਾਨ 'ਤੇ ਬੈਠਾ ਹੈ। ਸਿਰਫ਼ ਇੱਕ ਵਿਅਕਤੀ G ਅਤੇ S ਦੇ ਵਿਚਕਾਰ ਬੈਠਦਾ ਹੈ। T, R ਦੇ ਸੱਜੇ ਪਾਸੇ ਤੋਂ ਚੌਥੇ ਸਥਾਨ 'ਤੇ ਬੈਠਾ ਹੈ। ਸਿਰਫ਼ ਤਿੰਨ ਵਿਅਕਤੀ R ਅਤੇ Q ਦੇ ਵਿਚਕਾਰ ਬੈਠੇ ਹਨ। S, Q ਦੇ ਖੱਬੇ ਪਾਸੇ ਤੋਂ ਤੀਜੇ ਸਥਾਨ 'ਤੇ ਬੈਠਾ ਹੈ। ਜੇਕਰ ਕਤਾਰ ਵਿੱਚ ਕੋਈ ਹੋਰ ਵਿਅਕਤੀ ਨਹੀਂ ਬੈਠਾ ਹੈ, ਤਾਂ ਕਤਾਰ ਵਿੱਚ ਬੈਠੇ ਵਿਅਕਤੀਆਂ ਦੀ ਕੁੱਲ ਗਿਣਤੀ ਕਿੰਨੀ ਹੋਵੇਗੀ?

Ans

✗ 1. 19

✓ 2. 18

✗ 3. 17

✗ 4. 16

Question ID : **630680112285**
Option 1 ID : **630680434857**
Option 2 ID : **630680434856**
Option 3 ID : **630680434855**
Option 4 ID : **630680434854**
Status : **Not Answered**
Chosen Option : **--**

Website - www.dailyjobalert.in

Q.2 ਕਿਸੇ ਖਾਸ ਕੋਡ ਭਾਸ਼ਾ ਵਿੱਚ, 'FEAR' ਨੂੰ '18-6-5-1' ਵਜੋਂ ਅਤੇ 'GONE' ਨੂੰ '5-7-15-14' ਵਜੋਂ ਕੋਡਬੱਧ ਕੀਤਾ ਗਿਆ ਹੈ। ਉਸੇ ਭਾਸ਼ਾ ਵਿੱਚ 'HANG' ਨੂੰ ਕਿਵੇਂ ਕੋਡਬੱਧ ਕੀਤਾ ਜਾਵੇਗਾ?

Ans
✔ 1. 7-8-1-14
✘ 2. 14-1-8-7
✘ 3. 8-7-1-14
✘ 4. 14-7-8-1

Question ID : **630680158226**
Option 1 ID : **630680612435**
Option 2 ID : **630680612432**
Option 3 ID : **630680612433**
Option 4 ID : **630680612434**
Status : **Answered**
Chosen Option : **1**

Q.3 Read the given statements and conclusions carefully. Assuming that the information given in the statements is true, even if it appears to be at variance with commonly known facts, decide which of the given conclusions logically follow(s) from the statements.

Statements:
All pacifiers are rainbows.
Some rainbows are spinach.
Some spaghettis are trains.

Conclusions:
(I) Some spaghettis are pacifiers.
(II) Some tomatoes are rainbows
(III) Some pacifiers are trains.

Ans
✘ 1. Either conclusion I or conclusion III follows
✔ 2. None of the conclusions follow
✘ 3. Only conclusion II follows
✘ 4. Only conclusion I follows

Question ID : **630680104979**
Option 1 ID : **630680408029**
Option 2 ID : **630680408030**
Option 3 ID : **630680408028**
Option 4 ID : **630680408027**
Status : **Answered**
Chosen Option : **2**

DAILY JOB Alert ਪੰਜਾਬ

Q.4 ਇੱਕ ਖਾਸ ਕੋਡ ਭਾਸ਼ਾ ਵਿੱਚ, ਜੇਕਰ STAR ਨੂੰ 1234 ਵਜੋਂ ਅਤੇ TORE ਨੂੰ 2546 ਵਜੋਂ ਲਿਖਿਆ ਜਾਂਦਾ ਹੈ, ਤਾਂ ਉਸੇ ਭਾਸ਼ਾ ਵਿੱਚ OATS ਨੂੰ ਕਿਵੇਂ ਲਿਖਿਆ ਜਾਵੇਗਾ?

Ans
✔ 1. 5321
✘ 2. 1235
✘ 3. 2351
✘ 4. 5231

Question ID : **630680134273**
Option 1 ID : **630680519940**
Option 2 ID : **630680519939**
Option 3 ID : **630680519938**
Option 4 ID : **630680519941**
Status : **Answered**
Chosen Option : **1**

Q.5 ਹੇਠਾਂ ਦਿੱਤੀ ਅੱਖਰ ਲੜੀ ਨੂੰ ਵੇਖੋ ਅਤੇ ਪ੍ਰਸ਼ਨ ਦਾ ਉੱਤਰ ਦਿਓ।
(ਖੱਬਾ ਪਾਸਾ) G, H, F, Z, I, O, R, T, C, E, L, N, B, D, A, X (ਸੱਜਾ ਪਾਸਾ)।
ਜੇਕਰ ਲੜੀ ਦੇ ਪਹਿਲੇ ਅੱਧ ਨੂੰ ਉਲਟ ਕ੍ਰਮ ਵਿੱਚ ਕਰ ਦਿੱਤਾ ਜਾਵੇ, ਤਾਂ ਖੱਬੇ ਪਾਸੇ ਤੋਂ ਗਿਆਰ੍ਹਵੇਂ ਅੱਖਰ ਦੇ ਖੱਬੇ ਪਾਸੇ ਤੀਜਾ ਅੱਖਰ ਹੇਠ ਲਿਖਿਆਂ ਵਿੱਚੋਂ ਕਿਹੜਾ ਹੋਵੇਗਾ?

Ans
✘ 1. L
✘ 2. H
✔ 3. G
✘ 4. C

Question ID : **630680221090**
Option 1 ID : **630680858209**
Option 2 ID : **630680858212**
Option 3 ID : **630680858210**
Option 4 ID : **630680858211**
Status : **Answered**
Chosen Option : **3**

Q.6 ਦਿੱਤੇ ਗਏ ਵਿਕਲਪਾਂ ਵਿੱਚੋਂ ਅੱਖਰ-ਸਮੂਹ (letter-cluster) ਚੁਣੋ ਜੋ ਹੇਠਾਂ ਦਿੱਤੀ ਲੜੀ ਵਿੱਚ ਪ੍ਰਸ਼ਨ ਚਿੰਨ੍ਹ (?) ਨੂੰ ਬਦਲ ਸਕਦਾ ਹੈ।
PAB, QDE, RGH, ?, TMN

Ans
✘ 1. SKJ
✘ 2. SIM
✔ 3. SJK
✘ 4. SIK

Question ID : **63068048596**
Option 1 ID : **630680186994**
Option 2 ID : **630680186997**
Option 3 ID : **630680186995**
Option 4 ID : **630680186996**
Status : **Answered**
Chosen Option : **3**

Website - www.dailyjobalert.in

Q.7 ਚਾਰ ਅੱਖਰ-ਸਮੂਹ (letter-clusters) ਦਿੱਤੇ ਗਏ ਹਨ, ਜਿਨ੍ਹਾਂ ਵਿੱਚੋਂ ਤਿੰਨ ਕਿਸੇ ਨਾ ਕਿਸੇ ਢੰਗ ਨਾਲ ਇੱਕੋ ਜਿਹੇ ਹਨ ਅਤੇ ਇੱਕ ਵੱਖਰਾ ਹੈ। ਉਸ ਇੱਕ ਦੀ ਚੋਣ ਕਰੋ ਜੋ ਵੱਖਰਾ ਹੈ।

Ans
1. MOQP
2. SUVX
3. GIKJ
4. UWYX

Question ID : **630680104999**
Option 1 ID : **630680408108**
Option 2 ID : **630680408110**
Option 3 ID : **630680408107**
Option 4 ID : **630680408109**
Status : **Answered**
Chosen Option : **2**

Q.8 Palak walks 6 m towards the North. She takes a left turn and walks 3 m. She again, takes a left turn and walks 2 m. Now, she takes a right turn and walks 4 m. Then she takes a left turn and walks 4 m. In which direction is Palak now from the starting point?

Ans
1. West
2. East
3. North
4. South

Question ID : **630680105852**
Option 1 ID : **630680411363**
Option 2 ID : **630680411365**
Option 3 ID : **630680411364**
Option 4 ID : **630680411366**
Status : **Answered**
Chosen Option : **1**

Q.9 ਕਰਨ ਅਤੇ ਦੀਪਕ, ਵਰੁਣ ਤੋਂ ਛੋਟੇ ਹਨ। ਕਰਨ, ਦੀਪਕ ਅਤੇ ਕ੍ਰਿਸ਼ਨਾ ਤੋਂ ਉਮਰ ਵਿੱਚ ਵੱਡਾ ਹੈ। ਹਰੀਸ਼ ਅਤੇ ਜਤਿਨ, ਕ੍ਰਿਸ਼ਨਾ ਤੋਂ ਵੱਡੇ ਹਨ। ਕ੍ਰਿਸ਼ਨਾ ਸਭ ਤੋਂ ਛੋਟਾ ਨਹੀਂ ਹੈ। ਸਭ ਤੋਂ ਛੋਟਾ ਕੌਣ ਹੈ?

Ans
1. ਜਤਿਨ
2. ਕਰਨ
3. ਕ੍ਰਿਸ਼ਨਾ
4. ਦੀਪਕ

Question ID : **630680118370**
Option 1 ID : **630680458614**
Option 2 ID : **630680458616**
Option 3 ID : **630680458615**
Option 4 ID : **630680458617**
Status : **Answered**
Chosen Option : **4**

Website - www.dailyjobalert.in

Q.10 **Stuti told to Shivam, "The girl playing basketball is the younger sister of two brothers and the daughter of my father's wife". How is the girl playing basketball related to Stuti?**

Ans
- ✗ 1. Brother
- ✗ 2. Son
- ✗ 3. Daughter
- ✓ 4. Sister

Question ID : **630680125623**
Option 1 ID : **630680487157**
Option 2 ID : **630680487155**
Option 3 ID : **630680487154**
Option 4 ID : **630680487156**
Status : **Answered**
Chosen Option : **4**

Q.11 **Kapil starts from point A and walks 12 km towards east. He then takes a left turn and walks 4 km. He again turns left and walks 8 km. Then he turns right and walks 4 km. In the end, he again turns left and walks 4 km to reach point B. How far (shortest distance) and towards which direction should he walk in order to reach Point A again? (All turns are 90 degree turns only unless specified.)**

Ans
- ✗ 1. 6 km towards north
- ✓ 2. 8 km towards south
- ✗ 3. 4 km towards east
- ✗ 4. 6 km towards west

Question ID : **630680187846**
Option 1 ID : **630680728242**
Option 2 ID : **630680728241**
Option 3 ID : **630680728243**
Option 4 ID : **630680728244**
Status : **Answered**
Chosen Option : **2**

Q.12 **144 is related to 169 following a certain logic. Following the same logic, 1024 is related to 1089. To which of the following is 5184 related, following the same logic?**

Ans
- ✗ 1. 6329
- ✓ 2. 5329
- ✗ 3. 7329
- ✗ 4. 4329

Question ID : **63068049500**
Option 1 ID : **630680190431**
Option 2 ID : **630680190430**
Option 3 ID : **630680190432**
Option 4 ID : **630680190433**
Status : **Answered**
Chosen Option : **2**

Website - www.dailyjobalert.in

Q.13 ਦਿੱਤੇ ਗਏ ਵਿਕਲਪਾਂ ਵਿੱਚੋਂ ਅੱਖਰ-ਸਮੂਹ (letter-cluster) ਚੁਣੋ ਜੋ ਹੇਠਾਂ ਦਿੱਤੀ ਲੜੀ ਵਿੱਚ ਪ੍ਰਸ਼ਨ ਚਿੰਨ੍ਹ (?) ਨੂੰ ਬਦਲ ਸਕਦਾ ਹੈ।
BCD, FGH, JKL, ?, RST

Ans
1. MON
2. NOP
3. MOP
4. LON

Question ID : **63068048608**
Option 1 ID : **630680187045**
Option 2 ID : **630680187042**
Option 3 ID : **630680187043**
Option 4 ID : **630680187044**
Status : **Answered**
Chosen Option : **2**

Q.14 Shivani ranked 12th in a class of 59 students. What is her rank from the last?

Ans
1. 46
2. 47
3. 48
4. 49

Question ID : **630680106168**
Option 1 ID : **630680412571**
Option 2 ID : **630680412572**
Option 3 ID : **630680412573**
Option 4 ID : **630680412574**
Status : **Answered**
Chosen Option : **3**

Q.15 ਦਿੱਤੀ ਗਈ ਲੜੀ ਵਿੱਚ ਪ੍ਰਸ਼ਨ ਚਿੰਨ੍ਹ (?) ਦੇ ਸਥਾਨ 'ਤੇ ਕੀ ਆਵੇਗਾ?
5, 10, 30, 120, ?

Ans
1. 300
2. 480
3. 720
4. 600

Question ID : **630680122732**
Option 1 ID : **630680475838**
Option 2 ID : **630680475839**
Option 3 ID : **630680475841**
Option 4 ID : **630680475840**
Status : **Answered**
Chosen Option : **4**

Website - www.dailyjobalert.in

Q.16 ਨਿਮਨਲਿਖਤ ਤਿੱਕੜੀ ਵਿੱਚ, ਹਰੇਕ ਅੱਖਰ-ਸਮੂਹ (letter-cluster) ਇੱਕ ਨਿਸ਼ਚਿਤ ਤਰਕ ਦੀ ਪਾਲਣਾ ਕਰਦੇ ਹੋਏ ਅਗਲੇ ਅੱਖਰ-ਸਮੂਹ ਨਾਲ ਸੰਬੰਧਿਤ ਹੈ। ਉਸ ਵਿਕਲਪ ਦੀ ਚੋਣ ਕਰੋ ਜੋ ਉਸੇ ਤਰਕ ਦੀ ਪਾਲਣਾ ਕਰਦਾ ਹੈ।
CUTE–TEUC–UCTE

Ans
1. LITE–TILE–ITLE
2. MATE–TMAE–ATME
3. BOAT–ATOB–OBAT
4. PILE–LEIP–ELIP

Question ID : **63068057123**
Option 1 ID : **630680220378**
Option 2 ID : **630680220379**
Option 3 ID : **630680220380**
Option 4 ID : **630680220381**
Status : **Answered**
Chosen Option : **3**

Q.17 A, B, C, D, E ਅਤੇ F ਨੇ ਵੱਖ-ਵੱਖ ਅੰਕ ਪ੍ਰਾਪਤ ਕੀਤੇ। A ਨੇ E ਤੋਂ ਵੱਧ ਅੰਕ ਪ੍ਰਾਪਤ ਕੀਤੇ। E ਨੇ D ਤੋਂ ਵੱਧ ਅੰਕ ਪ੍ਰਾਪਤ ਕੀਤੇ। F ਉਹ ਵਿਅਕਤੀ ਹੈ ਜਿਸਨੇ A ਅਤੇ E ਦੇ ਵਿਚਕਾਰ ਅੰਕ ਪ੍ਰਾਪਤ ਕੀਤੇ। B ਨੇ ਸਭ ਤੋਂ ਵੱਧ ਅੰਕ ਪ੍ਰਾਪਤ ਕੀਤੇ ਅਤੇ D ਨੇ ਸਭ ਤੋਂ ਘੱਟ ਅੰਕ ਪ੍ਰਾਪਤ ਨਹੀਂ ਕੀਤੇ। ਸਭ ਤੋਂ ਘੱਟ ਅੰਕ ਕਿਸਨੇ ਪ੍ਰਾਪਤ ਕੀਤੇ?

Ans
1. E
2. C
3. F
4. A

Question ID : **630680105762**
Option 1 ID : **630680411051**
Option 2 ID : **630680411052**
Option 3 ID : **630680411054**
Option 4 ID : **630680411053**
Status : **Answered**
Chosen Option : **2**

Q.18 ਜੇਕਰ 1 ਜਨਵਰੀ 2005 ਨੂੰ ਸੋਮਵਾਰ ਹੈ ਤਾਂ 29 ਜਨਵਰੀ 2006 ਨੂੰ ਕਿਹੜਾ ਦਿਨ ਹੋਵੇਗਾ?

Ans
1. ਸ਼ਨੀਵਾਰ
2. ਸੋਮਵਾਰ
3. ਮੰਗਲਵਾਰ
4. ਐਤਵਾਰ

Question ID : **63068083877**
Option 1 ID : **630680325102**
Option 2 ID : **630680325100**
Option 3 ID : **630680325101**
Option 4 ID : **630680325103**
Status : **Answered**
Chosen Option : **3**

Website - www.dailyjobalert.in

Q.19 ਦਿੱਤੀ ਗਈ ਲੜੀ ਨੂੰ ਤਰਕਸੰਗਤ ਢੰਗ ਪੂਰਾ ਕਰਨ ਲਈ, ਇਸ ਵਿੱਚ ਪ੍ਰਸ਼ਨ ਚਿੰਨ੍ਹ (?) ਦੀ ਥਾਂ 'ਤੇ ਕੀ ਆਵੇਗਾ?
A1Z, E5V, I9R, M13N, ?

Ans
1. Q19P
2. R17T
3. Q17J ✔
4. R18T

Question ID : **630680127177**
Option 1 ID : **630680493139**
Option 2 ID : **630680493138**
Option 3 ID : **630680493137**
Option 4 ID : **630680493140**
Status : **Answered**
Chosen Option : **3**

Q.20 ਇੱਕ ਖਾਸ ਕੋਡ ਭਾਸ਼ਾ ਵਿੱਚ, 'FACE' ਨੂੰ 'UZXV' ਵੱਜੋਂ ਲਿਖਿਆ ਗਿਆ ਹੈ, ਅਤੇ 'LAMB' ਨੂੰ 'OZNY' ਵੱਜੋਂ ਲਿਖਿਆ ਗਿਆ ਹੈ। ਉਸ ਭਾਸ਼ਾ ਵਿੱਚ 'ACTING' ਕਿਵੇਂ ਲਿਖਿਆ ਜਾਵੇਗਾ?

Ans
1. ZXGRMT ✔
2. ZXGSMT
3. ZXGRMS
4. ZXHRMT

Question ID : **63068057452**
Option 1 ID : **630680221651**
Option 2 ID : **630680221652**
Option 3 ID : **630680221653**
Option 4 ID : **630680221650**
Status : **Answered**
Chosen Option : **1**

Q.21 ਛੇ ਵਿਅਕਤੀ X, A, B, C, D ਅਤੇ E ਹਨ। A ਦੀ ਉਮਰ C ਦੀ ਉਮਰ ਦਾ 10% ਹੈ। 2 ਸਾਲ ਬਾਅਦ, D ਦੀ ਉਮਰ E ਦੀ ਉਮਰ ਦਾ 2 ਗੁਣਾ ਹੋਵੇਗੀ। ਨਾਲ ਹੀ, D ਦੀ ਉਮਰ ਅਤੇ A ਦੀ ਉਮਰ ਦਾ ਗੁਣਨਫਲ B ਦੀ ਉਮਰ ਦਾ 10 ਗੁਣਾ ਹੈ ਅਤੇ C ਦੀ ਉਮਰ X ਦੀ ਉਮਰ ਦਾ 12 ਗੁਣਾ ਹੈ। B ਦੀ ਉਮਰ X ਦੀ ਉਮਰ ਨਾਲੋਂ 2.8 ਸਾਲ ਵੱਧ ਹੈ, ਜੋ ਕਿ 25 ਦਾ ਵਰਗ ਮੂਲ ਹੈ। A ਦੀ ਉਮਰ ਕਿੰਨੀ ਹੈ?

Ans
1. 6 ✔
2. 8
3. 7
4. 10

Question ID : **63068078951**
Option 1 ID : **630680305844**
Option 2 ID : **630680305843**
Option 3 ID : **630680305842**
Option 4 ID : **630680305841**
Status : **Answered**
Chosen Option : **4**

Website - www.dailyjobalert.in

Q.22 ਇੱਕ ਖਾਸ ਢੰਗ ਨਾਲ GO13F, JR17J ਨਾਲ ਸੰਬੰਧਿਤ ਹੈ। ਇਸੇ ਤਰ੍ਹਾਂ PA27Q, SD31U ਨਾਲ ਸੰਬੰਧਿਤ ਹੈ। ਉਸੇ ਤਰਕ ਦੀ ਵਰਤੋਂ ਕਰਦੇ ਹੋਏ, ਹੇਠਾਂ ਦਿੱਤਿਆਂ ਵਿੱਚੋਂ SO64H ਕਿਸ ਨਾਲ ਸੰਬੰਧਿਤ ਹੈ?

Ans
✔ 1. VR68L
✘ 2. VR67K
✘ 3. VS68K
✘ 4. WS67L

Question ID : **63068059417**
Option 1 ID : **630680229276**
Option 2 ID : **630680229275**
Option 3 ID : **630680229274**
Option 4 ID : **630680229277**
Status : **Answered**
Chosen Option : **1**

Q.23 Select the option in which the letter-cluster pair share the same relationship as that shared by the given pair of letter-cluster.
DPXG : KTTZ

Ans
✘ 1. MCRB : FVGQ
✘ 2. GLZO : KVPK
✘ 3. IYFO : SIUE
✔ 4. HQBR : VXUD

Question ID : **63068060332**
Option 1 ID : **630680232862**
Option 2 ID : **630680232864**
Option 3 ID : **630680232863**
Option 4 ID : **630680232865**
Status : **Not Attempted and Marked For Review**
Chosen Option : **--**

Q.24 ਦਿੱਤੇ ਗਏ ਅੱਖਰ-ਸਮੂਹ ਵਿੱਚ, ਖੱਬੇ ਸਿਰੇ ਤੋਂ ਸੱਤਵੇਂ ਅੱਖਰ ਦੇ ਠੀਕ ਖੱਬੇ ਪਾਸੇ ਕਿਹੜਾ ਅੱਖਰ ਆਉਂਦਾ ਹੈ?

(ਖੱਬੇ) CUVEBDGHMZWP (ਸੱਜੇ)

Ans
✘ 1. B
✘ 2. G
✘ 3. E
✔ 4. D

Question ID : **630680172166**
Option 1 ID : **630680667102**
Option 2 ID : **630680667100**
Option 3 ID : **630680667103**
Option 4 ID : **630680667101**
Status : **Answered**
Chosen Option : **4**

Website - www.dailyjobalert.in

Q.25 A, B ਦਾ ਭਰਾ ਹੈ, ਅਤੇ C ਦਾ ਪੁੱਤਰ ਹੈ। D, B ਦੀ ਭੈਣ ਹੈ, ਅਤੇ E ਦੀ ਧੀ ਹੈ। C, D ਦੀ ਮਾਂ ਹੈ। E ਦਾ A ਨਾਲ ਕੀ ਰਿਸ਼ਤਾ ਹੈ?

Ans
1. ਪੁੱਤਰ (Son)
2. ਪਿਤਾ (Father)
3. ਭਰਾ (Brother)
4. ਪਤੀ (Husband)

Question ID : **630680124747**
Option 1 ID : **630680483826**
Option 2 ID : **630680483829**
Option 3 ID : **630680483827**
Option 4 ID : **630680483828**
Status : **Answered**
Chosen Option : **2**

Q.26 ਉਸ ਵਿਕਲਪ ਦੀ ਚੋਣ ਕਰੋ ਜੋ ਤੀਜੀ ਸੰਖਿਆ ਨਾਲ ਉਸੇ ਤਰ੍ਹਾਂ ਸੰਬੰਧਿਤ ਹੈ ਜਿਸ ਤਰ੍ਹਾਂ ਦੂਜੀ ਸੰਖਿਆ ਪਹਿਲੀ ਸੰਖਿਆ ਨਾਲ ਸੰਬੰਧਿਤ ਹੈ ਅਤੇ ਛੇਵੀਂ ਸੰਖਿਆ ਪੰਜਵੀਂ ਸੰਖਿਆ ਨਾਲ ਸੰਬੰਧਿਤ ਹੈ।
18 : 256 :: 15 : ? :: 19 : 289

Ans
1. 264
2. 150
3. 225
4. 169

Question ID : **63068048651**
Option 1 ID : **630680187217**
Option 2 ID : **630680187214**
Option 3 ID : **630680187216**
Option 4 ID : **630680187215**
Status : **Answered**
Chosen Option : **4**

Q.27 ਦਿੱਤੀ ਗਈ ਲੜੀ ਨੂੰ ਤਰਕਸੰਗਤ ਢੰਗ ਪੂਰਾ ਕਰਨ ਲਈ, ਇਸ ਵਿੱਚ ਪ੍ਰਸ਼ਨ ਚਿੰਨ੍ਹ (?) ਦੀ ਥਾਂ 'ਤੇ ਕੀ ਆਵੇਗਾ?
B6Y, F24U, J60Q, N120M, ?

Ans
1. H215R
2. Q210H
3. R210I
4. I210R

Question ID : **630680127183**
Option 1 ID : **630680493164**
Option 2 ID : **630680493161**
Option 3 ID : **630680493163**
Option 4 ID : **630680493162**
Status : **Answered**
Chosen Option : **3**

Website - www.dailyjobalert.in

Q.28 ਛੇ ਅੱਖਰ A, B, C, D, E ਅਤੇ F ਇੱਕ ਡਾਈਸ ਦੇ ਵੱਖ-ਵੱਖ ਪਾਸਿਆਂ 'ਤੇ ਲਿਖੇ ਹੋਏ ਹਨ। ਹੇਠਾਂ ਦਿੱਤੇ ਚਿੱਤਰ ਵਿੱਚ ਇਸ ਡਾਈਸ ਦੀਆਂ ਦੋ ਸਥਿਤੀਆਂ ਦਿਖਾਈਆਂ ਗਈਆਂ ਹਨ। B ਦੇ ਉਲਟ ਪਾਸੇ ਦਾ ਅੱਖਰ ਪਤਾ ਕਰੋ।

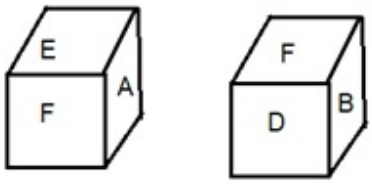

Ans
✗ 1. F
✓ 2. E
✗ 3. C
✗ 4. A

Question ID : **630680187302**
Option 1 ID : **630680726159**
Option 2 ID : **630680726158**
Option 3 ID : **630680726160**
Option 4 ID : **630680726157**
Status : **Answered**
Chosen Option : **2**

Q.29 ਨਿਮਨਲਿਖਤ ਚਾਰ ਵਿੱਚੋਂ ਤਿੰਨ ਇੱਕ ਖਾਸ ਤਰੀਕੇ ਨਾਲ ਇੱਕੋ ਜਿਹੇ ਹਨ ਅਤੇ ਇਸ ਤਰ੍ਹਾਂ ਇੱਕ ਸਮੂਹ ਬਣਾਉਂਦੇ ਹਨ। ਉਹ ਕਿਹੜਾ ਹੈ ਜੋ ਉਸ ਸਮੂਹ ਨਾਲ ਸੰਬੰਧਿਤ ਨਹੀਂ ਹੈ?

Ans
✗ 1. CEDF
✓ 2. PQSR
✗ 3. TVUW
✗ 4. JLKM

Question ID : **630680108069**
Option 1 ID : **630680419368**
Option 2 ID : **630680419370**
Option 3 ID : **630680419371**
Option 4 ID : **630680419369**
Status : **Answered**
Chosen Option : **2**

Q.30 ਇਸ ਨੂੰ ਤਾਰਕਿਕ ਤੌਰ 'ਤੇ ਪੂਰਾ ਕਰਨ ਲਈ ਦਿੱਤੀ ਗਈ ਲੜੀ ਵਿੱਚ ? ਦੀ ਥਾਂ 'ਤੇ ਕੀ ਆਉਣਾ ਚਾਹੀਦਾ ਹੈ?
AC9, FH14, KM20, PR27, ?

Ans
✗ 1. UV36
✗ 2. TW34
✗ 3. TV35
✓ 4. UW35

Question ID : **630680109267**
Option 1 ID : **630680423851**
Option 2 ID : **630680423849**
Option 3 ID : **630680423850**
Option 4 ID : **630680423848**
Status : **Answered**
Chosen Option : **4**

Website - www.dailyjobalert.in

Q.31 There are 23 students in a yoga class, and the trainer is planning for an arrangement of students on stage on the occasion of International Yoga Day. Rupak is 10th from the left side of the row and Raghu is 21st from the right side of the row. Find the number of students sitting between Rupak and Raghu.

Ans
1. 8
2. 5
3. 7
4. 6

Question ID : **630680107152**
Option 1 ID : **630680416007**
Option 2 ID : **630680416004**
Option 3 ID : **630680416006**
Option 4 ID : **630680416005**
Status : **Answered**
Chosen Option : **4**

Q.32 ਚਾਰ ਅੱਖਰ-ਸਮੂਹ (letter-clusters) ਦਿੱਤੇ ਗਏ ਹਨ, ਜਿਨ੍ਹਾਂ ਵਿੱਚੋਂ ਤਿੰਨ ਕਿਸੇ ਨਾ ਕਿਸੇ ਢੰਗ ਨਾਲ ਇੱਕੋ ਜਿਹੇ ਹਨ ਅਤੇ ਇੱਕ ਵੱਖਰਾ ਹੈ। ਉਸ ਇੱਕ ਦੀ ਚੋਣ ਕਰੋ ਜੋ ਵੱਖਰਾ ਹੈ।

Ans
1. GLOQ
2. EJMO
3. SXBD
4. RWZB

Question ID : **630680105012**
Option 1 ID : **630680408161**
Option 2 ID : **630680408160**
Option 3 ID : **630680408159**
Option 4 ID : **630680408162**
Status : **Answered**
Chosen Option : **3**

Q.33 ਇੱਕ ਨਿਸ਼ਚਿਤ ਤਰਕ ਅਨੁਸਾਰ, ਜੇਕਰ 15, 80 ਨਾਲ ਸੰਬੰਧਿਤ ਹੈ ਅਤੇ 13, 70 ਨਾਲ ਸੰਬੰਧਿਤ ਹੈ, ਤਾਂ ਹੇਠ ਲਿਖਿਆਂ ਵਿੱਚੋਂ 19 ਕਿਸ ਨਾਲ ਸੰਬੰਧਿਤ ਹੈ?

Ans
1. 100
2. 105
3. 95
4. 85

Question ID : **63068057014**
Option 1 ID : **630680219988**
Option 2 ID : **630680219989**
Option 3 ID : **630680219986**
Option 4 ID : **630680219987**
Status : **Answered**
Chosen Option : **1**

Website - www.dailyjobalert.in

Q.34 ਦਿੱਤੇ ਗਏ ਵਿਕਲਪਾਂ ਵਿੱਚੋਂ ਉਹ ਸੰਖਿਆ ਚੁਣੋ ਜੋ ਹੇਠਾਂ ਦਿੱਤੀ ਲੜੀ ਵਿੱਚ ਪ੍ਰਸ਼ਨ ਚਿੰਨ੍ਹ (?) ਦੇ ਸਥਾਨ 'ਤੇ ਆਵੇਗੀ।
9, 11, 8, 10, 7, ?

Ans
1. 10
2. 8
3. 9 ✔
4. 11

Question ID : **630680138762**
Option 1 ID : **630680537227**
Option 2 ID : **630680537229**
Option 3 ID : **630680537226**
Option 4 ID : **630680537228**
Status : **Answered**
Chosen Option : **3**

Q.35 The given pie chart depicts the number of burgers cooked in five months, out of the total number of burgers cooked (which is 1500) in the given five months together. Study the chart and answer the question that follows.

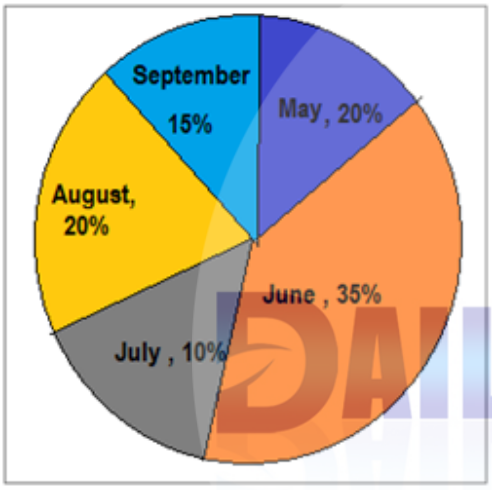

The number of burgers cooked in October was 60 more than the number of burgers cooked in June. What is the average number of burgers cooked in August, September and October?

Ans
1. 380
2. 370 ✔
3. 350
4. 360

Question ID : **630680161805**
Option 1 ID : **630680626550**
Option 2 ID : **630680626548**
Option 3 ID : **630680626551**
Option 4 ID : **630680626549**
Status : **Answered**
Chosen Option : **2**

Website - www.dailyjobalert.in

Q.36 ਜੇਕਰ ਲੰਘੇ ਪਰਸੋਂ ਦਾ ਦਿਨ ਸੋਮਵਾਰ ਸੀ, ਤਾਂ ਆਉਣ ਵਾਲੇ ਪਰਸੋਂ ਦਾ ਦਿਨ ਕਿਹੜਾ ਵਾਰ ਹੋਵੇਗਾ?

Ans

✔ 1. ਸ਼ੁੱਕਰਵਾਰ

✘ 2. ਸੋਮਵਾਰ

✘ 3. ਐਤਵਾਰ

✘ 4. ਮੰਗਲਵਾਰ

Question ID : **630680127069**
Option 1 ID : **630680492776**
Option 2 ID : **630680492775**
Option 3 ID : **630680492777**
Option 4 ID : **630680492774**
Status : **Answered**
Chosen Option : **1**

Comprehension:

Read the below information carefully and answer the given question.

Seven people A, B, C, D, X, Y and Z are sitting in a straight line and all of them are facing north.
X sits at one of the extreme ends of the line. Only two people sit between X and Y. B sits second to the left of Y. Only two people sit between B and A. As many people sit between A and X as between Y and Z. C does not sit at any of the extreme ends of the line.

SubQuestion No : 37

Q.37 **How many people sit between A and D in the given arrangement?**

Ans

✘ 1. Two

✘ 2. None

✔ 3. Three

✘ 4. More than three

Question ID : **63068063588**
Option 1 ID : **630680245507**
Option 2 ID : **630680245506**
Option 3 ID : **630680245509**
Option 4 ID : **630680245508**
Status : **Answered**
Chosen Option : **2**

Website - www.dailyjobalert.in

Comprehension:

ਹੇਠ ਦਿੱਤੀ ਜਾਣਕਾਰੀ ਨੂੰ ਧਿਆਨ ਨਾਲ ਪੜ੍ਹੋ ਅਤੇ ਦਿੱਤੇ ਸਵਾਲ ਦਾ ਜਵਾਬ ਦਿਓ।

ਸੱਤ ਵਿਅਕਤੀ A, B, C, D, X, Y ਅਤੇ Z ਇੱਕ ਸਿੱਧੀ ਲਾਈਨ ਵਿੱਚ ਬੈਠੇ ਹਨ ਅਤੇ ਉਹਨਾਂ ਸਾਰਿਆਂ ਦਾ ਮੂੰਹ ਉੱਤਰ ਦਿਸ਼ਾ ਵੱਲ ਹੈ।

X ਲਾਈਨ ਦੇ ਇੱਕ ਸਿਰੇ 'ਤੇ ਬੈਠਾ ਹੈ। X ਅਤੇ Y ਦੇ ਵਿਚਕਾਰ ਸਿਰਫ਼ ਦੋ ਵਿਅਕਤੀ ਬੈਠੇ ਹਨ। B, Y ਦੇ ਖੱਬੇ ਪਾਸੇ ਦੂਜੇ ਸਥਾਨ 'ਤੇ ਬੈਠਾ ਹੈ। B ਅਤੇ A ਦੇ ਵਿਚਕਾਰ ਸਿਰਫ਼ ਦੋ ਵਿਅਕਤੀ ਬੈਠੇ ਹਨ। ਜਿੰਨੇ ਵਿਅਕਤੀ A ਅਤੇ X ਦੇ ਵਿਚਕਾਰ ਬੈਠੇ ਹਨ ਓਨੇ ਹੀ ਵਿਅਕਤੀ Y ਅਤੇ Z ਦੇ ਵਿਚਕਾਰ ਬੈਠੇ ਹਨ। C ਲਾਈਨ ਦੇ ਕਿਸੇ ਵੀ ਸਿਰੇ 'ਤੇ ਨਹੀਂ ਬੈਠਾ ਹੈ।

SubQuestion No : 38

Q.38 ਲਾਈਨ ਦੇ ਸੱਜੇ ਸਿਰੇ ਤੋਂ ਦੂਜੇ ਸਥਾਨ 'ਤੇ ਕੌਣ ਬੈਠਾ ਹੈ?

Ans
✗ 1. A
✗ 2. Y
✓ 3. Z
✗ 4. D

Question ID : **63068063587**
Option 1 ID : **630680245505**
Option 2 ID : **630680245503**
Option 3 ID : **630680245504**
Option 4 ID : **630680245502**
Status : **Answered**
Chosen Option : **1**

Comprehension:

ਹੇਠ ਦਿੱਤੀ ਜਾਣਕਾਰੀ ਨੂੰ ਧਿਆਨ ਨਾਲ ਪੜ੍ਹੋ ਅਤੇ ਦਿੱਤੇ ਸਵਾਲ ਦਾ ਜਵਾਬ ਦਿਓ।

ਬਿਸਕੁਟ 1, 2, 3, 4, 5 ਅਤੇ 6 ਦੇ ਹਰੇਕ ਪੈਕੇਟ ਦਾ ਸੇਵਨ, ਸੋਮਵਾਰ ਤੋਂ ਸ਼ੁਰੂ ਕਰਕੇ ਸ਼ਨੀਵਾਰ ਨੂੰ ਖਤਮ ਹੋਣ ਵਾਲੇ ਉਸੇ ਹਫ਼ਤੇ ਦੇ ਵੱਖੋ-ਵੱਖਰੇ ਦਿਨ ਨੂੰ ਕੀਤਾ ਜਾਵੇਗਾ। ਵੀਰਵਾਰ ਨੂੰ ਪੈਕੇਟ 1 ਦਾ ਸੇਵਨ ਕੀਤਾ ਜਾਵੇਗਾ। ਪੈਕੇਟ 6 ਅਤੇ 1 ਦੇ ਵਿਚਕਾਰ ਸਿਰਫ਼ ਦੋ ਪੈਕੇਟਾਂ ਦਾ ਸੇਵਨ ਕੀਤਾ ਜਾਵੇਗਾ। 6 ਅਤੇ 5 ਦੇ ਵਿਚਕਾਰ ਜਿੰਨੇ ਪੈਕੇਟਾਂ ਦਾ ਸੇਵਨ ਹੁੰਦਾ ਹੈ, ਓਨੇ ਹੀ ਪੈਕਟਾਂ 5 ਅਤੇ 3 ਦੇ ਵਿਚਕਾਰ ਸੇਵਨ ਹੁੰਦਾ ਹੈ। ਸ਼ਨੀਵਾਰ ਨੂੰ ਪੈਕੇਟ 4 ਦਾ ਸੇਵਨ ਨਹੀਂ ਕੀਤਾ ਜਾਵੇਗਾ। ਪੈਕੇਟ 5 ਦਾ ਸੇਵਨ ਪੈਕੇਟ 1 ਤੋਂ ਠੀਕ ਪਹਿਲਾਂ ਵਾਲੇ ਦਿਨ ਕੀਤਾ ਜਾਵੇਗਾ।

SubQuestion No : 39

Q.39 ਮੰਗਲਵਾਰ ਨੂੰ ਇਨ੍ਹਾਂ ਵਿੱਚੋਂ ਕਿਹੜੇ ਪੈਕੇਟ ਦਾ ਸੇਵਨ ਕੀਤਾ ਜਾਵੇਗਾ?

Ans
✗ 1. ਪੈਕਟ 2
✓ 2. ਪੈਕਟ 4
✗ 3. ਪੈਕਟ 3
✗ 4. ਪੈਕਟ 5

Question ID : **63068083583**
Option 1 ID : **630680323999**
Option 2 ID : **630680323996**
Option 3 ID : **630680323997**
Option 4 ID : **630680323998**
Status : **Answered**
Chosen Option : **2**

Website - www.dailyjobalert.in

Comprehension:

ਹੇਠ ਦਿੱਤੀ ਜਾਣਕਾਰੀ ਨੂੰ ਧਿਆਨ ਨਾਲ ਪੜ੍ਹੋ ਅਤੇ ਦਿੱਤੇ ਸਵਾਲ ਦਾ ਜਵਾਬ ਦਿਓ।

ਬਿਸਕੁਟ 1, 2, 3, 4, 5 ਅਤੇ 6 ਦੇ ਹਰੇਕ ਪੈਕੇਟ ਦਾ ਸੇਵਨ, ਸੋਮਵਾਰ ਤੋਂ ਸ਼ੁਰੂ ਕਰਕੇ ਸ਼ਨੀਵਾਰ ਨੂੰ ਖਤਮ ਹੋਣ ਵਾਲੇ ਉਸੇ ਹਫ਼ਤੇ ਦੇ ਵੱਖੋ-ਵੱਖਰੇ ਦਿਨ ਨੂੰ ਕੀਤਾ ਜਾਵੇਗਾ। ਵੀਰਵਾਰ ਨੂੰ ਪੈਕੇਟ 1 ਦਾ ਸੇਵਨ ਕੀਤਾ ਜਾਵੇਗਾ। ਪੈਕੇਟ 6 ਅਤੇ 1 ਦੇ ਵਿਚਕਾਰ ਸਿਰਫ਼ ਦੋ ਪੈਕੇਟਾਂ ਦਾ ਸੇਵਨ ਕੀਤਾ ਜਾਵੇਗਾ। 6 ਅਤੇ 5 ਦੇ ਵਿਚਕਾਰ ਜਿੰਨੇ ਪੈਕੇਟਾਂ ਦਾ ਸੇਵਨ ਹੁੰਦਾ ਹੈ, ਓਨੇ ਹੀ ਪੈਕਟਾਂ 5 ਅਤੇ 3 ਦੇ ਵਿਚਕਾਰ ਸੇਵਨ ਹੁੰਦਾ ਹੈ। ਸ਼ਨੀਵਾਰ ਨੂੰ ਪੈਕੇਟ 4 ਦਾ ਸੇਵਨ ਨਹੀਂ ਕੀਤਾ ਜਾਵੇਗਾ। ਪੈਕੇਟ 5 ਦਾ ਸੇਵਨ ਪੈਕੇਟ 1 ਤੋਂ ਠੀਕ ਪਹਿਲਾਂ ਵਾਲੇ ਦਿਨ ਕੀਤਾ ਜਾਵੇਗਾ।

SubQuestion No : 40

Q.40 ਪੈਕੇਟ 5 ਤੋਂ ਬਾਅਦ ਕਿੰਨੇ ਪੈਕੇਟਾਂ ਦਾ ਸੇਵਨ ਹੋਵੇਗਾ?

Ans
- ✗ 1. ਦੋ
- ✗ 2. ਚਾਰ
- ✓ 3. ਤਿੰਨ
- ✗ 4. ਇਕ

Question ID : **63068083584**
Option 1 ID : **630680324001**
Option 2 ID : **630680324003**
Option 3 ID : **630680324002**
Option 4 ID : **630680324000**
Status : **Answered**
Chosen Option : **3**

Comprehension:

ਦਿੱਤੇ ਗਏ ਰੇਖਾ-ਚਿੱਤਰ ਦਾ ਧਿਆਨ ਨਾਲ ਅਧਿਐਨ ਕਰੋ ਅਤੇ ਅੱਗੇ ਆਉਣ ਵਾਲੇ ਪ੍ਰਸ਼ਨਾਂ ਦੇ ਉੱਤਰ ਦਿਓ। ਵੱਖ-ਵੱਖ ਭਾਗਾਂ ਵਿਚਲੀਆਂ ਸੰਖਿਆਵਾਂ ਵੱਖ-ਵੱਖ ਪਸੰਦੀਦਾ ਸੁਆਦ ਵਾਲੇ ਵਿਅਕਤੀਆਂ ਦੀ ਗਿਣਤੀ ਨੂੰ ਦਰਸਾਉਂਦੀਆਂ ਹਨ।

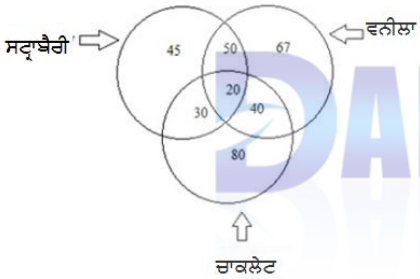

SubQuestion No : 41

Q.41 ਕਿੰਨੇ ਵਿਅਕਤੀ ਹਨ ਜਿਨ੍ਹਾਂ ਦਾ ਪਸੰਦੀਦਾ ਸੁਆਦ ਸਿਰਫ਼ ਚਾਕਲੇਟ ਹੈ?

Ans
- ✗ 1. 20
- ✓ 2. 80
- ✗ 3. 30
- ✗ 4. 40

Question ID : **63068083613**
Option 1 ID : **630680324076**
Option 2 ID : **630680324079**
Option 3 ID : **630680324077**
Option 4 ID : **630680324078**
Status : **Answered**
Chosen Option : **2**

Website - www.dailyjobalert.in

Comprehension:

ਦਿੱਤੇ ਗਏ ਰੇਖਾ-ਚਿੱਤਰ ਦਾ ਧਿਆਨ ਨਾਲ ਅਧਿਐਨ ਕਰੋ ਅਤੇ ਅੱਗੇ ਆਉਣ ਵਾਲੇ ਪ੍ਰਸ਼ਨਾਂ ਦੇ ਉੱਤਰ ਦਿਓ। ਵੱਖ-ਵੱਖ ਭਾਗਾਂ ਵਿਚਲੀਆਂ ਸੰਖਿਆਵਾਂ ਵੱਖ-ਵੱਖ ਪਸੰਦੀਦਾ ਸੁਆਦ ਵਾਲੇ ਵਿਅਕਤੀਆਂ ਦੀ ਗਿਣਤੀ ਨੂੰ ਦਰਸਾਉਂਦੀਆਂ ਹਨ।

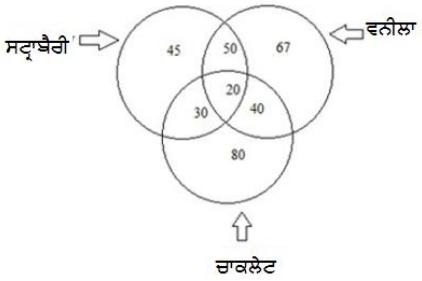

SubQuestion No : 42

Q.42 ਕਿੰਨੇ ਵਿਅਕਤੀ ਹਨ ਜੋ ਤਿੰਨੋਂ ਸੁਆਦਾਂ ਨੂੰ ਪਸੰਦ ਕਰਦੇ ਹਨ?

Ans
✔ 1. 20
✘ 2. 50
✘ 3. 40
✘ 4. 30

Question ID : **63068083614**
Option 1 ID : **630680324080**
Option 2 ID : **630680324083**
Option 3 ID : **630680324082**
Option 4 ID : **630680324081**
Status : **Answered**
Chosen Option : **1**

Comprehension:

ਹੇਠ ਦਿੱਤੀ ਜਾਣਕਾਰੀ ਨੂੰ ਧਿਆਨ ਨਾਲ ਪੜ੍ਹੋ ਅਤੇ ਦਿੱਤੇ ਸਵਾਲ ਦਾ ਜਵਾਬ ਦਿਓ।

ਇੱਕ ਖਾਸ ਕੋਡ ਭਾਸ਼ਾ ਵਿੱਚ, 'Peacock is dancing' ਨੂੰ 'par gah jar' ਵੱਜੋਂ ਕੋਡਬੱਧ ਕੀਤਾ ਗਿਆ ਹੈ, 'Bird is chirping' ਨੂੰ 'gav jar sem' ਵੱਜੋਂ ਕੋਡਬੱਧ ਕੀਤਾ ਗਿਆ ਹੈ ਅਤੇ 'It is dancing bird' ਨੂੰ 'tor gah sem jar' ਵੱਜੋਂ ਕੋਡਬੱਧ ਕੀਤਾ ਗਿਆ ਹੈ।

SubQuestion No : 43

Q.43 ਹੇਠਾਂ ਦਿੱਤਿਆਂ ਵਿੱਚੋਂ 'it' ਲਈ ਕਿਹੜਾ ਕੋਡ ਹੈ?

Ans
✘ 1. gah
✘ 2. sem
✔ 3. tor
✘ 4. jar

Question ID : **63068058662**
Option 1 ID : **630680226282**
Option 2 ID : **630680226283**
Option 3 ID : **630680226284**
Option 4 ID : **630680226285**
Status : **Answered**
Chosen Option : **3**

Website - www.dailyjobalert.in

Comprehension:

ਹੇਠ ਦਿੱਤੀ ਜਾਣਕਾਰੀ ਨੂੰ ਧਿਆਨ ਨਾਲ ਪੜ੍ਹੋ ਅਤੇ ਦਿੱਤੇ ਸਵਾਲ ਦਾ ਜਵਾਬ ਦਿਓ।

ਇੱਕ ਖਾਸ ਕੋਡ ਭਾਸ਼ਾ ਵਿੱਚ, 'Peacock is dancing' ਨੂੰ 'par gah jar' ਵੱਜੋਂ ਕੋਡਬੱਧ ਕੀਤਾ ਗਿਆ ਹੈ, 'Bird is chirping' ਨੂੰ 'gav jar sem' ਵੱਜੋਂ ਕੋਡਬੱਧ ਕੀਤਾ ਗਿਆ ਹੈ ਅਤੇ 'It is dancing bird' ਨੂੰ 'tor gah sem jar' ਵੱਜੋਂ ਕੋਡਬੱਧ ਕੀਤਾ ਗਿਆ ਹੈ।

SubQuestion No : 44

Q.44 ਹੇਠਾਂ ਦਿੱਤਿਆਂ ਵਿੱਚੋਂ 'bird' ਲਈ ਕਿਹੜਾ ਕੋਡ ਹੈ?

Ans
✔ 1. sem
✘ 2. tor
✘ 3. jar
✘ 4. gav

Question ID : **63068058663**
Option 1 ID : **630680226286**
Option 2 ID : **630680226289**
Option 3 ID : **630680226287**
Option 4 ID : **630680226288**
Status : **Answered**
Chosen Option : **1**

Comprehension:

ਹੇਠਾਂ ਦਿੱਤੀ ਸਾਰਣੀ ਵੱਖ-ਵੱਖ ਸਾਲਾਂ ਵਿੱਚ ਇੱਕ ਕੰਪਨੀ ਦੁਆਰਾ ਵੱਖ-ਵੱਖ ਉਤਪਾਦ ਦੀਆਂ ਨਿਰਮਾਣ ਇਕਾਈਆਂ ਦੀ ਸੰਖਿਆ ਨੂੰ ਦਰਸਾਉਂਦੀ ਹੈ। ਸਾਰਣੀ ਦਾ ਧਿਆਨ ਨਾਲ ਅਧਿਐਨ ਕਰੋ ਅਤੇ ਹੇਠਾਂ ਦਿੱਤੇ ਸਵਾਲ ਦਾ ਜਵਾਬ ਦਿਓ।

ਉਤਪਾਦ/ ਸਾਲ	2016	2017	2018	2019
ਟੀਵੀ	650	725	799	824
ਫੋਨ	975	818	978	892
ਫਰਿਜ਼	535	544	621	724
ਘੜੀ	358	445	213	215
ਕੰਪਿਊਟਰ	835	825	890	911

SubQuestion No : 45

Q.45 2017 ਵਿੱਚ ਕੰਪਿਊਟਰ ਦੀਆਂ ਨਿਰਮਾਣ ਇਕਾਈਆਂ ਦੀ ਸੰਖਿਆ ਅਤੇ ਘੜੀ ਦੀਆਂ ਨਿਰਮਾਣ ਇਕਾਈਆਂ ਦੀ ਸੰਖਿਆ ਵਿਚਕਾਰ ਕੀ ਅੰਤਰ ਹੈ?

Ans
✘ 1. 540
✘ 2. 450
✘ 3. 400
✔ 4. 380

Question ID : **63068082734**
Option 1 ID : **630680320827**
Option 2 ID : **630680320826**
Option 3 ID : **630680320824**
Option 4 ID : **630680320825**
Status : **Answered**
Chosen Option : **4**

Website - www.dailyjobalert.in

Comprehension:

ਹੇਠਾਂ ਦਿੱਤੀ ਸਾਰਣੀ ਵੱਖ-ਵੱਖ ਸਾਲਾਂ ਵਿੱਚ ਇੱਕ ਕੰਪਨੀ ਦੁਆਰਾ ਵੱਖ-ਵੱਖ ਉਤਪਾਦ ਦੀਆਂ ਨਿਰਮਾਣ ਇਕਾਈਆਂ ਦੀ ਸੰਖਿਆ ਨੂੰ ਦਰਸਾਉਂਦੀ ਹੈ। ਸਾਰਣੀ ਦਾ ਧਿਆਨ ਨਾਲ ਅਧਿਐਨ ਕਰੋ ਅਤੇ ਹੇਠਾਂ ਦਿੱਤੇ ਸਵਾਲ ਦਾ ਜਵਾਬ ਦਿਓ।

ਉਤਪਾਦ/ ਸਾਲ	2016	2017	2018	2019
ਟੀਵੀ	650	725	799	824
ਫੋਨ	975	818	978	892
ਫਰਿਜ਼	535	544	621	724
ਘੜੀ	358	445	213	215
ਕੰਪਿਊਟਰ	835	825	890	911

SubQuestion No : 46

Q.46 ਸਾਲ 2018 ਤੋਂ 2019 ਤੱਕ ਟੀਵੀ ਦੀਆਂ ਨਿਰਮਾਣ ਇਕਾਈਆਂ ਵਿੱਚ ਲਗਪਗ ਪ੍ਰਤੀਸ਼ਤ ਵਾਧਾ ਕਿੰਨਾ ਹੈ?

Ans

✗ 1. 5.84%

✗ 2. 2.84%

✓ 3. 3.13%

✗ 4. 4.56%

Question ID : **63068082733**
Option 1 ID : **630680320823**
Option 2 ID : **630680320822**
Option 3 ID : **630680320820**
Option 4 ID : **630680320821**
Status : **Answered**
Chosen Option : **3**

DAILY JOB Alert ਪੰਜਾਬ

Comprehension:

ਹੇਠਾਂ ਦਿੱਤਾ ਗਿਆ ਪਾਈ-ਚਾਰਟ ਇੱਕ ਰਿੰਗ ਬਣਾਉਣ ਲਈ ਵਰਤੀ ਜਾਂਦੀ ਸਮੱਗਰੀ ਦੀ ਪ੍ਰਤੀਸ਼ਤਤਾ ਅਨੁਸਾਰ ਵੰਡ ਨੂੰ ਦਰਸਾਉਂਦਾ ਹੈ। ਪਾਈ-ਚਾਰਟ ਦਾ ਅਧਿਐਨ ਕਰੋ ਅਤੇ ਪ੍ਰਸ਼ਨ ਦਾ ਉੱਤਰ ਦਿਓ।

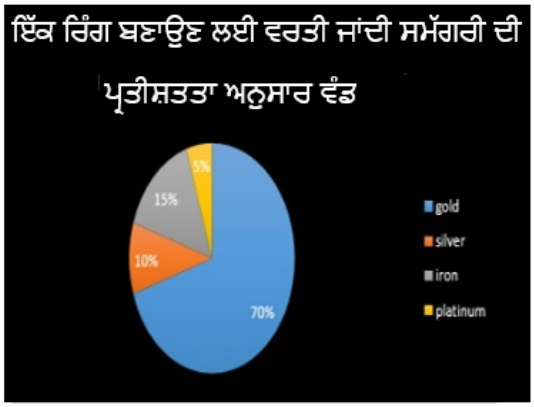

Gold=ਸੋਨਾ

Silver=ਚਾਂਦੀ

Iron=ਲੋਹਾ

Platinum=ਪਲੈਟੀਨਮ

SubQuestion No : 47

Q.47 ਜੇਕਰ ਇੱਕ ਰਿੰਗ ਦਾ ਭਾਰ 10 g ਹੈ, ਤਾਂ ਰਿੰਗ ਬਣਾਉਣ ਵਿੱਚ ਵਰਤੇ ਗਏ ਪਲੈਟੀਨਮ ਦਾ ਭਾਰ ਕਿੰਨਾ ਹੋਵੇਗਾ?

Ans

✔ 1. 0.5 g

✘ 2. 1.0 g

✘ 3. 0.3 g

✘ 4. 0.7 g

Question ID : **630680105697**
Option 1 ID : **630680410811**
Option 2 ID : **630680410814**
Option 3 ID : **630680410812**
Option 4 ID : **630680410813**
Status : **Answered**
Chosen Option : **1**

DAILY JOB Alert ਪੰਜਾਬ

Comprehension:

ਹੇਠਾਂ ਦਿੱਤਾ ਗਿਆ ਪਾਈ-ਚਾਰਟ ਇੱਕ ਰਿੰਗ ਬਣਾਉਣ ਲਈ ਵਰਤੀ ਜਾਂਦੀ ਸਮੱਗਰੀ ਦੀ ਪ੍ਰਤੀਸ਼ਤਤਾ ਅਨੁਸਾਰ ਵੰਡ ਨੂੰ ਦਰਸਾਉਂਦਾ ਹੈ। ਪਾਈ-ਚਾਰਟ ਦਾ ਅਧਿਐਨ ਕਰੋ ਅਤੇ ਪ੍ਰਸ਼ਨ ਦਾ ਉੱਤਰ ਦਿਓ।

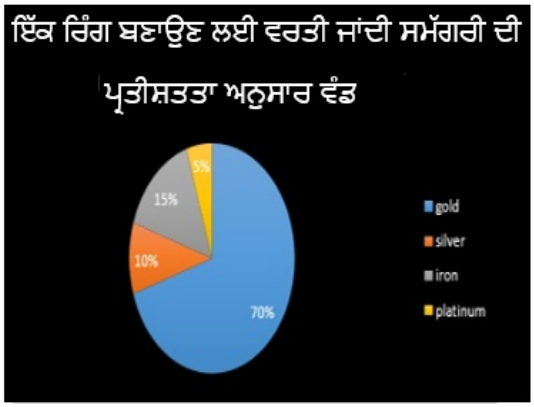

Gold=ਸੋਨਾ

Silver=ਚਾਂਦੀ

Iron=ਲੋਹਾ

Platinum=ਪਲੈਟੀਨਮ

SubQuestion No : 48

Q.48 ਸੋਨੇ ਅਤੇ ਪਲੈਟੀਨਮ ਦੀ ਵਰਤੋਂ ਅਤੇ ਲੋਹੇ ਅਤੇ ਚਾਂਦੀ ਦੀ ਵਰਤੋਂ ਦਾ ਅਨੁਪਾਤ ਕਿੰਨਾ ਹੋਵੇਗਾ?

Ans
✗ 1. 5:4
✗ 2. 2:5
✗ 3. 4:3
✓ 4. 3:1

Question ID : **630680105698**
Option 1 ID : **630680410815**
Option 2 ID : **630680410817**
Option 3 ID : **630680410818**
Option 4 ID : **630680410816**
Status : **Answered**
Chosen Option : **4**

Comprehension:

ਦਿੱਤੇ ਗਏ ਪੈਰੇ ਨੂੰ ਪੜ੍ਹੋ ਅਤੇ ਅਗਲੇ ਸਵਾਲਾਂ ਦੇ ਉੱਤਰ ਦਿਓ।

ਸੰਯੁਕਤ ਰਾਸ਼ਟਰ ਜਨਰਲ ਅਸੈਂਬਲੀ ਦੁਆਰਾ 1979 ਵਿੱਚ ਅਪਣਾਇਆ ਗਿਆ ਔਰਤਾਂ ਦੇ ਵਿਰੁੱਧ ਭੇਦਭਾਵ ਦੇ ਸਾਰੇ ਰੂਪਾਂ ਦੇ ਖਾਤਮੇ ਬਾਰੇ ਕਨਵੈਨਸ਼ਨ (CEDAW) ਰਾਜਨੀਤਿਕ ਅਤੇ ਸਰਵਜਨਿਕ ਜੀਵਨ ਵਿੱਚ ਔਰਤਾਂ ਦੀ ਸਮਾਨ ਪਹੁੰਚ ਅਤੇ ਸਮਾਨ ਮੌਕੇ ਯਕੀਨੀ ਬਣਾਉਣ ਦੁਆਰਾ ਔਰਤਾਂ ਅਤੇ ਮਰਦਾਂ ਵਿਚਕਾਰ ਸਮਾਨਤਾ ਨੂੰ ਪ੍ਰਾਪਤ ਕਰਨ ਦਾ ਆਧਾਰ ਪ੍ਰਦਾਨ ਕਰਦਾ ਹੈ। - ਵੋਟ ਪਾਉਣ ਅਤੇ ਚੋਣ ਲੜਨ ਦੇ ਅਧਿਕਾਰ ਸਮੇਤ - ਨਾਲ ਹੀ ਸਿੱਖਿਆ, ਸਿਹਤ ਅਤੇ ਰੁਜ਼ਗਾਰ। ਰਾਜ ਪਾਰਟੀਆਂ ਕਾਨੂੰਨ ਅਤੇ ਅਸਥਾਈ ਵਿਸ਼ੇਸ਼ ਉਪਾਵਾਂ ਸਮੇਤ ਸਾਰੇ ਢੁਕਵੇਂ ਉਪਾਅ ਕਰਨ ਲਈ ਸਹਿਮਤ ਹਨ, ਤਾਂ ਜੋ ਔਰਤਾਂ ਆਪਣੇ ਸਾਰੇ ਮਨੁੱਖੀ ਅਧਿਕਾਰਾਂ ਅਤੇ ਮੌਲਿਕ ਸੁਤੰਤਰਤਾ ਦਾ ਆਨੰਦ ਮਾਣ ਸਕਣ।

SubQuestion No : 49

Q.49 ਔਰਤਾਂ ਦੇ ਮਨੁੱਖੀ ਅਧਿਕਾਰਾਂ ਦੇ ਉਪਭੋਗ ਲਈ ਕਾਨੂੰਨ ਬਣਾਉਣ ਦਾ ਫ਼ਰਜ਼ ਕਿਸ ਦਾ ਹੈ?

Ans
✗ 1. ਸੰਯੁਕਤ ਰਾਸ਼ਟਰ
✗ 2. ਉਹ ਰਾਜ ਜਿੱਥੇ ਮਨੁੱਖੀ ਅਧਿਕਾਰਾਂ ਦੀ ਉਲੰਘਣਾ ਵੱਡੇ ਪੱਧਰ 'ਤੇ ਹੋ ਰਹੀ ਹੋਵੇ।
✓ 3. CEDAW ਕਨਵੈਨਸ਼ਨ ਲਈ ਰਾਜ ਪਾਰਟੀਆਂ
✗ 4. ਮਹਿਲਾ ਸੰਗਠਨ

Question ID : **630680248114**
Option 1 ID : **630680962659**
Option 2 ID : **630680962661**
Option 3 ID : **630680962660**
Option 4 ID : **630680962662**
Status : **Answered**
Chosen Option : **3**

Website - www.dailyjobalert.in

Comprehension:

ਦਿੱਤੇ ਗਏ ਪੈਰੇ ਨੂੰ ਪੜ੍ਹੋ ਅਤੇ ਅਗਲੇ ਸਵਾਲਾਂ ਦੇ ਉੱਤਰ ਦਿਓ।

ਸੰਯੁਕਤ ਰਾਸ਼ਟਰ ਜਨਰਲ ਅਸੈਂਬਲੀ ਦੁਆਰਾ 1979 ਵਿੱਚ ਅਪਣਾਇਆ ਗਿਆ ਔਰਤਾਂ ਦੇ ਵਿਰੁੱਧ ਭੇਦਭਾਵ ਦੇ ਸਾਰੇ ਰੂਪਾਂ ਦੇ ਖਾਤਮੇ ਬਾਰੇ ਕਨਵੈਨਸ਼ਨ (CEDAW) ਰਾਜਨੀਤਿਕ ਅਤੇ ਸਰਵਜਨਿਕ ਜੀਵਨ ਵਿੱਚ ਔਰਤਾਂ ਦੀ ਸਮਾਨ ਪਹੁੰਚ ਅਤੇ ਸਮਾਨ ਮੌਕੇ ਯਕੀਨੀ ਬਣਾਉਣ ਦੁਆਰਾ ਔਰਤਾਂ ਅਤੇ ਮਰਦਾਂ ਵਿਚਕਾਰ ਸਮਾਨਤਾ ਨੂੰ ਪ੍ਰਾਪਤ ਕਰਨ ਦਾ ਆਧਾਰ ਪ੍ਰਦਾਨ ਕਰਦਾ ਹੈ। - ਵੋਟ ਪਾਉਣ ਅਤੇ ਚੋਣ ਲੜਨ ਦੇ ਅਧਿਕਾਰ ਸਮੇਤ - ਨਾਲ ਹੀ ਸਿੱਖਿਆ, ਸਿਹਤ ਅਤੇ ਰੁਜ਼ਗਾਰ। ਰਾਜ ਪਾਰਟੀਆਂ ਕਾਨੂੰਨ ਅਤੇ ਅਸਥਾਈ ਵਿਸ਼ੇਸ਼ ਉਪਾਵਾਂ ਸਮੇਤ ਸਾਰੇ ਢੁਕਵੇਂ ਉਪਾਅ ਕਰਨ ਲਈ ਸਹਿਮਤ ਹਨ, ਤਾਂ ਜੋ ਔਰਤਾਂ ਆਪਣੇ ਸਾਰੇ ਮਨੁੱਖੀ ਅਧਿਕਾਰਾਂ ਅਤੇ ਮੌਲਿਕ ਸੁਤੰਤਰਤਾ ਦਾ ਆਨੰਦ ਮਾਣ ਸਕਣ।

SubQuestion No : 50

Q.50 ਔਰਤਾਂ ਨੂੰ ਸਮਾਨਤਾ ਦੇ ਅਧਿਕਾਰ ਦੀ ਗਾਰੰਟੀ 1979 ਵਿੱਚ ਨਿਮਨਲਿਖਿਤ ਵਿੱਚੋ ਕਿਸ ਸੰਯੁਕਤ ਰਾਸ਼ਟਰ ਕਨਵੈਨਸ਼ਨ ਦੁਆਰਾ ਦਿੱਤੀ ਗਈ ਹੈ?

Ans
- ✗ 1. UNICITRAL ਮੋਡਲ ਲਾਅ
- ✓ 2. CEDAW
- ✗ 3. UDHR
- ✗ 4. ਭਾਰਤ ਦੇ ਸੰਵਿਧਾਨ

Question ID : **630680248113**
Option 1 ID : **630680962658**
Option 2 ID : **630680962655**
Option 3 ID : **630680962656**
Option 4 ID : **630680962657**
Status : **Answered**
Chosen Option : **2**

Section : **Digital Literacy and Computer Awareness**

Q.51 ਵਿੰਡੋਜ਼ 10 (Windows 10) ਵਿੱਚ ਸੱਜੇ ਪਾਸੇ, ਟਾਸਕਬਾਰ ਵਿੱਚ _____ ਦੀ ਵਿਸ਼ੇਸ਼ਤਾ (features) ਇਹ ਹੈ ਕਿ ਇਹ ਵਰਤੋਂਕਾਰ ਨੂੰ ਵੱਖ-ਵੱਖ ਚੀਜ਼ਾਂ ਬਾਰੇ ਸੂਚਿਤ ਕਰਦੀ ਹੈ; ਜਿਵੇਂ ਕਿ ਇੰਟਰਨੈਟ ਕਨੈਕਸ਼ਨ ਦੀ ਸਥਿਤੀ ਜਾਂ ਲੈਪਟਾਪ ਦੀ ਬੈਟਰੀ ਦੇ ਚਾਰਜ ਹੋਣ ਦੀ ਪ੍ਰਤੀਸ਼ਤਤਾ।

Ans
- ✗ 1. ਫ੍ਰੀਕੁਐਂਟਲੀ ਯੂਸਡ ਐਪਲੀਕੇਸ਼ਨਸ (frequently used applications)
- ✗ 2. ਡੈਸਕਟਾਪ (Desktop)
- ✓ 3. ਨੋਟੀਫਿਕੇਸ਼ਨ ਏਰੀਆ (Notification Area)
- ✗ 4. ਸਟਾਰਟ ਬਟਨ (Start button)

Question ID : **630680247711**
Option 1 ID : **630680961053**
Option 2 ID : **630680961052**
Option 3 ID : **630680961054**
Option 4 ID : **630680961051**
Status : **Answered**
Chosen Option : **3**

Q.52 In MS-Excel 2010, once you insert a chart, a set of _____ arranged into three tabs will appear on the ribbon.

Ans
- ✓ 1. chart tools
- ✗ 2. graph tools
- ✗ 3. menu tools
- ✗ 4. ribbon tools

Question ID : **630680247717**
Option 1 ID : **630680961076**
Option 2 ID : **630680961075**
Option 3 ID : **630680961078**
Option 4 ID : **630680961077**
Status : **Not Answered**
Chosen Option : **--**

Website - www.dailyjobalert.in

Q.53 ਡੈਸਕਟਾਪ 'ਤੇ ਗੂਗਲ ਕਰੋਮ ਵਰਤੋਂਕਾਰਾਂ ਲਈ, ਔਫਲਾਈਨ ਰੀਡਿੰਗ ਲਈ ਇੱਕ ਵੈੱਬ ਪੇਜ਼ ਨੂੰ ਸੇਵ ਕਰਨ ਦਾ ਸਭ ਤੋਂ ਆਸਾਨ ਬਿਲਟ-ਇਨ ਤਰੀਕਾ ਹੈ ਕਿ ਇਸ ਪੇਜ਼ ਨੂੰ ਇੱਕ ਫਾਈਲ ਦੇ ਰੂਪ ਵਿੱਚ ਡਾਊਨਲੋਡ ਕਰੋ। ਇਸਦੇ ਲਈ, ਉੱਪਰ ਸੱਜੇ ਪਾਸੇ ਥ੍ਰੀ-ਡਾਟ ਮੀਨੂ ਨੂੰ ਖੋਲ੍ਹੋ ਅਤੇ _____ ਨੂੰ ਚੁਣੋ।

Ans
1. Find -> Save page as (ਫਾਈਂਡ->ਸੇਵ ਪੇਜ਼ ਐਜ)
2. Print -> Save page as (ਪ੍ਰਿੰਟ->ਸੇਵ ਪੇਜ਼ ਐਜ)
3. Cast -> Save page as (ਕਾਸਟ->ਸੇਵ ਪੇਜ਼ ਐਜ)
4. More tools -> Save page as (ਮੋਰ ਟੂਲ->ਸੇਵ ਪੇਜ਼ ਐਜ)

Question ID : **630680247726**
Option 1 ID : **630680961111**
Option 2 ID : **630680961113**
Option 3 ID : **630680961112**
Option 4 ID : **630680961114**
Status : **Not Answered**
Chosen Option : **--**

Q.54 Which of the following keys of a computer keyboard is used to delete the character at the cursor position?

Ans
1. Delete
2. Shift
3. Spacebar
4. Insert

Question ID : **630680247708**
Option 1 ID : **630680961040**
Option 2 ID : **630680961042**
Option 3 ID : **630680961041**
Option 4 ID : **630680961039**
Status : **Answered**
Chosen Option : **1**

Q.55 Which of the following is a proprietary operating system developed by Samsung for mobile phones?

Ans
1. Bada
2. Blackberry OS
3. Symbian OS
4. MeeGo

Question ID : **630680247712**
Option 1 ID : **630680961057**
Option 2 ID : **630680961058**
Option 3 ID : **630680961055**
Option 4 ID : **630680961056**
Status : **Answered**
Chosen Option : **3**

Website - www.dailyjobalert.in

Q.56 Which of the following refers to any organisation that provides a service for public users to disseminate speech, expression, information, or other content (typically content that includes messages, videos, photographs and/or sound files) to other users or to the public?

Ans
- ✗ 1. Public sector organisation
- ✗ 2. News group
- ✓ 3. Social media platform
- ✗ 4. Social gathering

Question ID : **630680247727**
Option 1 ID : **630680961115**
Option 2 ID : **630680961116**
Option 3 ID : **630680961117**
Option 4 ID : **630680961118**
Status : **Answered**
Chosen Option : **3**

Q.57 Voice is converted into _____ by VoIP services that travel over the internet.

Ans
- ✗ 1. imaginary signals
- ✗ 2. Flow measurement signals
- ✗ 3. analog signals
- ✓ 4. digital signals

Question ID : **630680247731**
Option 1 ID : **630680961131**
Option 2 ID : **630680961132**
Option 3 ID : **630680961133**
Option 4 ID : **630680961134**
Status : **Answered**
Chosen Option : **3**

Q.58 Apple launched a web browser in the year _____ and named it as '_____'.

Ans
- ✓ 1. 2003; Safari
- ✗ 2. 1994; Internet Explorer
- ✗ 3. 1995; Safari
- ✗ 4. 2002; Firefox

Question ID : **630680247724**
Option 1 ID : **630680961103**
Option 2 ID : **630680961106**
Option 3 ID : **630680961104**
Option 4 ID : **630680961105**
Status : **Answered**
Chosen Option : **1**

DAILY JOB Alert ਪੰਜਾਬ

Q.59 ਹੇਠ ਲਿਖਿਆਂ ਵਿੱਚੋਂ ਕਿਹੜੀ ਸਾਈਬਰ ਸੁਰੱਖਿਆ ਸ਼੍ਰੇਣੀ, ਸਟੋਰੇਜ਼ ਅਤੇ ਸਥਾਨਾਂਤਰਨ ਦੋਵਾਂ ਵਿੱਚ ਡੇਟਾ ਦੀ ਅਖੰਡਤਾ ਅਤੇ ਗੋਪਨੀਯਤਾ ਦੀ ਸੁਰੱਖਿਆ ਨੂੰ ਦਰਸਾਉਂਦੀਆਂ ਹਨ,?

Ans

✔ 1. ਜਾਣਕਾਰੀ ਸੁਰੱਖਿਆ (Information security)

✘ 2. ਐਪਲੀਕੇਸ਼ਨ ਸੁਰੱਖਿਆ (Application security)

✘ 3. ਨੈੱਟਵਰਕ ਸੁਰੱਖਿਆ (Network security)

✘ 4. ਸੰਚਾਲਨ ਸੁਰੱਖਿਆ (Operational security)

Question ID : **630680247736**
Option 1 ID : **630680961153**
Option 2 ID : **630680961151**
Option 3 ID : **630680961152**
Option 4 ID : **630680961154**
Status : **Answered**
Chosen Option : **4**

Q.60 To print a web page in the Google Chrome web browser, open the Google Chrome browser and access the page you want to print. Click _____ icon in the upper-right corner of the browser window and select 'Print' from the drop-down menu that appears.

Ans

✘ 1.

✘ 2.

✔ 3.

✘ 4.

Question ID : **630680247725**
Option 1 ID : **630680961110**
Option 2 ID : **630680961109**
Option 3 ID : **630680961107**
Option 4 ID : **630680961108**
Status : **Answered**
Chosen Option : **4**

Q.61 ਹੇਠ ਲਿਖਿਆਂ ਵਿੱਚੋਂ ਕਿਹੜੀ ਸੋਸ਼ਲ ਮੀਡੀਆ ਪਲੇਟਫਾਰਮਾਂ ਦੀ ਹਾਨੀ ਹੈ?

Ans

✘ 1. ਇਹ ਗਾਹਕਾਂ ਨੂੰ ਆਕਰਸ਼ਿਤ ਕਰਦੇ ਹਨ।

✘ 2. ਇਹ ਤੁਹਾਡੇ ਬ੍ਰਾਂਡ ਨੂੰ ਵਿਕਸਤ ਕਰਦੇ ਹਨ.

✔ 3. ਇਹਨਾਂ ਨੂੰ ਰੋਜ਼ਾਨਾ ਸਰਗਰਮ ਨਿਗਰਾਨੀ ਦੀ ਲੋੜ ਹੁੰਦੀ ਹੈ।

✘ 4. ਇਹ ਤੁਹਾਡੀ ਮਾਰਕੀਟ ਪਹੁੰਚ ਨੂੰ ਵਧਾਉਂਦੇ ਹਨ।

Question ID : **630680247729**
Option 1 ID : **630680961125**
Option 2 ID : **630680961123**
Option 3 ID : **630680961124**
Option 4 ID : **630680961126**
Status : **Answered**
Chosen Option : **3**

DAILY JOB Alert ਪੰਜਾਬ

Q.62 MS-PowerPoint 2010 ਵਿੱਚ ਹੇਠ ਦਿੱਤਿਆਂ ਵਿੱਚੋਂ ਕਿਹੜਾ ਵਿਕਲਪ ਕਿਸੇ ਸਲਾਈਡ ਦੇ ਕ੍ਰਮ, ਸਥਿਤੀ ਅਤੇ ਰੋਟੇਸ਼ਨ ਨੂੰ ਬਦਲ ਕੇ ਉਸਦੀ ਬਣਾਵਟ ਨੂੰ ਵਿਵਸਥਿਤ ਕਰਨ ਲਈ ਵਰਤਿਆ ਜਾਂਦਾ ਹੈ?

Ans

✗ 1. ਸ਼ੇਪ ਆਉਟਲਾਈਨ (Shape outline)

✓ 2. ਅਰੈਂਜ (Arrange)

✗ 3. ਕਵਿੱਕ ਸਟਾਇਲ (Quick style)

✗ 4. ਸ਼ੇਪ ਇਫੈਕਟ (Shape effects)

Question ID : **630680247721**
Option 1 ID : **630680961094**
Option 2 ID : **630680961091**
Option 3 ID : **630680961092**
Option 4 ID : **630680961093**
Status : **Answered**
Chosen Option : **2**

Q.63 Which of the following is the extension of a basic audio file supported by Windows OS?

Ans

✓ 1. .AU

✗ 2. .DIF

✗ 3. .BAT

✗ 4. .GIF

Question ID : **630680247710**
Option 1 ID : **630680961050**
Option 2 ID : **630680961049**
Option 3 ID : **630680961047**
Option 4 ID : **630680961048**
Status : **Answered**
Chosen Option : **1**

Q.64 MS-Word 2010 ਵਿੱਚ ਫੌਂਟ ਗਰੁੱਪ ਦੇ ਹੇਠਾਂ ਦਿੱਤੇ ਆਈਕਾਨਾਂ ਵਿੱਚੋਂ ਕਿਹੜਾ 'Grow Font' ਦਾ ਹਵਾਲਾ ਦਿੰਦਾ ਹੈ?

Ans

✗ 1.

✗ 2.

✗ 3.

✓ 4.

Question ID : **630680247713**
Option 1 ID : **630680961062**
Option 2 ID : **630680961061**
Option 3 ID : **630680961059**
Option 4 ID : **630680961060**
Status : **Answered**
Chosen Option : **4**

Website - www.dailyjobalert.in

Q.65 ਹੇਠ ਲਿਖਿਆਂ ਵਿੱਚੋਂ ਕਿਹੜਾ ਇੱਕ VoIP ਪ੍ਰਦਾਨਕ ਨਹੀਂ ਹੈ?

Ans
- ✗ 1. ਵੈੱਬੇਕਸ ਕਾਲਿੰਗ (Webex Calling)
- ✓ 2. ਪਿਕਸਪਾ (Pixpa)
- ✗ 3. ਜ਼ੂਮ (Zoom)
- ✗ 4. ਗੋ ਟੂ ਕਨੈਕਟ (GoTo Connect)

Question ID : **630680247730**
Option 1 ID : **630680961130**
Option 2 ID : **630680961129**
Option 3 ID : **630680961127**
Option 4 ID : **630680961128**
Status : **Answered**
Chosen Option : **3**

Q.66 **Which of the following programming languages is primarily used in statistical software products?**

Ans
- ✗ 1. C++
- ✓ 2. R
- ✗ 3. JavaScript
- ✗ 4. C#

Question ID : **630680247709**
Option 1 ID : **630680961044**
Option 2 ID : **630680961045**
Option 3 ID : **630680961046**
Option 4 ID : **630680961043**
Status : **Answered**
Chosen Option : **3**

Q.67 **Which of the following is a common asymmetric encryption method?**

Ans
- ✗ 1. Two fish
- ✗ 2. DES
- ✗ 3. AES
- ✓ 4. RSA

Question ID : **630680247735**
Option 1 ID : **630680961150**
Option 2 ID : **630680961147**
Option 3 ID : **630680961149**
Option 4 ID : **630680961148**
Status : **Not Answered**
Chosen Option : **--**

Website - www.dailyjobalert.in

Q.68 Which of the following is an instant messaging application based on local-based device storage?

Ans
✗ 1. Skype
✓ 2. Signal
✗ 3. Slack
✗ 4. Telegram

Question ID : **630680247733**
Option 1 ID : **630680961140**
Option 2 ID : **630680961141**
Option 3 ID : **630680961142**
Option 4 ID : **630680961139**
Status : **Answered**
Chosen Option : **4**

Q.69 In MS-Word 2010, a quick way to indent text is to use the _____ key.

Ans
✓ 1. Tab
✗ 2. Shift
✗ 3. Ctrl
✗ 4. Insert

Question ID : **630680247715**
Option 1 ID : **630680961068**
Option 2 ID : **630680961067**
Option 3 ID : **630680961069**
Option 4 ID : **630680961070**
Status : **Answered**
Chosen Option : **4**

Q.70 Which protocol of internet architecture determines how to transform a stream of bytes in an IP packet while ensuring the quality of transport of this IP packet?

Ans
✗ 1. POP
✗ 2. IP
✓ 3. TCP
✗ 4. DHCP

Question ID : **630680247723**
Option 1 ID : **630680961101**
Option 2 ID : **630680961099**
Option 3 ID : **630680961100**
Option 4 ID : **630680961102**
Status : **Answered**
Chosen Option : **1**

Website - www.dailyjobalert.in

Q.71 To use a prepared design while creating a new presentation in MS-PowerPoint 2010, one should select _____.

Ans
- ✗ 1. Old Presentation
- ✗ 2. Blank Presentation
- ✓ 3. One of the templates
- ✗ 4. New Presentation

Question ID : **630680247719**
Option 1 ID : **630680961086**
Option 2 ID : **630680961083**
Option 3 ID : **630680961084**
Option 4 ID : **630680961085**
Status : **Answered**
Chosen Option : **4**

Q.72 What is the parent company of YouTube, a popular online video-sharing platform?

Ans
- ✗ 1. Meta
- ✗ 2. Microsoft
- ✓ 3. Google
- ✗ 4. Oracle

Question ID : **630680247728**
Option 1 ID : **630680961121**
Option 2 ID : **630680961122**
Option 3 ID : **630680961119**
Option 4 ID : **630680961120**
Status : **Answered**
Chosen Option : **3**

Q.73 In MS-Excel 2010, which of the following options is used to apply cell styles?

Ans
- ✗ 1. Data -> Cell Styles
- ✓ 2. Home -> Cell Styles
- ✗ 3. Design -> Cell Styles
- ✗ 4. View -> Cell Styles

Question ID : **630680247716**
Option 1 ID : **630680961072**
Option 2 ID : **630680961073**
Option 3 ID : **630680961071**
Option 4 ID : **630680961074**
Status : **Answered**
Chosen Option : **4**

Website - www.dailyjobalert.in

Q.74 ਇੰਸਟੈਂਟ ਮੈਸੇਜਿੰਗ ਐਪਲੀਕੇਸ਼ਨਾਂ ਦੀ ਹਾਨੀ ਕੀ ਹੈ?

Ans
✗ 1. ਸੰਚਾਰ ਦੀ ਉਚਿਤਤਾ
✗ 2. ਉਹ ਸਥਾਨ ਦੀ ਪਰਵਾਹ ਕੀਤੇ ਬਿਨਾਂ, ਲੋਕਾਂ ਨੂੰ ਆਸਾਨੀ ਨਾਲ ਜੋੜਦੇ ਹਨ।
✓ 3. ਇੰਸਟੈਂਟ ਮੈਸੇਂਜਰਾਂ ਨਾਲ ਸੁਰੱਖਿਆ ਸਮੱਸਿਆਵਾਂ
✗ 4. ਈਮੇਲ ਨਾਲੋਂ ਉੱਚ ਦਿੱਖ

Question ID : **630680247732**
Option 1 ID : **630680961135**
Option 2 ID : **630680961137**
Option 3 ID : **630680961138**
Option 4 ID : **630680961136**
Status : **Answered**
Chosen Option : **2**

Q.75 In MS-Excel 2010, before you press Enter or Tab and before or after you press F2, you can press the _____ key to cancel any edits that you made to the cell contents.

Ans
✗ 1. Shift
✗ 2. Backspace
✗ 3. Delete
✓ 4. Esc

Question ID : **630680247718**
Option 1 ID : **630680961080**
Option 2 ID : **630680961081**
Option 3 ID : **630680961082**
Option 4 ID : **630680961079**
Status : **Answered**
Chosen Option : **4**

Q.76 The data is sent over the internet in the form of manageable _____.

Ans
✗ 1. blocks
✓ 2. packets
✗ 3. envelopes
✗ 4. words

Question ID : **630680247722**
Option 1 ID : **630680961095**
Option 2 ID : **630680961097**
Option 3 ID : **630680961096**
Option 4 ID : **630680961098**
Status : **Answered**
Chosen Option : **2**

Website - www.dailyjobalert.in

Q.77 MS-PowerPoint 2010 ਵਿੱਚ ਇੱਕ ਪ੍ਰੇਜ਼ੇਂਟੇਸ਼ਨ ਦੇਖਦੇ ਹੋਏ, ਸਕ੍ਰੀਨ ਦੇ ਹੇਠਾਂ ਖੱਬੇ ਪਾਸੇ ਮਾਊਸ ਨੂੰ ਲਿਜਾ ਕੇ ਰੋਕੋ (hover)। ਇੱਕ ਮੀਨੂ ਦਿਖਾਈ ਦੇਵੇਗਾ। ਫਿਰ, ਅਗਲੀਆਂ ਸਲਾਈਡਾਂ ਲਈ _____ 'ਤੇ ਕਲਿਕ ਕਰੋ ਅਤੇ ਪਿਛਲੀਆਂ ਸਲਾਈਡਾਂ ਲਈ _____ 'ਤੇ ਕਲਿੱਕ ਕਰੋ।

Ans
- ✗ 1. left arrow (ਲੈਫਟ ਐਰੋ); down arrow (ਡਾਉਨ ਐਰੋ)
- ✗ 2. left arrow (ਲੈਫਟ ਐਰੋ); right arrow (ਰਾਈਟ ਐਰੋ)
- ✓ 3. right arrow (ਰਾਈਟ ਐਰੋ); left arrow (ਲੈਫਟ ਐਰੋ)
- ✗ 4. up arrow (ਅੱਪ ਐਰੋ); down arrow (ਡਾਉਨ ਐਰੋ)

Question ID : **630680247720**
Option 1 ID : **630680961087**
Option 2 ID : **630680961089**
Option 3 ID : **630680961090**
Option 4 ID : **630680961088**
Status : **Not Answered**
Chosen Option : **--**

Q.78 _____ can be referred to as primary storage and _____ can be referred to as secondary storage in a computer system.

Ans
- ✗ 1. RAM, cache memory
- ✓ 2. RAM, flash memory
- ✗ 3. Cache memory, RAM
- ✗ 4. ROM, RAM

Question ID : **630680247707**
Option 1 ID : **630680961036**
Option 2 ID : **630680961035**
Option 3 ID : **630680961037**
Option 4 ID : **630680961038**
Status : **Answered**
Chosen Option : **2**

Q.79 The Print Preview combined with the Print window to create the Print pane is located in the _____ view in MS-Word 2010.

Ans
- ✗ 1. Outline
- ✗ 2. Print Layout
- ✗ 3. Draft
- ✓ 4. Backstage

Question ID : **630680247714**
Option 1 ID : **630680961065**
Option 2 ID : **630680961064**
Option 3 ID : **630680961066**
Option 4 ID : **630680961063**
Status : **Answered**
Chosen Option : **1**

Website - www.dailyjobalert.in

Q.80 _____ is also known as public-key cryptography, as it encrypts and decrypts the data using two separate cryptographic keys.

Ans
✗ 1. Asynchronous encryption
✓ 2. Asymmetric encryption
✗ 3. Symmetric encryption
✗ 4. Synchronous encryption

Question ID : **630680247734**
Option 1 ID : **630680961145**
Option 2 ID : **630680961143**
Option 3 ID : **630680961144**
Option 4 ID : **630680961146**
Status : **Answered**
Chosen Option : **4**

Section : **English Language**

Q.81 Select the option that can be used as a one-word substitute for the given group of words.
The study of the human mind

Ans
✗ 1. Physiology
✗ 2. Biology
✗ 3. Geology
✓ 4. Psychology

Question ID : **630680129515**
Option 1 ID : **630680501680**
Option 2 ID : **630680501681**
Option 3 ID : **630680501678**
Option 4 ID : **630680501679**
Status : **Answered**
Chosen Option : **4**

Q.82 "ਕੁਝ ਵੀ ਹੋਵੇ ਮੈਂ ਇਹ ਕੰਮ ਕਰ ਕੇ ਰਹਾਂਗਾ।" ਇਸ ਵਾਕ ਦਾ ਅੰਗਰੇਜ਼ੀ ਅਨੁਵਾਦ ਹੈ:-

Ans
✗ 1. No matter what doesn't happen the work will not be done
✗ 2. Nothing is to be done whatever may be possible
✗ 3. This work is to be done whatever should happen.
✓ 4. No matter what, I will keep doing it

Question ID : **630680248097**
Option 1 ID : **630680962598**
Option 2 ID : **630680962597**
Option 3 ID : **630680962596**
Option 4 ID : **630680962595**
Status : **Answered**
Chosen Option : **3**

Website - www.dailyjobalert.in

Q.83 **The given sentence is divided into four segments. Select the option that has the segment with the grammatical error.**
The headmaster, / as well as his staff, / were there for / the inaugural session.

Ans
✗ 1. the headmaster,

✗ 2. as well as his staff,

✓ 3. were there for

✗ 4. the inaugural session.

Question ID : **630680162123**
Option 1 ID : **630680627800**
Option 2 ID : **630680627801**
Option 3 ID : **630680627802**
Option 4 ID : **630680627803**
Status : **Answered**
Chosen Option : **3**

Q.84 **Select the most appropriate ANTONYM of the underlined word.**
There are other groups in Afghanistan that are <u>inimical</u> to India – the Lashkar-e-Taiba, the Jaish-e-Mohammed, as well as the Islamic State in Khorasan (ISK or ISIS K).

Ans
✗ 1. neighbouring

✓ 2. friendly

✗ 3. hostile

✗ 4. funding

Question ID : **63068071211**
Option 1 ID : **630680275433**
Option 2 ID : **630680275431**
Option 3 ID : **630680275430**
Option 4 ID : **630680275432**
Status : **Answered**
Chosen Option : **2**

Q.85 **Select the most appropriate ANTONYM of the underlined word to fill in the blank.**
The land which he bought is <u>barren</u> but yours is _____ .

Ans
✗ 1. bane

✓ 2. fertile

✗ 3. arid

✗ 4. boon

Question ID : **630680167049**
Option 1 ID : **630680647057**
Option 2 ID : **630680647058**
Option 3 ID : **630680647059**
Option 4 ID : **630680647056**
Status : **Answered**
Chosen Option : **2**

Website - www.dailyjobalert.in

Q.86 **Select the most appropriate collocation of words from the given options.**
Technology _____ in student's learning.

Ans
✗ 1. has a role

✗ 2. plays a role

✗ 3. roles pivotal

✓ 4. plays a pivotal role

Question ID : **630680114512**
Option 1 ID : **630680443438**
Option 2 ID : **630680443440**
Option 3 ID : **630680443439**
Option 4 ID : **630680443441**
Status : **Answered**
Chosen Option : **2**

Q.87 **Select the most appropriate ANTONYM of the underlined word.**

And now that I am dead, they have set me up here so high that I can see all the ugliness and all the <u>misery</u> of my city and though my heart is made of lead yet I cannot choose but weep."

Ans
✗ 1. Distress

✓ 2. Contentment

✗ 3. Fairness

✗ 4. Generosity

Question ID : **630680131061**
Option 1 ID : **630680507522**
Option 2 ID : **630680507525**
Option 3 ID : **630680507523**
Option 4 ID : **630680507524**
Status : **Answered**
Chosen Option : **1**

Q.88 **Select the option that can be used as a one-word substitute for the given group of words.**

The cry of an owl

Ans
✗ 1. Tweet

✗ 2. Bleat

✗ 3. Moo

✓ 4. Hoot

Question ID : **63068071534**
Option 1 ID : **630680276677**
Option 2 ID : **630680276676**
Option 3 ID : **630680276674**
Option 4 ID : **630680276675**
Status : **Answered**
Chosen Option : **4**

Website - www.dailyjobalert.in

Q.89 Select the grammatically INCORRECT sentence.

Ans
✗ 1. This is the best day of my life.

✓ 2. This is one of the baddest days of my life.

✗ 3. This is one of the best days of my life.

✗ 4. This is the worst day of my life.

Question ID : **630680161636**
Option 1 ID : **630680625873**
Option 2 ID : **630680625875**
Option 3 ID : **630680625874**
Option 4 ID : **630680625872**
Status : **Answered**
Chosen Option : **3**

Q.90 The following sentence has been split into four segments. Identify the segment that contains a grammatical error.

Tourism have been / considered as the most / important factor in the economic / development of the state.

Ans
✗ 1. development of the state

✓ 2. Tourism have been

✗ 3. considered as the most

✗ 4. important factor in the economic

DAILY JOB Alert

Question ID : **630680172380**
Option 1 ID : **630680667947**
Option 2 ID : **630680667944**
Option 3 ID : **630680667945**
Option 4 ID : **630680667946**
Status : **Answered**
Chosen Option : **3**

Q.91 Select the sentence in which all the words are spelt correctly.

Ans
✗ 1. Headaches are a progressively common occurrance in this busy world.

✓ 2. Headaches are a progressively common occurrence in this busy world.

✗ 3. Headaches are a progressively common ocurrence in this busy world.

✗ 4. Headaches are a progressively common occurence in this busy world.

Question ID : **630680131761**
Option 1 ID : **630680510256**
Option 2 ID : **630680510255**
Option 3 ID : **630680510257**
Option 4 ID : **630680510254**
Status : **Answered**
Chosen Option : **4**

Q.92 **Parts of a sentence are given below in jumbled order. Arrange the parts in the correct order to form a meaningful sentence.**
A.we are
B.should be thankful
C.our head and
D.have a roof over
E.very privileged to
F.for the same

Ans
✗ 1. A, B, C, D, E, F

✗ 2. A, E, C, D, B, F

✓ 3. A, E, D, C, B, F

✗ 4. A, D, E, C, B, F

Question ID : **630680113199**
Option 1 ID : **630680438358**
Option 2 ID : **630680438359**
Option 3 ID : **630680438360**
Option 4 ID : **630680438361**
Status : **Answered**
Chosen Option : **3**

Q.93 **Parts of a sentence are given below in jumbled order. Arrange the parts in the correct order to form a meaningful sentence.**
A.for one's turn
B.to wait for
C.It can be frustrating
D.at a hospital
E.long hours

Ans
✗ 1. C, A, D, B, E

✗ 2. E, A, B, D, C

✗ 3. B, E, D, C, A

✓ 4. C, B, E, D, A

Question ID : **630680113210**
Option 1 ID : **630680438404**
Option 2 ID : **630680438405**
Option 3 ID : **630680438403**
Option 4 ID : **630680438402**
Status : **Answered**
Chosen Option : **4**

DAILY JOB Alert ਪੰਜਾਬ

Q.94 **Select the word that is OPPOSITE in meaning to the underlined word in the following sentence.**

J&K government has <u>rescinded</u> restrictions on internet services in the valley.

Ans

✗ 1. Acquiesced

✓ 2. Ratified

✗ 3. Abandoned

✗ 4. Aborted

Question ID : **630680166290**
Option 1 ID : **630680644121**
Option 2 ID : **630680644123**
Option 3 ID : **630680644120**
Option 4 ID : **630680644122**
Status : **Answered**
Chosen Option : **3**

Q.95 **Select the most appropriate option to fill in the blank.**

Sumathi has read _____ first chapter of Gandhiji's Satyagraha.

Ans

✗ 1. a

✗ 2. an

✓ 3. the

✗ 4. that

Question ID : **63068068177**
Option 1 ID : **630680263422**
Option 2 ID : **630680263423**
Option 3 ID : **630680263425**
Option 4 ID : **630680263424**
Status : **Answered**
Chosen Option : **3**

DAILY JOB Alert

Comprehension:

Read the given passage and answer the questions that follow.

Aesthetic interests are little encouraged in our country. Art occupies only an insignificant place in our school curriculum. Nor are the prospects for employment bright for the students of arts. In advanced countries, on the other hand, artistic attainments find various vocational outlets such as the stage, film, radio, painting, cartoon drawing, fashion drawing, interior decoration, dress designing, carpet designing, pictorial publicity, poster art, sculpture, engraving, pottery and art photography. Children with aesthetic interests are discovered and every opportunity is offered for flowering of their talents. We have yet to realise the fact that children who take a genuine delight in music, painting, dancing and acting are an asset for the nation. There may not be scope for them all to become artists and musicians, but we can certainly see that they are not placed in employment where their artistic sensibility would be shocked and blunted by drab and ugly things.
Outdoor life and strenuous physical exertion are the constant delight of some people. They love all kinds of games and sports. Their vivacious interests will find a happy outlet only in vigorous and active occupations. It is indeed a wastage of human material to allow our finest sportsmen to languish in office or factory. They should be marked out from their youth for employment of an active type. The army, police, excise, customs, fire service, surveying, civil engineering, farming, estate management, forestry, fisheries etc. are their proper fields

SubQuestion No : 96

Q.96 According to the passage, which of the following jobs are NOT included in the active professions?

Ans
✗ 1. Surveying and engineering
✓ 2. Swabbing and labour
✗ 3. Farming and fisheries
✗ 4. The army and police

Question ID : **630680104621**
Option 1 ID : **630680406656**
Option 2 ID : **630680406657**
Option 3 ID : **630680406658**
Option 4 ID : **630680406655**
Status : **Answered**
Chosen Option : **2**

Website - www.dailyjobalert.in

Comprehension:

Read the given passage and answer the questions that follow.

Aesthetic interests are little encouraged in our country. Art occupies only an insignificant place in our school curriculum. Nor are the prospects for employment bright for the students of arts. In advanced countries, on the other hand, artistic attainments find various vocational outlets such as the stage, film, radio, painting, cartoon drawing, fashion drawing, interior decoration, dress designing, carpet designing, pictorial publicity, poster art, sculpture, engraving, pottery and art photography. Children with aesthetic interests are discovered and every opportunity is offered for flowering of their talents. We have yet to realise the fact that children who take a genuine delight in music, painting, dancing and acting are an asset for the nation. There may not be scope for them all to become artists and musicians, but we can certainly see that they are not placed in employment where their artistic sensibility would be shocked and blunted by drab and ugly things.
Outdoor life and strenuous physical exertion are the constant delight of some people. They love all kinds of games and sports. Their vivacious interests will find a happy outlet only in vigorous and active occupations. It is indeed a wastage of human material to allow our finest sportsmen to languish in office or factory. They should be marked out from their youth for employment of an active type. The army, police, excise, customs, fire service, surveying, civil engineering, farming, estate management, forestry, fisheries etc. are their proper fields

SubQuestion No : 97

Q.97 Which of the following is NOT an aesthetic activity mentioned in the passage?

Ans

✗ 1. Fashion, drawing, interior decoration, dress designing

✗ 2. Stage, film, radio, painting, cartoon drawing

✓ 3. Lumberjack, plumber work, care taker

✗ 4. Designing, pottery, poster art, sculpture, art photography

Question ID : **630680104620**
Option 1 ID : **630680406652**
Option 2 ID : **630680406651**
Option 3 ID : **630680406654**
Option 4 ID : **630680406653**
Status : **Answered**
Chosen Option : **2**

DAILY JOB Alert ਪੰਜਾਬ

Comprehension:

Read the given passage and answer the questions that follow.

Aesthetic interests are little encouraged in our country. Art occupies only an insignificant place in our school curriculum. Nor are the prospects for employment bright for the students of arts. In advanced countries, on the other hand, artistic attainments find various vocational outlets such as the stage, film, radio, painting, cartoon drawing, fashion drawing, interior decoration, dress designing, carpet designing, pictorial publicity, poster art, sculpture, engraving, pottery and art photography. Children with aesthetic interests are discovered and every opportunity is offered for flowering of their talents. We have yet to realise the fact that children who take a genuine delight in music, painting, dancing and acting are an asset for the nation. There may not be scope for them all to become artists and musicians, but we can certainly see that they are not placed in employment where their artistic sensibility would be shocked and blunted by drab and ugly things.
Outdoor life and strenuous physical exertion are the constant delight of some people. They love all kinds of games and sports. Their vivacious interests will find a happy outlet only in vigorous and active occupations. It is indeed a wastage of human material to allow our finest sportsmen to languish in office or factory. They should be marked out from their youth for employment of an active type. The army, police, excise, customs, fire service, surveying, civil engineering, farming, estate management, forestry, fisheries etc. are their proper fields

SubQuestion No : 98

Q.98 The tone of the passage is _____.

Ans

✗ 1. that the writer has mentioned that our nation encourages children who do not have a genuine delight in music, painting, dancing and acting

✗ 2. that the writer suggests to discourage aesthetic interests among the children

✓ 3. that the writer emphasizes to encourage aesthetic interests among the children

✗ 4. that the writer appreciates our nation for discouraging art in school curriculum

Question ID : **630680104623**
Option 1 ID : **630680406665**
Option 2 ID : **630680406663**
Option 3 ID : **630680406664**
Option 4 ID : **630680406666**
Status : **Answered**
Chosen Option : **3**

DAILY JOB Alert ਪੰਜਾਬ

Comprehension:

Read the given passage and answer the questions that follow.

Aesthetic interests are little encouraged in our country. Art occupies only an insignificant place in our school curriculum. Nor are the prospects for employment bright for the students of arts. In advanced countries, on the other hand, artistic attainments find various vocational outlets such as the stage, film, radio, painting, cartoon drawing, fashion drawing, interior decoration, dress designing, carpet designing, pictorial publicity, poster art, sculpture, engraving, pottery and art photography. Children with aesthetic interests are discovered and every opportunity is offered for flowering of their talents. We have yet to realise the fact that children who take a genuine delight in music, painting, dancing and acting are an asset for the nation. There may not be scope for them all to become artists and musicians, but we can certainly see that they are not placed in employment where their artistic sensibility would be shocked and blunted by drab and ugly things.
Outdoor life and strenuous physical exertion are the constant delight of some people. They love all kinds of games and sports. Their vivacious interests will find a happy outlet only in vigorous and active occupations. It is indeed a wastage of human material to allow our finest sportsmen to languish in office or factory. They should be marked out from their youth for employment of an active type. The army, police, excise, customs, fire service, surveying, civil engineering, farming, estate management, forestry, fisheries etc. are their proper fields

SubQuestion No : 99

Q.99 The most appropriate ANTONYM of the word 'drab' is:

Ans

✗ 1. ponderous

✓ 2. bright

✗ 3. grey

✗ 4. boring

Question ID : **630680104622**
Option 1 ID : **630680406659**
Option 2 ID : **630680406661**
Option 3 ID : **630680406662**
Option 4 ID : **630680406660**
Status : **Answered**
Chosen Option : **4**

DAILY JOB Alert ਪੰਜਾਬ

Comprehension:

Read the given passage and answer the questions that follow.

Aesthetic interests are little encouraged in our country. Art occupies only an insignificant place in our school curriculum. Nor are the prospects for employment bright for the students of arts. In advanced countries, on the other hand, artistic attainments find various vocational outlets such as the stage, film, radio, painting, cartoon drawing, fashion drawing, interior decoration, dress designing, carpet designing, pictorial publicity, poster art, sculpture, engraving, pottery and art photography. Children with aesthetic interests are discovered and every opportunity is offered for flowering of their talents. We have yet to realise the fact that children who take a genuine delight in music, painting, dancing and acting are an asset for the nation. There may not be scope for them all to become artists and musicians, but we can certainly see that they are not placed in employment where their artistic sensibility would be shocked and blunted by drab and ugly things.
Outdoor life and strenuous physical exertion are the constant delight of some people. They love all kinds of games and sports. Their vivacious interests will find a happy outlet only in vigorous and active occupations. It is indeed a wastage of human material to allow our finest sportsmen to languish in office or factory. They should be marked out from their youth for employment of an active type. The army, police, excise, customs, fire service, surveying, civil engineering, farming, estate management, forestry, fisheries etc. are their proper fields

SubQuestion No : 100

Q.100 The central theme of the passage is _____.

Ans

✗ 1. art is given significant place in our nation and provided the employment bright for all the students of arts

✗ 2. the opportunities for students who have not interested in art and aesthetics

✓ 3. that children are encouraged to give less importance to art and aesthetics

✗ 4. outdoor life and strenuous physical exertion are the constant delight of designers

Question ID : **630680104619**
Option 1 ID : **630680406650**
Option 2 ID : **630680406648**
Option 3 ID : **630680406647**
Option 4 ID : **630680406649**
Status : **Answered**
Chosen Option : **1**

Section : **Qualifying Test of Punjabi Language**

Q.1 ਕਿਹੜੇ ਵਾਕ ਵਿਚ ਜੋੜਨੀ (-) ਦੀ ਠੀਕ ਵਰਤੋਂ ਕੀਤੀ ਗਈ ਹੈ?

Ans

✗ 1. ਦੁਖ ਸੁਖ, ਚੰਗਾ ਮਾੜਾ ਤੇ ਅਮੀਰੀ ਗਰੀਬੀ ਜ਼ਿੰਦਗੀ ਦਾ ਹਿੱਸਾ ਹਨ।

✗ 2. ਦੁਖ-ਸੁਖ, ਚੰਗਾ ਮਾੜਾ ਤੇ ਅਮੀਰੀ ਗਰੀਬੀ ਜ਼ਿੰਦਗੀ ਦਾ ਹਿੱਸਾ ਹਨ।

✓ 3. ਦੁਖ-ਸੁਖ, ਚੰਗਾ-ਮਾੜਾ ਤੇ ਅਮੀਰੀ-ਗਰੀਬੀ ਜ਼ਿੰਦਗੀ ਦਾ ਹਿੱਸਾ ਹਨ।

✗ 4. ਦੁਖ ਸੁਖ, ਚੰਗਾ-ਮਾੜਾ ਤੇ ਅਮੀਰੀ-ਗਰੀਬੀ ਜ਼ਿੰਦਗੀ ਦਾ ਹਿੱਸਾ ਹਨ।

Question ID : **630680248198**
Option 1 ID : **630680962935**
Option 2 ID : **630680962938**
Option 3 ID : **630680962936**
Option 4 ID : **630680962937**
Status : **Marked For Review**
Chosen Option : **4**

Website - www.dailyjobalert.in

Q.2 ਹੇਠ ਲਿਖਿਆਂ ਵਿਚ ਪਿਛੇਤਰ ਯੁਕਤ ਸ਼ਬਦ ਹੈ:-

Ans
- ✗ 1. ਬਸੰਤ
- ✗ 2. ਡਾਕੀਆ
- ✓ 3. ਮਦਦਗਾਰ
- ✗ 4. ਵਿਸਰਾਮ

Question ID : **630680248180**
Option 1 ID : **630680962864**
Option 2 ID : **630680962865**
Option 3 ID : **630680962863**
Option 4 ID : **630680962866**
Status : **Answered**
Chosen Option : **2**

Q.3 "ਹੇਠ" ਦਾ ਵਿਰੋਧੀ ਸ਼ਬਦ ਹੈ:-

Ans
- ✗ 1. ਥੱਲੇ
- ✗ 2. ਦੂਰ
- ✗ 3. ਪਿੱਛੇ
- ✓ 4. ਉੱਤੇ

Question ID : **630680248161**
Option 1 ID : **630680962789**
Option 2 ID : **630680962790**
Option 3 ID : **630680962788**
Option 4 ID : **630680962787**
Status : **Answered**
Chosen Option : **4**

Q.4 ਨਿਮਨ ਲਿਖਤ ਵਿਚ ਕਿਹੜਾ ਵਾਕ ਸ਼ੁੱਧ ਹੈ:-

Ans
- ✗ 1. ਗਲਾਸ਼ ਵਿਚ ਕੌਲਡ੍ਰਿੰਕ ਪਾ ਦਿਓ।
- ✗ 2. ਗਾਲਸ ਵਿਚ ਕੋਲਡ੍ਰਿੰਕ ਪਾ ਦਿਉ।
- ✓ 3. ਗਲਾਸ ਵਿਚ ਕੋਲਡ੍ਰਿੰਕ ਪਾ ਦਿਓ।
- ✗ 4. ਗਾਲਾਸ ਵਿਚ ਕੋਲਡ੍ਰਿੰਗ ਪਾ ਦਿਓ।

Question ID : **630680248188**
Option 1 ID : **630680962898**
Option 2 ID : **630680962897**
Option 3 ID : **630680962895**
Option 4 ID : **630680962896**
Status : **Answered**
Chosen Option : **3**

Q.5 ਹੇਠ ਲਿਖਿਆਂ ਵਿਚ ਕਿਹੜਾ ਸ਼ਬਦ "ਸ਼ੁੱਧ" ਦਾ ਸਮਾਨਾਰਥਕ ਨਹੀਂ ਹੈ:-

Ans
- ✗ 1. ਪਵਿੱਤਰ
- ✗ 2. ਪਾਕ
- ✓ 3. ਅਸ਼ੁੱਧ
- ✗ 4. ਸੁੱਚਾ

Question ID : **630680248162**
Option 1 ID : **630680962792**
Option 2 ID : **630680962793**
Option 3 ID : **630680962794**
Option 4 ID : **630680962791**
Status : **Answered**
Chosen Option : **3**

DAILY JOB Alert ਪੰਜਾਬ
Website - www.dailyjobalert.in

Q.6 'Concept' ਸ਼ਬਦ ਦਾ ਪੰਜਾਬੀ ਅਨੁਵਾਦ ਨਹੀਂ ਹੈ:-

Ans
✔ 1. ਇਰਾਦਾ
✘ 2. ਖਿਆਲ
✘ 3. ਫੁਰਨਾ
✘ 4. ਸੰਕਲਪ

Question ID : **630680248204**
Option 1 ID : **630680962962**
Option 2 ID : **630680962961**
Option 3 ID : **630680962959**
Option 4 ID : **630680962960**
Status : **Answered**
Chosen Option : **3**

Q.7 'ਕਸਰਤ ਕਰਨ ਨਾਲ ਕਈ ਬਿਮਾਰੀਆਂ ਤੋਂ ਬਚਿਆ ਜਾ ਸਕਦਾ ਹੈ।' ਵਾਕ ਹੈ:-

Ans
✘ 1. ਪ੍ਰਸ਼ਨਵਾਚਕ
✔ 2. ਸਧਾਰਨ
✘ 3. ਸੰਜੁਕਤ
✘ 4. ਮਿਸ਼ਰਤ

Question ID : **630680248186**
Option 1 ID : **630680962888**
Option 2 ID : **630680962889**
Option 3 ID : **630680962890**
Option 4 ID : **630680962887**
Status : **Answered**
Chosen Option : **3**

Q.8 "ਰੂਹ" ਸ਼ਬਦ ਦਾ ਬਹੁਵਚਨ ਹੈ:-

Ans
✘ 1. ਰੂਹੇਂ
✘ 2. ਰੂਹਾ
✘ 3. ਰੂਹਆਂ
✔ 4. ਰੂਹਾਂ

Question ID : **630680248170**
Option 1 ID : **630680962826**
Option 2 ID : **630680962823**
Option 3 ID : **630680962825**
Option 4 ID : **630680962824**
Status : **Answered**
Chosen Option : **4**

Q.9 ਪੰਜਾਬੀ ਵਿਚ 25 ਅੰਕ ਨੂੰ ਕਿਵੇਂ ਲਿਖਦੇ ਹਨ?

Ans
✔ 1. ਪੱਚੀ
✘ 2. ਪੰਛੀ
✘ 3. ਪਚੀ
✘ 4. ਪਚਿਸ

Question ID : **630680248207**
Option 1 ID : **630680962971**
Option 2 ID : **630680962974**
Option 3 ID : **630680962973**
Option 4 ID : **630680962972**
Status : **Answered**
Chosen Option : **1**

Website - www.dailyjobalert.in

Q.10 ਹੇਠ ਲਿਖਿਆਂ ਵਿਚ ਅਗੇਤਰ ਯੁਕਤ ਸ਼ਬਦ ਹੈ:-

Ans
1. ਅਧ
2. ਬਾਕਮਾਲ
3. ਖੁਸ਼
4. ਨਿਰ

Question ID : **630680248177**
Option 1 ID : **630680962851**
Option 2 ID : **630680962853**
Option 3 ID : **630680962852**
Option 4 ID : **630680962854**
Status : **Answered**
Chosen Option : **2**

Q.11 "ਕੁਸ਼ਤੀ ਕਰਨ ਵਾਲਾ" ਲਈ ਕੋਈ ਇਕ ਸ਼ਬਦ ਚੁਣੋ:-

Ans
1. ਧਨਵਾਨ
2. ਮਜ਼ਦੂਰ
3. ਪਹਿਲਵਾਨ
4. ਵਣਜਾਰਾ

Question ID : **630680248164**
Option 1 ID : **630680962799**
Option 2 ID : **630680962800**
Option 3 ID : **630680962802**
Option 4 ID : **630680962801**
Status : **Answered**
Chosen Option : **3**

Q.12 'Criticism' ਸ਼ਬਦ ਦਾ ਪੰਜਾਬੀ ਅਨੁਵਾਦ ਹੈ:-

Ans
1. ਆਲੋਚਨਾ
2. ਬਿਮਾਰੀ
3. ਖੁਸ਼ੀ
4. ਤਾਰੀਫ਼

Question ID : **630680248202**
Option 1 ID : **630680962954**
Option 2 ID : **630680962953**
Option 3 ID : **630680962952**
Option 4 ID : **630680962951**
Status : **Answered**
Chosen Option : **1**

Q.13 'ਕਾਸ਼! ਮੈਂ ਵੀ ਵਿਦੇਸ਼ ਜਾ ਸਕਦੀ।' ਵਾਕ ਹੈ:-

Ans
1. ਸੰਜੁਕਤ ਵਾਕ
2. ਪ੍ਰਸ਼ਨਵਾਚਕ ਵਾਕ
3. ਵਿਸਮਿਕ ਵਾਕ
4. ਸਾਧਾਰਨ ਵਾਕ

Question ID : **630680248183**
Option 1 ID : **630680962878**
Option 2 ID : **630680962877**
Option 3 ID : **630680962876**
Option 4 ID : **630680962875**
Status : **Answered**
Chosen Option : **3**

Website - www.dailyjobalert.in

Q.14 "ਬਾਂਹ" ਸ਼ਬਦ ਦਾ ਬਹੁਵਚਨ ਹੈ:-

Ans
1. ਬਾਹੀਂ
2. ਬਾਹੂੰ
3. ਬਾਹਵਾਂ
4. ਬਾਹੋਂ

Question ID : **630680248169**
Option 1 ID : **630680962820**
Option 2 ID : **630680962822**
Option 3 ID : **630680962821**
Option 4 ID : **630680962819**
Status : **Answered**
Chosen Option : **3**

Q.15 ਨਿਮਨ ਲਿਖਤ ਵਿਚ ਕਰਮਣੀ ਵਾਕ ਹੈ:-

Ans
1. ਮਾਲੀ ਬੂਟਿਆਂ ਨੂੰ ਪਾਣੀ ਦੇ ਰਿਹਾ ਹੈ।
2. ਬੂਟਿਆਂ ਨੂੰ ਮਾਲੀ ਦੁਆਰਾ ਪਾਣੀ ਦਿੱਤਾ ਜਾ ਰਿਹਾ ਹੈ।
3. ਪਾਣੀ ਬੂਟਿਆਂ ਨੂੰ ਮਾਲੀ ਦੇ ਰਿਹਾ ਹੈ।
4. ਬੂਟਿਆਂ ਨੂੰ ਮਾਲੀ ਪਾਣੀ ਦੇ ਰਿਹਾ ਹੈ।

Question ID : **630680248185**
Option 1 ID : **630680962883**
Option 2 ID : **630680962885**
Option 3 ID : **630680962886**
Option 4 ID : **630680962884**
Status : **Answered**
Chosen Option : **1**

Q.16 ਹੇਠ ਲਿਖੇ ਸ਼ਬਦਾਂ ਵਿਚ 'ਅਸੱਤ' ਦਾ ਸਹੀ ਅਰਥ ਨਹੀਂ ਹੈ:-

Ans
1. ਸੱਚ
2. ਗਲਤ
3. ਕੂੜ
4. ਜਾਅਲੀ

Question ID : **630680248194**
Option 1 ID : **630680962919**
Option 2 ID : **630680962920**
Option 3 ID : **630680962921**
Option 4 ID : **630680962922**
Status : **Answered**
Chosen Option : **1**

Q.17 ਦੇਸੀ ਮਹੀਨਿਆਂ ਵਿਚ ਸਭ ਤੋਂ ਵੱਧ ਠੰਡ ਕਦੋਂ ਹੁੰਦੀ ਹੈ?

Ans
1. ਪੋਹ
2. ਵੈਸਾਖ
3. ਚੇਤ
4. ਜੇਠ

Question ID : **630680248205**
Option 1 ID : **630680962963**
Option 2 ID : **630680962966**
Option 3 ID : **630680962964**
Option 4 ID : **630680962965**
Status : **Answered**
Chosen Option : **1**

Website - www.dailyjobalert.in

Q.18 ਕਿਸੇ ਹੋਰ ਦੇ ਕਥਨ (Quotation) ਨੂੰ ਦਰਸਾਉਂਦਾ ਵਿਸ਼ਰਾਮ ਚਿੰਨ੍ਹ ਹੈ?

Ans
✗ 1. ਪ੍ਰਸ਼ਨ ਚਿੰਨ੍ਹ
✗ 2. ਡੰਡੀ
✗ 3. ਡੈਸ਼
✓ 4. ਪੁੱਠੇ ਕਾਮੇ

Question ID : **630680248200**
Option 1 ID : **630680962944**
Option 2 ID : **630680962945**
Option 3 ID : **630680962946**
Option 4 ID : **630680962943**
Status : **Answered**
Chosen Option : **4**

Q.19 'ਅਦਾਲਤਾਂ ਵਿਚ ਜਾ ਕੇ ਵੀ _____ ਮਿਲਣਾ ਬੜਾ ਔਖਾ ਹੈ।' ਵਿਚ ਖਾਲੀ ਸਥਾਨ ਭਰਨ ਦਾ ਸਹੀ ਵਿਕਲਪ ਹੈ:-

Ans
✗ 1. ਜੱਜ
✓ 2. ਇਨਸਾਫ਼
✗ 3. ਵਕੀਲ
✗ 4. ਇਨਸਾਨ

Question ID : **630680248181**
Option 1 ID : **630680962868**
Option 2 ID : **630680962869**
Option 3 ID : **630680962870**
Option 4 ID : **630680962867**
Status : **Answered**
Chosen Option : **2**

Q.20 'ਤੈਰਾਕ' ਸ਼ਬਦ ਵਿਚ ਪਿਛੇਤਰ ਹੈ:-

Ans
✓ 1. ਆਕ
✗ 2. ਅਕ
✗ 3. ਤੈਰ
✗ 4. ਰਾਕ

Question ID : **630680248178**
Option 1 ID : **630680962858**
Option 2 ID : **630680962857**
Option 3 ID : **630680962856**
Option 4 ID : **630680962855**
Status : **Answered**
Chosen Option : **1**

Q.21 "ਲਹੂ ਚਿੱਟਾ ਹੋਣਾ" ਮੁਹਾਵਰੇ ਦਾ ਅਰਥ ਹੈ:-

Ans
✗ 1. ਮਿਹਨਤ ਕਰਨੀ
✗ 2. ਲਹੂ-ਲਹੂ ਹੋਣਾ
✗ 3. ਰੰਗ ਬਦਲਣਾ
✓ 4. ਪਿਆਰ ਮੁੱਕਣਾ

Question ID : **630680248165**
Option 1 ID : **630680962806**
Option 2 ID : **630680962805**
Option 3 ID : **630680962803**
Option 4 ID : **630680962804**
Status : **Answered**
Chosen Option : **3**

Website - www.dailyjobalert.in

Q.22 ਹੇਠ ਲਿਖੇ ਸ਼ਬਦਾਂ ਵਿਚ ਕਿਹੜਾ 'ਕਰਾਮਾਤ' ਦਾ ਸਹੀ ਅਰਥ ਹੈ?

Ans
1. ਅਵਿਸ਼ਕਾਰ
2. ਕੰਮ ਨੂੰ ਮਾਤ
3. ਚਮਤਕਾਰ
4. ਕੁਦਰਤ

Question ID : **630680248193**
Option 1 ID : **630680962918**
Option 2 ID : **630680962915**
Option 3 ID : **630680962917**
Option 4 ID : **630680962916**
Status : **Answered**
Chosen Option : **3**

Q.23 ਹੇਠ ਲਿਖੇ ਸ਼ਬਦਾਂ ਵਿਚ 'ਅਧਿਆਤਮਕ ਅਵਸਥਾ' ਦਾ ਸਹੀ ਅਰਥ ਹੈ:-

Ans
1. ਮੌਜੂਦਾ ਦਿਨ
2. ਵਰਤਮਾਨ ਅਵਸਥਾ
3. ਗਮੀ ਦੀ ਅਵਸਥਾ
4. ਰੱਬ ਨਾਲ ਜੁੜਨਾ

Question ID : **630680248192**
Option 1 ID : **630680962912**
Option 2 ID : **630680962913**
Option 3 ID : **630680962911**
Option 4 ID : **630680962914**
Status : **Answered**
Chosen Option : **4**

Q.24 'ਉੱਠ ਨਾ ਸਕਾਂ ਫਿਟੇ ਮੂੰਹ ਗੋਡਿਆਂ ਦਾ' ਅਖਾਣ ਦਾ ਅਰਥ ਹੈ:-

Ans
1. ਗੋਡਿਆਂ 'ਚ ਦਰਦ ਕਾਰਨ ਉੱਠ ਨਾ ਸਕਣਾ।
2. ਗੋਡੇ 'ਤੇ ਸੱਟ ਲੱਗਣੀ।
3. ਸਵੇਰੇ ਉੱਠਦੇ ਹੋਏ ਮੂੰਹ 'ਤੇ ਗੋਡਾ ਵੱਜਣਾ।
4. ਕੰਮ ਆਪ ਤੋਂ ਨਾ ਹੋਣਾ, ਦੋਸ਼ ਦੂਜਿਆਂ ਨੂੰ ਦੇਣਾ।

Question ID : **630680248168**
Option 1 ID : **630680962815**
Option 2 ID : **630680962817**
Option 3 ID : **630680962818**
Option 4 ID : **630680962816**
Status : **Answered**
Chosen Option : **4**

Q.25 "ਨੱਕ ਰੱਖਣਾ" ਮੁਹਾਵਰੇ ਨੂੰ ਵਰਤ ਕੇ ਬਣਾਏ ਸ਼ਬਦ ਦੀ ਸਹੀ ਚੋਣ ਕਰੋ:-

Ans
1. ਬੱਚੇ ਨੇ ਕਲਾਸ ਵਿਚ ਅਵਲ ਆਕੇ ਮਾਪਿਆਂ ਦੀ ਨੱਕ ਰੱਖ ਲਈ।
2. ਝੂਠ ਬੋਲਣ ਨਾਲ ਅਕਸਰ ਨੱਕ ਰੱਖੀ ਜਾਂਦੀ ਹੈ।
3. ਚੋਰ ਚੋਰੀ ਕਰਕੇ ਸਮਾਜ ਵਿਚ ਨੱਕ ਰੱਖ ਲੈਂਦਾ ਹੈ।
4. ਥਾਂ ਥਾਂ ਭਟਕਣਾ ਨੱਕ ਰੱਖਣ ਦੇ ਬਰਾਬਰ ਹੈ।

Question ID : **630680248166**
Option 1 ID : **630680962807**
Option 2 ID : **630680962809**
Option 3 ID : **630680962808**
Option 4 ID : **630680962810**
Status : **Answered**
Chosen Option : **1**

Website - www.dailyjobalert.in

Q.26 ਕਿਹੜਾ ਸ਼ਬਦ ਅਸ਼ੁੱਧ ਹੈ?

Ans
- ✗ 1. ਵੱਡਾ
- ✗ 2. ਮਸ਼ਹੂਰ
- ✓ 3. ਈਸਤਰੀ
- ✗ 4. ਥਕਾਵਟ

Question ID : **630680248191**
Option 1 ID : **630680962910**
Option 2 ID : **630680962909**
Option 3 ID : **630680962907**
Option 4 ID : **630680962908**
Status : **Answered**
Chosen Option : **3**

Q.27 Weekly ਪੱਤਰ ਨੂੰ ਪੰਜਾਬੀ ਵਿਚ ਕਹਿੰਦੇ ਹਨ:-

Ans
- ✗ 1. ਤ੍ਰੈਮਾਸਿਕ
- ✗ 2. ਰੋਜ਼ਾਨਾ
- ✗ 3. ਮਹੀਨਾਵਾਰ
- ✓ 4. ਸਪਤਾਹਿਕ

Question ID : **630680248206**
Option 1 ID : **630680962969**
Option 2 ID : **630680962970**
Option 3 ID : **630680962967**
Option 4 ID : **630680962968**
Status : **Answered**
Chosen Option : **4**

Q.28 'ਸਚਿੱਤਰ' ਸ਼ਬਦ ਵਿਚ ਅਗੇਤਰ ਹੈ:-

Ans
- ✗ 1. ਸਚ
- ✗ 2. ਸਚਿ
- ✗ 3. ਤਰ
- ✓ 4. ਸ

Question ID : **630680248175**
Option 1 ID : **630680962846**
Option 2 ID : **630680962843**
Option 3 ID : **630680962845**
Option 4 ID : **630680962844**
Status : **Answered**
Chosen Option : **4**

Q.29 'Fiction' ਸ਼ਬਦ ਦਾ ਪੰਜਾਬੀ ਅਨੁਵਾਦ ਹੈ:-

Ans
- ✗ 1. ਮਹਾਂ-ਕਾਵਿ
- ✗ 2. ਨਾਟਕ
- ✓ 3. ਗਲਪ
- ✗ 4. ਕਵਿਤਾ

Question ID : **630680248201**
Option 1 ID : **630680962949**
Option 2 ID : **630680962950**
Option 3 ID : **630680962948**
Option 4 ID : **630680962947**
Status : **Answered**
Chosen Option : **3**

Website - www.dailyjobalert.in

Q.30 "ਧੀਆਂ" ਸ਼ਬਦ ਦਾ ਇਕਵਚਨ ਹੈ:-

Ans
- ✗ 1. ਕੁੜੀ
- ✓ 2. ਧੀ
- ✗ 3. ਔਰਤ
- ✗ 4. ਤੀਮੀ

Question ID : **630680248171**
Option 1 ID : **630680962828**
Option 2 ID : **630680962830**
Option 3 ID : **630680962829**
Option 4 ID : **630680962827**
Status : **Answered**
Chosen Option : **2**

Q.31 'ਜੀਵਨੀ' ਸ਼ਬਦ ਨਾਲ ਕਿਹੜਾ ਅਗੇਤਰ ਲਾਇਆ ਜਾ ਸਕਦਾ ਹੈ:-

Ans
- ✗ 1. ਅਣ
- ✓ 2. ਸਵੈ
- ✗ 3. ਨਾ
- ✗ 4. ਪਰ

Question ID : **630680248176**
Option 1 ID : **630680962847**
Option 2 ID : **630680962849**
Option 3 ID : **630680962848**
Option 4 ID : **630680962850**
Status : **Answered**
Chosen Option : **2**

Q.32 ਸਹੀ ਵਿਸ਼ਰਾਮ ਚਿੰਨ੍ਹ ਵਾਲਾ ਵਾਕ ਹੈ:-

Ans
- ✗ 1. ਪੜ੍ਹਿਆ-ਲਿਖਿਆ ਇਨਸਾਨ ਇੱਜਤ, ਸ਼ੋਹਰਤ, ਤੇ, ਵਧੀਆ ਨੌਕਰੀ, ਦਾ ਹੱਕਦਾਰ ਹੁੰਦਾ ਹੈ।
- ✗ 2. ਪੜ੍ਹਿਆ-ਲਿਖਿਆ ਇਨਸਾਨ। ਇੱਜਤ, ਸ਼ੋਹਰਤ ਤੇ ਵਧੀਆ ਨੌਕਰੀ ਦਾ, ਹੱਕਦਾਰ ਹੁੰਦਾ ਹੈ।
- ✓ 3. ਪੜ੍ਹਿਆ-ਲਿਖਿਆ ਇਨਸਾਨ ਇੱਜਤ, ਸ਼ੋਹਰਤ ਤੇ ਵਧੀਆ ਨੌਕਰੀ ਦਾ ਹੱਕਦਾਰ ਹੁੰਦਾ ਹੈ।
- ✗ 4. ਪੜ੍ਹਿਆ-ਲਿਖਿਆ ਇਨਸਾਨ ਇੱਜਤ ਸ਼ੋਹਰਤ ਤੇ, ਵਧੀਆ ਨੌਕਰੀ ਦਾ ਹੱਕਦਾਰ ਹੁੰਦਾ ਹੈ।

Question ID : **630680248196**
Option 1 ID : **630680962929**
Option 2 ID : **630680962930**
Option 3 ID : **630680962927**
Option 4 ID : **630680962928**
Status : **Answered**
Chosen Option : **3**

Q.33 'ਕਵੀ ਕਵਿਤਾ ਲਿਖ ਰਿਹਾ ਹੈ' ਵਾਕ ਦਾ ਵਚਨ ਬਦਲ ਕੇ ਲਿਖਿਆ ਸਹੀ ਵਾਕ ਹੈ:-

Ans
- ✗ 1. ਕਵੀਆਂ ਨੇ ਕਵਿਤਾ ਲਿਖੀ
- ✗ 2. ਕਵੀ ਨੇ ਕਵਿਤਾ ਲਿਖੀ
- ✓ 3. ਕਵੀ ਕਵਿਤਾਵਾਂ ਲਿਖ ਰਹੇ ਹਨ
- ✗ 4. ਕਵੀ ਕਵਿਤਾ ਲਿਖ ਰਹੇ ਹਨ

Question ID : **630680248174**
Option 1 ID : **630680962840**
Option 2 ID : **630680962839**
Option 3 ID : **630680962842**
Option 4 ID : **630680962841**
Status : **Answered**
Chosen Option : **3**

Website - www.dailyjobalert.in

Q.34 ਕਿਹੜਾ ਸ਼ਬਦ ਸ਼ੁੱਧ ਨਹੀਂ ਹੈ:-

Ans
1. ਸੋਹਣਾ
2. ਕਮਜ਼ੋਰ
3. ਬੇਰੰਗ
4. ਨਾਮਿਸਾਲ

Question ID : **630680248190**
Option 1 ID : **630680962904**
Option 2 ID : **630680962903**
Option 3 ID : **630680962906**
Option 4 ID : **630680962905**
Status : **Answered**
Chosen Option : **4**

Q.35 'God' ਸ਼ਬਦ ਦਾ ਪੰਜਾਬੀ ਅਨੁਵਾਦ ਨਹੀਂ ਹੈ:-

Ans
1. ਪ੍ਰਮਾਤਮਾ
2. ਈਸ਼ਵਰ
3. ਗੁਰੂ
4. ਅਕਾਲਪੁਰਖ

Question ID : **630680248203**
Option 1 ID : **630680962955**
Option 2 ID : **630680962957**
Option 3 ID : **630680962958**
Option 4 ID : **630680962956**
Status : **Answered**
Chosen Option : **3**

Q.36 "ਅਹੰਕਾਰ" ਦਾ ਸਮਾਨਾਰਥਕ ਸ਼ਬਦ ਹੈ:-

Ans
1. ਭਰਮ
2. ਮਾਇਆ
3. ਸਿਆਣਪ
4. ਹਉਮੈਂ

Question ID : **630680248160**
Option 1 ID : **630680962784**
Option 2 ID : **630680962783**
Option 3 ID : **630680962785**
Option 4 ID : **630680962786**
Status : **Answered**
Chosen Option : **4**

Q.37 'ਮਲਵਈ' ਵਿਚ ਪਿਛੇਤਰ ਹੈ:-

Ans
1. ਵਈ
2. ਆਈ
3. ਅਈ
4. ਲਵਈ

Question ID : **630680248179**
Option 1 ID : **630680962861**
Option 2 ID : **630680962860**
Option 3 ID : **630680962859**
Option 4 ID : **630680962862**
Status : **Answered**
Chosen Option : **1**

Website - www.dailyjobalert.in

Q.38 ਛੁੱਟ ਮਰੋੜੀ (') ਦੀ ਸਹੀ ਵਰਤੋਂ ਕਿਸ ਵਾਕ ਵਿਚ ਹੋਈ ਹੈ?

Ans
✔ 1. ਗੁੱਸੇ 'ਚ ਭਰਿਆ ਇਨਸਾਨ ਨੁਕਸਾਨ ਕਰ ਬੈਠਦਾ ਹੈ।
✘ 2. ਗੁੱਸੇ 'ਚ' ਭਰਿਆ ਇਨਸਾਨ ਨੁਕਸਾਨ ਕਰ ਬੈਠਦਾ ਹੈ।
✘ 3. ਗੁੱਸੇ ਚ' ਭਰਿਆ ਇਨਸਾਨ ਨੁਕਸਾਨ ਕਰ ਬੈਠਦਾ ਹੈ।
✘ 4. ਗੁੱਸੇ' ਚ ਭਰਿਆ ਇਨਸਾਨ ਨੁਕਸਾਨ ਕਰ ਬੈਠਦਾ ਹੈ।

Question ID : **630680248197**
Option 1 ID : **630680962934**
Option 2 ID : **630680962933**
Option 3 ID : **630680962932**
Option 4 ID : **630680962931**
Status : **Answered**
Chosen Option : **3**

Q.39 ਬਰੈਕਟ ( ) ਵਾਲਾ ਕਿਹੜਾ ਵਾਕ ਸ਼ੁੱਧ ਹੈ?

Ans
✘ 1. (ਪੀਐਚ.ਡੀ.) (Doctorate of Philosophy) ਕਰਨ ਉਪਰੰਤ ਮਨੁੱਖ ਡਾਕਟਰ ਬਣ ਜਾਂਦਾ ਹੈ।
✔ 2. ਪੀਐਚ.ਡੀ. (Doctorate of Philosophy) ਕਰਨ ਉਪਰੰਤ ਮਨੁੱਖ ਡਾਕਟਰ ਬਣ ਜਾਂਦਾ ਹੈ।
✘ 3. ਪੀਐਚ.ਡੀ. Doctorate of Philosophy ਕਰਨ ਉਪਰੰਤ ਮਨੁੱਖ (ਡਾਕਟਰ) ਬਣ ਜਾਂਦਾ ਹੈ।
✘ 4. (ਪੀਐਚ.ਡੀ.) Doctorate of Philosophy ਕਰਨ ਉਪਰੰਤ ਮਨੁੱਖ ਡਾਕਟਰ ਬਣ ਜਾਂਦਾ ਹੈ।

Question ID : **630680248199**
Option 1 ID : **630680962942**
Option 2 ID : **630680962940**
Option 3 ID : **630680962941**
Option 4 ID : **630680962939**
Status : **Answered**
Chosen Option : **3**

Q.40 'ਕੁੱਕੜ' ਸ਼ਬਦ ਦਾ ਇਸਤਰੀ ਲਿੰਗ ਹੈ:-

Ans
✘ 1. ਕੁੱਕੜੇ
✘ 2. ਕੁੱਕੜਾਂ
✔ 3. ਕੁੱਕੜੀ
✘ 4. ਕੁੱਕੜੀਆਂ

Question ID : **630680248173**
Option 1 ID : **630680962838**
Option 2 ID : **630680962837**
Option 3 ID : **630680962835**
Option 4 ID : **630680962836**
Status : **Answered**
Chosen Option : **3**

Q.41 'ਮਾਰ ਖਾ ਕੇ ਸੁਧਰਨ ਵਾਲੇ ਮੂਰਖ, ਗੱਲਾਬਾਤਾਂ ਨਾਲ ਨਹੀਂ ਸੁਧਰਦੇ' ਲਈ ਕਿਸ ਅਖਾਣ ਦੀ ਵਰਤੋਂ ਕੀਤੀ ਜਾਂਦੀ ਹੈ:-

Ans
✘ 1. ਇਕ ਪੰਥ ਦੋ ਕਾਜ।
✔ 2. ਲੱਤਾਂ ਦੇ ਭੂਤ ਗੱਲਾਂ ਨਾਲ ਨਹੀਂ ਮੰਨਦੇ।
✘ 3. ਇਕ ਚੁੱਪ ਸੌ ਸੁੱਖ।
✘ 4. ਇਕ ਹਥ ਨਾਲ ਤਾਲੀ ਨਹੀ ਵੱਜਦੀ।

Question ID : **630680248167**
Option 1 ID : **630680962813**
Option 2 ID : **630680962812**
Option 3 ID : **630680962811**
Option 4 ID : **630680962814**
Status : **Answered**
Chosen Option : **2**

Website - www.dailyjobalert.in

Q.42 "ਉਹ ਮਨੁੱਖ ਜਿਹੜਾ ਆਪਣੀ ਮਨ ਮਰਜ਼ੀ ਕਰੇ' ਲਈ ਕੋਈ ਇਕ ਸ਼ਬਦ ਚੁਣੋ:-

Ans
1. ਹਾਜ਼ਰ ਜਵਾਬੀ
2. ਗੁਰਮੁਖ
3. ਸਿਆਣਾ
4. ਮਨਮੁਖ

Question ID : **630680248163**
Option 1 ID : **630680962796**
Option 2 ID : **630680962795**
Option 3 ID : **630680962798**
Option 4 ID : **630680962797**
Status : **Answered**
Chosen Option : **4**

Q.43 ਨਿਮਨ ਲਿਖਤ ਵਿਚ ਕਿਹੜਾ ਵਾਕ ਅਸ਼ੁੱਧ ਹੈ:-

Ans
1. ਬੱਚੇ ਬੜੇ ਮਾਸੂਮ ਹੁੰਦੇ ਹਨ।
2. ਲਾਇਬ੍ਰੇਰੀ 'ਚੋਂ ਕਿਤਾਬ ਲੈ ਲਓ।
3. ਹਰਮੀਤ ਨੂੰ ਕਿਸੇ ਦੀ ਪ੍ਰਵਾਹ ਨਹੀਂ ਕਰਦਾ।
4. ਰੱਬ ਸਾਰਿਆਂ ਦੀ ਸੁਣਦਾ ਹੈ।

Question ID : **630680248187**
Option 1 ID : **630680962894**
Option 2 ID : **630680962893**
Option 3 ID : **630680962892**
Option 4 ID : **630680962891**
Status : **Answered**
Chosen Option : **3**

Q.44 'ਵਿਸਮਿਕ ਚਿੰਨ੍ਹ' ਦੀ ਵਰਤੋਂ ਕਦੋਂ ਕੀਤੀ ਜਾ ਸਕਦੀ ਹੈ?

Ans
1. ਬਿਨੈ ਕਰਨ ਲਈ
2. ਦੋ ਵਾਕਾਂ ਨੂੰ ਜੋੜਨ ਲਈ
3. ਹੈਰਾਨੀ ਪ੍ਰਗਟ ਕਰਨ ਲਈ
4. ਪ੍ਰਸ਼ਨ ਪੁਛਣ ਲਈ

Question ID : **630680248195**
Option 1 ID : **630680962925**
Option 2 ID : **630680962924**
Option 3 ID : **630680962926**
Option 4 ID : **630680962923**
Status : **Answered**
Chosen Option : **3**

Q.45 ਕਿਹੜਾ ਸ਼ਬਦਜੋੜ ਸ਼ੁੱਧ ਹੈ:-

Ans
1. ਮਿਥਿਹਾਸ
2. ਮਿਥੀਹਾਸ
3. ਮਿਤਿਹਾਸ
4. ਮਿਥੇਹਾਸ

Question ID : **630680248189**
Option 1 ID : **630680962902**
Option 2 ID : **630680962899**
Option 3 ID : **630680962900**
Option 4 ID : **630680962901**
Status : **Answered**
Chosen Option : **1**

Website - www.dailyjobalert.in

Q.46 'ਖੱਤਰੀ" ਸ਼ਬਦ ਦਾ ਇਸਤਰੀ ਲਿੰਗ ਹੈ:-

Ans
1. ਖਤਰਾਇਣ
2. ਖਤਰਾਣੀਆਂ
3. ਖਤਰੀਆਂ
4. ਖਤਰਾਣੀ

Question ID : **630680248172**
Option 1 ID : **630680962831**
Option 2 ID : **630680962834**
Option 3 ID : **630680962833**
Option 4 ID : **630680962832**
Status : **Answered**
Chosen Option : **1**

Q.47 ਵੀਰਵਾਰ ਤੇ ਸ਼ਨਿੱਚਰਵਾਰ ਵਿਚਕਾਰ ਕਿਹੜਾ ਦਿਨ ਆਉਂਦਾ ਹੈ?

Ans
1. ਸ਼ੁੱਕਰਵਾਰ
2. ਬੁੱਧਵਾਰ
3. ਸੋਮਵਾਰ
4. ਐਤਵਾਰ

Question ID : **630680248208**
Option 1 ID : **630680962975**
Option 2 ID : **630680962976**
Option 3 ID : **630680962977**
Option 4 ID : **630680962978**
Status : **Answered**
Chosen Option : **1**

Q.48 'ਸੁਖਜੀਤ ਸਾਰੇ ਸਵਾਲਾਂ ਦੇ ਉੱਤਰ ਨਹੀਂ ਦੇ ਸਕਿਆ, ਕਿਉਂਕਿ ਪੇਪਰ ਦਾ ਸਮਾਂ ਸਮਾਪਤ ਹੋ ਗਿਆ ਸੀ। 'ਵਾਕ ਹੈ:-

Ans
1. ਹਾਂ ਵਾਚਕ ਵਾਕ
2. ਮਿਸ਼ਰਤ ਵਾਕ
3. ਬਿਨੈਵਾਚਕ ਵਾਕ
4. ਵਿਸਮਿਕ ਵਾਕ

Question ID : **630680248184**
Option 1 ID : **630680962880**
Option 2 ID : **630680962882**
Option 3 ID : **630680962879**
Option 4 ID : **630680962881**
Status : **Answered**
Chosen Option : **2**

Website - www.dailyjobalert.in

Q.49 'ਇਨਸਾਨ ਨੂੰ _____ ਦੀ ਕਮਾਈ ਚੰਗੀ ਤਾਂ ਲਗਦੀ ਹੈ ਪਰ ਉਹ ਕਿਸੇ ਚੰਗੇ ਕੰਮ ਨਹੀਂ ਆਉਂਦੀ।' ਵਿਚ ਖਾਲੀ ਸਥਾਨ ਭਰਨ ਦਾ ਸਹੀ ਵਿਕਲਪ ਹੈ:-

Ans
- ✗ 1. ਆਰਾਮ
- ✗ 2. ਮੁਫਤ
- ✗ 3. ਮਿਹਨਤ
- ✓ 4. ਹਰਾਮ

Question ID : **630680248182**
Option 1 ID : **630680962871**
Option 2 ID : **630680962872**
Option 3 ID : **630680962874**
Option 4 ID : **630680962873**
Status : **Answered**
Chosen Option : **4**

Q.50 ਪੈਂਤੀ ਅੱਖਰੀ ਦਾ ਅਰਥ ਹੈ:-

Ans
- ✗ 1. ਉਰਦੂ ਵਰਣਮਾਲਾ
- ✗ 2. ਹਿੰਦੀ ਵਰਣਮਾਲਾ
- ✗ 3. ਅੰਗ੍ਰੇਜ਼ੀ ਵਰਣਮਾਲਾ
- ✓ 4. ਪੰਜਾਬੀ ਵਰਣਮਾਲਾ

Question ID : **630680248209**
Option 1 ID : **630680962980**
Option 2 ID : **630680962981**
Option 3 ID : **630680962979**
Option 4 ID : **630680962982**
Status : **Answered**
Chosen Option : **4**

DAILY JOB Alert ਪੰਜਾਬ

PUNJAB POLICE

Police to its last particle is duty

Exam Name	Recruitment for the post of Sub Inspector in Cadres of District and Armed Police 20th Jun to 31st Jul 2023 S2 Paper II and III
Application No	www.dailyjobalert.in
Roll No	Telegram - Daily Job Alert Punjab
Applicant Name	instagram - Daily Job Alert Punjab
Exam Date	21/06/2023
Shift	12:30 PM - 3:30 PM
Subject	Sub Inspector Paper II and III

Section : **Logical and Analytical Reasoning and Data Interpretation**

Q.1 ਅੰਗਰੇਜ਼ੀ ਵਰਣਮਾਲਾ ਦੇ ਕ੍ਰਮ ਦੇ ਅਧਾਰ 'ਤੇ ਇੱਕ ਖਾਸ ਤਰੀਕੇ ਨਾਲ NOVEL, MLEVO ਨਾਲ ਸੰਬੰਧਿਤ ਹੈ। ਉਸੇ ਤਰੀਕੇ ਨਾਲ, WATER , DZGVI ਨਾਲ ਸੰਬੰਧਿਤ ਹੈ। ਉਸੇ ਤਰਕ ਦੀ ਪਾਲਣਾ ਕਰਦੇ ਹੋਏ, JACKAL ਕਿਸ ਨਾਲ ਸੰਬੰਧਿਤ ਹੈ?

Ans

✗ 1. ZQXZOI

✗ 2. OKOZK

✓ 3. QZXPZO

✗ 4. KBDLBM

Question ID : **630680104884**
Option 1 ID : **630680407668**
Option 2 ID : **630680407667**
Option 3 ID : **630680407669**
Option 4 ID : **630680407670**
Status : **Answered**
Chosen Option : **3**

Website - www.dailyjobalert.in

Q.2 ਚਾਰ ਅੱਖਰ-ਸਮੂਹ (letter-clusters) ਦਿੱਤੇ ਗਏ ਹਨ, ਜਿਨ੍ਹਾਂ ਵਿੱਚੋਂ ਤਿੰਨ ਕਿਸੇ ਨਾ ਕਿਸੇ ਢੰਗ ਨਾਲ ਇੱਕੋ ਜਿਹੇ ਹਨ ਅਤੇ ਇੱਕ ਵੱਖਰਾ ਹੈ। ਉਸ ਇੱਕ ਦੀ ਚੋਣ ਕਰੋ ਜੋ ਵੱਖਰਾ ਹੈ।

Ans

✗ 1. OVUW

✗ 2. MTSU

✓ 3. XEDG

✗ 4. AHGI

Question ID : **630680105007**
Option 1 ID : **630680408140**
Option 2 ID : **630680408139**
Option 3 ID : **630680408142**
Option 4 ID : **630680408141**
Status : **Answered**
Chosen Option : **3**

Q.3 ਉੱਤਰ ਵੱਲ ਮੂੰਹ ਕਰਕੇ ਖੜ੍ਹੇ ਲੋਕਾਂ ਦੀ ਇੱਕ ਕਤਾਰ ਵਿੱਚ, ਪਾਇਲ ਸੱਜੇ ਸਿਰੇ ਤੋਂ ਚੌਥੇ ਸਥਾਨ 'ਤੇ ਖੜ੍ਹਾ ਹੈ। ਰਮਨ ਸੱਜੇ ਸਿਰੇ ਤੋਂ 12ਵੇਂ ਸਥਾਨ 'ਤੇ ਖੜ੍ਹਾ ਹੈ। ਰਮਨ, ਪਾਇਲ ਅਤੇ ਇਸ਼ਿਤਾ ਦੇ ਠੀਕ ਵਿਚਕਾਰ ਖੜ੍ਹੀ ਹੈ। ਜੇਕਰ ਇਸ਼ਿਤਾ ਕਤਾਰ ਦੇ ਖੱਬੇ ਸਿਰੇ ਤੋਂ 8ਵੇਂ ਸਥਾਨ 'ਤੇ ਖੜ੍ਹੀ ਹੈ, ਤਾਂ ਕਤਾਰ ਵਿੱਚ ਕੁੱਲ ਕਿੰਨੇ ਵਿਅਕਤੀ ਹਨ?

Ans

✗ 1. 28

✗ 2. 25

✓ 3. 27

✗ 4. 26

Question ID : **630680107009**
Option 1 ID : **630680415500**
Option 2 ID : **630680415503**
Option 3 ID : **630680415501**
Option 4 ID : **630680415502**
Status : **Answered**
Chosen Option : **2**

Q.4 ਅੰਗਰੇਜ਼ੀ ਵਰਣਮਾਲਾ ਦੇ ਕ੍ਰਮ ਦੇ ਅਧਾਰ 'ਤੇ ਇੱਕ ਖਾਸ ਢੰਗ ਨਾਲ MPQO, QNUM ਨਾਲ ਸੰਬੰਧਿਤ ਹੈ। ਇਸੇ ਤਰ੍ਹਾਂ, DGHF, HELD ਨਾਲ ਸੰਬੰਧਿਤ ਹੈ। ਉਸੇ ਤਰਕ ਦੀ ਪਾਲਣਾ ਕਰਦੇ ਹੋਏ, ਹੇਠਾਂ ਦਿੱਤਿਆਂ ਵਿੱਚੋਂ KNOM ਕਿਸ ਨਾਲ ਸੰਬੰਧਿਤ ਹੈ?

Ans

✗ 1. OKSJ

✗ 2. PKTJ

✓ 3. OLSK

✗ 4. OLTK

Question ID : **63068077030**
Option 1 ID : **630680298218**
Option 2 ID : **630680298220**
Option 3 ID : **630680298217**
Option 4 ID : **630680298219**
Status : **Answered**
Chosen Option : **3**

Website - www.dailyjobalert.in

Q.5 ਦਿੱਤੇ ਗਏ ਵਿਕਲਪਾਂ ਵਿੱਚੋਂ ਅੱਖਰ-ਜੋੜਾ (letter-pair) ਨੂੰ ਚੁਣੋ ਜੋ ਹੇਠਾਂ ਦਿੱਤੀ ਲੜੀ ਵਿੱਚ ਪ੍ਰਸ਼ਨ ਚਿੰਨ੍ਹ (?) ਨੂੰ ਬਦਲ ਸਕਦਾ ਹੈ।

JK, MN, ?, ST, VW

Ans
✔ 1. PQ

✘ 2. PR

✘ 3. QP

✘ 4. RP

Question ID : **63068048593**
Option 1 ID : **630680186982**
Option 2 ID : **630680186983**
Option 3 ID : **630680186985**
Option 4 ID : **630680186984**
Status : **Answered**
Chosen Option : **1**

Q.6 ਦਿੱਤੇ ਪਾਈ ਚਾਰਟ ਦਾ ਅਧਿਐਨ ਕਰੋ ਅਤੇ ਦਿੱਤੇ ਸਵਾਲ ਦਾ ਜਵਾਬ ਦਿਓ।

ਦਿੱਤਾ ਪਾਈ ਚਾਰਟ, ਇਕੱਠੇ ਸਾਰੇ ਚਾਰ ਬ੍ਰਾਂਡਾਂ ਦੀਆਂ ਬਣਾਈਆਂ ਕੁਰਸੀਆਂ ਦੀ ਕੁਲ ਸੰਖਿਆ (ਜੋ ਕਿ 400 ਹੈ) ਵਿੱਚੋਂ, ਚਾਰ ਬ੍ਰਾਂਡਾਂ (A, B, X ਅਤੇ Y) ਦੀਆਂ ਬਣਾਈਆਂ ਕੁਰਸੀਆਂ ਦੀ ਸੰਖਿਆ ਦਰਸਾਉਂਦਾ ਹੈ।

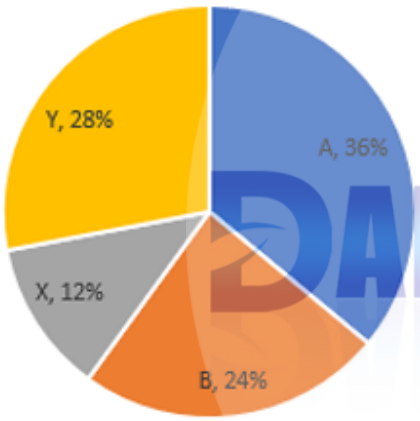

ਬ੍ਰਾਂਡ Y ਦੀ ਕੁਰਸੀਆਂ ਬਣਾਉਣ ਦੀ ਕੁਲ ਲਾਗਤ ₹56,000 ਸੀ। ਜੇ ਬ੍ਰਾਂਡ A ਦੀ ਇੱਕ ਕੁਰਸੀ ਬਣਾਉਣ ਦੀ ਲਾਗਤ, ਬ੍ਰਾਂਡ Y ਨਾਲੋਂ ₹100 ਘੱਟ ਸੀ, ਤਾਂ ਬ੍ਰਾਂਡ A ਦੀ ਕੁਰਸੀਆਂ ਬਣਾਉਣ ਦੀ ਕੁਲ ਲਾਗਤ ਕੀ ਸੀ?

Ans
✔ 1. ₹57,600

✘ 2. ₹64,800

✘ 3. ₹43,200

✘ 4. ₹79,200

Question ID : **630680172686**
Option 1 ID : **630680669166**
Option 2 ID : **630680669165**
Option 3 ID : **630680669167**
Option 4 ID : **630680669164**
Status : **Not Answered**
Chosen Option : **--**

Website - www.dailyjobalert.in

Q.7 2 ਜਨਵਰੀ 2002 ਹਫ਼ਤੇ ਦਾ ਕਿਹੜਾ ਦਿਨ ਸੀ?

Ans
1. ਵੀਰਵਾਰ
2. ਬੁੱਧਵਾਰ
3. ਸੋਮਵਾਰ
4. ਮੰਗਲਵਾਰ

Question ID : **63068058561**
Option 1 ID : **630680225893**
Option 2 ID : **630680225892**
Option 3 ID : **630680225890**
Option 4 ID : **630680225891**
Status : **Answered**
Chosen Option : **1**

Q.8 ਸੰਖਿਆਵਾਂ ਅਤੇ ਚਿੰਨ੍ਹਾਂ ਦੇ ਸਮੂਹ ਨੂੰ, ਹੇਠਾਂ ਦਿੱਤੇ ਕੋਡਾਂ ਅਤੇ ਇਸ ਤੋਂ ਬਾਅਦ ਦਿੱਤੀਆਂ ਸ਼ਰਤਾਂ ਦੇ ਅਨੁਸਾਰ ਅੱਖਰ-ਕੋਡਾਂ ਦੀ ਵਰਤੋਂ ਕਰਕੇ ਕੋਡਬੱਧ ਕੀਤਾ ਜਾਂਦਾ ਹੈ। ਦਿੱਤੇ ਗਏ ਕੋਡਾਂ ਅਤੇ ਸ਼ਰਤਾਂ ਦਾ ਅਧਿਐਨ ਕਰੋ ਅਤੇ ਹੇਠਾਂ ਦਿੱਤੇ ਪ੍ਰਸ਼ਨ ਦਾ ਉੱਤਰ ਦਿਓ।

Numbers/symbols	$	4	6	*	5	#	9	?	7	&	+	%	8	9
Codes	U	R	E	H	P	K	N	C	Z	Y	A	Q	F	G

Numbers/Symbols=ਸੰਖਿਆ/ਚਿੰਨ੍ਹ, **Codes**=ਕੋਡ

ਸ਼ਰਤਾਂ -
(i)ਜੇਕਰ ਦੂਜੇ ਅਤੇ ਤੀਜੇ ਤੱਤ ਦੋਵੇਂ 5 ਤੋਂ ਵੱਧ ਹਨ, ਤਾਂ ਇਹਨਾਂ ਦੋ ਤੱਤਾਂ ਨੂੰ @ ਵਜੋਂ ਕੋਡਬੱਧ ਕੀਤਾ ਜਾਣਾ ਹੈ।

(ii)ਜੇਕਰ ਪਹਿਲਾ ਤੱਤ ਇੱਕ ਸੰਖਿਆ ਹੈ ਅਤੇ ਆਖਰੀ ਤੱਤ ਇੱਕ ਚਿੰਨ੍ਹ ਹੈ, ਤਾਂ ਇਨ੍ਹਾਂ ਦੋਵਾਂ (ਪਹਿਲੇ ਅਤੇ ਆਖਰੀ ਤੱਤ) ਲਈ ਕੋਡਾਂ ਨੂੰ ਆਪਸ ਵਿੱਚ ਬਦਲਿਆ ਜਾਣਾ ਹੈ।

(iii)ਜੇਕਰ ਪਹਿਲੇ ਅਤੇ ਆਖਰੀ ਤੱਤ ਚਿੰਨ੍ਹ ਹਨ, ਤਾਂ ਆਖਰੀ ਤੱਤ ਨੂੰ ਪਹਿਲੇ ਤੱਤ ਲਈ ਕੋਡ ਵਜੋਂ ਕੋਡਬੱਧ ਕੀਤਾ ਜਾਣਾ ਹੈ।

ਹੇਠਾਂ ਦਿੱਤੇ ਸਮੂਹ ਲਈ ਕੋਡ ਕੀ ਹੋਵੇਗਾ?

% 8 6 # 7

Ans
1. Q F @ K Q
2. Q @ @ K Z
3. Q F E K Z
4. Z E F K Q

Question ID : **630680161482**
Option 1 ID : **630680625256**
Option 2 ID : **630680625258**
Option 3 ID : **630680625259**
Option 4 ID : **630680625257**
Status : **Not Answered**
Chosen Option : **--**

Website - www.dailyjobalert.in

Q.9 ਕਾਗਜ਼ ਦੇ ਟੁਕੜੇ ਨੂੰ ਤਹਿ ਕਰਨ ਦੀ ਸਿਲਸਲੇਵਾਰ ਤਰਤੀਬ ਅਤੇ ਤਹਿ ਕੀਤੇ ਕਾਗਜ਼ ਨੂੰ ਕੱਟਣ ਦਾ ਤਰੀਕਾ ਹੇਠਾਂ ਦਿੱਤੇ ਚਿੱਤਰਾਂ ਵਿੱਚ ਦਿਖਾਇਆ ਗਿਆ ਹੈ। ਜਦੋਂ ਇਸ ਪੇਪਰ ਦੀ ਤਹਿ ਹਟਾਈ ਜਾਂਦੀ ਹੈ ਤਾਂ ਇਹ ਕਿਸ ਤਰ੍ਹਾਂ ਦਾ ਦਿਖਾਈ ਦੇਵੇਗਾ?

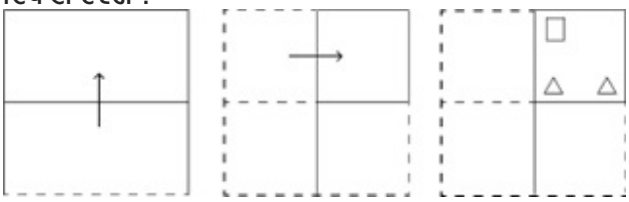

Ans

✗ 1.

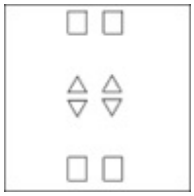

✗ 2.

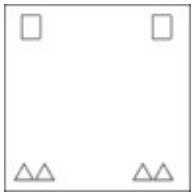

✗ 3.

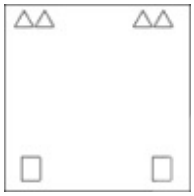

✓ 4.

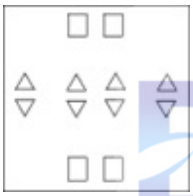

Question ID : **630680177312**
Option 1 ID : **630680687425**
Option 2 ID : **630680687426**
Option 3 ID : **630680687427**
Option 4 ID : **630680687424**
Status : **Answered**
Chosen Option : **4**

Website - www.dailyjobalert.in

Q.10 ਦਾਖਲਾ ਪ੍ਰੀਖਿਆ ਵਿੱਚ ਪ੍ਰਾਪਤ ਕੀਤੇ ਅੰਕਾਂ ਦੇ ਅਨੁਸਾਰ P, Q, R, S, T ਅਤੇ U ਨੂੰ ਯੂਨੀਵਰਸਿਟੀ ਦਾਖਲਾ ਇੰਟਰਵਿਊ ਲਈ ਚੁਣਿਆ ਜਾਂਦਾ ਹੈ।

ਇਹ ਪ੍ਰੀਖਿਆ ਕੁਲ 140 ਅੰਕਾਂ ਦੀ ਸੀ ਜਿਸ ਵਿੱਚ ਬਹੁ-ਵਿਕਲਪੀ ਪ੍ਰਸ਼ਨਾਂ ਲਈ 40 ਅੰਕ, ਛੋਟੇ ਉੱਤਰ ਵਾਲੇ ਪ੍ਰਸ਼ਨਾਂ ਲਈ 40 ਅੰਕ ਅਤੇ ਲੰਮੇ ਉੱਤਰ ਵਾਲੇ ਪ੍ਰਸ਼ਨਾਂ ਲਈ 60 ਅੰਕ ਸ਼ਾਮਲ ਸਨ।

R ਨੂੰ ਬਹੁ-ਵਿਕਲਪੀ ਪ੍ਰਸ਼ਨਾਂ ਲਈ ਪੂਰੇ ਅੰਕ ਮਿਲੇ, ਅਤੇ ਛੋਟੇ ਉੱਤਰ ਵਾਲੇ ਸਵਾਲਾਂ ਲਈ ਅੱਧੇ ਅੰਕ, ਅਤੇ ਲੰਬੇ ਜਵਾਬ ਵਾਲੇ ਸਵਾਲਾਂ ਲਈ P ਨੂੰ ਜੋ ਅੰਕ ਪ੍ਰਾਪਤ ਹੋਏ ਉਸ ਦਾ 30% ਪ੍ਰਾਪਤ ਕੀਤਾ। T ਅਤੇ U ਨੇ ਛੋਟੇ ਉੱਤਰਾਂ ਵਾਲੇ ਅਤੇ ਬਹੁ-ਵਿਕਲਪੀ ਪ੍ਰਸ਼ਨਾਂ ਦੇ ਕੁੱਲ ਅੰਕਾਂ ਦੇ 50% ਅੰਕ ਪ੍ਰਾਪਤ ਕੀਤੇ। S ਨੇ ਛੋਟੇ ਉੱਤਰਾਂ ਅਤੇ ਬਹੁ-ਵਿਕਲਪੀ ਪ੍ਰਸ਼ਨਾਂ ਵਿੱਚ T ਅਤੇ U ਨਾਲੋਂ 10 ਅੰਕ ਵੱਧ ਪ੍ਰਾਪਤ ਕੀਤੇ। T, U ਅਤੇ S ਹਰੇਕ ਨੇ ਲੰਮੇ ਉੱਤਰਾਂ ਵਾਲੇ ਪ੍ਰਸ਼ਨਾਂ ਵਿੱਚ 50 ਅੰਕ ਪ੍ਰਾਪਤ ਕੀਤੇ। P ਨੇ ਲੰਮੇ ਉੱਤਰਾਂ ਵਾਲੇ ਪ੍ਰਸ਼ਨਾਂ ਵਿੱਚ U ਤੋਂ 10% ਵੱਧ ਅੰਕ ਪ੍ਰਾਪਤ ਕੀਤੇ ਅਤੇ ਛੋਟੇ ਉੱਤਰਾਂ ਅਤੇ ਬਹੁ-ਵਿਕਲਪੀ ਪ੍ਰਸ਼ਨਾਂ ਵਿੱਚ ਕੁੱਲ 60 ਅੰਕ ਪ੍ਰਾਪਤ ਕੀਤੇ। Q ਨੇ P ਤੋਂ 20 ਅੰਕ ਘੱਟ ਪ੍ਰਾਪਤ ਕੀਤੇ।

ਸਭ ਤੋਂ ਵੱਧ ਅੰਕ ਕਿਸ ਨੂੰ ਮਿਲੇ?

Ans
✗ 1. Q
✗ 2. T
✗ 3. S
✓ 4. P

Question ID : **63068078944**
Option 1 ID : **630680305813**
Option 2 ID : **630680305816**
Option 3 ID : **630680305815**
Option 4 ID : **630680305814**
Status : **Not Answered**
Chosen Option : **--**

Q.11 ਅੰਗਰੇਜ਼ੀ ਵਰਣਮਾਲਾ ਦੇ ਕ੍ਰਮ ਦੇ ਅਧਾਰ 'ਤੇ ਇੱਕ ਖਾਸ ਢੰਗ ਨਾਲ ARLO, ZIOL ਨਾਲ ਸੰਬੰਧਿਤ ਹੈ। ਇਸੇ ਤਰ੍ਹਾਂ, MEGW, NVTD ਨਾਲ ਸੰਬੰਧਿਤ ਹੈ। ਉਸੇ ਤਰਕ ਦੀ ਪਾਲਣਾ ਕਰਦੇ ਹੋਏ, ਹੇਠਾਂ ਦਿੱਤਿਆਂ ਵਿੱਚੋਂ CFKQ ਕਿਸ ਨਾਲ ਸੰਬੰਧਿਤ ਹੈ?

Ans
✓ 1. XUPJ
✗ 2. WTPJ
✗ 3. WTOK
✗ 4. XUOK

Question ID : **63068077034**
Option 1 ID : **630680298235**
Option 2 ID : **630680298236**
Option 3 ID : **630680298233**
Option 4 ID : **630680298234**
Status : **Answered**
Chosen Option : **4**

Website - www.dailyjobalert.in

Q.12 ਚਾਰ ਅੱਖਰ-ਸਮੂਹ ਦਿੱਤੇ ਗਏ ਹਨ, ਜਿਨ੍ਹਾਂ ਵਿੱਚੋਂ ਤਿੰਨ ਕਿਸੇ ਨਾ ਕਿਸੇ ਰੂਪ ਵਿੱਚ ਸੰਗਤ ਹਨ ਅਤੇ ਇੱਕ ਅਸੰਗਤ ਹੈ। ਉਸ ਅਸੰਗਤ ਦੀ ਚੋਣ ਕਰੋ।

Ans
1. XZC
2. FHK
3. TVY
4. OQU

Question ID : **630680105002**
Option 1 ID : **630680408122**
Option 2 ID : **630680408119**
Option 3 ID : **630680408120**
Option 4 ID : **630680408121**
Status : **Answered**
Chosen Option : **1**

Q.13 ਛੇ ਕੁੜੀਆਂ A, G, T, V, S ਅਤੇ Q, ਇੱਕ ਸਕੂਲ ਦੀਆਂ ਵੱਖ-ਵੱਖ ਰੈਂਕ ਹੋਲਡਰ ਹਨ। ਸਿਰਫ਼ ਦੋ ਕੁੜੀਆਂ ਦਾ ਰੈਂਕ V ਨਾਲੋਂ ਉੱਚਾ ਹੈ। ਸਿਰਫ਼ ਤਿੰਨ ਕੁੜੀਆਂ ਦਾ ਰੈਂਕ S ਅਤੇ Q ਦੇ ਵਿਚਕਾਰ ਹੈ। ਸਿਰਫ਼ T ਦਾ ਰੈਂਕ Q ਦੇ ਰੈਂਕ ਅਤੇ A ਦੇ ਰੈਂਕ ਵਿਚਕਾਰ ਹੈ। G ਦਾ ਰੈਂਕ, S ਦੇ ਰੈਂਕ ਤੋਂ ਠੀਕ ਉੱਪਰਲਾ ਹੈ।

ਸਾਰਿਆਂ ਵਿੱਚੋਂ ਸਭ ਤੋਂ ਉੱਚਾ ਰੈਂਕ ਕਿਸ ਨੂੰ ਮਿਲਿਆ ਹੈ?

Ans
1. A
2. S
3. V
4. G

Question ID : **630680106315**
Option 1 ID : **630680413088**
Option 2 ID : **630680413086**
Option 3 ID : **630680413087**
Option 4 ID : **630680413089**
Status : **Answered**
Chosen Option : **2**

Q.14 ਜੇਕਰ 3 ਦਸੰਬਰ 2021 ਨੂੰ ਸ਼ੁੱਕਰਵਾਰ ਸੀ, ਤਾਂ 3 ਜਨਵਰੀ 2022 ਨੂੰ ਹਫ਼ਤੇ ਦਾ ਕਿਹੜਾ ਦਿਨ ਹੋਵੇਗਾ?

Ans
1. ਐਤਵਾਰ
2. ਬੁੱਧਵਾਰ
3. ਮੰਗਲਵਾਰ
4. ਸੋਮਵਾਰ

Question ID : **630680117486**
Option 1 ID : **630680455190**
Option 2 ID : **630680455193**
Option 3 ID : **630680455192**
Option 4 ID : **630680455191**
Status : **Answered**
Chosen Option : **2**

Website - www.dailyjobalert.in

Q.15 ਉਸ ਵਿਕਲਪ ਦੀ ਚੋਣ ਕਰੋ ਜਿਸ ਵਿੱਚ ਸੰਖਿਆਵਾਂ ਉਸੇ ਤਰ੍ਹਾਂ ਆਪਸ ਵਿੱਚ ਸੰਬੰਧਿਤ ਹੋਣ ਜਿਸ ਤਰ੍ਹਾਂ ਦਿੱਤੀ ਗਈ ਤਿੱਕੜੀ ਵਿੱਚ ਸੰਖਿਆਵਾਂ ਆਪਸ ਵਿੱਚ ਸੰਬੰਧਿਤ ਹਨ।
(13 : 5 : 62)

Ans
1. (15 : 7 : 133)
2. (15 : 9 : 133)
3. (15 : 9 : 102)
4. (15 : 7 : 102)

Question ID : **63068062258**
Option 1 ID : **630680240327**
Option 2 ID : **630680240326**
Option 3 ID : **630680240329**
Option 4 ID : **630680240328**
Status : **Not Answered**
Chosen Option : **--**

Q.16 ਦਿੱਤੀ ਗਈ ਲੜੀ ਵਿੱਚ ਪ੍ਰਸ਼ਨ ਚਿੰਨ੍ਹ (?) ਦੇ ਸਥਾਨ 'ਤੇ ਕੀ ਆਵੇਗਾ?
3, 8, 11, 19, 30, ?

Ans
1. 45
2. 46
3. 47
4. 49

Question ID : **630680137143**
Option 1 ID : **630680531171**
Option 2 ID : **630680531172**
Option 3 ID : **630680531170**
Option 4 ID : **630680531173**
Status : **Answered**
Chosen Option : **1**

Q.17 ਕਿਸੇ ਕੋਡ ਭਾਸ਼ਾ ਵਿੱਚ, 'HEAR' ਨੂੰ '5-8-18-1' ਵਜੋਂ ਅਤੇ 'PLUG' ਨੂੰ '12-16-7-21' ਵਜੋਂ ਕੋਡਬੱਧ ਕੀਤਾ ਗਿਆ ਹੈ। ਉਸੇ ਭਾਸ਼ਾ ਵਿੱਚ 'SHIP' ਨੂੰ ਕਿਵੇਂ ਕੋਡਬੱਧ ਕੀਤਾ ਜਾਵੇਗਾ?

Ans
1. 8-19-9-16
2. 9-19-8-16
3. 7-18-15-8
4. 8-19-16-9

Question ID : **630680158227**
Option 1 ID : **630680612436**
Option 2 ID : **630680612437**
Option 3 ID : **630680612439**
Option 4 ID : **630680612438**
Status : **Not Answered**
Chosen Option : **--**

Website - www.dailyjobalert.in

Q.18 ਹੇਠਾਂ ਦਿੱਤੀ ਗਈ ਲੜੀ ਵਿੱਚ ਅੱਗੇ ਕੀ ਆਵੇਗਾ?

1, 1, 2, 3, 4, 9, 8, ?

Ans
✗ 1. 25
✗ 2. 16
✓ 3. 27
✗ 4. 20

Question ID : **630680108360**
Option 1 ID : **630680420443**
Option 2 ID : **630680420441**
Option 3 ID : **630680420440**
Option 4 ID : **630680420442**
Status : **Answered**
Chosen Option : **3**

Q.19 ਇਸ ਨੂੰ ਤਾਰਕਿਕ ਤੌਰ 'ਤੇ ਪੂਰਾ ਕਰਨ ਲਈ ਦਿੱਤੀ ਗਈ ਲੜੀ ਵਿੱਚ ? ਦੀ ਥਾਂ 'ਤੇ ਕੀ ਆਉਣਾ ਚਾਹੀਦਾ ਹੈ?
AC53, DG47, HL43, MR41, ?

Ans
✗ 1. SX31
✗ 2. TZ29
✗ 3. TX37
✓ 4. SY37

Question ID : **630680109263**
Option 1 ID : **630680423832**
Option 2 ID : **630680423834**
Option 3 ID : **630680423833**
Option 4 ID : **630680423835**
Status : **Answered**
Chosen Option : **1**

Q.20 ਦਿੱਤੇ ਗਏ ਵਿਕਲਪਾਂ ਵਿੱਚੋਂ ਅੱਖਰ-ਜੋੜਾ (letter-pair) ਨੂੰ ਚੁਣੋ ਜੋ ਹੇਠਾਂ ਦਿੱਤੀ ਲੜੀ ਵਿੱਚ ਪ੍ਰਸ਼ਨ ਚਿੰਨ੍ਹ (?) ਨੂੰ ਬਦਲ ਸਕਦਾ ਹੈ।

AA, EB, IC, ?, UE

Ans
✗ 1. MF
✗ 2. OF
✗ 3. MD
✓ 4. OD

Question ID : **63068048605**
Option 1 ID : **630680187033**
Option 2 ID : **630680187031**
Option 3 ID : **630680187032**
Option 4 ID : **630680187030**
Status : **Not Answered**
Chosen Option : **--**

Website - www.dailyjobalert.in

Q.21 324 ਇੱਕ ਨਿਸ਼ਚਿਤ ਤਰਕ ਅਨੁਸਾਰ 18 ਨਾਲ ਸੰਬੰਧਿਤ ਹੈ ਅਤੇ ਉਸੇ ਤਰਕ ਅਨੁਸਾਰ 361, 19 ਨਾਲ ਸੰਬੰਧਿਤ ਹੈ, ਉਸੇ ਤਰਕ ਦੀ ਵਰਤੋਂ ਕਰਦੇ ਹੋਏ, ਹੇਠ ਲਿਖਿਆਂ ਵਿੱਚੋਂ 3249 ਕਿਸ ਨਾਲ ਸੰਬੰਧਿਤ ਹੈ?

Ans
1. 47
2. 43
3. 57
4. 59

Question ID : **63068049484**
Option 1 ID : **630680190366**
Option 2 ID : **630680190367**
Option 3 ID : **630680190369**
Option 4 ID : **630680190368**
Status : **Not Answered**
Chosen Option : **--**

Q.22 125 ਇੱਕ ਨਿਸ਼ਚਿਤ ਤਰਕ ਅਨੁਸਾਰ 16 ਨਾਲ ਸੰਬੰਧਿਤ ਹੈ। ਉਸੇ ਤਰਕ ਅਨੁਸਾਰ 24, 12 ਨਾਲ ਸੰਬੰਧਿਤ ਹੈ। ਹੇਠਾਂ ਦਿੱਤੀਆਂ ਸੰਖਿਆਵਾਂ ਵਿੱਚੋਂ ਕਿਹੜੀ ਸੰਖਿਆ ਉਸੇ ਤਰਕ ਦੀ ਵਰਤੋਂ ਕਰਦੇ ਹੋਏ 16 ਨਾਲ ਸੰਬੰਧਿਤ ਹੈ?

Ans
1. 32
2. 35
3. 36
4. 34

Question ID : **63068063354**
Option 1 ID : **630680244584**
Option 2 ID : **630680244583**
Option 3 ID : **630680244582**
Option 4 ID : **630680244585**
Status : **Answered**
Chosen Option : **1**

Q.23 P, Q ਦੀ ਪਤਨੀ ਦਾ ਪਿਤਾ ਹੈ, ਜੋ R ਦਾ ਪਤੀ ਹੈ। R, S ਦੀ ਭੈਣ ਅਤੇ T ਦੀ ਧੀ ਹੈ। Q ਦਾ T ਨਾਲ ਕੀ ਰਿਸ਼ਤਾ ਹੈ?

Ans
1. ਪਿਤਾ (Father)
2. ਪਤੀ (Husband)
3. ਨੂੰਹ (Daughter-in-law)
4. ਜਵਾਈ (Daughter's husband)

Question ID : **630680147180**
Option 1 ID : **630680569512**
Option 2 ID : **630680569511**
Option 3 ID : **630680569510**
Option 4 ID : **630680569513**
Status : **Answered**
Chosen Option : **4**

Website - www.dailyjobalert.in

Q.24 ਖੁਸ਼ੀ, ਅਨੁਸ਼ਕਾ, ਪਿਹੂ, ਤਨਵੀ, ਦੇਵਾਂਸ਼ੀ ਅਤੇ ਸ਼ਰੂਤੂ ਨਾਮੀ ਛੇ ਦੋਸਤ ਇੱਕ ਕਵਿਜ਼ ਬਾਰੇ ਗੱਲ ਕਰ ਰਹੇ ਹਨ ਜਿਸ ਵਿੱਚ ਉਨ੍ਹਾਂ ਸਾਰਿਆਂ ਨੇ ਹਿੱਸਾ ਲਿਆ। ਸ਼ਰੂਤੂ ਨੇ, ਅਨੁਸ਼ਕਾ ਅਤੇ ਤਨਵੀ ਤੋਂ ਜ਼ਿਆਦਾ ਅੰਕ ਪ੍ਰਾਪਤ ਕੀਤੇ। ਦੇਵਾਂਸ਼ੀ ਨੇ, ਸਿਰਫ ਖੁਸ਼ੀ ਤੋਂ ਘੱਟ ਅੰਕ ਪ੍ਰਾਪਤ ਕੀਤੇ। ਤੀਸਰੇ ਸਥਾਨ 'ਤੇ ਸਭ ਤੋਂ ਵੱਧ ਅੰਕ ਕਿਸਨੇ ਪ੍ਰਾਪਤ ਕੀਤੇ। (ਧਿਆਨ ਰਹੇ ਕਿ ਕਿਸੇ ਵੀ ਦੋ ਦੋਸਤਾਂ ਨੇ ਸਮਾਨ ਅੰਕ ਨਹੀਂ ਪ੍ਰਾਪਤ ਕੀਤੇ)?

Ans
✗ 1. ਦੇਵਾਂਸ਼ੀ
✗ 2. ਸ਼ਰੂਤੂ
✗ 3. ਤਨਵੀ,
✓ 4. ਪਿਹੂ,

Question ID : **630680138941**
Option 1 ID : **630680537914**
Option 2 ID : **630680537916**
Option 3 ID : **630680537917**
Option 4 ID : **630680537915**
Status : **Answered**
Chosen Option : **3**

Q.25 68 ਵਿਦਿਆਰਥੀਆਂ ਦੀ ਇੱਕ ਜਮਾਤ ਵਿੱਚ, 19 ਵਿਦਿਆਰਥੀਆਂ ਨੇ ਨਰਿੰਦਰ ਤੋਂ ਉੱਚਾ ਰੈਂਕ ਹਾਸਲ ਕੀਤਾ। ਨਰੇਂਦਰ ਤੋਂ ਘੱਟ ਰੈਂਕ ਪ੍ਰਾਪਤ ਕਰਨ ਵਾਲੇ ਵਿਦਿਆਰਥੀਆਂ ਦੀ ਗਿਣਤੀ ਦਾ ਪਤਾ ਲਗਾਓ।

Ans
✗ 1. 49
✗ 2. 46
✗ 3. 47
✓ 4. 48

Question ID : **630680117763**
Option 1 ID : **630680456265**
Option 2 ID : **630680456262**
Option 3 ID : **630680456263**
Option 4 ID : **630680456264**
Status : **Answered**
Chosen Option : **4**

Q.26 ਸੰਜੀਵ ਨੇ ਬਿੰਦੂ A ਤੋਂ ਸ਼ੁਰੂ ਕੀਤਾ ਅਤੇ 200 ਮੀਟਰ ਬਿੰਦੂ B ਵੱਲ ਤੁਰਿਆ। ਉਹ ਸੱਜੇ ਮੁੜਿਆ ਅਤੇ 50 ਮੀਟਰ ਤੁਰਿਆ, ਫਿਰ ਖੱਬੇ ਪਾਸੇ ਮੁੜਿਆ ਅਤੇ 50 ਮੀਟਰ ਤੁਰਿਆ। ਫਿਰ ਦੁਬਾਰਾ, ਉਹ ਖੱਬੇ ਪਾਸੇ ਮੁੜਿਆ ਅਤੇ 50 ਮੀਟਰ ਤੁਰਿਆ। ਉਹ ਬਿੰਦੂ B ਤੋਂ ਕਿੰਨੀ ਦੂਰੀ 'ਤੇ ਹੈ?

Ans
✗ 1. 250 ਮੀਟਰ
✓ 2. 50 ਮੀਟਰ
✗ 3. 100 ਮੀਟਰ
✗ 4. 200 ਮੀਟਰ

Question ID : **630680106032**
Option 1 ID : **630680412028**
Option 2 ID : **630680412030**
Option 3 ID : **630680412029**
Option 4 ID : **630680412027**
Status : **Answered**
Chosen Option : **1**

Website - www.dailyjobalert.in

Q.27 ਹੇਠਾਂ ਦਿੱਤੀ ਅੱਖਰ ਲੜੀ ਵੇਖੋ ਅਤੇ ਪ੍ਰਸ਼ਨ ਦਾ ਉੱਤਰ ਦਿਓ।

(ਖੱਬਾ ਪਾਸਾ) M, D, Q, R, U, L, J, K, I, U, O, V, C, B, N, S (ਸੱਜਾ ਪਾਸਾ)|
ਜੇਕਰ ਦਿੱਤੀ ਗਈ ਅੱਖਰ ਲੜੀ ਨੂੰ ਉਲਟ ਕ੍ਰਮ ਵਿੱਚ ਇਸ ਤਰ੍ਹਾਂ ਕ੍ਰਮਵਾਰ ਲਿਖਿਆ ਜਾਵੇ ਕਿ ਸੱਜੇ ਪਾਸੇ ਦਾ ਆਖਰੀ ਅੱਖਰ, ਖੱਬੇ ਪਾਸੇ ਦਾ ਪਹਿਲਾ ਅੱਖਰ ਬਣ ਜਾਵੇ, ਤਾਂ ਖੱਬੇ ਪਾਸੇ ਤੋਂ ਦਸਵੇਂ ਅੱਖਰ ਦੇ ਖੱਬੇ ਪਾਸੇ ਛੇਵਾਂ ਅੱਖਰ ਕਿਹੜਾ ਹੋਵੇਗਾ?

Ans
✔ 1. C
✘ 2. V
✘ 3. J
✘ 4. O

Question ID : **630680221091**
Option 1 ID : **630680858215**
Option 2 ID : **630680858214**
Option 3 ID : **630680858213**
Option 4 ID : **630680858216**
Status : **Not Answered**
Chosen Option : **--**

Q.28 ਰੀਆ ਉੱਤਰ ਵੱਲ 7 km ਤੱਕ ਚੱਲਦੀ ਹੈ ਅਤੇ ਫਿਰ, ਉਹ ਖੱਬੇ ਪਾਸੇ ਮੁੜਦੀ ਹੈ ਅਤੇ 3 km ਤੱਕ ਚੱਲਦੀ ਹੈ। ਉਹ ਇੱਕ ਵਾਰ ਫਿਰ ਖੱਬੇ ਮੁੜਦੀ ਹੈ ਅਤੇ 7km ਤੱਕ ਚੱਲਦੀ ਹੈ। ਇਸ ਬਿੰਦੂ 'ਤੇ, ਉਹ ਖੱਬੇ ਪਾਸੇ ਮੁੜਦੀ ਹੈ ਅਤੇ 7 km ਤੱਕ ਚੱਲਦੀ ਹੈ। ਉਹ ਸ਼ੁਰੂਆਤੀ ਬਿੰਦੂ ਤੋਂ ਕਿੰਨੀ ਦੂਰ ਹੈ?

Ans
✔ 1. 4 km
✘ 2. 7 km
✘ 3. 3 km
✘ 4. 10 km

Question ID : **630680172765**
Option 1 ID : **630680669462**
Option 2 ID : **630680669460**
Option 3 ID : **630680669463**
Option 4 ID : **630680669461**
Status : **Answered**
Chosen Option : **1**

Website - www.dailyjobalert.in

Q.29 ਹੇਠਾਂ ਦਿੱਤੇ ਪ੍ਰਸ਼ਨ ਵਿੱਚੋਂ ਹਰੇਕ ਵਿੱਚ ਤਿੰਨ ਕਥਨ ਦਿੱਤੇ ਗਏ ਹਨ ਅਤੇ ਇਹਨਾਂ ਕਥਨਾਂ ਤੋਂ ਬਾਅਦ ਤਿੰਨ ਸਿੱਟੇ (I), (II) ਅਤੇ (III) ਦਿੱਤੇ ਗਏ ਹਨ। ਤੁਹਾਨੂੰ ਦਿੱਤੇ ਗਏ ਤਿੰਨ ਕਥਨਾਂ ਨੂੰ ਸਹੀ ਮੰਨਣਾ ਪਏਗਾ ਭਾਵੇਂ ਉਹ ਆਮ ਤੌਰ 'ਤੇ ਜਾਣੇ ਜਾਂਦੇ ਤੱਥਾਂ ਤੋਂ ਭਿੰਨ ਜਾਪਦੇ ਹੋਣ। ਸਿੱਟਿਆਂ ਨੂੰ ਪੜ੍ਹੋ ਅਤੇ ਆਮ ਤੌਰ 'ਤੇ ਜਾਣੇ ਜਾਂਦੇ ਤੱਥਾਂ ਦੀ ਅਣਦੇਖੀ ਕਰਦੇ ਹੋਏ, ਫੈਸਲਾ ਕਰੋ ਕਿ ਦਿੱਤੇ ਗਏ ਸਿੱਟਿਆਂ ਵਿਚੋਂ ਕਿਹੜੇ, ਦਿੱਤੇ ਗਏ ਤਿੰਨਾਂ ਕਥਨਾਂ ਦੀ ਤਾਰਕਿਕ ਤੌਰ 'ਤੇ ਪਾਲਣਾ ਕਰਦੇ ਹਨ।

ਕਥਨ:
ਸਾਰੇ ਭੂਰੇ, ਕਾਲੇ ਹਨ।

ਕੋਈ ਭੂਰਾ, ਚਿੱਟਾ ਨਹੀਂ ਹੈ।

ਸਾਰੇ ਚਿੱਟੇ, ਨੀਲੇ ਹਨ।

ਸਿੱਟੇ:

I: ਕੁਝ ਕਾਲੇ, ਚਿੱਟੇ ਨਹੀਂ ਹਨ।

II: ਕੁਝ ਨੀਲੇ, ਭੂਰੇ ਨਹੀਂ ਹਨ।

III: ਕੁਝ ਨੀਲੇ, ਕਾਲੇ ਹੋ ਸਕਦੇ ਹਨ।

Ans
✗ 1. ਸਿਰਫ਼ I ਪਾਲਣਾ ਕਰਦਾ ਹੈ

✓ 2. ਸਾਰੇ I, II ਅਤੇ III ਪਾਲਣਾ ਕਰਦੇ ਹਨ

✗ 3. ਸਿਰਫ਼ I ਅਤੇ II ਪਾਲਣਾ ਕਰਦੇ ਹਨ

✗ 4. ਸਿਰਫ਼ II ਅਤੇ III ਪਾਲਣਾ ਕਰਦੇ ਹਨ

Question ID : **630680105924**
Option 1 ID : **630680411639**
Option 2 ID : **630680411640**
Option 3 ID : **630680411641**
Option 4 ID : **630680411642**
Status : **Not Answered**
Chosen Option : **--**

Q.30 ਦਿੱਤੇ ਗਏ ਵਿਕਲਪਾਂ ਵਿੱਚੋਂ ਅੱਖਰ-ਅੰਕੀ ਸਮੂਹ ਚੁਣੋ ਜੋ ਹੇਠਾਂ ਦਿੱਤੀ ਲੜੀ ਵਿੱਚ ਪ੍ਰਸ਼ਨ ਚਿੰਨ੍ਹ (?) ਨੂੰ ਬਦਲ ਸਕਦਾ ਹੈ।
Y1U, X2O, V4I, S8E,?

Ans
✗ 1. P10A

✓ 2. O16A

✗ 3. N12B

✗ 4. O12A

Question ID : **630680131457**
Option 1 ID : **630680509076**
Option 2 ID : **630680509074**
Option 3 ID : **630680509075**
Option 4 ID : **630680509077**
Status : **Not Answered**
Chosen Option : **--**

Website - www.dailyjobalert.in

Q.31 ਨਿਮਨਲਿਖਤ ਚਾਰ ਵਿੱਚੋਂ ਤਿੰਨ ਇੱਕ ਖਾਸ ਤਰੀਕੇ ਨਾਲ ਇੱਕੋ ਜਿਹੇ ਹਨ ਅਤੇ ਇਸ ਤਰ੍ਹਾਂ ਇੱਕ ਸਮੂਹ ਬਣਾਉਂਦੇ ਹਨ। ਉਹ ਕਿਹੜਾ ਹੈ ਜੋ ਉਸ ਸਮੂਹ ਨਾਲ ਸੰਬੰਧਿਤ ਨਹੀਂ ਹੈ?

Ans
1. GJK
2. SVW
3. CEF
4. MPQ

Question ID : **630680108065**
Option 1 ID : **630680419354**
Option 2 ID : **630680419355**
Option 3 ID : **630680419352**
Option 4 ID : **630680419353**
Status : **Not Answered**
Chosen Option : **--**

Q.32 'A # B' ਦਾ ਮਤਲਬ ਹੈ ਕਿ 'A, B ਦਾ ਭਰਾ ਹੈ'

'A@B' ਦਾ ਮਤਲਬ ਹੈ ਕਿ 'A, B ਦੀ ਧੀ ਹੈ'

'A & B' ਦਾ ਮਤਲਬ ਹੈ ਕਿ 'A, B ਦਾ ਪਤੀ ਹੈ'

'A % B' ਦਾ ਮਤਲਬ ਹੈ ਕਿ 'A, B ਦੀ ਪਤਨੀ ਹੈ'

ਜੇ 'R@T & S @ M % K # L % J' ਹੋਵੇ, ਤਾਂ M ਦਾ T ਨਾਲ ਕੀ ਰਿਸ਼ਤਾ ਹੈ?

Ans
1. ਜੀਜਾ (Sister's husband)
2. ਸੱਸ (Wife's mother)
3. ਭਾਣਜੀ (Sister's daughter)
4. ਸਹੁਰਾ (Wife's father)

Question ID : **630680147853**
Option 1 ID : **630680572127**
Option 2 ID : **630680572128**
Option 3 ID : **630680572129**
Option 4 ID : **630680572126**
Status : **Answered**
Chosen Option : **2**

DAILY JOB Alert ਪੰਜਾਬ

Q.33 ਹੇਠਾਂ ਦਿੱਤੀ ਅੱਖਰ ਲੜੀ ਨੂੰ ਵੇਖੋ ਅਤੇ ਪ੍ਰਸ਼ਨ ਦਾ ਉੱਤਰ ਦਿਓ।
(ਖੱਬੇ) C, M, T, B, K, S, J, D, F, G, V, O, A, L, Q, Z, W (ਸੱਜੇ)
ਬਿਲਕੁਲ ਖੱਬੇ ਸਿਰੇ ਤੋਂ ਨੌਵੇਂ ਅੱਖਰ ਤੋਂ ਠੀਕ ਪਹਿਲਾਂ ਕਿਹੜਾ ਅੱਖਰ ਆਵੇਗਾ?

Ans
✗ 1. J
✗ 2. G
✓ 3. D
✗ 4. F

Question ID : **630680139204**
Option 1 ID : **630680538923**
Option 2 ID : **630680538924**
Option 3 ID : **630680538925**
Option 4 ID : **630680538922**
Status : **Not Answered**
Chosen Option : **--**

Q.34 ਕੁਝ ਵਿਅਕਤੀ ਉੱਤਰ ਵੱਲ ਮੂੰਹ ਕਰਕੇ ਇੱਕ ਕਤਾਰ ਵਿੱਚ ਬੈਠੇ ਹਨ। P ਅਤੇ S ਦੇ ਵਿਚਕਾਰ ਠੀਕ ਸੱਤ ਵਿਅਕਤੀ ਬੈਠੇ ਹਨ। T, S ਦੇ ਸੱਜੇ ਪਾਸੇ ਤੋਂ ਚੌਥੇ ਸਥਾਨ 'ਤੇ ਬੈਠਾ ਹੈ। Q, S ਦੇ ਖੱਬੇ ਪਾਸੇ ਤੋਂ ਤੀਜੇ ਸਥਾਨ 'ਤੇ ਬੈਠਾ ਹੈ। P, R ਦੇ ਸੱਜੇ ਪਾਸੇ ਤੋਂ ਤੀਜੇ ਸਥਾਨ 'ਤੇ ਬੈਠਾ ਹੈ। T ਅਤੇ R ਕਤਾਰ ਦੇ ਕੋਨੇ ਵਾਲੇ ਸਥਾਨਾਂ 'ਤੇ ਬੈਠੇ ਹਨ। ਜੇਕਰ ਕਤਾਰ ਵਿੱਚ ਕੋਈ ਹੋਰ ਵਿਅਕਤੀ ਨਹੀਂ ਬੈਠਾ ਹੈ, ਤਾਂ ਕਤਾਰ ਵਿੱਚ ਕੁੱਲ ਕਿੰਨੇ ਵਿਅਕਤੀ ਬੈਠੇ ਹਨ?

Ans
✓ 1. 16
✗ 2. 17
✗ 3. 14
✗ 4. 15

Question ID : **630680112272**
Option 1 ID : **630680434804**
Option 2 ID : **630680434805**
Option 3 ID : **630680434802**
Option 4 ID : **630680434803**
Status : **Answered**
Chosen Option : **1**

Q.35 ਉਸ ਵਿਕਲਪ ਦੀ ਚੋਣ ਕਰੋ ਜਿਸ ਵਿੱਚ ਤਿੱਕੜੀ ਉਹੀ ਰਿਸ਼ਤਾ ਸਾਂਝਾ ਕਰਦੀ ਹੈ ਜੋ ਦਿੱਤੇ ਗਈ ਤਿੱਕੜੀ ਵੱਲੋਂ ਸਾਂਝਾ ਕੀਤਾ ਗਿਆ ਹੈ।
OPEN – NOPE – ENOP

Ans
✗ 1. HURT – TRUH – THRU
✗ 2. LIKE – KILE- ILKE
✓ 3. STAY – YSTA - AYST
✗ 4. WING – GNIW – GWNI

Question ID : **63068050139**
Option 1 ID : **630680192880**
Option 2 ID : **630680192881**
Option 3 ID : **630680192878**
Option 4 ID : **630680192879**
Status : **Answered**
Chosen Option : **3**

Website - www.dailyjobalert.in

Q.36 **ਦਿੱਤੀ ਗਈ ਲੜੀ ਨੂੰ ਤਰਕਸੰਗਤ ਢੰਗ ਪੂਰਾ ਕਰਨ ਲਈ, ਇਸ ਵਿੱਚ ਪ੍ਰਸ਼ਨ ਚਿੰਨ੍ਹ (?) ਦੀ ਥਾਂ 'ਤੇ ਕੀ ਆਵੇਗਾ?**
B8Y, D27W, F64U, H125S, ?

Ans
✗ 1. R216T
✗ 2. J156P
✗ 3. J152P
✓ 4. J216Q

Question ID : **630680127176**
Option 1 ID : **630680493134**
Option 2 ID : **630680493133**
Option 3 ID : **630680493135**
Option 4 ID : **630680493136**
Status : **Answered**
Chosen Option : **4**

Comprehension:

ਦਿੱਤੀ ਗਈ ਜਾਣਕਾਰੀ ਨੂੰ ਪੜ੍ਹੋ ਅਤੇ ਹੇਠਾਂ ਦਿੱਤੇ ਸਵਾਲਾਂ ਦੇ ਜਵਾਬ ਦਿਓ

ਰਾਹੁਲ, ਪਾਰੁਲ, ਆਕਾਸ਼, ਜ਼ਾਇਲੋ, ਸਰਾਂਸ਼ ਅਤੇ ਜ਼ੇਬਾ ਇੱਕ ਕਤਾਰ ਵਿੱਚ ਬੈਠੇ ਹਨ। ਜ਼ੇਬਾ, ਰਾਹੁਲ ਦੇ ਖੱਬੇ ਪਾਸੇ ਬੈਠੀ ਹੈ। ਜ਼ੇਬਾ ਅਤੇ ਰਾਹੁਲ ਕੇਂਦਰ ਵਿੱਚ ਬੈਠੇ ਹਨ। ਆਕਾਸ਼ ਅਤੇ ਪਾਰੁਲ ਸਿਰਿਆਂ 'ਤੇ ਬੈਠੇ ਹਨ। ਸਰਾਂਸ਼, ਆਕਾਸ਼ ਦੇ ਤੁਰੰਤ ਖੱਬੇ ਪਾਸੇ ਬੈਠਾ ਹੈ।

SubQuestion No : 37

Q.37 **ਰਾਹੁਲ ਅਤੇ ਆਕਾਸ਼ ਦੇ ਵਿਚਕਾਰ ਕੌਣ ਬੈਠਾ ਹੈ?**

Ans
✗ 1. ਜ਼ੇਬਾ
✓ 2. ਸਰਾਂਸ਼
✗ 3. ਜ਼ਾਇਲੋ
✗ 4. ਪਾਰੁਲ

Question ID : **63068051658**
Option 1 ID : **630680198863**
Option 2 ID : **630680198862**
Option 3 ID : **630680198864**
Option 4 ID : **630680198865**
Status : **Not Answered**
Chosen Option : **--**

Website - www.dailyjobalert.in

Comprehension:

ਦਿੱਤੀ ਗਈ ਜਾਣਕਾਰੀ ਨੂੰ ਪੜ੍ਹੋ ਅਤੇ ਹੇਠਾਂ ਦਿੱਤੇ ਸਵਾਲਾਂ ਦੇ ਜਵਾਬ ਦਿਓ

ਰਾਹੁਲ, ਪਾਰੁਲ, ਆਕਾਸ਼, ਜ਼ਾਇਲੋ, ਸਰਾਂਸ਼ ਅਤੇ ਜ਼ੇਬਾ ਇੱਕ ਕਤਾਰ ਵਿੱਚ ਬੈਠੇ ਹਨ। ਜ਼ੇਬਾ, ਰਾਹੁਲ ਦੇ ਖੱਬੇ ਪਾਸੇ ਬੈਠੀ ਹੈ। ਜ਼ੇਬਾ ਅਤੇ ਰਾਹੁਲ ਕੇਂਦਰ ਵਿੱਚ ਬੈਠੇ ਹਨ। ਆਕਾਸ਼ ਅਤੇ ਪਾਰੁਲ ਸਿਰਿਆਂ 'ਤੇ ਬੈਠੇ ਹਨ। ਸਰਾਂਸ਼, ਆਕਾਸ਼ ਦੇ ਤੁਰੰਤ ਖੱਬੇ ਪਾਸੇ ਬੈਠਾ ਹੈ।

SubQuestion No : 38

Q.38 ਪਾਰੁਲ ਦੇ ਤੁਰੰਤ ਸੱਜੇ ਪਾਸੇ ਕੌਣ ਬੈਠਾ ਹੈ?

Ans
✔ 1. ਜ਼ਾਇਲੋ
✘ 2. ਸਰਾਂਸ਼
✘ 3. ਰਾਹੁਲ
✘ 4. ਜ਼ੇਬਾ

Question ID : **63068051657**
Option 1 ID : **630680198859**
Option 2 ID : **630680198861**
Option 3 ID : **630680198860**
Option 4 ID : **630680198858**
Status : **Not Answered**
Chosen Option : **--**

Comprehension:

ਹੇਠ ਦਿੱਤੀ ਜਾਣਕਾਰੀ ਨੂੰ ਧਿਆਨ ਨਾਲ ਪੜ੍ਹੋ ਅਤੇ ਦਿੱਤੇ ਸਵਾਲ ਦਾ ਜਵਾਬ ਦਿਓ।
ਸੱਤ ਬਕਸੇ T, U, V, W, X, Y ਅਤੇ Z ਨੂੰ ਇੱਕ ਦੂਜੇ ਦੇ ਉੱਪਰ ਰੱਖਿਆ ਗਿਆ ਹੈ ਪਰ ਜ਼ਰੂਰੀ ਨਹੀਂ ਕਿ ਇਹ ਇੱਕੋ ਕ੍ਰਮ ਵਿੱਚ ਹੋਣ। T ਨੂੰ ਹੇਠਾਂ ਤੋਂ ਪੰਜਵੇਂ ਸਥਾਨ 'ਤੇ ਰੱਖਿਆ ਗਿਆ ਹੈ। ਸਿਰਫ਼ ਚਾਰ ਬਕਸੇ W ਅਤੇ X ਦੇ ਵਿਚਕਾਰ ਹਨ। W ਨੂੰ ਸਭ ਤੋਂ ਉੱਚੇ ਸਥਾਨ 'ਤੇ ਰੱਖਿਆ ਗਿਆ ਹੈ। ਸਿਰਫ਼ ਦੋ ਬਕਸੇ Z ਅਤੇ V ਦੇ ਵਿਚਕਾਰ ਹਨ। Y ਨੂੰ T ਦੇ ਠੀਕ ਉੱਪਰ ਰੱਖਿਆ ਗਿਆ ਹੈ। V ਨੂੰ ਸਭ ਤੋਂ ਹੇਠਲੇ ਸਥਾਨ 'ਤੇ ਰੱਖਿਆ ਗਿਆ ਹੈ।

SubQuestion No : 39

Q.39 ਕਿਹੜਾ ਬਕਸਾ ਬਿਲਕੁਲ ਵਿਚਕਾਰ ਹੈ?

Ans
✘ 1. Y
✘ 2. W
✔ 3. Z
✘ 4. V

Question ID : **63068083458**
Option 1 ID : **630680323600**
Option 2 ID : **630680323601**
Option 3 ID : **630680323603**
Option 4 ID : **630680323602**
Status : **Answered**
Chosen Option : **1**

DAILY JOB Alert ਪੰਜਾਬ

Comprehension:

ਹੇਠ ਦਿੱਤੀ ਜਾਣਕਾਰੀ ਨੂੰ ਧਿਆਨ ਨਾਲ ਪੜ੍ਹੋ ਅਤੇ ਦਿੱਤੇ ਸਵਾਲ ਦਾ ਜਵਾਬ ਦਿਓ।
ਸੱਤ ਬਕਸੇ T, U, V, W, X, Y ਅਤੇ Z ਨੂੰ ਇੱਕ ਦੂਜੇ ਦੇ ਉੱਪਰ ਰੱਖਿਆ ਗਿਆ ਹੈ ਪਰ ਜ਼ਰੂਰੀ ਨਹੀਂ ਕਿ ਇਹ ਇੱਕੋ ਕ੍ਰਮ ਵਿੱਚ ਹੋਣ। T ਨੂੰ ਹੇਠਾਂ ਤੋਂ ਪੰਜਵੇਂ ਸਥਾਨ 'ਤੇ ਰੱਖਿਆ ਗਿਆ ਹੈ। ਸਿਰਫ਼ ਚਾਰ ਬਕਸੇ W ਅਤੇ X ਦੇ ਵਿਚਕਾਰ ਹਨ। W ਨੂੰ ਸਭ ਤੋਂ ਉੱਚੇ ਸਥਾਨ 'ਤੇ ਰੱਖਿਆ ਗਿਆ ਹੈ। ਸਿਰਫ਼ ਦੋ ਬਕਸੇ Z ਅਤੇ V ਦੇ ਵਿਚਕਾਰ ਹਨ। Y ਨੂੰ T ਦੇ ਠੀਕ ਉੱਪਰ ਰੱਖਿਆ ਗਿਆ ਹੈ। V ਨੂੰ ਸਭ ਤੋਂ ਹੇਠਲੇ ਸਥਾਨ 'ਤੇ ਰੱਖਿਆ ਗਿਆ ਹੈ।

SubQuestion No : 40

Q.40 ਕਿਹੜਾ ਬਕਸਾ ਹੇਠਾਂ ਤੋਂ ਤੀਜੇ ਸਥਾਨ 'ਤੇ ਰੱਖਿਆ ਗਿਆ ਹੈ?

Ans
✔ 1. U
✘ 2. X
✘ 3. W
✘ 4. Z

Question ID : **63068083457**
Option 1 ID : **630680323596**
Option 2 ID : **630680323598**
Option 3 ID : **630680323599**
Option 4 ID : **630680323597**
Status : **Not Answered**
Chosen Option : **--**

Comprehension:

ਦਿੱਤੇ ਗਏ ਰੇਖਾ-ਚਿੱਤਰ ਦਾ ਧਿਆਨ ਨਾਲ ਅਧਿਐਨ ਕਰੋ ਅਤੇ ਪ੍ਰਸ਼ਨਾਂ ਦੇ ਉੱਤਰ ਦਿਓ। ਹਰੇਕ ਭਾਗ ਵਿਚਲੀਆਂ ਸੰਖਿਆਵਾਂ ਵਿਅਕਤੀਆਂ ਦੀ ਗਿਣਤੀ ਨੂੰ ਦਰਸਾਉਂਦੀਆਂ ਹਨ।

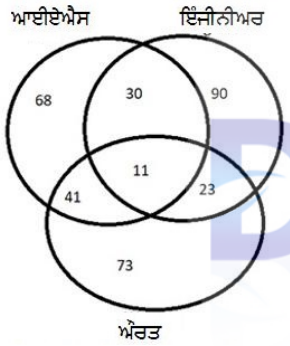

SubQuestion No : 41

Q.41 ਆਈਏਐਸ ਔਰਤਾਂ ਦੀ ਗਿਣਤੀ ਕਿੰਨੀ ਹੈ?

Ans
✘ 1. 73
✔ 2. 52
✘ 3. 109
✘ 4. 41

Question ID : **63068082651**
Option 1 ID : **630680320558**
Option 2 ID : **630680320556**
Option 3 ID : **630680320559**
Option 4 ID : **630680320557**
Status : **Not Answered**
Chosen Option : **--**

Website - www.dailyjobalert.in

Comprehension:

ਦਿੱਤੇ ਗਏ ਰੇਖਾ-ਚਿੱਤਰ ਦਾ ਧਿਆਨ ਨਾਲ ਅਧਿਐਨ ਕਰੋ ਅਤੇ ਪ੍ਰਸ਼ਨਾਂ ਦੇ ਉੱਤਰ ਦਿਓ। ਹਰੇਕ ਭਾਗ ਵਿਚਲੀਆਂ ਸੰਖਿਆਵਾਂ ਵਿਅਕਤੀਆਂ ਦੀ ਗਿਣਤੀ ਨੂੰ ਦਰਸਾਉਂਦੀਆਂ ਹਨ।

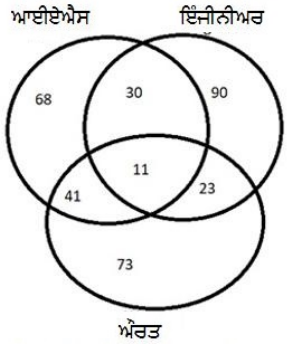

SubQuestion No : 42

Q.42 ਕਿੰਨੀਆਂ ਔਰਤਾਂ ਇੰਜੀਨੀਅਰ ਹਨ ਪਰ ਆਈਏਐਸ ਨਹੀਂ ਹਨ?

Ans
✗ 1. 11
✗ 2. 73
✓ 3. 23
✗ 4. 90

Question ID : **63068082650**
Option 1 ID : **630680320554**
Option 2 ID : **630680320553**
Option 3 ID : **630680320552**
Option 4 ID : **630680320555**
Status : **Answered**
Chosen Option : **3**

Comprehension:

ਹੇਠ ਦਿੱਤੀ ਜਾਣਕਾਰੀ ਨੂੰ ਧਿਆਨ ਨਾਲ ਪੜ੍ਹੋ ਅਤੇ ਦਿੱਤੇ ਸਵਾਲ ਦਾ ਜਵਾਬ ਦਿਓ।
ਇੱਕ ਖਾਸ ਕੋਡ ਭਾਸ਼ਾ ਵਿੱਚ, 'Beautiful blue sky' ਨੂੰ 'ho re ja' ਵੱਜੋਂ ਕੋਡਬੱਧ ਕੀਤਾ ਗਿਆ ਹੈ, 'Colourful chirping birds' ਨੂੰ 'ae lo po' ਵੱਜੋਂ ਕੋਡਬੱਧ ਕੀਤਾ ਗਿਆ ਹੈ ਅਤੇ 'Birds in sky' ਨੂੰ 'ja ke ae'ਵੱਜੋਂ ਕੋਡਬੱਧ ਕੀਤਾ ਗਿਆ ਹੈ।

SubQuestion No : 43

Q.43 ਹੇਠਾਂ ਦਿੱਤਿਆਂ ਵਿੱਚੋਂ 'birds' ਲਈ ਕਿਹੜਾ ਕੋਡ ਹੈ?

Ans
✗ 1. lo
✓ 2. ae
✗ 3. ke
✗ 4. po

Question ID : **63068058668**
Option 1 ID : **630680226298**
Option 2 ID : **630680226299**
Option 3 ID : **630680226301**
Option 4 ID : **630680226300**
Status : **Answered**
Chosen Option : **4**

Website - www.dailyjobalert.in

Comprehension:

ਹੇਠ ਦਿੱਤੀ ਜਾਣਕਾਰੀ ਨੂੰ ਧਿਆਨ ਨਾਲ ਪੜ੍ਹੋ ਅਤੇ ਦਿੱਤੇ ਸਵਾਲ ਦਾ ਜਵਾਬ ਦਿਓ।
ਇੱਕ ਖਾਸ ਕੋਡ ਭਾਸ਼ਾ ਵਿੱਚ, 'Beautiful blue sky' ਨੂੰ 'ho re ja' ਵੱਜੋਂ ਕੋਡਬੱਧ ਕੀਤਾ ਗਿਆ ਹੈ, 'Colourful chirping birds' ਨੂੰ 'ae lo po' ਵੱਜੋਂ ਕੋਡਬੱਧ ਕੀਤਾ ਗਿਆ ਹੈ ਅਤੇ 'Birds in sky' ਨੂੰ 'ja ke ae'ਵੱਜੋਂ ਕੋਡਬੱਧ ਕੀਤਾ ਗਿਆ ਹੈ।

SubQuestion No : 44

Q.44 ਹੇਠਾਂ ਦਿੱਤਿਆਂ ਵਿੱਚੋਂ 'sky' ਲਈ ਕਿਹੜਾ ਕੋਡ ਹੈ?

Ans
✗ 1. ae
✗ 2. ho
✓ 3. ja
✗ 4. re

Question ID : **63068058669**
Option 1 ID : **630680226305**
Option 2 ID : **630680226303**
Option 3 ID : **630680226304**
Option 4 ID : **630680226302**
Status : **Answered**
Chosen Option : **3**

Comprehension:

ਹੇਠਲਾ ਪਾਈ ਚਾਰਟ 80,000 ਦੀ ਆਬਾਦੀ ਵਾਲੇ ਸ਼ਹਿਰ ਲਈ ਰੁਜ਼ਗਾਰ ਪ੍ਰਾਪਤ ਅਤੇ ਬੇਰੁਜ਼ਗਾਰ ਮਰਦਾਂ ਅਤੇ ਔਰਤਾਂ ਦਾ ਪ੍ਰਤੀਸ਼ਤ ਅਨੁਸਾਰ ਵਰਗੀਕਰਨ ਦਰਸਾਉਂਦਾ ਹੈ। ਪਾਈ ਚਾਰਟ ਦਾ ਧਿਆਨ ਨਾਲ ਅਧਿਐਨ ਕਰੋ ਅਤੇ ਹੇਠਾਂ ਦਿੱਤੇ ਸਵਾਲ ਦਾ ਜਵਾਬ ਦਿਓ।

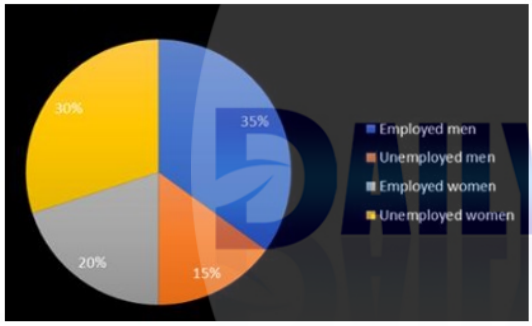

ਸੰਦਰਭ:
Employed men = ਰੁਜ਼ਗਾਰ ਪ੍ਰਾਪਤ ਮਰਦ
Unemployed men = ਬੇਰੁਜ਼ਗਾਰ ਮਰਦ
Employed women = ਰੁਜ਼ਗਾਰ ਪ੍ਰਾਪਤ ਔਰਤਾਂ
Unemployed women = ਬੇਰੁਜ਼ਗਾਰ ਔਰਤਾਂ

SubQuestion No : 45

Q.45 ਸ਼ਹਿਰ ਵਿੱਚ ਬੇਰੁਜ਼ਗਾਰ ਮਰਦ ਕਿੰਨੇ ਹਨ?

Ans
✗ 1. 15000
✓ 2. 12000
✗ 3. 11000
✗ 4. 10000

Question ID : **63068082713**
Option 1 ID : **630680320771**
Option 2 ID : **630680320770**
Option 3 ID : **630680320769**
Option 4 ID : **630680320768**
Status : **Answered**
Chosen Option : **4**

Comprehension:

ਹੇਠਲਾ ਪਾਈ ਚਾਰਟ 80,000 ਦੀ ਆਬਾਦੀ ਵਾਲੇ ਸ਼ਹਿਰ ਲਈ ਰੁਜ਼ਗਾਰ ਪ੍ਰਾਪਤ ਅਤੇ ਬੇਰੁਜ਼ਗਾਰ ਮਰਦਾਂ ਅਤੇ ਔਰਤਾਂ ਦਾ ਪ੍ਰਤੀਸ਼ਤ ਅਨੁਸਾਰ ਵਰਗੀਕਰਨ ਦਰਸਾਉਂਦਾ ਹੈ। ਪਾਈ ਚਾਰਟ ਦਾ ਧਿਆਨ ਨਾਲ ਅਧਿਐਨ ਕਰੋ ਅਤੇ ਹੇਠਾਂ ਦਿੱਤੇ ਸਵਾਲ ਦਾ ਜਵਾਬ ਦਿਓ।

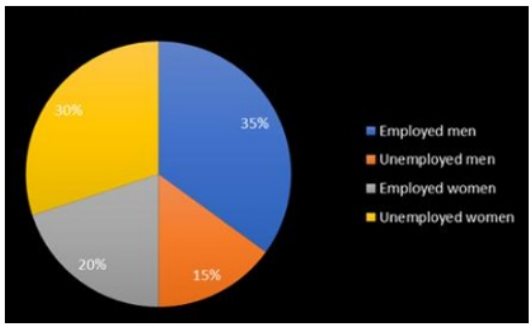

ਸੰਦਰਭ:

Employed men = ਰੁਜ਼ਗਾਰ ਪ੍ਰਾਪਤ ਮਰਦ

Unemployed men = ਬੇਰੁਜ਼ਗਾਰ ਮਰਦ

Employed women = ਰੁਜ਼ਗਾਰ ਪ੍ਰਾਪਤ ਔਰਤਾਂ

Unemployed women = ਬੇਰੁਜ਼ਗਾਰ ਔਰਤਾਂ

SubQuestion No : 46

Q.46 ਰੁਜ਼ਗਾਰ ਪ੍ਰਾਪਤ ਮਰਦਾਂ ਦੀ ਸੰਖਿਆ ਅਤੇ ਰੁਜ਼ਗਾਰ ਪ੍ਰਾਪਤ ਔਰਤਾਂ ਦੀ ਸੰਖਿਆ ਦਾ ਅਨੁਪਾਤ ਕਿੰਨਾ ਹੈ?

Ans

✗ 1. 4 : 9

✓ 2. 7 : 4

✗ 3. 7 : 2

✗ 4. 5 : 8

Question ID : **63068082712**
Option 1 ID : **630680320765**
Option 2 ID : **630680320764**
Option 3 ID : **630680320767**
Option 4 ID : **630680320766**
Status : **Answered**
Chosen Option : **1**

DAILY JOB Alert ਪੰਜਾਬ

Comprehension:

ਦਿੱਤੇ ਹੋਏ ਟੇਬਲ ਦਾ ਅਧਿਐਨ ਕਰੋ ਅਤੇ ਸਵਾਲ ਦਾ ਜਵਾਬ ਦਿਓ।

ਸਾਲ	ਕਾਰਾਂ ਦੀ ਕਿਸਮ / ਵਿਕਰੀ (ਹਜ਼ਾਰਾਂ ਵਿੱਚ)					
	ਸੇਡਾਨ	ਲਗਜ਼ਰੀ	ਐਸਯੂਵੀ	ਮਿੰਨੀਵੈਨ	ਟਰੱਕ	ਕੁੱਲ
2001	76	143	115	102	107	543
2002	91	125	100	86	124	526
2003	95	115	76	104	130	520
2004	100	95	140	100	75	510
2005	90	75	135	75	90	465
2006	100	60	170	45	120	495
2007	130	100	130	100	140	600

SubQuestion No : 47

Q.47 **ਸਾਲ 2003 ਅਤੇ ਸਾਲ 2006 ਵਿੱਚ ਲਗਜ਼ਰੀ ਕਾਰਾਂ ਦੀ ਵਿਕਰੀ (ਹਜ਼ਾਰ ਵਿੱਚ) ਵਿੱਚ ਕੀ ਅੰਤਰ ਹੈ?**

Ans

✗ 1. 60

✗ 2. 75

✗ 3. 80

✓ 4. 55

Question ID : **63068060555**
Option 1 ID : **630680233675**
Option 2 ID : **630680233676**
Option 3 ID : **630680233677**
Option 4 ID : **630680233674**
Status : **Answered**
Chosen Option : **4**

Website - www.dailyjobalert.in

Comprehension:

ਦਿੱਤੇ ਹੋਏ ਟੇਬਲ ਦਾ ਅਧਿਐਨ ਕਰੋ ਅਤੇ ਸਵਾਲ ਦਾ ਜਵਾਬ ਦਿਓ।

ਸਾਲ	ਕਾਰਾਂ ਦੀ ਕਿਸਮ / ਵਿਕਰੀ (ਹਜ਼ਾਰਾਂ ਵਿੱਚ)					
	ਸੇਡਾਨ	ਲਗਜ਼ਰੀ	ਐਸਯੂਵੀ	ਮਿੰਨੀਵੈਨ	ਟਰੱਕ	ਕੁੱਲ
2001	76	143	115	102	107	543
2002	91	125	100	86	124	526
2003	95	115	76	104	130	520
2004	100	95	140	100	75	510
2005	90	75	135	75	90	465
2006	100	60	170	45	120	495
2007	130	100	130	100	140	600

SubQuestion No : 48

Q.48 ਸਾਲ 2003 ਦੇ ਮੁਕਾਬਲੇ ਸਾਲ 2007 ਵਿੱਚ ਮਿਨੀਵੈਨਾਂ ਦੀ ਵਿਕਰੀ ਵਿੱਚ ਕਿੰਨੇ ਪ੍ਰਤੀਸ਼ਤ ਵਾਧਾ ਹੋਇਆ/ਕਮੀ ਆਈ ਹੈ?

Ans

✗ 1. 4.56%

✗ 2. 4.67%

✗ 3. 5.57%

✓ 4. 3.84%

Question ID : **63068060556**
Option 1 ID : **630680233679**
Option 2 ID : **630680233680**
Option 3 ID : **630680233681**
Option 4 ID : **630680233678**
Status : **Answered**
Chosen Option : **4**

Website - www.dailyjobalert.in

Comprehension:

ਦਿੱਤੇ ਗਏ ਪੈਰੇ ਨੂੰ ਪੜ੍ਹੋ ਅਤੇ ਅਗਲੇ ਸਵਾਲਾਂ ਦੇ ਉੱਤਰ ਦਿਓ।

ਇਸ ਵਿੱਚ ਕੋਈ ਸ਼ੱਕ ਨਹੀਂ ਹੈ ਕਿ ਜਿੱਥੇ ਕੋਈ ਵਿਅਕਤੀ ਕਿਸੇ ਹੋਰ ਵਿਅਕਤੀ ਨੂੰ ਉਸ ਦੁਆਰਾ ਕੀਤੇ ਗਏ ਪ੍ਰਸਤਾਵ ਵਿੱਚ, ਸਪੱਸ਼ਟ ਜਾਂ ਅਸਪੱਸ਼ਟ ਤੌਰ 'ਤੇ ਸਵੀਕਾਰ ਕਰਨ ਦੇ ਇੱਕ ਵਿਸ਼ੇਸ਼ ਢੰਗ ਨੂੰ ਸਮਝੌਤਾ ਕਰਨ ਲਈ ਕਾਫ਼ੀ ਸਮਝਦਾ ਹੈ, ਤਾਂ ਇਹ ਸਿਰਫ਼ ਉਸ ਵਿਅਕਤੀ ਲਈ ਜ਼ਰੂਰੀ ਹੈ ਜਿਸ ਨੂੰ ਅਜਿਹੀ ਪੇਸ਼ਕਸ਼ ਕੀਤੀ ਜਾਂਦੀ ਹੈ, ਕਿ ਉਹ ਸਵੀਕ੍ਰਿਤੀ ਦੀ ਸੰਕੇਤ ਕੀਤੀ ਵਿਧੀ ਦੀ ਪਾਲਣਾ ਕਰੇ; ਅਤੇ ਜੇਕਰ ਪੇਸ਼ਕਸ਼ ਕਰਨ ਵਾਲਾ ਵਿਅਕਤੀ, ਆਪਣੀ ਪੇਸ਼ਕਸ਼ ਵਿੱਚ ਸਪੱਸ਼ਟ ਤੌਰ 'ਤੇ ਜਾਂ ਅਸਪੱਸ਼ਟ ਤੌਰ 'ਤੇ ਸੂਚਿਤ ਕਰਦਾ ਹੈ ਕਿ ਇਹ ਆਪਣੇ ਆਪ ਨੂੰ ਇਸ ਦੀ ਸਵੀਕ੍ਰਿਤੀ ਦੀ ਜਾਣਕਾਰੀ ਦਿੱਤੇ ਬਿਨਾਂ ਪ੍ਰਸਤਾਵ 'ਤੇ ਕਾਰਵਾਈ ਕਰਨ ਲਈ ਕਾਫੀ ਹੋਵੇਗਾ, ਤਾਂ ਸ਼ਰਤ ਦਾ ਪਰਦਰਸ਼ਨ ਬਿਨਾਂ ਸੂਚਨਾ ਦੇ ਲੋੜੀਂਦੀ ਸਵੀਕ੍ਰਿਤੀ ਹੈ।

SubQuestion No : 49

Q.49 ਕੀ ਸਵੀਕ੍ਰਿਤੀ ਦਾ ਸੰਚਾਰ ਕੀਤੇ ਬਿਨਾਂ ਪ੍ਰਸਤਾਵ ਨੂੰ ਸਵੀਕਾਰ ਕੀਤਾ ਜਾ ਸਕਦਾ ਹੈ? ਜੇਕਰ ਹਾਂ, ਤਾਂ ਹੇਠ ਲਿਖੀਆਂ ਵਿੱਚੋਂ ਕਿਹੜੀਆਂ ਸਥਿਤੀਆਂ ਵਿੱਚ?

Ans
- ✗ 1. ਵਿਅਕਤੀਗਤ ਤੌਰ 'ਤੇ
- ✗ 2. ਪ੍ਰਸਤਾਵ ਪੱਤਰ ਭੇਜ ਕੇ
- ✗ 3. ਕੇਵਲ ਸਵੀਕ੍ਰਿਤੀ ਦਾ ਸੰਚਾਰ ਕਰਕੇ
- ✓ 4. ਪ੍ਰਸਤਾਵ ਦੀ ਸ਼ਰਤ ਦੇ ਨਿਸ਼ਪਾਦਨ ਦੁਆਰਾ

Question ID : **630680248117**
Option 1 ID : **630680962670**
Option 2 ID : **630680962669**
Option 3 ID : **630680962668**
Option 4 ID : **630680962667**
Status : **Answered**
Chosen Option : **1**

Comprehension:

ਦਿੱਤੇ ਗਏ ਪੈਰੇ ਨੂੰ ਪੜ੍ਹੋ ਅਤੇ ਅਗਲੇ ਸਵਾਲਾਂ ਦੇ ਉੱਤਰ ਦਿਓ।

ਇਸ ਵਿੱਚ ਕੋਈ ਸ਼ੱਕ ਨਹੀਂ ਹੈ ਕਿ ਜਿੱਥੇ ਕੋਈ ਵਿਅਕਤੀ ਕਿਸੇ ਹੋਰ ਵਿਅਕਤੀ ਨੂੰ ਉਸ ਦੁਆਰਾ ਕੀਤੇ ਗਏ ਪ੍ਰਸਤਾਵ ਵਿੱਚ, ਸਪੱਸ਼ਟ ਜਾਂ ਅਸਪੱਸ਼ਟ ਤੌਰ 'ਤੇ ਸਵੀਕਾਰ ਕਰਨ ਦੇ ਇੱਕ ਵਿਸ਼ੇਸ਼ ਢੰਗ ਨੂੰ ਸਮਝੌਤਾ ਕਰਨ ਲਈ ਕਾਫ਼ੀ ਸਮਝਦਾ ਹੈ, ਤਾਂ ਇਹ ਸਿਰਫ਼ ਉਸ ਵਿਅਕਤੀ ਲਈ ਜ਼ਰੂਰੀ ਹੈ ਜਿਸ ਨੂੰ ਅਜਿਹੀ ਪੇਸ਼ਕਸ਼ ਕੀਤੀ ਜਾਂਦੀ ਹੈ, ਕਿ ਉਹ ਸਵੀਕ੍ਰਿਤੀ ਦੀ ਸੰਕੇਤ ਕੀਤੀ ਵਿਧੀ ਦੀ ਪਾਲਣਾ ਕਰੇ; ਅਤੇ ਜੇਕਰ ਪੇਸ਼ਕਸ਼ ਕਰਨ ਵਾਲਾ ਵਿਅਕਤੀ, ਆਪਣੀ ਪੇਸ਼ਕਸ਼ ਵਿੱਚ ਸਪੱਸ਼ਟ ਤੌਰ 'ਤੇ ਜਾਂ ਅਸਪੱਸ਼ਟ ਤੌਰ 'ਤੇ ਸੂਚਿਤ ਕਰਦਾ ਹੈ ਕਿ ਇਹ ਆਪਣੇ ਆਪ ਨੂੰ ਇਸ ਦੀ ਸਵੀਕ੍ਰਿਤੀ ਦੀ ਜਾਣਕਾਰੀ ਦਿੱਤੇ ਬਿਨਾਂ ਪ੍ਰਸਤਾਵ 'ਤੇ ਕਾਰਵਾਈ ਕਰਨ ਲਈ ਕਾਫੀ ਹੋਵੇਗਾ, ਤਾਂ ਸ਼ਰਤ ਦਾ ਪਰਦਰਸ਼ਨ ਬਿਨਾਂ ਸੂਚਨਾ ਦੇ ਲੋੜੀਂਦੀ ਸਵੀਕ੍ਰਿਤੀ ਹੈ।

SubQuestion No : 50

Q.50 ਪ੍ਰਸਤਾਵ ਦੀ ਸਵੀਕ੍ਰਿਤੀ ਦਿਖਾਉਣ ਦੇ ਤਰੀਕੇ ਕਿਹੜੇ ਹਨ?

Ans
- ✓ 1. ਪ੍ਰਸਤਾਵਕਰਤਾ ਦੁਆਰਾ ਦੱਸੀ ਗਈ ਵਿਧੀ
- ✗ 2. ਸਵੀਕਾਰਕਰਤਾ ਦੁਆਰਾ ਚੁਣੀ ਗਈ ਵਿਧੀ
- ✗ 3. ਕਾਨੂੰਨੀ ਢੰਗ
- ✗ 4. ਵਪਾਰ ਦੁਆਰਾ ਆਮ ਤੌਰ 'ਤੇ ਸਵੀਕਾਰਯੋਗ ਵਿਧੀ

Question ID : **630680248116**
Option 1 ID : **630680962665**
Option 2 ID : **630680962664**
Option 3 ID : **630680962666**
Option 4 ID : **630680962663**
Status : **Answered**
Chosen Option : **1**

Section : **Digital Literacy and Computer Awareness**

Website - www.dailyjobalert.in

Q.51 ਬਹੁਤ ਸਾਰੇ ਇੰਸਟੈਂਟ ਮੈਸੇਂਜਰ ਗਾਹਕਾਂ ਦੀ ਇੱਕ ਮੁੱਖ ਵਿਸ਼ੇਸ਼ਤਾ ਇਹ ਦੇਖਣ ਦੀ ਯੋਗਤਾ ਹੈ ਕਿ ਕੀ ਕੋਈ ਦੋਸਤ ਜਾਂ ਸਹਿ-ਕਰਮਚਾਰੀ ਆਨਲਾਈਨ ਹੈ ਅਤੇ ਚੁਣੀ ਗਈ ਸੇਵਾ ਰਾਹੀਂ ਜੁੜਿਆ ਹੋਇਆ ਹੈ। ਇਸ ਸਮਰੱਥਾ ਨੂੰ _____ ਕਿਹਾ ਜਾਂਦਾ ਹੈ।

Ans
1. ਔਫਲਾਈਨ
2. ਗੈਰਹਾਜ਼ਰੀ
3. ਮੌਜੂਦਗੀ
4. ਵਾਇੰਡ ਅੱਪ

Question ID : **630680247762**
Option 1 ID : **630680961257**
Option 2 ID : **630680961256**
Option 3 ID : **630680961255**
Option 4 ID : **630680961258**
Status : **Answered**
Chosen Option : **3**

Q.52 MS-Power Point 2016 ਵਿੱਚ ਸਲਾਈਡਾਂ ਨੂੰ ਸ਼ਾਮਲ ਕਰਨ ਅਤੇ ਹਟਾਉਣ ਦੇ ਸੰਬੰਧ ਵਿੱਚ ਹੇਠਾਂ ਦਿੱਤੇ ਕਥਨਾਂ ਵਿੱਚੋਂ ਕਿਹੜਾ ਕਥਨ ਸੱਚ ਹੈ?

(i) ਕਈ ਸਲਾਈਡਾਂ ਨੂੰ ਮਿਟਾਉਣ ਲਈ ਜੋ ਕ੍ਰਮ ਵਿੱਚ ਨਹੀਂ ਹਨ, ਸ਼ਿਫਟ ਕੀਅ ਨੂੰ ਹੋਲਡ ਕਰੋ ਅਤੇ ਜਿਹੜੀਆਂ ਸਲਾਈਡਾਂ ਤੁਸੀਂ ਚਾਹੁੰਦੇ ਹੋ ਉਹਨਾਂ ਨੂੰ ਚੁਣੋ, ਫਿਰ ਰਾਇਟ-ਕਲਿੱਕ ਕਰੋ ਅਤੇ ਡਿਲੀਟ ਸਲਾਈਡ ਚੁਣੋ।
(ii)ਜਿਹੜੀਆਂ ਸਲਾਈਡਾਂ ਕ੍ਰਮ ਵਿੱਚ ਹਨ, ਉਨ੍ਹਾਂ ਨੂੰ ਮਿਟਾਉਣ ਲਈ, Ctrl ਕੀਅ ਨੂੰ ਹੋਲਡ ਕਰੋ ਅਤੇ ਸਲਾਈਡਾਂ ਨੂੰ ਚੁਣੋ, ਫਿਰ ਰਾਇਟ-ਕਲਿੱਕ ਕਰੋ ਅਤੇ ਡਿਲੀਟ ਸਲਾਈਡ ਚੁਣੋ।

Ans
1. ਕੇਵਲ (ii)
2. (i) ਅਤੇ (ii) ਦੋਵੇਂ
3. ਕੇਵਲ (i)
4. ਨਾ ਤਾਂ (i) ਨਾ ਹੀ (ii)

Question ID : **630680247751**
Option 1 ID : **630680961212**
Option 2 ID : **630680961213**
Option 3 ID : **630680961211**
Option 4 ID : **630680961214**
Status : **Not Answered**
Chosen Option : **--**

Q.53 ਹੇਠ ਲਿਖੀਆਂ ਵਿੱਚੋਂ ਕਿਹੜੀ ਐਪਲੀਕੇਸ਼ਨ ਹੈ ਜਿਹੜੀ ਕਿ ਤੁਹਾਨੂੰ ਵੈੱਬ 'ਤੇ ਸਮੱਗਰੀ ਦੀ ਖੋਜ ਕਰਨ ਦੀ ਇਜਾਜ਼ਤ ਦਿੰਦੀ ਹੈ ਅਤੇ ਤੁਹਾਡੇ ਦੁਆਰਾ ਟਾਈਪ ਕੀਤੀ ਗਈ ਸਮੱਗਰੀ ਜਾਂ ਸ਼ਬਦ ਦੇ ਅਧਾਰ 'ਤੇ ਕਈ ਵੈੱਬ ਪੇਜਾਂ ਨੂੰ ਪ੍ਰਦਰਸ਼ਿਤ ਕਰਦੀ ਹੈ?

Ans
1. ਇੰਟਰਨੈਟ ਸਰਵਿਸ ਪ੍ਰੋਵਾਈਡਰਜ਼
2. ਨੈਟਵਰਕ ਐਕਸੇਸ ਪੁਆਇੰਟ
3. ਸਰਚ ਇੰਜਨ
4. ਡੋਮੇਨ ਨੇਮ ਸਰਵਰ

Question ID : **630680247756**
Option 1 ID : **630680961232**
Option 2 ID : **630680961231**
Option 3 ID : **630680961234**
Option 4 ID : **630680961233**
Status : **Answered**
Chosen Option : **3**

Website - www.dailyjobalert.in

Q.54 MS-Word 2016 ਵਿੱਚ _____ ਟੈਬ 'ਤੇ ਨਵਾਂ ਨੰਬਰਿੰਗ ਫੋਰਮੈਟ ਬਣਾਉਣ ਲਈ _____ ਗਰੁੱਪ ਦੇ ਤਹਿਤ ਨੰਬਰਿੰਗ ਦੇ ਅਗਲੇ ਪਾਸੇ ਵਾਲੇ ਐਰੋ 'ਤੇ ਕਲਿਕ ਕਰੋ।

Ans
1. ਡਿਜ਼ਾਇਨ; ਪੈਰਾਗ੍ਰਾਫ
2. ਹੋਮ; ਪੈਰਾਗ੍ਰਾਫ
3. ਹੋਮ; ਫੌਂਟ
4. ਡਿਜ਼ਾਇਨ; ਫੌਂਟ

Question ID : **630680247744**
Option 1 ID : **630680961185**
Option 2 ID : **630680961184**
Option 3 ID : **630680961183**
Option 4 ID : **630680961186**
Status : **Answered**
Chosen Option : **2**

Q.55 MS Word 2016 ਵਿੱਚ ਦੂਸਰੀ ਓਪਨ ਹੋਈ ਵਿੰਡੋ 'ਤੇ ਤੁਰੰਤ ਸਵਿੱਚ ਕਰਨ ਲਈ ਕਿਹੜੇ ਵਿਕਲਪ ਦੀ ਵਰਤੋਂ ਕੀਤੀ ਜਾਂਦੀ ਹੈ?

Ans
1. ਸਪਲਿਟ
2. ਮੂਵ ਵਿੰਡੋਜ਼
3. ਸਵਿੱਚ ਵਿੰਡੋਜ਼
4. ਅਰੇਂਜ ਆਲ

Question ID : **630680247745**
Option 1 ID : **630680961189**
Option 2 ID : **630680961190**
Option 3 ID : **630680961188**
Option 4 ID : **630680961187**
Status : **Answered**
Chosen Option : **3**

Q.56 VoIP ਸ਼ਬਦ ਨੂੰ _____ ਦੇ ਨਾਲ ਬਦਲਿਆ ਜਾ ਸਕਦਾ ਹੈ।

Ans
1. ਨੇਮ ਸਰਵਰਜ਼
2. ਫਾਇਲ ਸਰਵਰਜ਼
3. IP ਟੈਲੀਫੋਨੀ
4. ਵੈਬ ਹੋਸਟਿੰਗ

Question ID : **630680247760**
Option 1 ID : **630680961249**
Option 2 ID : **630680961250**
Option 3 ID : **630680961248**
Option 4 ID : **630680961247**
Status : **Answered**
Chosen Option : **4**

Website - www.dailyjobalert.in

Q.57 ਵਿੰਡੋ 10 OS ਵਿੱਚ ਹੇਠਾਂ ਦਿੱਤਿਆਂ ਵਿੱਚੋਂ ਕਿਹੜਾ ਇੱਕ ਵਿੰਡੋ ਫੀਚਰਜ਼ ਤੱਕ ਪਹੁੰਚਣ ਲਈ ਇੱਕ ਤਰੀਕਾ ਨਹੀਂ ਹੈ?

Ans

✗ 1. ਸੈਟਿੰਗ ਐਪ (ਵਿੰਡੋਜ਼+ I) ਓਪਨ ਕਰੋ ਅਤੇ ਐਪਜ਼ > ਐਪਜ਼ ਅਤੇ ਫੀਚਰਜ਼ > ਓਪਸ਼ਨਲ ਫੀਚਰਜ਼ 'ਤੇ ਜਾਓ

✗ 2. ਕੰਟਰੋਲ ਪੈਨਲ ਓਪਨ ਕਰੋ ਅਤੇ ਪ੍ਰੋਗਰਾਮਜ਼ > ਪ੍ਰੋਗਰਾਮਜ਼ ਅਤੇ ਫੀਚਰਜ਼ 'ਤੇ ਨੈਵੀਗੇਟ ਕਰੋ

✓ 3. ਸੈਟਿੰਗ ਐਪ (ਵਿੰਡੋਜ਼ + I) ਓਪਨ ਕਰੋ ਅਤੇ ਪ੍ਰੋਗਰਾਮਜ਼ > ਪ੍ਰੋਗਰਾਮਜ਼ ਅਤੇ ਫੀਚਰਜ਼ 'ਤੇ ਨੈਵੀਗੇਟ ਕਰੋ

✗ 4. ਆਪਣੇ ਟਾਸਕਬਾਰ ਵਿੱਚ ਸਰਚ ਫੀਲਡ 'ਤੇ ਕਲਿੱਕ ਜਾ ਟੈਪ ਕਰੋ ਅਤੇ 'ਵਿੰਡੋ ਫੀਚਰਜ਼' ਐਂਟਰ ਕਰੋ

Question ID : **630680247742**
Option 1 ID : **630680961176**
Option 2 ID : **630680961177**
Option 3 ID : **630680961178**
Option 4 ID : **630680961175**
Status : **Answered**
Chosen Option : **1**

Q.58 ਹੇਠਾਂ ਦਿੱਤਿਆਂ ਵਿੱਚੋਂ ਕਿਹੜਾ ਸੋਸ਼ਲ ਮੀਡੀਆ ਪਲੇਟਫਾਰਮ Meta ਦੀ ਮਲਕੀਅਤ ਹੈ?

Ans

✗ 1. ਟੈਲੀਗ੍ਰਾਮ (Telegram)

✓ 2. ਫੇਸਬੁੱਕ (Facebook)

✗ 3. ਯੂ ਟਿਊਬ (YouTube)

✗ 4. ਟਿਕ-ਟਾਕ (TikTok)

Question ID : **630680247757**
Option 1 ID : **630680961235**
Option 2 ID : **630680961238**
Option 3 ID : **630680961237**
Option 4 ID : **630680961236**
Status : **Answered**
Chosen Option : **1**

Q.59 ਜਨਤਕ ਕੀਅ ਕ੍ਰਿਪਟੋਗ੍ਰਾਫ਼ੀ ਬਾਰੇ ਹੇਠ ਲਿਖੇ ਕਥਨਾਂ ਵਿੱਚੋਂ ਕਿਹੜਾ ਗਲਤ ਹੈ?

Ans

✗ 1. ਇਹ ਜਨਤਕ ਅਤੇ ਨਿੱਜੀ ਦੋਵੇਂ ਕੀਜ਼ ਦੀ ਵਰਤੋਂ ਕਰਦਾ ਹੈ।

✓ 2. ਇਸ ਨੂੰ ਸਮਿਟ੍ਰਿਕ ਕ੍ਰਿਪਟੋਗ੍ਰਾਫੀ ਵੀ ਕਿਹਾ ਜਾਂਦਾ ਹੈ।

✗ 3. ਇਹ ਕਿਸੇ ਵੀ ਵਿਅਕਤੀ ਨੂੰ ਪ੍ਰਾਪਤਕਰਤਾ ਦੀ ਜਨਤਕ ਕੀਅ ਦੀ ਵਰਤੋਂ ਕਰਕੇ ਇੱਕ ਸੰਦੇਸ਼ ਨੂੰ ਇਨਕ੍ਰਿਪਟ ਕਰਨ ਦੀ ਆਗਿਆ ਦਿੰਦਾ ਹੈ

✗ 4. ਇਸ ਨੂੰ ਅਸਮਿਟ੍ਰਿਕ ਕ੍ਰਿਪਟੋਗ੍ਰਾਫੀ ਵੀ ਕਿਹਾ ਜਾਂਦਾ ਹੈ।

Question ID : **630680247765**
Option 1 ID : **630680961269**
Option 2 ID : **630680961268**
Option 3 ID : **630680961270**
Option 4 ID : **630680961267**
Status : **Answered**
Chosen Option : **3**

DAILY JOB Alert ਪੰਜਾਬ

Q.60 ਜਦੋਂ ਅਸੀਂ ਵਿੰਡੋ 10 ਵਿੱਚ, ਫਾਈਲ ਐਕਸਪਲੋਰਲ ਵਿੱਚ ਇੱਕ ਫਾਇਲ ਜਾਂ ਫੋਲਡਰ ਖੋਲ੍ਹਦੇ ਹਾਂ ਤਾਂ ਫੋਲਡਰ ਜਾਂ ਫਾਈਲ ਦਾ ਸਥਾਨ ਵਿੰਡੋ ਦੇ ਸਿਖਰ ਦੇ ਨੇੜੇ _____ ਵਿੱਚ ਦਿਖਾਈ ਦਿੰਦਾ ਹੈ।

Ans
✗ 1. ਸਟੇਟਸ ਬਾਰ
✓ 2. ਐਡਰੈਸ ਬਾਰ
✗ 3. ਮੈਨਿਯੂ ਬਾਰ
✗ 4. ਟਾਸਕ ਬਾਰ

Question ID : **630680247741**
Option 1 ID : **630680961171**
Option 2 ID : **630680961173**
Option 3 ID : **630680961174**
Option 4 ID : **630680961172**
Status : **Answered**
Chosen Option : **1**

Q.61 ਹੇਠਾਂ ਦਿੱਤੇ ਵਿੱਚੋਂ ਕਿਹੜਾ VoIP ਸੰਚਾਰ ਦਾ ਨੁਕਸਾਨ ਹੈ?

Ans
✓ 1. VoIP ਪ੍ਰਦਾਨਕ ਡਾਇਰੈਕਟਰੀ ਸਹਾਇਤਾ/ਵਾਈਟ ਪੇਜ ਸੂਚੀਆਂ ਦੀ ਪੇਸ਼ਕਸ਼ ਨਹੀਂ ਵੀ ਕਰ ਸਕਦੇ ਹਨ।
✗ 2. ਕੁਝ VoIP ਸੇਵਾਵਾਂ ਉਹ ਵਿਸ਼ੇਸ਼ਤਾਵਾਂ ਅਤੇ ਸੇਵਾਵਾਂ ਪ੍ਰਦਾਨ ਕਰਦੀਆਂ ਹਨ ਜੋ ਰਵਾਇਤੀ ਫ਼ੋਨ ਨਾਲ ਉਪਲਬਧ ਨਹੀਂ ਹਨ।
✗ 3. VoIP ਫ਼ੀਚਰ ਨਾਲ ਅਸੀਂ ਰਵਾਇਤੀ ਟੈਲੀਫੋਨ ਲਾਈਨ ਲਈ ਭੁਗਤਾਨ ਕਰਨ ਤੋਂ ਬਚ ਸਕਦੇ ਹਾਂ।
✗ 4. VoIP ਫ਼ੀਚਰ ਨਾਲ ਅਸੀਂ ਬ੍ਰਾਡਬੈਂਡ ਕਨੈਕਸ਼ਨ ਲਈ ਭੁਗਤਾਨ ਕਰਨ ਤੋਂ ਬਚ ਸਕਦੇ ਹਾਂ।

Question ID : **630680247761**
Option 1 ID : **630680961254**
Option 2 ID : **630680961251**
Option 3 ID : **630680961253**
Option 4 ID : **630680961252**
Status : **Answered**
Chosen Option : **2**

Q.62 ਹੇਠਾਂ ਦਿੱਤਿਆਂ ਵਿੱਚੋਂ ਕਿਹੜੇ ਸਟੋਰੇਜ ਡਿਵਾਇਸ ਵਿੱਚ ਐਲੂਮੀਨੀਅਮ ਜਾਂ ਕੱਚ ਦੀ ਬਣੀਆਂ ਪਲੇਟਾਂ ਹੁੰਦੀਆਂ ਹਨ ਜਿਨ੍ਹਾਂ 'ਤੇ ਚੁੰਬਕੀ ਸਮੱਗਰੀ ਦੀ ਪਰਤ ਚੜੀ ਹੁੰਦੀ ਹੈ?

Ans
✗ 1. DVD
✗ 2. ਮੈਗਨੈਟਿਕ ਟੇਪ
✗ 3. ਕੋਮਪੈਕਟ ਡਿਸਕ
✓ 4. ਹਾਰਡ ਡਿਸਕ

Question ID : **630680247739**
Option 1 ID : **630680961163**
Option 2 ID : **630680961164**
Option 3 ID : **630680961165**
Option 4 ID : **630680961166**
Status : **Answered**
Chosen Option : **2**

DAILY JOB ALERT ਪੰਜਾਬ

Q.63 MS-Excel ਵਿੱਚ 21ਵੀਂ ਰੋਅ ਅਤੇ 10ਵੇਂ ਕਾਲਮ ਦੇ ਇੰਟਰਸੈਕਸ਼ਨ 'ਤੇ ਸੈਲ ਦਾ ਐਡਰੈਸ ਹੈ:

Ans
✔ 1. J21
✘ 2. 21J
✘ 3. T21
✘ 4. 21T

Question ID : **630680247746**
Option 1 ID : **630680961191**
Option 2 ID : **630680961192**
Option 3 ID : **630680961194**
Option 4 ID : **630680961193**
Status : **Not Answered**
Chosen Option : **--**

Q.64 ਹੇਠਾਂ ਦਿੱਤਿਆਂ ਵਿੱਚੋਂ ਕਿਹੜਾ ਇੱਕ ਸਿੰਗਲ ਯੂਜ਼ਰ ਕੰਪਿਊਟਰ ਸਿਸਟਮ ਹੈ ਜਿਸ ਵਿੱਚ ਦਰਮਿਆਨੇ ਦਰਜੇ ਦਾ ਸ਼ਕਤੀਸ਼ਾਲੀ ਮਾਈਕ੍ਰੋਪ੍ਰੋਸੈਸਰ ਹੁੰਦਾ ਹੈ?

Ans
✔ 1. ਪਰਸਨਲ ਕੰਪਿਊਟਰ
✘ 2. ਸੁਪਰਕੰਪਿਊਟਰ
✘ 3. ਮਿੰਨੀ ਕੰਪਿਊਟਰ
✘ 4. ਮੇਨਫਰੇਮ ਕੰਪਿਊਟਰ

Question ID : **630680247738**
Option 1 ID : **630680961159**
Option 2 ID : **630680961162**
Option 3 ID : **630680961160**
Option 4 ID : **630680961161**
Status : **Answered**
Chosen Option : **3**

Q.65 ਹੇਠਾਂ ਦਿੱਤਿਆਂ ਵਿੱਚੋਂ ਕਿਹੜਾ ਇੱਕ ਵੈਧ, ਯੂਜ਼ਰ ਕੰਪਿਊਟਰ ਇੰਟਰਫੇਸ ਨਹੀਂ ਹੈ?

Ans
✘ 1. ਕਮਾਂਡ ਲਾਈਨ ਇੰਟਰਫੇਸ
✘ 2. ਗ੍ਰਾਫਿਕਲ ਯੂਜ਼ਰ ਇੰਟਰਫੇਸ
✔ 3. ਟਾਸਕ ਯੂਜ਼ਰ ਇੰਟਰਫੇਸ
✘ 4. ਵੋਇਸ ਯੂਜ਼ਰ ਇੰਟਰਫੇਸ

Question ID : **630680247740**
Option 1 ID : **630680961170**
Option 2 ID : **630680961167**
Option 3 ID : **630680961168**
Option 4 ID : **630680961169**
Status : **Answered**
Chosen Option : **3**

Website - www.dailyjobalert.in

Q.66 ਪਹਿਚਾਣ ਕਰੋ ਕਿ ਹੇਠਾਂ ਦਿੱਤਿਆਂ ਵਿੱਚੋਂ ਕਿਹੜਾ ਕਥਨ ਸਹੀ ਜਾਂ ਗਲਤ ਹੈ।

I.ਇੰਟਰਨੈਟ, ਮੈਟਰੋਪੋਲੀਟਨ ਏਰੀਆ ਨੈਟਵਰਕ (MAN) ਦੀ ਸਭ ਤੋਂ ਪ੍ਰਸਿੱਧ ਉਦਾਹਰਣ ਹੈ।
II.HTML ਵਿੱਚ ਲਿਖੇ ਹੋਏ ਵੈਬਪੇਜ, ਹਾਈਪਰ ਲਿੰਕਾਂ ਨੂੰ ਸਪੋਰਟ ਨਹੀਂ ਕਰਦੇ ਹਨ।

Ans
1. I - ਗਲਤ, II – ਸਹੀ
2. I - ਗਲਤ, II – ਗਲਤ ✔
3. I - ਸਹੀ, II – ਸਹੀ
4. I - ਸਹੀ, II – ਗਲਤ

Question ID : **630680247752**
Option 1 ID : **630680961216**
Option 2 ID : **630680961218**
Option 3 ID : **630680961217**
Option 4 ID : **630680961215**
Status : **Not Answered**
Chosen Option : **--**

Q.67 ਹੇਠਾਂ ਦਿੱਤਿਆਂ ਵਿੱਚੋਂ ਕਿਹੜਾ, ਇੰਟਰਨੈਟ ਆਰਕੀਟੈਕਚਰ ਵਿੱਚ ਹਾਈ-ਸਪੀਡ ਲਾਈਨਾਂ ਦੇ ਨਾਲ ਨੈਟਵਰਕ ਐਕਸੈਸ ਪੁਆਇੰਟਸ 'ਤੇ ਬੈਕਬੋਨਜ਼ ਭਾਵ ਫਾਈਬਰ ਆਪਟੀਕ ਟਰੰਕ ਲਾਈਨਾਂ ਨਾਲ ਜੁੜੇ ਹਨ?

Ans
1. ਡੋਮੇਨ ਨੇਮ ਸਰਵਰ
2. ਨਿਊਜ਼ ਗਰੁੱਪਸ
3. ਸੋਸ਼ਲ ਨੈਟਵਰਕਸ
4. ਇੰਟਰਨੈਟ ਸਰਵਿਸ ਪ੍ਰੋਵਾਈਡਰਜ਼ ✔

Question ID : **630680247753**
Option 1 ID : **630680961220**
Option 2 ID : **630680961222**
Option 3 ID : **630680961221**
Option 4 ID : **630680961219**
Status : **Answered**
Chosen Option : **1**

Q.68 ਹੇਠਾਂ ਦਿੱਤੇ ਸਰਵਰਾਂ ਵਿੱਚੋਂ ਕਿਹੜਾ ਸਰਵਰ, WWW ਦੇ ਸੰਦਰਭ ਵਿੱਚ, ਗਾਹਕਾਂ ਨੂੰ ਵੈਬ ਸਮੱਗਰੀ ਪ੍ਰਦਾਨ ਕਰਨ 'ਤੇ ਕੇਂਦਰਿਤ ਹੈ?

Ans
1. ਈ-ਮੇਲ ਸਰਵਰ
2. ਡੇਟਾਬੇਸ ਸਰਵਰ
3. DNS ਸਰਵਰ
4. ਵੈਬ ਸਰਵਰ ✔

Question ID : **630680247754**
Option 1 ID : **630680961225**
Option 2 ID : **630680961223**
Option 3 ID : **630680961226**
Option 4 ID : **630680961224**
Status : **Answered**
Chosen Option : **4**

DAILY JOB ALERT ਪੰਜਾਬ

Q.69 MS-Power Point 2019 ਵਿੱਚ ਇੱਕ ਪਰੈਜ਼ਨਟੇਸ਼ਨ ਵਿੱਚ ਵੀਡੀਓ ਜਾਂ ਆਡੀਓ ਸ਼ਾਮਲ ਕਰਨ ਲਈ ਇਨਸਰਟ ਟੈਬ ਦੇ ਹੇਠਾਂ ਦਿੱਤੇ ਗਰੁੱਪਾਂ ਵਿੱਚੋਂ ਕਿਹੜੇ ਗਰੁੱਪ ਦੀ ਵਰਤੋਂ ਕੀਤੀ ਜਾ ਸਕਦੀ ਹੈ?

Ans
✗ 1. ਐਡ-ਇਨਜ਼
✓ 2. ਮੀਡੀਆ
✗ 3. ਕੈਮੀਓ
✗ 4. ਸਿੰਬਲਜ਼

Question ID : **630680247750**
Option 1 ID : **630680961210**
Option 2 ID : **630680961208**
Option 3 ID : **630680961207**
Option 4 ID : **630680961209**
Status : **Answered**
Chosen Option : **1**

Q.70 ਇਹਨਾਂ ਵਿੱਚੋਂ ਕਿਹੜਾ ਕਿਸੇ ਕੰਪਨੀ ਦੇ ਉਤਪਾਦਾਂ ਦੀ ਮਾਰਕੀਟਿੰਗ ਕਰਨ ਲਈ ਸੋਸ਼ਲ ਨੈਟਵਰਕਸ ਦੀ ਵਰਤੋਂ ਦਾ ਹਵਾਲਾ ਦਿੰਦਾ ਹੈ, ਜਿਵੇਂ ਕਿ ਫੇਸਬੁੱਕ ਜਾਂ ਇੰਸਟਾਗ੍ਰਾਮ ਇਸ਼ਤਿਹਾਰਾਂ ਰਾਹੀਂ, ਇਨਫਲਿਊਏਂਸਰ ਦੀ ਵਰਤੋਂ ਕਰਕੇ, ਜਾਂ ਗਾਹਕਾਂ ਨਾਲ ਜੁੜਨ ਲਈ ਔਨਲਾਈਨ ਮੌਜੂਦਗੀ ਬਣਾਕੇ?

Ans
✗ 1. ਸੋਸ਼ਲ ਇੰਜੀਨੀਅਰਿੰਗ
✓ 2. ਸੋਸ਼ਲ ਮੀਡੀਆ ਮਾਰਕਟਿੰਗ
✗ 3. ਸੋਸ਼ਲ ਮੀਡੀਆ ਸਰਚਿੰਗ
✗ 4. ਡਿਜੀਟਲ ਵਾਲੇਟ

Question ID : **630680247759**
Option 1 ID : **630680961243**
Option 2 ID : **630680961244**
Option 3 ID : **630680961245**
Option 4 ID : **630680961246**
Status : **Answered**
Chosen Option : **2**

Q.71 ਹੇਠਾਂ ਦਿੱਤਿਆਂ ਵਿੱਚੋਂ ਕਿਹੜਾ ਸੋਸ਼ਲ ਮੀਡੀਆ ਪਲੇਟਫਾਰਮ ਦੀ ਇੱਕ ਉਦਾਹਰਣ ਨਹੀਂ ਹੈ?

Ans
✗ 1. ਸਨੈਪਚੈਟ (Snapchat)
✗ 2. ਡੋਯਿਨ (Douyin)
✗ 3. ਵੀਚੈਟ (WeChat)
✓ 4. ਯਾਨਡੈਕਸ (Yandex)

Question ID : **630680247758**
Option 1 ID : **630680961240**
Option 2 ID : **630680961239**
Option 3 ID : **630680961241**
Option 4 ID : **630680961242**
Status : **Answered**
Chosen Option : **3**

DAILY JOB Alert ਪੰਜਾਬ

Q.72 ਹੇਠਾਂ ਦਿੱਤਿਆਂ ਵਿੱਚੋਂ ਕਿਹੜਾ ਡੇਟਾ ਇਨਸਕ੍ਰਿਪਸ਼ਨ ਏਲਗੋਰਿਦਮ AES ਦਾ ਪੂਰਾ ਨਾਮ ਹੈ?

Ans
- ✗ 1. ਆਰਕਾਈਵਡ ਇਨਸਕ੍ਰਿਪਸ਼ਨ ਸਟੈਂਡਰਡ (Archived Encryption Standard)
- ✗ 2. ਅਸਿੰਕ੍ਰਨਸ ਇਨਕ੍ਰਿਪਸ਼ਨ ਸਟੈਂਡਰਡ (Asynchronous Encryption Standard)
- ✗ 3. ਅਸਿੰਕ੍ਰਨਸ ਇਨਕ੍ਰਿਪਸ਼ਨ ਸਟੱਕਚਰ (Asynchronous Encryption Structure)
- ✓ 4. ਐਡਵਾਂਸਡ ਇਨਕ੍ਰਿਪਸ਼ਨ ਸਟੈਂਡਰਡ (Advanced Encryption Standard)

Question ID : **630680247764**
Option 1 ID : **630680961266**
Option 2 ID : **630680961264**
Option 3 ID : **630680961265**
Option 4 ID : **630680961263**
Status : **Answered**
Chosen Option : **3**

Q.73 MS-Excel 2016 ਵਿੱਚ ਹੇਠਾਂ ਦਿੱਤਿਆਂ ਵਿੱਚੋਂ ਕਿਹੜਾ ਇੱਕ ਵੈਧ ਚਾਰਟ ਐਲੀਮੈਂਟ ਨਹੀਂ ਹੈ?

Ans
- ✗ 1. ਡੇਟਾ ਟੇਬਲ
- ✓ 2. ਡੇਟਾ ਬਾਰਜ਼
- ✗ 3. ਲੈਜੇਂਡ
- ✗ 4. ਡੇਟਾ ਲੇਬਲਜ਼

Question ID : **630680247747**
Option 1 ID : **630680961197**
Option 2 ID : **630680961198**
Option 3 ID : **630680961195**
Option 4 ID : **630680961196**
Status : **Answered**
Chosen Option : **4**

Q.74 ਸਾਲ 2022 ਵਿੱਚ ਮੋਜ਼ਿਲਾ ਫਾਉਂਡੇਸ਼ਨ ਦੁਆਰਾ ਵਿਕਸਿਤ ਕੀਤਾ ਗਿਆ ਇੱਕ ਵੈਬ ਬਰਾਊਜ਼ਿੰਗ ਸਾਫਟਵੇਅਰ ਕਿਹੜਾ ਹੈ?

Ans
- ✗ 1. ਕਰੋਮ (Chrome)
- ✗ 2. ਐਜ (Edge)
- ✓ 3. ਫਾਇਰ ਫਾਕਸ (Firefox)
- ✗ 4. ਓਪੇਰਾ (Opera)

Question ID : **630680247755**
Option 1 ID : **630680961227**
Option 2 ID : **630680961230**
Option 3 ID : **630680961229**
Option 4 ID : **630680961228**
Status : **Not Answered**
Chosen Option : **--**

DAILY JOB Alert ਪੰਜਾਬ

Q.75 ਨਿਮਨਲਿਖਤ ਵਿੱਚੋਂ ਕਿਹੜਾ ਧੋਖਾਧੜੀ ਵਾਲੀਆਂ ਈਮੇਲਾਂ ਭੇਜਣ ਦੇ ਅਭਿਆਸ ਦਾ ਹਵਾਲਾ ਦਿੰਦਾ ਹੈ ਜੋ ਨਾਮਵਰ ਸਰੋਤਾਂ ਦੁਆਰਾ ਭੇਜੀਆਂ ਈਮੇਲਾਂ ਵਰਗੀਆਂ ਹੁੰਦੀਆਂ ਹਨ?

Ans
✗ 1. ਮਾਲਵੇਅਰ
✗ 2. ਸੋਸ਼ਲ ਇੰਜੀਨੀਅਰਿੰਗ
✗ 3. ਰੈਨਸਮਵੇਅਰ
✓ 4. ਫਿਸ਼ਿੰਗ

Question ID : **630680247766**
Option 1 ID : **630680961272**
Option 2 ID : **630680961271**
Option 3 ID : **630680961274**
Option 4 ID : **630680961273**
Status : **Answered**
Chosen Option : **2**

Q.76 ਹੇਠਾਂ ਦਿੱਤੇ ਵਿੱਚੋਂ ਕਿਹੜਾ Google ਤੋਂ ਐਪਾਂ ਦਾ ਇੱਕ ਗਰੁਪ (ਸੂਈਟ) ਹੈ ਜੋ ਸਹਿ-ਕਰਮਚਾਰੀਆਂ ਨਾਲ ਸੰਚਾਰ ਕਰਨ ਅਤੇ ਸਹਿਯੋਗ ਕਰਨ, ਫ਼ਾਈਲਾਂ ਸਟੋਰ ਕਰਨ ਅਤੇ ਡੇਟਾ ਪ੍ਰਬੰਧਨ ਲਈ ਕਈ ਟੂਲ ਪੇਸ਼ ਕਰਦਾ ਹੈ?

Ans
✗ 1. ਗੂਗਲ ਡੋਕਸ
✗ 2. ਗੂਗਲ ਵਨ
✓ 3. ਗੂਗਲ ਵਰਕਸਪੇਸ
✗ 4. ਗੂਗਲ ਮੈਪਸ

Question ID : **630680247763**
Option 1 ID : **630680961260**
Option 2 ID : **630680961262**
Option 3 ID : **630680961261**
Option 4 ID : **630680961259**
Status : **Not Answered**
Chosen Option : **--**

Q.77 ਸੈੱਲ C1 ਅਤੇ D1 ਦੇ ਕੰਟੈਂਟ ਨੂੰ ਕ੍ਰਮਵਾਰ 8 ਅਤੇ 3 ਮੰਨਦੇ ਹੋਏ, ਫਾਰਮੂਲਾ '=C1^D1' ਵਾਲੇ ਸੈੱਲ ਦਾ ਡਿਸਪਲੇ ਮੁੱਲ ਹੈ:

Ans
✗ 1. 57
✓ 2. 512
✗ 3. 564
✗ 4. 581

Question ID : **630680247748**
Option 1 ID : **630680961202**
Option 2 ID : **630680961199**
Option 3 ID : **630680961201**
Option 4 ID : **630680961200**
Status : **Not Answered**
Chosen Option : **--**

DAILY JOB ALERT ਪੰਜਾਬ

Q.78 MS-Power Point 2016 ਵਿੱਚ ਪਰੈਜ਼ਨਟੇਸ਼ਨ ਦੌਰਾਨ ਅਗਲੀ ਸਲਾਈਡ 'ਤੇ ਜਾਣ ਲਈ ਹੇਠ ਲਿਖੀਆਂ ਵਿੱਚੋਂ ਕਿਹੜੀਆਂ ਕੁੰਜੀਆਂ (ਕੀ) ਦੀ ਵਰਤੋਂ ਕੀਤੀ ਜਾ ਸਕਦੀ ਹੈ?

Ans
1. P
2. N
3. R
4. S

Question ID : **630680247749**
Option 1 ID : **630680961204**
Option 2 ID : **630680961205**
Option 3 ID : **630680961203**
Option 4 ID : **630680961206**
Status : **Answered**
Chosen Option : **2**

Q.79 ਹੇਠਾਂ ਦਿੱਤਿਆਂ ਵਿੱਚੋਂ ਕਿਹੜਾ ਵਿਕਲਪ MS-Word 2019 ਦੇ ਟੇਬਲ ਵਿੱਚ ਵਿਸ਼ੇਸ਼ ਬਾਰਡਰਾਂ ਦੀ ਫੋਰਮੈਟਿੰਗ ਅਪਲਾਈ ਕਰਨ ਲਈ ਵਰਤਿਆ ਜਾਂਦਾ ਹੈ?

Ans
1. ਬਾਰਡਰ ਪੇਂਟਰ
2. ਡਰਾਅ ਪੇਂਟਰ
3. ਫੋਰਮੈਟ ਪੇਂਟਰ
4. ਫੋਰਮੈਟ ਬਾਰਡਰਜ਼

Question ID : **630680247743**
Option 1 ID : **630680961179**
Option 2 ID : **630680961181**
Option 3 ID : **630680961180**
Option 4 ID : **630680961182**
Status : **Not Answered**
Chosen Option : **--**

Q.80 1985 ਵਿੱਚ ਮਾਈਕ੍ਰੋਸਾਫ਼ਟ ਨੇ ਕਿਹੜੇ ਓਪਰੇਟਿੰਗ ਸਿਸਟਮ ਦੀ ਸ਼ੁਰੂਆਤ ਕੀਤੀ ਸੀ ਜਿਸ ਨਾਲ ਗ੍ਰਾਫਿਕਲ ਯੂਜ਼ਰ ਇੰਟਰਫੇਸ ਰਾਹੀ ਮਲਟੀਟਾਸਕਿੰਗ ਕੀਤੀ ਜਾਂਦੀ ਹੈ?

Ans
1. ਯੂਨਿਕਸ
2. ਲਾਈਨਕਸ
3. macOS
4. ਵਿੰਡੋਜ਼

Question ID : **630680247737**
Option 1 ID : **630680961157**
Option 2 ID : **630680961158**
Option 3 ID : **630680961156**
Option 4 ID : **630680961155**
Status : **Answered**
Chosen Option : **4**

Section : **English Language**

Website - www.dailyjobalert.in

Q.81 Select the option that can be used as a one-word substitute for the given group of words/phrase.
A person who spends money imprudently in an extravagant way

Ans
✗ 1. parsimony

✓ 2. Spendthrift

✗ 3. Penitence

✗ 4. Stoicism

Question ID : **63068058524**
Option 1 ID : **630680225742**
Option 2 ID : **630680225743**
Option 3 ID : **630680225745**
Option 4 ID : **630680225744**
Status : **Answered**
Chosen Option : **3**

Q.82 Select the sentence in which all the words are spelt correctly.

Ans
✗ 1. The ancient texts contain hynms and philosophical treatises set down by the Aryans from the second millennium before Christ.

✓ 2. The ancient texts contain hymns and philosophical treatises set down by the Aryans from the second millennium before Christ.

✗ 3. The ancient texts contain himns and philosophical treatises set down by the Aryans from the second millennium before Christ.

✗ 4. The ancient texts contain hyms and philosophical treatises set down by the Aryans from the second millennium before Christ.

Question ID : **630680131760**
Option 1 ID : **630680510250**
Option 2 ID : **630680510252**
Option 3 ID : **630680510253**
Option 4 ID : **630680510251**
Status : **Answered**
Chosen Option : **2**

Q.83 Select the most appropriate ANTONYM of the underlined word.

The demand for <u>imported</u> goods has become less due to the pandemic situation.

Ans
✗ 1. Impact

✗ 2. Precipitated

✓ 3. Exported

✗ 4. Impacted

Question ID : **63068067225**
Option 1 ID : **630680259731**
Option 2 ID : **630680259733**
Option 3 ID : **630680259732**
Option 4 ID : **630680259730**
Status : **Answered**
Chosen Option : **1**

Website - www.dailyjobalert.in

Q.84 **The following sentence has been split into four segments. Identify the segment that contains a grammatical error.**

Parents who embraces / a travel-filled lifestyle / believe their children / have much to gain.

Ans
✗ 1. a travel-filled lifestyle

✗ 2. believe their children

✗ 3. have much to gain

✓ 4. Parents who embraces

Question ID : **630680129262**
Option 1 ID : **630680500675**
Option 2 ID : **630680500676**
Option 3 ID : **630680500677**
Option 4 ID : **630680500674**
Status : **Answered**
Chosen Option : **1**

Q.85 **"ਮੈਨੂੰ ਤੁਹਾਡਾ ਸੁਨੇਹਾ ਮਿਲ ਗਿਆ ਹੈ।" ਇਸ ਵਾਕ ਦਾ ਅੰਗਰੇਜ਼ੀ ਅਨੁਵਾਦ ਹੈ:-**

Ans
✗ 1. I have receive your message.

✗ 2. I had received your message.

✓ 3. I have received your message.

✗ 4. I am receive to your message.

Question ID : **630680248098**
Option 1 ID : **630680962602**
Option 2 ID : **630680962599**
Option 3 ID : **630680962600**
Option 4 ID : **630680962601**
Status : **Answered**
Chosen Option : **4**

Q.86 **Select the most appropriate option to fill in the blank.**

My daughter loves _____tales full of magic and adventure.

Ans
✗ 1. fury

✗ 2. ferry

✗ 3. fiery

✓ 4. fairy

Question ID : **630680129338**
Option 1 ID : **630680500973**
Option 2 ID : **630680500972**
Option 3 ID : **630680500971**
Option 4 ID : **630680500970**
Status : **Not Answered**
Chosen Option : **--**

Website - www.dailyjobalert.in

Q.87 **Parts of a sentence are given below in jumbled order. Arrange the parts in the correct order to form a meaningful sentence.**
A.wealth, as elders say
B. any health concerns
C.never neglect
D.we should
E.as health is

Ans
✗ 1. E, A, B, C, D

✗ 2. B, E, A, C, D

✓ 3. D, C, B, E, A

✗ 4. D, C, B, A, E

Question ID : **630680113206**
Option 1 ID : **630680438388**
Option 2 ID : **630680438386**
Option 3 ID : **630680438387**
Option 4 ID : **630680438389**
Status : **Answered**
Chosen Option : **3**

Q.88 **In the following sentence, the form of the verb has some error. Identify the error and select the correct sentence from the options.**
I came to know that her mother and father have died ten years ago.

Ans
✓ 1. I came to know that her mother and father died ten years ago.

✗ 2. I came to know that her mother and father has died ten years ago.

✗ 3. I came to know that her mother and father have been dead ten years ago.

✗ 4. I come to know that her mother and father have died ten years ago.

Question ID : **630680166604**
Option 1 ID : **630680645331**
Option 2 ID : **630680645329**
Option 3 ID : **630680645330**
Option 4 ID : **630680645328**
Status : **Answered**
Chosen Option : **3**

Q.89 **Select the most appropriate ANTONYM of the underlined word.**

Theodora, my beloved – my only <u>soporific</u> – how sweet of you to tuck me into bed.

Ans
✗ 1. Hypnotic

✗ 2. Envoy

✓ 3. Stimulant

✗ 4. Expectorant

Question ID : **630680124998**
Option 1 ID : **630680484794**
Option 2 ID : **630680484796**
Option 3 ID : **630680484795**
Option 4 ID : **630680484797**
Status : **Answered**
Chosen Option : **1**

Website - www.dailyjobalert.in

Q.90 Select the most appropriate option from the given alternatives to fill in the blanks.
Benedict's death on Saturday brought to (1) _____ end of a decade of (2) _____ former and present Pope living side by side in the Vatican.
Blank 1: A. these B. a C. both D. an
Blank 2: A. the B. an C. any D. each

Ans
✗ 1. (1) C and (2) C

✗ 2. (1) B and (2) D

✗ 3. 1) D and (2) C

✓ 4. (1) D and (2) A

Question ID : **630680152246**
Option 1 ID : **630680589030**
Option 2 ID : **630680589028**
Option 3 ID : **630680589029**
Option 4 ID : **630680589031**
Status : **Answered**
Chosen Option : **2**

Q.91 Sentences of a paragraph are given below in jumbled order. Arrange the sentences in the correct order to form a meaningful and coherent paragraph.

1.Most often this burden affects the entire food chain.
2.Production of variety of foods leads to pressure on environment.
3.Food is obtained from animals and plants to satisfy the needs.
4.Increasing population demands manifold food requirement.

Ans
✗ 1. 3,4,2,1

✗ 2. 4,1,2,3

✓ 3. 4,3,2,1

✗ 4. 4,2,3,1

Question ID : **630680116353**
Option 1 ID : **630680450711**
Option 2 ID : **630680450713**
Option 3 ID : **630680450710**
Option 4 ID : **630680450712**
Status : **Answered**
Chosen Option : **1**

Website - www.dailyjobalert.in

Q.92 Select the most appropriate ANTONYM of the following word.

Transgress

Ans
✗ 1. Traduce

✗ 2. Trespass

✗ 3. Infringe

✓ 4. Obey

Question ID : **63068069808**
Option 1 ID : **630680269891**
Option 2 ID : **630680269890**
Option 3 ID : **630680269893**
Option 4 ID : **630680269892**
Status : **Answered**
Chosen Option : **1**

Q.93 Select the option that can be used as a one-word substitute for the given group of words.

A person, especially an entertainer, who can make their voice appear to come from somewhere else, typically a dummy of a person or animal.

Ans
✗ 1. Mimic

✗ 2. Violinist

✓ 3. Ventriloquist

✗ 4. Coach

DAILY JOB Alert

Question ID : **630680129754**
Option 1 ID : **630680502614**
Option 2 ID : **630680502616**
Option 3 ID : **630680502615**
Option 4 ID : **630680502617**
Status : **Answered**
Chosen Option : **4**

Q.94 Select the most appropriate collocation of words from the given options.
Hey, could you _____ on my child while I go and get the order?

Ans
✗ 1. keep up an eye

✗ 2. keep on eye

✗ 3. keep eye

✓ 4. keep an eye

Question ID : **630680114513**
Option 1 ID : **630680443443**
Option 2 ID : **630680443444**
Option 3 ID : **630680443445**
Option 4 ID : **630680443442**
Status : **Answered**
Chosen Option : **1**

Q.95 The following sentence has been divided into parts. One of them may contain an error. Select the part that contains the error from the given options. If you don't find any error, mark 'No error' as your answer.
Since you are my close friend,/ I am answerable with your father/ for your mistakes.

Ans

✗ 1. Since you are my close friend

✓ 2. I am answerable with your father

✗ 3. For your mistakes

✗ 4. No error

Question ID : **630680176547**
Option 1 ID : **630680684412**
Option 2 ID : **630680684413**
Option 3 ID : **630680684414**
Option 4 ID : **630680684415**
Status : **Answered**
Chosen Option : **1**

DAILY JOB Alert ਪੰਜਾਬ

Comprehension:

Read the given passage and answer the questions that follow.
We cannot change the past, but we can reshape the future. Young people have the opportunity to create a happier, better future. – Dalai Lama
People occasionally become fixated on the past. Once they start thinking about it, they hardly think about anything else. Such concentration is not conducive to a better future. It's comparable to trying to move forward in their vehicle while focusing just on the rear-view mirror.
These folks frequently ponder why accidents keep happening to them and why the universe detests them so much. Instead of moving forward as they pull away from their most recent accident, they take another look at it in the rear-view mirror. They must put the past behind them and focus on the future.
It was kind of ridiculous to use that example because most people are aware of the dangers of reckless driving. However, many people conduct their lives in such a manner. They'll continue to do this because they've done it in the past. It then turns into a self-fulfilling prophecy. They might have a different future if they could let go of the past.
You may change the future by having the belief that it can be different from the past. You will be stuck if you don't think you can change and assume things will stay the same in the future. After taking lessons from the past, let it go. If not, it will serve as an anchor, keeping you immobile. Keep doing what you're doing if your past is filled with wonderful experiences and you are pleased. Yes, experiment with new approaches to determine whether you can achieve your goals more or less effectively. Then, make the necessary changes. I assume that's how life works and how one improves at anything.
But if you're not content with the way things are going, I suggest you take a minute to reflect on your history before making a strategy to let it go. Your future is not governed by your past. It might affect it, but it is not under its control. Make different decisions if you desire a different future.
You have choices and options. Your future will be determined by these decisions, just as your past decisions have affected the past. Better decisions typically lead to better outcomes. You'll keep getting the same outcomes if you keep making the same decisions, therefore something may need to change. Learning from the mistakes of others is another strategy that might be beneficial. How did we older people mess everything up? What novel concepts are you eager to try? If it turns out that the elderly people didn't want to do it for a good reason, how can you take a little initial step so you can do it in a way that will cause the least amount of harm?
What actions have your parents, as well as other friends and family members take, that you would like to avoid taking yourself, even if all you are doing is managing your own life? What chances did they pass up that you want to be certain to try? What will you keep doing and what will you change?
Think back on your past experiences and knowledge. Based on what you know today, what advice would you give yourself? Do you already heed that counsel, or are you planning to make a mistake tomorrow? Learn, modify, try again, and so on. Life is inherently like that. Your decisions will either push you forward or take you backwards in time. It is much simpler to appreciate the value of learning from your mistakes and acting differently the next time when it is phrased that way, isn't it? I think I understand it very well, at least. It is what it is, the past. It cannot be changed. There's a chance we don't know everything, and new things are always being discovered. But you generally know what you did well in the recent past and what you should not have done or should have done differently.
It's never too late to build a better and brighter future for yourself and the people you care about passionately, even if you're not young. A choice today will determine the future. Take lessons from the past and move forward to change the course of your life.

SubQuestion No : 96

Q.96 Identify the tone of the passage.

Ans
✗ 1. Neutral
✗ 2. Assertive
✓ 3. Optimistic
✗ 4. Humorous

Question ID : **630680204223**
Option 1 ID : **630680791980**
Option 2 ID : **630680791981**
Option 3 ID : **630680791979**
Option 4 ID : **630680791982**
Status : **Answered**
Chosen Option : **4**

Website - www.dailyjobalert.in

Comprehension:

Read the given passage and answer the questions that follow.
We cannot change the past, but we can reshape the future. Young people have the opportunity to create a happier, better future. – Dalai Lama
People occasionally become fixated on the past. Once they start thinking about it, they hardly think about anything else. Such concentration is not conducive to a better future. It's comparable to trying to move forward in their vehicle while focusing just on the rear-view mirror.
These folks frequently ponder why accidents keep happening to them and why the universe detests them so much. Instead of moving forward as they pull away from their most recent accident, they take another look at it in the rear-view mirror. They must put the past behind them and focus on the future.
It was kind of ridiculous to use that example because most people are aware of the dangers of reckless driving. However, many people conduct their lives in such a manner. They'll continue to do this because they've done it in the past. It then turns into a self-fulfilling prophecy. They might have a different future if they could let go of the past.
You may change the future by having the belief that it can be different from the past. You will be stuck if you don't think you can change and assume things will stay the same in the future. After taking lessons from the past, let it go. If not, it will serve as an anchor, keeping you immobile. Keep doing what you're doing if your past is filled with wonderful experiences and you are pleased. Yes, experiment with new approaches to determine whether you can achieve your goals more or less effectively. Then, make the necessary changes. I assume that's how life works and how one improves at anything.
But if you're not content with the way things are going, I suggest you take a minute to reflect on your history before making a strategy to let it go. Your future is not governed by your past. It might affect it, but it is not under its control. Make different decisions if you desire a different future.
You have choices and options. Your future will be determined by these decisions, just as your past decisions have affected the past. Better decisions typically lead to better outcomes. You'll keep getting the same outcomes if you keep making the same decisions, therefore something may need to change. Learning from the mistakes of others is another strategy that might be beneficial. How did we older people mess everything up? What novel concepts are you eager to try? If it turns out that the elderly people didn't want to do it for a good reason, how can you take a little initial step so you can do it in a way that will cause the least amount of harm?
What actions have your parents, as well as other friends and family members take, that you would like to avoid taking yourself, even if all you are doing is managing your own life? What chances did they pass up that you want to be certain to try? What will you keep doing and what will you change?
Think back on your past experiences and knowledge. Based on what you know today, what advice would you give yourself? Do you already heed that counsel, or are you planning to make a mistake tomorrow? Learn, modify, try again, and so on. Life is inherently like that. Your decisions will either push you forward or take you backwards in time. It is much simpler to appreciate the value of learning from your mistakes and acting differently the next time when it is phrased that way, isn't it? I think I understand it very well, at least. It is what it is, the past. It cannot be changed. There's a chance we don't know everything, and new things are always being discovered. But you generally know what you did well in the recent past and what you should not have done or should have done differently.
It's never too late to build a better and brighter future for yourself and the people you care about passionately, even if you're not young. A choice today will determine the future. Take lessons from the past and move forward to change the course of your life.

SubQuestion No : 97

Q.97 What could be done to determine whether one can achieve his or her goals effectively?

Ans
✗ 1. Respect and be proud of your history.
✓ 2. Experiment with new approaches.
✗ 3. Moving away from the self-fulfilling prophecy.
✗ 4. Move forward in your vehicle.

Question ID : **630680204220**
Option 1 ID : **630680791970**
Option 2 ID : **630680791969**
Option 3 ID : **630680791967**
Option 4 ID : **630680791968**
Status : **Answered**
Chosen Option : **3**

Website - www.dailyjobalert.in

Comprehension:

Read the given passage and answer the questions that follow.
We cannot change the past, but we can reshape the future. Young people have the opportunity to create a happier, better future. – Dalai Lama
People occasionally become fixated on the past. Once they start thinking about it, they hardly think about anything else. Such concentration is not conducive to a better future. It's comparable to trying to move forward in their vehicle while focusing just on the rear-view mirror.
These folks frequently ponder why accidents keep happening to them and why the universe detests them so much. Instead of moving forward as they pull away from their most recent accident, they take another look at it in the rear-view mirror. They must put the past behind them and focus on the future.
It was kind of ridiculous to use that example because most people are aware of the dangers of reckless driving. However, many people conduct their lives in such a manner. They'll continue to do this because they've done it in the past. It then turns into a self-fulfilling prophecy. They might have a different future if they could let go of the past.
You may change the future by having the belief that it can be different from the past. You will be stuck if you don't think you can change and assume things will stay the same in the future. After taking lessons from the past, let it go. If not, it will serve as an anchor, keeping you immobile. Keep doing what you're doing if your past is filled with wonderful experiences and you are pleased. Yes, experiment with new approaches to determine whether you can achieve your goals more or less effectively. Then, make the necessary changes. I assume that's how life works and how one improves at anything.
But if you're not content with the way things are going, I suggest you take a minute to reflect on your history before making a strategy to let it go. Your future is not governed by your past. It might affect it, but it is not under its control. Make different decisions if you desire a different future.
You have choices and options. Your future will be determined by these decisions, just as your past decisions have affected the past. Better decisions typically lead to better outcomes. You'll keep getting the same outcomes if you keep making the same decisions, therefore something may need to change. Learning from the mistakes of others is another strategy that might be beneficial. How did we older people mess everything up? What novel concepts are you eager to try? If it turns out that the elderly people didn't want to do it for a good reason, how can you take a little initial step so you can do it in a way that will cause the least amount of harm?
What actions have your parents, as well as other friends and family members take, that you would like to avoid taking yourself, even if all you are doing is managing your own life? What chances did they pass up that you want to be certain to try? What will you keep doing and what will you change?
Think back on your past experiences and knowledge. Based on what you know today, what advice would you give yourself? Do you already heed that counsel, or are you planning to make a mistake tomorrow? Learn, modify, try again, and so on. Life is inherently like that. Your decisions will either push you forward or take you backwards in time. It is much simpler to appreciate the value of learning from your mistakes and acting differently the next time when it is phrased that way, isn't it? I think I understand it very well, at least. It is what it is, the past. It cannot be changed. There's a chance we don't know everything, and new things are always being discovered. But you generally know what you did well in the recent past and what you should not have done or should have done differently.
It's never too late to build a better and brighter future for yourself and the people you care about passionately, even if you're not young. A choice today will determine the future. Take lessons from the past and move forward to change the course of your life.

SubQuestion No : 98

Q.98 What makes a person immobile?

Ans
✗ 1. Assuming that things will remain the same in the future.
✗ 2. Assuming how life works and how one improves.
✓ 3. Thinking about the past lessons and not letting them go.
✗ 4. Reflect on one's history before making a strategy.

Question ID : **630680204221**
Option 1 ID : **630680791971**
Option 2 ID : **630680791972**
Option 3 ID : **630680791974**
Option 4 ID : **630680791973**
Status : **Answered**
Chosen Option : **3**

Website - www.dailyjobalert.in

Comprehension:

Read the given passage and answer the questions that follow.
We cannot change the past, but we can reshape the future. Young people have the opportunity to create a happier, better future. – Dalai Lama
People occasionally become fixated on the past. Once they start thinking about it, they hardly think about anything else. Such concentration is not conducive to a better future. It's comparable to trying to move forward in their vehicle while focusing just on the rear-view mirror.
These folks frequently ponder why accidents keep happening to them and why the universe detests them so much. Instead of moving forward as they pull away from their most recent accident, they take another look at it in the rear-view mirror. They must put the past behind them and focus on the future.
It was kind of ridiculous to use that example because most people are aware of the dangers of reckless driving. However, many people conduct their lives in such a manner. They'll continue to do this because they've done it in the past. It then turns into a self-fulfilling prophecy. They might have a different future if they could let go of the past.
You may change the future by having the belief that it can be different from the past. You will be stuck if you don't think you can change and assume things will stay the same in the future. After taking lessons from the past, let it go. If not, it will serve as an anchor, keeping you immobile. Keep doing what you're doing if your past is filled with wonderful experiences and you are pleased. Yes, experiment with new approaches to determine whether you can achieve your goals more or less effectively. Then, make the necessary changes. I assume that's how life works and how one improves at anything.
But if you're not content with the way things are going, I suggest you take a minute to reflect on your history before making a strategy to let it go. Your future is not governed by your past. It might affect it, but it is not under its control. Make different decisions if you desire a different future.
You have choices and options. Your future will be determined by these decisions, just as your past decisions have affected the past. Better decisions typically lead to better outcomes. You'll keep getting the same outcomes if you keep making the same decisions, therefore something may need to change. Learning from the mistakes of others is another strategy that might be beneficial. How did we older people mess everything up? What novel concepts are you eager to try? If it turns out that the elderly people didn't want to do it for a good reason, how can you take a little initial step so you can do it in a way that will cause the least amount of harm?
What actions have your parents, as well as other friends and family members take, that you would like to avoid taking yourself, even if all you are doing is managing your own life? What chances did they pass up that you want to be certain to try? What will you keep doing and what will you change?
Think back on your past experiences and knowledge. Based on what you know today, what advice would you give yourself? Do you already heed that counsel, or are you planning to make a mistake tomorrow? Learn, modify, try again, and so on. Life is inherently like that. Your decisions will either push you forward or take you backwards in time. It is much simpler to appreciate the value of learning from your mistakes and acting differently the next time when it is phrased that way, isn't it? I think I understand it very well, at least. It is what it is, the past. It cannot be changed. There's a chance we don't know everything, and new things are always being discovered. But you generally know what you did well in the recent past and what you should not have done or should have done differently.
It's never too late to build a better and brighter future for yourself and the people you care about passionately, even if you're not young. A choice today will determine the future. Take lessons from the past and move forward to change the course of your life.

SubQuestion No : 99

Q.99 What does the phrase 'focusing just on the rear-view mirror' indicate in the given passage?

Ans
✗ 1. Occasion
✗ 2. Reckless driving
✓ 3. Past
✗ 4. Self-fulfilling prophecy

Question ID : **630680204219**
Option 1 ID : **630680791963**
Option 2 ID : **630680791965**
Option 3 ID : **630680791964**
Option 4 ID : **630680791966**
Status : **Answered**
Chosen Option : **3**

Website - www.dailyjobalert.in

Comprehension:

Read the given passage and answer the questions that follow.
We cannot change the past, but we can reshape the future. Young people have the opportunity to create a happier, better future. – Dalai Lama
People occasionally become fixated on the past. Once they start thinking about it, they hardly think about anything else. Such concentration is not conducive to a better future. It's comparable to trying to move forward in their vehicle while focusing just on the rear-view mirror.
These folks frequently ponder why accidents keep happening to them and why the universe detests them so much. Instead of moving forward as they pull away from their most recent accident, they take another look at it in the rear-view mirror. They must put the past behind them and focus on the future.
It was kind of ridiculous to use that example because most people are aware of the dangers of reckless driving. However, many people conduct their lives in such a manner. They'll continue to do this because they've done it in the past. It then turns into a self-fulfilling prophecy. They might have a different future if they could let go of the past.
You may change the future by having the belief that it can be different from the past. You will be stuck if you don't think you can change and assume things will stay the same in the future. After taking lessons from the past, let it go. If not, it will serve as an anchor, keeping you immobile. Keep doing what you're doing if your past is filled with wonderful experiences and you are pleased. Yes, experiment with new approaches to determine whether you can achieve your goals more or less effectively. Then, make the necessary changes. I assume that's how life works and how one improves at anything.
But if you're not content with the way things are going, I suggest you take a minute to reflect on your history before making a strategy to let it go. Your future is not governed by your past. It might affect it, but it is not under its control. Make different decisions if you desire a different future.
You have choices and options. Your future will be determined by these decisions, just as your past decisions have affected the past. Better decisions typically lead to better outcomes. You'll keep getting the same outcomes if you keep making the same decisions, therefore something may need to change. Learning from the mistakes of others is another strategy that might be beneficial. How did we older people mess everything up? What novel concepts are you eager to try? If it turns out that the elderly people didn't want to do it for a good reason, how can you take a little initial step so you can do it in a way that will cause the least amount of harm?
What actions have your parents, as well as other friends and family members take, that you would like to avoid taking yourself, even if all you are doing is managing your own life? What chances did they pass up that you want to be certain to try? What will you keep doing and what will you change?
Think back on your past experiences and knowledge. Based on what you know today, what advice would you give yourself? Do you already heed that counsel, or are you planning to make a mistake tomorrow? Learn, modify, try again, and so on. Life is inherently like that. Your decisions will either push you forward or take you backwards in time. It is much simpler to appreciate the value of learning from your mistakes and acting differently the next time when it is phrased that way, isn't it? I think I understand it very well, at least. It is what it is, the past. It cannot be changed. There's a chance we don't know everything, and new things are always being discovered. But you generally know what you did well in the recent past and what you should not have done or should have done differently.
It's never too late to build a better and brighter future for yourself and the people you care about passionately, even if you're not young. A choice today will determine the future. Take lessons from the past and move forward to change the course of your life.

SubQuestion No : 100

Q.100 Select the most appropriate ANTONYM of the word 'Deleterious' from the passage.

Ans

✗ 1. Prophecy

✗ 2. Passionately

✓ 3. Conducive

✗ 4. Immobile

Question ID : **630680204222**
Option 1 ID : **630680791975**
Option 2 ID : **630680791978**
Option 3 ID : **630680791976**
Option 4 ID : **630680791977**
Status : **Answered**
Chosen Option : **4**

Section : **Qualifying Test of Punjabi Language**

Website - www.dailyjobalert.in

Q.1 ਛਿਮਾਹੀ ਤੋਂ ਕੀ ਭਾਵ ਹੈ?

Ans
- ✗ 1. 8 ਮਹੀਨੇ
- ✗ 2. 4 ਮਹੀਨੇ
- ✗ 3. 12 ਮਹੀਨੇ
- ✓ 4. 6 ਮਹੀਨੇ

Question ID : **630680248257**
Option 1 ID : **630680963173**
Option 2 ID : **630680963171**
Option 3 ID : **630680963172**
Option 4 ID : **630680963174**
Status : **Answered**
Chosen Option : **4**

Q.2 'ਸੱਦੀ ਨਾ ਬੁਲਾਈ, ਮੈਂ ਲਾੜੇ ਦੀ ਤਾਈ' ਅਖਾਣ ਦਾ ਅਰਥ ਹੈ:-

Ans
- ✓ 1. ਕਿਸੇ ਕੰਮ ਵਿਚ ਜ਼ਬਰਦਸਤੀ ਵਾਧੂ ਦਖਲ ਦੇਣਾ।
- ✗ 2. ਵਿਆਹ ਵਾਲੇ ਮੁੰਡੇ ਨੂੰ ਸੱਦਣਾ।
- ✗ 3. ਲਾੜੇ ਦੀ ਤਾਈ ਦਾ ਵਿਆਹ 'ਚ ਆਉਣਾ।
- ✗ 4. ਤਾਈ ਦਾ ਗੁੱਸੇ 'ਚ ਗੱਲ ਨਾ ਕਰਨਾ।

Question ID : **630680248222**
Option 1 ID : **630680963031**
Option 2 ID : **630680963034**
Option 3 ID : **630680963032**
Option 4 ID : **630680963033**
Status : **Answered**
Chosen Option : **1**

Q.3 'kettle' ਸ਼ਬਦ ਦਾ ਪੰਜਾਬੀ ਅਨੁਵਾਦ ਹੈ:-

Ans
- ✗ 1. ਗਲਾਸ
- ✓ 2. ਕੇਤਲੀ
- ✗ 3. ਘੜਾ
- ✗ 4. ਕੱਟਣਾ

Question ID : **630680248251**
Option 1 ID : **630680963149**
Option 2 ID : **630680963147**
Option 3 ID : **630680963148**
Option 4 ID : **630680963150**
Status : **Answered**
Chosen Option : **2**

Q.4 "ਵਹਿਮ" ਦਾ ਸਮਾਨਾਰਥਕ ਸ਼ਬਦ ਹੈ:-

Ans
- ✓ 1. ਭੁਲੇਖਾ
- ✗ 2. ਕਰਮ
- ✗ 3. ਵਹਿਣਾ
- ✗ 4. ਵੱਸਣਾ

Question ID : **630680248210**
Option 1 ID : **630680962983**
Option 2 ID : **630680962985**
Option 3 ID : **630680962984**
Option 4 ID : **630680962986**
Status : **Answered**
Chosen Option : **1**

Website - www.dailyjobalert.in

Q.5 ਕਿਹੜਾ ਸ਼ਬਦਜੋੜ ਸ਼ੁੱਧ ਹੈ:-

Ans
- ✗ 1. ਸ਼ੈਹਰ
- ✗ 2. ਐਹਮ
- ✗ 3. ਵੇਹੜਾ
- ✓ 4. ਮਿਹਨਤ

Question ID : **630680248242**
Option 1 ID : **630680963112**
Option 2 ID : **630680963111**
Option 3 ID : **630680963113**
Option 4 ID : **630680963114**
Status : **Answered**
Chosen Option : **4**

Q.6 'ਗਿਆਨਣ' ਸ਼ਬਦ ਦਾ ਪੁਲਿੰਗ ਹੈ:-

Ans
- ✗ 1. ਗਿਆਨ
- ✗ 2. ਗੀਆਨ
- ✓ 3. ਗਿਆਨੀ
- ✗ 4. ਗਿਆਨੂ

Question ID : **630680248228**
Option 1 ID : **630680963055**
Option 2 ID : **630680963058**
Option 3 ID : **630680963056**
Option 4 ID : **630680963057**
Status : **Answered**
Chosen Option : **3**

Q.7 'ਨਾਂਹ-ਵਾਚਕ ਵਾਕ' ਦੀ ਵਰਤੋਂ ਕਦੋਂ ਕੀਤੀ ਜਾਂਦੀ ਹੈ?

Ans
- ✗ 1. ਗੱਲ ਮੁਕਾਉਣ ਲਈ
- ✓ 2. ਕਾਰਜ ਦੀ ਅਸਫਲਤਾ ਜਾਂ ਮਨ੍ਹਾ ਕਰਨ ਲਈ
- ✗ 3. ਅਚੰਭਿਤ ਹੋਣ ਲਈ
- ✗ 4. ਦੋ ਵਾਕਾਂ ਨੂੰ ਜੋੜਨ ਲਈ

Question ID : **630680248246**
Option 1 ID : **630680963129**
Option 2 ID : **630680963128**
Option 3 ID : **630680963127**
Option 4 ID : **630680963130**
Status : **Answered**
Chosen Option : **2**

Q.8 'ਖ਼ਤਰਨਾਕ' ਸ਼ਬਦ ਵਿਚ ਪਿਛੇਤਰ ਹੈ:-

Ans
- ✗ 1. ਖ਼ਤ
- ✗ 2. ਨਾਅਕ
- ✓ 3. ਨਾਕ
- ✗ 4. ਆਕ

Question ID : **630680248233**
Option 1 ID : **630680963076**
Option 2 ID : **630680963075**
Option 3 ID : **630680963078**
Option 4 ID : **630680963077**
Status : **Answered**
Chosen Option : **3**

Website - www.dailyjobalert.in

Q.9 ਦਹਾਕੇ ਤੋਂ ਕੀ ਭਾਵ ਹੈ?

Ans
- ✗ 1. 10 ਹਫਤੇ
- ✗ 2. 10 ਮਹੀਨੇ
- ✓ 3. 10 ਸਾਲ
- ✗ 4. 10 ਦਿਨ

Question ID : **630680248255**
Option 1 ID : **630680963166**
Option 2 ID : **630680963163**
Option 3 ID : **630680963165**
Option 4 ID : **630680963164**
Status : **Answered**
Chosen Option : **3**

Q.10 "ਅੰਨ੍ਹਿਆਂ 'ਚ ਕਾਣਾ ਰਾਜਾ" ਅਖਾਣ ਦਾ ਅਰਥ ਹੈ:-

Ans
- ✗ 1. ਅੰਨ੍ਹਿਆਂ ਦੀ ਮਦਦ ਕਰਨੀ।
- ✗ 2. ਬੁਲੰਦੀਆਂ ਨੂੰ ਛੂਹਣਾ।
- ✗ 3. ਰਾਜੇ ਦਾ ਕਾਣਾ ਹੋਣਾ।
- ✓ 4. ਮੂਰਖਾਂ ਵਿੱਚ ਥੋੜ੍ਹੇ ਸਿਆਣੇ ਦੀ ਕਦਰ ਪੈਣਾ।

Question ID : **630680248220**
Option 1 ID : **630680963026**
Option 2 ID : **630680963025**
Option 3 ID : **630680963023**
Option 4 ID : **630680963024**
Status : **Answered**
Chosen Option : **4**

Q.11 "ਉਹ ਥਾਂ ਜਿੱਥੇ ਪਹਿਲਵਾਨ ਘੋਲ ਕਰਦੇ ਹਨ' ਲਈ ਕੋਈ ਇਕ ਸ਼ਬਦ ਚੁਣੋ:-

Ans
- ✗ 1. ਕੁਸ਼ਤੀ
- ✓ 2. ਅਖਾੜਾ
- ✗ 3. ਸਕੂਲ
- ✗ 4. ਜਿਮ

Question ID : **630680248214**
Option 1 ID : **630680963002**
Option 2 ID : **630680963000**
Option 3 ID : **630680963001**
Option 4 ID : **630680962999**
Status : **Answered**
Chosen Option : **2**

Q.12 ਅਪ੍ਰੈਲ ਤੋਂ ਪਹਿਲਾਂ ਕਿਹੜਾ ਮਹੀਨਾ ਆਉਂਦਾ ਹੈ?

Ans
- ✗ 1. ਅਕਤੂਬਰ
- ✗ 2. ਜੁਲਾਈ
- ✓ 3. ਮਾਰਚ
- ✗ 4. ਅਗਸਤ

Question ID : **630680248256**
Option 1 ID : **630680963167**
Option 2 ID : **630680963169**
Option 3 ID : **630680963168**
Option 4 ID : **630680963170**
Status : **Answered**
Chosen Option : **3**

Website - www.dailyjobalert.in

Q.13 ਕਿਹੜਾ ਸ਼ਬਦ ਅਸ਼ੁੱਧ ਨਹੀਂ ਹੈ?

Ans
- ✗ 1. ਲਾਬ
- ✓ 2. ਕ੍ਰਿਸ਼ਨ
- ✗ 3. ਰਾਨੀ
- ✗ 4. ਚੰਘਾ

Question ID : **630680248244**
Option 1 ID : **630680963119**
Option 2 ID : **630680963122**
Option 3 ID : **630680963121**
Option 4 ID : **630680963120**
Status : **Answered**
Chosen Option : **2**

Q.14 ਦੁਬਿੰਦੀ (:) ਦੀ ਸਹੀ ਵਰਤੋਂ ਵਾਲਾ ਵਾਕ ਹੈ?

Ans
- ✓ 1. ਚੰਗਾ ਇਨਸਾਨ ਬਣਨ ਲਈ ਤਿੰਨ ਚੀਜ਼ਾਂ ਜ਼ਰੂਰੀ ਹਨ: ਸਬਰ, ਸੰਤੋਖ ਤੇ ਮਿਹਨਤ।
- ✗ 2. ਚੰਗਾ ਇਨਸਾਨ ਬਣਨ ਲਈ: ਤਿੰਨ ਚੀਜ਼ਾਂ ਜ਼ਰੂਰੀ ਹਨ ਸਬਰ, ਸੰਤੋਖ ਤੇ ਮਿਹਨਤ।
- ✗ 3. ਚੰਗਾ ਇਨਸਾਨ: ਬਣਨ ਲਈ ਤਿੰਨ ਚੀਜ਼ਾਂ ਜ਼ਰੂਰੀ ਹਨ: ਸਬਰ, ਸੰਤੋਖ ਤੇ ਮਿਹਨਤ।
- ✗ 4. ਚੰਗਾ ਇਨਸਾਨ ਬਣਨ ਲਈ ਤਿੰਨ ਚੀਜ਼ਾਂ ਜ਼ਰੂਰੀ ਹਨ: ਸਬਰ: ਸੰਤੋਖ: ਮਿਹਨਤ।

Question ID : **630680248248**
Option 1 ID : **630680963135**
Option 2 ID : **630680963136**
Option 3 ID : **630680963137**
Option 4 ID : **630680963138**
Status : **Answered**
Chosen Option : **4**

Q.15 'ਕੰਘੇ ਦੀ ਵਰਤੋਂ _____ ਕੀਤੀ ਜਾਂਦੀ ਹੈ।' ਵਿਚ ਖਾਲੀ ਸਥਾਨ ਭਰਨ ਦਾ ਸਹੀ ਵਿਕਲਪ ਹੈ:-

Ans
- ✗ 1. ਕਾਰ ਚਲਾਉਣ ਲਈ
- ✗ 2. ਸਬਜ਼ੀਆਂ ਕੱਟਣ ਲਈ
- ✗ 3. ਦੁਸ਼ਮਣ ਨਾਲ ਲੜਨ ਲਈ
- ✓ 4. ਕੇਸ ਵਾਹੁਣ ਲਈ

Question ID : **630680248235**
Option 1 ID : **630680963083**
Option 2 ID : **630680963084**
Option 3 ID : **630680963085**
Option 4 ID : **630680963086**
Status : **Answered**
Chosen Option : **4**

Q.16 'ਪੂਰਨਮਾਸ਼ੀ' ਦਾ ਸੰਬੰਧ ਕਿਸ ਨਾਲ ਹੈ?

Ans
- ✗ 1. ਸੂਰਜ ਨਾਲ
- ✗ 2. ਪਲੈਟੋ ਨਾਲ
- ✓ 3. ਚੰਨ ਨਾਲ
- ✗ 4. ਜੁਪੀਟਰ ਨਾਲ

Question ID : **630680248259**
Option 1 ID : **630680963179**
Option 2 ID : **630680963181**
Option 3 ID : **630680963180**
Option 4 ID : **630680963182**
Status : **Answered**
Chosen Option : **3**

Website - www.dailyjobalert.in

Q.17 'ਲਾਪਰਵਾਹ' ਵਿੱਚ ਕਿਹੜਾ ਅਗੇਤਰ ਵਰਤਿਆ ਗਿਆ ਹੈ?

Ans
✗ 1. ਲਾਪ
✗ 2. ਲ
✗ 3. ਲਾਪਰ
✓ 4. ਲਾ

Question ID : **630680248230**
Option 1 ID : **630680963065**
Option 2 ID : **630680963064**
Option 3 ID : **630680963066**
Option 4 ID : **630680963063**
Status : **Answered**
Chosen Option : **4**

Q.18 'Modern' ਸ਼ਬਦ ਦਾ ਪੰਜਾਬੀ ਅਨੁਵਾਦ ਨਹੀਂ ਹੈ:-

Ans
✗ 1. ਅਜੋਕਾ
✗ 2. ਮੌਜੂਦਾ
✓ 3. ਪੁਰਾਣਾ
✗ 4. ਆਧੁਨਿਕ

Question ID : **630680248254**
Option 1 ID : **630680963161**
Option 2 ID : **630680963162**
Option 3 ID : **630680963160**
Option 4 ID : **630680963159**
Status : **Answered**
Chosen Option : **2**

Q.19 "ਰੱਬ ਦੀ ਹੋਂਦ ਨੂੰ ਮੰਨਣ ਵਾਲਾ" ਲਈ ਕੋਈ ਇਕ ਸ਼ਬਦ ਚੁਣੋ:-

Ans
✗ 1. ਆਸ਼ਕ
✗ 2. ਨਾਸਤਕ
✗ 3. ਖੋਜੀ
✓ 4. ਆਸਤਕ

Question ID : **630680248215**
Option 1 ID : **630680963004**
Option 2 ID : **630680963003**
Option 3 ID : **630680963006**
Option 4 ID : **630680963005**
Status : **Answered**
Chosen Option : **4**

Q.20 "ਪ੍ਰਸੰਨਤਾ" ਦਾ ਸਮਾਨਾਰਥਕ ਨਹੀਂ ਹੈ:-

Ans
✓ 1. ਨਿਰਮਲਤਾ
✗ 2. ਪ੍ਰਸੰਨ
✗ 3. ਅਨੰਦ
✗ 4. ਖੁਸ਼ੀ

Question ID : **630680248213**
Option 1 ID : **630680962995**
Option 2 ID : **630680962996**
Option 3 ID : **630680962997**
Option 4 ID : **630680962998**
Status : **Answered**
Chosen Option : **4**

Website - www.dailyjobalert.in

Q.21 'ਕੰਮ ਅਜਿਹੇ ਢੰਗ ਨਾਲ ਕੀਤਾ ਜਾਵੇ ਕਿ ਕੰਮ ਵੀ ਹੋ ਜਾਵੇ ਤੇ ਨੁਕਸਾਨ ਵੀ ਨਾ ਹੋਵੇ।' ਲਈ ਕਿਸ ਅਖਾਣ ਦੀ ਵਰਤੋਂ ਕੀਤੀ ਜਾਂਦੀ ਹੈ:-

Ans

✗ 1. ਸੌ ਸੁਨਿਆਰ ਦੀ, ਇਕ ਲੁਹਾਰ ਦੀ।

✓ 2. ਸੱਪ ਵੀ ਮਰ ਜਾਵੇ ਤੇ ਸੋਟੀ ਵੀ ਨਾ ਟੁੱਟੇ।

✗ 3. ਹੋਣੀ ਹਾਰ ਮਿਟਾਵੇ ਕੌਣ।

✗ 4. ਸਾਈਆਂ ਕਿਤੇ, ਵਧਾਈਆਂ ਕਿਤੇ।

Question ID : **630680248221**
Option 1 ID : **630680963027**
Option 2 ID : **630680963030**
Option 3 ID : **630680963029**
Option 4 ID : **630680963028**
Status : **Answered**
Chosen Option : **2**

Q.22 "ਹੱਥ ਪੀਲੇ ਕਰਨਾ" ਮੁਹਾਵਰੇ ਦਾ ਅਰਥ ਹੈ:-

Ans

✗ 1. ਮਹਿੰਦੀ ਲਗਾਉਣਾ

✗ 2. ਹੋਲੀ ਖੇਡਣਾ

✓ 3. ਕੁੜੀ ਦਾ ਵਿਆਹ ਕਰਨਾ

✗ 4. ਘਰੋਂ ਦੂਰ ਜਾਣਾ

Question ID : **630680248217**
Option 1 ID : **630680963011**
Option 2 ID : **630680963012**
Option 3 ID : **630680963014**
Option 4 ID : **630680963013**
Status : **Answered**
Chosen Option : **3**

Q.23 'ਮੁੰਡੇ ਖੇਡ ਕੇ ਘਰ ਜਾ ਰਹੇ ਹਨ' ਵਾਕ ਦਾ ਵਚਨ ਬਦਲ ਕੇ ਲਿਖਿਆ ਸਹੀ ਵਾਕ ਹੈ:-

Ans

✗ 1. ਮੁੰਡਾ ਖੇਡ ਕੇ ਘਰ ਜਾ ਰਹੇ ਹਨ।

✗ 2. ਮੁੰਡਿਆਂ ਖੇਡ ਕੇ ਘਰ ਜਾ ਰਹੇ ਹੈ।

✗ 3. ਮੁੰਡੇ ਖੇਡ ਕੇ ਘਰ ਜਾ ਰਿਹਾ ਹੈ।

✓ 4. ਮੁੰਡਾ ਖੇਡ ਕੇ ਘਰ ਜਾ ਰਿਹਾ ਹੈ।

Question ID : **630680248229**
Option 1 ID : **630680963061**
Option 2 ID : **630680963062**
Option 3 ID : **630680963060**
Option 4 ID : **630680963059**
Status : **Answered**
Chosen Option : **4**

DAILY JOB Alert ਪੰਜਾਬ

Q.24 'ਬੋਲੀ ਦਾ ਸੰਬੰਧ _____ ਨਾਲ ਹੁੰਦਾ ਹੈ।' ਵਿਚ ਖਾਲੀ ਸਥਾਨ ਭਰਨ ਦਾ ਸਹੀ ਵਿਕਲਪ ਹੈ:-

Ans
1. ਜਾਨਵਰ
2. ਮਨੁੱਖ
3. ਸ਼ਹਿਰ
4. ਮੋਬਾਈਲ

Question ID : **630680248236**
Option 1 ID : **630680963089**
Option 2 ID : **630680963088**
Option 3 ID : **630680963090**
Option 4 ID : **630680963087**
Status : **Answered**
Chosen Option : **2**

Q.25 'ਅਸੀਂ ਖਾਣਾ ਖਾ ਲਿਆ ਹੈ।' ਵਾਕ ਹੈ:-

Ans
1. ਸੰਜੁਕਤ ਵਾਕ
2. ਵਿਸਮਿਕ ਵਾਕ
3. ਸਾਧਾਰਨ ਵਾਕ
4. ਪ੍ਰਸ਼ਨਵਾਚਕ ਵਾਕ

Question ID : **630680248238**
Option 1 ID : **630680963095**
Option 2 ID : **630680963096**
Option 3 ID : **630680963098**
Option 4 ID : **630680963097**
Status : **Answered**
Chosen Option : **3**

Q.26 "ਚਿੱਕੜ ਸੁੱਟਣਾ" ਮੁਹਾਵਰੇ ਦਾ ਅਰਥ ਹੈ:-

Ans
1. ਕੱਪੜੇ ਗੰਦੇ ਕਰਨੇ
2. ਲੜਾਈ ਕਰਨਾ
3. ਬਦਨਾਮੀ ਕਰਨੀ
4. ਵਡਿਆਈ ਕਰਨੀ

Question ID : **630680248218**
Option 1 ID : **630680963016**
Option 2 ID : **630680963017**
Option 3 ID : **630680963015**
Option 4 ID : **630680963018**
Status : **Answered**
Chosen Option : **3**

Q.27 "ਨੇਕੀ" ਦਾ ਵਿਰੋਧੀ ਸ਼ਬਦ ਹੈ:-

Ans
1. ਚੰਗਾ
2. ਪਾਪ
3. ਮਦਦ
4. ਹਾਰ

Question ID : **630680248212**
Option 1 ID : **630680962991**
Option 2 ID : **630680962994**
Option 3 ID : **630680962992**
Option 4 ID : **630680962993**
Status : **Answered**
Chosen Option : **2**

Website - www.dailyjobalert.in

Q.28 ਨਿਮਨ ਲਿਖਤ ਵਿਚ ਕਿਹੜਾ ਵਾਕ ਸ਼ੁੱਧ ਹੈ:-

Ans
✗ 1. ਮੈਂ ਥਾਡੀ ਬੋਤ ਉਡੀਕ ਕੀਤੀ।
✓ 2. ਮੈਂ ਤੁਹਾਡੀ ਬਹੁਤ ਉਡੀਕ ਕੀਤੀ।
✗ 3. ਮੈਂ ਤੁਆਡੀ ਬਹੁਤ ਅਡੀਕ ਕੀਤੀ।
✗ 4. ਮੈਂ ਤੁਹਾਦੀ ਬੋਹਤ ਉਡੀਕ ਕੀਤੀ।

Question ID : **630680248241**
Option 1 ID : **630680963108**
Option 2 ID : **630680963109**
Option 3 ID : **630680963107**
Option 4 ID : **630680963110**
Status : **Answered**
Chosen Option : **2**

Q.29 ਕਿਹੜੇ ਵਾਕ ਵਿਚ ਵਿਸ਼ਰਾਮ ਚਿੰਨ੍ਹ ਦੀ ਸਹੀ ਵਰਤੋਂ ਹੋਈ ਹੈ?

Ans
✗ 1. ਗੁਰੂ "ਨਾਨਕ" ਸਾਹਿਬ ਨੇ ਕਿਹਾ ਹੈ ਸੋ ਕਿਉਂ ਮੰਦਾ ਆਖੀਐ ਜਿਤੁ ਜੰਮਹਿ ਰਾਜਾਨ॥
✓ 2. ਗੁਰੂ ਨਾਨਕ ਸਾਹਿਬ ਨੇ ਕਿਹਾ ਹੈ "ਸੋ ਕਿਉਂ ਮੰਦਾ ਆਖੀਐ ਜਿਤੁ ਜੰਮਹਿ ਰਾਜਾਨ॥"
✗ 3. "ਗੁਰੂ ਨਾਨਕ ਸਾਹਿਬ ਨੇ ਕਿਹਾ ਹੈ" ਸੋ ਕਿਉਂ ਮੰਦਾ ਆਖੀਐ ਜਿਤੁ ਜੰਮਹਿ ਰਾਜਾਨ॥
✗ 4. "ਗੁਰੂ ਨਾਨਕ ਸਾਹਿਬ ਨੇ ਕਿਹਾ ਹੈ "ਸੋ ਕਿਉਂ ਮੰਦਾ ਆਖੀਐ" ਜਿਤੁ ਜੰਮਹਿ ਰਾਜਾਨ॥"

Question ID : **630680248250**
Option 1 ID : **630680963144**
Option 2 ID : **630680963145**
Option 3 ID : **630680963143**
Option 4 ID : **630680963146**
Status : **Answered**
Chosen Option : **2**

Q.30 ਹੇਠ ਲਿਖਿਆਂ ਵਿਚ ਅਗੇਤਰ ਯੁਕਤ ਸ਼ਬਦ ਹੈ:-

Ans
✓ 1. ਮਹਾਂਪੁਰਖ
✗ 2. ਸਾਲੇਹਾਰ
✗ 3. ਲੋੜਵੰਦ
✗ 4. ਸ਼ਰਮੀਲਾ

Question ID : **630680248232**
Option 1 ID : **630680963073**
Option 2 ID : **630680963072**
Option 3 ID : **630680963074**
Option 4 ID : **630680963071**
Status : **Answered**
Chosen Option : **1**

Q.31 'Jeweller' ਸ਼ਬਦ ਦਾ ਪੰਜਾਬੀ ਅਨੁਵਾਦ ਹੈ:-

Ans
✓ 1. ਜੌਹਰੀ
✗ 2. ਸੋਨਾ
✗ 3. ਜਵਾਹਰ
✗ 4. ਚਾਂਦੀ

Question ID : **630680248253**
Option 1 ID : **630680963158**
Option 2 ID : **630680963155**
Option 3 ID : **630680963157**
Option 4 ID : **630680963156**
Status : **Answered**
Chosen Option : **1**

Website - www.dailyjobalert.in

Q.32 "ਮਾਤਾ" ਸ਼ਬਦ ਦਾ ਬਹੁਵਚਨ ਹੈ:-

Ans
1. ਮਾਤਾਂ
2. ਮਾਤਾਵਾਂ
3. ਮਾਤਵਾਂ
4. ਮਤਾਵਾਂ

Question ID : **630680248223**
Option 1 ID : **630680963036**
Option 2 ID : **630680963037**
Option 3 ID : **630680963035**
Option 4 ID : **630680963038**
Status : **Answered**
Chosen Option : **2**

Q.33 "ਉਹ ਜ਼ਮੀਨ ਜਿੱਥੇ ਕੁਝ ਉਗਾਇਆ ਨਾ ਜਾ ਸਕੇ" ਲਈ ਕੋਈ ਇਕ ਸ਼ਬਦ ਚੁਣੋ:-

Ans
1. ਫ਼ਰਸ਼
2. ਸੜਕ
3. ਉਪਜਾਊ
4. ਬੰਜਰ

Question ID : **630680248216**
Option 1 ID : **630680963007**
Option 2 ID : **630680963009**
Option 3 ID : **630680963010**
Option 4 ID : **630680963008**
Status : **Answered**
Chosen Option : **4**

Q.34 ਇਸ (-) ਵਿਸ਼ਰਾਮ ਚਿੰਨ੍ਹ ਨੂੰ ਕਹਿੰਦੇ ਹਨ-

Ans
1. ਪ੍ਰਸ਼ਨ ਚਿੰਨ੍ਹ
2. ਡੈਸ਼
3. ਵਿਸਮਿਕ ਚਿੰਨ੍ਹ
4. ਬਿੰਦੀ

Question ID : **630680248249**
Option 1 ID : **630680963142**
Option 2 ID : **630680963140**
Option 3 ID : **630680963141**
Option 4 ID : **630680963139**
Status : **Answered**
Chosen Option : **3**

Q.35 "ਸਹੇਲੀਆਂ" ਸ਼ਬਦ ਦਾ ਇਕਵਚਨ ਹੈ:-

Ans
1. ਸਹੇਲੀਆ
2. ਸਹੇਲੜੀ
3. ਸਹੇਲਿਆ
4. ਸਹੇਲੀ

Question ID : **630680248225**
Option 1 ID : **630680963045**
Option 2 ID : **630680963046**
Option 3 ID : **630680963044**
Option 4 ID : **630680963043**
Status : **Answered**
Chosen Option : **4**

Website - www.dailyjobalert.in

Q.36 'ਬੇਨਤੀ ਕੀਤੀ ਜਾਂਦੀ ਹੈ, ਸ਼ੋਰ ਨਾ ਪਾਓ।' ਵਾਕ ਹੈ:-

Ans
1. ਹਾਂ-ਵਾਚਕ ਵਾਕ
2. ਬਿਨੈਵਾਚਕ
3. ਪ੍ਰਸ਼ਨਵਾਚਕ
4. ਸੰਯੁਕਤ

Question ID : **630680248239**
Option 1 ID : **630680963102**
Option 2 ID : **630680963099**
Option 3 ID : **630680963100**
Option 4 ID : **630680963101**
Status : **Answered**
Chosen Option : **4**

Q.37 'ਗੁਣਕਾਰੀ' ਸ਼ਬਦ ਵਿਚ ਪਿਛੇਤਰ ਹੈ:-

Ans
1. ਆਰੀ
2. ਕਾਰੀ
3. ਗੁਣ
4. ਕਾਅਰੀ

Question ID : **630680248234**
Option 1 ID : **630680963082**
Option 2 ID : **630680963081**
Option 3 ID : **630680963080**
Option 4 ID : **630680963079**
Status : **Answered**
Chosen Option : **2**

Q.38 "ਇਮਾਨਦਾਰ" ਦਾ ਵਿਰੋਧੀ ਸ਼ਬਦ ਹੈ:-

Ans
1. ਸਮਝਦਾਰ
2. ਰੋਹਬਦਾਰ
3. ਵਜ਼ਨਦਾਰ
4. ਬੇਈਮਾਨ

Question ID : **630680248211**
Option 1 ID : **630680962987**
Option 2 ID : **630680962990**
Option 3 ID : **630680962989**
Option 4 ID : **630680962988**
Status : **Answered**
Chosen Option : **4**

Q.39 "ਆਪਣੇ ਮੂੰਹ ਮੀਆਂ ਮਿੱਠੂ ਬਣਨਾ" ਮੁਹਾਵਰੇ ਨੂੰ ਵਰਤ ਕੇ ਬਣਾਏ ਵਾਕ ਦੀ ਸਹੀ ਚੋਣ ਕਰੋ:-

Ans
1. ਸਿਆਣੇ ਕਹਿੰਦੇ ਹਨ ਕਿ ਆਪਣੇ ਮੂੰਹ ਮੀਆਂ ਮਿੱਠੂ ਬਣਨ ਵਾਲੇ ਤੋਂ ਬਚਕੇ ਹੀ ਰਹਿਣਾ ਚਾਹੀਦਾ ਹੈ।
2. ਭੋਂਕਦਾ ਹੋਇਆ ਕੁੱਤਾ ਆਪਣੇ ਮੂੰਹ ਮੀਆਂ ਮਿੱਠੂ ਹੁੰਦਾ ਹੈ।
3. ਆਪਣੇ ਮੂੰਹ ਮੀਆਂ ਮਿੱਠੂ ਬਣਨ ਵਾਲਾ ਬੰਦਾ ਬਹੁਤ ਸਮਝਦਾਰ ਹੁੰਦਾ ਹੈ।
4. ਬੱਚਿਆਂ ਦੀ ਨਜ਼ਰ ਵਿਚ ਮਾਂ-ਪਿਓ ਆਪਣੇ ਮੂੰਹ ਮੀਆਂ ਮਿੱਠੂ ਹੁੰਦੇ ਹਨ।

Question ID : **630680248219**
Option 1 ID : **630680963022**
Option 2 ID : **630680963020**
Option 3 ID : **630680963021**
Option 4 ID : **630680963019**
Status : **Answered**
Chosen Option : **4**

Website - www.dailyjobalert.in

Q.40 ਕਿਹੜਾ ਸ਼ਬਦ ਸ਼ੁੱਧ ਹੈ:-

Ans
- ✗ 1. ਅਹੀਂ
- ✗ 2. ਕਰੇਂਦਾ
- ✗ 3. ਪੈਹੇ
- ✓ 4. ਤੁਹਾਡਾ

Question ID : **630680248243**
Option 1 ID : **630680963116**
Option 2 ID : **630680963118**
Option 3 ID : **630680963115**
Option 4 ID : **630680963117**
Status : **Answered**
Chosen Option : **4**

Q.41 ਹੇਠ ਲਿਖਿਆਂ 'ਚੋਂ 'ਪੁੱਠੇ ਕਾਮੇ' ਦੀ ਚੋਣ ਕਰੋ।

Ans
- ✗ 1. '
- ✓ 2. " "
- ✗ 3. ;
- ✗ 4. -

Question ID : **630680248247**
Option 1 ID : **630680963133**
Option 2 ID : **630680963131**
Option 3 ID : **630680963134**
Option 4 ID : **630680963132**
Status : **Answered**
Chosen Option : **1**

Q.42 'Customer' ਸ਼ਬਦ ਦਾ ਪੰਜਾਬੀ ਅਨੁਵਾਦ ਹੈ:-

Ans
- ✗ 1. ਮਾਲਕ
- ✗ 2. ਦੁਕਾਨਦਾਰ
- ✓ 3. ਗਾਹਕ
- ✗ 4. ਕਰਜ਼

Question ID : **630680248252**
Option 1 ID : **630680963154**
Option 2 ID : **630680963153**
Option 3 ID : **630680963152**
Option 4 ID : **630680963151**
Status : **Answered**
Chosen Option : **3**

Q.43 ਨਿਮਨ ਲਿਖਤ ਵਿਚ ਕਿਹੜਾ ਵਾਕ ਅਸ਼ੁੱਧ ਹੈ:-

Ans
- ✗ 1. ਵਾਤਾਵਰਣ ਦੀ ਸੰਭਾਲ ਲਈ ਸਾਨੂੰ ਵੱਧ ਤੋਂ ਵੱਧ ਦਰਖਤ ਲਗਾਉਣੇ ਚਾਹੀਦੇ ਹਨ।
- ✗ 2. ਸੈਰ ਕਰਨ ਨਾਲ ਕਈ ਬਿਮਾਰੀਆਂ ਤੋਂ ਬਚਿਆ ਜਾ ਸਕਦਾ ਹੈ।
- ✗ 3. ਗਰਮੀਆਂ ਵਿਚ ਵੱਧ ਪਾਣੀ ਪੀਣਾ ਚਾਹਿਦਾ ਹੈ।
- ✓ 4. ਪੜ੍ਹ-ਲਿਖ ਕੇ ਮਨਖ ਕਾਮਆਬ ਨੀ ਹੋ ਸਕਦਾ।

Question ID : **630680248240**
Option 1 ID : **630680963104**
Option 2 ID : **630680963106**
Option 3 ID : **630680963103**
Option 4 ID : **630680963105**
Status : **Answered**
Chosen Option : **4**

DAILY JOB Alert ਪੰਜਾਬ
Website - www.dailyjobalert.in

Q.44 "ਜੋੜੀ" ਸ਼ਬਦ ਦਾ ਬਹੁਵਚਨ ਹੈ:-

Ans
1. ਜੋੜ
2. ਜੋੜੀਆਂ
3. ਜੋੜੀ
4. ਜੋੜਾਂ

Question ID : **630680248224**
Option 1 ID : **630680963042**
Option 2 ID : **630680963039**
Option 3 ID : **630680963040**
Option 4 ID : **630680963041**
Status : **Answered**
Chosen Option : **2**

Q.45 ਹੇਠ ਲਿਖੇ ਸ਼ਬਦਾਂ ਵਿਚ 'ਇਸਤਰੀ' ਦਾ ਸਹੀ ਅਰਥ ਨਹੀਂ ਹੈ:-

Ans
1. ਨਰਕ
2. ਨਾਰੀ
3. ਮਹਿਲਾ
4. ਔਰਤ

Question ID : **630680248245**
Option 1 ID : **630680963125**
Option 2 ID : **630680963126**
Option 3 ID : **630680963123**
Option 4 ID : **630680963124**
Status : **Answered**
Chosen Option : **1**

Q.46 'ਮੂਲ' ਸ਼ਬਦ ਨਾਲ ਕਿਹੜਾ ਅਗੇਤਰ ਲਾਇਆ ਜਾ ਸਕਦਾ ਹੈ:-

Ans
1. ਪਿਰ
2. ਪਰ
3. ਕਰ
4. ਨਿਰ

Question ID : **630680248231**
Option 1 ID : **630680963069**
Option 2 ID : **630680963068**
Option 3 ID : **630680963067**
Option 4 ID : **630680963070**
Status : **Answered**
Chosen Option : **4**

Q.47 'ਸ਼ਨਿੱਚਰਵਾਰ' ਨੂੰ ਅੰਗ੍ਰੇਜ਼ੀ ਵਿਚ ਕੀ ਕਿਹਾ ਜਾਂਦਾ ਹੈ?

Ans
1. Friday
2. Monday
3. Wednesday
4. Saturday

Question ID : **630680248258**
Option 1 ID : **630680963176**
Option 2 ID : **630680963177**
Option 3 ID : **630680963178**
Option 4 ID : **630680963175**
Status : **Answered**
Chosen Option : **4**

Website - www.dailyjobalert.in

Q.48 'ਦੋ ਪੈਰ ਘੱਟ ਤੁਰਨਾ, ਪਰ ਤੁਰਨਾ _____ ਦੇ ਨਾਲ।' ਵਿਚ ਖਾਲੀ ਸਥਾਨ ਭਰਨ ਦਾ ਸਹੀ ਵਿਕਲਪ ਹੈ:-

Ans
✔ 1. ਮੜਕ
✘ 2. ਨਸੀਬ
✘ 3. ਆਕੜ
✘ 4. ਮਿੱਤਰਾਂ

Question ID : **630680248237**
Option 1 ID : **630680963094**
Option 2 ID : **630680963092**
Option 3 ID : **630680963091**
Option 4 ID : **630680963093**
Status : **Answered**
Chosen Option : **1**

Q.49 'ਸਵੇਰ ਹੁੰਦੇ ਹੀ ਗੱਡੀਆਂ ਚੱਲ ਪਈਆਂ' ਵਾਕ ਵਿਚ ਵਚਨ ਬਦਲੋ:-

Ans
✘ 1. ਸਵੇਰ ਹੁੰਦੇ ਹੀ ਗੱਡੀਆਂ ਚੱਲ ਪਈ।
✘ 2. ਸਵੇਰ ਹੁੰਦੇ ਹੀ ਗੱਡੀ ਚੱਲ ਪਈਆਂ।
✔ 3. ਸਵੇਰ ਹੁੰਦੇ ਹੀ ਗੱਡੀ ਚੱਲ ਪਈ।
✘ 4. ਸਵੇਰ ਹੁੰਦੇ ਹੀ ਗੱਡੀਆਂ ਚੱਲੀਆਂ ਪਈਆਂ।

Question ID : **630680248226**
Option 1 ID : **630680963049**
Option 2 ID : **630680963047**
Option 3 ID : **630680963048**
Option 4 ID : **630680963050**
Status : **Answered**
Chosen Option : **4**

Q.50 'ਅਧਿਆਪਕ' ਸ਼ਬਦ ਦਾ ਇਸਤਰੀ ਲਿੰਗ ਹੈ:-

Ans
✘ 1. ਅਧਿਆਪਕਨੀ
✔ 2. ਅਧਿਆਪਕਾ
✘ 3. ਅਧਿਆਪਕਣ
✘ 4. ਅਧਿਆਪੀ

Question ID : **630680248227**
Option 1 ID : **630680963053**
Option 2 ID : **630680963054**
Option 3 ID : **630680963052**
Option 4 ID : **630680963051**
Status : **Answered**
Chosen Option : **2**

DAILY JOB Alert ਪੰਜਾਬ

PUNJAB POLICE

Police to its last particle is duty

Exam Name	Recruitment for the post of Sub Inspector in Cadres of District and Armed Police 20th Jun to 31st Jul 2023 Paper I
Application No	www.dailyjobalert.in
Roll No	Telegram - Daily Job Alert Punjab
Applicant Name	instagram - Daily Job Alert Punjab
Exam Date	29/06/2023
Shift	9:00 AM - 11:00 AM
Subject	Sub Inspector Paper I

Section : **General Awareness**

Q.1 Match the columns.

	List- I (Name of Leaders)		List –II (Slogans during the Freedom Movement)
1.	Jawaharlal Nehru	A)	Go Back to the Vedas
2.	Subhas Chandra Bose	B)	Cast off your laziness
3.	Swami Dayanand Saraswati	C)	Do or Die
4.	Mahatma Gandhi	D)	Dilli Chalo

Ans

✔ 1. 1-(B); 2 -(D); 3 - (A); 4- (C)

✘ 2. 1-(A); 2 -(B); 3 - (C); 4- (D)

✘ 3. 1-(A); 2 -(C); 3 - (D); 4- (B)

✘ 4. 1-(D); 2 -(B); 3 - (A); 4- (C)

Question ID : **630680176094**
Option 1 ID : **630680682620**
Option 2 ID : **630680682621**
Option 3 ID : **630680682623**
Option 4 ID : **630680682622**
Status : **Answered**
Chosen Option : **1**

Website - www.dailyjobalert.in

Q.2 **Choose the correct option for the following type of Parliamentary question:**
A question which is not called for oral answer in the House and the written answer to such a question is deemed to have been laid on the Table of the House by the Minister of India.

Ans
✗ 1. Questions to private members
✗ 2. Starred questions
✓ 3. Unstarred question
✗ 4. Short notice questions

Question ID : **630680114550**
Option 1 ID : **630680443569**
Option 2 ID : **630680443566**
Option 3 ID : **630680443567**
Option 4 ID : **630680443568**
Status : **Answered**
Chosen Option : **3**

Q.3 **Mallika Sarabhai is famous for which of the following dance forms?**

Ans
✗ 1. Kathak
✗ 2. Manipuri
✗ 3. Mohiniyattam
✓ 4. Kuchipudi

Question ID : **63068087817**
Option 1 ID : **630680340655**
Option 2 ID : **630680340656**
Option 3 ID : **630680340654**
Option 4 ID : **630680340653**
Status : **Not Answered**
Chosen Option : **--**

Q.4 **Which of the following municipalities topped the chart of cities with a population of more than one million, as per the Municipal Performance Index (MPI), 2020?**

Ans
✗ 1. Surat
✗ 2. Bhopal
✓ 3. Indore
✗ 4. New Delhi

Question ID : **63068054204**
Option 1 ID : **630680208859**
Option 2 ID : **630680208860**
Option 3 ID : **630680208858**
Option 4 ID : **630680208861**
Status : **Answered**
Chosen Option : **3**

Website - www.dailyjobalert.in

Q.5 **The ISRO and _____ have jointly launched India's first high-throughput satellite broadband service.**

Ans
- ✗ 1. AgniKul Cosmos
- ✗ 2. Hindustan Aeronautics Limited
- ✗ 3. Skyroot
- ✓ 4. Hughes Communications India

Question ID : **630680191800**
Option 1 ID : **630680743808**
Option 2 ID : **630680743805**
Option 3 ID : **630680743807**
Option 4 ID : **630680743806**
Status : **Answered**
Chosen Option : **3**

Q.6 **Who was the first Indian women Paralympic shooter to win the gold medal in 10 m Air Rifle at Tokyo 2020 Paralympics held in 2021?**

Ans
- ✓ 1. Avani Lekhara
- ✗ 2. Rubina Francis
- ✗ 3. Kashish Lakra
- ✗ 4. Jyoti Baliyan

Question ID : **63068061959**
Option 1 ID : **630680239157**
Option 2 ID : **630680239154**
Option 3 ID : **630680239156**
Option 4 ID : **630680239155**
Status : **Answered**
Chosen Option : **1**

Q.7 **In which year was the architect and urban designer Bimal Patel conferred the prestigious Padma Shri?**

Ans
- ✗ 1. 2017
- ✓ 2. 2019
- ✗ 3. 2018
- ✗ 4. 2020

Question ID : **630680164668**
Option 1 ID : **630680637784**
Option 2 ID : **630680637786**
Option 3 ID : **630680637785**
Option 4 ID : **630680637787**
Status : **Answered**
Chosen Option : **3**

Website - www.dailyjobalert.in

Q.8 Who of the following was the third Sikh guru?

Ans
✔ 1. Guru Amardas Ji
✘ 2. Guru Har Rai Ji
✘ 3. Guru Arjun Dev Ji
✘ 4. Guru Ramdas Ji

Question ID : **630680238552**
Option 1 ID : **630680925225**
Option 2 ID : **630680925227**
Option 3 ID : **630680925224**
Option 4 ID : **630680925226**
Status : **Answered**
Chosen Option : **1**

Q.9 Which of the following rivers originates from Mount Kailash?

Ans
✘ 1. Yamuna
✔ 2. Sutlej
✘ 3. Ganga
✘ 4. Beas

Question ID : **63068049555**
Option 1 ID : **630680190651**
Option 2 ID : **630680190650**
Option 3 ID : **630680190652**
Option 4 ID : **630680190653**
Status : **Answered**
Chosen Option : **2**

Q.10 As per census of India 2011, Which of the following is the third largest religious community in India, with 2.78 crore people?

Ans
✘ 1. Jains
✔ 2. Christians
✘ 3. Sikhs
✘ 4. Zoroastrians

Question ID : **63068080431**
Option 1 ID : **630680311752**
Option 2 ID : **630680311750**
Option 3 ID : **630680311749**
Option 4 ID : **630680311751**
Status : **Answered**
Chosen Option : **2**

Website - www.dailyjobalert.in

Q.11 Which of the following holds the next position in rank and precedence?
1. President, 2. Vice- President, 3. Prime Minister, 4. _____

Ans
✗ 1. Chief Justice of India
✓ 2. Governor of States within their respective States
✗ 3. Former President
✗ 4. Deputy Prime Minister

Question ID : **630680114561**
Option 1 ID : **630680443610**
Option 2 ID : **630680443613**
Option 3 ID : **630680443611**
Option 4 ID : **630680443612**
Status : **Answered**
Chosen Option : **2**

Q.12 Which among the following rulers administratively unified Nepal in 1769?

Ans
✓ 1. Prithvi Narayan Shah
✗ 2. Chet Singh
✗ 3. Pratap Singh
✗ 4. Rana Bahadur

Question ID : **630680146035**
Option 1 ID : **630680565041**
Option 2 ID : **630680565038**
Option 3 ID : **630680565039**
Option 4 ID : **630680565040**
Status : **Not Answered**
Chosen Option : **--**

Q.13 Which of the following statements about the Indian monsoon is/are correct?
1.Monsoon is that axis around which revolves the entire agricultural cycle of India.
2.Regional variations in monsoon is beneficial to grow various types of crop.
3.Winter rainfall in north India is beneficial for rabi crops.

Ans
✗ 1. Only 3 is correct.
✗ 2. Only 1 is correct.
✗ 3. Only 2 and 3 are correct.
✓ 4. 1, 2 and 3 are correct.

Question ID : **630680117305**
Option 1 ID : **630680454507**
Option 2 ID : **630680454506**
Option 3 ID : **630680454508**
Option 4 ID : **630680454509**
Status : **Answered**
Chosen Option : **4**

DAILY JOB Alert ਪੰਜਾਬ

Q.14 What do you call the ethical perspective if morality of an action is decided on the basis of the outcome of that action?

Ans

✔ 1. Teleological ethic

✘ 2. Normative ethic

✘ 3. Deontological ethic

✘ 4. Virtue ethic

Question ID : **630680238351**
Option 1 ID : **630680924423**
Option 2 ID : **630680924420**
Option 3 ID : **630680924422**
Option 4 ID : **630680924421**
Status : **Answered**
Chosen Option : **2**

Q.15 In India, Who administers the oath or affirmation to the Governor?

Ans

✘ 1. Vice-President

✘ 2. Chief Justice of Supreme Court

✔ 3. Chief Justice of High Court

✘ 4. President

Question ID : **630680114559**
Option 1 ID : **630680443603**
Option 2 ID : **630680443605**
Option 3 ID : **630680443604**
Option 4 ID : **630680443602**
Status : **Answered**
Chosen Option : **4**

Q.16 Which organisation established by the Ministry of Social Justice and Empowerment serves as the apex organisation for directing funds to Safai Karamcharis/scavengers and their families via state channelising agencies?

Ans

✘ 1. PCPNDT

✔ 2. NSKFDC

✘ 3. NCPCR

✘ 4. UNCRPD

Question ID : **630680238390**
Option 1 ID : **630680924579**
Option 2 ID : **630680924576**
Option 3 ID : **630680924577**
Option 4 ID : **630680924578**
Status : **Not Answered**
Chosen Option : **--**

Website - www.dailyjobalert.in

Q.17 Holla Mohalla is celebrated in which of the following Lunar months?

Ans
- ✗ 1. Kartik
- ✓ 2. Chet
- ✗ 3. Vaisakh
- ✗ 4. Ashadh

Question ID : **630680238436**
Option 1 ID : **630680924763**
Option 2 ID : **630680924761**
Option 3 ID : **630680924762**
Option 4 ID : **630680924760**
Status : **Answered**
Chosen Option : **2**

Q.18 The Mahila Salah Suraksha is related to which of the following Indian states?

Ans
- ✗ 1. Delhi
- ✗ 2. Uttar Pradesh
- ✗ 3. Bihar
- ✓ 4. Rajasthan

Question ID : **630680112117**
Option 1 ID : **630680434194**
Option 2 ID : **630680434196**
Option 3 ID : **630680434197**
Option 4 ID : **630680434195**
Status : **Answered**
Chosen Option : **1**

Q.19 With respect to the Indian defence technology, Rustom-2 is a/an _____.

Ans
- ✗ 1. anti-tank missile
- ✓ 2. drone
- ✗ 3. helicopter
- ✗ 4. anti-submarine missile

Question ID : **630680115981**
Option 1 ID : **630680449256**
Option 2 ID : **630680449255**
Option 3 ID : **630680449254**
Option 4 ID : **630680449257**
Status : **Answered**
Chosen Option : **1**

Website - www.dailyjobalert.in

Q.20 _____ was a campaign launched in China in 1958 to accomplish economic and industrial development at a faster rate.

Ans
- ✗ 1. Great Jump Forward
- ✗ 2. Big Jump Ahead
- ✓ 3. Great Leap Forward
- ✗ 4. Big Leap Ahead

Question ID : **63068059108**
Option 1 ID : **630680228057**
Option 2 ID : **630680228054**
Option 3 ID : **630680228055**
Option 4 ID : **630680228056**
Status : **Answered**
Chosen Option : **4**

Q.21 According to _____ tradition, Vardhamana Mahavira never got married.

Ans
- ✗ 1. Shvetambara
- ✗ 2. Hinayana
- ✓ 3. Digambara
- ✗ 4. Mahayana

Question ID : **63068052287**
Option 1 ID : **630680201251**
Option 2 ID : **630680201250**
Option 3 ID : **630680201253**
Option 4 ID : **630680201252**
Status : **Answered**
Chosen Option : **4**

Q.22 Under which programme did the Government of India provide additional assistance by way of loans to states for completion of selected large irrigation and multi-purpose projects during 1996–97?

Ans
- ✗ 1. Intensive Agricultural District Programme
- ✗ 2. Command Area Development Programme
- ✓ 3. Accelerated Irrigation Benefit Programme
- ✗ 4. Rural Infrastructure Development Fund Programme

Question ID : **63068050624**
Option 1 ID : **630680194812**
Option 2 ID : **630680194810**
Option 3 ID : **630680194811**
Option 4 ID : **630680194813**
Status : **Answered**
Chosen Option : **4**

Website - www.dailyjobalert.in

Q.23 Which of the following schemes has the objective of encouraging the enrollment of girl students to continue their further studies in government schools and reducing the school dropout rate?

Ans
✔ 1. Mai Bhago Vidya Scheme
✘ 2. Sahyogi Scheme
✘ 3. Nirmaya Scheme
✘ 4. Disha Scheme

Question ID : **630680238364**
Option 1 ID : **630680924475**
Option 2 ID : **630680924472**
Option 3 ID : **630680924473**
Option 4 ID : **630680924474**
Status : **Answered**
Chosen Option : **1**

Q.24 Which of the following plateaus is also known as 'Ruhr of India'?

Ans
✔ 1. Chota Nagpur Plateau
✘ 2. Baghel Plateau
✘ 3. Meghalaya Plateau
✘ 4. Malwa Plateau

Question ID : **630680125223**
Option 1 ID : **630680485661**
Option 2 ID : **630680485658**
Option 3 ID : **630680485659**
Option 4 ID : **630680485660**
Status : **Answered**
Chosen Option : **1**

Q.25 The Gomateshwara Temple located in Karnataka is related to which religion?

Ans
✔ 1. Jain
✘ 2. Hindu
✘ 3. Buddhist
✘ 4. Sikh

Question ID : **630680134725**
Option 1 ID : **630680521719**
Option 2 ID : **630680521718**
Option 3 ID : **630680521721**
Option 4 ID : **630680521720**
Status : **Answered**
Chosen Option : **1**

Website - www.dailyjobalert.in

Q.26 In which of the following months is the martyrdom day of Guru Teg Bahadur observed?

Ans
- ✗ 1. December
- ✗ 2. February
- ✓ 3. November
- ✗ 4. January

Question ID : **630680238523**
Option 1 ID : **630680925110**
Option 2 ID : **630680925108**
Option 3 ID : **630680925111**
Option 4 ID : **630680925109**
Status : **Answered**
Chosen Option : **1**

Q.27 Which of the following is a greenhouse gas?

Ans
- ✓ 1. Methane
- ✗ 2. Carbon monoxide
- ✗ 3. Oxygen
- ✗ 4. Nitrogen

Question ID : **63068049670**
Option 1 ID : **630680191111**
Option 2 ID : **630680191110**
Option 3 ID : **630680191112**
Option 4 ID : **630680191113**
Status : **Answered**
Chosen Option : **1**

Q.28 Which of the following dances is performed as the preparation for a hunting expedition by the Sangtam Naga tribe?

Ans
- ✗ 1. Dhanger
- ✓ 2. Sangphao
- ✗ 3. Nati
- ✗ 4. Kadarkali

Question ID : **63068087443**
Option 1 ID : **630680339160**
Option 2 ID : **630680339158**
Option 3 ID : **630680339159**
Option 4 ID : **630680339157**
Status : **Not Answered**
Chosen Option : **--**

DAILY JOB Alert ਪੰਜਾਬ

Q.29 In India, the Directive Principles of State Policy include _____.

Ans
✗ 1. socialistic and Nehruvian principles
✗ 2. socialistic and Lincoln's principles
✓ 3. socialistic and Gandhian principles
✗ 4. socialistic and Ambedkar's principles

Question ID : **630680160050**
Option 1 ID : **630680619587**
Option 2 ID : **630680619584**
Option 3 ID : **630680619586**
Option 4 ID : **630680619585**
Status : **Answered**
Chosen Option : **3**

Q.30 Which of the following terms in Buddhism refers to an attempt to show loving kindness towards others and ourselves, without expecting anything in return?

Ans
✗ 1. Samsara
✗ 2. Nirvana
✓ 3. Metta
✗ 4. Karma

Question ID : **630680238336**
Option 1 ID : **630680924362**
Option 2 ID : **630680924363**
Option 3 ID : **630680924361**
Option 4 ID : **630680924360**
Status : **Not Answered**
Chosen Option : **--**

Q.31 Which of the following are the characteristics of small scale industries?
(i) It is labour intensive.
(ii) It is capital intensive.
(iii) It shows locational flexibility.
(iv) It causes concentration of wealth.

Ans
✗ 1. Only (i), (iii) and (iv)
✗ 2. Only (ii) and (iv)
✓ 3. Only (i) and (iii)
✗ 4. Only (ii) and (iii)

Question ID : **63068056655**
Option 1 ID : **630680218556**
Option 2 ID : **630680218555**
Option 3 ID : **630680218554**
Option 4 ID : **630680218557**
Status : **Answered**
Chosen Option : **1**

Website - www.dailyjobalert.in

Q.32 What does iron deficiency anaemia lead to?

Ans
✗ 1. Low level of thyroxine
✗ 2. High level of thyroxine
✓ 3. Low level of haemoglobin
✗ 4. High level of haemoglobin

Question ID : **63068074832**
Option 1 ID : **630680289485**
Option 2 ID : **630680289486**
Option 3 ID : **630680289484**
Option 4 ID : **630680289483**
Status : **Answered**
Chosen Option : **3**

Q.33 Which organisation gave the nod for Indian Regional Navigation Satellite System (IRNSS) to be used for navigation in the Indian Ocean Region?

Ans
✗ 1. United Nations
✓ 2. International Maritime Organization (IMO)
✗ 3. International Telecommunication Union
✗ 4. World Tourism Organization

Question ID : **630680115160**
Option 1 ID : **630680446007**
Option 2 ID : **630680446006**
Option 3 ID : **630680446008**
Option 4 ID : **630680446009**
Status : **Answered**
Chosen Option : **2**

Q.34 Which country will host the 2032 Summer Olympics?

Ans
✗ 1. UAE
✗ 2. Japan
✗ 3. Singapore
✓ 4. Australia

Question ID : **63068068671**
Option 1 ID : **630680265377**
Option 2 ID : **630680265376**
Option 3 ID : **630680265375**
Option 4 ID : **630680265374**
Status : **Answered**
Chosen Option : **1**

DAILY JOB Alert ਪੰਜਾਬ

Q.35 The princely states of the Patiala and East Punjab States Union (PEPSU) was formed by combining:

Ans

✔ 1.
Patiala, Nabha, Jind, Kapurthala, Malerkotla, Faridkot and Kalsia

✘ 2.
Patiala, Nabha, Hisar, Kapurthala, Malerkotla, Faridkot and Kalsia

✘ 3.
Patiala, Nabha, Jind, Kapurthala, Malerkotla, Faridkot and Lahore

✘ 4.
Patiala, Nabha, Hisar, Kapurthala, Malerkotla, Faridkot and Kangra

Question ID : **630680238423**
Option 1 ID : **630680924708**
Option 2 ID : **630680924709**
Option 3 ID : **630680924711**
Option 4 ID : **630680924710**
Status : **Answered**
Chosen Option : **2**

Q.36 **_____classified industries into three categories – exclusive public sector enterprises, private supplementing public sector enterprises and private sector enterprises.**

Ans

✔ 1. Industry Policy Resolution, 1956

✘ 2. Licensing Resolution, 1956

✘ 3. Licensing Resolution, 1951

✘ 4. Industry Policy Resolution, 1951

Question ID : **63068056651**
Option 1 ID : **630680218538**
Option 2 ID : **630680218539**
Option 3 ID : **630680218541**
Option 4 ID : **630680218540**
Status : **Answered**
Chosen Option : **1**

Q.37 **From which script did the Tamil writing system evolve?**

Ans

✘ 1. Sarada

✔ 2. Brahmi

✘ 3. Kharosthi

✘ 4. Kalinga

Question ID : **63068091348**
Option 1 ID : **630680354127**
Option 2 ID : **630680354126**
Option 3 ID : **630680354128**
Option 4 ID : **630680354129**
Status : **Answered**
Chosen Option : **2**

Website - www.dailyjobalert.in

Q.38 In July 2021, which of the following countries ended male guardian requirement for women attending hajj?

Ans
✗ 1. Egypt
✓ 2. Saudi Arabia
✗ 3. Oman
✗ 4. Qatar

Question ID : **63068058409**
Option 1 ID : **630680225332**
Option 2 ID : **630680225331**
Option 3 ID : **630680225333**
Option 4 ID : **630680225330**
Status : **Not Answered**
Chosen Option : **--**

Q.39 Who among the following won India's Biodiversity Award 2021 in the individual category of 'Conservation of domesticated species' declared in May 2021?

Ans
✗ 1. Bina Devi
✗ 2. Jagdish Prasad Parikh
✗ 3. Rajkumari devi
✓ 4. Shaji NM

Question ID : **63068099727**
Option 1 ID : **630680387607**
Option 2 ID : **630680387606**
Option 3 ID : **630680387605**
Option 4 ID : **630680387604**
Status : **Answered**
Chosen Option : **3**

Q.40 The Home Rule League Movement was launched by which of the following leaders in September 1916 in Madras?

Ans
✗ 1. Bhupendranath Basu
✗ 2. Mahatma Gandhi
✓ 3. Annie Besant
✗ 4. Gopal Krishna Gokhale

Question ID : **630680160032**
Option 1 ID : **630680619513**
Option 2 ID : **630680619514**
Option 3 ID : **630680619512**
Option 4 ID : **630680619515**
Status : **Answered**
Chosen Option : **1**

Website - www.dailyjobalert.in

Q.41 **According to the geological survey of India unfamiliar lineament is the major reason behind the earthquakes in which of the following states?**

Ans
✔ 1. Assam
✘ 2. Manipur
✘ 3. Meghalaya
✘ 4. Sikkim

Question ID : **63068054461**
Option 1 ID : **630680209886**
Option 2 ID : **630680209889**
Option 3 ID : **630680209887**
Option 4 ID : **630680209888**
Status : **Answered**
Chosen Option : **1**

Q.42 The Nirankari movement, which was a social reform movement for Sikhism was founded by _____.

Ans
✔ 1. Baba Dayal Das
✘ 2. Baba Gurudev Das
✘ 3. Baba Jatindra Das
✘ 4. Baba Ram Das

Question ID : **630680238493**
Option 1 ID : **630680924988**
Option 2 ID : **630680924990**
Option 3 ID : **630680924991**
Option 4 ID : **630680924989**
Status : **Answered**
Chosen Option : **1**

Q.43 **Anathapindika, the rich merchant of _____, became a follower of Buddha and made liberal donations to the Buddhist order.**

Ans
✘ 1. Gaya
✔ 2. Shravasti
✘ 3. Sarnath
✘ 4. Kushinagar

Question ID : **63068084285**
Option 1 ID : **630680326693**
Option 2 ID : **630680326694**
Option 3 ID : **630680326692**
Option 4 ID : **630680326695**
Status : **Answered**
Chosen Option : **1**

Website - www.dailyjobalert.in

Q.44 Which of the following gurudwaras was named after a Muslim woman, Bibi Kaulan, who was a devotee of Guru Har Gobind?

Ans
✗ 1. Gurudwara Gurumata Kaulan
✓ 2. Gurudwara Mata Kaulan
✗ 3. Gurudwara Devi Kaulan
✗ 4. Gurudwara Amritdhari Kaulan

Question ID : **630680238540**
Option 1 ID : **630680925178**
Option 2 ID : **630680925176**
Option 3 ID : **630680925177**
Option 4 ID : **630680925179**
Status : **Answered**
Chosen Option : **2**

Q.45 Which of the following writ petitions will force the arresting authorities to produce the person bodily in the court?

Ans
✗ 1. The writ of prohibition
✗ 2. The writ of certiorari
✓ 3. The writ of Habeas Corpus
✗ 4. The writ of mandamus

Question ID : **630680100456**
Option 1 ID : **630680390520**
Option 2 ID : **630680390523**
Option 3 ID : **630680390522**
Option 4 ID : **630680390521**
Status : **Answered**
Chosen Option : **3**

Q.46 'Pul Moran' in Dhanoe Kalan, Amritsar was constructed during the reign of _____.

Ans
✓ 1. Maharaja Ranjit Singh
✗ 2. Maharani Chand Kaur
✗ 3. Maharaja Nau Nihal Singh
✗ 4. Maharaja Kharak Singh

Question ID : **630680238450**
Option 1 ID : **630680924816**
Option 2 ID : **630680924819**
Option 3 ID : **630680924818**
Option 4 ID : **630680924817**
Status : **Answered**
Chosen Option : **3**

DAILY JOB Alert ਪੰਜਾਬ

Q.47 **Which of the following country has annual GDP growth of 6.9% according to the data of World Bank for 2021?**

Ans
✔ 1. Bangladesh
✘ 2. Sri Lanka
✘ 3. Bhutan
✘ 4. Nepal

Question ID : **63068054215**
Option 1 ID : **630680208902**
Option 2 ID : **630680208905**
Option 3 ID : **630680208903**
Option 4 ID : **630680208904**
Status : **Answered**
Chosen Option : **3**

Q.48 What is the Muslim population in Punjab as per the census 2011?

Ans
✘ 1. 6.35 lakhs
✔ 2. 5.35 lakhs
✘ 3. 8.35 lakhs
✘ 4. 7.35 lakhs

Question ID : **630680238510**
Option 1 ID : **630680925057**
Option 2 ID : **630680925056**
Option 3 ID : **630680925059**
Option 4 ID : **630680925058**
Status : **Answered**
Chosen Option : **2**

Q.49 Which of the following dance forms is usually performed at weddings in Punjab in which a group of girls dances through the street while carrying a pot decorated with lightened candles and singing songs?

Ans
✘ 1. Dhankara
✘ 2. Kikli
✔ 3. Jaago
✘ 4. Jhumar

Question ID : **630680238545**
Option 1 ID : **630680925198**
Option 2 ID : **630680925199**
Option 3 ID : **630680925196**
Option 4 ID : **630680925197**
Status : **Answered**
Chosen Option : **3**

Website - www.dailyjobalert.in

Q.50 In which of the following years did Maharaja Ranjit Singh sign a deal with British viceroy Lord Auckland to restore Shah Shoja to the Afghan throne in Kabul?

Ans
✗ 1. 1840
✓ 2. 1838
✗ 3. 1841
✗ 4. 1839

Question ID : **630680238485**
Option 1 ID : **630680924958**
Option 2 ID : **630680924956**
Option 3 ID : **630680924959**
Option 4 ID : **630680924957**
Status : **Answered**
Chosen Option : **3**

Section : **Quantitative Aptitude and Numerical Skills**

Q.51 If the radius of a sphere is increased by 12%, then the volume will be increased by (correct to two decimal places):

Ans
✗ 1. 50.43%
✗ 2. 45.46%
✗ 3. 47.65%
✓ 4. 40.49%

Question ID : **630680116201**
Option 1 ID : **630680450133**
Option 2 ID : **630680450130**
Option 3 ID : **630680450131**
Option 4 ID : **630680450132**
Status : **Not Answered**
Chosen Option : **--**

Q.52 Which of the following is the largest number of 4 digits that is completely divisible by 16?

Ans
✓ 1. 9984
✗ 2. 9986
✗ 3. 9982
✗ 4. 9988

Question ID : **63068085700**
Option 1 ID : **630680332262**
Option 2 ID : **630680332260**
Option 3 ID : **630680332263**
Option 4 ID : **630680332261**
Status : **Answered**
Chosen Option : **1**

Website - www.dailyjobalert.in

Q.53 **The compound interest on ₹2,000 at 10% per annum at the end of 1 year 6 months, if the interest is calculated half-yearly, will be (to nearest rupee):**

Ans
✔ 1. ₹315
✘ 2. ₹532
✘ 3. ₹123
✘ 4. ₹434

Question ID : **630680137069**
Option 1 ID : **630680530875**
Option 2 ID : **630680530874**
Option 3 ID : **630680530877**
Option 4 ID : **630680530876**
Status : **Not Answered**
Chosen Option : **--**

Q.54 **If, by selling an article for ₹100, a man gains ₹15, then his gain percentage (rounded off to two decimal places) is:**

Ans
✘ 1. 12.67%
✘ 2. 17.25%
✔ 3. 17.65%
✘ 4. 15.25%

Question ID : **630680222917**
Option 1 ID : **630680865428**
Option 2 ID : **630680865430**
Option 3 ID : **630680865429**
Option 4 ID : **630680865427**
Status : **Answered**
Chosen Option : **3**

Q.55 $8 - 1\frac{1}{6}$ of $1\frac{5}{7} \div 2\frac{2}{5}$ of $\frac{5}{6}$ is equal to:

Ans
✘ 1. 9
✘ 2. 1
✔ 3. 7
✘ 4. 3

Question ID : **630680105430**
Option 1 ID : **630680409790**
Option 2 ID : **630680409787**
Option 3 ID : **630680409789**
Option 4 ID : **630680409788**
Status : **Not Answered**
Chosen Option : **--**

DAILY JOB Alert ਪੰਜਾਬ

Q.56 If $x^2 + y^2 = z^2$, then $\frac{1}{\log_{(z+x)} y} + \frac{1}{\log_{(z-x)} y} = ?$

Ans
✗ 1. −1
✓ 2. 2
✗ 3. −2
✗ 4. 1

Question ID : **63068061447**
Option 1 ID : **630680237164**
Option 2 ID : **630680237165**
Option 3 ID : **630680237163**
Option 4 ID : **630680237162**
Status : **Not Answered**
Chosen Option : **--**

Q.57 'x' varies inversely as cube of 'y'. It is given that y = 6 for x = 1. Find the value of 'x' for y = 8.

Ans
✓ 1. $\frac{27}{64}$
✗ 2. $\frac{28}{67}$
✗ 3. $\frac{29}{42}$
✗ 4. $\frac{31}{46}$

Question ID : **630680116184**
Option 1 ID : **630680450068**
Option 2 ID : **630680450069**
Option 3 ID : **630680450066**
Option 4 ID : **630680450067**
Status : **Not Answered**
Chosen Option : **--**

Q.58 A man bought 10 silver articles for ₹20,000. If the average cost of 6 silver articles is ₹1,640, then what will be the average cost of the remaining silver articles?

Ans
✗ 1. ₹4,540
✗ 2. ₹2,640
✓ 3. ₹2,540
✗ 4. ₹3,540

Question ID : **630680107716**
Option 1 ID : **630680418154**
Option 2 ID : **630680418155**
Option 3 ID : **630680418152**
Option 4 ID : **630680418153**
Status : **Not Answered**
Chosen Option : **--**

Website - www.dailyjobalert.in

Q.59 Simplify the following expression.

$$\frac{a^5 - a^3b^2 - a^2b^3 + b^5}{a^5 - 3a^4b + 2a^3b^2 + 2a^2b^3 - 3ab^4 + b^5}$$

Ans

✗ 1. $\frac{a^2 - ab + b^2}{a^2 + 2ab + b^2}$

✗ 2. $\frac{a^2 - ab + b^2}{a^2 - 2ab + b^2}$

✗ 3. $\frac{a^2 + ab + b^2}{a^2 + 2ab + b^2}$

✓ 4. $\frac{a^2 + ab + b^2}{a^2 - 2ab + b^2}$

Question ID : **630680196639**
Option 1 ID : **630680762855**
Option 2 ID : **630680762858**
Option 3 ID : **630680762856**
Option 4 ID : **630680762857**
Status : **Not Answered**
Chosen Option : **--**

Q.60 Mr. Patel had a certain amount. He invested three-fourth of it in shares, 15% of it in mutual funds, and kept the remaining ₹7,500. If he got interest at 8% per annum on mutual funds, then what is the interest amount that he got from mutual funds in one year?

Ans

✓ 1. ₹900

✗ 2. ₹12,150

✗ 3. ₹11,250

✗ 4. ₹7,500

Question ID : **630680205679**
Option 1 ID : **630680797528**
Option 2 ID : **630680797529**
Option 3 ID : **630680797527**
Option 4 ID : **630680797530**
Status : **Not Answered**
Chosen Option : **--**

Q.61 The least number of square tiles required to pave a walking track in a park, which is 6 m 27 cm long and 11 m 97 cm broad, is:

Ans

✗ 1. 175

✓ 2. 231

✗ 3. 242

✗ 4. 265

Question ID : **630680153030**
Option 1 ID : **630680592060**
Option 2 ID : **630680592063**
Option 3 ID : **630680592061**
Option 4 ID : **630680592062**
Status : **Not Answered**
Chosen Option : **--**

Website - www.dailyjobalert.in

Q.62 **A trader offers the following two schemes. Which scheme(s) has/have the maximum discount percentage?**
1. Two successive discounts of 10% and 20%.
2. Buy 2 get 3.

Ans
✗ 1. Data is not sufficient
✗ 2. Only 1
✗ 3. Both 1 and 2
✓ 4. Only 2

Question ID : **630680177663**
Option 1 ID : **630680688815**
Option 2 ID : **630680688812**
Option 3 ID : **630680688814**
Option 4 ID : **630680688813**
Status : **Answered**
Chosen Option : **4**

Q.63
If $\frac{(4^8)^2}{64(7)^8} \times \frac{36(6^9)^{\frac{1}{4}}}{(4)^{15}} \times 49 \times \frac{7^6}{\sqrt[4]{6}} = (\frac{6}{x})^4 \times 7^y$, then find x and y.

Ans
✗ 1. x=0 and y=2
✓ 2. x=2 and y =0
✗ 3. x=4 and y=0
✗ 4. x= 2 and y=7

Question ID : **630680203957**
Option 1 ID : **630680791030**
Option 2 ID : **630680791029**
Option 3 ID : **630680791028**
Option 4 ID : **630680791027**
Status : **Not Answered**
Chosen Option : **--**

Q.64 **What is the largest 4-digit number which is added to 5349 so that the resulting number when divided by 15, 18, 32, 48 and 64 leaves a remainder of 7 in each case?**

Ans
✗ 1. 9065
✗ 2. 9056
✓ 3. 9058
✗ 4. 9068

Question ID : **630680122764**
Option 1 ID : **630680475968**
Option 2 ID : **630680475966**
Option 3 ID : **630680475967**
Option 4 ID : **630680475969**
Status : **Answered**
Chosen Option : **2**

Website - www.dailyjobalert.in

Q.65 **The length of a rectangle is 50cm and its width is three-fifths of its length. What is the area of the square having a perimeter that is equal to the perimeter of the rectangle described here?**

Ans

✗ 1. 2500 cm^2

✗ 2. 3600 cm^2

✓ 3. 1600 cm^2

✗ 4. 1200 cm^2

Question ID : **63068070977**
Option 1 ID : **630680274520**
Option 2 ID : **630680274521**
Option 3 ID : **630680274519**
Option 4 ID : **630680274518**
Status : **Not Attempted and Marked For Review**
Chosen Option : **--**

Q.66 **A car driver drives 240 km at a speed of 35 km/h and returns at a speed of 25 km/h. Find the average speed (in km/h) for the entire journey (correct to two decimal places).**

Ans

✗ 1. 29.54

✗ 2. 29.87

✗ 3. 29.82

✓ 4. 29.17

Question ID : **630680114253**
Option 1 ID : **630680442414**
Option 2 ID : **630680442417**
Option 3 ID : **630680442416**
Option 4 ID : **630680442415**
Status : **Not Answered**
Chosen Option : **--**

Q.67 **Arun and Monika can complete a work in 6 days when they work together. If Arun works alone, he can complete the work in 10 days.In how many days can Monika alone complete the work?**

Ans

✗ 1. 18

✗ 2. 14

✓ 3. 15

✗ 4. 16

Question ID : **630680138432**
Option 1 ID : **630680535940**
Option 2 ID : **630680535938**
Option 3 ID : **630680535939**
Option 4 ID : **630680535941**
Status : **Answered**
Chosen Option : **2**

Website - www.dailyjobalert.in

Q.68 Two alloys P and Q are made of copper and zinc in the ratio of 5 : 2 and 3 : 8, respectively. 14 kg of P, 33 kg of Q and some quantity of pure zinc are mixed and melted together to form a new alloy R. The ratio of copper to zinc in R is 3 : 8. What is the weight (in kg) of the new alloy R?

Ans

✗ 1. $47\frac{1}{3}$

✓ 2. $69\frac{2}{3}$

✗ 3. 68

✗ 4. 79

Question ID : **630680131588**
Option 1 ID : **630680509591**
Option 2 ID : **630680509593**
Option 3 ID : **630680509592**
Option 4 ID : **630680509590**
Status : **Answered**
Chosen Option : **1**

Q.69 A researcher studying the behaviour of ants recorded the time (in seconds) taken by each ant to locate its food by considering 15 different ants as 51, 73, 63, 48, 69, 53, 37, 39, 44, 38, 42, 33, 72, 88, 25. The median time (in seconds) that the ants spent in searching their food is:

Ans

✓ 1. 48

✗ 2. 44

✗ 3. 46

✗ 4. 51

Question ID : **630680151938**
Option 1 ID : **630680587796**
Option 2 ID : **630680587797**
Option 3 ID : **630680587799**
Option 4 ID : **630680587798**
Status : **Answered**
Chosen Option : **3**

Q.70 If the numeric value of the volume of a sphere in cm^3 is the same as the numeric value of the surface area of another sphere in cm^2, and the spheres have the same radii, find the common radius.

Ans

✗ 1. 1 cm

✓ 2. 3 cm

✗ 3. 4 cm

✗ 4. 5 cm

Question ID : **630680109015**
Option 1 ID : **630680422924**
Option 2 ID : **630680422925**
Option 3 ID : **630680422927**
Option 4 ID : **630680422926**
Status : **Answered**
Chosen Option : **3**

Website - www.dailyjobalert.in

Q.71 If the diameter of a football is 12 cm, then its volume is (in cu. cm):

Ans
✔ 1. 288 π
✘ 2. 48 π
✘ 3. 1152 π
✘ 4. 2304 π

Question ID : **630680102902**
Option 1 ID : **630680399868**
Option 2 ID : **630680399869**
Option 3 ID : **630680399870**
Option 4 ID : **630680399867**
Status : **Answered**
Chosen Option : **3**

Q.72 What is the third proportional to 17 and 136?

Ans
✔ 1. 1088
✘ 2. 1050
✘ 3. 1080
✘ 4. 1090

Question ID : **630680107343**
Option 1 ID : **630680416746**
Option 2 ID : **630680416744**
Option 3 ID : **630680416745**
Option 4 ID : **630680416747**
Status : **Not Answered**
Chosen Option : **--**

Q.73 How many years will it take for a certain sum to get doubled at the rate of $6\frac{1}{4}\%$ simple interest per annum?

Ans
✔ 1. 16 years
✘ 2. 4 years
✘ 3. 6.25 years
✘ 4. 8.4 years

Question ID : **630680212267**
Option 1 ID : **630680823216**
Option 2 ID : **630680823217**
Option 3 ID : **630680823215**
Option 4 ID : **630680823218**
Status : **Answered**
Chosen Option : **3**

Website - www.dailyjobalert.in

Q.74 **The least number, which when divided by 108, 171 and 261, leaves the remainder 5 in each case is:**

Ans
- ✗ 1. 19841
- ✗ 2. 59508
- ✓ 3. 59513
- ✗ 4. 19836

Question ID : **63068084235**
Option 1 ID : **630680326469**
Option 2 ID : **630680326470**
Option 3 ID : **630680326471**
Option 4 ID : **630680326468**
Status : **Answered**
Chosen Option : **1**

Q.75 **How many minutes will Bindu take to cover a distance of 600 m, if she runs at a speed of 15 km/h?**

Ans
- ✗ 1. 2 min 48 sec
- ✗ 2. 1 min 24 sec
- ✓ 3. 2 min 24 sec
- ✗ 4. 2 min 40 sec

Question ID : **630680102964**
Option 1 ID : **630680400116**
Option 2 ID : **630680400115**
Option 3 ID : **630680400117**
Option 4 ID : **630680400118**
Status : **Answered**
Chosen Option : **3**

Q.76 The volume of a conical vessel is 12936 cm^3 and its height is 28cm. What is its curved surface area (in cm^2)? (Take $\pi = \frac{22}{7}$)

Ans
- ✗ 1. 2130
- ✗ 2. 2031
- ✓ 3. 2310
- ✗ 4. 2213

Question ID : **630680103733**
Option 1 ID : **630680403164**
Option 2 ID : **630680403165**
Option 3 ID : **630680403163**
Option 4 ID : **630680403166**
Status : **Answered**
Chosen Option : **3**

Website - www.dailyjobalert.in

Q.77 An item is sold for Rs.6,800 by allowing a discount of 15% on its marked price. Find the marked price of the item.

Ans

✗ 1. Rs.7,000

✓ 2. Rs.8,000

✗ 3. Rs.6,800

✗ 4. Rs.8,600

Question ID : **630680108128**
Option 1 ID : **630680419588**
Option 2 ID : **630680419591**
Option 3 ID : **630680419590**
Option 4 ID : **630680419589**
Status : **Answered**
Chosen Option : **3**

Q.78 The least fraction among $\frac{3}{4}$, $\frac{5}{6}$, $\frac{11}{15}$ and $\frac{7}{8}$ is _____.

Ans

✗ 1. $\frac{7}{8}$

✗ 2. $\frac{3}{4}$

✗ 3. $\frac{5}{6}$

✓ 4. $\frac{11}{15}$

Question ID : **63068094332**
Option 1 ID : **630680366025**
Option 2 ID : **630680366023**
Option 3 ID : **630680366026**
Option 4 ID : **630680366024**
Status : **Answered**
Chosen Option : **3**

Q.79 Simplify the following expression.

$$\left\{\left(\frac{1}{3}\right)^{-3} - \left(\frac{1}{2}\right)^{-3}\right\} \div \left\{\left(\frac{1}{5}\right)^{-2} - \left(\frac{1}{4}\right)^{-2}\right\}$$

Ans

✗ 1. $\frac{9}{19}$

✓ 2. $\frac{19}{9}$

✗ 3. 19

✗ 4. 9

Question ID : **63068075997**
Option 1 ID : **630680294102**
Option 2 ID : **630680294103**
Option 3 ID : **630680294101**
Option 4 ID : **630680294104**
Status : **Answered**
Chosen Option : **1**

Website - www.dailyjobalert.in

Q.80 If the values of the mean and the mode are 10 and 7, respectively, find the value of the median by using the empirical relation between mean, median and mode.

Ans
✗ 1. 8.5
✗ 2. 8
✓ 3. 9
✗ 4. 9.5

Question ID : **630680181984**
Option 1 ID : **630680705159**
Option 2 ID : **630680705158**
Option 3 ID : **630680705160**
Option 4 ID : **630680705161**
Status : **Answered**
Chosen Option : **2**

Section : **Punjabi Language**

Q.81 'ਜੇਬ ਕਤਰਿਆ ਤੋਂ ਸਾਵਧਾਨ ਰਹੋ।' ਇਹ ਵਾਕ ਕਿਹੜੀ ਕਿਸਮ ਦਾ ਹੈ?

Ans
✗ 1. ਮੱਧਮ
✗ 2. ਅਪੂਰਨ
✓ 3. ਪੂਰਨ
✗ 4. ਦੁਬਾਜਰੇ

Question ID : **630680241041**
Option 1 ID : **630680934634**
Option 2 ID : **630680934632**
Option 3 ID : **630680934631**
Option 4 ID : **630680934633**
Status : **Answered**
Chosen Option : **4**

Q.82 'Sanction' ਸ਼ਬਦ ਦਾ ਪੰਜਾਬੀ ਅਨੁਵਾਦ ਚੁਣੋ।

Ans
✗ 1. ਮੁਅੱਤਲੀ
✗ 2. ਰਾਖਵੀਂ
✓ 3. ਪ੍ਰਵਾਨਗੀ
✗ 4. ਮਿਤੀਬੱਧ

Question ID : **630680241053**
Option 1 ID : **630680934682**
Option 2 ID : **630680934680**
Option 3 ID : **630680934679**
Option 4 ID : **630680934681**
Status : **Answered**
Chosen Option : **3**

Website - www.dailyjobalert.in

Q.83 ਸੂਰਬੀਰ, ਯੋਧਾ, ਵੀਰ ਦਾ ਸਮਾਨਅਰਥਕ ਸ਼ਬਦ ਕਿਹੜਾ ਹੈ?

Ans
✔ 1. ਬਹਾਦਰ
✘ 2. ਧਰਤੀ
✘ 3. ਜੰਗ
✘ 4. ਭਰਾ

Question ID : **630680241045**
Option 1 ID : **630680934647**
Option 2 ID : **630680934650**
Option 3 ID : **630680934649**
Option 4 ID : **630680934648**
Status : **Answered**
Chosen Option : **1**

Q.84 'ਇਹ ਮੋਹਨ ਦੀ ਟੋਪੀ ਹੈ' ਕਿਹੜਾ ਕਾਰਕ ਹੈ?

Ans
✘ 1. ਅਧਿਕਰਨ ਕਾਰਕ
✘ 2. ਕਰਮ ਕਾਰਕ
✔ 3. ਸੰਬੰਧ ਕਾਰਕ
✘ 4. ਸੰਬੋਧਨ ਕਾਰਕ

Question ID : **630680241039**
Option 1 ID : **630680934625**
Option 2 ID : **630680934626**
Option 3 ID : **630680934623**
Option 4 ID : **630680934624**
Status : **Answered**
Chosen Option : **3**

Q.85 'Arbitrariness' ਸ਼ਬਦ ਦਾ ਪੰਜਾਬੀ ਵਿੱਚ ਤਰਜ਼ਮਾ ਚੁਣੋ।

Ans
✘ 1. ਵਿਸਥਾਪਨ
✘ 2. ਮੌਖਿਕ
✔ 3. ਆਪ-ਮੁਹਾਰਾਪਣ
✘ 4. ਅੰਤਰ-ਵਟਾਂਦਰਾ

Question ID : **630680241052**
Option 1 ID : **630680934676**
Option 2 ID : **630680934678**
Option 3 ID : **630680934677**
Option 4 ID : **630680934675**
Status : **Answered**
Chosen Option : **4**

DAILY JOB Alert ਪੰਜਾਬ

Q.86 'ਜਿਸ ਵਿੱਚ ਨਵੀਆਂ ਤੇ ਉਸਾਰੂ ਰੁਚੀਆਂ ਹੋਣ' ਉਸ ਨੂੰ ਕਹਿੰਦੇ ਹਨ।

Ans
1. ਆਸ਼ਾਵਾਦੀ
2. ਸਰਬ-ਵਿਆਪਕ
3. ਸਰਬ-ਗਿਆਤਾ
4. ਅਗਰਗਾਮੀ

Question ID : **630680241048**
Option 1 ID : **630680934662**
Option 2 ID : **630680934659**
Option 3 ID : **630680934661**
Option 4 ID : **630680934660**
Status : **Answered**
Chosen Option : **1**

Q.87 ਕਿਰਿਆ-ਵਿਸ਼ੇਸ਼ਣ ਦੀਆਂ ਕਿੰਨੀਆਂ ਅਵਸਥਾਵਾਂ ਹੁੰਦੀਆਂ ਹਨ?

Ans
1. ਦੋ
2. ਤਿੰਨ
3. ਪੰਜ
4. ਅੱਠ

Question ID : **630680241050**
Option 1 ID : **630680934667**
Option 2 ID : **630680934668**
Option 3 ID : **630680934670**
Option 4 ID : **630680934669**
Status : **Answered**
Chosen Option : **4**

Q.88 ਇਹ ਪੜ੍ਹ ਰਿਹਾ ਹੈ। ਕਿਹੜਾ ਪੜਨਾਂਵ ਹੈ?

Ans
1. ਅਨਿਸ਼ਚੇ-ਵਾਚਕ ਪੜਨਾਂਵ
2. ਸੰਬੰਧ-ਵਾਚਕ ਪੜਨਾਂਵ
3. ਨਿੱਜ-ਵਾਚਕ ਪੜਨਾਂਵ
4. ਨਿਸ਼ਚੇ-ਵਾਚਕ ਪੜਨਾਂਵ

Question ID : **630680241038**
Option 1 ID : **630680934619**
Option 2 ID : **630680934621**
Option 3 ID : **630680934622**
Option 4 ID : **630680934620**
Status : **Answered**
Chosen Option : **1**

Website - www.dailyjobalert.in

Q.89 ਸਹੀ ਸ਼ਬਦ ਦੀ ਚੋਣ ਕਰੋ।

Ans
✗ 1. ਅੌਗੁਣ
✗ 2. ਅਉਗੁਣ
✗ 3. ਅੌਗਣ
✓ 4. ਅੌਗੁਣ

Question ID : **630680241044**
Option 1 ID : **630680934646**
Option 2 ID : **630680934644**
Option 3 ID : **630680934643**
Option 4 ID : **630680934645**
Status : **Answered**
Chosen Option : **4**

Q.90 ਉਹ ਮਹਿੰ ਜਾਂ ਗਊ ਜਿਸ ਦੀ ਧਾਰ ਸੌਖੀ ਨਿਕਲ ਸਕੇ।

Ans
✗ 1. ਲਵੇਰੀ
✗ 2. ਘਰੂੜ
✓ 3. ਸੱਜਰ
✗ 4. ਖਿੱਲ

Question ID : **630680241049**
Option 1 ID : **630680934664**
Option 2 ID : **630680934663**
Option 3 ID : **630680934665**
Option 4 ID : **630680934666**
Status : **Answered**
Chosen Option : **1**

Q.91 ਦਿੱਤੇ ਗਏ ਸ਼ਬਦਾਂ ਵਿੱਚ ਸ਼ੁੱਧ ਸ਼ਬਦ ਕਿਹੜਾ ਹੈ?

Ans
✗ 1. ਸੁਨਨਾ
✗ 2. ਸੂਣਨਾ
✓ 3. ਸੁਣਨਾ
✗ 4. ਸੁਨਣਾ

Question ID : **630680241043**
Option 1 ID : **630680934642**
Option 2 ID : **630680934641**
Option 3 ID : **630680934639**
Option 4 ID : **630680934640**
Status : **Answered**
Chosen Option : **4**

Website - www.dailyjobalert.in

Q.92 ਹੇਠ ਲਿਖਿਆ ਵਿੱਚੋਂ ਸ਼ੁੱਧ ਸ਼ਬਦ ਦੀ ਚੋਣ ਕਰੋ।

Ans
✗ 1. ਆਰੰਭ
✗ 2. ਅਰਾਂਭ
✗ 3. ਅਰਾਂਬ
✓ 4. ਅਰੰਭ

Question ID : **630680241042**
Option 1 ID : **630680934637**
Option 2 ID : **630680934635**
Option 3 ID : **630680934638**
Option 4 ID : **630680934636**
Status : **Answered**
Chosen Option : **1**

Q.93 'ਚਾਚੀ ਜੀ ਸਵੈਟਰ ਬਣਾ ਰਹੇ ਹਨ' ਵਾਕ ਕਿਰਿਆ ਦਾ ਕਿਹੜਾ ਰੂਪ ਹੈ?

Ans
✗ 1. ਸਹਾਇਕ
✓ 2. ਸਰਕਮਕ
✗ 3. ਅਕਰਮਕ
✗ 4. ਸੰਸਰਗੀ

Question ID : **630680241040**
Option 1 ID : **630680934630**
Option 2 ID : **630680934628**
Option 3 ID : **630680934627**
Option 4 ID : **630680934629**
Status : **Answered**
Chosen Option : **2**

Q.94 ਸਾਰੇ ਪੜ੍ਹਦੇ ਹਨ। ਵਾਕ ਕਿਹੜਾ ਪੜਨਾਂਵ ਹੈ?

Ans
✗ 1. ਸਬੰਧ ਵਾਚਕ ਪੜਨਾਂਵ
✓ 2. ਅਨਿਸ਼ਚਿਤ-ਵਾਚਕ ਪੜਨਾਂਵ
✗ 3. ਨਿਸ਼ਚਿਤ-ਵਾਚਕ ਪੜਨਾਂਵ
✗ 4. ਪੁਰਖ-ਵਾਚਕ ਪੜਨਾਂਵ

Question ID : **630680241051**
Option 1 ID : **630680934671**
Option 2 ID : **630680934673**
Option 3 ID : **630680934672**
Option 4 ID : **630680934674**
Status : **Answered**
Chosen Option : **2**

Website - www.dailyjobalert.in

Q.95 'ਦਾਸ' ਸ਼ਬਦ ਦੇ ਸਮਾਨਅਰਥਕ ਸ਼ਬਦ ਚੁਣੋ।

Ans
1. ਸੇਵਕ, ਰਾਜਾ,ਪਰਜਾ
2. ਨਿਮਾਣਾ, ਨਿਤਾਣਾ, ਗਰੀਬ
3. ਦੋਸਤ, ਮਿੱਤਰ, ਸੱਜਣ
4. ਨੌਕਰ, ਸੇਵਕ, ਖਿਦਮਤਗਾਰ

Question ID : **630680241046**
Option 1 ID : **630680934652**
Option 2 ID : **630680934653**
Option 3 ID : **630680934654**
Option 4 ID : **630680934651**
Status : **Answered**
Chosen Option : **4**

Q.96 'ਖੁੰਢਾ' ਸ਼ਬਦ ਦਾ ਵਿਰੋਧੀ ਸ਼ਬਦ ਚੁਣੋ।

Ans
1. ਸੁੱਕਾ
2. ਤਿੱਖਾ
3. ਧੌਲਾ
4. ਖਰਾ

Question ID : **630680241047**
Option 1 ID : **630680934657**
Option 2 ID : **630680934656**
Option 3 ID : **630680934658**
Option 4 ID : **630680934655**
Status : **Answered**
Chosen Option : **2**

Comprehension:

ਭਾਈ ਸਾਹਿਬ ਭਾਈ ਵੀਰ ਸਿੰਘ ਪੰਜਾਬੀ ਦੇ ਆਧੁਨਿਕ ਸਾਹਿਤ ਦੇ ਸ਼੍ਰੋਮਣੀ ਤੇ ਸਭ ਤੋਂ ਪ੍ਰਭਾਵਸ਼ਾਲੀ ਲਿਖਾਰੀ ਸਨ। ਪੰਜਾਬੀ ਸਾਹਿੱਤ ਦੇ ਬਹੁਤ ਸਾਰਿਆਂ ਅੰਗਾਂ ਵਿੱਚ ਉਹ ਵਰਤਮਾਨ ਸਮੇਂ ਵਿੱਚ ਮੋਢੀ ਸਨ ਤੇ ਹਰ ਇੱਕ ਅੰਗ ਵਿੱਚ ਲਿਖਣ-ਢੰਗ ਤੇ ਪ੍ਰਗਟਾਉਪੁਣੇ ਦੇ ਸੁਹਜ ਤੇ ਨਫ਼ਾਸਤ ਨੂੰ ਉਹਨਾਂ ਟੀਸੀ ਤੱਕ ਪਹੁੰਚਾਇਆ ਸੀ। ਪੰਜਾਬੀ ਸਾਹਿਤ ਦੇ ਪਿਛਲੇ ਪੰਜਾਹ ਵਰ੍ਹਿਆਂ ਦੇ ਸਮੇਂ ਨੂੰ ਭਾਈ ਵੀਰ ਸਿੰਘ ਦਾ ਸਮਾਂ ਕਿਹਾ ਜਾ ਸਕਦਾ ਹੈ, ਕਿਉਂਕਿ ਇਸ ਸਮੇਂ ਵਿੱਚ ਪੰਜਾਬੀ ਸਾਹਿਤ ਵਿੱਚ ਕੇਂਦਰੀ ਵਿਅਕਤੀ ਉਹੋ ਹੀ ਸਨ ਤੇ ਕਵਿਤਾ ਤੇ ਵਾਰਤਕ ਵਿੱਚ ਹੁਣ ਤੀਕ ਉਹਨਾਂ ਦਾ ਹੀ ਰੰਗ ਤੇ ਉਹਨਾਂ ਦੀ ਹੀ ਸ਼ੈਲੀ-ਨਿਯਮ ਛਲਕਦੇ ਰਹੇ ਹਨ।

SubQuestion No : 97

Q.97 ਆਧੁਨਿਕ ਪੰਜਾਬੀ ਸਾਹਿਤ ਉੱਤੇ ਭਾਈ ਵੀਰ ਸਿੰਘ ਦੁਆਰਾ ਰਚੇ ਕਿਹੜੇ ਸਾਹਿਤ ਰੂਪਾਂ ਦਾ ਵੱਧ ਪ੍ਰਭਾਵ ਰਿਹਾ ਹੈ?

Ans
1. ਵਾਰਤਕ ਤੇ ਕਵਿਤਾ
2. ਨਾਵਲ ਤੇ ਕਹਾਣੀ
3. ਨਾਟਕ ਤੇ ਵਾਰਤਕ
4. ਪ੍ਰਗੀਤ ਤੇ ਨਾਵਲ

Question ID : **630680241057**
Option 1 ID : **630680934693**
Option 2 ID : **630680934691**
Option 3 ID : **630680934692**
Option 4 ID : **630680934694**
Status : **Answered**
Chosen Option : **1**

Website - www.dailyjobalert.in

Comprehension:

ਭਾਈ ਸਾਹਿਬ ਭਾਈ ਵੀਰ ਸਿੰਘ ਪੰਜਾਬੀ ਦੇ ਆਧੁਨਿਕ ਸਾਹਿਤ ਦੇ ਸ਼੍ਰੋਮਣੀ ਤੇ ਸਭ ਤੋਂ ਪ੍ਰਭਾਵਸ਼ਾਲੀ ਲਿਖਾਰੀ ਸਨ। ਪੰਜਾਬੀ ਸਾਹਿੱਤ ਦੇ ਬਹੁਤ ਸਾਰਿਆਂ ਅੰਗਾਂ ਵਿੱਚ ਉਹ ਵਰਤਮਾਨ ਸਮੇਂ ਵਿੱਚ ਮੋਢੀ ਸਨ ਤੇ ਹਰ ਇੱਕ ਅੰਗ ਵਿੱਚ ਲਿਖਣ-ਢੰਗ ਤੇ ਪ੍ਰਗਟਾਉਪੁਣੇ ਦੇ ਸੁਹਜ ਤੇ ਨਫ਼ਾਸਤ ਨੂੰ ਉਹਨਾਂ ਟੀਸੀ ਤੱਕ ਪਹੁੰਚਾਇਆ ਸੀ। ਪੰਜਾਬੀ ਸਾਹਿਤ ਦੇ ਪਿਛਲੇ ਪੰਜਾਹ ਵਰ੍ਹਿਆਂ ਦੇ ਸਮੇਂ ਨੂੰ ਭਾਈ ਵੀਰ ਸਿੰਘ ਦਾ ਸਮਾਂ ਕਿਹਾ ਜਾ ਸਕਦਾ ਹੈ, ਕਿਉਂਕਿ ਇਸ ਸਮੇਂ ਵਿੱਚ ਪੰਜਾਬੀ ਸਾਹਿਤ ਵਿੱਚ ਕੇਂਦਰੀ ਵਿਅਕਤੀ ਉਹੋ ਹੀ ਸਨ ਤੇ ਕਵਿਤਾ ਤੇ ਵਾਰਤਕ ਵਿੱਚ ਹੁਣ ਤੀਕ ਉਹਨਾਂ ਦਾ ਹੀ ਰੰਗ ਤੇ ਉਹਨਾਂ ਦੀ ਹੀ ਸ਼ੈਲੀ-ਨਿਯਮ ਛਲਕਦੇ ਰਹੇ ਹਨ।

SubQuestion No : 98

Q.98 ਭਾਈ ਵੀਰ ਸਿੰਘ ਨੇ ਆਪਣੇ ਲਿਖਣ ਢੰਗ ਵਿੱਚ ਕਿਸ ਨੂੰ ਟੀਸੀ ਤੱਕ ਪਹੁੰਚਦਾ ਕੀਤਾ ਹੈ?

Ans

✔ 1. ਸੁਹਜ ਤੇ ਨਫ਼ਾਸਤ

✘ 2. ਕਵਿਤਾ ਤੇ ਵਾਰਤਕ ਨੂੰ

✘ 3. ਸ਼ੈਲੀ ਨਿਯਮ ਨੂੰ

✘ 4. ਲਿਖਾਰੀ ਦੇ ਪ੍ਰਭਾਵਸ਼ਾਲੀ ਹੋਣ

Question ID : **630680241056**
Option 1 ID : **630680934690**
Option 2 ID : **630680934689**
Option 3 ID : **630680934687**
Option 4 ID : **630680934688**
Status : **Answered**
Chosen Option : **1**

Comprehension:

ਭਾਈ ਸਾਹਿਬ ਭਾਈ ਵੀਰ ਸਿੰਘ ਪੰਜਾਬੀ ਦੇ ਆਧੁਨਿਕ ਸਾਹਿਤ ਦੇ ਸ਼੍ਰੋਮਣੀ ਤੇ ਸਭ ਤੋਂ ਪ੍ਰਭਾਵਸ਼ਾਲੀ ਲਿਖਾਰੀ ਸਨ। ਪੰਜਾਬੀ ਸਾਹਿੱਤ ਦੇ ਬਹੁਤ ਸਾਰਿਆਂ ਅੰਗਾਂ ਵਿੱਚ ਉਹ ਵਰਤਮਾਨ ਸਮੇਂ ਵਿੱਚ ਮੋਢੀ ਸਨ ਤੇ ਹਰ ਇੱਕ ਅੰਗ ਵਿੱਚ ਲਿਖਣ-ਢੰਗ ਤੇ ਪ੍ਰਗਟਾਉਪੁਣੇ ਦੇ ਸੁਹਜ ਤੇ ਨਫ਼ਾਸਤ ਨੂੰ ਉਹਨਾਂ ਟੀਸੀ ਤੱਕ ਪਹੁੰਚਾਇਆ ਸੀ। ਪੰਜਾਬੀ ਸਾਹਿਤ ਦੇ ਪਿਛਲੇ ਪੰਜਾਹ ਵਰ੍ਹਿਆਂ ਦੇ ਸਮੇਂ ਨੂੰ ਭਾਈ ਵੀਰ ਸਿੰਘ ਦਾ ਸਮਾਂ ਕਿਹਾ ਜਾ ਸਕਦਾ ਹੈ, ਕਿਉਂਕਿ ਇਸ ਸਮੇਂ ਵਿੱਚ ਪੰਜਾਬੀ ਸਾਹਿਤ ਵਿੱਚ ਕੇਂਦਰੀ ਵਿਅਕਤੀ ਉਹੋ ਹੀ ਸਨ ਤੇ ਕਵਿਤਾ ਤੇ ਵਾਰਤਕ ਵਿੱਚ ਹੁਣ ਤੀਕ ਉਹਨਾਂ ਦਾ ਹੀ ਰੰਗ ਤੇ ਉਹਨਾਂ ਦੀ ਹੀ ਸ਼ੈਲੀ-ਨਿਯਮ ਛਲਕਦੇ ਰਹੇ ਹਨ।

SubQuestion No : 99

Q.99 ਭਾਈ ਵੀਰ ਸਿੰਘ ਪੰਜਾਬੀ ਦੇ ਆਧੁਨਿਕ ਸਾਹਿਤ ਦੇ ਸ਼੍ਰੋਮਣੀ ਤੇ ਸਭ ਤੋਂ ਪ੍ਰਭਾਵਸ਼ਾਲੀ ਲਿਖਾਰੀ ਸਨ। ਵਾਕ ਵਿੱਚ ਵਰਤਿਆ ਗਿਆ ਸ਼ਬਦ 'ਤੋਂ' ਕੀ ਹੈ।

Ans

✔ 1. ਯੋਜਕ

✘ 2. ਕਿਰਿਆ

✘ 3. ਵਿਸ਼ੇਸ਼ਣ

✘ 4. ਸਬੰਧਕ

Question ID : **630680241058**
Option 1 ID : **630680934695**
Option 2 ID : **630680934696**
Option 3 ID : **630680934698**
Option 4 ID : **630680934697**
Status : **Answered**
Chosen Option : **3**

Website - www.dailyjobalert.in

Comprehension:

ਭਾਈ ਸਾਹਿਬ ਭਾਈ ਵੀਰ ਸਿੰਘ ਪੰਜਾਬੀ ਦੇ ਆਧੁਨਿਕ ਸਾਹਿਤ ਦੇ ਸ਼੍ਰੋਮਣੀ ਤੇ ਸਭ ਤੋਂ ਪ੍ਰਭਾਵਸ਼ਾਲੀ ਲਿਖਾਰੀ ਸਨ। ਪੰਜਾਬੀ ਸਾਹਿੱਤ ਦੇ ਬਹੁਤ ਸਾਰਿਆਂ ਅੰਗਾਂ ਵਿੱਚ ਉਹ ਵਰਤਮਾਨ ਸਮੇਂ ਵਿੱਚ ਮੋਢੀ ਸਨ ਤੇ ਹਰ ਇੱਕ ਅੰਗ ਵਿੱਚ ਲਿਖਣ-ਢੰਗ ਤੇ ਪ੍ਰਗਟਾਉਪੁਣੇ ਦੇ ਸੁਹਜ ਤੇ ਨਫ਼ਾਸਤ ਨੂੰ ਉਹਨਾਂ ਟੀਸੀ ਤੱਕ ਪਹੁੰਚਾਇਆ ਸੀ। ਪੰਜਾਬੀ ਸਾਹਿਤ ਦੇ ਪਿਛਲੇ ਪੰਜਾਹ ਵਰ੍ਹਿਆਂ ਦੇ ਸਮੇਂ ਨੂੰ ਭਾਈ ਵੀਰ ਸਿੰਘ ਦਾ ਸਮਾਂ ਕਿਹਾ ਜਾ ਸਕਦਾ ਹੈ, ਕਿਉਂਕਿ ਇਸ ਸਮੇਂ ਵਿੱਚ ਪੰਜਾਬੀ ਸਾਹਿਤ ਵਿੱਚ ਕੇਂਦਰੀ ਵਿਅਕਤੀ ਉਹੋ ਹੀ ਸਨ ਤੇ ਕਵਿਤਾ ਤੇ ਵਾਰਤਕ ਵਿੱਚ ਹੁਣ ਤੀਕ ਉਹਨਾਂ ਦਾ ਹੀ ਰੰਗ ਤੇ ਉਹਨਾਂ ਦੀ ਹੀ ਸ਼ੈਲੀ-ਨਿਯਮ ਛਲਕਦੇ ਰਹੇ ਹਨ।

SubQuestion No : 100

Q.100 ਉਪਰੋਕਤ ਪੈਰੇ ਦਾ ਢੁੱਕਵਾਂ ਸਿਰਲੇਖ ਹੈ।

Ans

✗ 1. ਭਾਈ ਵੀਰ ਸਿੰਘ ਦੀ ਜੀਵਨੀ

✗ 2. ਭਾਈ ਵੀਰ ਸਿੰਘ ਦੀ ਲਿਖਣ ਸ਼ੈਲੀ

✓ 3. ਭਾਈ ਵੀਰ ਸਿੰਘ ਦਾ ਸਮਾਂ

✗ 4. ਭਾਈ ਵੀਰ ਸਿੰਘ ਦੀ ਸਾਹਿਤ ਸੇਵਾ

Question ID : **630680241055**
Option 1 ID : **630680934683**
Option 2 ID : **630680934686**
Option 3 ID : **630680934685**
Option 4 ID : **630680934684**
Status : **Answered**
Chosen Option : **2**

DAILY JOB Alert ਪੰਜਾਬ

PUNJAB POLICE

Police to its last particle is duty

Exam Name	Recruitment for the post of Sub Inspector in Cadres of District and Armed Police 20th Jun to 31st Jul 2023 Paper I
Application No	www.dailyjobalert.in
Roll No	Telegram - Daily Job Alert Punjab
Applicant Name	instagram - Daily Job Alert Punjab
Exam Date	29/06/2023
Shift	12:30 PM - 2:30 PM
Subject	Sub Inspector Paper I

Section : **General Awareness**

Q.1 ਅਕਤੂਬਰ 2021 ਵਿੱਚ ਆਯੋਜਿਤ 74ਵੀਂ ਸੀਨੀਅਰ ਨੈਸ਼ਨਲ ਐਕੁਏਟਿਕ ਚੈਂਪੀਅਨਸ਼ਿਪ ਵਿੱਚ 50 ਮੀਟਰ ਫਰੀਸਟਾਇਲ ਈਵੈਂਟ ਵਿੱਚ ਸੋਨ ਤਮਗਾ ਜਿੱਤ ਕੇ, ਸਭ ਤੋਂ ਤੇਜ ਭਾਰਤੀ ਤੈਰਾਕ ਹੋਣ ਦਾ ਖਿਤਾਬ ਕਿਸਨੇ ਆਪਣੇ ਨਾਮ ਕੀਤਾ?

Ans
- ✗ 1. ਹੀਰ ਸ਼ਾਹ (Heer Shah)
- ✗ 2. ਅਨੀਸ਼ ਗੌੜਾ (Aneesh Gowda)
- ✗ 3. ਮਿਹਿਰ ਆਂਬਰੇ (Mihir Ambre)
- ✓ 4. ਸੰਭਵ ਆਰ (Sambhavv R)

Question ID : **63068061977**
Option 1 ID : **630680239227**
Option 2 ID : **630680239229**
Option 3 ID : **630680239226**
Option 4 ID : **630680239228**
Status : **Answered**
Chosen Option : **2**

Q.2 71ਵੀਂ ਸੋਧ ਐਕਟ, 1992 ਦੁਆਰਾ ਹੇਠ ਲਿਖੀਆਂ ਵਿੱਚੋਂ ਕਿਹੜੀਆਂ ਤਿੰਨ ਭਾਸ਼ਾਵਾਂ ਨੂੰ ਭਾਸ਼ਾਵਾਂ ਦੀ ਅੱਠਵੀਂ ਅਨੁਸੂਚੀ ਵਿੱਚ ਸ਼ਾਮਲ ਕੀਤਾ ਗਿਆ ਸੀ?

Ans
- ✗ 1. ਮਨੀਪੁਰੀ, ਬੋਡੋ, ਮਰਾਠੀ
- ✓ 2. ਕੋਂਕਣੀ, ਮਨੀਪੁਰੀ, ਨੇਪਾਲੀ
- ✗ 3. ਡੋਗਰੀ, ਸੰਥਾਲੀ, ਕੋਂਕਣੀ
- ✗ 4. ਮੈਥਿਲੀ, ਨੇਪਾਲੀ, ਸਿੰਧੀ

Question ID : **63068068866**
Option 1 ID : **630680266155**
Option 2 ID : **630680266157**
Option 3 ID : **630680266156**
Option 4 ID : **630680266154**
Status : **Answered**
Chosen Option : **2**

Website - www.dailyjobalert.in

Q.3 ਕਿਹੜਾ ਦੇਸ਼ 2025 ਏਸ਼ੀਅਨ ਯੂਥ ਪੈਰਾ ਖੇਡਾਂ ਦੀ ਮੇਜ਼ਬਾਨੀ ਕਰੇਗਾ?

Ans
✗ 1. ਚੀਨ
✗ 2. ਬਹਿਰੀਨ
✗ 3. ਇੰਡੋਨੇਸ਼ੀਆ
✓ 4. ਉਜ਼ਬੇਕਿਸਤਾਨ

Question ID : **63068068666**
Option 1 ID : **630680265356**
Option 2 ID : **630680265355**
Option 3 ID : **630680265357**
Option 4 ID : **630680265354**
Status : **Answered**
Chosen Option : **1**

Q.4 ਬ੍ਰਿਟਿਸ਼ ਭਾਰਤ ਅਤੇ ਅਫਗਾਨਿਸਤਾਨ ਦੇ ਵਿਚਕਾਰ ਦੁਰੰਦ ਰੇਖਾ _____ ਵਿੱਚ ਖਿੱਚੀ ਗਈ।

Ans
✗ 1. 1880
✗ 2. 1901
✗ 3. 1898
✓ 4. 1893

Question ID : **63068069646**
Option 1 ID : **630680269250**
Option 2 ID : **630680269253**
Option 3 ID : **630680269252**
Option 4 ID : **630680269251**
Status : **Answered**
Chosen Option : **2**

Q.5 ਪੰਜਾਬ ਦਾ ਟਿੱਕਾ ਤਿਉਹਾਰ _____ ਦਾ ਜਸ਼ਨ ਮਨਾਉਣ ਲਈ ਮਨਾਇਆ ਜਾਂਦਾ ਹੈ।

Ans
✗ 1. ਬਸੰਤ ਦੀ ਸ਼ੁਰੂਆਤ
✗ 2. ਵਿਆਹੁਤਾ ਬੰਧਨ
✗ 3. ਹਿੰਮਤ ਅਤੇ ਤਾਕਤ
✓ 4. ਭਾਈ-ਭੈਣ ਦੇ ਪਿਆਰ

Question ID : **630680238515**
Option 1 ID : **630680925079**
Option 2 ID : **630680925076**
Option 3 ID : **630680925078**
Option 4 ID : **630680925077**
Status : **Answered**
Chosen Option : **4**

Website - www.dailyjobalert.in

Q.6 ਭਾਰਤ ਵਿੱਚ ਸਿੱਖਿਆ ਖੇਤਰ ਦੇ ਸੰਦਰਭ ਵਿੱਚ, NCERT ਦਾ ਅਰਥ _____ ਹੈ।

Ans

✗ 1. ਨੈਸ਼ਨਲ ਕਾਰਪੋਰੇਸ਼ਨ ਆਫ਼ ਐਜੂਕੇਸ਼ਨਲ ਰਿਸਰਚ ਐਂਡ ਟੀਚਿੰਗ (National Corporation of Educational Research and Teaching)

✗ 2. ਨੈਸ਼ਨਲ ਕੌਂਸਲ ਆਫ਼ ਐਜੂਕੇਸ਼ਨਲ ਰਿਸਰਚ ਐਂਡ ਟੀਚਿੰਗ(National Council of Educational Research and Teaching

✗ 3. ਨੈਸ਼ਨਲ ਕਮਿਸ਼ਨ ਆਫ਼ ਐਜੂਕੇਸ਼ਨਲ ਰਿਸਰਚ ਐਂਡ ਟਰੇਨਿੰਗ (National Commission of Educational Research and Training)

✓ 4. ਨੈਸ਼ਨਲ ਕੌਂਸਲ ਆਫ਼ ਐਜੂਕੇਸ਼ਨਲ ਰਿਸਰਚ ਐਂਡ ਟਰੇਨਿੰਗ (National Council of Educational Research and Training)

Question ID : **63068059088**
Option 1 ID : **630680227975**
Option 2 ID : **630680227976**
Option 3 ID : **630680227977**
Option 4 ID : **630680227974**
Status : **Answered**
Chosen Option : **2**

Q.7 ਹੇਠ ਲਿਖਿਆਂ ਵਿੱਚੋਂ ਕਿਹੜੀ ਨਦੀ ਪੀਰ ਪੰਜਾਲ ਦੀ ਪਹਾੜੀ ਦੀ ਤਲਹਟੀ ਵਿੱਚ ਵੇਰੀਨਾਗ ਵਿੱਚੋਂ ਨਿਕਲਦੀ ਹੈ?

Ans

✓ 1. ਜੇਹਲਮ

✗ 2. ਸਿੰਧ

✗ 3. ਗੰਗਾ

✗ 4. ਚਨਾਬ

Question ID : **63068068619**
Option 1 ID : **630680265168**
Option 2 ID : **630680265166**
Option 3 ID : **630680265167**
Option 4 ID : **630680265169**
Status : **Answered**
Chosen Option : **3**

Q.8 CNG ਨੂੰ ਪੈਟਰੋਲ ਅਤੇ ਡੀਜ਼ਲ ਨਾਲੋਂ ਬਿਹਤਰ ਬਾਲਣ ਕਿਉਂ ਮੰਨਿਆ ਜਾਂਦਾ ਹੈ?

Ans

✗ 1. ਇਸ ਦੀ ਨਿਰਵਿਘਨ ਸਪਲਾਈ ਹੈ।

✓ 2. ਇਹ ਵਧੇਰੇ ਕੁਸ਼ਲਤਾ ਨਾਲ ਬਲਦਾ ਹੈ।

✗ 3. ਇਸ ਵਿੱਚ ਮਿਲਾਵਟ ਹੋ ਸਕਦੀ ਹੈ।

✗ 4. ਇਹ ਜ਼ਿਆਦਾ ਮਹਿੰਗਾ ਹੈ।

Question ID : **63068049659**
Option 1 ID : **630680191069**
Option 2 ID : **630680191067**
Option 3 ID : **630680191068**
Option 4 ID : **630680191066**
Status : **Answered**
Chosen Option : **1**

Q.9 ਹੇਠ ਲਿਖਿਆਂ ਵਿੱਚੋਂ ਕਿਸ ਰਾਜ ਵਿੱਚ ਦੋ-ਸਦਨੀ ਵਿਧਾਨ ਮੰਡਲ ਹੈ?

Ans
✗ 1. ਅਸਾਮ
✗ 2. ਕੇਰਲਾ
✓ 3. ਬਿਹਾਰ
✗ 4. ਗੁਜਰਾਤ

Question ID : **63068051534**
Option 1 ID : **630680198373**
Option 2 ID : **630680198370**
Option 3 ID : **630680198372**
Option 4 ID : **630680198371**
Status : **Answered**
Chosen Option : **4**

Q.10 ਦੂਜੀ ਐਂਗਲੋ-ਸਿੱਖ ਜੰਗ ਦੌਰਾਨ ਸਿੱਖ ਫੌਜਾਂ ਦੀ ਅਗਵਾਈ ਹੇਠ ਦਿੱਤਿਆਂ ਵਿੱਚੋਂ ਕਿਸਨੇ ਕੀਤੀ?

Ans
✗ 1. ਚੌਧਰੀ ਫੂਲ ਸਿੰਘ
✗ 2. ਜੱਸਾ ਸਿੰਘ ਰਾਮਗੜ੍ਹੀਆ
✗ 3. ਸਰਦਾਰ ਕਾਨ੍ਹ ਸਿੰਘ ਨਕੈਈ
✓ 4. ਸ਼ੇਰ ਸਿੰਘ ਅਟਾਰੀਵਾਲਾ

Question ID : **630680238404**
Option 1 ID : **630680924635**
Option 2 ID : **630680924633**
Option 3 ID : **630680924634**
Option 4 ID : **630680924632**
Status : **Answered**
Chosen Option : **2**

Q.11 ਹੇਠ ਲਿਖਿਆਂ ਵਿੱਚੋਂ ਇੱਕ ਮਹਾਨ ਨਾਚ ਗੁਰੂ ਕੌਣ ਸੀ?

Ans
✓ 1. ਕੇਲੁਚਰਨ ਮਹਾਪਾਤਰਾ
✗ 2. ਉਸਤਾਦ ਬਿਸਮਿੱਲਾਹ ਖਾਨ
✗ 3. ਜ਼ਾਕਿਰ ਹੁਸੈਨ
✗ 4. ਭੂਪੇਨ ਹਜ਼ਾਰਿਕਾ

Question ID : **63068087700**
Option 1 ID : **630680340185**
Option 2 ID : **630680340187**
Option 3 ID : **630680340186**
Option 4 ID : **630680340188**
Status : **Answered**
Chosen Option : **1**

Website - www.dailyjobalert.in

Q.12 ਛੇਵੀਂ ਸਦੀ ਵਿੱਚ ਦੱਖਣ ਦਾ ਸਭ ਤੋਂ ਮਹਤੱਵਪੂਰਨ ਰਾਜਵੰਸ਼ _____ ਸੀ, ਜਿਸਨੇ ਦੋ ਸ਼ਤਾਬਦੀਆਂ ਤੱਕ ਦੱਖਣ ਦੇ ਇੱਕ ਵੱਡੇ ਭਾਗ ਨੂੰ ਨਿਯੰਤਰਿਤ ਕੀਤਾ ਸੀ।

Ans
1. ਬਨਵਾਸੀ ਦਾ ਕਾਦੰਬ ਰਾਜਵੰਸ਼
2. ਪੁਸ਼ਕਰੀ ਦਾ ਨਲ ਰਾਜਵੰਸ਼
3. ਵਾਤਾਪੀ ਕਾ ਚਾਲੁਕਿਆ ਰਾਜਵੰਸ਼
4. ਮਹਸ਼ਮਤੀ ਦਾ ਕਲਚੁਰੀ ਰਾਜਵੰਸ਼

Question ID : **63068080443**
Option 1 ID : **630680311800**
Option 2 ID : **630680311798**
Option 3 ID : **630680311799**
Option 4 ID : **630680311797**
Status : **Answered**
Chosen Option : **2**

Q.13 ਮਾਰਚ 2023 ਅਨੁਸਾਰ, NISAR _____ ਦਾ ਇੱਕ ਸਾਂਝਾ ਮਿਸ਼ਨ ਹੈ।

Ans
1. ਨਾਸਾ ਅਤੇ ਸਪੇਸ X
2. ਨਾਸਾ ਅਤੇ ਯੂਰਪੀਅਨ ਸਪੇਸ ਏਜੰਸੀ
3. ਇਸਰੋ ਅਤੇ ਯੂਰਪੀਅਨ ਸਪੇਸ ਏਜੰਸੀ
4. ਨਾਸਾ ਅਤੇ ਇਸਰੋ

Question ID : **630680115961**
Option 1 ID : **630680449174**
Option 2 ID : **630680449176**
Option 3 ID : **630680449177**
Option 4 ID : **630680449175**
Status : **Answered**
Chosen Option : **1**

Q.14 _____ ਦੇਸ਼ ਦੇ ਅੰਦਰ ਵਸਤੂਆਂ ਅਤੇ ਸੇਵਾਵਾਂ ਪੈਦਾ ਕਰਨ ਦੀ ਸਮਰੱਥਾ ਵਿੱਚ ਵਾਧੇ ਨੂੰ ਦਰਸਾਉਂਦਾ ਹੈ।

Ans
1. ਇਕੁਇਟੀ (Equity)
2. ਵਿਕਾਸ (Growth)
3. ਉਦਾਰੀਕਰਨ (Liberalisation)
4. ਆਧੁਨਿਕੀਕਰਨ (Modernisation)

Question ID : **63068056643**
Option 1 ID : **630680218508**
Option 2 ID : **630680218506**
Option 3 ID : **630680218509**
Option 4 ID : **630680218507**
Status : **Answered**
Chosen Option : **2**

Website - www.dailyjobalert.in

Q.15 ਭਾਰਤ ਦੇ ਸੰਵਿਧਾਨ ਦੀ ਕਿਹੜੀ ਅਨੁਸੂਚੀ ਦੇ ਤਹਿਤ 'ਸਥਾਨਕ ਸਰਕਾਰ' ਨੂੰ ਰਾਜ ਸੂਚੀ ਵਿੱਚ ਇੱਕ ਵਿਸ਼ੇ ਵਜੋਂ ਦਰਸਾਇਆ ਗਿਆ ਹੈ?

Ans
✔ 1. 7ਵੀਂ ਅਨੁਸੂਚੀ
✘ 2. 6ਵੀਂ ਅਨੁਸੂਚੀ
✘ 3. 5ਵੀਂ ਅਨੁਸੂਚੀ
✘ 4. 8ਵੀਂ ਅਨੁਸੂਚੀ

Question ID : **63068052974**
Option 1 ID : **630680204000**
Option 2 ID : **630680203999**
Option 3 ID : **630680203998**
Option 4 ID : **630680204001**
Status : **Answered**
Chosen Option : **1**

Q.16 ਕਿਹੜੀ ਨਦੀ ਨੂੰ ਯਾਰਲੁੰਗ ਸਾਂਗਪੋ ਕਿਹਾ ਜਾਂਦਾ ਹੈ?

Ans
✔ 1. ਬ੍ਰਹਮਪੁੱਤਰ
✘ 2. ਕ੍ਰਿਸ਼ਨਾ
✘ 3. ਸਿੰਧ
✘ 4. ਸਤਲੁਜ

Question ID : **63068085273**
Option 1 ID : **630680330597**
Option 2 ID : **630680330598**
Option 3 ID : **630680330596**
Option 4 ID : **630680330599**
Status : **Answered**
Chosen Option : **2**

Q.17 ਹੇਠ ਦਿੱਤਿਆਂ ਵਿੱਚੋਂ ਕਿਹੜੇ ਐਕਟ ਨੇ ਪਹਿਲੀ ਵਾਰ ਬਸਤੀਵਾਦ ਭਾਰਤ ਵਿੱਚ ਭਾਵ ਪ੍ਰਗਟ ਕਰਨ ਦੀ ਆਜ਼ਾਦੀ ਉੱਤੇ ਰੋਕ ਲਗਾਈ?

Ans
✘ 1. ਭਾਰਤੀ ਪਰੀਸ਼ਦ, 1892
✔ 2. ਸਵਦੇਸ਼ੀ ਪ੍ਰੈਸ ਐਕਟ, 1878
✘ 3. ਚਾਰਟਰ ਐਕਟ, 1833
✘ 4. ਭਾਰਤ ਸਰਕਾਰ ਐਕਟ, 1909

Question ID : **630680146030**
Option 1 ID : **630680565019**
Option 2 ID : **630680565021**
Option 3 ID : **630680565018**
Option 4 ID : **630680565020**
Status : **Answered**
Chosen Option : **3**

Website - www.dailyjobalert.in

Q.18 ਭਾਰਤ ਦੀ NHRC ਦੀ ਸਥਾਪਨਾ _____ ਸਿਧਾਂਤਾਂ ਦੇ ਅਨੁਸਾਰ ਕੀਤੀ ਗਈ ਸੀ, ਜੋ ਕਿ 1991 ਵਿੱਚ ਆਯੋਜਿਤ ਮਨੁੱਖੀ ਅਧਿਕਾਰਾਂ ਦੇ ਪ੍ਰਚਾਰ ਅਤੇ ਸੁਰੱਖਿਆ ਲਈ ਰਾਸ਼ਟਰੀ ਸੰਸਥਾਵਾਂ 'ਤੇ ਪਹਿਲੀ ਅੰਤਰਰਾਸ਼ਟਰੀ ਵਰਕਸ਼ਾਪ ਵਿੱਚ ਅਪਣਾਏ ਗਏ ਸਨ।

Ans
1. ✗ ਟੋਕੀਓ
2. ✓ ਪੈਰਿਸ
3. ✗ ਨਿਊਯਾਰਕ
4. ✗ ਮਾਸਕੋ

Question ID : **630680238385**
Option 1 ID : **630680924557**
Option 2 ID : **630680924556**
Option 3 ID : **630680924558**
Option 4 ID : **630680924559**
Status : **Answered**
Chosen Option : **3**

Q.19 ਕਿਸ ਮਾਮਲੇ ਵਿੱਚ ਸੁਪਰੀਮ ਕੋਰਟ ਨੇ ਇਹ ਟਿੱਪਣੀ ਕੀਤੀ ਕਿ "ਸੰਵਿਧਾਨ ਸੰਘੀ ਪੱਧਰ ਦੇ ਨਾਲ-ਨਾਲ ਰਾਜ ਪੱਧਰ ਉੱਤੇ ਇੱਕ ਕਲਿਆਣਕਾਰੀ ਰਾਜ ਦੀ ਸਥਾਪਨਾ ਦੀ ਪਰਿਕਲਪਨਾ ਕਰਦਾ ਹੈ।" ਕਲਿਆਣਕਾਰੀ ਰਾਜ ਵਿੱਚ ਸਰਕਾਰ ਦਾ ਮੁੱਢਲਾ ਫਰਜ਼ ਲੋਕਾਂ ਦੀ ਭਲਾਈ ਨੂੰ ਸੁਰੱਖਿਅਤ ਕਰਨਾ ਹੁੰਦਾ ਹੈ।?

Ans
1. ✓ ਪੱਸ਼ਚਿਮ ਬੰਗਾ ਖੇਤ ਮਜ਼ਦੂਰ ਸਮਿਤੀ ਬਨਾਮ ਪੱਛਮੀ ਬੰਗਾਲ ਰਾਜ
2. ✗ ਮਿਨਰਵਾ ਮਿੱਲਜ਼ ਲਿਮਿਟੇਡ ਅਤੇ ਹੋਰ ਬਨਾਮ ਭਾਰਤ ਸੰਘ
3. ✗ ਸੱਜਣ ਸਿੰਘ ਬਨਾਮ ਰਾਜਸਥਾਨ ਰਾਜ
4. ✗ ਐਸ.ਆਰ. ਬੋਮੱਈ ਬਨਾਮ ਭਾਰਤ ਸੰਘ

Question ID : **63068089661**
Option 1 ID : **630680347420**
Option 2 ID : **630680347421**
Option 3 ID : **630680347418**
Option 4 ID : **630680347419**
Status : **Answered**
Chosen Option : **4**

Q.20 ਹੇਠ ਲਿਖਿਆਂ ਵਿੱਚੋਂ ਕਿਹੜੀ ਭਾਰਤੀ ਸੰਵਿਧਾਨ ਦੀ ਵਿਸ਼ੇਸ਼ਤਾ ਨਹੀਂ ਹੈ?

Ans
1. ✗ ਸੁਤੰਤਰ ਨਿਆਂਪਾਲਿਕਾ
2. ✗ ਲਿਖਤੀ ਸੰਵਿਧਾਨ
3. ✗ ਕਾਨੂੰਨ ਦਾ ਸ਼ਾਸਨ
4. ✓ ਦੋਹਰੀ ਨਾਗਰਿਕਤਾ

Question ID : **630680162963**
Option 1 ID : **630680631082**
Option 2 ID : **630680631081**
Option 3 ID : **630680631083**
Option 4 ID : **630680631080**
Status : **Answered**
Chosen Option : **4**

Website - www.dailyjobalert.in

Q.21 ਭਾਰਤ ਦੇ ਸੰਵਿਧਾਨ ਦਾ ਕਿਹੜਾ ਆਰਟੀਕਲ ਕੇਂਦਰ ਸ਼ਾਸਤ ਪ੍ਰਦੇਸ਼ਾਂ ਨਾਲ ਸੰਬੰਧਤ ਹਨ?

Ans
✔ 1. ਆਰਟੀਕਲ 239 ਤੋਂ 241
✘ 2. ਆਰਟੀਕਲ 156 ਤੋਂ 178
✘ 3. ਆਰਟੀਕਲ 245 ਤੋਂ 263
✘ 4. ਆਰਟੀਕਲ 183 ਤੋਂ 198

Question ID : **63068099226**
Option 1 ID : **630680385610**
Option 2 ID : **630680385608**
Option 3 ID : **630680385611**
Option 4 ID : **630680385609**
Status : **Answered**
Chosen Option : **1**

Q.22 2004 ਵਿੱਚ ਸ਼ਾਸਤਰੀ ਭਾਸ਼ਾ ਦੀ ਸ਼੍ਰੇਣੀ ਵਿੱਚ ਸ਼ਾਮਲ ਕੀਤੀ ਜਾਣ ਵਾਲੀ ਪਹਿਲੀ ਭਾਸ਼ਾ ਕਿਹੜੀ ਸੀ?

Ans
✘ 1. ਸੰਸਕ੍ਰਿਤ
✔ 2. ਤਮਿਲ
✘ 3. ਓਡੀਆ
✘ 4. ਤੇਲਗੂ

Question ID : **63068086128**
Option 1 ID : **630680333945**
Option 2 ID : **630680333944**
Option 3 ID : **630680333947**
Option 4 ID : **630680333946**
Status : **Answered**
Chosen Option : **1**

Q.23 1947 ਵਿੱਚ ਵੰਡ ਤੋਂ ਪਹਿਲਾਂ ਅਣਵੰਡੇ ਪੰਜਾਬ ਵਿੱਚ ਜਿਲ੍ਹਿਆਂ ਦੀ ਗਿਣਤੀ ਕਿੰਨੀ ਸੀ?

Ans
✔ 1. 29
✘ 2. 33
✘ 3. 41
✘ 4. 50

Question ID : **630680238422**
Option 1 ID : **630680924707**
Option 2 ID : **630680924706**
Option 3 ID : **630680924705**
Option 4 ID : **630680924704**
Status : **Answered**
Chosen Option : **1**

DAILY JOB Alert ਪੰਜਾਬ

Q.24 ਭਾਰਤ ਅਤੇ ਭੂਟਾਨ ਵਿਚਕਾਰ ਸਰਹੱਦ ਦੀ ਲੰਬਾਈ ਕਿੰਨੀ ਹੈ?

Ans
- ✗ 1. 669 km
- ✗ 2. 966 km
- ✓ 3. 699 km
- ✗ 4. 696 km

Question ID : **630680137260**
Option 1 ID : **630680531637**
Option 2 ID : **630680531636**
Option 3 ID : **630680531635**
Option 4 ID : **630680531634**
Status : **Answered**
Chosen Option : **1**

Q.25 ਜਲ੍ਹਿਆਂਵਾਲਾ ਬਾਗ ਸਮਾਰਕ ਨੂੰ ਸਭ ਤੋਂ ਪਹਿਲਾਂ ਉਸ ਸਮੇਂ ਦੇ ਰਾਸ਼ਟਰਪਤੀ ਡਾ: ਰਾਜੇਂਦਰ ਪ੍ਰਸਾਦ ਨੇ _____ ਵਿੱਚ ਖੋਲ੍ਹਿਆ ਸੀ।

Ans
- ✗ 1. 1963
- ✗ 2. 1962
- ✗ 3. 1960
- ✓ 4. 1961

Question ID : **630680238535**
Option 1 ID : **630680925159**
Option 2 ID : **630680925158**
Option 3 ID : **630680925156**
Option 4 ID : **630680925157**
Status : **Answered**
Chosen Option : **2**

Q.26 ਹੇਠ ਲਿਖੇ ਖੇਤਰਾਂ ਵਿੱਚੋਂ ਕਿਸ ਖੇਤਰ ਵਿੱਚ ਝੂਮਰ ਨਾਚ ਸ਼ੁਰੂ ਹੋਇਆ ਮੰਨਿਆ ਜਾਂਦਾ ਹੈ?

Ans
- ✗ 1. ਪਟਿਆਲਾ
- ✓ 2. ਬਲੋਚਿਸਤਾਨ
- ✗ 3. ਪੇਸ਼ਾਵਰ
- ✗ 4. ਲਾਹੌਰ

Question ID : **630680238468**
Option 1 ID : **630680924888**
Option 2 ID : **630680924890**
Option 3 ID : **630680924889**
Option 4 ID : **630680924891**
Status : **Answered**
Chosen Option : **1**

Website - www.dailyjobalert.in

Q.27 ਸਤੰਬਰ 2021 ਤੱਕ ਦੀ ਜਾਣਕਾਰੀ ਦੇ ਅਨੁਸਾਰ, ਹੇਠਾਂ ਦਿੱਤਿਆਂ ਵਿੱਚੋਂ, ਕੌਣ ਨੈਸ਼ਨਲ ਪਲੇਟਫਾਰਮ ਫੌਰ ਡਿਜ਼ਾਸਟਰ ਰਿਸਕ ਰਿਡਕਸ਼ਨ (NPDRR) ਦਾ ਚੇਅਰ ਪਰਸਨ ਸੀ?

Ans
✔ 1. ਅਮਿਤ ਸ਼ਾਹ
✘ 2. ਨਰੇਂਦਰ ਮੋਦੀ
✘ 3. ਅਸ਼ਵਨੀ ਵੈਸ਼ਨਵ
✘ 4. ਨਿਤਿਨ ਗਡਕਰੀ

Question ID : **630680212773**
Option 1 ID : **630680825227**
Option 2 ID : **630680825228**
Option 3 ID : **630680825229**
Option 4 ID : **630680825230**
Status : **Answered**
Chosen Option : **3**

Q.28 ਹੇਠ ਲਿਖਿਆਂ ਵਿੱਚੋਂ ਰਾਜਸਥਾਨ ਦੀ ਮਸ਼ਹੂਰ ਕਾਲਬੇਲੀਆ ਨਾਚੀ ਕੌਣ ਹੈ?

Ans
✘ 1. ਵੈਜਯੰਤੀ ਕਾਸ਼ੀ
✔ 2. ਗੁਲਾਬੋ ਸਪੇਰਾ
✘ 3. ਤੀਜਨ ਬਾਈ
✘ 4. ਬੀਨੋ ਦੇਵੀ

Question ID : **630680139010**
Option 1 ID : **630680538153**
Option 2 ID : **630680538151**
Option 3 ID : **630680538150**
Option 4 ID : **630680538152**
Status : **Answered**
Chosen Option : **3**

Q.29 ਸੁਪਰੀਮ ਕੋਰਟ ਦਾ ਜੱਜ ਉਦੋਂ ਤੱਕ ਅਹੁਦਾ ਸੰਭਾਲਦਾ ਹੈ ਜਦੋਂ ਤੱਕ ਉਹ _____ ਸਾਲ ਦੀ ਉਮਰ ਦਾ ਨਹੀਂ ਹੋ ਜਾਂਦਾ ਹੈ।

Ans
✘ 1. 70
✘ 2. 60
✔ 3. 65
✘ 4. 59

Question ID : **630680100472**
Option 1 ID : **630680390587**
Option 2 ID : **630680390585**
Option 3 ID : **630680390586**
Option 4 ID : **630680390584**
Status : **Answered**
Chosen Option : **3**

Website - www.dailyjobalert.in

Q.30 ਹੇਠ ਲਿਖਿਆਂ ਵਿੱਚੋਂ ਕਿਸ ਨੇਤਾ ਨੇ ਸੁਭਾਸ਼ ਚੰਦਰ ਬੋਸ ਨੂੰ ' ਦੇਸ਼ਭਗਤਾਂ ਦਾ ਰਾਜਕੁਮਾਰ' ਕਿਹਾ ਸੀ?

Ans
✗ 1. ਬਾਲ ਗੰਗਾਧਰ ਤਿਲਕ
✗ 2. ਸਰੋਜਿਨੀ ਨਾਇਡੂ
✗ 3. ਰਵਿੰਦਰ ਨਾਥ ਟੈਗੋਰ
✓ 4. ਮਹਾਤਮਾ ਗਾਂਧੀ

Question ID : **630680163728**
Option 1 ID : **630680634058**
Option 2 ID : **630680634059**
Option 3 ID : **630680634057**
Option 4 ID : **630680634056**
Status : **Answered**
Chosen Option : **2**

Q.31 ਹੰਗੁਲ ਜਾਂ ਕਸ਼ਮੀਰ ਸਟੈਗ _____ ਵਿੱਚ ਪਾਇਆ ਜਾਂਦਾ ਹੈ।

Ans
✗ 1. ਦੁਧਵਾ ਨੈਸ਼ਨਲ ਪਾਰਕ
✗ 2. ਕੈਂਪਬੈਲ ਬੇ ਨੈਸ਼ਨਲ ਪਾਰਕ
✓ 3. ਦਾਚੀਗਾਮ ਨੈਸ਼ਨਲ ਪਾਰਕ
✗ 4. ਚੰਦੋਲੀ ਨੈਸ਼ਨਲ ਪਾਰਕ

Question ID : **63068086732**
Option 1 ID : **630680336340**
Option 2 ID : **630680336338**
Option 3 ID : **630680336339**
Option 4 ID : **630680336337**
Status : **Answered**
Chosen Option : **4**

Q.32 ਹੇਠ ਲਿਖੇ ਕਥਨ ਲਈ ਕਿਹੜਾ ਸ਼ਬਦ ਸਭ ਤੋਂ ਵਧੀਆ ਹੈ?
" ਅਸੀਂ ਉਦੋਂ ਸਹੀ ਹੁੰਦੇ ਹਾਂ ਜਦੋਂ ਸਾਡੇ ਮੁਲਾਂਕਣ ਸੰਬੰਧੀ ਨਿਰਣੇ ਸਹੀ ਹੁੰਦੇ ਹਨ ਅਤੇ ਉਹ, ਉਦੋਂ ਸਹੀ ਹੁੰਦੇ ਹਨ ਜਦੋਂ ਉਹ ਪਦਾਰਥਕ ਮੁੱਲਾਂ ਨਾਲ ਮੇਲ ਖਾਂਦੇ ਹਨ।"

Ans
✗ 1. ਨੈਤਿਕ ਆਤਮਵਾਦ
✗ 2. ਨੈਤਿਕ ਬੋਧਾਤਮਿਕਵਾਦ
✗ 3. ਨੈਤਿਕ ਪਰਿਣਾਮਵਾਦ
✓ 4. ਨੈਤਿਕ ਪਦਾਰਥਵਾਦ

Question ID : **630680238326**
Option 1 ID : **630680924323**
Option 2 ID : **630680924321**
Option 3 ID : **630680924320**
Option 4 ID : **630680924322**
Status : **Answered**
Chosen Option : **4**

Website - www.dailyjobalert.in

Q.33 ਹੇਠ ਦਿੱਤਿਆਂ ਵਿੱਚੋਂ ਵਿਰਾਸਤ-ਏ-ਖਾਲਸਾ ਦਾ ਆਰਕੀਟੈਕਟ ਕੌਣ ਹੈ?

Ans
1. ਹਰਬਰਟ ਬੇਕਰ (Herbert Baker)
2. ਲੇ ਕੋਰਬੁਜ਼ਰ (Le Corbusier)
3. ਮੋਸ਼ੇ ਸਫ਼ਦੀ (Moshe Safdie)
4. ਰਾਮ ਵੀ ਸੁਤਾਰ (Ram V Sutar)

Question ID : **630680238453**
Option 1 ID : **630680924831**
Option 2 ID : **630680924828**
Option 3 ID : **630680924830**
Option 4 ID : **630680924829**
Status : **Answered**
Chosen Option : **4**

Q.34 ਵਿਦੇਸ਼ੀ ਮੁਦਰਾਵਾਂ ਦੇ ਸਬੰਧ ਵਿੱਚ ਘਰੇਲੂ ਮੁਦਰਾ ਦੀ ਦੋ-ਪੱਖੀ ਨਾਮਾਤਰ ਵਟਾਂਦਰਾ ਦਰਾਂ ਦੀ ਵਜ਼ਨ ਔਸਤ ਨੂੰ _____ਕਿਹਾ ਜਾਂਦਾ ਹੈ।

Ans
1. REER
2. FER
3. NEER
4. FEMA

Question ID : **63068050593**
Option 1 ID : **630680194687**
Option 2 ID : **630680194689**
Option 3 ID : **630680194686**
Option 4 ID : **630680194688**
Status : **Answered**
Chosen Option : **1**

Q.35 ਭਗਤ ਸਿੰਘ, ਰਾਜਗੁਰੂ ਅਤੇ ਸੁਖਦੇਵ ਨੂੰ ਕਿਹੜੀ ਸਾਜ਼ਸ਼ ਦੇ ਮਾਮਲੇ ਵਿੱਚ ਮੁਕੱਦਮਾ ਚਲਾਉਣ ਤੋਂ ਬਾਅਦ ਫਾਂਸੀ ਦਿੱਤੀ ਗਈ?

Ans
1. ਕਾਕੋਰੀ ਸਾਜ਼ਸ਼
2. ਅਲੀਪੁਰ ਸਾਜ਼ਸ਼
3. ਮੇਰਠ ਸਾਜ਼ਸ਼
4. ਲਾਹੌਰ ਸਾਜ਼ਸ਼

Question ID : **630680238408**
Option 1 ID : **630680924649**
Option 2 ID : **630680924650**
Option 3 ID : **630680924651**
Option 4 ID : **630680924648**
Status : **Answered**
Chosen Option : **1**

Website - www.dailyjobalert.in

Q.36 ਉਸ ਵਾਤਾਵਰਣ ਕਾਰਕੁਨ ਦਾ ਨਾਮ ਦੱਸੋ ਜੋ ਪ੍ਰਸਿੱਧ ਅਰਥਸ਼ੌਟ ਪੁਰਸਕਾਰ 2021 ਪ੍ਰਾਪਤ ਕਰਨ ਵਾਲਾ ਇਕਲੌਤਾ ਭਾਰਤੀ ਬਣਿਆ।

Ans
✔ 1. ਵਿਦਯੁਤ ਮੋਹਨ
✘ 2. ਚੰਡੀ ਪ੍ਰਸਾਦ ਭੱਟ
✘ 3. ਮਾਈਕ ਪਾਂਡੇ
✘ 4. ਅਨਾਦੀਸ਼ ਪਾਲ

Question ID : **630680134817**
Option 1 ID : **630680522089**
Option 2 ID : **630680522088**
Option 3 ID : **630680522087**
Option 4 ID : **630680522086**
Status : **Answered**
Chosen Option : **3**

Q.37 ਭਾਰਤ ਦੀ ਪਹਿਲੀ ਹਵਾ ਤੋਂ ਹਵਾ ਵਿੱਚ ਮਾਰ ਕਰਨ ਵਾਲੀ ਮਿਜ਼ਾਈਲ 'ਅਸਤਰ' ਦੀ ਵਿਸ਼ੇਸ਼ਤਾ ਹੇਠ ਲਿਖੀਆਂ ਵਿੱਚੋਂ ਕਿਹੜੀ ਹੈ?

Ans
✘ 1. ਦੋਹਰੀ ਮਾਰ ਵਿਚ ਮਾਰਨ ਦੀ ਉੱਚ ਸੰਭਾਵਨਾ
✘ 2. ਦੋਹਰੀ ਮਾਰ ਵਿਚ ਮਾਰਨ ਦੀ ਘੱਟ ਸੰਭਾਵਨਾ
✔ 3. ਇਕਹਿਰੀ ਮਾਰ ਵਿਚ ਮਾਰਨ ਦੀ ਉੱਚ ਸੰਭਾਵਨਾ
✘ 4. ਇਕਹਿਰੀ ਮਾਰ ਵਿਚ ਮਾਰਨ ਦੀ ਘੱਟ ਸੰਭਾਵਨਾ

Question ID : **630680145745**
Option 1 ID : **630680563908**
Option 2 ID : **630680563909**
Option 3 ID : **630680563906**
Option 4 ID : **630680563907**
Status : **Answered**
Chosen Option : **1**

Q.38 ਹੇਠਾਂ ਦਿੱਤੇ ਵਿੱਚੋਂ ਕਿਹੜਾ ਕਰਜ ਦਾ ਸੰਸਥਾਗਤ ਸਰੋਤ ਹੈ?

Ans
✘ 1. ਸ਼ਾਹੂਕਾਰ
✘ 2. ਜ਼ਿਮੀਂਦਾਰ
✔ 3. ਸਹਿਕਾਰੀ
✘ 4. ਪਿੰਡਾਂ ਦੇ ਵਪਾਰੀ

Question ID : **630680111940**
Option 1 ID : **630680433487**
Option 2 ID : **630680433488**
Option 3 ID : **630680433489**
Option 4 ID : **630680433486**
Status : **Answered**
Chosen Option : **1**

Website - www.dailyjobalert.in

Q.39 ਰਿਗਵੇਦ ਵਿੱਚ ਦੂਰੀ ਨੂੰ _____ ਕਿਹਾ ਗਿਆ ਹੈ।

Ans
✔ 1. ਗਵਯੂਤੀ
✘ 2. ਗਵਯਤ
✘ 3. ਯਵਗਤੀ
✘ 4. ਗਤੀ

Question ID : **63068084286**
Option 1 ID : **630680326699**
Option 2 ID : **630680326698**
Option 3 ID : **630680326697**
Option 4 ID : **630680326696**
Status : **Answered**
Chosen Option : **4**

Q.40 ਹੇਠਾਂ ਦਿੱਤੇ ਕਾਰਕਾਂ ਵਿੱਚੋਂ ਕਿਹੜਾ ਕਾਰਕ ਭਾਰਤ ਵਿੱਚ ਏਕਤਾ ਲਈ ਖ਼ਤਰਾ ਨਹੀਂ ਹੈ?

Ans
✘ 1. ਵਿਕਾਸ ਵਿੱਚ ਅਸੰਤੁਲਨ (Imbalance in development)
✘ 2. ਭੂਗੋਲਿਕ ਅਲੱਗ-ਥਲੱਗ (Geographical isolation)
✔ 3. ਨਿਆਂਪਾਲਿਕਾ ਵਿੱਚ ਵਿਸ਼ਵਾਸ (Faith in the judiciary)
✘ 4. ਫੁੱਟ ਪਾਊ ਰਾਜਨੀਤੀ (Divisive politics)

Question ID : **630680238343**
Option 1 ID : **630680924389**
Option 2 ID : **630680924390**
Option 3 ID : **630680924391**
Option 4 ID : **630680924388**
Status : **Answered**
Chosen Option : **3**

Q.41 ਭਾਰਤ ਵਿੱਚ ਚਿਪਕੋ ਅੰਦੋਲਨ ਕਿੱਥੋਂ ਸ਼ੁਰੂ ਹੋਇਆ?

Ans
✘ 1. ਉੱਤਰ ਪ੍ਰਦੇਸ਼ ਦੇ ਇਕ ਪਿੰਡ ਵਿੱਚ
✘ 2. ਆਸਾਮ ਦੇ ਇਕ ਪਿੰਡ ਵਿੱਚ
✘ 3. ਗੁਜਰਾਤ ਦੇ ਇਕ ਪਿੰਡ ਵਿੱਚ
✔ 4. ਗੜਵਾਲ ਦੇ ਇਕ ਪਿੰਡ ਵਿੱਚ

Question ID : **63068054930**
Option 1 ID : **630680211750**
Option 2 ID : **630680211751**
Option 3 ID : **630680211753**
Option 4 ID : **630680211752**
Status : **Answered**
Chosen Option : **1**

Website - www.dailyjobalert.in

Q.42 ਹਾਂਗਕਾਂਗ ਤੋਂ ਚੱਲਿਆ ਹੋਇਆ ਕਾਮਾਗਾਟਾਮਾਰੂ ਜਾਪਾਨੀ ਜਹਾਜ਼ ਕੈਨੇਡਾ ਦੇ ਵੈਨਕੂਵਰ ਵਿੱਚ ਕਿਸ ਮਿਤੀ ਨੂੰ ਪਹੁੰਚਿਆ ਸੀ?

Ans

✗ 1. 13 ਮਈ 1914

✓ 2. 23 ਮਈ 1914

✗ 3. 13 ਅਪ੍ਰੈਲ 1914

✗ 4. 23 ਅਪ੍ਰੈਲ 1914

Question ID : **630680238564**
Option 1 ID : **630680925274**
Option 2 ID : **630680925275**
Option 3 ID : **630680925272**
Option 4 ID : **630680925273**
Status : **Answered**
Chosen Option : **2**

Q.43 MyGov ਇੰਡੀਆ ਨੇ ਹੇਠ ਲਿਖੀਆਂ ਵਿੱਚੋਂ ਕਿਸ ਤਾਰੀਖ ਨੂੰ ਭਾਰਤੀ ਸਟਾਰਟ-ਅੱਪਸ ਅਤੇ ਤਕਨੀਕੀ ਉੱਦਮੀਆਂ ਲਈ ਪਲੈਨੇਟੇਰੀਅਮ ਇਨੋਵੇਸ਼ਨ ਚੈਲੇਂਜ ਲਾਂਚ ਕੀਤਾ ਸੀ?

Ans

✗ 1. 5 ਅਕਤੂਬੂਰ, 2021

✗ 2. 11 ਅਕਤੂਬਰ, 2021

✓ 3. 11 ਸਤੰਬਰ, 2021

✗ 4. 5 ਸਤੰਬਰ,2021

Question ID : **630680212572**
Option 1 ID : **630680824430**
Option 2 ID : **630680824429**
Option 3 ID : **630680824428**
Option 4 ID : **630680824427**
Status : **Answered**
Chosen Option : **3**

Q.44 ਜਨਵਰੀ 2022 ਤੱਕ ਦੀ ਜਾਣਕਾਰੀ ਅਨੁਸਾਰ ਨਿਸ਼ਠਾ ਅਤੇ ਨਿਪੁੰਨ (NISHTHA and NIPUN) ਪ੍ਰੋਗਰਾਮ ਕਿਸਦੇ ਨਾਲ ਸੰਬੰਧਿਤ ਹਨ?

Ans

✗ 1. ਸਮੁਦਾਇ ਪੁਲਸਿੰਗ ਅਤੇ ਸੁਰੱਖਿਆ ਯੋਜਨਾਵਾਂ

✗ 2. ਖੇਤੀਬਾੜੀ ਵਿਕਾਸ ਯੋਜਨਾਵਾਂ

✓ 3. ਸਿੱਖਿਆ ਅਤੇ ਹੁਨਰ ਵਿਕਾਸ ਯੋਜਨਾਵਾਂ

✗ 4. ਪ੍ਰਾਰੰਭਿਕ ਬਚਪਨ ਦੇਖਭਾਲ ਯੋਜਨਾਵਾਂ

Question ID : **630680112107**
Option 1 ID : **630680434156**
Option 2 ID : **630680434155**
Option 3 ID : **630680434154**
Option 4 ID : **630680434157**
Status : **Answered**
Chosen Option : **3**

DAILY JOB ALERT

Q.45 ਆਮ ਤੌਰ 'ਤੇ ਇੱਕ ਕਿਸਾਨ ਲਈ, _____ ਲਈ ਲੰਬੇ ਸਮੇਂ ਦੇ ਕਰਜ਼ੇ ਦੀ ਲੋੜ ਹੁੰਦੀ ਹੈ।

Ans
✗ 1. ਬਿਜਲੀ ਬਿੱਲ ਦੇ ਭੁਗਤਾਨ
✗ 2. ਖਾਦ ਦੀ ਖਰੀਦ
✗ 3. ਬੀਜ ਦੀ ਖਰੀਦ
✓ 4. ਵਾਧੂ ਜ਼ਮੀਨ ਦੀ ਖਰੀਦ

Question ID : **63068056709**
Option 1 ID : **630680218773**
Option 2 ID : **630680218772**
Option 3 ID : **630680218771**
Option 4 ID : **630680218770**
Status : **Answered**
Chosen Option : **4**

Q.46 2011 ਦੀ ਮਰਦਮਸ਼ੁਮਾਰੀ ਅਨੁਸਾਰ ਪੰਜਾਬ ਵਿੱਚ ਈਸਾਈ ਆਬਾਦੀ ਕਿੰਨੀ ਹੈ?

Ans
✓ 1. 3.48 ਲੱਖ
✗ 2. 4.48 ਲੱਖ
✗ 3. 1.48 ਲੱਖ
✗ 4. 2.48 ਲੱਖ

Question ID : **630680238511**
Option 1 ID : **630680925062**
Option 2 ID : **630680925063**
Option 3 ID : **630680925060**
Option 4 ID : **630680925061**
Status : **Answered**
Chosen Option : **3**

Q.47 ਹੇਠਾਂ ਦਿੱਤੇ ਕਥਨਾਂ ਵਿੱਚੋਂ ਵਾਸਤੂਕਲਾ ਦੀ ਧਨੁਸ਼-ਅਕਾਰ ਸ਼ੈਲੀ ਲਈ ਕਿਹੜਾ ਕਥਨ ਸਹੀ ਹੈ?

Ans
✗ 1. ਇਸ ਵਿੱਚ ਕਮਾਨ ਅਤੇ ਗੁੰਬਦਾਂ ਦੀ ਅਣਹੋਂਦ ਹੈ
✗ 2. ਇਸ ਵਿੱਚ ਲਿੰਟਲ ਦੀ ਵਰਤੋਂ ਹੋਈ ਹੈ
✗ 3. ਇਸਦੀ ਉਸਾਰੀ ਦੇ ਮੁੱਖ ਘਟਕ ਵਜੋਂ ਪੱਥਰਾਂ ਦੀ ਵਰਤੋਂ ਕੀਤੀ ਹੋਈ ਹੈ
✓ 4. ਇੱਕ ਮਸਜਿਦ ਦੇ ਚਾਰੇ ਪਾਸੇ ਮੀਨਾਰਾਂ ਹਨ

Question ID : **630680164660**
Option 1 ID : **630680637753**
Option 2 ID : **630680637752**
Option 3 ID : **630680637755**
Option 4 ID : **630680637754**
Status : **Answered**
Chosen Option : **1**

Website - www.dailyjobalert.in

Q.48 ਅਕਤੂਬਰ 2021 ਵਿੱਚ, ਅੰਤਰਰਾਸ਼ਟਰੀ ਨਿਆਂ ਅਦਾਲਤ ਨੇ _____ ਵਿਚਕਾਰ ਸਮੁੰਦਰੀ ਸੀਮਾ 'ਤੇ ਵਿਵਾਦ ਦਾ ਫੈਸਲਾ ਕੀਤਾ।

Ans
1. ਨਿਕਾਰਾਗੁਆ ਅਤੇ ਕੋਲੰਬੀਆ
2. ਕੈਨੇਡਾ ਅਤੇ ਯੂ.ਐਸ.ਏ.
3. ਸੋਮਾਲੀਆ ਅਤੇ ਕੀਨੀਆ
4. ਲੀਬੀਆ ਅਰਬ ਜਮਹਿਰੀਆ ਅਤੇ ਚਾਡ

Question ID : **63068068650**
Option 1 ID : **630680265290**
Option 2 ID : **630680265293**
Option 3 ID : **630680265292**
Option 4 ID : **630680265291**
Status : **Answered**
Chosen Option : **3**

Q.49 ਬਾਬਾ ਸੋਢਲ ਦਾ ਮੇਲਾ ਇੱਕ ਮੇਲਾ ਹੈ ਜੋ ਹਰ ਸਾਲ _____ ਜ਼ਿਲ੍ਹੇ ਵਿੱਚ ਮਨਾਇਆ ਜਾਂਦਾ ਹੈ।

Ans
1. ਕਪੂਰਥਲਾ
2. ਜਲੰਧਰ
3. ਪਠਾਨਕੋਟ
4. ਅੰਮ੍ਰਿਤਸਰ

Question ID : **630680238585**
Option 1 ID : **630680925357**
Option 2 ID : **630680925356**
Option 3 ID : **630680925358**
Option 4 ID : **630680925359**
Status : **Answered**
Chosen Option : **1**

Q.50 ਭਾਰਤੀ ਸੰਵਿਧਾਨ ਦੇ ਹੇਠ ਲਿਖੇ ਸੋਧ ਐਕਟਾਂ ਵਿੱਚੋਂ ਕਿਸ ਨੇ 6-14 ਸਾਲ ਦੀ ਉਮਰ ਦੇ ਬੱਚਿਆਂ ਲਈ ਮੁਫ਼ਤ ਅਤੇ ਲਾਜ਼ਮੀ ਸਿੱਖਿਆ ਨੂੰ ਇੱਕ ਮੌਲਿਕ ਅਧਿਕਾਰ ਬਣਾਇਆ ਹੈ?

Ans
1. 96ਵੀਂ ਸੋਧ ਐਕਟ
2. 66ਵੀਂ ਸੋਧ ਐਕਟ
3. 76ਵੀਂ ਸੋਧ ਐਕਟ
4. 86ਵੀਂ ਸੋਧ ਐਕਟ

Question ID : **630680238360**
Option 1 ID : **630680924457**
Option 2 ID : **630680924459**
Option 3 ID : **630680924458**
Option 4 ID : **630680924456**
Status : **Answered**
Chosen Option : **1**

Section : **Quantitative Aptitude and Numerical Skills**

Website - www.dailyjobalert.in

Q.51 ਵਿਕਰੀ ਮੁੱਲ 'ਤੇ 15% ਦੀ ਛੋਟ ਤੋਂ ਬਾਅਦ, ਇੱਕ ਵਿਕਰੇਤਾ 5% ਲਾਭ ਕਮਾਉਂਦਾ ਹੈ। ਵਿਕਰੀ ਮੁੱਲ 'ਤੇ 12% (ਲਗਭਗ) ਛੋਟ ਦੀ ਪੇਸ਼ਕਸ਼ ਕਰਨ ਤੋਂ ਬਾਅਦ 12% ਲਾਭ ਕਮਾਉਣ ਲਈ ਵਿਕਰੀ ਮੁੱਲ ਨੂੰ ਕਿੰਨਾ (ਪ੍ਰਤੀਸ਼ਤ ਵਿੱਚ) ਵਧਾਇਆ ਜਾਣਾ ਚਾਹੀਦਾ ਹੈ?

Ans

✗ 1. 6%

✓ 2. 3%

✗ 3. 4%

✗ 4. 5%

Question ID : **630680137389**
Option 1 ID : **630680532114**
Option 2 ID : **630680532117**
Option 3 ID : **630680532116**
Option 4 ID : **630680532115**
Status : **Answered**
Chosen Option : **2**

Q.52

$$\frac{\frac{1}{3} \div 6 + 12}{\frac{1}{3} \times 6 + 12} = ?$$

Ans

✗ 1. 1

✓ 2. $\frac{31}{36}$

✗ 3. $\frac{1}{9}$

✗ 4. $\frac{7}{27}$

Question ID : **630680103325**
Option 1 ID : **630680401559**
Option 2 ID : **630680401560**
Option 3 ID : **630680401562**
Option 4 ID : **630680401561**
Status : **Answered**
Chosen Option : **1**

DAILY JOB Alert ਪੰਜਾਬ

Q.53 10,12,19 ਅਤੇ 24 ਵਿੱਚੋਂ ਹਰੇਕ ਸੰਖਿਆਵਾਂ ਵਿੱਚੋਂ ਕਿਹੜੀ ਸੰਖਿਆ ਨੂੰ ਘਟਾਇਆ ਜਾਣਾ ਚਾਹੀਦਾ ਹੈ ਤਾਂ ਜੋ ਉਹ ਸੰਖਿਆਵਾਂ ਸਮਾਨਅਨੁਪਾਤ ਵਿੱਚ ਹੋਣ?

Ans
✔ 1. 4
✘ 2. 5
✘ 3. 3
✘ 4. 2

Question ID : **630680115946**
Option 1 ID : **630680449117**
Option 2 ID : **630680449116**
Option 3 ID : **630680449114**
Option 4 ID : **630680449115**
Status : **Answered**
Chosen Option : **2**

Q.54 ਰਵੀ ਨੇ ₹45,000 ਵਿੱਚ ਇੱਕ ਟੀਵੀ ਸੈੱਟ ਖਰੀਦਿਆ ਅਤੇ ਇਸਦੀ ਢੋਆ-ਢੁਆਈ ਉੱਤੇ ₹500 ਖ਼ਰਚ ਕੀਤੇ। ਉਸਨੇ ਇਸਨੂੰ ₹50,500 ਵਿੱਚ ਵੇਚ ਦਿੱਤਾ। ਉਸਦਾ ਲਾਭ ਪ੍ਰਤੀਸ਼ਤ ਪਤਾ ਕਰੋ।

Ans
✘ 1. 20.76%
✘ 2. 9.89%
✔ 3. 10.99%
✘ 4. 19.70%

Question ID : **630680131123**
Option 1 ID : **630680507762**
Option 2 ID : **630680507765**
Option 3 ID : **630680507764**
Option 4 ID : **630680507763**
Status : **Answered**
Chosen Option : **2**

Q.55 ਇੱਕ ਉਤਪਾਦ ਦਾ ਅੰਕਿਤ ਮੁੱਲ ₹2,000 ਹੈ। ਇੱਕ ਸੇਲਜ਼ਮੈਨ 10% ਦੀ ਛੋਟ ਦੇ ਕੇ ਉਤਪਾਦ ਵੇਚਦਾ ਹੈ ਅਤੇ ਫਿਰ ਵੀ 33.33% ਦਾ ਲਾਭ ਕਮਾਉਂਦਾ ਹੈ। ਉਤਪਾਦ ਦਾ ਖਰੀਦ ਮੁੱਲ ਕਿੰਨਾ ਹੈ?

Ans
✔ 1. ₹1,350
✘ 2. ₹2,000
✘ 3. ₹1,800
✘ 4. ₹1,500

Question ID : **630680103843**
Option 1 ID : **630680403604**
Option 2 ID : **630680403605**
Option 3 ID : **630680403603**
Option 4 ID : **630680403606**
Status : **Answered**
Chosen Option : **3**

Website - www.dailyjobalert.in

Q.56 ਜਦੋਂ ਕਿਸੇ ਸੰਖਿਆ ਨੂੰ 39 ਨਾਲ ਭਾਗ ਕੀਤਾ ਜਾਂਦਾ ਹੈ, ਤਾਂ ਬਾਕੀ 18 ਆਉਂਦਾ ਹੈ। ਜਦੋਂ ਸੰਖਿਆ ਨੂੰ 13 ਨਾਲ ਭਾਗ ਕੀਤਾ ਜਾਂਦਾ ਹੈ ਤਾਂ ਬਾਕੀ ਕਿੰਨਾ ਆਵੇਗਾ?

Ans
✔ 1. 5
✘ 2. 0
✘ 3. 8
✘ 4. 6

Question ID : **63068094329**
Option 1 ID : **630680366012**
Option 2 ID : **630680366011**
Option 3 ID : **630680366014**
Option 4 ID : **630680366013**
Status : **Answered**
Chosen Option : **3**

Q.57 ਕੁਝ ਖਾਸ ਅੰਕੜਿਆਂ ਦਾ ਬਹੁਲਕ, ਇਸਦੇ ਮੱਧਮਾਨ ਤੋਂ 6 ਵੱਧ ਹੈ ਅਤੇ ਇਹਨਾਂ ਅੰਕੜਿਆਂ ਦੀ ਮੱਧਿਕਾ 78 ਹੈ। ਅੰਕੜਿਆਂ ਦਾ ਬਹੁਲਕ ਕਿੰਨਾ ਹੋਵੇਗਾ?

Ans
✘ 1. 76
✘ 2. 88
✘ 3. 70
✔ 4. 82

Question ID : **630680151936**
Option 1 ID : **630680587788**
Option 2 ID : **630680587790**
Option 3 ID : **630680587789**
Option 4 ID : **630680587791**
Status : **Answered**
Chosen Option : **3**

Q.58 ਡੀਜ਼ਲ ਦੀ ਕੀਮਤ 'ਚ 10 ਫੀਸਦੀ ਦਾ ਵਾਧਾ ਕੀਤਾ ਗਿਆ ਹੈ। ਰੇਲਗੱਡੀ ਦਾ ਕਿਰਾਇਆ ਡੀਜ਼ਲ ਦੀ ਕੀਮਤ ਦਾ ਸਿੱਧਾ ਸਮਾਨੁਪਾਤੀ ਹੈ। ₹250 ਵਿੱਚ, ਇੱਕ ਯਾਤਰੀ ਪਹਿਲਾਂ ਰੇਲ ਰਾਹੀਂ 80 km ਦੀ ਦੂਰੀ ਤੈਅ ਕਰਦਾ ਸੀ। ਹੁਣ ਉਹ ਉਸੇ ਰੇਲਗੱਡੀ ਰਾਹੀਂ 750 km ਦੀ ਦੂਰੀ ਤੈਅ ਕਰਨ ਲਈ ਕਿੰਨਾ ਪੈਸਾ (ਲਗਭਗ) ਖ਼ਰਚ ਕਰੇਗਾ?

Ans
✘ 1. ₹2,587
✘ 2. ₹2,875
✘ 3. ₹2,758
✔ 4. ₹2,578

Question ID : **630680138059**
Option 1 ID : **630680534510**
Option 2 ID : **630680534511**
Option 3 ID : **630680534512**
Option 4 ID : **630680534513**
Status : **Answered**
Chosen Option : **2**

Website - www.dailyjobalert.in

Q.59 ਮੁਲਾਂਕਣ ਕਰੋ:

$$\frac{0.52\times0.52\times0.52+0.48\times0.48\times0.48}{(0.52)^2-0.52\times0.48+(0.48)^2}$$

Ans
1. 0.1
2. 2
3. 0.2
4. 1 ✔

Question ID : **63068071081**
Option 1 ID : **630680274919**
Option 2 ID : **630680274921**
Option 3 ID : **630680274920**
Option 4 ID : **630680274918**
Status : **Answered**
Chosen Option : **4**

Q.60 ਜੇਕਰ $A=\frac{3}{4}\div\frac{5}{6}$, $B=3\div[(4\div5)\div6]$, $C=[3\div(4\div5)]\div6$, $D=(3\div4)\div(5\div6)$, ਤਦ:

Ans
1. ਸਾਰੇ ਬਰਾਬਰ ਹਨ
2. A, B ਬਰਾਬਰ ਹਨ
3. A, C ਬਰਾਬਰ ਹਨ
4. A, D ਬਰਾਬਰ ਹਨ ✔

Question ID : **630680108173**
Option 1 ID : **630680419759**
Option 2 ID : **630680419758**
Option 3 ID : **630680419756**
Option 4 ID : **630680419757**
Status : **Answered**
Chosen Option : **1**

Q.61 ਇੱਕ ਕਿਸ਼ਤੀ ਵਿੱਚ 20 ਮੱਲਾਹਾਂ ਦਾ ਔਸਤ ਭਾਰ 2.3 kg ਵਧ ਜਾਂਦਾ ਹੈ ਜਦੋਂ ਚਾਲਕ ਦਲ ਵਿਚੋਂ ਇੱਕ, ਜਿਸਦਾ ਵਜ਼ਨ 52 kg ਹੁੰਦਾ ਹੈ, ਜਿਸਦੀ ਥਾਂ ਇੱਕ ਨਵੀਂ ਔਰਤ ਆਉਂਦੀ ਹੈ। ਨਵੀਂ ਔਰਤ ਦਾ ਭਾਰ ਪਤਾ ਕਰੋ।

Ans
1. 95 kg
2. 96 kg
3. 97 kg
4. 98 kg ✔

Question ID : **630680109358**
Option 1 ID : **630680424188**
Option 2 ID : **630680424189**
Option 3 ID : **630680424191**
Option 4 ID : **630680424190**
Status : **Answered**
Chosen Option : **1**

Website - www.dailyjobalert.in

Q.62 ₹450 ਦੀ ਰਕਮ ਨੂੰ ਸਧਾਰਨ ਵਿਆਜ ਦੀ ਦਰ 4.5% ਪ੍ਰਤੀ ਸਾਲ ਨਾਲ ਵਿਆਜ ਦੇ ਰੂਪ ਵਿੱਚ ₹81 ਪ੍ਰਾਪਤ ਕਰਨ ਲਈ ਕਿੰਨਾ ਸਮਾਂ ਲੱਗੇਗਾ?

Ans
✔ 1. 4 ਸਾਲ
✘ 2. 5 ਸਾਲ
✘ 3. 4.6 ਸਾਲ
✘ 4. 3.6 ਸਾਲ

Question ID : **63068070184**
Option 1 ID : **630680271375**
Option 2 ID : **630680271377**
Option 3 ID : **630680271376**
Option 4 ID : **630680271374**
Status : **Answered**
Chosen Option : **1**

Q.63 ਇੱਕ ਸਮਕੋਣੀ ਤਿਕੋਣ ਦਾ ਆਧਾਰ 8 cm ਹੈ ਅਤੇ ਇਸਦੀ ਲੰਬਕਾਰੀ ਉਚਾਈ 10 cm ਹੈ। ਇਸਦਾ ਖੇਤਰਫਲ ਪਤਾ ਕਰੋ।

Ans
✘ 1. 80 cm^2
✘ 2. 20 cm^2
✘ 3. 400 cm^2
✔ 4. 40 cm^2

Question ID : **630680106529**
Option 1 ID : **630680413902**
Option 2 ID : **630680413904**
Option 3 ID : **630680413905**
Option 4 ID : **630680413903**
Status : **Answered**
Chosen Option : **1**

Q.64 420 ਆਦਮੀਆਂ ਦੀ ਵਰਕ ਫੋਰਸ ਇੱਕ ਕੰਮ 9 ਮਹੀਨਿਆਂ ਵਿੱਚ ਪੂਰਾ ਕਰ ਸਕਦੀ ਹੈ। ਇੱਕ ਠੇਕੇਦਾਰ ਨੂੰ 7 ਮਹੀਨਿਆਂ ਵਿੱਚ ਕੰਮ ਪੂਰਾ ਕਰਨ ਲਈ ਹੋਰ ਕਿੰਨੇ ਆਦਮੀ ਲਗਾਉਣੇ ਚਾਹੀਦੇ ਹਨ?

Ans
✘ 1. 530
✘ 2. 130
✔ 3. 120
✘ 4. 540

Question ID : **630680131206**
Option 1 ID : **630680508093**
Option 2 ID : **630680508092**
Option 3 ID : **630680508091**
Option 4 ID : **630680508090**
Status : **Answered**
Chosen Option : **3**

Website - www.dailyjobalert.in

Q.65 ਇੱਕ ਵਿਦਿਆਰਥੀ ਨੇ ਇੱਕ ਪ੍ਰੀਖਿਆ ਵਿੱਚ ਪੰਜ ਵਿਸ਼ਿਆਂ ਵਿੱਚ 70%, 72%, 55%, 65% ਅਤੇ 75% ਅੰਕ ਪ੍ਰਾਪਤ ਕੀਤੇ। ਉਸ ਦੁਆਰਾ ਪ੍ਰਾਪਤ ਅੰਕਾਂ ਦੀ ਮੱਧਮਾਨ ਪ੍ਰਤੀਸ਼ਤਤਾ ਪਤਾ ਕਰੋ।

Ans
✔ 1. 67.4%
✘ 2. 65.4%
✘ 3. 66.4%
✘ 4. 68.4%

Question ID : **630680152219**
Option 1 ID : **630680588920**
Option 2 ID : **630680588923**
Option 3 ID : **630680588922**
Option 4 ID : **630680588921**
Status : **Answered**
Chosen Option : **4**

Q.66 ਇੱਕ ਦੁਕਾਨਦਾਰ ਹੇਠ ਲਿਖੇ ਅਨੁਸਾਰ ਦੀਵਾਲੀ ਦੀਆਂ ਸਕੀਮਾਂ ਦੀ ਪੇਸ਼ਕਸ਼ ਕਰਦਾ ਹੈ:
a) 20% ਅਤੇ 15% ਦੀਆਂ ਕ੍ਰਮਵਾਰ ਦੋ ਛੋਟਾਂ
b) 3 ਖਰੀਦੋ 2 ਮੁਫ਼ਤ ਪ੍ਰਾਪਤ ਕਰੋ
c) 6 ਖਰੀਦੋ 5 ਮੁਫ਼ਤ ਪ੍ਰਾਪਤ ਕਰੋ
ਘੱਟ ਤੋਂ ਘੱਟ ਛੋਟ ਪ੍ਰਤੀਸ਼ਤ ਪਤਾ ਕਰੋ।

Ans
✘ 1. 38.725%
✘ 2. 45.45%
✘ 3. 40%
✔ 4. 32%

Question ID : **630680203964**
Option 1 ID : **630680791056**
Option 2 ID : **630680791057**
Option 3 ID : **630680791055**
Option 4 ID : **630680791058**
Status : **Answered**
Chosen Option : **4**

Q.67 ਉਹ ਵੱਡੀ ਤੋਂ ਵੱਡੀ ਸੰਭਾਵਿਤ ਪੰਜ-ਅੰਕੀ ਸੰਖਿਆ ਪਤਾ ਕਰੋ, ਜੋ ਕਿ 3, 6 ਅਤੇ 9 ਦੁਆਰਾ ਪੂਰਨ ਤੌਰ 'ਤੇ ਭਾਗਯੋਗ ਹੋਵੇ।

Ans
✔ 1. 99990
✘ 2. 99999
✘ 3. 99900
✘ 4. 99909

Question ID : **630680108690**
Option 1 ID : **630680421688**
Option 2 ID : **630680421691**
Option 3 ID : **630680421689**
Option 4 ID : **630680421690**
Status : **Answered**
Chosen Option : **2**

Website - www.dailyjobalert.in

Q.68 ਇੱਕ ਕਾਰ ਪਹਿਲੇ 170 km, 5 ਘੰਟਿਆਂ ਵਿੱਚ, ਅਗਲੇ 200 km, 8 ਘੰਟਿਆਂ ਵਿੱਚ ਅਤੇ ਬਾਕੀ ਬਚੇ 80 km, 2 ਘੰਟਿਆਂ ਵਿੱਚ ਤੈਅ ਕਰਦੀ ਹੈ। ਕਾਰ ਦੀ ਔਸਤ ਚਾਲ ਪਤਾ ਕਰੋ।

Ans
✗ 1. 23 km/h
✓ 2. 30 km/h
✗ 3. 28 km/h
✗ 4. 42 km/h

Question ID : **630680101404**
Option 1 ID : **630680394136**
Option 2 ID : **630680394137**
Option 3 ID : **630680394139**
Option 4 ID : **630680394138**
Status : **Answered**
Chosen Option : **2**

Q.69 ਇੱਕ ਲੰਬ ਚੱਕਰੀ ਸ਼ੰਕੂ ਦੇ ਛਿਨਕ (frustum) ਦੇ ਦੋਵੇ ਸਿਰਿਆਂ ਦਾ ਅਰਧ-ਵਿਆਸ ਕ੍ਰਮਵਾਰ 7 m ਅਤੇ 3 m ਹੈ। ਜੇਕਰ ਛਿਨਕ ਦੀ ਉਚਾਈ 6 m ਹੈ, ਤਾਂ ਇਸਦਾ ਆਇਤਨ ਕਿੰਨਾ ਹੋਵੇਗਾ?

Ans
✗ 1. $144\ \pi\ m^3$
✗ 2. $121\ \pi\ m^3$
✗ 3. $640\ \pi\ m^3$
✓ 4. $158\ \pi\ m^3$

Question ID : **630680104061**
Option 1 ID : **630680404460**
Option 2 ID : **630680404459**
Option 3 ID : **630680404461**
Option 4 ID : **630680404462**
Status : **Answered**
Chosen Option : **2**

Q.70 ਗੀਤਾ ਨੇ ਇੱਕ ਸਾਲ ਲਈ 10% ਸਲਾਨਾ ਦੀ ਦਰ ਨਾਲ ₹15,000 ਦਾ ਨਿਵੇਸ਼ ਕੀਤਾ। ਜੇਕਰ ਵਿਆਜ ਛਿਮਾਹੀ ਤੌਰ 'ਤੇ ਜੋੜਿਆ ਜਾਂਦਾ ਹੈ, ਤਾਂ ਸਾਲ ਦੇ ਅੰਤ ਵਿੱਚ ਗੀਤਾ ਦੁਆਰਾ ਪ੍ਰਾਪਤ ਕੀਤੀ ਰਕਮ ਪਤਾ ਕਰੋ।

Ans
✗ 1. ₹16,548.5
✗ 2. ₹16,534.5
✗ 3. ₹16,532.5
✓ 4. ₹16,537.5

Question ID : **630680137286**
Option 1 ID : **630680531741**
Option 2 ID : **630680531739**
Option 3 ID : **630680531738**
Option 4 ID : **630680531740**
Status : **Answered**
Chosen Option : **2**

Website - www.dailyjobalert.in

Q.71 ਇੱਕ ਟੈਂਕ ਦੇ ਹੇਠਾਂ ਇੱਕ ਛੇਕ ਹੈ ਜਿਸ ਵਿੱਚੋਂ ਪਾਣੀ ਲੀਕ ਹੁੰਦਾ ਹੈ। ਇੱਕ ਟੂਟੀ ਟੈਂਕ ਨੂੰ 3 ਘੰਟਿਆਂ ਵਿੱਚ ਭਰ ਸਕਦੀ ਹੈ ਅਤੇ ਹੇਠਾਂ ਵਾਲਾ ਛੇਕ 5 ਘੰਟਿਆਂ ਵਿੱਚ ਪੂਰੀ ਤਰ੍ਹਾਂ ਭਰੇ ਹੋਏ ਟੈਂਕ ਨੂੰ ਖਾਲੀ ਕਰ ਸਕਦਾ ਹੈ। ਜੇਕਰ ਟੂਟੀ ਅਤੇ ਛੇਕ ਦੋਵੇਂ ਖੁੱਲ੍ਹੇ ਰਹਿਣ, ਤਾਂ ਖਾਲੀ ਟੈਂਕ ਨੂੰ ਪੂਰੀ ਤਰ੍ਹਾਂ ਭਰਨ ਲਈ ਕਿੰਨਾ ਸਮਾਂ ਲੱਗੇਗਾ?

Ans
✔ 1. 7.5 ਘੰਟੇ

✘ 2. 6.5 ਘੰਟੇ

✘ 3. 7 ਘੰਟੇ

✘ 4. 8.5 ਘੰਟੇ

Question ID : **630680206370**
Option 1 ID : **630680800255**
Option 2 ID : **630680800258**
Option 3 ID : **630680800256**
Option 4 ID : **630680800257**
Status : **Answered**
Chosen Option : **3**

Q.72 $5\frac{1}{2} \div \left(3\frac{1}{2} + 7\frac{1}{2}\right)$ ਦਾ ਮੁੱਲ ਕੀ ਹੈ?

Ans
✘ 1. $\frac{3}{2}$

✘ 2. $\frac{7}{2}$

✔ 3. $\frac{1}{2}$

✘ 4. $\frac{5}{2}$

Question ID : **63068079530**
Option 1 ID : **630680308157**
Option 2 ID : **630680308160**
Option 3 ID : **630680308159**
Option 4 ID : **630680308158**
Status : **Answered**
Chosen Option : **3**

DAILY JOB Alert ਪੰਜਾਬ

Q.73 ਹੇਠ ਦਿੱਤੀ ਸਮੀਕਰਨ ਸਰਲ ਕਰੋ।

$$\frac{(0.25)^4 + (0.25)^2 + 1}{(0.25)^2 + 0.25 + 1} = ?$$

Ans
1. 0.6875
2. 0.8005
3. 0.8125 ✔
4. 0.7255

Question ID : **630680195484**
Option 1 ID : **630680758406**
Option 2 ID : **630680758407**
Option 3 ID : **630680758408**
Option 4 ID : **630680758405**
Status : **Answered**
Chosen Option : **1**

Q.74 ਜੇਕਰ 0.45 ਨੂੰ ਸਭ ਤੋਂ ਸਰਲ ਭਿੰਨ ਰੂਪ ਵਿੱਚ ਲਿਖਿਆ ਜਾਂਦਾ ਹੈ, ਤਾਂ ਇਸਦੇ ਅੰਸ਼ ਅਤੇ ਹਰ ਵਿੱਚ ਅੰਤਰ ਕਿੰਨਾ ਹੋਵੇਗਾ?

Ans
1. –10
2. –11 ✔
3. –12
4. –6

Question ID : **63068091844**
Option 1 ID : **630680356110**
Option 2 ID : **630680356111**
Option 3 ID : **630680356112**
Option 4 ID : **630680356113**
Status : **Answered**
Chosen Option : **4**

Q.75 ਇੱਕ ਪੈੱਨ 12% ਦੇ ਲਾਭ ਨਾਲ ₹78.40 ਵਿੱਚ ਵੇਚਿਆ ਗਿਆ ਸੀ। ਜੇਕਰ ਇਸਨੂੰ ₹79.50 ਵਿੱਚ ਵੇਚਿਆ ਜਾਂਦਾ, ਤਾਂ ਲਾਭ ਜਾਂ ਹਾਨੀ ਦੀ ਪ੍ਰਤੀਸ਼ਤਤਾ ਕੀ ਹੋਣੀ ਸੀ?

Ans
1. ਲਾਭ 13.57% ✔
2. ਲਾਭ 15.25%
3. ਹਾਨੀ 15.57%
4. ਹਾਨੀ 13.25%

Question ID : **630680116179**
Option 1 ID : **630680450046**
Option 2 ID : **630680450048**
Option 3 ID : **630680450049**
Option 4 ID : **630680450047**
Status : **Answered**
Chosen Option : **1**

Website - www.dailyjobalert.in

Q.76 12 cm ਆਧਾਰ ਦੇ ਵਿਆਸ ਵਾਲਾ ਇੱਕ ਸ਼ੰਕੂ ਦਾ ਆਇਤਨ 84π cm^3 ਹੈ। ਇਸਦੀ ਉਚਾਈ ਪਤਾ ਕਰੋ।

Ans
1. 5 cm
2. 8 cm
3. 6 cm
4. 7 cm ✔

Question ID : **630680102905**
Option 1 ID : **630680399879**
Option 2 ID : **630680399882**
Option 3 ID : **630680399880**
Option 4 ID : **630680399881**
Status : **Answered**
Chosen Option : **3**

Q.77 ਕ੍ਰਮਵਾਰ 12 cm ਅਤੇ 6 cm ਬਾਹਰੀ ਅਤੇ ਅੰਦਰੂਨੀ ਵਿਆਸ ਵਾਲੇ ਇੱਕ ਖੋਖਲੇ ਗੋਲੇ ਨੂੰ 12 cm ਆਧਾਰ ਦੇ ਵਿਆਸ ਵਾਲੇ ਇੱਕ ਸ਼ੰਕੂ ਨੂੰ ਬਣਾਉਣ ਲਈ ਪਿਘਲਾ ਦਿੱਤਾ ਜਾਂਦਾ ਹੈ। ਸ਼ੰਕੂ ਦੀ ਉਚਾਈ ਪਤਾ ਕਰੋ।

Ans
1. 21 cm ✔
2. 24 cm
3. 26 cm
4. 18 cm

Question ID : **630680111579**
Option 1 ID : **630680432075**
Option 2 ID : **630680432076**
Option 3 ID : **630680432077**
Option 4 ID : **630680432074**
Status : **Answered**
Chosen Option : **4**

Q.78 ਜੇਕਰ $3^{(x-2)} + 3^x = 7290$ ਹੈ, ਤਾਂ x ਦਾ ਮੁੱਲ ਪਤਾ ਕਰੋ।

Ans
1. 6
2. 8 ✔
3. 9
4. 7

Question ID : **630680222912**
Option 1 ID : **630680865407**
Option 2 ID : **630680865409**
Option 3 ID : **630680865410**
Option 4 ID : **630680865408**
Status : **Answered**
Chosen Option : **1**

Website - www.dailyjobalert.in

Q.79 ਛੋਟੀ ਤੋਂ ਛੋਟੀਆ ਸੰਖਿਆ ਪਤਾ ਕਰੋ ਜੋ 15, 24 ਅਤੇ 30 ਨਾਲ ਪੂਰੀ ਤਰ੍ਹਾਂ ਭਾਗਯੋਗ ਹੋਵੇ।

Ans
1. 60
2. 24
3. 30
4. 120

Question ID : **63068094334**
Option 1 ID : **630680366032**
Option 2 ID : **630680366033**
Option 3 ID : **630680366031**
Option 4 ID : **630680366034**
Status : **Answered**
Chosen Option : **3**

Q.80 7 cm ਅਰਧ-ਵਿਆਸ ਵਾਲੇ ਕਿਸੇ ਗੋਲੇ ਦਾ ਆਇਤਨ ਪਤਾ ਕਰੋ।

Ans
1. 14.373 cm^3
2. 1437.3 cm^3
3. 143.73 cm^3
4. 14373 cm^3

Question ID : **630680108157**
Option 1 ID : **630680419703**
Option 2 ID : **630680419700**
Option 3 ID : **630680419702**
Option 4 ID : **630680419701**
Status : **Answered**
Chosen Option : **2**

Section : **Punjabi Language**

Q.81 ਭਾਸ਼ਾ ਦੀ ਸਭ ਤੋਂ ਵੱਡੀ ਵਿਆਕਰਣਿਕ ਇਕਾਈ ਕਿਹੜੀ ਹੈ?

Ans
1. ਧੁਨੀ
2. ਸ਼ਬਦ
3. ਵਾਕ
4. ਅੱਖਰ

Question ID : **630680241060**
Option 1 ID : **630680934706**
Option 2 ID : **630680934703**
Option 3 ID : **630680934704**
Option 4 ID : **630680934705**
Status : **Answered**
Chosen Option : **1**

Website - www.dailyjobalert.in

Q.82 ਨਾ ਨੌ ਮਣ ਤੇਲ ਹੋਵੇ _____। ਅਖਾਣ ਪੂਰਾ ਕਰੋ।

Ans
1. ਨਾ ਤੂੰ ਪਕੌੜੇ ਤਲੇਂ
2. ਨਾ ਰਾਧਾ ਨੱਚੇ
3. ਨਾ ਤੂੰ ਵਪਾਰ ਕਰੇਂ
4. ਨਾ ਤੂੰ ਮਾਲਸ਼ ਕਰੇਂ

Question ID : **630680241079**
Option 1 ID : **630680934775**
Option 2 ID : **630680934778**
Option 3 ID : **630680934777**
Option 4 ID : **630680934776**
Status : **Answered**
Chosen Option : **1**

Q.83 'ਧਰਤੀ ਸੂਰਜ ਦੁਆਲੇ ਘੁੰਮਦੀ ਹੈ।'

ਵਾਕ ਹੈ:-

Ans
1. ਬਿਆਨੀਆ ਵਾਕ
2. ਪ੍ਰਸ਼ਨਵਾਚਕ ਵਾਕ
3. ਸੰਯੁਕਤ ਵਾਕ
4. ਮਿਸ਼ਰਤ ਵਾਕ

Question ID : **630680241061**
Option 1 ID : **630680934707**
Option 2 ID : **630680934708**
Option 3 ID : **630680934709**
Option 4 ID : **630680934710**
Status : **Answered**
Chosen Option : **1**

Q.84 ਹਲਾਲ ਸ਼ਬਦ ਦਾ ਵਿਰੋਧੀ ਸ਼ਬਦ ਚੁਣੋ:-

Ans
1. ਮਿਠਾਸ
2. ਹਰਾਮ
3. ਹੱਸਮੁਖ
4. ਨਮਕ

Question ID : **630680241065**
Option 1 ID : **630680934725**
Option 2 ID : **630680934724**
Option 3 ID : **630680934726**
Option 4 ID : **630680934723**
Status : **Answered**
Chosen Option : **2**

Website - www.dailyjobalert.in

Q.85 'ਜਿਹੜਾ ਜਲਦੀ ਗੁੱਸੇ ਹੋ ਜਾਵੇ।' ਲਈ ਇਕ ਸ਼ਬਦ ਚੁਣੋ:-

Ans
1. ਗਰਮ
2. ਗੁਸੈਲ
3. ਗਲੋਖੜ
4. ਗਾਲੜੀ

Question ID : **630680241069**
Option 1 ID : **630680934741**
Option 2 ID : **630680934742**
Option 3 ID : **630680934739**
Option 4 ID : **630680934740**
Status : **Answered**
Chosen Option : **2**

Q.86 ਹੇਠ ਲਿਖਿਆ ਵਿੱਚੋਂ '**ਖਰਾਬ**' ਸ਼ਬਦ ਦਾ ਸਮਾਨਾਰਥੀ ਸ਼ਬਦ ਕਿਹੜਾ ਹੈ?

Ans
1. ਭੈੜਾ
2. ਸਾਫ
3. ਚੰਗਾ
4. ਠੀਕ

Question ID : **630680241066**
Option 1 ID : **630680934730**
Option 2 ID : **630680934729**
Option 3 ID : **630680934727**
Option 4 ID : **630680934728**
Status : **Answered**
Chosen Option : **1**

Q.87 ਸ਼ਬਦ ਸ਼੍ਰੇਣੀਆਂ _____ ਪ੍ਰਕਾਰ ਦੀਆਂ ਹੁੰਦੀਆਂ ਹਨ:-

Ans
1. ਨੌ
2. ਸੱਤ
3. ਦੱਸ
4. ਅੱਠ

Question ID : **630680241071**
Option 1 ID : **630680934749**
Option 2 ID : **630680934747**
Option 3 ID : **630680934750**
Option 4 ID : **630680934748**
Status : **Answered**
Chosen Option : **4**

Website - www.dailyjobalert.in

Q.88 ਹੇਠ ਲਿਖਿਆਂ ਵਿੱਚ _____ ਨਾਂਵ ਦੀ ਕਿਸਮ ਨਹੀਂ ਹੈ:-

Ans
✗ 1. ਆਮ-ਨਾਂਵ
✗ 2. ਖਾਸ-ਨਾਂਵ
✓ 3. ਪ੍ਰਸ਼ਨਵਾਚਕ
✗ 4. ਇਕੱਠਵਾਚਕ-ਨਾਂਵ

Question ID : **630680241070**
Option 1 ID : **630680934743**
Option 2 ID : **630680934744**
Option 3 ID : **630680934746**
Option 4 ID : **630680934745**
Status : **Answered**
Chosen Option : **3**

Q.89 ਉਦੇਸ਼ ਅਤੇ ਵਿਧੇਅ ਦਾ ਹੇਠ ਲਿਖਿਆਂ ਵਿੱਚੋਂ ਕਿਸ ਨਾਲ ਸੰਬੰਧ ਹੈ?

Ans
✗ 1. ਪੈਰਾ ਰਚਨਾ
✗ 2. ਸ਼ਬਦ ਰਚਨਾ
✗ 3. ਸੁਰ
✓ 4. ਵਾਕ ਰਚਨਾ

Question ID : **630680241062**
Option 1 ID : **630680934713**
Option 2 ID : **630680934711**
Option 3 ID : **630680934712**
Option 4 ID : **630680934714**
Status : **Answered**
Chosen Option : **1**

Q.90 ਹੇਠ ਲਿਖੇ ਵਾਕ ਦਾ ਪੰਜਾਬੀ ਅਨੁਵਾਦ ਕਰੋ।

He is my friend.

Ans
✗ 1. ਉਹ ਮਿੱਤਰ ਹੈ ਮੇਰਾ।
✗ 2. ਉਹ ਮੇਰਾ ਮਿੱਤਰ ਸੀ।
✓ 3. ਉਹ ਮੇਰਾ ਮਿੱਤਰ ਹੈ।
✗ 4. ਉਹ ਤੇਰਾ ਮਿੱਤਰ ਹੈ।

Question ID : **630680241073**
Option 1 ID : **630680934756**
Option 2 ID : **630680934755**
Option 3 ID : **630680934757**
Option 4 ID : **630680934758**
Status : **Answered**
Chosen Option : **3**

Website - www.dailyjobalert.in

Q.91 ਹੇਠ ਲਿਖਿਆ ਵਿੱਚੋਂ ਵਿਰੋਧੀ ਸ਼ਬਦਾਂ ਦਾ ਜੁੱਟ ਚੁਣੋ:-

Ans
✗ 1. ਸਵੇਰ-ਤੜਕਾ
✗ 2. ਮੁੰਡਾ-ਲੜਕਾ
✗ 3. ਔਰਤ-ਤੀਵੀਂ
✓ 4. ਏਕਤਾ-ਫੁੱਟ

Question ID : **630680241067**
Option 1 ID : **630680934734**
Option 2 ID : **630680934732**
Option 3 ID : **630680934731**
Option 4 ID : **630680934733**
Status : **Answered**
Chosen Option : **4**

Q.92 ਬਣਤਰ ਦੇ ਆਧਾਰ 'ਤੇ ਵਾਕ ਕਿੰਨੀਆਂ ਕਿਸਮਾਂ ਦੇ ਹੁੰਦੇ ਹਨ?

Ans
✗ 1. ਦੋ
✓ 2. ਤਿੰਨ
✗ 3. ਇੱਕ
✗ 4. ਚਾਰ

Question ID : **630680241059**
Option 1 ID : **630680934700**
Option 2 ID : **630680934701**
Option 3 ID : **630680934699**
Option 4 ID : **630680934702**
Status : **Answered**
Chosen Option : **4**

Q.93 'ਜਿਹੜਾ ਕਦੇ ਵੀ ਨਾ ਟੁੱਟੇ।' ਲਈ ਇਕ ਸ਼ਬਦ ਚੁਣੋ:-

Ans
✗ 1. ਅਦੁੱਖ
✗ 2. ਅਲੱਗ
✓ 3. ਅਟੁੱਟ
✗ 4. ਅਦਿੱਖ

Question ID : **630680241068**
Option 1 ID : **630680934736**
Option 2 ID : **630680934738**
Option 3 ID : **630680934737**
Option 4 ID : **630680934735**
Status : **Answered**
Chosen Option : **3**

Website - www.dailyjobalert.in

Q.94 ਹੇਠ ਲਿਖਿਆਂ ਵਿੱਚੋਂ ਸ਼ੁੱਧ ਵਾਕ ਦੀ ਚੋਣ ਕਰੋ:-

Ans
1. ਲੜਕਾ ਖੇਡਦੇ ਹਨ।
2. ਲੜਕੇ ਖੇਡਦਾ ਹਨ।
3. ✔ ਲੜਕੇ ਖੇਡਦੇ ਹਨ।
4. ਲੜਕੀ ਖੇਡਦੇ ਹੈ।

Question ID : **630680241064**
Option 1 ID : **630680934722**
Option 2 ID : **630680934719**
Option 3 ID : **630680934720**
Option 4 ID : **630680934721**
Status : **Answered**
Chosen Option : **3**

Q.95 ਅੰਗਰੇਜ਼ੀ ਸ਼ਬਦ 'Window' ਦਾ ਪੰਜਾਬੀ ਅਨੁਵਾਦ ਹੈ:-

Ans
1. ਮੇਜ਼
2. ਦਰਵਾਜਾ
3. ✔ ਬਾਰੀ
4. ਬਾਹਰੀ

Question ID : **630680241072**
Option 1 ID : **630680934753**
Option 2 ID : **630680934754**
Option 3 ID : **630680934752**
Option 4 ID : **630680934751**
Status : **Answered**
Chosen Option : **3**

Q.96 ਹੇਠ ਲਿਖਿਆਂ ਵਿੱਚੋਂ ਸ਼ੁੱਧ ਸ਼ਬਦਾਂ ਦਾ ਜੁੱਟ ਚੁਣੋ।:-

Ans
1. ਆਸ਼ਾਵਾਦੀ-ਨਿਰਾਸਾਵਾਦੀ
2. ✔ ਨਿਰਾਸ਼ਾਵਾਦੀ-ਆਸ਼ਾਵਾਦੀ
3. ਆਸ਼ਾਵਾਂਦੀ-ਨਿਰਾਸ਼ਾਵਾਦੀ
4. ਨਿਰਾਸ਼ਾਵਾਦੀ-ਆਸਾਵਾਂਦੀ

Question ID : **630680241063**
Option 1 ID : **630680934715**
Option 2 ID : **630680934716**
Option 3 ID : **630680934718**
Option 4 ID : **630680934717**
Status : **Answered**
Chosen Option : **1**

DAILY JOB ALERT ਪੰਜਾਬ

Comprehension:

ਜੇ ਕਿਤੇ ਇਕ ਜ਼ਿੰਦਗੀ ਦੂਜੀ ਕਿਸੇ ਜ਼ਿੰਦਗੀ ਵਿਚ ਜੀਵੀ ਜਾ ਸਕਦੀ ਹੈ, ਤਾਂ ਉਹਦਾ ਨਮੂਨਾ "ਮਾਂ" ਹੈ। ਬੱਚੇ ਦੀ ਬਦਨਾਮੀ ਹੋ ਗਈ ਹੈ, ਦੁਨੀਆਂ ਦੇ ਲੋਕਾਂ ਨੇ ਉਹਨੂੰ ਆਪਣੇ ਦਰਾਂ ਤੋਂ ਧ੍ਰਿਕਾਰ ਦਿਤਾ ਹੈ, ਤਾਂ ਭੀ ਮਾਂ, ਉਸਨੂੰ ਹਿੱਕ ਨਾਲ ਲਾਉਂਦੀ ਹੈ। ਪਰ ਆਮ ਤੌਰ ਤੇ ਬਚਿਆਂ ਨੂੰ ਮਾਂ-ਪਿਆਰ ਦੀ ਮਹਾਨਤਾ ਦਾ ਪੂਰਾ ਪਤਾ ਓਦੋਂ ਹੀ ਲਗਦਾ ਹੈ, ਜਦੋਂ ਇਹ ਮਹਾਨ ਪਿਆਰ ਉਹਨਾਂ ਕੋਲੋਂ ਹਮੇਸ਼ਾਂ ਲਈ ਖੁਸ ਜਾਂਦਾ ਹੈ; ਜਦੋਂ ਉਹ ਆਪਣੀ ਮਾਂ ਨੂੰ ਆਪਣੀ ਪ੍ਰਾਪਤੀ ਦੱਸਣ ਦੀ ਖ਼ੁਸ਼ੀ ਜਾਂ ਮੌਕਾ ਗੁਆ ਚੁਕਦੇ ਹਨ। ਬੱਚਿਆਂ ਦੇ ਖਰ੍ਹਵਿਆਂ ਰਾਹਾਂ- ਰਸਤਿਆਂ ਉਤੇ ਮਾਂ ਆਪਣੇ ਲਾਸਾਨੀ ਪਿਆਰ ਦੇ ਫੁੱਲ ਬੁੱਕਾਂ ਮੁੰਹੀਂ ਖਲਾਰਦੀ ਰਹਿੰਦੀ ਹੈ, ਇਹਨਾਂ ਫੁੱਲਾਂ ਨਾਲ ਪਧਰਾਏ ਰਸਤਿਆਂ ਉਤੋਂ ਬੱਚੇ ਬੇਖ਼ੌਫ ਲੰਘਦੇ ਰਹਿੰਦੇ ਹਨ, ਏਸ ਗਲੋਂ ਬਿਲਕੁਲ ਬੇਪਤਾ ਕਿ ਕਿੰਨੀਆਂ ਮਚਕੋੜਾਂ ਤੋਂ ਇਹਨਾਂ ਫੁੱਲਾਂ ਦੀਆਂ ਮੋਟੀਆਂ ਤੈਹਾਂ ਨੇ ਉਹਨਾਂ ਨੂੰ ਬਚਾ ਕੇ ਰਖਿਆ ਹੈ।ਹਾ ਦਸਿਆਂ ਭਰੀ ਜ਼ਿੰਦਗੀ ਦੀ ਫਿਲਮ ਛਪਾ ਛਪ ਤੁਰਦੀ ਜਾਂਦੀ ਹੈ, ਤੇ ਮਾਂ ਦਾ ਪਿਆਰ ਮੱਧਮ ਮਿੱਠਾ ਸੰਗੀਤ ਬਣ ਕੇ ਇਹਦੇ ਨਾਲ ਤਾਲ ਦੇਂਦਾ ਰਹਿੰਦਾ ਹੈ। ਦੁਨੀਆਂ ਦੇ ਵਡੇ ਆਦਮੀ, ਟੈਗੋਰ, ਬਰਨਾਰਡ ਸ਼ਾਅ ਤੇ ਅਨੇਕਾਂ ਹੋਰ ਆਪਣੀਆਂ ਮਾਵਾਂ ਨੂੰ ਲਿੰਕਨ ਦੇ ਲਫ਼ਜ਼ਾਂ ਵਿਚ ਯਾਦ ਕਰਦੇ ਹਨ: "ਜੋ ਕੁਝ ਮੈਂ ਹਾਂ, ਜਾਂ ਹੋਣ ਦੀ ਆਸ ਰਖਦਾ ਹਾਂ, ਆਪਣੀ ਫ਼ਰਿਸ਼ਤਿਆਂ ਵਰਗੀ ਮਾਂ ਦਾ ਸਦਕਾ ਹਾਂ।"

SubQuestion No : 97

Q.97 ਉਪਰੋਕਤ ਪੈਰ੍ਹੇ ਅਨੁਸਾਰ ਇੱਕ ਜ਼ਿੰਦਗੀ ਕਿਸੇ ਦੂਜੀ ਜ਼ਿੰਦਗੀ ਵਿਚ ਜਿਉਣ ਦਾ ਨਮੂਨਾ ਕੀ ਹੈ?

Ans
✔ 1. ਮਾਂ
✘ 2. ਭੈਣ
✘ 3. ਭਰਾ
✘ 4. ਮਾ-ਬਾਪ

Question ID : **630680241078**
Option 1 ID : **630680934771**
Option 2 ID : **630680934772**
Option 3 ID : **630680934773**
Option 4 ID : **630680934774**
Status : **Answered**
Chosen Option : **1**

Comprehension:

ਜੇ ਕਿਤੇ ਇਕ ਜ਼ਿੰਦਗੀ ਦੂਜੀ ਕਿਸੇ ਜ਼ਿੰਦਗੀ ਵਿਚ ਜੀਵੀ ਜਾ ਸਕਦੀ ਹੈ, ਤਾਂ ਉਹਦਾ ਨਮੂਨਾ "ਮਾਂ" ਹੈ। ਬੱਚੇ ਦੀ ਬਦਨਾਮੀ ਹੋ ਗਈ ਹੈ, ਦੁਨੀਆਂ ਦੇ ਲੋਕਾਂ ਨੇ ਉਹਨੂੰ ਆਪਣੇ ਦਰਾਂ ਤੋਂ ਧ੍ਰਿਕਾਰ ਦਿਤਾ ਹੈ, ਤਾਂ ਭੀ ਮਾਂ, ਉਸਨੂੰ ਹਿੱਕ ਨਾਲ ਲਾਉਂਦੀ ਹੈ। ਪਰ ਆਮ ਤੌਰ ਤੇ ਬਚਿਆਂ ਨੂੰ ਮਾਂ-ਪਿਆਰ ਦੀ ਮਹਾਨਤਾ ਦਾ ਪੂਰਾ ਪਤਾ ਓਦੋਂ ਹੀ ਲਗਦਾ ਹੈ, ਜਦੋਂ ਇਹ ਮਹਾਨ ਪਿਆਰ ਉਹਨਾਂ ਕੋਲੋਂ ਹਮੇਸ਼ਾਂ ਲਈ ਖੁਸ ਜਾਂਦਾ ਹੈ; ਜਦੋਂ ਉਹ ਆਪਣੀ ਮਾਂ ਨੂੰ ਆਪਣੀ ਪ੍ਰਾਪਤੀ ਦੱਸਣ ਦੀ ਖ਼ੁਸ਼ੀ ਜਾਂ ਮੌਕਾ ਗੁਆ ਚੁਕਦੇ ਹਨ। ਬੱਚਿਆਂ ਦੇ ਖਰ੍ਹਵਿਆਂ ਰਾਹਾਂ- ਰਸਤਿਆਂ ਉਤੇ ਮਾਂ ਆਪਣੇ ਲਾਸਾਨੀ ਪਿਆਰ ਦੇ ਫੁੱਲ ਬੁੱਕਾਂ ਮੁੰਹੀਂ ਖਲਾਰਦੀ ਰਹਿੰਦੀ ਹੈ, ਇਹਨਾਂ ਫੁੱਲਾਂ ਨਾਲ ਪਧਰਾਏ ਰਸਤਿਆਂ ਉਤੋਂ ਬੱਚੇ ਬੇਖ਼ੌਫ ਲੰਘਦੇ ਰਹਿੰਦੇ ਹਨ, ਏਸ ਗਲੋਂ ਬਿਲਕੁਲ ਬੇਪਤਾ ਕਿ ਕਿੰਨੀਆਂ ਮਚਕੋੜਾਂ ਤੋਂ ਇਹਨਾਂ ਫੁੱਲਾਂ ਦੀਆਂ ਮੋਟੀਆਂ ਤੈਹਾਂ ਨੇ ਉਹਨਾਂ ਨੂੰ ਬਚਾ ਕੇ ਰਖਿਆ ਹੈ।ਹਾ ਦਸਿਆਂ ਭਰੀ ਜ਼ਿੰਦਗੀ ਦੀ ਫਿਲਮ ਛਪਾ ਛਪ ਤੁਰਦੀ ਜਾਂਦੀ ਹੈ, ਤੇ ਮਾਂ ਦਾ ਪਿਆਰ ਮੱਧਮ ਮਿੱਠਾ ਸੰਗੀਤ ਬਣ ਕੇ ਇਹਦੇ ਨਾਲ ਤਾਲ ਦੇਂਦਾ ਰਹਿੰਦਾ ਹੈ। ਦੁਨੀਆਂ ਦੇ ਵਡੇ ਆਦਮੀ, ਟੈਗੋਰ, ਬਰਨਾਰਡ ਸ਼ਾਅ ਤੇ ਅਨੇਕਾਂ ਹੋਰ ਆਪਣੀਆਂ ਮਾਵਾਂ ਨੂੰ ਲਿੰਕਨ ਦੇ ਲਫ਼ਜ਼ਾਂ ਵਿਚ ਯਾਦ ਕਰਦੇ ਹਨ: "ਜੋ ਕੁਝ ਮੈਂ ਹਾਂ, ਜਾਂ ਹੋਣ ਦੀ ਆਸ ਰਖਦਾ ਹਾਂ, ਆਪਣੀ ਫ਼ਰਿਸ਼ਤਿਆਂ ਵਰਗੀ ਮਾਂ ਦਾ ਸਦਕਾ ਹਾਂ।"

SubQuestion No : 98

Q.98 ਵੱਡੇ ਲੋਕ ਮਾਂ ਨੂੰ ਕਿਸਦੇ ਲਫਜ਼ਾਂ ਵਿਚ ਯਾਦ ਕਰਦੇ ਹਨ?

Ans
✘ 1. ਮਾਂ ਦੇ
✘ 2. ਬਰਨਾਰਡ ਸ਼ਾਅ ਦੇ
✘ 3. ਟੈਗੋਰ ਦੇ
✔ 4. ਲਿੰਕਨ ਦੇ

Question ID : **630680241077**
Option 1 ID : **630680934770**
Option 2 ID : **630680934769**
Option 3 ID : **630680934768**
Option 4 ID : **630680934767**
Status : **Answered**
Chosen Option : **4**

Website - www.dailyjobalert.in

Comprehension:

ਜੇ ਕਿਤੇ ਇਕ ਜ਼ਿੰਦਗੀ ਦੂਜੀ ਕਿਸੇ ਜ਼ਿੰਦਗੀ ਵਿਚ ਜੀਵੀ ਜਾ ਸਕਦੀ ਹੈ, ਤਾਂ ਉਹਦਾ ਨਮੂਨਾ "ਮਾਂ" ਹੈ। ਬੱਚੇ ਦੀ ਬਦਨਾਮੀ ਹੋ ਗਈ ਹੈ, ਦੁਨੀਆਂ ਦੇ ਲੋਕਾਂ ਨੇ ਉਹਨੂੰ ਆਪਣੇ ਦਰਾਂ ਤੋਂ ਧ੍ਰਿਕਾਰ ਦਿਤਾ ਹੈ, ਤਾਂ ਭੀ ਮਾਂ, ਉਸਨੂੰ ਹਿੱਕ ਨਾਲ ਲਾਉਂਦੀ ਹੈ। ਪਰ ਆਮ ਤੌਰ ਤੇ ਬਚਿਆਂ ਨੂੰ ਮਾਂ-ਪਿਆਰ ਦੀ ਮਹਾਨਤਾ ਦਾ ਪੂਰਾ ਪਤਾ ਓਦੋਂ ਹੀ ਲਗਦਾ ਹੈ, ਜਦੋਂ ਇਹ ਮਹਾਨ ਪਿਆਰ ਉਹਨਾਂ ਕੋਲੋਂ ਹਮੇਸ਼ਾਂ ਲਈ ਖੁਸ ਜਾਂਦਾ ਹੈ; ਜਦੋਂ ਉਹ ਆਪਣੀ ਮਾਂ ਨੂੰ ਆਪਣੀ ਪ੍ਰਾਪਤੀ ਦੱਸਣ ਦੀ ਖ਼ੁਸ਼ੀ ਜਾਂ ਮੌਕਾ ਗੁਆ ਚੁਕਦੇ ਹਨ। ਬੱਚਿਆਂ ਦੇ ਖਰ੍ਹਵਿਆਂ ਰਾਹਾਂ- ਰਸਤਿਆਂ ਉਤੇ ਮਾਂ ਆਪਣੇ ਲਾਸਾਨੀ ਪਿਆਰ ਦੇ ਫੁੱਲ ਬੁੱਕਾਂ ਮੁੰਹੀਂ ਖਲਾਰਦੀ ਰਹਿੰਦੀ ਹੈ, ਇਹਨਾਂ ਫੁੱਲਾਂ ਨਾਲ ਪਧਰਾਏ ਰਸਤਿਆਂ ਉਤੋਂ ਬੱਚੇ ਬੇਖ਼ੌਫ ਲੰਘਦੇ ਰਹਿੰਦੇ ਹਨ, ਏਸ ਗਲੋਂ ਬਿਲਕੁਲ ਬੇਪਤਾ ਕਿ ਕਿੰਨੀਆਂ ਮਚਕੋੜਾਂ ਤੋਂ ਇਹਨਾਂ ਫੁੱਲਾਂ ਦੀਆਂ ਮੋਟੀਆਂ ਤੈਹਾਂ ਨੇ ਉਹਨਾਂ ਨੂੰ ਬਚਾ ਕੇ ਰਖਿਆ ਹੈ।ਹਾ ਦਸਿਆਂ ਭਰੀ ਜ਼ਿੰਦਗੀ ਦੀ ਫਿਲਮ ਛਪਾ ਛਪ ਤੁਰਦੀ ਜਾਂਦੀ ਹੈ, ਤੇ ਮਾਂ ਦਾ ਪਿਆਰ ਮੱਧਮ ਮਿੱਠਾ ਸੰਗੀਤ ਬਣ ਕੇ ਇਹਦੇ ਨਾਲ ਤਾਲ ਦੇਂਦਾ ਰਹਿੰਦਾ ਹੈ। ਦੁਨੀਆਂ ਦੇ ਵਡੇ ਆਦਮੀ, ਟੈਗੋਰ, ਬਰਨਾਰਡ ਸ਼ਾਅ ਤੇ ਅਨੇਕਾਂ ਹੋਰ ਆਪਣੀਆਂ ਮਾਵਾਂ ਨੂੰ ਲਿੰਕਨ ਦੇ ਲਫ਼ਜ਼ਾਂ ਵਿਚ ਯਾਦ ਕਰਦੇ ਹਨ: "ਜੋ ਕੁਝ ਮੈਂ ਹਾਂ, ਜਾਂ ਹੋਣ ਦੀ ਆਸ ਰਖਦਾ ਹਾਂ, ਆਪਣੀ ਫ਼ਰਿਸ਼ਤਿਆਂ ਵਰਗੀ ਮਾਂ ਦਾ ਸਦਕਾ ਹਾਂ।"

SubQuestion No : 99

Q.99 ਉਪਰੋਕਤ ਪੈਰ੍ਹੇ ਦਾ ਕੇਂਦਰੀ ਥੀਮ ਕੀ ਹੈ?

Ans
- ✔ 1. ਮਾਂ ਦਾ ਪਿਆਰ
- ✘ 2. ਬਾਪ ਦਾ ਪਿਆਰ
- ✘ 3. ਮਾਪਿਆਂ ਦਾ ਪਿਆਰ
- ✘ 4. ਭਰਾ ਦਾ ਪਿਆਰ

Question ID : **630680241075**
Option 1 ID : **630680934760**
Option 2 ID : **630680934762**
Option 3 ID : **630680934761**
Option 4 ID : **630680934759**
Status : **Answered**
Chosen Option : **1**

Comprehension:

ਜੇ ਕਿਤੇ ਇਕ ਜ਼ਿੰਦਗੀ ਦੂਜੀ ਕਿਸੇ ਜ਼ਿੰਦਗੀ ਵਿਚ ਜੀਵੀ ਜਾ ਸਕਦੀ ਹੈ, ਤਾਂ ਉਹਦਾ ਨਮੂਨਾ "ਮਾਂ" ਹੈ। ਬੱਚੇ ਦੀ ਬਦਨਾਮੀ ਹੋ ਗਈ ਹੈ, ਦੁਨੀਆਂ ਦੇ ਲੋਕਾਂ ਨੇ ਉਹਨੂੰ ਆਪਣੇ ਦਰਾਂ ਤੋਂ ਧ੍ਰਿਕਾਰ ਦਿਤਾ ਹੈ, ਤਾਂ ਭੀ ਮਾਂ, ਉਸਨੂੰ ਹਿੱਕ ਨਾਲ ਲਾਉਂਦੀ ਹੈ। ਪਰ ਆਮ ਤੌਰ ਤੇ ਬਚਿਆਂ ਨੂੰ ਮਾਂ-ਪਿਆਰ ਦੀ ਮਹਾਨਤਾ ਦਾ ਪੂਰਾ ਪਤਾ ਓਦੋਂ ਹੀ ਲਗਦਾ ਹੈ, ਜਦੋਂ ਇਹ ਮਹਾਨ ਪਿਆਰ ਉਹਨਾਂ ਕੋਲੋਂ ਹਮੇਸ਼ਾਂ ਲਈ ਖੁਸ ਜਾਂਦਾ ਹੈ; ਜਦੋਂ ਉਹ ਆਪਣੀ ਮਾਂ ਨੂੰ ਆਪਣੀ ਪ੍ਰਾਪਤੀ ਦੱਸਣ ਦੀ ਖ਼ੁਸ਼ੀ ਜਾਂ ਮੌਕਾ ਗੁਆ ਚੁਕਦੇ ਹਨ। ਬੱਚਿਆਂ ਦੇ ਖਰ੍ਹਵਿਆਂ ਰਾਹਾਂ- ਰਸਤਿਆਂ ਉਤੇ ਮਾਂ ਆਪਣੇ ਲਾਸਾਨੀ ਪਿਆਰ ਦੇ ਫੁੱਲ ਬੁੱਕਾਂ ਮੁੰਹੀਂ ਖਲਾਰਦੀ ਰਹਿੰਦੀ ਹੈ, ਇਹਨਾਂ ਫੁੱਲਾਂ ਨਾਲ ਪਧਰਾਏ ਰਸਤਿਆਂ ਉਤੋਂ ਬੱਚੇ ਬੇਖ਼ੌਫ ਲੰਘਦੇ ਰਹਿੰਦੇ ਹਨ, ਏਸ ਗਲੋਂ ਬਿਲਕੁਲ ਬੇਪਤਾ ਕਿ ਕਿੰਨੀਆਂ ਮਚਕੋੜਾਂ ਤੋਂ ਇਹਨਾਂ ਫੁੱਲਾਂ ਦੀਆਂ ਮੋਟੀਆਂ ਤੈਹਾਂ ਨੇ ਉਹਨਾਂ ਨੂੰ ਬਚਾ ਕੇ ਰਖਿਆ ਹੈ।ਹਾ ਦਸਿਆਂ ਭਰੀ ਜ਼ਿੰਦਗੀ ਦੀ ਫਿਲਮ ਛਪਾ ਛਪ ਤੁਰਦੀ ਜਾਂਦੀ ਹੈ, ਤੇ ਮਾਂ ਦਾ ਪਿਆਰ ਮੱਧਮ ਮਿੱਠਾ ਸੰਗੀਤ ਬਣ ਕੇ ਇਹਦੇ ਨਾਲ ਤਾਲ ਦੇਂਦਾ ਰਹਿੰਦਾ ਹੈ। ਦੁਨੀਆਂ ਦੇ ਵਡੇ ਆਦਮੀ, ਟੈਗੋਰ, ਬਰਨਾਰਡ ਸ਼ਾਅ ਤੇ ਅਨੇਕਾਂ ਹੋਰ ਆਪਣੀਆਂ ਮਾਵਾਂ ਨੂੰ ਲਿੰਕਨ ਦੇ ਲਫ਼ਜ਼ਾਂ ਵਿਚ ਯਾਦ ਕਰਦੇ ਹਨ: "ਜੋ ਕੁਝ ਮੈਂ ਹਾਂ, ਜਾਂ ਹੋਣ ਦੀ ਆਸ ਰਖਦਾ ਹਾਂ, ਆਪਣੀ ਫ਼ਰਿਸ਼ਤਿਆਂ ਵਰਗੀ ਮਾਂ ਦਾ ਸਦਕਾ ਹਾਂ।"

SubQuestion No : 100

Q.100 ਬੱਚੇ ਦੇ ਬਦਨਾਮ ਹੋਣ 'ਤੇ ਲੋਕ ਕੀ ਕਰਦੇ ਹਨ?

Ans
- ✘ 1. ਤਾਰੀਫ ਕਰਦੇ ਹਨ
- ✘ 2. ਗੁਲਾਮ ਬਣਾ ਲੈਂਦੇ ਹਨ
- ✔ 3. ਆਪਣੇ ਦਰਾਂ ਤੋਂ ਧ੍ਰਿਕਾਰ ਦਿੰਦੇ ਹਨ
- ✘ 4. ਅਛੂਤ ਬਣਾ ਦਿੰਦੇ ਹਨ

Question ID : **630680241076**
Option 1 ID : **630680934764**
Option 2 ID : **630680934765**
Option 3 ID : **630680934766**
Option 4 ID : **630680934763**
Status : **Answered**
Chosen Option : **3**

Website - www.dailyjobalert.in

PUNJAB POLICE

Police to its last particle is duty

Exam Name	Recruitment for the post of Sub Inspector in Cadres of District and Armed Police 20th Jun to 31st Jul 2023 S2 Paper II and III
Application No	www.dailyjobalert.in
Roll No	Telegram - Daily Job Alert Punjab
Applicant Name	instagram - Daily Job Alert Punjab
Exam Date	29/06/2023
Shift	4:00 PM - 7:00 PM
Subject	Sub Inspector Paper II and III

Section : **Logical and Analytical Reasoning and Data Interpretation**

Q.1 Read the given statements and conclusions carefully. Assuming that the information given in the statements is true, even if it appears to be at variance with commonly known facts, decide which of the given conclusions logically follow(s) from the statements.
Statements:
All bottles are glasses.
All glasses are cups.
No cups are plates.
Conclusions:
I. Some cups are glasses.
II. All bottles are plates.
III. No plates are cups.

Ans
✗ 1. None of the conclusions follow
✗ 2. Only conclusions I and II follow
✓ 3. Only conclusions I and III follow
✗ 4. Only conclusion II follows

Question ID : **630680105907**
Option 1 ID : **630680411571**
Option 2 ID : **630680411573**
Option 3 ID : **630680411572**
Option 4 ID : **630680411574**
Status : **Answered**
Chosen Option : **3**

Website - www.dailyjobalert.in

Q.2 **TD16O3 is related to XH8K6 in a certain way. In the same way, BF22L9 is related to FJ11H18. To which of the following is RG12H5 related, following the same logic?**

Ans
- ✗ 1. VK4L10
- ✗ 2. WL6D15
- ✓ 3. VK6D10
- ✗ 4. WJ4L15

Question ID : **63068077035**
Option 1 ID : **630680298237**
Option 2 ID : **630680298239**
Option 3 ID : **630680298238**
Option 4 ID : **630680298240**
Status : **Answered**
Chosen Option : **3**

Q.3 **Select the letter from among the given options that can replace the question mark (?) in the following series.**
F, I, K, O, Q, ?, X, D, F

Ans
- ✗ 1. T
- ✗ 2. U
- ✗ 3. W
- ✓ 4. V

Question ID : **63068058798**
Option 1 ID : **630680226817**
Option 2 ID : **630680226815**
Option 3 ID : **630680226816**
Option 4 ID : **630680226814**
Status : **Answered**
Chosen Option : **4**

Q.4 **What should come in place of ? in the given series in order to make it logically complete?**
MP36, LQ45, KR54, JS63, ?

Ans
- ✗ 1. GV75
- ✓ 2. IT72
- ✗ 3. HT81
- ✗ 4. IU72

Question ID : **630680109265**
Option 1 ID : **630680423840**
Option 2 ID : **630680423841**
Option 3 ID : **630680423842**
Option 4 ID : **630680423843**
Status : **Answered**
Chosen Option : **2**

Website - www.dailyjobalert.in

Q.5 **Refer to the following number series and answer the question.**
8, 7, 9, 4, 2, 1, 6, 8, 3, 5, 4, 3, 1, 7.
How many odd numbers are there that are immediately preceded by two even numbers?

Ans
✗ 1. Four
✗ 2. One
✓ 3. Two
✗ 4. Three

Question ID : **630680139212**
Option 1 ID : **630680538956**
Option 2 ID : **630680538954**
Option 3 ID : **630680538957**
Option 4 ID : **630680538955**
Status : **Answered**
Chosen Option : **1**

Q.6 **Select the alpha-numeric term from among the given options that can replace the question mark (?) in the following series.**
1M, 4N, 9P, 16S, 25W, ?

Ans
✗ 1. 49B
✓ 2. 36B
✗ 3. 35B
✗ 4. 36A

Question ID : **63068053433**
Option 1 ID : **630680205797**
Option 2 ID : **630680205794**
Option 3 ID : **630680205796**
Option 4 ID : **630680205795**
Status : **Answered**
Chosen Option : **2**

Q.7 **Find out the correct alternative that when filled in the blanks in the same sequence will make the series logically complete.**

F_DABC _KJ_HI R_P_ _O X_V_T_

Ans
✗ 1. ELQGMNWSU
✗ 2. GLGQMNWUS
✓ 3. ELGQMNWSU
✗ 4. GLQGMNWSU

Question ID : **630680120197**
Option 1 ID : **630680465825**
Option 2 ID : **630680465823**
Option 3 ID : **630680465822**
Option 4 ID : **630680465824**
Status : **Not Attempted and Marked For Review**
Chosen Option : **--**

DAILY JOB Alert
Website - www.dailyjobalert.in

Q.8 **6 students A, B, C, D, E and F received marks in their exams. They each appeared for three different examinations. A scored 50% of B's score in the first exam. B scored a total of 100 marks in the second and third exams and scored 10% less than C's score in the first exam, which was 90. D and E each scored a total of 85 marks in the first and second exams. F scored 20% less than D in the third exam. E scored 10 more than D in the third exam. D scored 40 in the third exam. F scored a total of 120 marks in the second and first exams. C scored a total of 90 marks in the second and third exams. Also, A scored a total of 85 in the second and third exams. What is E'stotal score in the three exams?**

Ans
- ✗ 1. 100
- ✗ 2. 90
- ✓ 3. 135
- ✗ 4. 125

Question ID : **63068078945**
Option 1 ID : **630680305819**
Option 2 ID : **630680305820**
Option 3 ID : **630680305818**
Option 4 ID : **630680305817**
Status : **Not Answered**
Chosen Option : **--**

Q.9 **In a certain code language, 'ZIP' is written as 'XGN' and 'PET' is written as 'NCR'. How will 'OUR' be written in that language?**

Ans
- ✗ 1. NSP
- ✓ 2. MSP
- ✗ 3. NTQ
- ✗ 4. MRO

Question ID : **630680158221**
Option 1 ID : **630680612412**
Option 2 ID : **630680612413**
Option 3 ID : **630680612414**
Option 4 ID : **630680612415**
Status : **Answered**
Chosen Option : **2**

Q.10 **In the following two triads, each group of letters is related to the subsequent one following a certain logic. Select from the given options, the one which follows the same logic.**
Triad 1: BRUT - RUBT - TSDR
Triad 2: DINS - INDS - KLFQ

Ans
- ✗ 1. TORN - ORTN – QORP
- ✓ 2. BURP - URBP – WPDN
- ✗ 3. FILE - ILEF – KJHC
- ✗ 4. LENS - ENLS – CPJU

Question ID : **63068077057**
Option 1 ID : **630680298327**
Option 2 ID : **630680298325**
Option 3 ID : **630680298328**
Option 4 ID : **630680298326**
Status : **Not Answered**
Chosen Option : **--**

Website - www.dailyjobalert.in

Q.11 **Six friends - M, N, O, P, Q, R - are discussing their test marks. Each of them got different marks. M got the highest marks. Only N and R got less marks than O. R got the least marks. How many friends got more marks than O?**

Ans
✗ 1. 4
✗ 2. 1
✓ 3. 3
✗ 4. 2

Question ID : **630680138940**
Option 1 ID : **630680537910**
Option 2 ID : **630680537913**
Option 3 ID : **630680537912**
Option 4 ID : **630680537911**
Status : **Answered**
Chosen Option : **3**

Q.12 **Sana, Madhuri, Tiya, Rita, zain and Neha are six friends.**
Rita is shorter than Madhuri but taller than zain.
Sana is tallest among all.
Tiya is shorter than Madhuri but taller than Rita.
Neha is the shortest.
Who is at the 2nd position if they are standing in increasing order of height?

Ans
✓ 1. Zain
✗ 2. Sana
✗ 3. Rita
✗ 4. Tiya

Question ID : **630680105767**
Option 1 ID : **630680411074**
Option 2 ID : **630680411072**
Option 3 ID : **630680411073**
Option 4 ID : **630680411071**
Status : **Not Answered**
Chosen Option : **--**

Q.13 **A man walks 3 km south, then turns left and walks 4 km. He again turns left and walks 1 km. In which direction is he facing now?**

Ans
✗ 1. West
✗ 2. South
✓ 3. North
✗ 4. East

Question ID : **630680106024**
Option 1 ID : **630680411996**
Option 2 ID : **630680411998**
Option 3 ID : **630680411997**
Option 4 ID : **630680411995**
Status : **Answered**
Chosen Option : **4**

Website - www.dailyjobalert.in

Q.14 Select the option in which the words share the same relationship as that shared by the given pair of words.

Wrestling : Arena

Ans
- ✗ 1. Boxing : Stadium
- ✓ 2. Tennis : Court
- ✗ 3. Skating : Ground
- ✗ 4. Exercise : Track

Question ID : **63068063307**
Option 1 ID : **630680244394**
Option 2 ID : **630680244397**
Option 3 ID : **630680244395**
Option 4 ID : **630680244396**
Status : **Answered**
Chosen Option : **2**

Q.15 Select the combination of letters that when sequentially placed in the blanks of the given series will complete the series.
_bc_ca_cd_ _b_dca_cdc_bc_c

Ans
- ✗ 1. adbaccaad
- ✗ 2. cbdcacbad
- ✗ 3. adbaccbad
- ✓ 4. adbcacbad

Question ID : **63068060460**
Option 1 ID : **630680233376**
Option 2 ID : **630680233377**
Option 3 ID : **630680233374**
Option 4 ID : **630680233375**
Status : **Not Answered**
Chosen Option : **--**

DAILY JOB Alert

Q.16 **The sequence of folding a piece of paper and the manner in which the folded paper is cut is shown in the following figures. How would this paper look when unfolded?**

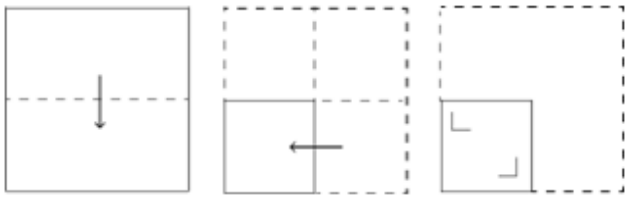

Ans

✗ 1.



✗ 2.

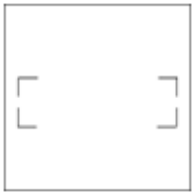

✓ 3.

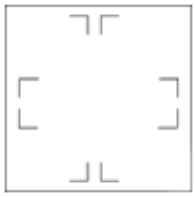

✗ 4.

Question ID : **630680196460**
Option 1 ID : **630680762161**
Option 2 ID : **630680762160**
Option 3 ID : **630680762162**
Option 4 ID : **630680762159**
Status : **Answered**
Chosen Option : **1**

Q.17 **Select the option in which the numbers are related in the same way as are the numbers in the given triad.**
(3 : 21 : 7)

Ans

✓ 1. (2 : 4 : 2)

✗ 2. (2 : 5 : 2)

✗ 3. (2 : 4 : 1)

✗ 4. (2 : 2 : 2)

Question ID : **63068062253**
Option 1 ID : **630680240308**
Option 2 ID : **630680240307**
Option 3 ID : **630680240306**
Option 4 ID : **630680240309**
Status : **Answered**
Chosen Option : **1**

Website - www.dailyjobalert.in

Q.18 Jack and Bob start walking from the same point. Jack walks towards the north and covers 11 m. He then turns right and covers 7 m. Bob walks towards the west and covers 9 m. He then turns right and covers 11 m. How much apart are they from each other now in a straight line?
(Consider all the turns to be of 90°.)

Ans
✗ 1. 9 m
✗ 2. 7 m
✓ 3. 16 m
✗ 4. 20 m

Question ID : **630680172186**
Option 1 ID : **630680667183**
Option 2 ID : **630680667181**
Option 3 ID : **630680667182**
Option 4 ID : **630680667180**
Status : **Not Answered**
Chosen Option : **--**

Q.19 The calendar for the year 2009 will be the same for which of the following years?

Ans
✓ 1. 2015
✗ 2. 2020
✗ 3. 2016
✗ 4. 2018

Question ID : **630680111588**
Option 1 ID : **630680432106**
Option 2 ID : **630680432109**
Option 3 ID : **630680432107**
Option 4 ID : **630680432108**
Status : **Not Answered**
Chosen Option : **--**

Q.20 During the oath-taking ceremony, the newly elected members are standing in a line. Smriti Gupta is 21st in order from both ends. How many members are there in the line?

Ans
✗ 1. 45
✗ 2. 47
✓ 3. 41
✗ 4. 43

Question ID : **630680107145**
Option 1 ID : **630680415978**
Option 2 ID : **630680415979**
Option 3 ID : **630680415976**
Option 4 ID : **630680415977**
Status : **Answered**
Chosen Option : **3**

Website - www.dailyjobalert.in

Q.21 **If all the vowels in the given letter-cluster are removed, which letter will be second from the left end?**

(Left) R A E I S O U A E M C N O U (Right)

Ans
✔ 1. S
✘ 2. M
✘ 3. N
✘ 4. R

Question ID : **630680172159**
Option 1 ID : **630680667072**
Option 2 ID : **630680667073**
Option 3 ID : **630680667075**
Option 4 ID : **630680667074**
Status : **Answered**
Chosen Option : **1**

Q.22 **AFV8 is related to GJX64 in a certain way. In the same way, MKJ6 is related to SOL36. To which of the following is PRO9 related using the same logic?**

Ans
✘ 1. VVR81
✘ 2. WWQ90
✘ 3. VWQ81
✔ 4. VVQ81

Question ID : **63068062325**
Option 1 ID : **630680240547**
Option 2 ID : **630680240549**
Option 3 ID : **630680240548**
Option 4 ID : **630680240546**
Status : **Answered**
Chosen Option : **4**

Q.23 **Which of the following numbers will replace the question mark (?) in the given series?**
42, 44, 49, 51, 56, 58, 63, ?

Ans
✘ 1. 64
✘ 2. 68
✘ 3. 66
✔ 4. 65

Question ID : **630680157531**
Option 1 ID : **630680609654**
Option 2 ID : **630680609652**
Option 3 ID : **630680609655**
Option 4 ID : **630680609653**
Status : **Answered**
Chosen Option : **4**

Website - www.dailyjobalert.in

Q.24 'A # B' means 'A is the brother of B'
'A @ B' means 'A is the daughter of B'
'A & B' means 'A is the husband of B'
'A % B' means 'A is the wife of B'
If 'L & K @ P # Q @ R & M', then how is Q related to K?

Ans
1. Brother's wife
2. Mother's mother
3. Mother
4. Father's sister

Question ID : **630680147854**
Option 1 ID : **630680572132**
Option 2 ID : **630680572133**
Option 3 ID : **630680572130**
Option 4 ID : **630680572131**
Status : **Answered**
Chosen Option : **1**

Q.25 Three of the given options are alike in a certain way and thus form a group. Which is the one that does NOT belong to that group?

Ans
1. HGKB
2. VUYP
3. VUZQ
4. MLPG

Question ID : **63068049954**
Option 1 ID : **630680192139**
Option 2 ID : **630680192140**
Option 3 ID : **630680192141**
Option 4 ID : **630680192138**
Status : **Answered**
Chosen Option : **3**

DAILY JOB Alert

Q.26 The given pie chart depicts the number of people who travelled by a bus on five different days, out of the total number of people (which is 700) who travelled by the bus on the given five days together. Study the chart and answer the question that follows.

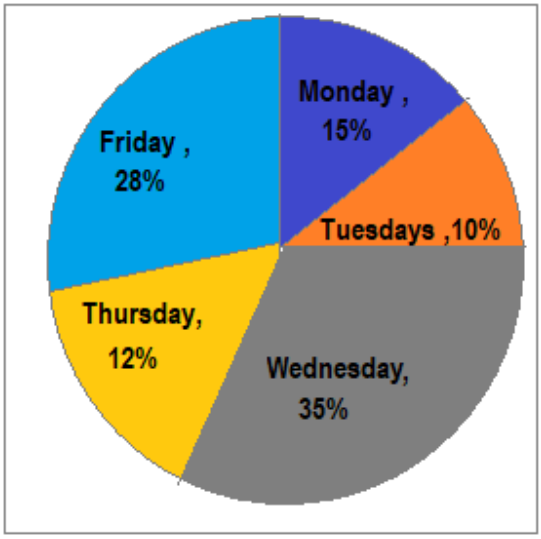

If the average number of people who travelled by the bus on Wednesday, Friday and Saturday was 201, what is the number of people who travelled by bus on Saturday?

Ans
1. 188
2. 172
3. 162
4. 168

Question ID : **630680161804**
Option 1 ID : **630680626546**
Option 2 ID : **630680626544**
Option 3 ID : **630680626547**
Option 4 ID : **630680626545**
Status : **Not Answered**
Chosen Option : **--**

Q.27 Following a certain logic, if 81 is related to 72 and 121 is related to 110, to which of the following is 225 related?

Ans
1. 195
2. 210
3. 215
4. 200

Question ID : **63068057017**
Option 1 ID : **630680219999**
Option 2 ID : **630680220000**
Option 3 ID : **630680219998**
Option 4 ID : **630680220001**
Status : **Answered**
Chosen Option : **3**

Website - www.dailyjobalert.in

Q.28 **What should come in place of the question mark (?) in the given series?**
4, 7, 11, 16, 22, ?

Ans
✗ 1. 28
✓ 2. 29
✗ 3. 32
✗ 4. 30

Question ID : **630680122725**
Option 1 ID : **630680475810**
Option 2 ID : **630680475812**
Option 3 ID : **630680475813**
Option 4 ID : **630680475811**
Status : **Answered**
Chosen Option : **2**

Q.29 **In a code language, 'FETCH' is coded as HCQYF and 'GRAPE' is coded as EPXLG. How will 'JIVED' be coded in the same language?**

Ans
✓ 1. DGSAJ
✗ 2. EHTBK
✗ 3. EGTAK
✗ 4. DHTAJ

Question ID : **630680147843**
Option 1 ID : **630680572086**
Option 2 ID : **630680572087**
Option 3 ID : **630680572089**
Option 4 ID : **630680572088**
Status : **Answered**
Chosen Option : **2**

Q.30 **Dev is 20th from the left end and 21st from the right end in the line of students in the school. How many students should be added in the row, so that there are 50 students in line?**

Ans
✓ 1. 10
✗ 2. 8
✗ 3. 11
✗ 4. 9

Question ID : **630680106170**
Option 1 ID : **630680412581**
Option 2 ID : **630680412579**
Option 3 ID : **630680412582**
Option 4 ID : **630680412580**
Status : **Answered**
Chosen Option : **3**

Website - www.dailyjobalert.in

Q.31 Today is a Sunday. After 96 days, it will be a:

Ans
✗ 1. Saturday
✓ 2. Friday
✗ 3. Wednesday
✗ 4. Thursday

Question ID : **63068083874**
Option 1 ID : **630680325091**
Option 2 ID : **630680325089**
Option 3 ID : **630680325088**
Option 4 ID : **630680325090**
Status : **Answered**
Chosen Option : **3**

Q.32 Four letter-clusters have been given, out of which three are alike in some manner and one is different. Select the one that is different.

Ans
✗ 1. PAK
✗ 2. MAN
✓ 3. MAT
✗ 4. GAT

Question ID : **630680104998**
Option 1 ID : **630680408106**
Option 2 ID : **630680408104**
Option 3 ID : **630680408105**
Option 4 ID : **630680408103**
Status : **Not Answered**
Chosen Option : **--**

Q.33 Following a certain logic, if 10 is related to 144 and 7 is related to 81, to which of the following is 9 related?

Ans
✗ 1. 150
✗ 2. 95
✓ 3. 121
✗ 4. 169

Question ID : **63068057016**
Option 1 ID : **630680219995**
Option 2 ID : **630680219997**
Option 3 ID : **630680219996**
Option 4 ID : **630680219994**
Status : **Answered**
Chosen Option : **3**

Website - www.dailyjobalert.in

Q.34 **UNABLE is related to VMZYOF in a certain way based on the English alphabetical order. In the same way, WEALTH is related to SVZOGD. To which of the following is VICTIM related, following the same logic?**

Ans
✔ 1. NRXGRE
✘ 2. NXRGRE
✘ 3. GRENXR
✘ 4. GNXRER

Question ID : **63068056952**
Option 1 ID : **630680219738**
Option 2 ID : **630680219739**
Option 3 ID : **630680219740**
Option 4 ID : **630680219741**
Status : **Not Answered**
Chosen Option : **--**

Q.35 **A certain number of people are sitting in a row, facing the north. N and M sit at the two ends of the row. H sits to the immediate left of I. M sits third to the right of L. I sits third to the right of K. Only one person is between J and L, while J is at the left side of L. J sits fourth to the right of H. Only two people sit between H and N. If no other person is sitting in the row, then what is the total number of people seated?**

Ans
✘ 1. 12
✘ 2. 14
✔ 3. 13
✘ 4. 11

Question ID : **630680112273**
Option 1 ID : **630680434807**
Option 2 ID : **630680434809**
Option 3 ID : **630680434808**
Option 4 ID : **630680434806**
Status : **Not Answered**
Chosen Option : **--**

Q.36 ‘A * B’ means ‘A is the mother of B’

‘A + B’ means ‘A is the husband of B’

‘A ÷ B’ means ‘A is the son of B’

‘A − B’ means ‘A is the sister of B’

How is T related to Z in the expression ‘K ÷ Q * T − R ÷ Z’?

Ans
✘ 1. Mother’s mother
✘ 2. Mother
✘ 3. Father’s sister
✔ 4. Daughter

Question ID : **630680127366**
Option 1 ID : **630680493734**
Option 2 ID : **630680493733**
Option 3 ID : **630680493732**
Option 4 ID : **630680493735**
Status : **Answered**
Chosen Option : **4**

Website - www.dailyjobalert.in

Comprehension:

Study the below given information and answer the given question.

Eight girls are sitting in two parallel rows containing four girls in each row in such a way that there is equal distance between adjacent girls.
In row 1: L, M, N,O are sitting facing south.
In row 2: U, V,W,X are sitting facing north.
Thus, each girl in the first row faces another girl in the second row.
M sits second to the left of O.
V sits second to the left of X.
L is facing the one who is sitting to the immediate left of V.
N is facing the one who is sitting second to the right of U.
X is facing the one who is sitting third to the left of L.

SubQuestion No : 37

Q.37 Which pair among the following sits at the extreme end positions of the row?

Ans
✗ 1. (M, O)
✓ 2. (U, X)
✗ 3. (L, N)
✗ 4. (U, W)

Question ID : **630680131428**
Option 1 ID : **630680508965**
Option 2 ID : **630680508963**
Option 3 ID : **630680508962**
Option 4 ID : **630680508964**
Status : **Not Answered**
Chosen Option : **--**

Comprehension:

Study the below given information and answer the given question.

Eight girls are sitting in two parallel rows containing four girls in each row in such a way that there is equal distance between adjacent girls.
In row 1: L, M, N,O are sitting facing south.
In row 2: U, V,W,X are sitting facing north.
Thus, each girl in the first row faces another girl in the second row.
M sits second to the left of O.
V sits second to the left of X.
L is facing the one who is sitting to the immediate left of V.
N is facing the one who is sitting second to the right of U.
X is facing the one who is sitting third to the left of L.

SubQuestion No : 38

Q.38 Who among the following faces W?

Ans
✓ 1. N
✗ 2. O
✗ 3. L
✗ 4. M

Question ID : **630680131429**
Option 1 ID : **630680508966**
Option 2 ID : **630680508969**
Option 3 ID : **630680508968**
Option 4 ID : **630680508967**
Status : **Not Answered**
Chosen Option : **--**

Website - www.dailyjobalert.in

Comprehension:

Read the given passage and answer the questions that follow.
Seven friends, K, L, M, N, O, P and Q go for the school picnic on a different day of a week starting from Monday and ending on Sunday of the same week. Q goes on Tuesday. Exactly one friend goes between O and P. O goes on one of the days before P and after Q. L goes exactly after Q. P and K do not go for their picnics on Sunday. K goes on one of the days after L. N goes before Q.

SubQuestion No : 39

Q.39 On which day does K go for picnic?

Ans
✗ 1. Saturday
✓ 2. Friday
✗ 3. Monday
✗ 4. Thursday

Question ID : **63068071486**
Option 1 ID : **630680276488**
Option 2 ID : **630680276487**
Option 3 ID : **630680276489**
Option 4 ID : **630680276486**
Status : **Answered**
Chosen Option : **1**

Comprehension:

Read the given passage and answer the questions that follow.
Seven friends, K, L, M, N, O, P and Q go for the school picnic on a different day of a week starting from Monday and ending on Sunday of the same week. Q goes on Tuesday. Exactly one friend goes between O and P. O goes on one of the days before P and after Q. L goes exactly after Q. P and K do not go for their picnics on Sunday. K goes on one of the days after L. N goes before Q.

SubQuestion No : 40

Q.40 How many friends go for the picnic before O?

Ans
✗ 1. 5
✗ 2. 2
✓ 3. 3
✗ 4. 4

Question ID : **63068071487**
Option 1 ID : **630680276491**
Option 2 ID : **630680276493**
Option 3 ID : **630680276492**
Option 4 ID : **630680276490**
Status : **Answered**
Chosen Option : **3**

Website - www.dailyjobalert.in

Comprehension:

Study the given diagram carefully and answer the questions that follows. The numbers in each section indicate the number of persons.

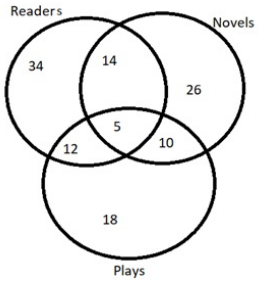

SubQuestion No : 41

Q.41 How many Readers read both Novels and Plays?

Ans

✔ 1. 5

✘ 2. 10

✘ 3. 14

✘ 4. 12

Question ID : **63068082647**
Option 1 ID : **630680320547**
Option 2 ID : **630680320546**
Option 3 ID : **630680320544**
Option 4 ID : **630680320545**
Status : **Answered**
Chosen Option : **2**

Comprehension:

Study the given diagram carefully and answer the questions that follows. The numbers in each section indicate the number of persons.

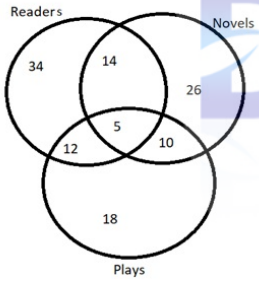

SubQuestion No : 42

Q.42 How many Plays are also Novels but NOT read by Readers?

Ans

✘ 1. 18

✔ 2. 10

✘ 3. 54

✘ 4. 29

Question ID : **63068082648**
Option 1 ID : **630680320550**
Option 2 ID : **630680320549**
Option 3 ID : **630680320548**
Option 4 ID : **630680320551**
Status : **Answered**
Chosen Option : **3**

Website - www.dailyjobalert.in

Comprehension:

In a certain code language, 'I will go' is coded as 'par dag ras', 'Will it rain' is coded as 'aem don par' and 'She shall go' is coded as 'ras kar jog'.

SubQuestion No : 43

Q.43 How will 'I' be coded in that language?

Ans
✔ 1. dag
✘ 2. don
✘ 3. ras
✘ 4. par

Question ID : **63068060506**
Option 1 ID : **630680233540**
Option 2 ID : **630680233541**
Option 3 ID : **630680233538**
Option 4 ID : **630680233539**
Status : **Answered**
Chosen Option : **4**

Comprehension:

In a certain code language, 'I will go' is coded as 'par dag ras', 'Will it rain' is coded as 'aem don par' and 'She shall go' is coded as 'ras kar jog'.

SubQuestion No : 44

Q.44 Which of the following can be the code for 'rain'?
(a)par (b) don (c) aem (d) kar (e) dag

Ans
✘ 1. (d)
✘ 2. (a)
✔ 3. (b) or (c)
✘ 4. (e)

Question ID : **63068060507**
Option 1 ID : **630680233544**
Option 2 ID : **630680233543**
Option 3 ID : **630680233542**
Option 4 ID : **630680233545**
Status : **Answered**
Chosen Option : **2**

DAILY JOB Alert

Comprehension:

The given table shows the production of different electronic gadgets (in hundreds) by 5 companies (A, B, C, D, and E). Study the table and answer the following questions.

Company	GADGETS				
	Mobile	TV	Refrigerator	Smart Watch	Washing Machine
A	240	155	90	290	80
B	255	100	70	185	65
C	125	95	65	150	70
D	175	60	85	120	55
E	270	110	95	300	95

SubQuestion No : 45

Q.45 The production of mobiles by company B is approximately what percentage more than the production of mobiles by company D?

Ans

✗ 1. 52%

✗ 2. 44%

✓ 3. 46%

✗ 4. 50%

Question ID : **630680110437**
Option 1 ID : **630680428009**
Option 2 ID : **630680428007**
Option 3 ID : **630680428008**
Option 4 ID : **630680428010**
Status : **Not Answered**
Chosen Option : **--**

Comprehension:

The given table shows the production of different electronic gadgets (in hundreds) by 5 companies (A, B, C, D, and E). Study the table and answer the following questions.

Company	GADGETS				
	Mobile	TV	Refrigerator	Smart Watch	Washing Machine
A	240	155	90	290	80
B	255	100	70	185	65
C	125	95	65	150	70
D	175	60	85	120	55
E	270	110	95	300	95

SubQuestion No : 46

Q.46 Which of the following companies produced the maximum number of electronic gadgets?

Ans

✓ 1. E

✗ 2. A

✗ 3. D

✗ 4. C

Question ID : **630680110438**
Option 1 ID : **630680428014**
Option 2 ID : **630680428011**
Option 3 ID : **630680428013**
Option 4 ID : **630680428012**
Status : **Answered**
Chosen Option : **1**

Website - www.dailyjobalert.in

Comprehension:

The following pie chart shows the percentage distribution of the preference of fabric of 45,000 people. Study the pie chart carefully and answer the following question.

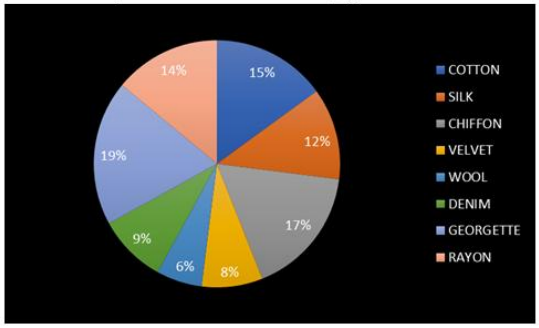

SubQuestion No : 47

Q.47 How many more people prefer Rayon, Silk and Chiffon than the number of people who prefer Velvet, Wool and Denim?

Ans

✗ 1. 7500

✗ 2. 11200

✓ 3. 9000

✗ 4. 10500

Question ID : **63068082728**
Option 1 ID : **630680320808**
Option 2 ID : **630680320810**
Option 3 ID : **630680320809**
Option 4 ID : **630680320811**
Status : **Not Answered**
Chosen Option : **--**

Comprehension:

The following pie chart shows the percentage distribution of the preference of fabric of 45,000 people. Study the pie chart carefully and answer the following question.

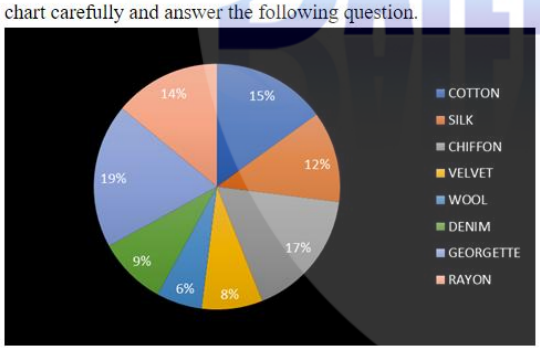

SubQuestion No : 48

Q.48 If 20% of the people who prefer Cotton switch to Georgette, then what will be the new percentage of people who prefer Georgette?

Ans

✗ 1. 35%

✓ 2. 22%

✗ 3. 25%

✗ 4. 39%

Question ID : **63068082727**
Option 1 ID : **630680320804**
Option 2 ID : **630680320806**
Option 3 ID : **630680320807**
Option 4 ID : **630680320805**
Status : **Not Answered**
Chosen Option : **--**

Website - www.dailyjobalert.in

Comprehension:

Read the given passage and answer the questions that follow.

In the State of Himachal Pradesh, Span Motel, owned by the family members of Shri Kamal Nath, Minister for Environment and Forests, Government of India, diverted the course of river Beas to beautify the motel and also encroached upon some forest land. The apex court ordered the management of Span Motel to hand over forest land to the Government of Himachal Pradesh and remove all sorts of encroachments. The Court delivered a land mark judgment and established principle of exemplary damages for the first time in India. The Court said that polluter must pay to reverse the damage caused by his act and imposed a fine of Rupees Ten Lakhs (₹10,00,000) on Span Motel as exemplary damages. The Supreme Court of India recognised Polluter Pays Principle and Public Trust Doctrine.

SubQuestion No : 49

Q.49 What was the order of the court?

Ans

✔ 1. To remove all encroachments

✘ 2. To remove the Minister

✘ 3. To demolish the motel

✘ 4. To restore the damage to river

Question ID : **630680248122**
Option 1 ID : **630680962681**
Option 2 ID : **630680962682**
Option 3 ID : **630680962679**
Option 4 ID : **630680962680**
Status : **Answered**
Chosen Option : **1**

Comprehension:

Read the given passage and answer the questions that follow.

In the State of Himachal Pradesh, Span Motel, owned by the family members of Shri Kamal Nath, Minister for Environment and Forests, Government of India, diverted the course of river Beas to beautify the motel and also encroached upon some forest land. The apex court ordered the management of Span Motel to hand over forest land to the Government of Himachal Pradesh and remove all sorts of encroachments. The Court delivered a land mark judgment and established principle of exemplary damages for the first time in India. The Court said that polluter must pay to reverse the damage caused by his act and imposed a fine of Rupees Ten Lakhs (₹10,00,000) on Span Motel as exemplary damages. The Supreme Court of India recognised Polluter Pays Principle and Public Trust Doctrine.

SubQuestion No : 50

Q.50 The Polluter Pay principle was recognised by, which of the following?

Ans

✘ 1. High court of Delhi

✘ 2. High Court of Himachal Pradesh

✔ 3. Supreme court of India

✘ 4. Supreme court of USA

Question ID : **630680248123**
Option 1 ID : **630680962684**
Option 2 ID : **630680962683**
Option 3 ID : **630680962686**
Option 4 ID : **630680962685**
Status : **Answered**
Chosen Option : **3**

Section : **Digital Literacy and Computer Awareness**

Website - www.dailyjobalert.in

Q.51 **In MS-PowerPoint 2019, a/an _____ is a pattern or blueprint of a slide or group of slides that you save as a .potx file.**

Ans
✔ 1. template
✘ 2. layout
✘ 3. icon
✘ 4. design

Question ID : **630680247811**
Option 1 ID : **630680961454**
Option 2 ID : **630680961452**
Option 3 ID : **630680961451**
Option 4 ID : **630680961453**
Status : **Answered**
Chosen Option : **1**

Q.52 Match the points under the column 'Generation of Computers' with those under the column 'Hardware or Technology Used'.

Generation of Computers	Hardware or Technology Used
I) First generation	A) Transistors
II) Second generation	B) Integrated circuits
III) Third generation	C) Vacuum tubes
IV) Fifth generation	D) Artificial Intelligence

Ans
✔ 1. I) – C), II) – A), III) – B), IV) – D)
✘ 2. I) – D), II) – C), III) – A), IV – B)
✘ 3. I) – D), II) – A), III) – C), IV) – B)
✘ 4. I) – B), II) – C), III) – A), IV) – D)

Question ID : **630680247798**
Option 1 ID : **630680961399**
Option 2 ID : **630680961400**
Option 3 ID : **630680961401**
Option 4 ID : **630680961402**
Status : **Answered**
Chosen Option : **1**

Q.53 **Which of the following statements is/are FALSE?**

(i) A modem is a device that connects a computer to the internet.
(ii) 'Cc' and 'Bcc' are mutually exclusive when used in emails simultaneously.

Ans
✔ 1. Only (ii)
✘ 2. Both (i) and (ii)
✘ 3. Only (i)
✘ 4. Neither (i) nor (ii)

Question ID : **630680247812**
Option 1 ID : **630680961456**
Option 2 ID : **630680961457**
Option 3 ID : **630680961455**
Option 4 ID : **630680961458**
Status : **Answered**
Chosen Option : **2**

Website - www.dailyjobalert.in

Q.54 What does the Taskbar in Windows 10 do?

Ans
✗ 1. It shows you only those programs that you used the last two times you were on the computer.
✓ 2. It shows you all the programs you have currently opened.
✗ 3. It shows you only those programs that you have installed on the computer.
✗ 4. It shows you every program you have ever used on the computer.

Question ID : **630680247802**
Option 1 ID : **630680961416**
Option 2 ID : **630680961415**
Option 3 ID : **630680961418**
Option 4 ID : **630680961417**
Status : **Answered**
Chosen Option : **2**

Q.55 Which of the following options refers to a huge database of internet resources, such as web pages, newsgroups, programs, images, etc., which helps locate information on the World Wide Web?

Ans
✗ 1. Web page
✓ 2. Search engine
✗ 3. Website
✗ 4. Web server

Question ID : **630680247816**
Option 1 ID : **630680961473**
Option 2 ID : **630680961472**
Option 3 ID : **630680961471**
Option 4 ID : **630680961474**
Status : **Answered**
Chosen Option : **3**

Q.56 Through which of the following is a search engine accessed?

Ans
✗ 1. Web server
✗ 2. Web page
✗ 3. Website
✓ 4. Web browser

Question ID : **630680247814**
Option 1 ID : **630680961466**
Option 2 ID : **630680961465**
Option 3 ID : **630680961463**
Option 4 ID : **630680961464**
Status : **Answered**
Chosen Option : **4**

Website - www.dailyjobalert.in

Q.57 Who among the following is NOT a founder of Twitter?

Ans
✗ 1. Noah Glass
✓ 2. Sergey Brin
✗ 3. Evan Williams
✗ 4. Biz Stone

Question ID : **630680247818**
Option 1 ID : **630680961482**
Option 2 ID : **630680961481**
Option 3 ID : **630680961479**
Option 4 ID : **630680961480**
Status : **Answered**
Chosen Option : **3**

Q.58 Which of the following statements is/are FALSE regarding MS-Excel 2010?

(i) By default, a cell reference is a relative reference.
(ii) Relative references change when a formula is copied to another cell.

Ans
✗ 1. Both (i) and (ii)
✗ 2. Only (ii)
✗ 3. Only (i)
✓ 4. Neither (i) nor (ii)

Question ID : **630680247807**
Option 1 ID : **630680961437**
Option 2 ID : **630680961436**
Option 3 ID : **630680961435**
Option 4 ID : **630680961438**
Status : **Answered**
Chosen Option : **4**

Q.59 In MS-Word 2010, _____ option is used to create a large capital letter at the beginning of a paragraph.

Ans
✓ 1. Drop Cap
✗ 2. Smart Art
✗ 3. Chart
✗ 4. Header

Question ID : **630680247804**
Option 1 ID : **630680961426**
Option 2 ID : **630680961424**
Option 3 ID : **630680961425**
Option 4 ID : **630680961423**
Status : **Answered**
Chosen Option : **2**

Website - www.dailyjobalert.in

Q.60 Which of the following is an icon of Google Cloud Platform?

Ans

✗ 1.

✗ 2.

✗ 3.

✓ 4.

Question ID : **630680247822**
Option 1 ID : **630680961496**
Option 2 ID : **630680961498**
Option 3 ID : **630680961497**
Option 4 ID : **630680961495**
Status : **Answered**
Chosen Option : **3**

Q.61 The process of starting the computer is known as _____.

Ans

✗ 1. controlling

✓ 2. booting

✗ 3. loading

✗ 4. linking

Question ID : **630680247800**
Option 1 ID : **630680961410**
Option 2 ID : **630680961408**
Option 3 ID : **630680961407**
Option 4 ID : **630680961409**
Status : **Answered**
Chosen Option : **3**

Q.62 To set your time and time zone in Windows 10, go to Start -> Settings -> Time & Language -> _____.

Ans

✓ 1. Date & Time

✗ 2. Day & Time

✗ 3. Day & Date

✗ 4. Time & Date

Question ID : **630680247801**
Option 1 ID : **630680961411**
Option 2 ID : **630680961413**
Option 3 ID : **630680961414**
Option 4 ID : **630680961412**
Status : **Answered**
Chosen Option : **2**

Website - www.dailyjobalert.in

Q.63 The full form of 'ENIAC' is _____.

Ans
1. Electronic Number Integration And Calculation
2. Electrical Numerical Integrator Advance Calculator
3. Electronic Numerical Integrator And Computer
4. Electronic Number Integration Advance Calculation

Question ID : **630680247797**
Option 1 ID : **630680961395**
Option 2 ID : **630680961397**
Option 3 ID : **630680961396**
Option 4 ID : **630680961398**
Status : **Answered**
Chosen Option : **3**

Q.64 Which of the following keyboard shortcuts can be used to show or hide the Bookmarks bar in Google Chrome?

Ans
1. Ctrl+Shift+B
2. Ctrl+Shift+K
3. Alt+Ctrl+B
4. Ctrl+B

Question ID : **630680247815**
Option 1 ID : **630680961469**
Option 2 ID : **630680961470**
Option 3 ID : **630680961468**
Option 4 ID : **630680961467**
Status : **Not Answered**
Chosen Option : **--**

Q.65 In cryptography, the encrypted data is referred to as _____.

Ans
1. decryption
2. plain text
3. encryption
4. ciphertext

Question ID : **630680247826**
Option 1 ID : **630680961511**
Option 2 ID : **630680961513**
Option 3 ID : **630680961512**
Option 4 ID : **630680961514**
Status : **Answered**
Chosen Option : **3**

Q.66 Data _____ is a way of translating the data from plaintext into ciphertext.

Ans
1. acceptance
2. decryption
3. encryption
4. retention

Question ID : **630680247824**
Option 1 ID : **630680961506**
Option 2 ID : **630680961504**
Option 3 ID : **630680961503**
Option 4 ID : **630680961505**
Status : **Answered**
Chosen Option : **3**

Website - www.dailyjobalert.in

Q.67 Which of the following is NOT an advantage of VoIP?

Ans
✗ 1. Increased accessibility
✓ 2. Requirement for an internet connection
✗ 3. Support to multitasking
✗ 4. Higher scalability

Question ID : **630680247821**
Option 1 ID : **630680961491**
Option 2 ID : **630680961493**
Option 3 ID : **630680961494**
Option 4 ID : **630680961492**
Status : **Answered**
Chosen Option : **3**

Q.68 In the _____ encryption, the same key is used for encryption and decryption.

Ans
✗ 1. asymmetric
✗ 2. actual
✓ 3. symmetric
✗ 4. systematic

Question ID : **630680247825**
Option 1 ID : **630680961510**
Option 2 ID : **630680961509**
Option 3 ID : **630680961507**
Option 4 ID : **630680961508**
Status : **Answered**
Chosen Option : **4**

Q.69 Facebook was developed by _____.

Ans
✗ 1. Blaise Pascal
✗ 2. Evan Williams
✗ 3. John Napier
✓ 4. Mark Zuckerberg

Question ID : **630680247819**
Option 1 ID : **630680961485**
Option 2 ID : **630680961486**
Option 3 ID : **630680961484**
Option 4 ID : **630680961483**
Status : **Answered**
Chosen Option : **4**

Q.70 Which of the following keyboard shortcuts is used to centre align the text in MS-Word 2010?

Ans
✗ 1. Ctrl+W
✗ 2. Ctrl+C
✗ 3. Ctrl+A
✓ 4. Ctrl+E

Question ID : **630680247803**
Option 1 ID : **630680961422**
Option 2 ID : **630680961421**
Option 3 ID : **630680961419**
Option 4 ID : **630680961420**
Status : **Answered**
Chosen Option : **1**

Website - www.dailyjobalert.in

Q.71 Which of the following function keys is used to start the Slide Show in MS-PowerPoint 2010?

Ans
- ✗ 1. F7
- ✗ 2. F6
- ✓ 3. F5
- ✗ 4. F4

Question ID : **630680247809**
Option 1 ID : **630680961446**
Option 2 ID : **630680961445**
Option 3 ID : **630680961444**
Option 4 ID : **630680961443**
Status : **Answered**
Chosen Option : **1**

Q.72 _____ is a technology that allows you to make voice calls by using a broadband internet connection instead of a regular (or analogue) phone line.

Ans
- ✓ 1. Voice over Internet Protocol (VoIP)
- ✗ 2. Domain Name Server (DNS)
- ✗ 3. Transmission Control Protocol (TCP)
- ✗ 4. Network Interface Card (NIC)

Question ID : **630680247820**
Option 1 ID : **630680961487**
Option 2 ID : **630680961488**
Option 3 ID : **630680961489**
Option 4 ID : **630680961490**
Status : **Answered**
Chosen Option : **1**

Q.73 Which of the following is the icon of WhatsApp?

Ans
- ✗ 1.
- ✗ 2.
- ✓ 3.
- ✗ 4.

Question ID : **630680247817**
Option 1 ID : **630680961478**
Option 2 ID : **630680961477**
Option 3 ID : **630680961475**
Option 4 ID : **630680961476**
Status : **Answered**
Chosen Option : **3**

Website - www.dailyjobalert.in

Q.74 Identify whether the given statements related to MS-Word 2010 are true or false.

(i)If the number of rows and columns required for a table is known, then the fastest way to create the table is by dragging over the grid in the Table menu.
(ii)The 'Merge Cells' option is used to combine two or more, or all adjacent cells into one cell.

Ans
✗ 1. (i) False (ii) True
✓ 2. (i) True (ii) True
✗ 3. (i) True (ii) False
✗ 4. (i) False (ii) False

Question ID : **630680247805**
Option 1 ID : **630680961429**
Option 2 ID : **630680961427**
Option 3 ID : **630680961428**
Option 4 ID : **630680961430**
Status : **Answered**
Chosen Option : **2**

Q.75 What will be the output of the function cell =N("Hello") in MS-Excel 2010?

Ans
✗ 1. 1
✗ 2. Hello
✓ 3. 0
✗ 4. 5

Question ID : **630680247808**
Option 1 ID : **630680961441**
Option 2 ID : **630680961439**
Option 3 ID : **630680961440**
Option 4 ID : **630680961442**
Status : **Not Answered**
Chosen Option : **--**

Q.76 Which of the following is a collection of websites or web pages stored in web servers and connected to local computers through the Internet?

Ans
✗ 1. Hypertext
✓ 2. World Wide Web (WWW)
✗ 3. Hyperlink
✗ 4. Web browser

Question ID : **630680247813**
Option 1 ID : **630680961461**
Option 2 ID : **630680961459**
Option 3 ID : **630680961460**
Option 4 ID : **630680961462**
Status : **Answered**
Chosen Option : **2**

DAILY JOB Alert

Q.77 Which of the following is NOT a cloud service provider company?

Ans
✔ 1. Virtual Cloud Service
✘ 2. Microsoft Azure
✘ 3. Amazon Web Services
✘ 4. Google Cloud Platform

Question ID : **630680247823**
Option 1 ID : **630680961502**
Option 2 ID : **630680961500**
Option 3 ID : **630680961499**
Option 4 ID : **630680961501**
Status : **Answered**
Chosen Option : **2**

Q.78 Which of the following keyboard shortcuts is used to close a workbook in MS-Excel 2010?

Ans
✔ 1. Ctrl+W
✘ 2. Ctrl+X
✘ 3. Ctrl+Y
✘ 4. Ctrl+Z

Question ID : **630680247806**
Option 1 ID : **630680961431**
Option 2 ID : **630680961432**
Option 3 ID : **630680961433**
Option 4 ID : **630680961434**
Status : **Answered**
Chosen Option : **1**

Q.79 In MS-PowerPoint 2010, the keyboard shortcut used to expand or collapse the ribbon is _____.

Ans
✘ 1. Ctrl+F2
✔ 2. Ctrl+F1
✘ 3. Ctrl+F4
✘ 4. Ctrl+F3

Question ID : **630680247810**
Option 1 ID : **630680961448**
Option 2 ID : **630680961447**
Option 3 ID : **630680961450**
Option 4 ID : **630680961449**
Status : **Not Answered**
Chosen Option : **--**

Website - www.dailyjobalert.in

Q.80 Which of the following technologies in the fifth generation results in the production of microprocessor chips with ten million electronic components?

Ans
✗ 1. Ultimate large-scale integration
✗ 2. Very large-scale integration
✗ 3. Large-scale integration
✓ 4. Ultra-large-scale integration

Question ID : **630680247799**
Option 1 ID : **630680961406**
Option 2 ID : **630680961404**
Option 3 ID : **630680961403**
Option 4 ID : **630680961405**
Status : **Answered**
Chosen Option : **4**

Section : **English Language**

Q.81 Identity the spelling error in the given sentence.

Practically and rationally speaking, he is in possession of huge wealth.

Ans
✗ 1. rationally
✗ 2. practically
✓ 3. posession
✗ 4. wealth

Question ID : **63068087422**
Option 1 ID : **630680339074**
Option 2 ID : **630680339073**
Option 3 ID : **630680339075**
Option 4 ID : **630680339076**
Status : **Answered**
Chosen Option : **3**

Q.82 "ਲੋੜ ਪੈਣ 'ਤੇ ਮੈਂ ਹਰ ਕੰਮ ਕਰ ਸਕਦੀ ਹਾਂ।" ਇਸ ਵਾਕ ਦਾ ਅੰਗਰੇਜ਼ੀ ਅਨੁਵਾਦ ਹੈ:-

Ans
✗ 1. I could do anything on demand.
✓ 2. I can do anything when needed.
✗ 3. I will not do anything if there is any requirement.
✗ 4. I will fulfill the requirement when needed.

Question ID : **630680248100**
Option 1 ID : **630680962610**
Option 2 ID : **630680962608**
Option 3 ID : **630680962607**
Option 4 ID : **630680962609**
Status : **Answered**
Chosen Option : **2**

Website - www.dailyjobalert.in

Q.83 Identify the adjective in the given sentence.
I don't like that boy.

Ans
✗ 1. Like
✓ 2. That
✗ 3. Don't
✗ 4. Boy

Question ID : **630680167239**
Option 1 ID : **630680647729**
Option 2 ID : **630680647730**
Option 3 ID : **630680647728**
Option 4 ID : **630680647731**
Status : **Answered**
Chosen Option : **1**

Q.84 Select the option that can be used as a one-word substitute for the given group of words.

One who cannot die.

Ans
✗ 1. Mortal
✗ 2. Obsolete
✗ 3. Transient
✓ 4. Immortal

Question ID : **630680129690**
Option 1 ID : **630680502366**
Option 2 ID : **630680502369**
Option 3 ID : **630680502368**
Option 4 ID : **630680502367**
Status : **Answered**
Chosen Option : **1**

Q.85 Select the word that means the OPPOSITE of the given word.
Obdurate

Ans
✗ 1. Treacherous
✓ 2. Sympathetic
✗ 3. Dramatic
✗ 4. Obstinate

Question ID : **630680162041**
Option 1 ID : **630680627475**
Option 2 ID : **630680627472**
Option 3 ID : **630680627474**
Option 4 ID : **630680627473**
Status : **Not Answered**
Chosen Option : **--**

Website - www.dailyjobalert.in

Q.86 Complete the following sentence.

The findings of this study are too general in nature. We need more_____ information on the matter.

Ans

✔ 1. The findings of this study are too general in nature. We need more detailed information on the matter.

✘ 2. The findings of this study are too general in nature. We need more thorough information on the matter.

✘ 3. The findings of this study are too general in nature. We need more deep information on the matter.

✘ 4. The findings of this study are too general in nature. We need more profound information on the matter.

Question ID : **630680110282**
Option 1 ID : **630680427486**
Option 2 ID : **630680427485**
Option 3 ID : **630680427484**
Option 4 ID : **630680427483**
Status : **Answered**
Chosen Option : **3**

Q.87 Select the sentence with the most appropriate use of preposition.

Ans

✘ 1. He took the bus that was going by Bombay.

✘ 2. He took the bus that was going inside Bombay.

✘ 3. He took the bus that was going for Bombay.

✔ 4. He took the bus that was going towards Bombay.

Question ID : **630680132480**
Option 1 ID : **630680513056**
Option 2 ID : **630680513057**
Option 3 ID : **630680513055**
Option 4 ID : **630680513054**
Status : **Answered**
Chosen Option : **3**

Q.88 Select the option that correctly rearranges the given set of disarranged fragments into a logical and meaningful sentence.
pollution / that limit / the amount and / are allowed to use / types of chemicals, governments / can combat / by passing laws / factories and / agribusinesses

Ans

✔ 1. Governments can combat pollution by passing laws that limit the amount and types of chemicals, factories and agribusinesses are allowed to use.

✘ 2. Pollution can combat by passing laws that limit the amount and agribusinesses governments are allowed to use and types of chemicals, factories.

✘ 3. Governments can combat limit the amount and types of chemicals, factories and agribusinesses that are allowed to use pollution by passing laws.

✘ 4. Pollution can combat by passing laws that limit the amount and types of chemicals, factories and agribusinesses governments are allowed to use.

Question ID : **630680113798**
Option 1 ID : **630680440721**
Option 2 ID : **630680440718**
Option 3 ID : **630680440720**
Option 4 ID : **630680440719**
Status : **Answered**
Chosen Option : **1**

Website - www.dailyjobalert.in

Q.89 Select the most appropriate ANTONYM of the capitalised word in the given sentence.

Africa is known for its DENSE jungles.

Ans
✗ 1. Fair
✓ 2. Airy
✗ 3. Tight
✗ 4. Clear

Question ID : **630680132332**
Option 1 ID : **630680512496**
Option 2 ID : **630680512497**
Option 3 ID : **630680512494**
Option 4 ID : **630680512495**
Status : **Answered**
Chosen Option : **4**

Q.90 Select the most appropriate option to fill in the blank.

_____ water in that jug is not suitable for drinking.

Ans
✗ 1. A
✓ 2. The
✗ 3. An
✗ 4. No article required

Question ID : **63068069009**
Option 1 ID : **630680266726**
Option 2 ID : **630680266728**
Option 3 ID : **630680266727**
Option 4 ID : **630680266729**
Status : **Answered**
Chosen Option : **4**

Q.91 Select the option that correctly rearranges the given set of disarranged fragments into a logical and meaningful sentence.
to evaluate / the study of history / to understand how /affects the present / and influences our future, / past human action / and it allows us / these effects / enables us

Ans
✓ 1. The study of history enables us to understand how past human action affects the present and influences our future, and it allows us to evaluate these effects.
✗ 2. The study of history affects the present and influences our future, it allows us and enables us to understand how past human action evaluate to these effects.
✗ 3. The study of history allows us to evaluate how past human action affects the present and influences our future, and it enables us to understand these effects.
✗ 4. Human action affects the present and influences our future, the study of history enables us to understand how past and it allows us to evaluate these effects.

Question ID : **630680113800**
Option 1 ID : **630680440727**
Option 2 ID : **630680440726**
Option 3 ID : **630680440729**
Option 4 ID : **630680440728**
Status : **Answered**
Chosen Option : **3**

DAILY JOB Alert ਪੰਜਾਬ

Q.92 **In the following sentence has some error. Identify the error and select the correct sentence from the options.**
The protestors blocked the college's gate as they stand there and not allowed entry to the college.

Ans
✗ 1. The protestors had blocked the college's gate as they stood there and did not allow entry to the college.

✗ 2. The college's gate has been blocked by the protestors as they stand there and are not allowing entry to the college.

✓ 3. The protestors blocked the college's gate as they stood there and did not allow entry to the college.

✗ 4. The protestors have blocked the college's gate as they stand there and were not allowing entry to the college.

Question ID : **630680166605**
Option 1 ID : **630680645335**
Option 2 ID : **630680645332**
Option 3 ID : **630680645333**
Option 4 ID : **630680645334**
Status : **Answered**
Chosen Option : **3**

Q.93 **Select the most appropriate ANTONYM of the underlined word.**

Those trousers make you look very <u>slender</u>.

Ans
✓ 1. Chunky

✗ 2. Lean

✗ 3. Svelte

✗ 4. Lithe

Question ID : **630680123979**
Option 1 ID : **630680480774**
Option 2 ID : **630680480776**
Option 3 ID : **630680480777**
Option 4 ID : **630680480775**
Status : **Answered**
Chosen Option : **2**

Q.94 **Select the most appropriate ANTONYM of the underlined word in the following sentence.'**
Despite <u>inclement</u> weather, the protesters continued to shout slogans on the roads.

Ans
✗ 1. Stormy

✓ 2. Pleasant

✗ 3. Dormant

✗ 4. Dry

Question ID : **630680166621**
Option 1 ID : **630680645398**
Option 2 ID : **630680645396**
Option 3 ID : **630680645397**
Option 4 ID : **630680645399**
Status : **Not Answered**
Chosen Option : **--**

Website - www.dailyjobalert.in

Q.95 Select the option that can be used as a one-word substitute for the given group of words.

A woman whose husband is dead.

Ans

✗ 1. Maiden

✓ 2. Widow

✗ 3. Spinster

✗ 4. Bachelor

Question ID : **630680129691**
Option 1 ID : **630680502371**
Option 2 ID : **630680502373**
Option 3 ID : **630680502370**
Option 4 ID : **630680502372**
Status : **Answered**
Chosen Option : **2**

DAILY JOB Alert ਪੰਜਾਬ

Comprehension:

Read the given passage and answer the questions that follow.

On 14 June, Prime Minister Narendra Modi issued a directive authorising the hiring of 10 lakh individuals in 'mission mode' during the ensuing 1.5 years in various government agencies and ministries. The government's hiring of 10 lakh people will not only help it reach its stated goals but also accelerate the process of creating an Atmanirbhar Bharat. The statement is a continuation of the PM Modi administration's efforts to maximise India's potential and turn it into a worldwide powerhouse.

The administration has tried to increase employment prospects in both the formal and informal sectors over the past eight years. To maximise the potential of the working population, programmes like MUDRA Yojana, Svanidhi Yojana, Garib Kalyan Rozgar Abhiyaan, and MGNREGA 2.0 have been implemented.

The government opted to address the long-standing demand for labour reforms even while employment possibilities have been generated on one side to maintain India's growth pace and efforts are being made on the other hand to ensure the growth is human-centric. Due to the fact that many States have implemented significant legislative and administrative changes in their own labour and industrial relations arenas, the topic of India's labour market reforms has gained fresh vigour and significance. Since it is commonly believed that India's labour regulatory framework has been inflexible and has impeded the growth of output, investment, and employment expansion, the goals of these reforms, as envisioned by PM Modi, have been to gradually deregulate the labour market.

Some of the legislative reforms carried out by a few States in recent years include raising the threshold of workers under the Industrial Disputes Act of 1947 from 100 to 300; increasing the number of workers under the Factories Act of 1948 from 10 to 20 (with power) and from 20 to 40 (without power); increasing the number of workers under the Contract Labour (Regulation and Abolition) Act of 1970 from 20 to 50, and introducing Fixed Term Employment (as is widely practised in many developed and emerging economies)

In a similar vein, some States have also implemented single-window clearance, self-certification of compliance by businesses, online filing for Registration and Returns, transparent inspection systems, etc. to reduce administrative restrictions and delays. The subject of labour reform initiatives has frequently been discussed, particularly legislative initiatives that support flexibility. The scholars who are in favour of the revisions claim that the current labour laws are complicated and onerous, and prevent businesses from successfully operating in a cutthroat commercial market.

The Economic Survey (2018-19), which examined the effects of Rajasthan's labour reforms, revealed higher growth rates for the number of factories employing more than 100 workers, the average number of workers per factory, total output and output per factory, total wages and wages per factory, and compound annual growth rate (CAGR) in the post-reform period compared to the pre-reform years. However, some people criticize the methodology, conclusions, and results of such research as well as the effectiveness of the labour reforms.

The deregulation of labour markets has had a positive impact on overall growth and employment, according to a recent study by the VV Giri National Labour Institute. The study, which was based on secondary household datasets from NSSO-EUS and PLFS and an annual enterprise survey from ASI, sought to understand the impact of labour reforms implemented by some States on economic and labour market parameters. The following are some of the major conclusions.

The traditional agricultural and allied sector has seen a shift in employment patterns to the more lucrative services sector, which includes construction. Along with increasing firm efficiency and competitiveness, this has important implications for raising the wages and income of the workforce through formalisation. In organised manufacturing, employment expanded by one million more during the pre-reform period (between 2010–11 and 2014–15) than it did during the post–reform period (between 2014–15 and 2017–18).

In the organised manufacturing sector, the typical plant size has grown over time. The rise in employment at plants with 300 or more employees between 2010–11 and 2017–18 exceeded the national average of 5.2% in various States, including Rajasthan, Tamil Nadu, and Andhra Pradesh. In all States, as of 2017–18, plants with 300 or more employees accounted for more than 50% of manufacturing employment. This shows that the businesses are working toward reaching economies of scale, which will increase the competitiveness of the businesses and products. Following the reforms, several States, like Rajasthan, Tamil Nadu, and Andhra Pradesh, attracted a sizable number of new businesses and several other states tried to find similar solutions like Meghalaya, Karnataka, and Arunachal Pradesh. Between 2004–05 and 2018–19, there were 8.6 million fewer self-employed people overall and 14.8 million fewer casual workers. The overall number of salaried employees earning regular wages increased by 50.3 million during the same time period.

The relevant rules have also been distributed to the States so they can carry out a similar procedure. The adoption of the labour laws and regulations could hasten India's ascent to the top of the list of the world's most powerful economies. It pledges to create a secure, safe, and supportive working environment for both new and seasoned Indian employees.

SubQuestion No : 96

Q.96 Select an appropriate title for the passage.

Ans

✔ 1. Labour Reforms and the Rise of Jobs

✘ 2. The Rise of Administration

✘ 3. Labour Reforms and their Consequences

✘ 4. The Introduction of New Businesses

Website - www.dailyjobalert.in

Question ID : **630680204225**

Option 1 ID : **630680791986**
Option 2 ID : **630680791983**
Option 3 ID : **630680791985**
Option 4 ID : **630680791984**
Status : **Answered**
Chosen Option : **3**

Website - www.dailyjobalert.in

Comprehension:

Read the given passage and answer the questions that follow.

On 14 June, Prime Minister Narendra Modi issued a directive authorising the hiring of 10 lakh individuals in 'mission mode' during the ensuing 1.5 years in various government agencies and ministries. The government's hiring of 10 lakh people will not only help it reach its stated goals but also accelerate the process of creating an Atmanirbhar Bharat. The statement is a continuation of the PM Modi administration's efforts to maximise India's potential and turn it into a worldwide powerhouse.

The administration has tried to increase employment prospects in both the formal and informal sectors over the past eight years. To maximise the potential of the working population, programmes like MUDRA Yojana, Svanidhi Yojana, Garib Kalyan Rozgar Abhiyaan, and MGNREGA 2.0 have been implemented.

The government opted to address the long-standing demand for labour reforms even while employment possibilities have been generated on one side to maintain India's growth pace and efforts are being made on the other hand to ensure the growth is human-centric. Due to the fact that many States have implemented significant legislative and administrative changes in their own labour and industrial relations arenas, the topic of India's labour market reforms has gained fresh vigour and significance. Since it is commonly believed that India's labour regulatory framework has been inflexible and has impeded the growth of output, investment, and employment expansion, the goals of these reforms, as envisioned by PM Modi, have been to gradually deregulate the labour market.

Some of the legislative reforms carried out by a few States in recent years include raising the threshold of workers under the Industrial Disputes Act of 1947 from 100 to 300; increasing the number of workers under the Factories Act of 1948 from 10 to 20 (with power) and from 20 to 40 (without power); increasing the number of workers under the Contract Labour (Regulation and Abolition) Act of 1970 from 20 to 50, and introducing Fixed Term Employment (as is widely practised in many developed and emerging economies)

In a similar vein, some States have also implemented single-window clearance, self-certification of compliance by businesses, online filing for Registration and Returns, transparent inspection systems, etc. to reduce administrative restrictions and delays. The subject of labour reform initiatives has frequently been discussed, particularly legislative initiatives that support flexibility. The scholars who are in favour of the revisions claim that the current labour laws are complicated and onerous, and prevent businesses from successfully operating in a cutthroat commercial market.

The Economic Survey (2018-19), which examined the effects of Rajasthan's labour reforms, revealed higher growth rates for the number of factories employing more than 100 workers, the average number of workers per factory, total output and output per factory, total wages and wages per factory, and compound annual growth rate (CAGR) in the post-reform period compared to the pre-reform years. However, some people criticize the methodology, conclusions, and results of such research as well as the effectiveness of the labour reforms.

The deregulation of labour markets has had a positive impact on overall growth and employment, according to a recent study by the VV Giri National Labour Institute. The study, which was based on secondary household datasets from NSSO-EUS and PLFS and an annual enterprise survey from ASI, sought to understand the impact of labour reforms implemented by some States on economic and labour market parameters. The following are some of the major conclusions.

The traditional agricultural and allied sector has seen a shift in employment patterns to the more lucrative services sector, which includes construction. Along with increasing firm efficiency and competitiveness, this has important implications for raising the wages and income of the workforce through formalisation. In organised manufacturing, employment expanded by one million more during the pre-reform period (between 2010–11 and 2014–15) than it did during the post–reform period (between 2014–15 and 2017–18).

In the organised manufacturing sector, the typical plant size has grown over time. The rise in employment at plants with 300 or more employees between 2010–11 and 2017–18 exceeded the national average of 5.2% in various States, including Rajasthan, Tamil Nadu, and Andhra Pradesh. In all States, as of 2017–18, plants with 300 or more employees accounted for more than 50% of manufacturing employment. This shows that the businesses are working toward reaching economies of scale, which will increase the competitiveness of the businesses and products. Following the reforms, several States, like Rajasthan, Tamil Nadu, and Andhra Pradesh, attracted a sizable number of new businesses and several other states tried to find similar solutions like Meghalaya, Karnataka, and Arunachal Pradesh. Between 2004–05 and 2018–19, there were 8.6 million fewer self-employed people overall and 14.8 million fewer casual workers. The overall number of salaried employees earning regular wages increased by 50.3 million during the same time period.

The relevant rules have also been distributed to the States so they can carry out a similar procedure. The adoption of the labour laws and regulations could hasten India's ascent to the top of the list of the world's most powerful economies. It pledges to create a secure, safe, and supportive working environment for both new and seasoned Indian employees.

SubQuestion No : 97

Q.97 What does 'Mission Mode' reflect in the first paragraph of the passage?

Ans

✗ 1. Political priority to priority officials.

✓ 2. An extreme sense of task orientation.

✗ 3. Focus on the different jobs at hand.

✗ 4. Process of state government recruitment.

Website - www.dailyjobalert.in

Option 1 ID : **630680791999**
Option 2 ID : **630680792001**
Option 3 ID : **630680792000**
Option 4 ID : **630680792002**
Status : **Answered**
Chosen Option : **1**

Website - www.dailyjobalert.in

Comprehension:

Read the given passage and answer the questions that follow.

On 14 June, Prime Minister Narendra Modi issued a directive authorising the hiring of 10 lakh individuals in 'mission mode' during the ensuing 1.5 years in various government agencies and ministries. The government's hiring of 10 lakh people will not only help it reach its stated goals but also accelerate the process of creating an Atmanirbhar Bharat. The statement is a continuation of the PM Modi administration's efforts to maximise India's potential and turn it into a worldwide powerhouse.

The administration has tried to increase employment prospects in both the formal and informal sectors over the past eight years. To maximise the potential of the working population, programmes like MUDRA Yojana, Svanidhi Yojana, Garib Kalyan Rozgar Abhiyaan, and MGNREGA 2.0 have been implemented.

The government opted to address the long-standing demand for labour reforms even while employment possibilities have been generated on one side to maintain India's growth pace and efforts are being made on the other hand to ensure the growth is human-centric. Due to the fact that many States have implemented significant legislative and administrative changes in their own labour and industrial relations arenas, the topic of India's labour market reforms has gained fresh vigour and significance. Since it is commonly believed that India's labour regulatory framework has been inflexible and has impeded the growth of output, investment, and employment expansion, the goals of these reforms, as envisioned by PM Modi, have been to gradually deregulate the labour market.

Some of the legislative reforms carried out by a few States in recent years include raising the threshold of workers under the Industrial Disputes Act of 1947 from 100 to 300; increasing the number of workers under the Factories Act of 1948 from 10 to 20 (with power) and from 20 to 40 (without power); increasing the number of workers under the Contract Labour (Regulation and Abolition) Act of 1970 from 20 to 50, and introducing Fixed Term Employment (as is widely practised in many developed and emerging economies)

In a similar vein, some States have also implemented single-window clearance, self-certification of compliance by businesses, online filing for Registration and Returns, transparent inspection systems, etc. to reduce administrative restrictions and delays. The subject of labour reform initiatives has frequently been discussed, particularly legislative initiatives that support flexibility. The scholars who are in favour of the revisions claim that the current labour laws are complicated and onerous, and prevent businesses from successfully operating in a cutthroat commercial market.

The Economic Survey (2018-19), which examined the effects of Rajasthan's labour reforms, revealed higher growth rates for the number of factories employing more than 100 workers, the average number of workers per factory, total output and output per factory, total wages and wages per factory, and compound annual growth rate (CAGR) in the post-reform period compared to the pre-reform years. However, some people criticize the methodology, conclusions, and results of such research as well as the effectiveness of the labour reforms.

The deregulation of labour markets has had a positive impact on overall growth and employment, according to a recent study by the VV Giri National Labour Institute. The study, which was based on secondary household datasets from NSSO-EUS and PLFS and an annual enterprise survey from ASI, sought to understand the impact of labour reforms implemented by some States on economic and labour market parameters. The following are some of the major conclusions.

The traditional agricultural and allied sector has seen a shift in employment patterns to the more lucrative services sector, which includes construction. Along with increasing firm efficiency and competitiveness, this has important implications for raising the wages and income of the workforce through formalisation. In organised manufacturing, employment expanded by one million more during the pre-reform period (between 2010–11 and 2014–15) than it did during the post–reform period (between 2014–15 and 2017–18).

In the organised manufacturing sector, the typical plant size has grown over time. The rise in employment at plants with 300 or more employees between 2010–11 and 2017–18 exceeded the national average of 5.2% in various States, including Rajasthan, Tamil Nadu, and Andhra Pradesh. In all States, as of 2017–18, plants with 300 or more employees accounted for more than 50% of manufacturing employment. This shows that the businesses are working toward reaching economies of scale, which will increase the competitiveness of the businesses and products. Following the reforms, several States, like Rajasthan, Tamil Nadu, and Andhra Pradesh, attracted a sizable number of new businesses and several other states tried to find similar solutions like Meghalaya, Karnataka, and Arunachal Pradesh. Between 2004–05 and 2018–19, there were 8.6 million fewer self-employed people overall and 14.8 million fewer casual workers. The overall number of salaried employees earning regular wages increased by 50.3 million during the same time period.

The relevant rules have also been distributed to the States so they can carry out a similar procedure. The adoption of the labour laws and regulations could hasten India's ascent to the top of the list of the world's most powerful economies. It pledges to create a secure, safe, and supportive working environment for both new and seasoned Indian employees.

SubQuestion No : 98

Q.98 Select the most appropriate fact that has been mentioned in the passage correctly.

Ans

✔ 1. India's rise to the top of the list of the world's most powerful economies could be accelerated by the adoption of labour rules and regulations.

✘ 2. The government's hiring of 10 lakh individuals won't hasten the creation of an Atmanirbhar Bharat.

✘ 3. Businesses are seeking to decrease economies of scale since doing so will make them more competitive.

Website - www.dailyjobalert.in

✗ 4. In certain States, the increase in employment at facilities with 300 or more employees between 2010–11 and 2017–18 was greater than the national average of 50.3%.

Question ID : **630680204227**
Option 1 ID : **630680791993**
Option 2 ID : **630680791991**
Option 3 ID : **630680791992**
Option 4 ID : **630680791994**
Status : **Answered**
Chosen Option : **4**

DAILY JOB Alert ਪੰਜਾਬ

Comprehension:

Read the given passage and answer the questions that follow.
On 14 June, Prime Minister Narendra Modi issued a directive authorising the hiring of 10 lakh individuals in 'mission mode' during the ensuing 1.5 years in various government agencies and ministries. The government's hiring of 10 lakh people will not only help it reach its stated goals but also accelerate the process of creating an Atmanirbhar Bharat. The statement is a continuation of the PM Modi administration's efforts to maximise India's potential and turn it into a worldwide powerhouse.
The administration has tried to increase employment prospects in both the formal and informal sectors over the past eight years. To maximise the potential of the working population, programmes like MUDRA Yojana, Svanidhi Yojana, Garib Kalyan Rozgar Abhiyaan, and MGNREGA 2.0 have been implemented.
The government opted to address the long-standing demand for labour reforms even while employment possibilities have been generated on one side to maintain India's growth pace and efforts are being made on the other hand to ensure the growth is human-centric. Due to the fact that many States have implemented significant legislative and administrative changes in their own labour and industrial relations arenas, the topic of India's labour market reforms has gained fresh vigour and significance. Since it is commonly believed that India's labour regulatory framework has been inflexible and has impeded the growth of output, investment, and employment expansion, the goals of these reforms, as envisioned by PM Modi, have been to gradually deregulate the labour market.
Some of the legislative reforms carried out by a few States in recent years include raising the threshold of workers under the Industrial Disputes Act of 1947 from 100 to 300; increasing the number of workers under the Factories Act of 1948 from 10 to 20 (with power) and from 20 to 40 (without power); increasing the number of workers under the Contract Labour (Regulation and Abolition) Act of 1970 from 20 to 50, and introducing Fixed Term Employment (as is widely practised in many developed and emerging economies)
In a similar vein, some States have also implemented single-window clearance, self-certification of compliance by businesses, online filing for Registration and Returns, transparent inspection systems, etc. to reduce administrative restrictions and delays. The subject of labour reform initiatives has frequently been discussed, particularly legislative initiatives that support flexibility. The scholars who are in favour of the revisions claim that the current labour laws are complicated and onerous, and prevent businesses from successfully operating in a cutthroat commercial market.
The Economic Survey (2018-19), which examined the effects of Rajasthan's labour reforms, revealed higher growth rates for the number of factories employing more than 100 workers, the average number of workers per factory, total output and output per factory, total wages and wages per factory, and compound annual growth rate (CAGR) in the post-reform period compared to the pre-reform years. However, some people criticize the methodology, conclusions, and results of such research as well as the effectiveness of the labour reforms.
The deregulation of labour markets has had a positive impact on overall growth and employment, according to a recent study by the VV Giri National Labour Institute. The study, which was based on secondary household datasets from NSSO-EUS and PLFS and an annual enterprise survey from ASI, sought to understand the impact of labour reforms implemented by some States on economic and labour market parameters. The following are some of the major conclusions.
The traditional agricultural and allied sector has seen a shift in employment patterns to the more lucrative services sector, which includes construction. Along with increasing firm efficiency and competitiveness, this has important implications for raising the wages and income of the workforce through formalisation. In organised manufacturing, employment expanded by one million more during the pre-reform period (between 2010–11 and 2014–15) than it did during the post–reform period (between 2014–15 and 2017–18).
In the organised manufacturing sector, the typical plant size has grown over time. The rise in employment at plants with 300 or more employees between 2010–11 and 2017–18 exceeded the national average of 5.2% in various States, including Rajasthan, Tamil Nadu, and Andhra Pradesh. In all States, as of 2017–18, plants with 300 or more employees accounted for more than 50% of manufacturing employment. This shows that the businesses are working toward reaching economies of scale, which will increase the competitiveness of the businesses and products. Following the reforms, several States, like Rajasthan, Tamil Nadu, and Andhra Pradesh, attracted a sizable number of new businesses and several other states tried to find similar solutions like Meghalaya, Karnataka, and Arunachal Pradesh. Between 2004–05 and 2018–19, there were 8.6 million fewer self-employed people overall and 14.8 million fewer casual workers. The overall number of salaried employees earning regular wages increased by 50.3 million during the same time period.
The relevant rules have also been distributed to the States so they can carry out a similar procedure. The adoption of the labour laws and regulations could hasten India's ascent to the top of the list of the world's most powerful economies. It pledges to create a secure, safe, and supportive working environment for both new and seasoned Indian employees.

SubQuestion No : 99

Q.99 According to the passage, how can India be at the top list of the world's most powerful economies?

Ans

✗ 1. By raising the income of the workforce through formalisation.

✓ 2. Through the implementation of labour rules and regulations that could speed up growth.

✗ 3. By hiring more people than the employment rate for manufacturing.

✗ 4. Through providing all ministers with a safe, secure, and encouraging atmosphere.

Website - www.dailyjobalert.in

Question ID : **630680204228**
Option 1 ID : **630680791998**
Option 2 ID : **630680791996**
Option 3 ID : **630680791997**
Option 4 ID : **630680791995**
Status : **Answered**
Chosen Option : **2**

Website - www.dailyjobalert.in

Comprehension:

Read the given passage and answer the questions that follow.
On 14 June, Prime Minister Narendra Modi issued a directive authorising the hiring of 10 lakh individuals in 'mission mode' during the ensuing 1.5 years in various government agencies and ministries. The government's hiring of 10 lakh people will not only help it reach its stated goals but also accelerate the process of creating an Atmanirbhar Bharat. The statement is a continuation of the PM Modi administration's efforts to maximise India's potential and turn it into a worldwide powerhouse.
The administration has tried to increase employment prospects in both the formal and informal sectors over the past eight years. To maximise the potential of the working population, programmes like MUDRA Yojana, Svanidhi Yojana, Garib Kalyan Rozgar Abhiyaan, and MGNREGA 2.0 have been implemented.
The government opted to address the long-standing demand for labour reforms even while employment possibilities have been generated on one side to maintain India's growth pace and efforts are being made on the other hand to ensure the growth is human-centric. Due to the fact that many States have implemented significant legislative and administrative changes in their own labour and industrial relations arenas, the topic of India's labour market reforms has gained fresh vigour and significance. Since it is commonly believed that India's labour regulatory framework has been inflexible and has impeded the growth of output, investment, and employment expansion, the goals of these reforms, as envisioned by PM Modi, have been to gradually deregulate the labour market.
Some of the legislative reforms carried out by a few States in recent years include raising the threshold of workers under the Industrial Disputes Act of 1947 from 100 to 300; increasing the number of workers under the Factories Act of 1948 from 10 to 20 (with power) and from 20 to 40 (without power); increasing the number of workers under the Contract Labour (Regulation and Abolition) Act of 1970 from 20 to 50, and introducing Fixed Term Employment (as is widely practised in many developed and emerging economies)
In a similar vein, some States have also implemented single-window clearance, self-certification of compliance by businesses, online filing for Registration and Returns, transparent inspection systems, etc. to reduce administrative restrictions and delays. The subject of labour reform initiatives has frequently been discussed, particularly legislative initiatives that support flexibility. The scholars who are in favour of the revisions claim that the current labour laws are complicated and onerous, and prevent businesses from successfully operating in a cutthroat commercial market.
The Economic Survey (2018-19), which examined the effects of Rajasthan's labour reforms, revealed higher growth rates for the number of factories employing more than 100 workers, the average number of workers per factory, total output and output per factory, total wages and wages per factory, and compound annual growth rate (CAGR) in the post-reform period compared to the pre-reform years. However, some people criticize the methodology, conclusions, and results of such research as well as the effectiveness of the labour reforms.
The deregulation of labour markets has had a positive impact on overall growth and employment, according to a recent study by the VV Giri National Labour Institute. The study, which was based on secondary household datasets from NSSO-EUS and PLFS and an annual enterprise survey from ASI, sought to understand the impact of labour reforms implemented by some States on economic and labour market parameters. The following are some of the major conclusions.
The traditional agricultural and allied sector has seen a shift in employment patterns to the more lucrative services sector, which includes construction. Along with increasing firm efficiency and competitiveness, this has important implications for raising the wages and income of the workforce through formalisation. In organised manufacturing, employment expanded by one million more during the pre-reform period (between 2010–11 and 2014–15) than it did during the post–reform period (between 2014–15 and 2017–18).
In the organised manufacturing sector, the typical plant size has grown over time. The rise in employment at plants with 300 or more employees between 2010–11 and 2017–18 exceeded the national average of 5.2% in various States, including Rajasthan, Tamil Nadu, and Andhra Pradesh. In all States, as of 2017–18, plants with 300 or more employees accounted for more than 50% of manufacturing employment. This shows that the businesses are working toward reaching economies of scale, which will increase the competitiveness of the businesses and products. Following the reforms, several States, like Rajasthan, Tamil Nadu, and Andhra Pradesh, attracted a sizable number of new businesses and several other states tried to find similar solutions like Meghalaya, Karnataka, and Arunachal Pradesh. Between 2004–05 and 2018–19, there were 8.6 million fewer self-employed people overall and 14.8 million fewer casual workers. The overall number of salaried employees earning regular wages increased by 50.3 million during the same time period.
The relevant rules have also been distributed to the States so they can carry out a similar procedure. The adoption of the labour laws and regulations could hasten India's ascent to the top of the list of the world's most powerful economies. It pledges to create a secure, safe, and supportive working environment for both new and seasoned Indian employees.

SubQuestion No : 100

Q.100 Which of the following States has drawn a significant number of new businesses?

Ans
✗ 1. Karnataka
✗ 2. Arunachal Pradesh
✗ 3. Meghalaya
✓ 4. Tamil Nadu

Website - www.dailyjobalert.in
Question ID : **630680204226**

Option 1 ID : **630680791988**
Option 2 ID : **630680791987**
Option 3 ID : **630680791990**
Option 4 ID : **630680791989**
Status : **Answered**
Chosen Option : **4**

Section : **Qualifying Test of Punjabi Language**

Q.1 ਹੇਠ ਲਿਖਿਆਂ ਵਿਚ ਅਗੇਤਰ ਯੁਕਤ ਸ਼ਬਦ ਹੈ:-

Ans
✔ 1. ਲਾਵਾਰਸ
✘ 2. ਦਿਆਲੂ
✘ 3. ਚਮਕੀਲਾ
✘ 4. ਬੁਰਾਈ

Question ID : **630680248330**
Option 1 ID : **630680963466**
Option 2 ID : **630680963464**
Option 3 ID : **630680963465**
Option 4 ID : **630680963463**
Status : **Answered**
Chosen Option : **4**

Q.2 ਕਿਹੜਾ ਸ਼ਬਦ ਸ਼ੁੱਧ ਹੈ:-

Ans
✘ 1. ਨੁਜਵਾਨ
✘ 2. ਸਹਿਰ
✘ 3. ਚੰਘਾ
✔ 4. ਸਾਹਿਤ

Question ID : **630680248341**
Option 1 ID : **630680963507**
Option 2 ID : **630680963508**
Option 3 ID : **630680963509**
Option 4 ID : **630680963510**
Status : **Answered**
Chosen Option : **4**

Q.3 'ਸਪੇਰਨ' ਸ਼ਬਦ ਦਾ ਪੁਲਿੰਗ ਹੈ:-

Ans
✔ 1. ਸਪੇਰਾ
✘ 2. ਸਪੇਅਰਾ
✘ 3. ਸਪੇਰ
✘ 4. ਸਪੇਰੀ

Question ID : **630680248327**
Option 1 ID : **630680963452**
Option 2 ID : **630680963451**
Option 3 ID : **630680963453**
Option 4 ID : **630680963454**
Status : **Answered**
Chosen Option : **1**

Website - www.dailyjobalert.in

Q.4 'ਹੋਣਹਾਰ' ਸ਼ਬਦ ਵਿਚ ਪਿਛੇਤਰ ਹੈ:-

Ans
1. ਰ
2. ਆਰ
3. ਹਾਰ
4. ਹੋਣ

Question ID : **630680248331**
Option 1 ID : **630680963469**
Option 2 ID : **630680963467**
Option 3 ID : **630680963468**
Option 4 ID : **630680963470**
Status : **Answered**
Chosen Option : **3**

Q.5 ਫਰਵਰੀ ਤੋਂ ਪਹਿਲਾ ਅਤੇ ਅਗਸਤ ਤੋਂ ਬਾਅਦ ਕਿਹੜਾ ਮਹੀਨਾ ਆਉਂਦਾ ਹੈ?

Ans
1. ਮਾਰਚ ਅਤੇ ਜੁਲਾਈ
2. ਜਨਵਰੀ ਅਤੇ ਅਕਤੂਬਰ
3. ਸਤੰਬਰ ਅਤੇ ਮਾਰਚ
4. ਜਨਵਰੀ ਅਤੇ ਸਤੰਬਰ

Question ID : **630680248357**
Option 1 ID : **630680963572**
Option 2 ID : **630680963574**
Option 3 ID : **630680963571**
Option 4 ID : **630680963573**
Status : **Answered**
Chosen Option : **4**

Q.6 "ਉਹ ਇਨਸਾਨ ਜੋ ਪੈਸਾ ਨਾ ਖਰਚੇ" ਲਈ ਕੋਈ ਇਕ ਸ਼ਬਦ ਚੁਣੋ:-

Ans
1. ਕੰਜੂਸ
2. ਬਦਮਾਸ਼
3. ਧਨੀ
4. ਦੁਕਾਨਦਾਰ

Question ID : **630680248315**
Option 1 ID : **630680963406**
Option 2 ID : **630680963404**
Option 3 ID : **630680963403**
Option 4 ID : **630680963405**
Status : **Answered**
Chosen Option : **1**

Q.7 "ਦੁਖਾਂਤ" ਦਾ ਵਿਰੋਧੀ ਸ਼ਬਦ ਹੈ:-

Ans
1. ਪਾਪ
2. ਦੁੱਖ
3. ਸੁਖਾਂਤ
4. ਸਰਾਪ

Question ID : **630680248312**
Option 1 ID : **630680963394**
Option 2 ID : **630680963392**
Option 3 ID : **630680963391**
Option 4 ID : **630680963393**
Status : **Answered**
Chosen Option : **3**

Website - www.dailyjobalert.in

Q.8 'ਕਮਜ਼ੋਰ' ਵਿੱਚ ਕਿਹੜਾ ਅਗੇਤਰ ਵਰਤਿਆ ਗਿਆ ਹੈ?

Ans
✔ 1. ਕਮ
✘ 2. ਕ
✘ 3. ਜ਼ੋਰ
✘ 4. ਕਮਜ਼

Question ID : **630680248328**
Option 1 ID : **630680963455**
Option 2 ID : **630680963456**
Option 3 ID : **630680963458**
Option 4 ID : **630680963457**
Status : **Answered**
Chosen Option : **1**

Q.9 'Calculation' ਸ਼ਬਦ ਦਾ ਪੰਜਾਬੀ ਅਨੁਵਾਦ ਨਹੀਂ ਹੈ:-

Ans
✘ 1. ਹਿਸਾਬ-ਕਿਤਾਬ
✔ 2. ਉਪਕਰਨ
✘ 3. ਲੇਖਾ-ਜੋਖਾ
✘ 4. ਗਿਣਤੀ-ਮਿਣਤੀ

Question ID : **630680248353**
Option 1 ID : **630680963555**
Option 2 ID : **630680963557**
Option 3 ID : **630680963556**
Option 4 ID : **630680963558**
Status : **Answered**
Chosen Option : **1**

Q.10 "ਜ਼ਾਲਮ" ਦਾ ਸਮਾਨਾਰਥਕ ਸ਼ਬਦ ਹੈ:-

Ans
✔ 1. ਅਤਿਆਚਾਰੀ
✘ 2. ਦੂਰ
✘ 3. ਦੇਸ਼
✘ 4. ਚੰਗਾ

Question ID : **630680248310**
Option 1 ID : **630680963386**
Option 2 ID : **630680963385**
Option 3 ID : **630680963383**
Option 4 ID : **630680963384**
Status : **Answered**
Chosen Option : **1**

Q.11 'ਮੰਗਲਵਾਰ' ਨੂੰ ਅੰਗ੍ਰੇਜ਼ੀ ਵਿਚ ਕੀ ਕਿਹਾ ਜਾਂਦਾ ਹੈ?

Ans
✘ 1. Saturday
✘ 2. Monday
✔ 3. Tuesday
✘ 4. Wednesday

Question ID : **630680248359**
Option 1 ID : **630680963580**
Option 2 ID : **630680963582**
Option 3 ID : **630680963579**
Option 4 ID : **630680963581**
Status : **Answered**
Chosen Option : **3**

Website - www.dailyjobalert.in

Q.12 ਹੇਠ ਲਿਖਿਆਂ 'ਚੋਂ 'ਡੈਸ਼' ਦੀ ਚੋਣ ਕਰੋ।

Ans
1. ;
2. -
3. " "
4. '

Question ID : **630680248347**
Option 1 ID : **630680963534**
Option 2 ID : **630680963532**
Option 3 ID : **630680963531**
Option 4 ID : **630680963533**
Status : **Answered**
Chosen Option : **2**

Q.13 ਬਿੰਦੀ (.) ਦੀ ਸਹੀ ਵਰਤੋਂ ਵਾਲਾ ਸ਼ਬਦ ਨਹੀਂ ਹੈ?

Ans
1. ਸ.
2. ਪ੍ਰੋਫੈਸਰ.
3. ਡਾ.
4. ਪੀਐਚ.ਡੀ.

Question ID : **630680248349**
Option 1 ID : **630680963541**
Option 2 ID : **630680963539**
Option 3 ID : **630680963540**
Option 4 ID : **630680963542**
Status : **Answered**
Chosen Option : **4**

Q.14 'ਨਾਇਕ' ਸ਼ਬਦ ਦਾ ਇਸਤਰੀ ਲਿੰਗ ਹੈ:-

Ans
1. ਨਾਇਕਾ
2. ਨਾਇਕੀ
3. ਨਾਇਕਨ
4. ਨਾਇਕਣੀ

Question ID : **630680248326**
Option 1 ID : **630680963450**
Option 2 ID : **630680963449**
Option 3 ID : **630680963447**
Option 4 ID : **630680963448**
Status : **Answered**
Chosen Option : **1**

Q.15 ਛੇ ਮਹੀਨੇ ਦੇ ਜੁੱਟ ਨੂੰ ਕੀ ਕਿਹਾ ਜਾ ਸਕਦਾ ਹੈ?

Ans
1. ਛਿਮਾਹੀ
2. ਸਾਲਾਨਾ
3. ਹਫਤਾ
4. ਤ੍ਰੈਮਾਸਿਕ

Question ID : **630680248356**
Option 1 ID : **630680963570**
Option 2 ID : **630680963569**
Option 3 ID : **630680963567**
Option 4 ID : **630680963568**
Status : **Answered**
Chosen Option : **1**

Website - www.dailyjobalert.in

Q.16 ਕਿਹੜਾ ਸ਼ਬਦ ਸ਼ੁੱਧ ਹੈ:-

Ans
- ✗ 1. ਆਰਮ
- ✗ 2. ਗਿਲਾਸ
- ✓ 3. ਘਬਰਾਹਟ
- ✗ 4. ਵਿਗੇਆਨ

Question ID : **630680248344**
Option 1 ID : **630680963521**
Option 2 ID : **630680963520**
Option 3 ID : **630680963522**
Option 4 ID : **630680963519**
Status : **Answered**
Chosen Option : **2**

Q.17 'ਅਨੀਤਾ ਨੇ ਮਹਿਮਾਨਾਂ ਦੀ ਖੂਬ _____ ਕੀਤੀ।' ਵਿਚ ਖਾਲੀ ਸਥਾਨ ਭਰਨ ਦਾ ਸਹੀ ਵਿਕਲਪ ਹੈ:-

Ans
- ✓ 1. ਖਾਤਿਰਦਾਰੀ
- ✗ 2. ਕੁੱਟ-ਮਾਰ
- ✗ 3. ਬੇਇੱਜ਼ਤੀ
- ✗ 4. ਖਿਚਾਈ

Question ID : **630680248334**
Option 1 ID : **630680963481**
Option 2 ID : **630680963480**
Option 3 ID : **630680963479**
Option 4 ID : **630680963482**
Status : **Answered**
Chosen Option : **1**

Q.18 'Former' ਸ਼ਬਦ ਦਾ ਪੰਜਾਬੀ ਅਨੁਵਾਦ ਹੈ:-

Ans
- ✗ 1. ਮਸ਼ਹੂਰ
- ✗ 2. ਤਰਖਾਣ
- ✗ 3. ਕਿਸਾਨ
- ✓ 4. ਸਾਬਕਾ

Question ID : **630680248354**
Option 1 ID : **630680963561**
Option 2 ID : **630680963562**
Option 3 ID : **630680963560**
Option 4 ID : **630680963559**
Status : **Answered**
Chosen Option : **4**

Q.19 '555' ਨੂੰ ਸ਼ਬਦਾਂ ਵਿਚ ਕਿਵੇਂ ਲਿਖਦੇ ਹਾਂ?

Ans
- ✗ 1. ਪੰਜ ਪਚਾਸੀ
- ✓ 2. ਪੰਜ ਸੌ ਪਚਵੰਜਾ
- ✗ 3. ਪੰਜਵੰਜਾ ਸੌ ਪੰਜ
- ✗ 4. ਪੰਜ ਸੌ ਪੰਜ

Question ID : **630680248355**
Option 1 ID : **630680963563**
Option 2 ID : **630680963564**
Option 3 ID : **630680963566**
Option 4 ID : **630680963565**
Status : **Answered**
Chosen Option : **2**

Website - www.dailyjobalert.in

Q.20 "ਚਾਬੀ" ਸ਼ਬਦ ਦਾ ਬਹੁਵਚਨ ਹੈ:-

Ans
- ✗ 1. ਚਾਬੇ
- ✓ 2. ਚਾਬੀਆਂ
- ✗ 3. ਚਾਬਿਆ
- ✗ 4. ਚਆਬੀ

Question ID : **630680248322**
Option 1 ID : **630680963432**
Option 2 ID : **630680963433**
Option 3 ID : **630680963434**
Option 4 ID : **630680963431**
Status : **Answered**
Chosen Option : **2**

Q.21 ਕਿਹੜਾ ਸ਼ਬਦ ਸ਼ੁੱਧ ਨਹੀਂ ਹੈ:-

Ans
- ✓ 1. ਸਨਤਰਾ
- ✗ 2. ਅੱਧਾ
- ✗ 3. ਆਪਣਾ
- ✗ 4. ਕੰਬਣਾ

Question ID : **630680248342**
Option 1 ID : **630680963511**
Option 2 ID : **630680963513**
Option 3 ID : **630680963512**
Option 4 ID : **630680963514**
Status : **Answered**
Chosen Option : **1**

Q.22 'ਅੰਨ੍ਹਾ ਕੀ ਭਾਲੇ ਦੋ ਅੱਖਾਂ' ਅਖਾਣ ਦਾ ਅਰਥ ਹੈ:-

Ans
- ✗ 1. ਦੋ ਅੱਖਾਂ ਦੇ ਬਾਵਜੂ ਦਿਖਣਾ।
- ✗ 2. ਕਿਸੇ ਕੰਮ ਵਿਚ ਜ਼ਬਰਦਸਤੀ ਵਾਧੂ ਦਖਲ ਦੇਣਾ।
- ✗ 3. ਅੰਨ੍ਹੇ ਦਾ ਗੁੱਸੇ 'ਚ ਚਲੇ ਜਾਣਾ।
- ✓ 4. ਕਿਸੇ ਵਿਅਕਤੀ ਨੂੰ ਅਪਨੀ ਮਨਪਸੰਦ ਦੀ ਚੀਜ਼ ਲੱਭ ਜਾਣਾ।

Question ID : **630680248321**
Option 1 ID : **630680963430**
Option 2 ID : **630680963427**
Option 3 ID : **630680963429**
Option 4 ID : **630680963428**
Status : **Answered**
Chosen Option : **4**

Q.23 ਨਿਮਨ ਲਿਖਤ ਵਿਚ ਕਿਹੜਾ ਵਾਕ ਸ਼ੁੱਧ ਹੈ:-

Ans
- ✗ 1. ਚੋਗਾ ਨੂੰ ਕੁੱਕੜੀ ਪਾ ਦੇ।
- ✓ 2. ਕਈਆਂ ਨੂੰ ਗੱਲ ਕਰਨ ਦਾ ਵੀ ਚੱਜ ਨਹੀਂ ਹੁੰਦਾ।
- ✗ 3. ਭੋਂਕਦੇ ਹਨ ਕੁੱਤੇ ਰਾਤੀ।
- ✗ 4. ਰੋਟੀ ਗਿਆ ਬਾਹਰ ਖਾ ਕੇ ਉਹ।

Question ID : **630680248340**
Option 1 ID : **630680963505**
Option 2 ID : **630680963504**
Option 3 ID : **630680963503**
Option 4 ID : **630680963506**
Status : **Answered**
Chosen Option : **2**

Website - www.dailyjobalert.in

Q.24 "ਜਿਸ ਕੋਲ ਪੈਸਾ ਨਾ ਹੋਵੇ' ਲਈ ਕੋਈ ਇਕ ਸ਼ਬਦ ਚੁਣੋ:-

Ans
1. ਅਮੀਰ
2. ਮਸ਼ਹੂਰ
3. ਨਿਰਧਨ
4. ਮਜਬੂਰ

Question ID : **630680248313**
Option 1 ID : **630680963397**
Option 2 ID : **630680963398**
Option 3 ID : **630680963395**
Option 4 ID : **630680963396**
Status : **Answered**
Chosen Option : **3**

Q.25 "ਹਾਥੀ ਦੇ ਦੰਦ ਖਾਣ ਦੇ ਹੋਰ ਅਤੇ_____ ." ਅਖਾਣ ਨੂੰ ਪੂਰਾ ਕਰੋ।

Ans
1. ਦਿਖਾਉਣ ਦੇ ਹੋਰ।
2. ਜਮਾਉਣ ਦੇ ਹੋਰ।
3. ਪਾਉਣ ਦੇ ਹੋਰ।
4. ਚਮਕਾਉਣ ਦੇ ਹੋਰ।

Question ID : **630680248319**
Option 1 ID : **630680963419**
Option 2 ID : **630680963422**
Option 3 ID : **630680963421**
Option 4 ID : **630680963420**
Status : **Answered**
Chosen Option : **1**

Q.26 'Attendance' ਸ਼ਬਦ ਦਾ ਪੰਜਾਬੀ ਅਨੁਵਾਦ ਹੈ:-

Ans
1. ਹਾਜ਼ਰੀ
2. ਦੁਕਾਨਦਾਰ
3. ਕਰਜ਼
4. ਗਾਹਕ

Question ID : **630680248352**
Option 1 ID : **630680963554**
Option 2 ID : **630680963553**
Option 3 ID : **630680963552**
Option 4 ID : **630680963551**
Status : **Answered**
Chosen Option : **1**

Q.27 "ਅੱਜ ਕਲ੍ਹ ਕਰਨਾ" ਮੁਹਾਵਰੇ ਨੂੰ ਵਰਤ ਕੇ ਬਣਾਏ ਵਾਕ ਦੀ ਸਹੀ ਚੋਣ ਕਰੋ:-

Ans
1. ਅੱਜ ਕਲ੍ਹ ਕਰਨਾ ਬਹੁਤ ਚੰਗੀ ਗਲ ਹੁੰਦੀ ਹੈ।
2. ਅੱਜ ਕਲ੍ਹ ਕਰਨ ਨਾਲ ਸਾਰੇ ਕੰਮ ਛੇਤੀ ਹੋ ਜਾਂਦੇ ਹਨ।
3. ਪੈਸੇ ਮੰਗਣ 'ਤੇ ਲੋਕੀ ਅੱਜ ਕਲ੍ਹ ਕਰਨਾ ਸ਼ੁਰੂ ਕਰ ਦਿੰਦੇ ਹਨ।
4. ਸਮਝਦਾਰ ਲੋਕ ਹਰ ਕੰਮ ਲਈ ਅੱਜ ਕਲ੍ਹ ਕਰਿਆ ਕਰਦੇ ਹਨ।

Question ID : **630680248318**
Option 1 ID : **630680963415**
Option 2 ID : **630680963416**
Option 3 ID : **630680963418**
Option 4 ID : **630680963417**
Status : **Answered**
Chosen Option : **3**

Website - www.dailyjobalert.in

Q.28 'ਕਿਰਪਾ ਕਰਕੇ, ਤੇਜ਼ ਨਾ ਬੋਲੋ।' ਵਾਕ ਹੈ:-

Ans
✗ 1. ਪ੍ਰਸ਼ਨਵਾਚਕ
✗ 2. ਸੰਯੁਕਤ
✓ 3. ਬਿਨੈਵਾਚਕ
✗ 4. ਹਾਂ-ਵਾਚਕ ਵਾਕ

Question ID : **630680248338**
Option 1 ID : **630680963495**
Option 2 ID : **630680963497**
Option 3 ID : **630680963498**
Option 4 ID : **630680963496**
Status : **Answered**
Chosen Option : **3**

Q.29 'ਬੱਚੇ ਸਕੂਲ ਲਈ ਨਿਕਲ ਗਏ ਹਨ।' ਵਾਕ ਵਿਚ ਵਚਨ ਬਦਲੋ:-

Ans
✗ 1. ਬੱਚਾ ਸਕੂਲਾਂ ਲਈ ਨਿਕਲ ਗਏ ਹੈ।
✓ 2. ਬੱਚਾ ਸਕੂਲ ਲਈ ਨਿਕਲ ਗਿਆ ਹੈ।
✗ 3. ਬੱਚਾ ਸਕੂਲ ਲਈ ਨਿਕਲ ਗਏ ਹੈ।
✗ 4. ਬੱਚੇ ਸਕੂਲ ਲਈ ਨਿਕਲ ਗਿਆ ਹਨ।

Question ID : **630680248325**
Option 1 ID : **630680963446**
Option 2 ID : **630680963443**
Option 3 ID : **630680963444**
Option 4 ID : **630680963445**
Status : **Answered**
Chosen Option : **2**

Q.30 "ਤਾਲੇ" ਸ਼ਬਦ ਦਾ ਇਕਵਚਨ ਹੈ:-

Ans
✓ 1. ਤਾਲਾ
✗ 2. ਤਾਲ
✗ 3. ਤਾਅਲਾ
✗ 4. ਤਾਲੀ

Question ID : **630680248324**
Option 1 ID : **630680963442**
Option 2 ID : **630680963440**
Option 3 ID : **630680963439**
Option 4 ID : **630680963441**
Status : **Answered**
Chosen Option : **1**

Q.31 ਕਿਹੜੇ ਵਾਕ ਵਿਚ ਵਿਸ਼ਰਾਮ ਚਿੰਨ੍ਹ ਦੀ ਸਹੀ ਵਰਤੋਂ ਹੋਈ ਹੈ?

Ans
✓ 1. ਦੋਸਤੋ, ਮੇਰੀ ਗੱਲ ਦਾ ਗੁੱਸਾ ਨਾ ਕਰਿਓ।
✗ 2. ਦੋਸਤੋ। ਮੇਰੀ ਗੱਲ ਦਾ ਗੁੱਸਾ ਨਾ ਕਰਿਓ?
✗ 3. ਦੋਸਤੋ ਮੇਰੀ, ਗੱਲ ਦਾ ਗੁੱਸਾ ਨਾ ਕਰਿਓ!
✗ 4. ਦੋਸਤੋ? ਮੇਰੀ ਗੱਲ ਦਾ ਗੁੱਸਾ ਨਾ ਕਰਿਓ:

Question ID : **630680248350**
Option 1 ID : **630680963545**
Option 2 ID : **630680963543**
Option 3 ID : **630680963544**
Option 4 ID : **630680963546**
Status : **Answered**
Chosen Option : **1**

DAILY JOB Alert ਪੰਜਾਬ
Website - www.dailyjobalert.in

Q.32 'Approval' ਸ਼ਬਦ ਦਾ ਪੰਜਾਬੀ ਅਨੁਵਾਦ ਹੈ:-

Ans
1. ਐਪਲੀਕੇਸ਼ਨ
2. ਮਨ੍ਹਾ
3. ਸਮੂਹ
4. ਪ੍ਰਵਾਨਗੀ

Question ID : **630680248351**
Option 1 ID : **630680963549**
Option 2 ID : **630680963547**
Option 3 ID : **630680963550**
Option 4 ID : **630680963548**
Status : **Answered**
Chosen Option : **4**

Q.33 ਨਿਮਨ ਲਿਖਤ ਵਿਚ ਕਿਹੜਾ ਵਾਕ ਅਸ਼ੁੱਧ ਹੈ:-

Ans
1. ਮੁੰਡਾ ਬਹੁਤ ਸੋਹਣਾ ਗਾਉਂਦਾ ਹੈ।
2. ਇਹ ਮੁੰਡਾ ਝੂਠ ਨਹੀਂ ਬੋਲਦੇ।
3. ਤੁਸੀਂ ਰੋਜ਼ਾਨਾਂ ਸੈਰ ਕਰਦੇ ਹੋ।
4. ਉਹਦੀਆਂ ਅੱਖਾਂ ਵਿਚ ਅੱਥਰੂ ਆ ਗਏ

Question ID : **630680248339**
Option 1 ID : **630680963502**
Option 2 ID : **630680963499**
Option 3 ID : **630680963500**
Option 4 ID : **630680963501**
Status : **Answered**
Chosen Option : **2**

Q.34 ਹੇਠ ਲਿਖਿਆਂ 'ਚੋਂ ਕਿਹੜਾ ਤੱਤ ਵਿਸਮਿਕ ਵਾਕ ਦਾ ਨਹੀਂ ਹੈ?

Ans
1. ਹੈਰਾਨੀਵਾਚਕ
2. ਸਧਾਰਨ ਵਾਕ
3. ਸ਼ੋਕਵਾਚਕ
4. ਪ੍ਰਸ਼ੰਸਾਵਾਚਕ

Question ID : **630680248337**
Option 1 ID : **630680963492**
Option 2 ID : **630680963494**
Option 3 ID : **630680963493**
Option 4 ID : **630680963491**
Status : **Answered**
Chosen Option : **2**

Q.35 ਕਿਹੜਾ ਸ਼ਬਦ ਅਸ਼ੁੱਧ ਹੈ?

Ans
1. ਪੁੱਟਨਾ
2. ਮਹਿਲਾ
3. ਵੇਖਣਾ
4. ਪੁਲਿਸ

Question ID : **630680248345**
Option 1 ID : **630680963524**
Option 2 ID : **630680963525**
Option 3 ID : **630680963523**
Option 4 ID : **630680963526**
Status : **Answered**
Chosen Option : **2**

Website - www.dailyjobalert.in

Q.36 "ਹਲਾਲ" ਦਾ ਵਿਰੋਧੀ ਸ਼ਬਦ ਹੈ:-

Ans
✔ 1. ਹਰਾਮ
✘ 2. ਸਬਜ਼ੀ
✘ 3. ਲਾਲ
✘ 4. ਮਾਸ

Question ID : **630680248311**
Option 1 ID : **630680963388**
Option 2 ID : **630680963390**
Option 3 ID : **630680963387**
Option 4 ID : **630680963389**
Status : **Answered**
Chosen Option : **1**

Q.37 "ਜਿਸਨੂੰ ਪੜ੍ਹਨਾ ਨਾ ਆਵੇ" ਲਈ ਕੋਈ ਇਕ ਸ਼ਬਦ ਚੁਣੋ:-

Ans
✘ 1. ਸਾਹਿਤਕਾਰ
✔ 2. ਅਨਪੜ੍ਹ
✘ 3. ਖੋਜੀ
✘ 4. ਵਿਦਵਾਨ

Question ID : **630680248314**
Option 1 ID : **630680963400**
Option 2 ID : **630680963401**
Option 3 ID : **630680963402**
Option 4 ID : **630680963399**
Status : **Answered**
Chosen Option : **2**

Q.38 'ਆਪਣੀ ਇੱਜ਼ਤ _____ ਹੱਥ।' ਵਿਚ ਖਾਲੀ ਸਥਾਨ ਭਰਨ ਦਾ ਸਹੀ ਵਿਕਲਪ ਹੈ:-

Ans
✔ 1. ਆਪਣੇ
✘ 2. ਬੈਗਾਨੇ
✘ 3. ਤੇਰੇ
✘ 4. ਲੋਕਾਂ

Question ID : **630680248335**
Option 1 ID : **630680963486**
Option 2 ID : **630680963485**
Option 3 ID : **630680963483**
Option 4 ID : **630680963484**
Status : **Answered**
Chosen Option : **1**

Q.39 "ਸਾਹ ਸੁੱਕ ਜਾਣਾ" ਮੁਹਾਵਰੇ ਦਾ ਅਰਥ ਹੈ:-

Ans
✘ 1. ਭੱਜ ਜਾਣਾ
✘ 2. ਪਿਆਸ ਲੱਗਣੀ
✘ 3. ਮਰ ਜਾਣਾ
✔ 4. ਡਰ ਜਾਣਾ

Question ID : **630680248316**
Option 1 ID : **630680963408**
Option 2 ID : **630680963410**
Option 3 ID : **630680963409**
Option 4 ID : **630680963407**
Status : **Answered**
Chosen Option : **4**

Website - www.dailyjobalert.in

Q.40 "ਹੱਥ ਪੈਰ ਮਾਰਨਾ" ਮੁਹਾਵਰੇ ਦਾ ਅਰਥ ਹੈ:-

Ans
✗ 1. ਵਡਿਆਈ ਕਰਨੀ
✗ 2. ਕਿਸੇ ਨੂੰ ਕੁੱਟਣਾ
✗ 3. ਬਦਨਾਮੀ ਕਰਨੀ
✓ 4. ਯਤਨ ਕਰਨੇ

Question ID : **630680248317**
Option 1 ID : **630680963414**
Option 2 ID : **630680963412**
Option 3 ID : **630680963411**
Option 4 ID : **630680963413**
Status : **Answered**
Chosen Option : **4**

Q.41 ਕਿਹੜਾ ਸ਼ਬਦ ਅਸ਼ੁੱਧ ਹੈ?

Ans
✓ 1. ਉਨਾ
✗ 2. ਸਵਾਗਤ
✗ 3. ਵਿਅਰਥ
✗ 4. ਨਿੱਘਾ

Question ID : **630680248343**
Option 1 ID : **630680963516**
Option 2 ID : **630680963518**
Option 3 ID : **630680963515**
Option 4 ID : **630680963517**
Status : **Answered**
Chosen Option : **1**

Q.42 "ਝੋਟਾ" ਸ਼ਬਦ ਦਾ ਬਹੁਵਚਨ ਹੈ:-

Ans
✓ 1. ਝੋਟੇ
✗ 2. ਝੋਟ
✗ 3. ਝੋਟੀ
✗ 4. ਝੋਟੀਆਂ

Question ID : **630680248323**
Option 1 ID : **630680963436**
Option 2 ID : **630680963435**
Option 3 ID : **630680963437**
Option 4 ID : **630680963438**
Status : **Answered**
Chosen Option : **1**

Q.43 'ਲਾਹੇਵੰਦ' ਸ਼ਬਦ ਵਿਚ ਪਿਛੇਤਰ ਹੈ:-

Ans
✗ 1. ਹੇਵੰਦ
✗ 2. ਲਾਹੇ
✓ 3. ਵੰਦ
✗ 4. ਅੰਦ

Question ID : **630680248332**
Option 1 ID : **630680963472**
Option 2 ID : **630680963474**
Option 3 ID : **630680963473**
Option 4 ID : **630680963471**
Status : **Answered**
Chosen Option : **3**

Website - www.dailyjobalert.in

Q.44 'ਆਪ ਗਲਤੀ ਕਰਕੇ ਗੁੱਸਾ ਦੂਜੇ ਨੂੰ ਕਰਨਾ' ਲਈ ਕਿਸ ਅਖਾਣ ਦੀ ਵਰਤੋਂ ਕੀਤੀ ਜਾਂਦੀ ਹੈ:-

Ans
✔ 1. ਉਲਟਾ ਚੋਰ ਕੋਤਵਾਲ ਨੂੰ ਡਾਂਟੇ।
✘ 2. ਸਾਈਆਂ ਕਿਤੇ, ਵਧਾਈਆਂ ਕਿਤੇ।
✘ 3. ਸੌ ਸੁਨਿਆਰ ਦੀ, ਇਕ ਲੁਹਾਰ ਦੀ।
✘ 4. ਸੱਪ ਵੀ ਮਰ ਜਾਵੇ ਤੇ ਸੋਟੀ ਵੀ ਨਾ ਟੁੱਟੇ।

Question ID : **630680248320**
Option 1 ID : **630680963425**
Option 2 ID : **630680963424**
Option 3 ID : **630680963423**
Option 4 ID : **630680963426**
Status : **Answered**
Chosen Option : **1**

Q.45 ਹੇਠ ਲਿਖਿਆਂ ਵਿਚੋਂ ਸ਼ੁੱਧ ਵਿਕਲਪ ਦੀ ਚੋਣ ਕਰੋ:-

Ans
✔ 1. ਸਮਾਜਿਕ, ਹਮੇਸ਼ਾ, ਸਫਲ, ਪੀੜਤ, ਪਰੀਖਿਆ
✘ 2. ਸਮਾਜਿਕ, ਹਮੇਸ਼, ਸਾਫਲ, ਪੀਡਤ, ਪਰੀਖਿਆ
✘ 3. ਸਮਾਜੀਕ, ਹਮੇਸ਼ਾ, ਸਫਲ, ਪਿੜਤ, ਪਰੀਖਿਆ
✘ 4. ਸਮਾਜਿਕ, ਹਮੇਸ਼ਾ, ਸਫਲ, ਪੀੜਤ, ਪਰਿਖੀਆ

Question ID : **630680248346**
Option 1 ID : **630680963527**
Option 2 ID : **630680963530**
Option 3 ID : **630680963528**
Option 4 ID : **630680963529**
Status : **Answered**
Chosen Option : **1**

Q.46 ਪ੍ਰਸ਼ਨਵਾਚਕ ਚਿੰਨ (?) ਦੀ ਸਹੀ ਵਰਤੋਂ ਕਿਸ ਵਾਕ ਵਿਚ ਹੋਈ ਹੈ?

Ans
✔ 1. ਤੁਸੀਂ ਇਹ ਕਿਤਾਬ ਪੜ੍ਹ ਲਈ ਹੈ?
✘ 2. ਤੁਸੀਂ ? ਇਹ ਕਿਤਾਬ ਪੜ੍ਹ ਲਈ ਹੈ।
✘ 3. ਤੁਸੀਂ ਇਹ ਕਿਤਾਬ? ਪੜ੍ਹ ਲਈ ਹੈ।
✘ 4. ਤੁਸੀਂ ਇਹ ਕਿਤਾਬ ਪੜ੍ਹ ਲਈ? ਹੈ।

Question ID : **630680248348**
Option 1 ID : **630680963537**
Option 2 ID : **630680963535**
Option 3 ID : **630680963536**
Option 4 ID : **630680963538**
Status : **Answered**
Chosen Option : **1**

Q.47 ਤ੍ਰੈਮਾਸਿਕ ਤੋਂ ਕੀ ਭਾਵ ਹੈ?

Ans
✔ 1. 3 ਮਹੀਨੇ
✘ 2. 11 ਮਹੀਨੇ
✘ 3. 7 ਮਹੀਨੇ
✘ 4. 5 ਮਹੀਨੇ

Question ID : **630680248358**
Option 1 ID : **630680963576**
Option 2 ID : **630680963578**
Option 3 ID : **630680963577**
Option 4 ID : **630680963575**
Status : **Answered**
Chosen Option : **1**

Website - www.dailyjobalert.in

Q.48 'ਗੁਨਾਹ' ਸ਼ਬਦ ਨਾਲ ਕਿਹੜਾ ਅਗੇਤਰ ਲਾਇਆ ਜਾ ਸਕਦਾ ਹੈ:-

Ans
1. ਕਰ
2. ਬੇ
3. ਪਰ
4. ਨਿਰ

Question ID : **630680248329**
Option 1 ID : **630680963459**
Option 2 ID : **630680963460**
Option 3 ID : **630680963461**
Option 4 ID : **630680963462**
Status : **Answered**
Chosen Option : **2**

Q.49 'ਤੁਸੀਂ ਕੱਲ੍ਹ ਕਿੱਥੇ ਗਏ ਸੀ?' ਵਾਕ ਹੈ:-

Ans
1. ਸੰਜੁਕਤ ਵਾਕ
2. ਵਿਸਮਿਕ ਵਾਕ
3. ਸਾਧਾਰਨ ਵਾਕ
4. ਪ੍ਰਸ਼ਨਵਾਚਕ ਵਾਕ

Question ID : **630680248336**
Option 1 ID : **630680963487**
Option 2 ID : **630680963488**
Option 3 ID : **630680963490**
Option 4 ID : **630680963489**
Status : **Answered**
Chosen Option : **4**

Q.50 'ਅਸੀਂ ਕਲ੍ਹ ਮਕਾਨ ਨੂੰ _____ ਕਰਾਉਣਾ ਹੈ।' ਵਿਚ ਖਾਲੀ ਸਥਾਨ ਭਰਨ ਦਾ ਸਹੀ ਵਿਕਲਪ ਹੈ:-

Ans
1. ਵੱਡਾ
2. ਰੰਗ
3. ਭਾਰਾ
4. ਦੂਰ

Question ID : **630680248333**
Option 1 ID : **630680963478**
Option 2 ID : **630680963475**
Option 3 ID : **630680963477**
Option 4 ID : **630680963476**
Status : **Answered**
Chosen Option : **2**

Website - www.dailyjobalert.in

PUNJAB POLICE

Police to its last particle is duty

Exam Name	Recruitment for the post of Sub Inspector in Cadres of District and Armed Police 20th Jun to 31st Jul 2023 S2 Paper II and III
Application No	www.dailyjobalert.in
Roll No	Telegram - Daily Job Alert Punjab
Applicant Name	instagram - Daily Job Alert Punjab
Exam Date	01/07/2023
Shift	4:00 PM - 7:00 PM
Subject	Sub Inspector Paper II and III

Section : **Logical and Analytical Reasoning and Data Interpretation**

Q.1 ਇੱਕ ਖਾਸ ਕੋਡ ਭਾਸ਼ਾ ਵਿੱਚ,
A+ B ਦਾ ਮਤਲਬ 'A, B ਦਾ ਪਿਤਾ ਹੈ', ਹੈ
A – B ਦਾ ਮਤਲਬ 'A, B ਦਾ ਭਰਾ ਹੈ' ਹੈ,
A × B ਦਾ ਮਤਲਬ 'A, B ਦੀ ਪਤਨੀ ਹੈ' ਹੈ,
A ÷ B ਦਾ ਮਤਲਬ 'A, B ਦਾ ਪੁੱਤਰ ਹੈ' ਹੈ।
ਉਪਰੋਕਤ ਦੇ ਆਧਾਰ 'ਤੇ, F ਦਾ E ਨਾਲ ਕੀ ਰਿਸ਼ਤਾ ਹੈ ਜੇਕਰ 'E ÷ G × H – D ÷ F + J'?

Ans

✗ 1. ਭਰਾ (Brother)

✓ 2. ਦਾਦਾ (Father's father)

✗ 3. ਚਾਚਾ/ਤਾਇਆ (Father's brother)

✗ 4. ਪਿਤਾ (Father)

Question ID : **630680125305**
Option 1 ID : **630680485940**
Option 2 ID : **630680485939**
Option 3 ID : **630680485938**
Option 4 ID : **630680485941**
Status : **Answered**
Chosen Option : **2**

Website - www.dailyjobalert.in

Q.2 ਉਸ ਵਿਕਲਪ ਦੀ ਚੋਣ ਕਰੋ ਜੋ ਤੀਜੀ ਸੰਖਿਆ ਨਾਲ ਉਸੇ ਤਰ੍ਹਾਂ ਸੰਬੰਧਿਤ ਹੈ ਜਿਸ ਤਰ੍ਹਾਂ ਦੂਜੀ ਸੰਖਿਆ ਪਹਿਲੀ ਸੰਖਿਆ ਨਾਲ ਸੰਬੰਧਿਤ ਹੈ ਅਤੇ ਛੇਵੀਂ ਸੰਖਿਆ ਪੰਜਵੀਂ ਸੰਖਿਆ ਨਾਲ ਸੰਬੰਧਿਤ ਹੈ।
8 : 81 :: 14 : ? :: 21 : 484

Ans
1. 268
2. 343
3. 196
4. 225

Question ID : **63068048645**
Option 1 ID : **630680187192**
Option 2 ID : **630680187193**
Option 3 ID : **630680187190**
Option 4 ID : **630680187191**
Status : **Answered**
Chosen Option : **1**

Q.3 ਹੇਠਾਂ ਦਿੱਤੇ ਪ੍ਰਸ਼ਨਾਂ ਵਿੱਚੋਂ ਹਰੇਕ ਵਿੱਚ ਤਿੰਨ ਕਥਨ ਦਿੱਤੇ ਗਏ ਹਨ ਅਤੇ ਇਹਨਾਂ ਕਥਨਾਂ ਤੋਂ ਬਾਅਦ ਤਿੰਨ ਸਿੱਟੇ (I), (II) ਅਤੇ (III) ਦਿੱਤੇ ਗਏ ਹਨ। ਤੁਹਾਨੂੰ ਦਿੱਤੇ ਗਏ ਤਿੰਨ ਕਥਨਾਂ ਨੂੰ ਸਹੀ ਮੰਨਣਾ ਪਏਗਾ ਭਾਵੇਂ ਉਹ ਆਮ ਤੌਰ 'ਤੇ ਜਾਣੇ ਜਾਂਦੇ ਤੱਥਾਂ ਤੋਂ ਭਿੰਨ ਜਾਪਦੇ ਹੋਣ। ਸਿੱਟਿਆਂ ਨੂੰ ਪੜ੍ਹੋ ਅਤੇ ਫਿਰ ਆਮ ਤੌਰ 'ਤੇ ਜਾਣੇ ਜਾਂਦੇ ਤੱਥਾਂ ਦੀ ਅਣਦੇਖੀ ਕਰਦੇ ਹੋਏ, ਫੈਸਲਾ ਕਰੋ ਕਿ ਦਿੱਤੇ ਗਏ ਸਿੱਟਿਆਂ ਵਿਚੋਂ ਕਿਹੜੇ, ਦਿੱਤੇ ਗਏ ਤਿੰਨਾਂ ਕਥਨਾਂ ਦੀ ਤਾਰਕਿਕ ਤੌਰ 'ਤੇ ਪਾਲਣਾ ਕਰਦੇ ਹਨ।
ਕਥਨ:
ਸਾਰੇ ਕੱਪ, ਮਗ ਹਨ।
ਸਾਰੇ ਸੌਸਰ, ਪਲੇਟਾਂ ਹਨ।
ਕੋਈ ਕੱਪ, ਪਲੇਟ ਨਹੀਂ ਹੈ।
ਸਿੱਟੇ:
I: ਕੁਝ ਮੱਗ, ਪਲੇਟਾਂ ਨਹੀਂ ਹਨ।
II: ਕੋਈ ਸੌਸਰ, ਕੱਪ ਨਹੀਂ ਹੈ।
III: ਕੁਝ ਪਲੇਟਾਂ, ਮੱਗ ਹੋ ਸਕਦੇ ਹਨ।

Ans
1. ਸਾਰੇ I, II ਅਤੇ III ਪਾਲਣਾ ਕਰਦੇ ਹਨ
2. ਸਿਰਫ਼ I ਅਤੇ II ਪਾਲਣਾ ਕਰਦੇ ਹਨ
3. ਸਿਰਫ਼ II ਅਤੇ III ਪਾਲਣਾ ਕਰਦੇ ਹਨ
4. ਸਿਰਫ਼ I ਪਾਲਣਾ ਕਰਦਾ ਹੈ

Question ID : **630680105923**
Option 1 ID : **630680411636**
Option 2 ID : **630680411637**
Option 3 ID : **630680411638**
Option 4 ID : **630680411635**
Status : **Answered**
Chosen Option : **3**

DAILY JOB Alert ਪੰਜਾਬ

Q.4 ਦਿੱਤੇ ਗਏ ਵਿਕਲਪਾਂ ਵਿੱਚੋਂ ਅੱਖਰ-ਸਮੂਹ (letter-cluster) ਚੁਣੋ ਜੋ ਹੇਠਾਂ ਦਿੱਤੀ ਲੜੀ ਵਿੱਚ ਪ੍ਰਸ਼ਨ ਚਿੰਨ੍ਹ (?) ਨੂੰ ਬਦਲ ਸਕਦਾ ਹੈ।
EFG, FHJ, GJM, ?, INS

Ans
1. HMP
2. HIP
3. HLP
4. HNP

Question ID : **63068048603**
Option 1 ID : **630680187022**
Option 2 ID : **630680187025**
Option 3 ID : **630680187023**
Option 4 ID : **630680187024**
Status : **Answered**
Chosen Option : **3**

Q.5 ਜੇਕਰ ਦਿੱਤੇ ਗਏ ਅੱਖਰ-ਸਮੂਹ ਨੂੰ ਉਲਟ ਕ੍ਰਮ ਵਿੱਚ ਵਿਵਸਥਿਤ ਕੀਤਾ ਜਾਵੇ, ਤਾਂ ਇਸ ਤਰ੍ਹਾਂ ਬਣੀ ਨਵੀਂ ਲੜੀ ਵਿੱਚ ਖੱਬੇ ਸਿਰੇ ਤੋਂ ਪੰਜਵਾਂ ਅੱਖਰ ਕਿਹੜਾ ਹੋਵੇਗਾ?

(ਖੱਬਾ) D Q Z W U X Y B M J E V R T (ਸੱਜਾ)

Ans
1. U
2. M
3. X
4. J

Question ID : **630680172154**
Option 1 ID : **630680667053**
Option 2 ID : **630680667052**
Option 3 ID : **630680667054**
Option 4 ID : **630680667055**
Status : **Answered**
Chosen Option : **4**

Q.6 ਦਿੱਤੀ ਗਈ ਲੜੀ ਵਿੱਚ ਪ੍ਰਸ਼ਨ ਚਿੰਨ੍ਹ (?) ਦੇ ਸਥਾਨ 'ਤੇ ਕੀ ਆਵੇਗਾ?
9, 11, 14, 19, 26, ?

Ans
1. 35
2. 34
3. 37
4. 28

Question ID : **630680122734**
Option 1 ID : **630680475847**
Option 2 ID : **630680475849**
Option 3 ID : **630680475848**
Option 4 ID : **630680475846**
Status : **Answered**
Chosen Option : **1**

Website - www.dailyjobalert.in

Q.7 ਉਸ ਵਿਕਲਪ ਦੀ ਚੋਣ ਕਰੋ ਜੋ ਤੀਜੀ ਸੰਖਿਆ ਨਾਲ ਉਸੇ ਤਰ੍ਹਾਂ ਸੰਬੰਧਿਤ ਹੈ ਜਿਸ ਤਰ੍ਹਾਂ ਦੂਜੀ ਸੰਖਿਆ ਪਹਿਲੀ ਸੰਖਿਆ ਨਾਲ ਸੰਬੰਧਿਤ ਹੈ ਅਤੇ ਛੇਵੀਂ ਸੰਖਿਆ ਪੰਜਵੀਂ ਸੰਖਿਆ ਨਾਲ ਸੰਬੰਧਿਤ ਹੈ।
28 : 70 :: 34 : ? :: 36 : 90

Ans
1. 87
2. 85
3. 83
4. 79

Question ID : **63068062316**
Option 1 ID : **630680240513**
Option 2 ID : **630680240511**
Option 3 ID : **630680240512**
Option 4 ID : **630680240510**
Status : **Answered**
Chosen Option : **4**

Q.8 ਦਿੱਤਾ ਗਿਆ ਪਾਈ ਚਾਰਟ, ਇਕੱਠੇ ਸਾਰੇ ਪੰਜ ਬ੍ਰਾਂਡਾਂ ਦੇ ਵੇਚੇ ਗਏ ਵੌਲੇਟ ਦੀ ਕੁਲ ਸੰਖਿਆ (ਜੋ ਕਿ 400 ਹੈ) ਵਿੱਚੋਂ, ਪੰਜ ਬ੍ਰਾਂਡਾਂ (P, Q, R, S ਅਤੇ T) ਦੇ ਵੇਚੇ ਗਏ ਵੌਲੇਟ ਦੀ ਸੰਖਿਆ ਨੂੰ ਦਰਸਾਉਂਦਾ ਹੈ। ਪਾਈ ਚਾਰਟ ਦਾ ਅਧਿਐਨ ਕਰੋ ਅਤੇ ਦਿੱਤੇ ਗਏ ਸਵਾਲ ਦਾ ਜਵਾਬ ਦਿਓ।

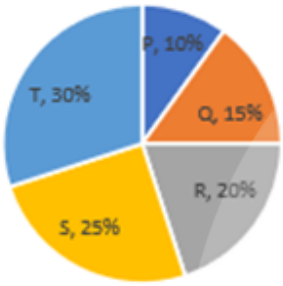

ਵੇਚੇ ਗਏ ਵੌਲੇਟ ਦੀ ਸੰਖਿਆ ਵਿੱਚੋਂ, ਬ੍ਰਾਂਡ P, R ਅਤੇ S, 20%, 30% ਅਤੇ 10%, ਕ੍ਰਮਵਾਰ, ਮਹਿਲਾ ਗਾਹਕਾਂ ਨੂੰ ਵੇਚੇ ਗਏ ਸੀ। ਮਹਿਲਾ ਗਾਹਕਾਂ ਨੂੰ ਵੇਚੇ ਗਏ ਬ੍ਰਾਂਡ P, R ਅਤੇ S ਦੇ ਵੌਲੇਟ ਦੀ ਕੁਲ ਸੰਖਿਆ ਕੀ ਹੈ?

Ans
1. 35
2. 37
3. 42
4. 47

Question ID : **630680161802**
Option 1 ID : **630680626539**
Option 2 ID : **630680626538**
Option 3 ID : **630680626537**
Option 4 ID : **630680626536**
Status : **Answered**
Chosen Option : **1**

Website - www.dailyjobalert.in

Q.9 ਛੇ ਅੱਖਰ J, K, L, M, N ਅਤੇ O ਇੱਕ ਡਾਈਸ ਦੇ ਵੱਖ-ਵੱਖ ਪਾਸਿਆਂ 'ਤੇ ਲਿਖੇ ਹੋਏ ਹਨ। ਹੇਠਾਂ ਦਿੱਤੇ ਚਿੱਤਰ ਵਿੱਚ ਇਸ ਡਾਈਸ ਦੀਆਂ ਦੋ ਸਥਿਤੀਆਂ ਦਿਖਾਈਆਂ ਗਈਆਂ ਹਨ। K ਦੇ ਉਲਟ ਪਾਸੇ ਦਾ ਅੱਖਰ ਪਤਾ ਕਰੋ।

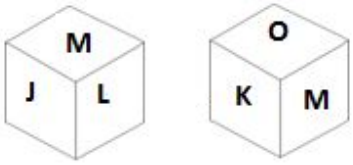

Ans
✗ 1. O
✓ 2. L
✗ 3. J
✗ 4. N

Question ID : **630680180618**
Option 1 ID : **630680699983**
Option 2 ID : **630680699980**
Option 3 ID : **630680699981**
Option 4 ID : **630680699982**
Status : **Answered**
Chosen Option : **3**

Q.10 ਇੱਕ ਖਾਸ ਕੋਡ ਭਾਸ਼ਾ ਵਿੱਚ, 'ARC' ਨੂੰ 'Z9X' ਵੱਜੋਂ ਲਿਖਿਆ ਗਿਆ ਹੈ, ਅਤੇ 'RAIN' ਨੂੰ 'I1R5' ਵੱਜੋਂ ਲਿਖਿਆ ਗਿਆ ਹੈ। ਉਸ ਭਾਸ਼ਾ ਵਿੱਚ 'BALL' ਕਿਵੇਂ ਲਿਖਿਆ ਜਾਵੇਗਾ?

Ans
✗ 1. Y1O4
✗ 2. Y1P3
✗ 3. Y1O2
✓ 4. Y1O3

Question ID : **63068057457**
Option 1 ID : **630680221672**
Option 2 ID : **630680221671**
Option 3 ID : **630680221673**
Option 4 ID : **630680221670**
Status : **Answered**
Chosen Option : **1**

Website - www.dailyjobalert.in

Q.11 A, B, C, D, E ਅਤੇ F ਵੱਖ-ਵੱਖ ਉਮਰਾਂ ਦੇ ਹਨ। B, F ਤੋਂ ਦੋ ਸਾਲ ਛੋਟਾ ਹੈ ਅਤੇ C ਤੋਂ 20 ਸਾਲ ਵੱਡਾ ਹੈ। C, D ਤੋਂ ਪੰਜ ਸਾਲ ਵੱਡਾ ਹੈ। E, B ਤੋਂ ਦੋ ਸਾਲ ਛੋਟਾ ਹੈ। A, F ਤੋਂ 3 ਸਾਲ ਵੱਡਾ ਹੈ। D ਦੀ ਉਮਰ, A ਦੀ ਉਮਰ ਦਾ ਵਰਗ ਮੂਲ ਹੈ ਜੋ ਕਿ 36 ਹੈ। 2 ਸਾਲਾਂ ਬਾਅਦ, A ਦੂਜੇ ਦੇਸ਼ ਵਿੱਚ ਜਾਂਦਾ ਹੈ ਅਤੇ F ਅਤੇ C, D ਦੀ ਦੇਖਭਾਲ ਕਰਦੇ ਹਨ। ਹੋਰ 2 ਸਾਲਾਂ ਬਾਅਦ, C ਨੂੰ ਦੂਜੇ ਦੇਸ਼ ਵਿੱਚ ਜਾਣਾ ਪੈਂਦਾ ਹੈ ਅਤੇ F ਨੂੰ D ਦੀ ਦੇਖਭਾਲ ਕਰਨੀ ਪੈਂਦੀ ਹੈ। B, F ਦੀ ਮਦਦ ਲਈ ਆਉਂਦਾ ਹੈ। ਤਿੰਨ ਸਾਲਾਂ ਬਾਅਦ, B ਯਾਤਰਾ ਕਰਦਾ ਹੈ, ਇਸ ਲਈ, E, F ਦੀ ਮਦਦ ਲਈ ਆਉਂਦਾ ਹੈ। ਇੱਕ ਸਾਲ ਬਾਅਦ, F ਯਾਤਰਾ ਕਰਦਾ ਹੈ, ਇਸ ਲਈ, E ਅਤੇ D ਇਕੱਠੇ ਰਹਿੰਦੇ ਹਨ। ਜਦੋਂ ਉਹ D ਦੀ ਮਦਦ ਲਈ ਆਇਆ ਤਾਂ E ਦੀ ਉਮਰ ਕਿੰਨੀ ਸੀ?

Ans
✗ 1. 30
✗ 2. 34
✓ 3. 36
✗ 4. 37

Question ID : **63068078958**
Option 1 ID : **630680305872**
Option 2 ID : **630680305871**
Option 3 ID : **630680305869**
Option 4 ID : **630680305870**
Status : **Answered**
Chosen Option : **1**

Q.12 ਜੇਕਰ ਘੜੀ ਵਿੱਚ ਮਿੰਟਾਂ ਵਾਲੀ ਸੂਈ ਉੱਤਰ ਦਿਸ਼ਾ ਵੱਲ ਇਸ਼ਾਰਾ ਕਰ ਰਹੀ ਹੈ, ਤਾਂ 45 ਮਿੰਟ ਬਾਅਦ, ਮਿੰਟਾਂ ਵਾਲੀ ਸੂਈ ਕਿਸ ਦਿਸ਼ਾ ਵੱਲ ਇਸ਼ਾਰਾ ਕਰੇਗੀ?

Ans
✗ 1. ਉੱਤਰ
✗ 2. ਦੱਖਣ
✗ 3. ਪੂਰਬ
✓ 4. ਪੱਛਮ

Question ID : **630680106025**
Option 1 ID : **630680412001**
Option 2 ID : **630680412002**
Option 3 ID : **630680411999**
Option 4 ID : **630680412000**
Status : **Answered**
Chosen Option : **2**

DAILY JOB Alert ਪੰਜਾਬ

Q.13 ਕੁਝ ਵਿਅਕਤੀ ਉੱਤਰ ਵੱਲ ਮੁੰਹ ਕਰਕੇ ਇੱਕ ਕਤਾਰ ਵਿੱਚ ਬੈਠੇ ਹਨ। B ਕਤਾਰ ਦੇ ਸਿਰਿਆਂ ਵਿਚੋਂ ਇੱਕ ਸਿਰੇ 'ਤੇ ਬੈਠਾ ਹੈ। G, L ਦੇ ਸੱਜੇ ਪਾਸੇ ਦੂਜੇ ਸਥਾਨ 'ਤੇ ਬੈਠਾ ਹੈ। M, G ਦੇ ਖੱਬੇ ਪਾਸੇ ਛੇਵੇਂ ਸਥਾਨ 'ਤੇ ਬੈਠਾ ਹੈ। B ਅਤੇ M ਦੇ ਵਿਚਕਾਰ ਠੀਕ ਦੋ ਵਿਅਕਤੀ ਬੈਠੇ ਹਨ। ਜੇਕਰ ਕੋਈ ਹੋਰ ਵਿਅਕਤੀ ਕਤਾਰ ਵਿੱਚ ਨਹੀਂ ਬੈਠਾ ਹੈ, ਤਾਂ ਕਤਾਰ ਵਿੱਚ ਬੈਠੇ ਵਿਅਕਤੀਆਂ ਦੀ ਕੁੱਲ ਗਿਣਤੀ ਕਿੰਨੀ ਹੋਵੇਗੀ?

Ans
1. 13
2. 10
3. 11
4. 12

Question ID : **630680112283**
Option 1 ID : **630680434849**
Option 2 ID : **630680434846**
Option 3 ID : **630680434847**
Option 4 ID : **630680434848**
Status : **Answered**
Chosen Option : **2**

Q.14 ਦਿੱਤੀ ਗਈ ਲੜੀ ਵਿੱਚ ਪ੍ਰਸ਼ਨ ਚਿੰਨ੍ਹ (?) ਦੇ ਸਥਾਨ 'ਤੇ ਕੀ ਆਵੇਗਾ?
53 59 61 67 71 73 79 ?

Ans
1. 80
2. 81
3. 82
4. 83

Question ID : **630680128445**
Option 1 ID : **630680497518**
Option 2 ID : **630680497519**
Option 3 ID : **630680497520**
Option 4 ID : **630680497521**
Status : **Answered**
Chosen Option : **3**

Q.15 ਚਾਰ ਅੱਖਰ-ਸਮੂਹ (letter-clusters) ਦਿੱਤੇ ਗਏ ਹਨ ਜਿਨ੍ਹਾਂ ਵਿੱਚੋਂ ਤਿੰਨ ਕਿਸੇ ਨਾ ਕਿਸੇ ਢੰਗ ਨਾਲ ਇੱਕੋ ਜਿਹੇ ਹਨ ਅਤੇ ਇੱਕ ਵੱਖਰਾ ਹੈ। ਉਹ ਇੱਕ ਚੁਣੋ, ਜੋ ਵੱਖਰਾ ਹੈ।

Ans
1. PLS
2. FBI
3. UQX
4. WSY

Question ID : **63068077068**
Option 1 ID : **630680298370**
Option 2 ID : **630680298371**
Option 3 ID : **630680298369**
Option 4 ID : **630680298372**
Status : **Answered**
Chosen Option : **3**

Website - www.dailyjobalert.in

Q.16 ਦਿੱਤੀ ਗਈ ਲੜੀ ਨੂੰ ਤਾਰਕਿਕ ਤੌਰ 'ਤੇ ਪੂਰਾ ਕਰਨ ਲਈ ਪ੍ਰਸ਼ਨ ਚਿੰਨ੍ਹ (?) ਦੇ ਸਥਾਨ 'ਤੇ ਕੀ ਆਉਣਾ ਚਾਹੀਦਾ ਹੈ?
JPG5, KRJ10, LTM15, MVP20, ?

Ans
✔ 1. NXS25

✘ 2. NYT25

✘ 3. MXT25

✘ 4. NZS30

Question ID : **630680105675**
Option 1 ID : **630680410737**
Option 2 ID : **630680410736**
Option 3 ID : **630680410735**
Option 4 ID : **630680410738**
Status : **Answered**
Chosen Option : **1**

Q.17 ਸੰਖਿਆਵਾਂ ਅਤੇ ਚਿੰਨ੍ਹਾਂ ਦੇ ਸਮੂਹ ਨੂੰ, ਹੇਠਾਂ ਦਿੱਤੇ ਕੋਡਾਂ ਅਤੇ ਇਸ ਤੋਂ ਬਾਅਦ ਦਿੱਤੀਆਂ ਸ਼ਰਤਾਂ ਦੇ ਅਨੁਸਾਰ ਅੱਖਰ-ਕੋਡਾਂ ਦੀ ਵਰਤੋਂ ਕਰਕੇ ਕੋਡਬੱਧ ਕੀਤਾ ਜਾਂਦਾ ਹੈ। ਦਿੱਤੇ ਗਏ ਕੋਡਾਂ ਅਤੇ ਸ਼ਰਤਾਂ ਦਾ ਅਧਿਐਨ ਕਰੋ ਅਤੇ ਹੇਠਾਂ ਦਿੱਤੇ ਪ੍ਰਸ਼ਨ ਦਾ ਉੱਤਰ ਦਿਓ।

Numbers/symbols	6	%	4	5	$	8	#	9	+	3	*	&	7	2
Codes	R	D	E	L	J	K	G	F	P	N	M	Z	A	H

Numbers/Symbols=ਸੰਖਿਆ/ਚਿੰਨ੍ਹ, **Codes**=ਕੋਡ

ਸ਼ਰਤਾਂ -
(i)ਜੇਕਰ ਦੂਜਾ ਤੱਤ ਅਤੇ ਆਖਰੀ ਤੱਤ ਪੂਰਨ ਵਰਗ ਹਨ, ਤਾਂ ਦੂਜੇ ਅਤੇ ਆਖਰੀ ਤੱਤ ਨੂੰ © ਵਜੋਂ ਕੋਡਬੱਧ ਕੀਤਾ ਜਾਣਾ ਹੈ।

(ii)ਜੇਕਰ ਪਹਿਲਾ ਅਤੇ ਚੌਥਾ ਤੱਤ ਜਿਸਤ ਸੰਖਿਆਵਾਂ ਹਨ, ਤਾਂ ਪਹਿਲੇ ਤੱਤ ਨੂੰ ਚੌਥੇ ਤੱਤ ਦੇ ਕੋਡ ਵਜੋਂ ਕੋਡ ਕੀਤਾ ਜਾਣਾ ਹੈ।

(iii)ਜੇਕਰ ਦੂਜੇ ਅਤੇ ਤੀਜੇ ਤੱਤ ਦੋਵੇਂ ਚਿੰਨ੍ਹ ਹਨ, ਤਾਂ ਇਨ੍ਹਾਂ ਦੋਵਾਂ (ਦੂਜੇ ਅਤੇ ਤੀਜੇ ਤੱਤ) ਦੇ ਕੋਡਾਂ ਨੂੰ ਆਪਸ ਵਿੱਚ ਬਦਲਿਆ ਜਾਣਾ ਹੈ।

ਇਸ ਲਈ ਹੇਠਾਂ ਦਿੱਤੇ ਸਮੂਹ ਦਾ ਕੋਡ ਕੀ ਹੋਵੇਗਾ?
2 4 & $ 9

Ans
✘ 1. © H Z © J

✘ 2. H Z E J F

✔ 3. H © Z J ©

✘ 4. J E Z J F

Question ID : **630680161477**
Option 1 ID : **630680625238**
Option 2 ID : **630680625239**
Option 3 ID : **630680625236**
Option 4 ID : **630680625237**
Status : **Answered**
Chosen Option : **3**

Website - www.dailyjobalert.in

Q.18 ਉੱਤਰ ਵੱਲ ਮੂੰਹ ਕਰਕੇ ਖੜ੍ਹੇ ਲੋਕਾਂ ਦੀ ਇੱਕ ਕਤਾਰ ਵਿੱਚ, ਰਾਜਪਾਲ ਸੱਜੇ ਸਿਰੇ ਤੋਂ 7ਵੇਂ ਸਥਾਨ 'ਤੇ ਖੜ੍ਹਾ ਹੈ। ਸੀਮਾ ਸੱਜੇ ਸਿਰੇ ਤੋਂ 15ਵੇਂ ਸਥਾਨ 'ਤੇ ਖੜ੍ਹੀ ਹੈ। ਸੀਮਾ, ਰਾਜਪਾਲ ਅਤੇ ਟੀਨਾ ਦੇ ਠੀਕ ਵਿਚਕਾਰ ਖੜ੍ਹੀ ਹੈ। ਜੇਕਰ ਟੀਨਾ ਕਤਾਰ ਦੇ ਖੱਬੇ ਸਿਰੇ ਤੋਂ 10ਵੇਂ ਸਥਾਨ 'ਤੇ ਖੜ੍ਹੀ ਹੈ, ਤਾਂ ਕਤਾਰ ਵਿੱਚ ਕੁੱਲ ਕਿੰਨੇ ਵਿਅਕਤੀ ਹਨ?

Ans
✗ 1. 34
✓ 2. 32
✗ 3. 31
✗ 4. 33

Question ID : **630680107010**
Option 1 ID : **630680415507**
Option 2 ID : **630680415505**
Option 3 ID : **630680415504**
Option 4 ID : **630680415506**
Status : **Answered**
Chosen Option : **3**

Q.19 ਉਸ ਵਿਕਲਪ ਦੀ ਚੋਣ ਕਰੋ ਜਿਸ ਵਿੱਚ ਤਿੱਕੜੀ ਉਹੀ ਸੰਬੰਧ ਸਾਂਝਾ ਕਰਦੀ ਹੈ ਜੋ ਦਿੱਤੀ ਗਈ ਤਿੱਕੜੀ ਦੁਆਰਾ ਸਾਂਝਾ ਕੀਤਾ ਗਿਆ ਹੈ।
OM – SI – QF

Ans
✓ 1. KX – OT – MQ
✗ 2. JS – NW – LS
✗ 3. MC –QY – SV
✗ 4. TL – XH – UD

Question ID : **63068060333**
Option 1 ID : **630680232868**
Option 2 ID : **630680232869**
Option 3 ID : **630680232867**
Option 4 ID : **630680232866**
Status : **Answered**
Chosen Option : **1**

Q.20 ਦਿੱਤੇ ਗਏ ਵਿਕਲਪਾਂ ਵਿੱਚੋਂ ਤਿੰਨ ਇੱਕ ਖਾਸ ਢੰਗ ਨਾਲ ਇੱਕੋ ਜਿਹੇ ਹਨ ਅਤੇ ਇਸ ਤਰ੍ਹਾਂ ਇੱਕ ਸਮੂਹ ਬਣਾਉਂਦੇ ਹਨ। ਉਹ ਕਿਹੜਾ ਹੈ ਜੋ ਉਸ ਸਮੂਹ ਨਾਲ ਸੰਬੰਧਿਤ ਨਹੀਂ ਹੈ?

Ans
✗ 1. EHJLP
✗ 2. HKMOS
✓ 3. KNPRT
✗ 4. BEGIM

Question ID : **630680104910**
Option 1 ID : **630680407771**
Option 2 ID : **630680407773**
Option 3 ID : **630680407774**
Option 4 ID : **630680407772**
Status : **Answered**
Chosen Option : **4**

DAILY JOB Alert

Q.21 ਉਹ ਵਿਕਲਪ ਦੀ ਚੋਣ ਕਰੋ ਜਿਸ ਵਿੱਚ ਅੱਖਰ-ਸਮੂਹ (letter-clusters) ਉਹੀ ਸੰਬੰਧ ਸਾਂਝੇ ਕਰਦੇ ਹਨ ਜੋ ਅੱਖਰ-ਸਮੂਹ ਦੇ ਦਿੱਤੇ ਜੋੜੇ ਦੁਆਰਾ ਸਾਂਝਾ ਕੀਤਾ ਗਿਆ ਹੈ।

ICE : ZTV

Ans
1. AZB : DUI
2. KBJ : RJF
3. GCE : KCG
4. HBD : YSU

Question ID : **63068050136**
Option 1 ID : **630680192866**
Option 2 ID : **630680192869**
Option 3 ID : **630680192868**
Option 4 ID : **630680192867**
Status : **Answered**
Chosen Option : **1**

Q.22 ਜੇਕਰ ਬੀਤੇ ਕੱਲ੍ਹ ਤੋਂ ਪਹਿਲਾਂ ਦਾ ਦਿਨ ਸ਼ੁੱਕਰਵਾਰ ਸੀ, ਤਾਂ ਆਉਣ ਵਾਲੇ ਕੱਲ੍ਹ ਤੋਂ ਅਗਲਾ ਦਿਨ ਹਫ਼ਤੇ ਦਾ ਕਿਹੜਾ ਦਿਨ ਹੋਵੇਗਾ?

Ans
1. ਮੰਗਲਵਾਰ
2. ਐਤਵਾਰ
3. ਸੋਮਵਾਰ
4. ਬੁੱਧਵਾਰ

Question ID : **630680117485**
Option 1 ID : **630680455188**
Option 2 ID : **630680455186**
Option 3 ID : **630680455187**
Option 4 ID : **630680455189**
Status : **Answered**
Chosen Option : **3**

Q.23 ਉਸ ਅੱਖਰ-ਸਮੂਹ (letter-cluster) ਦੀ ਚੋਣ ਕਰੋ ਜੋ ਹੇਠਾਂ ਦਿੱਤੀ ਲੜੀ ਵਿੱਚ ਅਗਲੇ ਸਥਾਨ 'ਤੇ ਆਵੇਗਾ।
OPO, QRQ, STS, UVU, ____

Ans
1. XYX
2. WXW
3. VWV
4. YXY

Question ID : **63068048589**
Option 1 ID : **630680186968**
Option 2 ID : **630680186967**
Option 3 ID : **630680186966**
Option 4 ID : **630680186969**
Status : **Answered**
Chosen Option : **2**

Website - www.dailyjobalert.in

Q.24 ਉਸ ਵਿਕਲਪ ਦੀ ਚੋਣ ਕਰੋ ਜਿਸ ਵਿੱਚ ਤਿੱਕੜੀ ਉਹੀ ਸੰਬੰਧ ਸਾਂਝਾ ਕਰਦੀ ਹੈ ਜੋ ਦਿੱਤੀ ਗਈ ਤਿੱਕੜੀ ਦੁਆਰਾ ਸਾਂਝਾ ਕੀਤਾ ਗਿਆ ਹੈ।
MILD – DLIM – HIMJ

Ans
1. SLIP – PILS – SEOO
2. GLUE – EUGL – IRKI
3. FILE – ELIF – IOMI
4. NOTE – ETON – IQSK

Question ID : **63068060339**
Option 1 ID : **630680232892**
Option 2 ID : **630680232893**
Option 3 ID : **630680232891**
Option 4 ID : **630680232890**
Status : **Answered**
Chosen Option : **3**

Q.25 ਕਿਸੇ ਕੋਡ ਭਾਸ਼ਾ ਵਿੱਚ, 'RANK' ਨੂੰ SDSR ਵਜੋਂ ਅਤੇ 'LOST' ਨੂੰ MRXA ਵਜੋਂ ਕੋਡਬੱਧ ਕੀਤਾ ਗਿਆ ਹੈ। ਉਸੇ ਭਾਸ਼ਾ ਵਿੱਚ 'HEAD' ਨੂੰ ਕਿਵੇਂ ਕੋਡਬੱਧ ਕੀਤਾ ਜਾਵੇਗਾ?

Ans
1. IHFK
2. JFHK
3. IFHL
4. JHFL

Question ID : **630680147825**
Option 1 ID : **630680572015**
Option 2 ID : **630680572017**
Option 3 ID : **630680572016**
Option 4 ID : **630680572014**
Status : **Answered**
Chosen Option : **1**

Q.26 ਹੇਠਾਂ ਦਿੱਤੇ ਚਾਰ ਅੱਖਰ-ਸਮੂਹ (letter-cluster) ਜੋੜਿਆਂ ਵਿੱਚੋਂ ਤਿੰਨ ਇੱਕ ਖਾਸ ਤਰੀਕੇ ਨਾਲ ਇੱਕੋ ਜਿਹੇ ਹਨ ਅਤੇ ਇਸ ਤਰ੍ਹਾਂ ਇੱਕ ਸਮੂਹ ਬਣਾਉਂਦੇ ਹਨ। ਉਹ ਕਿਹੜਾ ਹੈ ਜੋ ਉਸ ਸਮੂਹ ਨਾਲ ਸੰਬੰਧਤ ਨਹੀਂ ਹੈ?

Ans
1. NPRT : MKIG
2. RTVW : IGFD
3. FHJL : USQO
4. PRST : KIHG

Question ID : **630680104909**
Option 1 ID : **630680407768**
Option 2 ID : **630680407770**
Option 3 ID : **630680407767**
Option 4 ID : **630680407769**
Status : **Answered**
Chosen Option : **3**

Website - www.dailyjobalert.in

Q.27 ਉਸ ਵਿਕਲਪ ਦੀ ਚੋਣ ਕਰੋ ਜੋ ਪੰਜਵੀਂ ਸੰਖਿਆ ਨਾਲ ਉਸੇ ਤਰ੍ਹਾਂ ਸੰਬੰਧਿਤ ਹੈ ਜਿਸ ਤਰ੍ਹਾਂ ਚੌਥੀ ਸੰਖਿਆ ਤੀਜੀ ਸੰਖਿਆ ਨਾਲ ਸੰਬੰਧਿਤ ਹੈ ਅਤੇ ਦੂਜੀ ਸੰਖਿਆ ਪਹਿਲੀ ਸੰਖਿਆ ਨਾਲ ਸੰਬੰਧਿਤ ਹੈ।
87 : 72 :: 75 : 63 :: 99 : ?

Ans
✔ 1. 81
✘ 2. 87
✘ 3. 84
✘ 4. 85

Question ID : **63068062310**
Option 1 ID : **630680240487**
Option 2 ID : **630680240488**
Option 3 ID : **630680240486**
Option 4 ID : **630680240489**
Status : **Answered**
Chosen Option : **2**

Q.28 6 ਵਿਦਿਆਰਥੀਆਂ A, B, C, D, E ਅਤੇ F ਨੇ ਆਪਣੀਆਂ ਪ੍ਰੀਖਿਆਵਾਂ ਵਿੱਚ ਅੰਕ ਪ੍ਰਾਪਤ ਕੀਤੇ। ਉਹ ਹਰ ਇੱਕ ਤਿੰਨ ਵੱਖ-ਵੱਖ ਪ੍ਰੀਖਿਆਵਾਂ ਵਿੱਚ ਸ਼ਾਮਲ ਹੋਏ ਸਨ। A ਨੇ ਪਹਿਲੀ ਪ੍ਰੀਖਿਆ ਵਿੱਚ B ਦੇ ਸਕੋਰ ਦੇ 50% ਅੰਕ ਪ੍ਰਾਪਤ ਕੀਤੇ। B ਨੇ ਦੂਜੀ ਅਤੇ ਤੀਜੀ ਪ੍ਰੀਖਿਆ ਵਿੱਚ ਕੁੱਲ 100 ਅੰਕ ਪ੍ਰਾਪਤ ਕੀਤੇ ਅਤੇ ਪਹਿਲੀ ਪ੍ਰੀਖਿਆ ਵਿੱਚ C ਦੇ ਸਕੋਰ ਨਾਲੋਂ 10% ਘੱਟ ਅੰਕ ਪ੍ਰਾਪਤ ਕੀਤੇ, ਜੋ ਕਿ 90 ਸੀ। D ਅਤੇ E ਨੇ ਪਹਿਲੀਆਂ ਦੋ ਪ੍ਰੀਖਿਆਵਾਂ ਵਿੱਚ 85 ਅੰਕ ਪ੍ਰਾਪਤ ਕੀਤੇ। F ਨੇ ਤੀਜੀ ਪ੍ਰੀਖਿਆ ਵਿੱਚ D ਨਾਲੋਂ 20% ਘੱਟ ਅੰਕ ਪ੍ਰਾਪਤ ਕੀਤੇ। E ਨੇ ਤੀਸਰੀ ਪ੍ਰੀਖਿਆ ਵਿੱਚ D ਨਾਲੋਂ 10 ਵੱਧ ਅੰਕ ਪ੍ਰਾਪਤ ਕੀਤੇ। D ਨੇ ਤੀਜੀ ਪ੍ਰੀਖਿਆ ਵਿੱਚ 40 ਅੰਕ ਪ੍ਰਾਪਤ ਕੀਤੇ। F ਨੇ ਦੂਜੀ ਅਤੇ ਪਹਿਲੀ ਪ੍ਰੀਖਿਆ ਵਿੱਚ ਕੁੱਲ 120 ਅੰਕ ਪ੍ਰਾਪਤ ਕੀਤੇ। C ਨੇ ਦੂਜੀ ਅਤੇ ਤੀਜੀ ਪ੍ਰੀਖਿਆ ਵਿੱਚ ਕੁੱਲ 90 ਅੰਕ ਪ੍ਰਾਪਤ ਕੀਤੇ। ਨਾਲ ਹੀ, A ਨੇ ਦੂਜੀ ਅਤੇ ਤੀਜੀ ਪ੍ਰੀਖਿਆ ਵਿੱਚ ਕੁੱਲ 85 ਅੰਕ ਪ੍ਰਾਪਤ ਕੀਤੇ।
C ਦਾ ਕੁੱਲ ਸਕੋਰ ਕਿੰਨਾ ਹੈ?

Ans
✔ 1. 180
✘ 2. 125
✘ 3. 100
✘ 4. 90

DAILY JOB Alert ਪੰਜਾਬ

Question ID : **63068078946**
Option 1 ID : **630680305823**
Option 2 ID : **630680305822**
Option 3 ID : **630680305824**
Option 4 ID : **630680305821**
Status : **Answered**
Chosen Option : **4**

Q.29 ਦਿੱਤੀ ਗਈ ਲੜੀ ਨੂੰ ਤਾਰਕਿਕ ਤੌਰ 'ਤੇ ਪੂਰਾ ਕਰਨ ਲਈ ਇਸ ਵਿੱਚ ? ਦੀ ਥਾਂ 'ਤੇ ਕੀ ਆਉਣਾ ਚਾਹੀਦਾ ਹੈ?
ZW120, UR103, PM88, KH75, ?

Ans
✗ 1. EC65
✗ 2. EB65
✗ 3. EC64
✓ 4. FC64

Question ID : **630680109261**
Option 1 ID : **630680423827**
Option 2 ID : **630680423826**
Option 3 ID : **630680423824**
Option 4 ID : **630680423825**
Status : **Answered**
Chosen Option : **1**

Q.30 ਇੱਥੇ ਛੇ ਵਿਅਕਤੀ M, N, O, P, Q ਅਤੇ R ਹਨ ਅਤੇ ਹਰੇਕ ਦੀ ਉਮਰ ਵੱਖਰੀ ਹੈ। M, Q ਤੋਂ 4 ਸਾਲ ਵੱਡਾ ਹੈ, ਜੋ P ਤੋਂ 6 ਸਾਲ ਵੱਡਾ ਹੈ। M, R ਤੋਂ 2 ਸਾਲ ਛੋਟਾ ਹੈ ਪਰ N ਤੋਂ 8 ਸਾਲ ਵੱਡਾ ਹੈ। O, Q ਅਤੇ P ਤੋਂ ਛੋਟਾ ਹੈ। ਸਾਰੇ ਛੇ ਦੋਸਤਾਂ ਵਿੱਚੋਂ ਸਭ ਤੋਂ ਵੱਡਾ ਕੌਣ ਹੈ ?

Ans
✓ 1. R
✗ 2. N
✗ 3. M
✗ 4. Q

Question ID : **630680105667**
Option 1 ID : **630680410703**
Option 2 ID : **630680410706**
Option 3 ID : **630680410704**
Option 4 ID : **630680410705**
Status : **Answered**
Chosen Option : **3**

Q.31 ਅਮਨ ਆਪਣੇ ਘਰ ਤੋਂ ਪੱਛਮ ਵੱਲ ਨਿਕਲਦਾ ਹੈ। 10 m ਤੱਕ ਚੱਲਣ ਤੋਂ ਬਾਅਦ, ਉਹ ਸੱਜੇ ਪਾਸੇ ਮੁੜਦਾ ਹੈ ਅਤੇ 15 m ਤੱਕ ਚੱਲਦਾ ਹੈ। ਉਹ ਫਿਰ ਖੱਬੇ ਪਾਸੇ ਮੁੜਦਾ ਹੈ ਅਤੇ 5 m ਤੱਕ ਚੱਲਦਾ ਹੈ। ਉਹ ਫਿਰ ਖੱਬੇ ਪਾਸੇ ਮੁੜਦਾ ਹੈ ਅਤੇ 20 m ਤੱਕ ਚੱਲਦਾ ਹੈ। ਉਹ ਇੱਕ ਵਾਰ ਫਿਰ ਖੱਬੇ ਪਾਸੇ ਮੁੜਦਾ ਹੈ ਅਤੇ 5 m ਤੱਕ ਚੱਲਦਾ ਹੈ। ਅੰਤ ਵਿੱਚ ਉਹ ਖੱਬੇ ਪਾਸੇ ਮੁੜਦਾ ਹੈ। ਹੁਣ ਉਹ ਕਿਸ ਦਿਸ਼ਾ ਵੱਲ ਤੁਰੇਗਾ?

Ans
✗ 1. ਦੱਖਣ
✓ 2. ਉੱਤਰ
✗ 3. ਪੱਛਮ
✗ 4. ਪੂਰਬ

Question ID : **630680172764**
Option 1 ID : **630680669458**
Option 2 ID : **630680669459**
Option 3 ID : **630680669456**
Option 4 ID : **630680669457**
Status : **Answered**
Chosen Option : **1**

Website - www.dailyjobalert.in

Q.32 ਦਿੱਤੀ ਗਈ ਲੜੀ ਨੂੰ ਤਰਕਸੰਗਤ ਢੰਗ ਨਾਲ ਪੂਰਾ ਕਰਨ ਲਈ ਇਸ ਵਿੱਚ ਪ੍ਰਸ਼ਨ ਚਿੰਨ੍ਹ (?) ਦੇ ਸਥਾਨ 'ਤੇ ਕੀ ਆਵੇਗਾ?

L14B, N17C, P21E, R26H, ?

Ans
✔ 1. T32L
✘ 2. S33N
✘ 3. T36N
✘ 4. S29L

Question ID : **630680113942**
Option 1 ID : **630680441236**
Option 2 ID : **630680441237**
Option 3 ID : **630680441235**
Option 4 ID : **630680441234**
Status : **Answered**
Chosen Option : **1**

Q.33 ਦਿੱਤੇ ਗਏ ਅੱਖਰ-ਸਮੂਹ ਵਿੱਚ, ਖੱਬੇ ਸਿਰੇ ਤੋਂ ਚੌਥੇ ਅੱਖਰ ਦੇ ਸੱਜੇ ਪਾਸੇ ਪੰਜਵਾਂ ਅੱਖਰ ਕਿਹੜਾ ਹੋਵੇਗਾ?

(ਖੱਬੇ) C U X Z A G K M R O W Y B (ਸੱਜੇ)

Ans
✘ 1. O
✘ 2. M
✘ 3. K
✔ 4. R

Question ID : **630680172160**
Option 1 ID : **630680667079**
Option 2 ID : **630680667077**
Option 3 ID : **630680667076**
Option 4 ID : **630680667078**
Status : **Answered**
Chosen Option : **2**

Website - www.dailyjobalert.in

Q.34 ਪ੍ਰਸ਼ਨ:

'A * B' ਦਾ ਮਤਲਬ ਹੈ ਕਿ 'A, B ਦੀ ਪਤੀ ਹੈ'

'A + B' ਦਾ ਮਤਲਬ ਹੈ ਕਿ 'A, B ਦੀ ਨੂੰਹ ਹੈ'

'A ÷ B' ਦਾ ਮਤਲਬ ਹੈ 'A, B ਦੀ ਭੈਣ ਹੈ'

'A - B' ਦਾ ਮਤਲਬ ਹੈ ਕਿ 'A, B ਦਾ ਪੁੱਤਰ ਹੈ'

'P ÷ R − O * W + D' ਸਮੀਕਰਨ ਵਿੱਚ R ਦਾ D ਨਾਲ ਕੀ ਰਿਸ਼ਤਾ ਹੈ?

Ans
✗ 1. ਪਤੀ (Husband)

✓ 2. ਪੋਤਾ (Son's son)

✗ 3. ਪੁੱਤਰ (Son)

✗ 4. ਜਵਾਈ (Son-in-law)

Question ID : **630680127365**
Option 1 ID : **630680493730**
Option 2 ID : **630680493729**
Option 3 ID : **630680493728**
Option 4 ID : **630680493731**
Status : **Answered**
Chosen Option : **4**

Q.35 ਜੇਕਰ 1 ਜਨਵਰੀ 1996 ਨੂੰ ਸੋਮਵਾਰ ਸੀ, ਤਾਂ 1996 ਵਿੱਚ ਕਿੰਨੇ ਸੋਮਵਾਰ ਸਨ?

Ans
✓ 1. 53

✗ 2. 54

✗ 3. 51

✗ 4. 52

Question ID : **630680127065**
Option 1 ID : **630680492759**
Option 2 ID : **630680492758**
Option 3 ID : **630680492760**
Option 4 ID : **630680492761**
Status : **Answered**
Chosen Option : **2**

DAILY JOB Alert ਪੰਜਾਬ

Q.36 ਛਿਆਲੀ ਕੁੜੀਆਂ ਇੱਕ ਕਤਾਰ ਵਿੱਚ ਬੈਠੀਆਂ ਹਨ। ਸਤੀ ਖੱਬੇ ਤੋਂ ਸੋਲ੍ਹਵੀਂ ਹੈ। ਸੱਜੇ ਤੋਂ ਉਸਦੀ ਸਥਿਤੀ ਕਿਹੜੀ ਹੈ?

Ans
1. 29ਵੀਂ
2. 32ਵੀਂ
3. 30ਵੀਂ
4. 31ਵੀਂ ✔

Question ID : **630680113677**
Option 1 ID : **630680440245**
Option 2 ID : **630680440243**
Option 3 ID : **630680440242**
Option 4 ID : **630680440244**
Status : **Answered**
Chosen Option : **3**

Comprehension:

ਦਿੱਤੀ ਗਈ ਜਾਣਕਾਰੀ ਨੂੰ ਪੜ੍ਹੋ ਅਤੇ ਦਿੱਤੇ ਪ੍ਰਸ਼ਨਾਂ ਦੇ ਉੱਤਰ ਦਿਓ।
ਰਾਹੁਲ ਅਤੇ ਸੌਮਿਆ ਇੱਕ ਕਤਾਰ ਦੇ ਸਿਰਿਆਂ 'ਤੇ ਬੈਠੇ ਹਨ। ਸਾਰੇ ਉੱਤਰ ਵੱਲ ਮੂੰਹ ਕਰਕੇ ਬੈਠੇ ਹਨ। ਉਨ੍ਹਾਂ ਵਿਚਕਾਰ ਪੰਜ ਵਿਅਕਤੀ ਬੈਠੇ ਹਨ। ਰੀਚਾ ਰਾਹੁਲ ਦੇ ਤੁਰੰਤ ਸੱਜੇ ਪਾਸੇ ਬੈਠੀ ਹੈ। ਪ੍ਰਵੀਨ ਸੌਮਿਆ ਦੇ ਤੁਰੰਤ ਖੱਬੇ ਪਾਸੇ ਬੈਠਾ ਹੈ। ਰਾਧਿਕਾ ਮੱਧ ਵਿੱਚ ਅਤੇ ਰਾਜ ਅਤੇ ਪ੍ਰਿਆ ਵਿਚਕਾਰ ਬੈਠੀ ਹੈ। ਰਾਜ, ਰਾਧਿਕਾ ਦੇ ਖੱਬੇ ਪਾਸੇ ਬੈਠਾ ਹੈ।

SubQuestion No : 37

Q.37 ਰਾਧਿਕਾ ਅਤੇ ਪ੍ਰਵੀਨ ਵਿਚਕਾਰ ਕੌਣ ਬੈਠਾ ਹੈ?

Ans
1. ਰੀਚਾ
2. ਰਾਹੁਲ
3. ਪ੍ਰਿਆ ✔
4. ਸੌਮਿਆ

Question ID : **63068082626**
Option 1 ID : **630680320486**
Option 2 ID : **630680320487**
Option 3 ID : **630680320485**
Option 4 ID : **630680320484**
Status : **Answered**
Chosen Option : **4**

Comprehension:

ਦਿੱਤੀ ਗਈ ਜਾਣਕਾਰੀ ਨੂੰ ਪੜ੍ਹੋ ਅਤੇ ਦਿੱਤੇ ਪ੍ਰਸ਼ਨਾਂ ਦੇ ਉੱਤਰ ਦਿਓ।
ਰਾਹੁਲ ਅਤੇ ਸੌਮਿਆ ਇੱਕ ਕਤਾਰ ਦੇ ਸਿਰਿਆਂ 'ਤੇ ਬੈਠੇ ਹਨ। ਸਾਰੇ ਉੱਤਰ ਵੱਲ ਮੂੰਹ ਕਰਕੇ ਬੈਠੇ ਹਨ। ਉਨ੍ਹਾਂ ਵਿਚਕਾਰ ਪੰਜ ਵਿਅਕਤੀ ਬੈਠੇ ਹਨ। ਰੀਚਾ ਰਾਹੁਲ ਦੇ ਤੁਰੰਤ ਸੱਜੇ ਪਾਸੇ ਬੈਠੀ ਹੈ। ਪ੍ਰਵੀਨ ਸੌਮਿਆ ਦੇ ਤੁਰੰਤ ਖੱਬੇ ਪਾਸੇ ਬੈਠਾ ਹੈ। ਰਾਧਿਕਾ ਮੱਧ ਵਿੱਚ ਅਤੇ ਰਾਜ ਅਤੇ ਪ੍ਰਿਆ ਵਿਚਕਾਰ ਬੈਠੀ ਹੈ। ਰਾਜ, ਰਾਧਿਕਾ ਦੇ ਖੱਬੇ ਪਾਸੇ ਬੈਠਾ ਹੈ।

SubQuestion No : 38

Q.38 ਰੀਚਾ ਅਤੇ ਰਾਧਿਕਾ ਵਿਚਕਾਰ ਕੌਣ ਬੈਠਾ ਹੈ?

Ans
1. ਰਾਜ ✔
2. ਰਾਹੁਲ
3. ਪ੍ਰਵੀਨ
4. ਸੌਮਿਆ

Question ID : **63068082627**
Option 1 ID : **630680320489**
Option 2 ID : **630680320488**
Option 3 ID : **630680320491**
Option 4 ID : **630680320490**
Status : **Answered**
Chosen Option : **4**

Website - www.dailyjobalert.in

Comprehension:

ਦਿੱਤੀ ਗਈ ਜਾਣਕਾਰੀ ਨੂੰ ਪੜ੍ਹੋ ਅਤੇ ਦਿੱਤੇ ਪ੍ਰਸ਼ਨਾਂ ਦੇ ਉੱਤਰ ਦਿਓ। ਸੱਤ ਬਕਸੇ P, Q, R, S, T, U, ਅਤੇ V ਨੂੰ ਇੱਕ ਦੂਜੇ ਦੇ ਉੱਪਰ ਰੱਖਿਆ ਗਿਆ ਹੈ ਪਰ ਜ਼ਰੂਰੀ ਨਹੀਂ ਕਿ ਉਹ ਇੱਕੋ ਕ੍ਰਮ ਵਿੱਚ ਹੋਣ। V ਨੂੰ ਹੇਠਾਂ ਤੋਂ ਤੀਜੇ ਸਥਾਨ 'ਤੇ ਰੱਖਿਆ ਗਿਆ ਹੈ। Q ਅਤੇ P ਵਿਚਕਾਰ ਸਿਰਫ਼ ਤਿੰਨ ਬਕਸੇ ਰੱਖੇ ਗਏ ਹਨ। U ਨੂੰ V ਤੋਂ ਠੀਕ ਹੇਠਾਂ ਰੱਖਿਆ ਗਿਆ ਹੈ। S ਨੂੰ Q ਤੋਂ ਉੱਪਰ ਕਿਸੇ ਸਥਾਨ 'ਤੇ ਰੱਖਿਆ ਗਿਆ ਹੈ। R ਨੂੰ S ਤੋਂ ਠੀਕ ਹੇਠਾਂ ਰੱਖਿਆ ਗਿਆ ਹੈ। Q ਨੂੰ T ਤੋਂ ਠੀਕ ਉੱਪਰ ਰੱਖਿਆ ਗਿਆ ਹੈ। P ਨੂੰ Q ਤੋਂ ਹੇਠਾਂ ਇਕ ਸਥਾਨ 'ਤੇ ਰੱਖਿਆ ਗਿਆ ਹੈ।

SubQuestion No : 39

Q.39 ਕਿਹੜਾ ਬਕਸਾ ਹੇਠਾਂ ਤੋਂ ਪਹਿਲੇ ਸਥਾਨ 'ਤੇ ਰੱਖਿਆ ਗਿਆ ਹੈ?

Ans

✗ 1. Q

✗ 2. T

✓ 3. P

✗ 4. U

Question ID : **63068083445**
Option 1 ID : **630680323564**
Option 2 ID : **630680323567**
Option 3 ID : **630680323565**
Option 4 ID : **630680323566**
Status : **Answered**
Chosen Option : **4**

Comprehension:

ਦਿੱਤੀ ਗਈ ਜਾਣਕਾਰੀ ਨੂੰ ਪੜ੍ਹੋ ਅਤੇ ਦਿੱਤੇ ਪ੍ਰਸ਼ਨਾਂ ਦੇ ਉੱਤਰ ਦਿਓ। ਸੱਤ ਬਕਸੇ P, Q, R, S, T, U, ਅਤੇ V ਨੂੰ ਇੱਕ ਦੂਜੇ ਦੇ ਉੱਪਰ ਰੱਖਿਆ ਗਿਆ ਹੈ ਪਰ ਜ਼ਰੂਰੀ ਨਹੀਂ ਕਿ ਉਹ ਇੱਕੋ ਕ੍ਰਮ ਵਿੱਚ ਹੋਣ। V ਨੂੰ ਹੇਠਾਂ ਤੋਂ ਤੀਜੇ ਸਥਾਨ 'ਤੇ ਰੱਖਿਆ ਗਿਆ ਹੈ। Q ਅਤੇ P ਵਿਚਕਾਰ ਸਿਰਫ਼ ਤਿੰਨ ਬਕਸੇ ਰੱਖੇ ਗਏ ਹਨ। U ਨੂੰ V ਤੋਂ ਠੀਕ ਹੇਠਾਂ ਰੱਖਿਆ ਗਿਆ ਹੈ। S ਨੂੰ Q ਤੋਂ ਉੱਪਰ ਕਿਸੇ ਸਥਾਨ 'ਤੇ ਰੱਖਿਆ ਗਿਆ ਹੈ। R ਨੂੰ S ਤੋਂ ਠੀਕ ਹੇਠਾਂ ਰੱਖਿਆ ਗਿਆ ਹੈ। Q ਨੂੰ T ਤੋਂ ਠੀਕ ਉੱਪਰ ਰੱਖਿਆ ਗਿਆ ਹੈ। P ਨੂੰ Q ਤੋਂ ਹੇਠਾਂ ਇਕ ਸਥਾਨ 'ਤੇ ਰੱਖਿਆ ਗਿਆ ਹੈ।

SubQuestion No : 40

Q.40 R ਅਤੇ V ਵਿਚਕਾਰ ਕਿੰਨੇ ਬਕਸੇ ਰੱਖੇ ਗਏ ਹਨ?

Ans

✓ 1. ਦੋ

✗ 2. ਇਕ

✗ 3. ਤਿੰਨ

✗ 4. ਚਾਰ

Question ID : **63068083446**
Option 1 ID : **630680323569**
Option 2 ID : **630680323568**
Option 3 ID : **630680323570**
Option 4 ID : **630680323571**
Status : **Answered**
Chosen Option : **3**

DAILY JOB Alert ਪੰਜਾਬ

Comprehension:

ਦਿੱਤੇ ਗਏ ਰੇਖਾ-ਚਿੱਤਰ ਦਾ ਧਿਆਨ ਨਾਲ ਅਧਿਐਨ ਕਰੋ ਅਤੇ ਅੱਗੇ ਆਉਣ ਵਾਲੇ ਪ੍ਰਸ਼ਨਾਂ ਦੇ ਉੱਤਰ ਦਿਓ। ਵੱਖ-ਵੱਖ ਸੈਕਸ਼ਨਾਂ ਵਿਚਲੀਆਂ ਸੰਖਿਆਵਾਂ ਉਸ ਸੈਕਸ਼ਨ ਨਾਲ ਸੰਬੰਧਿਤ ਫਲ ਨੂੰ ਪਸੰਦ ਕਰਨ ਵਾਲੇ ਵਿਅਕਤੀਆਂ ਦੀ ਗਿਣਤੀ ਨੂੰ ਦਰਸਾਉਂਦੀਆਂ ਹਨ।

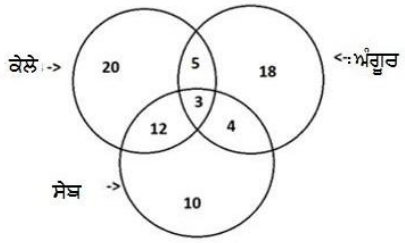

SubQuestion No : 41

Q.41 ਸਾਰੇ ਤਿੰਨ ਫਲਾਂ, ਕੇਲੇ, ਸੇਬ ਅਤੇ ਅੰਗੂਰ ਨੂੰ ਪਸੰਦ ਕਰਨ ਵਾਲੇ ਵਿਅਕਤੀਆਂ ਦੀ ਗਿਣਤੀ ਕਿੰਨੀ ਹੈ?

Ans
✗ 1. 5
✓ 2. 3
✗ 3. 4
✗ 4. 12

Question ID : **630680117468**
Option 1 ID : **630680455134**
Option 2 ID : **630680455136**
Option 3 ID : **630680455135**
Option 4 ID : **630680455137**
Status : **Answered**
Chosen Option : **4**

Comprehension:

ਦਿੱਤੇ ਗਏ ਰੇਖਾ-ਚਿੱਤਰ ਦਾ ਧਿਆਨ ਨਾਲ ਅਧਿਐਨ ਕਰੋ ਅਤੇ ਅੱਗੇ ਆਉਣ ਵਾਲੇ ਪ੍ਰਸ਼ਨਾਂ ਦੇ ਉੱਤਰ ਦਿਓ। ਵੱਖ-ਵੱਖ ਸੈਕਸ਼ਨਾਂ ਵਿਚਲੀਆਂ ਸੰਖਿਆਵਾਂ ਉਸ ਸੈਕਸ਼ਨ ਨਾਲ ਸੰਬੰਧਿਤ ਫਲ ਨੂੰ ਪਸੰਦ ਕਰਨ ਵਾਲੇ ਵਿਅਕਤੀਆਂ ਦੀ ਗਿਣਤੀ ਨੂੰ ਦਰਸਾਉਂਦੀਆਂ ਹਨ।

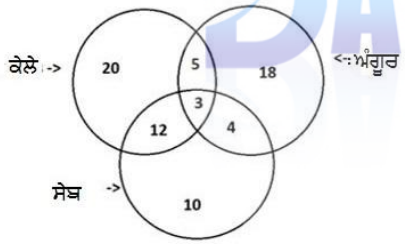

SubQuestion No : 42

Q.42 ਸਿਰਫ ਕੇਲੇ ਪਸੰਦ ਕਰਨ ਵਾਲੇ ਵਿਅਕਤੀਆਂ ਦੀ ਗਿਣਤੀ ਕਿੰਨੀ ਹੈ?

Ans
✓ 1. 20
✗ 2. 10
✗ 3. 18
✗ 4. 12

Question ID : **630680117467**
Option 1 ID : **630680455132**
Option 2 ID : **630680455130**
Option 3 ID : **630680455131**
Option 4 ID : **630680455133**
Status : **Answered**
Chosen Option : **1**

Website - www.dailyjobalert.in

Comprehension:

ਇੱਕ ਖਾਸ ਕੋਡ ਵਿੱਚ,

'sun gives light' ਨੂੰ 'aw pu gl' ਵਜੋਂ ਕੋਡਬੱਧ ਕੀਤਾ ਗਿਆ ਹੈ,

'moon reflects light' ਨੂੰ 'sh pu dv' ਵਜੋਂ ਕੋਡਬੱਧ ਕੀਤਾ ਗਿਆ ਹੈ,

'sun and moon' ਨੂੰ 'gl dv bo' ਵਜੋਂ ਕੋਡਬੱਧ ਕੀਤਾ ਗਿਆ ਹੈ।

SubQuestion No : 43

Q.43 'moon' ਲਈ ਕੋਡ ਕੀ ਹੈ?

Ans

✗ 1. bo

✓ 2. dv

✗ 3. sh

✗ 4. gl

Question ID : **630680109062**
Option 1 ID : **630680423094**
Option 2 ID : **630680423092**
Option 3 ID : **630680423093**
Option 4 ID : **630680423095**
Status : **Answered**
Chosen Option : **3**

Comprehension:

ਇੱਕ ਖਾਸ ਕੋਡ ਵਿੱਚ,

'sun gives light' ਨੂੰ 'aw pu gl' ਵਜੋਂ ਕੋਡਬੱਧ ਕੀਤਾ ਗਿਆ ਹੈ,

'moon reflects light' ਨੂੰ 'sh pu dv' ਵਜੋਂ ਕੋਡਬੱਧ ਕੀਤਾ ਗਿਆ ਹੈ,

'sun and moon' ਨੂੰ 'gl dv bo' ਵਜੋਂ ਕੋਡਬੱਧ ਕੀਤਾ ਗਿਆ ਹੈ।

SubQuestion No : 44

Q.44 'light' ਲਈ ਕੋਡ ਕੀ ਹੈ?

Ans

✗ 1. gl

✗ 2. sh

✓ 3. pu

✗ 4. aw

Question ID : **630680109061**
Option 1 ID : **630680423090**
Option 2 ID : **630680423088**
Option 3 ID : **630680423091**
Option 4 ID : **630680423089**
Status : **Answered**
Chosen Option : **1**

DAILY JOB Alert ਪੰਜਾਬ

Comprehension:

ਦਿੱਤਾ ਗਿਆ ਪਾਈ ਚਾਰਟ ਗਣਿਤ ਦੀ ਪਰੀਖਿਆ ਵਿੱਚ ਪੁੱਛੇ ਗਏ ਵੱਖ-ਵੱਖ ਵਿਸ਼ਿਆਂ ਦੇ ਪ੍ਰਸ਼ਨਾਂ ਦੀ ਗਿਣਤੀ ਦੀ ਵੰਡ ਨੂੰ ਦਰਸਾਉਂਦਾ ਹੈ। ਇੰਟੇਗਰੇਸ਼ਨ ਦੇ ਵਿਸ਼ੇ 'ਤੇ ਪੁੱਛੇ ਗਏ ਪ੍ਰਸ਼ਨਾਂ ਦੀ ਗਿਣਤੀ 21 ਹੈ। ਪਾਈ ਚਾਰਟ ਦਾ ਅਧਿਐਨ ਕਰੋ ਅਤੇ ਹੇਠਾਂ ਦਿੱਤੇ ਗਏ ਪ੍ਰਸ਼ਨਾਂ ਦੇ ਉੱਤਰ ਦਿਓ।

ਗਣਿਤ ਦੀ ਪਰੀਖਿਆ ਵਿੱਚ ਵੱਖ-ਵੱਖ ਵਿਸ਼ਿਆਂ ਦੇ ਪ੍ਰਸ਼ਨਾਂ ਦੀ ਗਿਣਤੀ ਦੀ ਡਿਗਰੀ ਅਨੁਸਾਰ ਵੰਡ ਇਸ ਤਰ੍ਹਾਂ ਹੈ

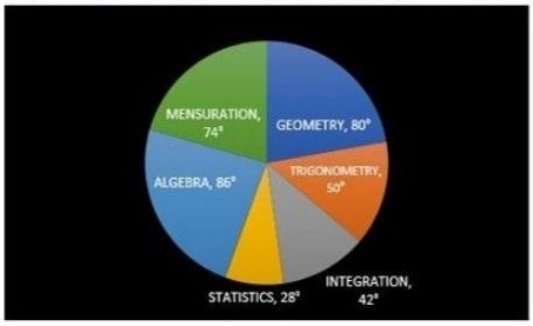

(Mensuration= ਖੇਤਰਮਿਤੀ, Geometry=ਜਿਆਮਤੀ ਵਿਗਿਆਨ, Trigonometry= ਤਿਕੋਣਮਿਤੀ, Integration= ਇੰਟੇਗ੍ਰੇਸ਼ਨ, Statistics= ਅੰਕੜਾ ਵਿਗਿਆਨ, Algebra= ਬੀਜ ਗਣਿਤ)

SubQuestion No : 45

Q.45 ਪਰੀਖਿਆ ਵਿੱਚ ਪੁੱਛੇ ਗਏ ਕੁੱਲ ਪ੍ਰਸ਼ਨਾਂ ਦੀ ਗਿਣਤੀ ਕਿੰਨੀ ਹੈ?

Ans

✔ 1. 180

✘ 2. 175

✘ 3. 200

✘ 4. 150

Question ID : **630680110419**
Option 1 ID : **630680427961**
Option 2 ID : **630680427959**
Option 3 ID : **630680427960**
Option 4 ID : **630680427962**
Status : **Answered**
Chosen Option : **4**

Website - www.dailyjobalert.in

Comprehension:

ਦਿੱਤਾ ਗਿਆ ਪਾਈ ਚਾਰਟ ਗਣਿਤ ਦੀ ਪਰੀਖਿਆ ਵਿੱਚ ਪੁੱਛੇ ਗਏ ਵੱਖ-ਵੱਖ ਵਿਸ਼ਿਆਂ ਦੇ ਪ੍ਰਸ਼ਨਾਂ ਦੀ ਗਿਣਤੀ ਦੀ ਵੰਡ ਨੂੰ ਦਰਸਾਉਂਦਾ ਹੈ। ਇੰਟੇਗਰੇਸ਼ਨ ਦੇ ਵਿਸ਼ੇ 'ਤੇ ਪੁੱਛੇ ਗਏ ਪ੍ਰਸ਼ਨਾਂ ਦੀ ਗਿਣਤੀ 21 ਹੈ। ਪਾਈ ਚਾਰਟ ਦਾ ਅਧਿਐਨ ਕਰੋ ਅਤੇ ਹੇਠਾਂ ਦਿੱਤੇ ਗਏ ਪ੍ਰਸ਼ਨਾਂ ਦੇ ਉੱਤਰ ਦਿਓ।

ਗਣਿਤ ਦੀ ਪਰੀਖਿਆ ਵਿੱਚ ਵੱਖ-ਵੱਖ ਵਿਸ਼ਿਆਂ ਦੇ ਪ੍ਰਸ਼ਨਾਂ ਦੀ ਗਿਣਤੀ ਦੀ ਡਿਗਰੀ ਅਨੁਸਾਰ ਵੰਡ ਇਸ ਤਰ੍ਹਾਂ ਹੈ

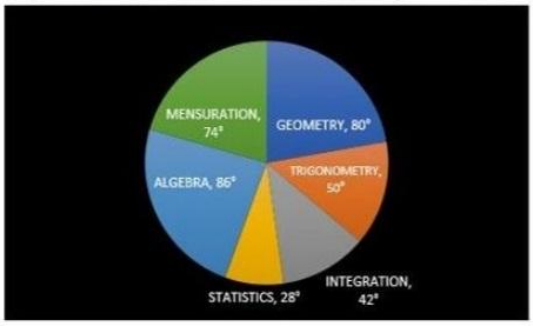

(Mensuration= ਖੇਤਰਮਿਤੀ, Geometry=ਜਿਆਮਤੀ ਵਿਗਿਆਨ, Trigonometry= ਤਿਕੋਣਮਿਤੀ, Integration= ਇੰਟੇਗ੍ਰੇਸ਼ਨ, Statistics= ਅੰਕੜਾ ਵਿਗਿਆਨ, Algebra= ਬੀਜ ਗਣਿਤ)

SubQuestion No : 46

Q.46 ਬੀਜਗਣਿਤ ਵਿੱਚ ਪੁੱਛੇ ਗਏ ਪ੍ਰਸ਼ਨਾਂ ਦੀ ਗਿਣਤੀ, ਤ੍ਰਿਕੋਣਮਿਤੀ ਵਿੱਚ ਪੁੱਛੇ ਗਏ ਪ੍ਰਸ਼ਨਾਂ ਦੀ ਗਿਣਤੀ ਤੋਂ ਕਿੰਨੀ ਜ਼ਿਆਦਾ ਹੈ?

Ans
- ✗ 1. 20
- ✗ 2. 15
- ✓ 3. 18
- ✗ 4. 25

Question ID : **630680110420**
Option 1 ID : **630680427964**
Option 2 ID : **630680427965**
Option 3 ID : **630680427963**
Option 4 ID : **630680427966**
Status : **Answered**
Chosen Option : **4**

Website - www.dailyjobalert.in

Comprehension:

ਦਿੱਤੇ ਗਏ ਪਾਈ-ਚਾਰਟ ਦਾ ਅਧਿਐਨ ਕਰੋ ਅਤੇ ਅੱਗੇ ਆਉਣ ਵਾਲੇ ਪ੍ਰਸ਼ਨਾਂ ਦੇ ਉੱਤਰ ਦਿਓ।

ਪਾਈ-ਚਾਰਟ ਇੱਕ ਬਾਗ ਵਿੱਚ ਉਗਾਏ ਫਲਾਂ ਦੀ ਡਿਗਰੀ ਅਨੁਸਾਰ ਵੰਡ ਨੂੰ ਦਰਸਾਉਂਦਾ ਹੈ

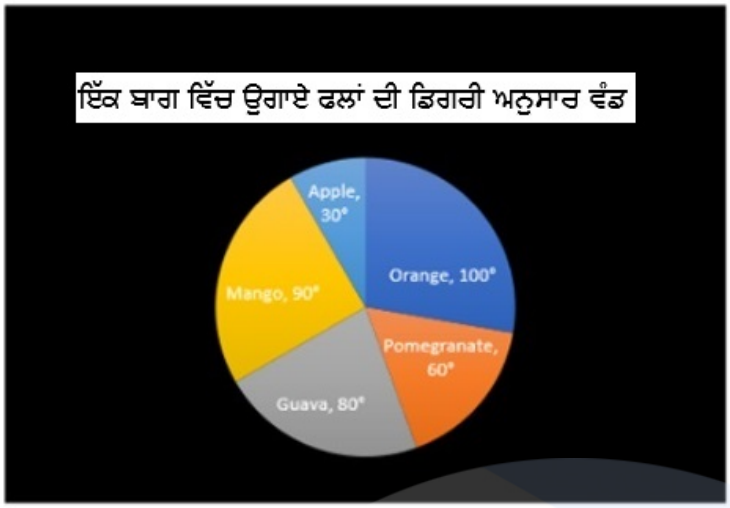

Apple = ਸੇਬ, Orange = ਸੰਤਰਾ, Mango = ਅੰਬ, Pomegranate = ਅਨਾਰ, Guava = ਅਮਰੂਦ

SubQuestion No : 47

Q.47 ਜੇਕਰ ਬਾਗ ਦਾ ਕੁੱਲ ਖੇਤਰਫਲ 500 ਏਕੜ ਹੈ, ਤਾਂ ਸੰਤਰੇ (orange) ਅਤੇ ਅਮਰੂਦ (guava) ਹੇਠ ਕੁੱਲ ਖੇਤਰਫਲ ਕਿੰਨਾ ਹੋਵੇਗਾ?

Ans

✗ 1. 267 ਏਕੜ

✗ 2. 265 ਏਕੜ

✓ 3. 250 ਏਕੜ

✗ 4. 278 ਏਕੜ

Question ID : **630680113970**
Option 1 ID : **630680441322**
Option 2 ID : **630680441325**
Option 3 ID : **630680441323**
Option 4 ID : **630680441324**
Status : **Answered**
Chosen Option : **3**

Website - www.dailyjobalert.in

Comprehension:

ਦਿੱਤੇ ਗਏ ਪਾਈ-ਚਾਰਟ ਦਾ ਅਧਿਐਨ ਕਰੋ ਅਤੇ ਅੱਗੇ ਆਉਣ ਵਾਲੇ ਪ੍ਰਸ਼ਨਾਂ ਦੇ ਉੱਤਰ ਦਿਓ।

ਪਾਈ-ਚਾਰਟ ਇੱਕ ਬਾਗ ਵਿੱਚ ਉਗਾਏ ਫਲਾਂ ਦੀ ਡਿਗਰੀ ਅਨੁਸਾਰ ਵੰਡ ਨੂੰ ਦਰਸਾਉਂਦਾ ਹੈ

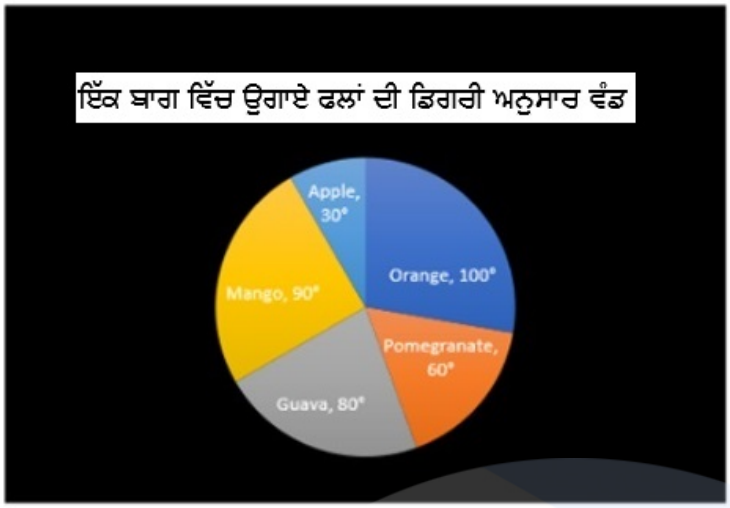

Apple = ਸੇਬ, Orange = ਸੰਤਰਾ, Mango = ਅੰਬ, Pomegranate = ਅਨਾਰ, Guava = ਅਮਰੂਦ

SubQuestion No : 48

Q.48 ਜੇਕਰ 30% ਅਨਾਰ (pomegranate) ਨੂੰ ਸੇਬ (apple) ਨਾਲ ਬਦਲ ਦਿੱਤਾ ਜਾਂਦਾ ਹੈ, ਤਾਂ ਸੇਬ (apple) ਦੁਆਰਾ ਬਣਾਇਆ ਗਿਆ ਨਵਾਂ ਕੁੱਲ ਕੇਂਦਰੀ ਕੋਣ ਕਿੰਨਾ ਹੋਵੇਗਾ?

Ans

✗ 1. 56°

✗ 2. 52°

✗ 3. 64°

✓ 4. 48°

Question ID : **630680113971**
Option 1 ID : **630680441326**
Option 2 ID : **630680441327**
Option 3 ID : **630680441329**
Option 4 ID : **630680441328**
Status : **Answered**
Chosen Option : **3**

Website - www.dailyjobalert.in

Comprehension:

ਦਿੱਤੇ ਗਏ ਪੈਰੇ ਨੂੰ ਪੜ੍ਹੋ ਅਤੇ ਅਗਲੇ ਸਵਾਲਾਂ ਦੇ ਉੱਤਰ ਦਿਓ।

ਜੰਗਲ ਵਿਚ ਨਿਵਾਸ ਕਰਨ ਵਾਲੀਆਂ ਅਨੁਸੂਚਿਤ ਜਨਜਾਤੀਆਂ ਅਤੇ ਹੋਰ ਪਰੰਪਰਾਗਤ ਜੰਗਲ ਨਿਵਾਸੀ ਜੰਗਲ ਦੇ ਵਾਤਾਵਰਣ ਪ੍ਰਣਾਲੀ ਦੇ ਬਚਾਅ ਅਤੇ ਸਥਿਰਤਾ ਲਈ ਪ੍ਰਮੁੱਖ ਹਨ। ਬਸਤੀਵਾਦੀ ਕਾਲ ਦੌਰਾਨ ਜਾਂ ਆਜ਼ਾਦ ਭਾਰਤ ਵਿੱਚ ਉਨ੍ਹਾਂ ਦੇ ਪੁਰਖਿਆਂ ਦੀਆਂ ਜੰਗਲੀ ਜ਼ਮੀਨਾਂ ਅਤੇ ਉਨ੍ਹਾਂ ਦੇ ਰਿਹਾਇਸ਼ੀ ਸਥਾਨਾਂ 'ਤੇ ਉਨ੍ਹਾਂ ਦੇ ਅਧਿਕਾਰਾਂ ਨੂੰ ਮਾਨਤਾ ਨਾ ਦੇ ਕੇ ਬਹੁਤ ਵੱਡੀ ਬੇਇਨਸਾਫ਼ੀ ਕੀਤੀ ਗਈ ਹੈ। ਇਹ ਬੇਇਨਸਾਫ਼ੀ ਨੂੰ ਖਤਮ ਕਰਨ ਲਈ ਅਨੁਸੂਚਿਤ ਜਨਜਾਤੀ ਅਤੇ ਹੋਰ ਪਰੰਪਰਾਗਤ ਜੰਗਲੀ ਨਿਵਾਸੀ (ਜੰਗਲ ਅਧਿਕਾਰਾਂ ਦੀ ਮਾਨਤਾ) ਐਕਟ 2006 (2007 ਦੀ ਸੰਖਿਆ 2) ਜਾਂ ਕੇਵਲ ਜੰਗਲਾਤ ਅਧਿਕਾਰ ਐਕਟ ਲਾਗੂ ਕੀਤਾ ਗਿਆ ਸੀ।
ਜਦੋਂ ਕਿ ਜੰਗਲ ਵਿਚ ਰਹਿਣ ਵਾਲੀਆਂ ਅਨੁਸੂਚਿਤ ਜਨਜਾਤੀਆਂ ਅਤੇ ਹੋਰ ਪਰੰਪਰਾਗਤ ਜੰਗਲ ਨਿਵਾਸੀਆਂ ਦੇ ਮਾਨਤਾ ਪ੍ਰਾਪਤ ਅਧਿਕਾਰਾਂ ਵਿਚ ਟਿਕਾਊ ਵਰਤੋਂ, ਜੈਵ ਵਿਭਿੰਨਤਾ ਦੀ ਸੰਭਾਲ ਅਤੇ ਵਾਤਾਵਰਣ ਸੰਤੁਲਨ ਦੀ ਸਾਂਭ-ਸੰਭਾਲ ਲਈ ਜ਼ਿੰਮੇਵਾਰੀਆਂ ਅਤੇ ਅਧਿਕਾਰ ਸ਼ਾਮਲ ਹਨ ਅਤੇ ਇਸ ਤਰ੍ਹਾਂ ਜੰਗਲ ਵਿੱਚ ਨਿਵਾਸ ਕਰਨ ਵਾਲਿਆਂ ਅਨੁਸੂਚਿਤ ਜਨਜਾਤੀਆਂ ਅਤੇ ਹੋਰ ਰਵਾਇਤੀ ਜੰਗਲ ਨਿਵਾਸੀਆਂ ਦੀ ਅਜੀਵਿਕਾ ਅਤੇ ਭੋਜਨ ਸੁਰੱਖਿਆ ਨੂੰ ਯਕੀਨੀ ਬਣਾਉਂਦੇ ਹੋਏ ਜੰਗਲਾਂ ਦੀ ਸੰਭਾਲ ਪ੍ਰਣਾਲੀ ਨੂੰ ਮਜ਼ਬੂਤ ਕਰਨਾ ਸ਼ਾਮਲ ਹੈ।

SubQuestion No : 49

Q.49 ਜੰਗਲੀ ਵਾਤਾਵਰਣ ਪ੍ਰਣਾਲੀ ਦੇ ਜੀਵਨ ਲਈ ਕੀ ਜ਼ਰੂਰੀ ਹੈ?

Ans
✗ 1. ਜੰਗਲ ਖੇਤਰ
✗ 2. ਜੰਗਲੀ ਜਾਨਵਰ
✗ 3. ਜਾਨਵਰਾਂ ਜਗਤ
✓ 4. ਸਮੁਦਾਇਕ ਜੰਗਲ ਸਰੋਤ

Question ID : **630680248119**
Option 1 ID : **630680962672**
Option 2 ID : **630680962674**
Option 3 ID : **630680962673**
Option 4 ID : **630680962671**
Status : **Answered**
Chosen Option : **1**

Comprehension:

ਦਿੱਤੇ ਗਏ ਪੈਰੇ ਨੂੰ ਪੜ੍ਹੋ ਅਤੇ ਅਗਲੇ ਸਵਾਲਾਂ ਦੇ ਉੱਤਰ ਦਿਓ।

ਜੰਗਲ ਵਿਚ ਨਿਵਾਸ ਕਰਨ ਵਾਲੀਆਂ ਅਨੁਸੂਚਿਤ ਜਨਜਾਤੀਆਂ ਅਤੇ ਹੋਰ ਪਰੰਪਰਾਗਤ ਜੰਗਲ ਨਿਵਾਸੀ ਜੰਗਲ ਦੇ ਵਾਤਾਵਰਣ ਪ੍ਰਣਾਲੀ ਦੇ ਬਚਾਅ ਅਤੇ ਸਥਿਰਤਾ ਲਈ ਪ੍ਰਮੁੱਖ ਹਨ। ਬਸਤੀਵਾਦੀ ਕਾਲ ਦੌਰਾਨ ਜਾਂ ਆਜ਼ਾਦ ਭਾਰਤ ਵਿੱਚ ਉਨ੍ਹਾਂ ਦੇ ਪੁਰਖਿਆਂ ਦੀਆਂ ਜੰਗਲੀ ਜ਼ਮੀਨਾਂ ਅਤੇ ਉਨ੍ਹਾਂ ਦੇ ਰਿਹਾਇਸ਼ੀ ਸਥਾਨਾਂ 'ਤੇ ਉਨ੍ਹਾਂ ਦੇ ਅਧਿਕਾਰਾਂ ਨੂੰ ਮਾਨਤਾ ਨਾ ਦੇ ਕੇ ਬਹੁਤ ਵੱਡੀ ਬੇਇਨਸਾਫ਼ੀ ਕੀਤੀ ਗਈ ਹੈ। ਇਹ ਬੇਇਨਸਾਫ਼ੀ ਨੂੰ ਖਤਮ ਕਰਨ ਲਈ ਅਨੁਸੂਚਿਤ ਜਨਜਾਤੀ ਅਤੇ ਹੋਰ ਪਰੰਪਰਾਗਤ ਜੰਗਲੀ ਨਿਵਾਸੀ (ਜੰਗਲ ਅਧਿਕਾਰਾਂ ਦੀ ਮਾਨਤਾ) ਐਕਟ 2006 (2007 ਦੀ ਸੰਖਿਆ 2) ਜਾਂ ਕੇਵਲ ਜੰਗਲਾਤ ਅਧਿਕਾਰ ਐਕਟ ਲਾਗੂ ਕੀਤਾ ਗਿਆ ਸੀ।
ਜਦੋਂ ਕਿ ਜੰਗਲ ਵਿਚ ਰਹਿਣ ਵਾਲੀਆਂ ਅਨੁਸੂਚਿਤ ਜਨਜਾਤੀਆਂ ਅਤੇ ਹੋਰ ਪਰੰਪਰਾਗਤ ਜੰਗਲ ਨਿਵਾਸੀਆਂ ਦੇ ਮਾਨਤਾ ਪ੍ਰਾਪਤ ਅਧਿਕਾਰਾਂ ਵਿਚ ਟਿਕਾਊ ਵਰਤੋਂ, ਜੈਵ ਵਿਭਿੰਨਤਾ ਦੀ ਸੰਭਾਲ ਅਤੇ ਵਾਤਾਵਰਣ ਸੰਤੁਲਨ ਦੀ ਸਾਂਭ-ਸੰਭਾਲ ਲਈ ਜ਼ਿੰਮੇਵਾਰੀਆਂ ਅਤੇ ਅਧਿਕਾਰ ਸ਼ਾਮਲ ਹਨ ਅਤੇ ਇਸ ਤਰ੍ਹਾਂ ਜੰਗਲ ਵਿੱਚ ਨਿਵਾਸ ਕਰਨ ਵਾਲਿਆਂ ਅਨੁਸੂਚਿਤ ਜਨਜਾਤੀਆਂ ਅਤੇ ਹੋਰ ਰਵਾਇਤੀ ਜੰਗਲ ਨਿਵਾਸੀਆਂ ਦੀ ਅਜੀਵਿਕਾ ਅਤੇ ਭੋਜਨ ਸੁਰੱਖਿਆ ਨੂੰ ਯਕੀਨੀ ਬਣਾਉਂਦੇ ਹੋਏ ਜੰਗਲਾਂ ਦੀ ਸੰਭਾਲ ਪ੍ਰਣਾਲੀ ਨੂੰ ਮਜ਼ਬੂਤ ਕਰਨਾ ਸ਼ਾਮਲ ਹੈ।

SubQuestion No : 50

Q.50 ਜੰਗਲਾਤ ਅਧਿਕਾਰ ਐਕਟ, 2006 ਦਾ ਉਦੇਸ਼ ਕੀ ਸੀ?

Ans
✗ 1. ਜਨਜਾਤੀਆਂ ਦੇ ਸੱਭਿਆਚਾਰ ਅਤੇ ਪਰੰਪਰਾ ਨੂੰ ਸੁਰੱਖਿਅਤ ਰੱਖਣ ਲਈ
✗ 2. ਜੰਗਲ ਨਿਵਾਸੀਆਂ ਦੀ ਰੱਖਿਆ ਲਈ
✗ 3. ਜੰਗਲਾਂ ਨੂੰ ਬਚਾਉਣ ਲਈ
✓ 4. STs ਅਤੇ ਜੰਗਲਾਤ ਵਾਸੀਆਂ ਨੂੰ ਇਨਸਾਫ਼ ਦਿਵਾਉਣ ਲਈ

Question ID : **630680248120**
Option 1 ID : **630680962678**
Option 2 ID : **630680962675**
Option 3 ID : **630680962676**
Option 4 ID : **630680962677**
Status : **Answered**
Chosen Option : **4**

Website - www.dailyjobalert.in

Q.51 ਹੇਠਾਂ ਦਿੱਤੇ ਵਿੱਚੋਂ ਕਿਸ ਨੂੰ ਵੀਡੀਓ/ਡਿਸਪਲੇ ਕਾਰਡ ਜਾਂ ਗ੍ਰਾਫਿਕਸ ਅਡੈਪਟਰ ਵਜੋਂ ਜਾਣਿਆ ਜਾਂਦਾ ਹੈ ਅਤੇ ਕੰਪਿਊਟਰ ਮਾਨੀਟਰ ਜਾਂ ਡਿਸਪਲੇ ਲਈ ਇੱਕ ਆਉਟਪੁੱਟ ਈਮੇਜ ਫੀਡ ਨੂੰ ਪ੍ਰੋਸੈਸ ਕਰਨ ਅਤੇ ਤਿਆਰ ਕਰਨ ਲਈ ਵਰਤਿਆ ਜਾਂਦਾ ਹੈ?

Ans
1. RAM
2. ਕੈਸ਼ੇ ਮੈਮਰੀ
3. VGA ਕਾਰਡ
4. NIC

Question ID : **630680247768**
Option 1 ID : **630680961281**
Option 2 ID : **630680961282**
Option 3 ID : **630680961280**
Option 4 ID : **630680961279**
Status : **Answered**
Chosen Option : **1**

Q.52 ਵਿੰਡੋਜ਼ OS ਵਿੱਚ, ਟਾਸਕਬਾਰ ਦੇ ਸਭ ਤੋਂ ਸੱਜੇ ਪਾਸੇ ਜਿਸ ਵਿੱਚ ਇੱਕ ਘੜੀ, ਅਤੇ ਆਈਕਾਨਾਂ ਦਾ ਇੱਕ ਗਰੁੱਪ ਸ਼ਾਮਲ ਹੁੰਦਾ ਹੈ, ਨੂੰ _____ ਕਿਹਾ ਜਾਂਦਾ ਹੈ।

Ans
1. ਰਿਬਨ
2. ਨੋਟੀਫਿਕੇਸ਼ਨ ਏਰੀਆ
3. ਸ਼ਾਰਟਕੱਟ
4. ਸਟਾਰਟ ਮੈਨਿਯੂ

Question ID : **630680247771**
Option 1 ID : **630680961293**
Option 2 ID : **630680961291**
Option 3 ID : **630680961294**
Option 4 ID : **630680961292**
Status : **Answered**
Chosen Option : **4**

Q.53 ਹੇਠਾਂ ਦਿੱਤਿਆਂ ਵਿੱਚੋਂ ਕਿਹੜਾ ਇੱਕ ਸੋਸ਼ਲ ਮੀਡੀਆ ਪਲੇਟਫਾਰਮ ਨਹੀਂ ਹੈ?

Ans
1. ਮੀਡੀਅਮ (Medium)
2. ਬਿੰਗ (Bing)
3. ਕੋਰਾ (Quora)
4. ਟਿਕ-ਟਾਕ (TikTok)

Question ID : **630680247787**
Option 1 ID : **630680961357**
Option 2 ID : **630680961358**
Option 3 ID : **630680961355**
Option 4 ID : **630680961356**
Status : **Answered**
Chosen Option : **3**

DAILY JOB Alert ਪੰਜਾਬ

Q.54 ਜਾਣਕਾਰੀ ਨੂੰ ਐਨਕ੍ਰਿਪਟ ਅਤੇ ਡੀਕ੍ਰਿਪਟ ਕਰਨ ਲਈ ਸਿਮਿਟ੍ਰਿਕ ਐਨਕ੍ਰਿਪਸ਼ਨ _____ ਦੀ ਵਰਤੋਂ ਕਰਦੀ ਹੈ।

Ans
- ✗ 1. ਟ੍ਰਿਪਲ ਕੀਅ
- ✓ 2. ਸਿੰਗਲ ਕੀਅ
- ✗ 3. ਫੋਰ ਕੀਅ
- ✗ 4. ਡਬਲ ਕੀਅ

Question ID : **630680247794**
Option 1 ID : **630680961385**
Option 2 ID : **630680961384**
Option 3 ID : **630680961386**
Option 4 ID : **630680961383**
Status : **Answered**
Chosen Option : **4**

Q.55 ਜਦੋਂ ਅਸੀਂ MS-PowerPoint 2010 ਵਿੱਚ ਇੱਕ ਸਲਾਈਡ 'ਤੇ ਇੱਕ ਤਸਵੀਰ ਚੁਣਦੇ ਹਾਂ, ਤਾਂ ਰਿਬਨ 'ਤੇ ਹੇਠਾਂ ਦਿੱਤੀ ਪ੍ਰਸੰਗਿਕ ਟੈਬ ਵਿੱਚੋਂ ਕਿਹੜਾ ਦਿਖਾਈ ਦਿੰਦਾ ਹੈ?

Ans
- ✗ 1. ਡਰਾਇੰਗ ਟੂਲਜ਼
- ✗ 2. ਲੇਅਆਉਟ
- ✗ 3. ਟੇਬਲ ਡਿਜ਼ਾਇਨ
- ✓ 4. ਪਿਕਚਰ ਟੂਲਜ਼

Question ID : **630680247781**
Option 1 ID : **630680961333**
Option 2 ID : **630680961332**
Option 3 ID : **630680961331**
Option 4 ID : **630680961334**
Status : **Answered**
Chosen Option : **4**

Q.56 MS-Excel ਵਿੱਚ ਇਹਨਾਂ ਵਿੱਚੋਂ ਕਿਹੜਾ ਇੱਕ ਵੈਲਿਡ ਮਿਕਸਡ ਸੈੱਲ ਐਡਰੈਸ ਹੈ?

Ans
- ✓ 1. $K9
- ✗ 2. K9
- ✗ 3. K9
- ✗ 4. K#9#

Question ID : **630680247776**
Option 1 ID : **630680961312**
Option 2 ID : **630680961313**
Option 3 ID : **630680961311**
Option 4 ID : **630680961314**
Status : **Answered**
Chosen Option : **2**

Website - www.dailyjobalert.in

Q.57 ਗੂਗਲ ਕਰੋਮ ਵਿੱਚ ਇੱਕ ਵੈਬ ਪੇਜ ਨੂੰ ਪ੍ਰਿੰਟ ਕਰਨ ਲਈ ਹੇਠਾਂ ਦਿੱਤੇ ਪੜਾਵਾਂ ਦਾ ਸਹੀ ਕ੍ਰਮ ਕਿਹੜਾ ਹੈ?
1. Ctrl + A ਦਬਾਓ।
2.ਪੇਜ 'ਤੇ ਰਾਇਟ ਕਲਿਕ ਕਰੋ ਅਤੇ "ਪ੍ਰਿੰਟ" 'ਤੇ ਲੈਫਟ ਕਲਿਕ ਕਰੋ।
3.ਵੈਬ ਪੇਜ ਖੋਲ੍ਹੋ।

Ans
✗ 1. 2, 1, 3,
✗ 2. 3, 2, 1
✗ 3. 1, 2, 3
✓ 4. 3, 1, 2

Question ID : **630680247786**
Option 1 ID : **630680961354**
Option 2 ID : **630680961352**
Option 3 ID : **630680961351**
Option 4 ID : **630680961353**
Status : **Answered**
Chosen Option : **2**

Q.58 ਹੇਠਾਂ ਦਿੱਤਿਆਂ ਵਿੱਚੋਂ ਕਿਹੜੀ ਇੰਟਰਨੈਟ 'ਤੇ ਇੱਕ ਸੰਚਾਰ ਸਰਵਿਸ ਹੈ?

Ans
✓ 1. ਟੇਲਨੈੱਟ
✗ 2. ਵੈੱਬ ਸਰਵਿਸ
✗ 3. FTP
✗ 4. ਗੋਫਰ

Question ID : **630680247783**
Option 1 ID : **630680961340**
Option 2 ID : **630680961339**
Option 3 ID : **630680961341**
Option 4 ID : **630680961342**
Status : **Answered**
Chosen Option : **2**

Q.59 Microsoft ਦੁਆਰਾ ਸਾਲ 2015 ਵਿੱਚ ਹੇਠਾਂ ਦਿੱਤੇ ਵਿੱਚੋਂ ਕਿਹੜਾ ਵੈੱਬ ਬ੍ਰਾਉਜ਼ਰ ਸਾਫਟਵੇਅਰ ਲਾਂਚ ਕੀਤਾ ਗਿਆ ਸੀ?

Ans
✗ 1. ਇੰਟਰਨੈਟ ਐਕਸਪਲੋਰਰ
✗ 2. ਗੂਗਲ
✓ 3. ਐਜ
✗ 4. ਓਪੇਰਾ

Question ID : **630680247785**
Option 1 ID : **630680961347**
Option 2 ID : **630680961349**
Option 3 ID : **630680961350**
Option 4 ID : **630680961348**
Status : **Answered**
Chosen Option : **4**

DAILY JOB Alert ਪੰਜਾਬ

Q.60 ਗੂਗਲ ਸਰਚ ਇੱਕ ਪੂਰੀ ਤਰ੍ਹਾਂ ਸਵੈਚਾਲਿਤ ਸਰਚ ਇੰਜਣ ਹੈ ਜੋ _____ ਵਜੋਂ ਜਾਣੇ ਜਾਂਦੇ ਸਾਫਟਵੇਅਰ ਦੀ ਵਰਤੋਂ ਕਰਦਾ ਹੈ ਜੋ ਸੂਚਕਾਂਕ ਵਿੱਚ ਪੇਜਾਂ ਨੂੰ ਸ਼ਾਮਲ ਕਰਨ ਦੇ ਉਦੇਸ਼ ਨਾਲ ਲੱਭਣ ਲਈ ਨਿਯਮਿਤ ਤੌਰ 'ਤੇ ਵੈੱਬ ਦੀ ਪੜਚੋਲ ਕਰਦਾ ਹੈ।

Ans
✗ 1. ਵੈਬ ਲੇਅਆਉਟ
✗ 2. ਵੈਬ ਇੰਡੈਕਸਿੰਗ
✗ 3. ਵੈਬ ਸਰਚਿੰਗ
✓ 4. ਵੈਬ ਕਰਾਲਰਜ਼

Question ID : **630680247784**
Option 1 ID : **630680961344**
Option 2 ID : **630680961343**
Option 3 ID : **630680961346**
Option 4 ID : **630680961345**
Status : **Answered**
Chosen Option : **3**

Q.61 MS PowerPoint 2019 ਵਿੱਚ ਰਿਪਲੇਸ ਡਾਇਲਾਗ ਬਾਕਸ ਨੂੰ ਖੋਲ੍ਹਣ ਲਈ ਹੇਠਾਂ ਦਿੱਤੇ ਵਿੱਚੋਂ ਕਿਹੜਾ ਸ਼ਾਰਟਕੱਟ ਵਰਤਿਆ ਜਾਂਦਾ ਹੈ?

Ans
✓ 1. Ctrl + H
✗ 2. Ctrl + R
✗ 3. Alt + H
✗ 4. Alt + R

Question ID : **630680247780**
Option 1 ID : **630680961328**
Option 2 ID : **630680961330**
Option 3 ID : **630680961329**
Option 4 ID : **630680961327**
Status : **Answered**
Chosen Option : **2**

Q.62 MS-Excel ਸਮੀਕਰਨ '=AND(1+1, 1-1)' ਦਾ ਮੁੱਲ _____ ਹੈ।

Ans
✓ 1. ਗਲਤ
✗ 2. ਸਹੀ
✗ 3. 4
✗ 4. 2

Question ID : **630680247778**
Option 1 ID : **630680961320**
Option 2 ID : **630680961319**
Option 3 ID : **630680961322**
Option 4 ID : **630680961321**
Status : **Answered**
Chosen Option : **4**

DAILY JOB Alert ਪੰਜਾਬ

Q.63 MS-Word 2019 ਵਿੱਚ 'Home' ਟੈਬ ਦੇ ਕਿਹੜੇ ਗਰੁੱਪ ਵਿੱਚ ਅਲਾਈਨ ਲੈਫਟ, ਨੰਬਰਿੰਗ, ਬੁਲੇਟਸ ਵਿਕਲਪ ਉਪਲਬਧ ਹਨ?

Ans
- ✔ 1. ਪੈਰਾਗ੍ਰਾਫ
- ✘ 2. ਕਲਿਪਬੋਰਡ
- ✘ 3. ਐਡੀਟਿੰਗ
- ✘ 4. ਐਡੀਟਰ

Question ID : **630680247774**
Option 1 ID : **630680961304**
Option 2 ID : **630680961303**
Option 3 ID : **630680961306**
Option 4 ID : **630680961305**
Status : **Answered**
Chosen Option : **1**

Q.64 ਹੇਠਾਂ ਦਿੱਤਿਆਂ ਵਿੱਚੋਂ ਕਿਹੜੀ Google ਦੁਆਰਾ ਪ੍ਰਦਾਨ ਕੀਤੀ ਵਿਅਕਤੀਗਤ ਮਲਕੀਅਤ ਵਾਲੀ VoIP ਸੇਵਾ ਹੈ?

Ans
- ✘ 1. ਮੈਸੈਨਜਰ (Messenger)
- ✘ 2. ਵੱਟਸਐਪ (WhatsApp)
- ✘ 3. ਫੇਸ ਟਾਇਮ (FaceTime)
- ✔ 4. ਡੁਓ (Duo)

Question ID : **630680247791**
Option 1 ID : **630680961373**
Option 2 ID : **630680961371**
Option 3 ID : **630680961372**
Option 4 ID : **630680961374**
Status : **Answered**
Chosen Option : **1**

Q.65 ਹੇਠ ਲਿਖੀਆਂ ਵਿੱਚੋਂ ਕਿਹੜਾ ਫ਼ੀਚਰ ਇੰਸਟੈਂਟ ਮੈਸੇਜਿੰਗ ਸਹਾਇਤਾ (support) ਨੂੰ ਦਰਸਾਉਂਦਾ ਹੈ ਜੋ ਮੋਬਾਈਲ, ਵੈੱਬ ਅਤੇ ਡੈਸਕਟਾਪ ਪਲੇਟਫਾਰਮਾਂ ਵਿੱਚ ਸੁਨੇਹਿਆਂ ਨੂੰ ਸਿੰਕ ਕਰਨ ਦਾ ਮੌਕਾ ਪ੍ਰਦਾਨ ਕਰਦਾ ਹੈ?

Ans
- ✘ 1. ਐਂਡ-ਟੂ-ਐਂਡ-ਡੀਕ੍ਰਿਪਸ਼ਨ
- ✘ 2. ਐਂਡ-ਟੂ-ਐਂਡ-ਐਨਕ੍ਰਿਪਸ਼ਨ
- ✘ 3. ਮਲਟੀ-ਮੋਡ
- ✔ 4. ਮਲਟੀ-ਪਲੇਟਫਾਰਮ

Question ID : **630680247793**
Option 1 ID : **630680961382**
Option 2 ID : **630680961381**
Option 3 ID : **630680961380**
Option 4 ID : **630680961379**
Status : **Answered**
Chosen Option : **1**

DAILY JOB Alert ਪੰਜਾਬ

Q.66 ਸਮਾਰਟ ਫੋਨਾਂ ਨੂੰ ਸੁਰੱਖਿਅਤ ਕਰਨ ਦੇ ਸੰਬੰਧ ਵਿੱਚ ਹੇਠ ਲਿਖਿਆਂ ਵਿੱਚੋਂ ਕਿਹੜਾ ਗਲਤ ਹੈ?

Ans
- ✗ 1. ਪਾਸਵਰਡ ਕੀਅ ਹੁੰਦੇ ਹਨ
- ✗ 2. ਐਂਟੀਵਾਇਰਸ ਸਾਫ਼ਟਵੇਅਰ ਦੀ ਵਰਤੋਂ ਕਰੋ
- ✗ 3. ਸੰਦੇਹ ਪੂਰਨ ਵੈਬਸਾਈਟਾਂ ਜਾਂ ਐਪਾਂ ਨਾਲ ਕਦੇ ਨਾ ਜੁੜੋ
- ✓ 4. ਓਪਨ ਜਾਂ ਫਰੀ ਵਾਈ-ਫਾਈ ਨੈਟਵਰਕਾਂ ਨਾਲ ਕਨੈਕਟ ਕਰੋ

Question ID : **630680247796**
Option 1 ID : **630680961391**
Option 2 ID : **630680961392**
Option 3 ID : **630680961394**
Option 4 ID : **630680961393**
Status : **Answered**
Chosen Option : **1**

Q.67 ਹੇਠਾਂ ਦਿੱਤੇ ਵਿੱਚੋਂ ਕਿਹੜੀ, ਇੱਕ ਕਿਸਮ ਦੀ ਤਕਨੀਕ ਹੈ ਜੋ ਤੁਹਾਨੂੰ ਇੰਟਰਨੈੱਟ 'ਤੇ ਮੁਫ਼ਤ, ਜਾਂ ਬਹੁਤ ਘੱਟ ਕੀਮਤ 'ਤੇ ਕਾਲਾਂ ਕਰਨ ਦਿੰਦੀ ਹੈ?

Ans
- ✓ 1. VoIP
- ✗ 2. ਪੇਜਰ
- ✗ 3. ਫੈਕਸ
- ✗ 4. SMS

Question ID : **630680247790**
Option 1 ID : **630680961367**
Option 2 ID : **630680961369**
Option 3 ID : **630680961368**
Option 4 ID : **630680961370**
Status : **Answered**
Chosen Option : **1**

Q.68 ਹੇਠਾਂ ਦਿੱਤੀਆਂ ਕੀਬੋਰਡ ਸ਼ਾਰਟਕੱਟ ਕੀਅਜ਼ ਵਿੱਚੋਂ ਕਿਸ ਦੀ ਵਰਤੋਂ MS-Word 2016 ਡੋਕਿਉਮੈਂਟ ਵਿੱਚ ਪੇਜ ਬ੍ਰੇਕ ਇਨਸਰਟ ਕਰਨ ਲਈ ਕੀਤੀ ਜਾਂਦੀ ਹੈ?

Ans
- ✗ 1. Alt + Enter
- ✗ 2. Ctrl + F9
- ✓ 3. Ctrl + Enter
- ✗ 4. Shift + Enter

Question ID : **630680247775**
Option 1 ID : **630680961307**
Option 2 ID : **630680961310**
Option 3 ID : **630680961309**
Option 4 ID : **630680961308**
Status : **Answered**
Chosen Option : **2**

DAILY JOB Alert ਪੰਜਾਬ

Q.69 ਸੋਸ਼ਲ ਮੀਡੀਆ ਪਲੇਟਫਾਰਮਾਂ ਦੇ ਸੰਬੰਧ ਵਿੱਚ ਹੇਠਾਂ ਦਿੱਤੇ ਕਥਨਾਂ ਵਿੱਚੋਂ ਕਿਹੜਾ/ਕਿਹੜੇ ਸਹੀ ਹੈ/ ਹਨ? br/>
(i)ਸੋਸ਼ਲ ਮੀਡੀਆ ਸੰਚਾਰ ਦਾ ਇੱਕ ਇੰਟਰਾਨੈੱਟ-ਆਧਾਰਿਤ ਰੂਪ ਹੈ।
(ii)ਸੋਸ਼ਲ ਮੀਡੀਆ ਪਲੇਟਫਾਰਮ ਯੂਜ਼ਰਾਂ ਨੂੰ ਗੱਲਬਾਤ ਕਰਨ, ਜਾਣਕਾਰੀ ਸਾਂਝੀ ਕਰਨ ਅਤੇ ਵੈਬ ਸਮੱਗਰੀ ਬਣਾਉਣ ਦੀ ਇਜਾਜ਼ਤ ਦਿੰਦੇ ਹਨ।

Ans
✗ 1. ਕੇਵਲ (i)
✗ 2. ਨਾ ਤਾਂ (i) ਨਾ ਹੀ (ii)
✗ 3. (i) ਅਤੇ (ii) ਦੋਵੇਂ
✓ 4. ਕੇਵਲ (ii)

Question ID : **630680247789**
Option 1 ID : **630680961363**
Option 2 ID : **630680961366**
Option 3 ID : **630680961365**
Option 4 ID : **630680961364**
Status : **Answered**
Chosen Option : **4**

Q.70 ਹੇਠਾਂ ਦਿੱਤੇ ਵਿੱਚੋਂ ਕਿਹੜਾ ਇੱਕ ਇੰਸਟੈਂਟ ਮੈਸੇਜਿੰਗ ਐਪ ਹੈ ਜੋ Microsoft ਦੁਆਰਾ ਸਾਰੇ ਆਕਾਰ ਦੇ ਵਪਾਰ ਲਈ ਤਿਆਰ ਕੀਤਾ ਗਿਆ?

Ans
✗ 1. ਮੈਸੇਨਜਰ (Messenger)
✗ 2. ਕਲਿਕ (Cliq)
✓ 3. ਟੀਮਜ਼ (Teams)
✗ 4. ਸਲੈਕ (Slack)

Question ID : **630680247792**
Option 1 ID : **630680961376**
Option 2 ID : **630680961378**
Option 3 ID : **630680961377**
Option 4 ID : **630680961375**
Status : **Answered**
Chosen Option : **3**

Q.71 ਹੇਠਾਂ ਦਿੱਤਿਆਂ ਵਿੱਚੋਂ ਕਿਹੜੀ ਕੰਪਿਊਟਰ ਕੀਬੋਰਡ ਦੀ ਕੰਟਰੋਲ ਕੀਅ ਨਹੀਂ ਹੈ?

Ans
✗ 1. Alt
✗ 2. Ctrl
✓ 3. F2
✗ 4. Esc

Question ID : **630680247767**
Option 1 ID : **630680961276**
Option 2 ID : **630680961275**
Option 3 ID : **630680961277**
Option 4 ID : **630680961278**
Status : **Answered**
Chosen Option : **4**

Website - www.dailyjobalert.in

Q.72 ਇਹਨਾਂ ਵਿੱਚੋਂ ਕਿਹੜਾ ਕਮਿਊਨਿਟੀ ਬਲੌਗ ਸੋਸ਼ਲ ਮੀਡੀਆ ਪਲੇਟਫਾਰਮ ਦੀ ਕਿਸਮ ਹੈ?

Ans
1. ✗ ਯੂ ਟਿਊਬ (YouTube)
2. ✗ ਟਵਿੱਟਰ (Twitter)
3. ✗ ਫੇਸਬੁੱਕ (Facebook)
4. ✓ ਟੰਮਲਰ (Tumblr)

Question ID : **630680247788**
Option 1 ID : **630680961362**
Option 2 ID : **630680961360**
Option 3 ID : **630680961359**
Option 4 ID : **630680961361**
Status : **Answered**
Chosen Option : **2**

Q.73 _____ ਨੂੰ ਭਾਸ਼ਾ ਨੂੰ ਕਿਸੇ ਵੀ ਰੂਪ ਵਿੱਚ ਬਦਲਣ ਲਈ ਕਿਸੇ ਦੁਭਾਸ਼ੀਏ ਜਾਂ ਕੰਪਾਈਲਰ ਦੀ ਲੋੜ ਨਹੀਂ ਹੈ ਕਿਉਂਕਿ ਕੰਪਿਊਟਰ ਇਹਨਾਂ ਸਿਗਨਲਾਂ ਨੂੰ ਸਿੱਧੇ ਤੌਰ 'ਤੇ ਸਮਝਦਾ ਹੈ।

Ans
1. ✗ ਉੱਚ ਪੱਧਰੀ ਭਾਸ਼ਾ
2. ✗ ਅਸੈਂਬਲੀ ਭਾਸ਼ਾ
3. ✗ ਮੱਧ ਪੱਧਰੀ ਭਾਸ਼ਾ
4. ✓ ਬਾਈਨਰੀ ਭਾਸ਼ਾ

Question ID : **630680247769**
Option 1 ID : **630680961285**
Option 2 ID : **630680961284**
Option 3 ID : **630680961286**
Option 4 ID : **630680961283**
Status : **Answered**
Chosen Option : **4**

Q.74 ਵਿੰਡੋਜ਼ 10 ਵਿੱਚ ਕੁਝ ਸਭ ਤੋਂ ਆਮ ਮਾਊਸ ਸੈਟਿੰਗਾਂ ਤੱਕ ਤੁਰੰਤ ਪਹੁੰਚ ਪ੍ਰਾਪਤ ਕਰਨ ਲਈ ਹੇਠਾਂ ਦਿੱਤੇ ਕ੍ਰਮਾਂ ਵਿੱਚੋਂ ਕਿਸ ਦੀ ਵਰਤੋਂ ਕੀਤੀ ਜਾਂਦੀ ਹੈ?

Ans
1. ✗ Start menu->This PC->Devices->Mouse
2. ✓ Start menu->Settings->Devices->Mouse
3. ✗ Start menu-> Settings->Programs-> Mouse
4. ✗ Start menu->Settings->Documents->Mouse

Question ID : **630680247772**
Option 1 ID : **630680961296**
Option 2 ID : **630680961297**
Option 3 ID : **630680961295**
Option 4 ID : **630680961298**
Status : **Answered**
Chosen Option : **4**

DAILY JOB Alert ਪੰਜਾਬ

Q.75 ਹੇਠਾਂ ਦਿੱਤਿਆਂ ਵਿੱਚੋਂ ਕਿਹੜਾ ਡੈਸਕਟਾਪ ਓਪਰੇਟਿੰਗ ਸਿਸਟਮ ਦੀ ਉਦਾਹਰਣ ਹੈ?

Ans
✔ 1. ਉਬੰਟੂ (Ubuntu)
✘ 2. iOS
✘ 3. ਸਿੰਬਿਅਨ (Symbian)
✘ 4. ਐਂਡਰੋਇਡ (Android)

Question ID : **630680247770**
Option 1 ID : **630680961290**
Option 2 ID : **630680961289**
Option 3 ID : **630680961287**
Option 4 ID : **630680961288**
Status : **Answered**
Chosen Option : **4**

Q.76 ਪੈਰਾਗ੍ਰਾਫ ਡਾਇਲਾਗ ਬਾਕਸ ਦੇ ਹੇਠਾਂ ਦਿੱਤਿਆਂ ਵਿੱਚੋਂ ਕਿਹੜੇ ਵਿਕਲਪ ਦੀ ਵਰਤੋਂ, MS-Word 2019 ਡੋਕਿਊਮੈਂਟ ਵਿੱਚ ਲਾਈਨਾਂ ਅਤੇ ਪੈਰਿਆਂ ਤੋਂ ਪਹਿਲਾਂ ਅਤੇ ਬਾਅਦ ਵਿੱਚ ਸਪੇਸ ਦੀ ਮਾਤਰਾ ਨੂੰ ਅਨੁਕੂਲ ਬਣਾਉਣ ਲਈ ਕੀਤੀ ਜਾਂਦੀ ਹੈ?

Ans
✘ 1. ਜਨਰਲ
✘ 2. ਪੈਜੀਨੇਸ਼ਨ
✔ 3. ਸਪੇਸਿੰਗ
✘ 4. ਇਨਡੈਨਟੇਸ਼ਨ

Question ID : **630680247773**
Option 1 ID : **630680961299**
Option 2 ID : **630680961302**
Option 3 ID : **630680961301**
Option 4 ID : **630680961300**
Status : **Answered**
Chosen Option : **3**

Q.77 MS-Excel 2019 ਵਿੱਚ ਹੇਠਾਂ ਦਿੱਤੇ ਵਿਕਲਪਾਂ ਵਿੱਚੋਂ ਕਿਹੜਾ ਵਿਕਲਪ ਸੈੱਲਾਂ ਦੀ ਇੱਕ ਰੇਂਜ ਨੂੰ ਉਸਦੇ ਆਪਣੇ ਸਟਾਇਲ ਨਾਲ ਇੱਕ ਟੇਬਲ ਵਿੱਚ ਬਦਲਣ ਲਈ ਵਰਤਿਆ ਜਾਂਦਾ ਹੈ?

Ans
✔ 1. ਟੇਬਲ ਦੇ ਤੌਰ 'ਤੇ ਫੋਰਮੈਟ ਕਰਨਾ (ਫੋਰਮੈਟ ਏਜ਼ ਟੇਬਲ)
✘ 2. ਕੰਡੀਸ਼ਨਲ ਫੋਰਮੈਟਿੰਗ
✘ 3. ਸੈਲ ਸਟਾਇਲਜ਼
✘ 4. ਫੋਰਮੈਟ

Question ID : **630680247777**
Option 1 ID : **630680961315**
Option 2 ID : **630680961316**
Option 3 ID : **630680961317**
Option 4 ID : **630680961318**
Status : **Answered**
Chosen Option : **1**

Website - www.dailyjobalert.in

Q.78 ਪਛਾਣ ਕਰੋ, ਹੇਠਾਂ ਦਿੱਤੇ ਕਥਨਾਂ ਵਿੱਚੋਂ ਕਿਹੜਾ ਸਹੀ ਜਾਂ ਗਲਤ ਹੈ।

I.IPv4 ਐਡਰੈੱਸ ਦੀ ਲੰਬਾਈ 32 ਬਾਈਟਸ ।
II.Google ਇੱਕ ਵੈਬ ਸਰਚ ਇੰਜਨ ਹੈ।

Ans
✔ 1. I – ਸਹੀ, II – ਸਹੀ
✘ 2. I – ਗਲਤ, II – ਗਲਤ
✘ 3. I – ਸਹੀ, II – ਗਲਤ
✘ 4. I – ਗਲਤ, II – ਸਹੀ

Question ID : **630680247782**
Option 1 ID : **630680961335**
Option 2 ID : **630680961338**
Option 3 ID : **630680961336**
Option 4 ID : **630680961337**
Status : **Answered**
Chosen Option : **4**

Q.79 ਹੇਠਾਂ ਦਿੱਤਿਆਂ ਵਿੱਚੋਂ ਕਿਹੜੀ ਇੱਕ ਸਿਮਿਟ੍ਰਿਕ ਐਨਕ੍ਰਿਪਸ਼ਨ ਵਿਧੀ ਹੈ?

Ans
✔ 1. ਡੇਟਾ ਐਨਕ੍ਰਿਪਸ਼ਨ ਸਟੈਂਡਰਡਜ਼ (DES)
✘ 2. ਰਿਵਸਟ ਸ਼ੈਮੀਅਰ ਐਡਲਮਨ (RSA)
✘ 3. ਐਲਿਪਟੀਕਲ ਕਰਵ ਕ੍ਰਿਪਟੋਗ੍ਰਾਫੀ (ECC)
✘ 4. ਡਿਜੀਟਲ ਸਿਗਨੇਚਰ ਸਟੈਂਡਰਡਜ਼ (DSS)

Question ID : **630680247795**
Option 1 ID : **630680961387**
Option 2 ID : **630680961388**
Option 3 ID : **630680961390**
Option 4 ID : **630680961389**
Status : **Answered**
Chosen Option : **1**

Q.80 MS-PowerPoint 2016 ਵਿੱਚ ਫੌਂਟ ਸਾਈਜ਼ ਡਰਾਪ-ਡਾਉਨ ਸੂਚੀ ਵਿੱਚੋਂ ਸਭ ਤੋਂ ਵੱਡਾ ਫੌਂਟ ਸਾਈਜ਼ ਕਿਹੜਾ ਚੁਣਿਆ ਜਾ ਸਕਦਾ ਹੈ?

Ans
✘ 1. 60
✘ 2. 98
✔ 3. 96
✘ 4. 72

Question ID : **630680247779**
Option 1 ID : **630680961323**
Option 2 ID : **630680961326**
Option 3 ID : **630680961325**
Option 4 ID : **630680961324**
Status : **Answered**
Chosen Option : **4**

Section : **English Language**

Website - www.dailyjobalert.in

Q.81 Select the grammatically correct sentence.

Ans
✔ 1. Rahul runs faster than Pranjal.

✘ 2. Rahul ran fastest than Pranjal.

✘ 3. Rahul runs fast than Pranjal.

✘ 4. Rahul run faster than Pranjal.

Question ID : **630680161635**
Option 1 ID : **630680625868**
Option 2 ID : **630680625871**
Option 3 ID : **630680625870**
Option 4 ID : **630680625869**
Status : **Answered**
Chosen Option : **4**

Q.82 "ਅਫਵਾਹਾਂ 'ਤੇ ਯਕੀਨ ਨਾ ਕਰੋ।" ਇਸ ਵਾਕ ਦਾ ਅੰਗਰੇਜ਼ੀ ਅਨੁਵਾਦ ਹੈ:-

Ans
✔ 1. Don't believe in rumors.

✘ 2. I will believe in what is being said.

✘ 3. Don't believe in rumor.

✘ 4. Believe not in rumors.

Question ID : **630680248099**
Option 1 ID : **630680962606**
Option 2 ID : **630680962603**
Option 3 ID : **630680962605**
Option 4 ID : **630680962604**
Status : **Answered**
Chosen Option : **1**

Q.83 Select the most appropriate option to fill in the blank.

Mohini got into _____ trouble after the death of her mother.

Ans
✘ 1. giant

✘ 2. huge

✘ 3. large

✔ 4. deep

Question ID : **630680119607**
Option 1 ID : **630680463521**
Option 2 ID : **630680463520**
Option 3 ID : **630680463519**
Option 4 ID : **630680463518**
Status : **Answered**
Chosen Option : **4**

Website - www.dailyjobalert.in

Q.84 Select the most appropriate ANTONYM of the given word.
Misnomer

Ans
✗ 1. Alphanumeric

✗ 2. Difficult

✓ 3. Accurate

✗ 4. Denominator

Question ID : **630680146611**
Option 1 ID : **630680567327**
Option 2 ID : **630680567329**
Option 3 ID : **630680567328**
Option 4 ID : **630680567326**
Status : **Answered**
Chosen Option : **4**

Q.85 Select the option that can be used as a one-word substitute for the given group of words.

One who feeds on human flesh

Ans
✗ 1. Insectivorous

✗ 2. Herbivorous

✗ 3. Carnivorous

✓ 4. Cannibal

Question ID : **630680129649**
Option 1 ID : **630680502205**
Option 2 ID : **630680502204**
Option 3 ID : **630680502202**
Option 4 ID : **630680502203**
Status : **Answered**
Chosen Option : **4**

Q.86 Parts of a sentence are given below in jumbled order. Arrange the parts in the correct order to form a meaningful sentence.
A.mesmerise any
B.the rainbow can
C.the colours of
D.their radiance
E.onlooker with

Ans
✗ 1. C, B, D, A, E

✓ 2. C, B, A, E, D

✗ 3. D, A, C, E, B

✗ 4. B, C, A, E, D

Question ID : **630680113207**
Option 1 ID : **630680438393**
Option 2 ID : **630680438391**
Option 3 ID : **630680438392**
Option 4 ID : **630680438390**
Status : **Answered**
Chosen Option : **3**

Website - www.dailyjobalert.in

Q.87 Select the most appropriate ANTONYM of the underlined word.

The Prime Minister was adamant on this point.

Ans

✗ 1. Obsessive

✗ 2. Contrary

✓ 3. Flexible

✗ 4. Dormant

Question ID : **630680129316**
Option 1 ID : **630680500884**
Option 2 ID : **630680500885**
Option 3 ID : **630680500883**
Option 4 ID : **630680500882**
Status : **Answered**
Chosen Option : **3**

Q.88 Select the most appropriate ANTONYM of the underlined word.
Marilla found Mrs. Lynde knitting quilts as industriously and cheerfully as usual.

Ans

✗ 1. neatly

✗ 2. crazily

✓ 3. lazily

✗ 4. busily

Question ID : **63068071209**
Option 1 ID : **630680275425**
Option 2 ID : **630680275424**
Option 3 ID : **630680275422**
Option 4 ID : **630680275423**
Status : **Answered**
Chosen Option : **4**

Website - www.dailyjobalert.in

Q.89 Select the option that correctly rearranges the given set of disarranged fragments into a logical and meaningful sentence.
Constitution / that there shall be / provides a Council of Ministers / Article 74(1) of the / with the Prime Minister the President, who shall / as its head to aid and advise / exercise his / her functions to the advice / in accordance

Ans

✔ 1. Article 74(1) of the Constitution provides that there shall be a Council of Ministers with the Prime Minister as its head to aid and advise the President, who shall exercise his/her functions in accordance to the advice.

✘ 2. Article 74(1) of the Constitution provides aid and to advise the President, who shall exercise his/her functions in accordance to the advice that there shall be a Council of Ministers with the Prime Minister as its head.

✘ 3. There shall be a Council of Article 74(1) of the Constitution provides that Ministers with the Prime Minister as its head to aid and advise the President, who shall exercise his/her functions in accordance to the advice.

✘ 4. There shall be a Council of Ministers with the Prime Minister as its head to aid and Article 74(1) of the Constitution provides that advise, the President who shall exercise his/her functions in accordance to the advice.

Question ID : **630680113801**
Option 1 ID : **630680440732**
Option 2 ID : **630680440731**
Option 3 ID : **630680440730**
Option 4 ID : **630680440733**
Status : **Answered**
Chosen Option : **1**

Q.90 Select the most appropriate option to fill in the blanks with the adjectives in the order in which they would appear.
She was a _____ and _____ , _____- skinned, _____ woman.

Ans

✔ 1. beautiful; slim; brown; Egyptian

✘ 2. slim; Egyptian; beautiful; brown

✘ 3. brown; beautiful; slim; Egyptian

✘ 4. brown; slim; Egyptian; beautiful

Question ID : **630680146579**
Option 1 ID : **630680567200**
Option 2 ID : **630680567199**
Option 3 ID : **630680567201**
Option 4 ID : **630680567198**
Status : **Answered**
Chosen Option : **1**

Website - www.dailyjobalert.in

Q.91 **Select the option that can be used as a one-word substitute for the given group of words.**
The house of an Eskimo

Ans
✗ 1. Kayak

✗ 2. Ranch

✗ 3. Boat

✓ 4. Igloo

Question ID : **630680129513**
Option 1 ID : **630680501670**
Option 2 ID : **630680501672**
Option 3 ID : **630680501671**
Option 4 ID : **630680501673**
Status : **Answered**
Chosen Option : **4**

Q.92 **Select the most appropriate option to fill in the blanks.**

_____ whole nation has suffered due to ____ pandemic.

Ans
✗ 1. A, the

✗ 2. The, a

✓ 3. The, the

✗ 4. A, a

Question ID : **63068055946**
Option 1 ID : **630680215792**
Option 2 ID : **630680215793**
Option 3 ID : **630680215791**
Option 4 ID : **630680215790**
Status : **Answered**
Chosen Option : **1**

Q.93 **Select the most appropriate ANTONYM of the capitalised word in the given sentence.**
Sparrows are a very COMMON bird.

Ans
✓ 1. Rare

✗ 2. Flippant

✗ 3. Prohibit

✗ 4. Easy

Question ID : **630680118349**
Option 1 ID : **630680458533**
Option 2 ID : **630680458530**
Option 3 ID : **630680458531**
Option 4 ID : **630680458532**
Status : **Answered**
Chosen Option : **1**

Website - www.dailyjobalert.in

Q.94 Select the sentence in which all the words are spelt correctly.

Ans

✗ 1. The company has already lounched cables and connectivity solutions for enabling 5G globally.

✗ 2. The company has already lanched cables and connectivity solutions for enabling 5G globally.

✗ 3. The company has already lownched cables and connectivity solutions for enabling 5G globally.

✓ 4. The company has already launched cables and connectivity solutions for enabling 5G globally.

Question ID : **630680131756**
Option 1 ID : **630680510235**
Option 2 ID : **630680510234**
Option 3 ID : **630680510237**
Option 4 ID : **630680510236**
Status : **Answered**
Chosen Option : **4**

Q.95 The following sentence has been divided into parts. One of them may contain an error. Select the part that contains the error from the given options. If you don't find any error, mark 'No error' as your answer.
As the neighbours disturbed us/ with loud noise from their sound system,/ we lodged a complaint opposite to them.

Ans

✓ 1. We lodged a complaint opposite to them.

✗ 2. As the neighbours disturbed us

✗ 3. No error

✗ 4. With loud noise from their sound system,

Question ID : **630680176549**
Option 1 ID : **630680684422**
Option 2 ID : **630680684420**
Option 3 ID : **630680684423**
Option 4 ID : **630680684421**
Status : **Answered**
Chosen Option : **1**

DAILY JOB Alert

Comprehension:

Read the given passage and answer the questions that follow.

In Russell's opinion, "Boredom as a factor in human behaviour has received far less attention than it deserves". He believes it to be 'one of the great motive powers throughout the historical epoch, and is so at the present day more than ever'. 'A distinctively human emotion' hence must be scrutinised. His essay was first published in 1930 when there was not much mass consumption of entertainment and excitement which the digital world offers us in these times. His ideas are relevant because our anxieties may have evolved with all the technologies but the necessity to cope with them is the same. This is such a time when the greatest achievement would be to understand ourselves and make sense of the things we do all the time.

Interestingly, he is not asking us to live a life of old times, when there was no technology, and it was harder for underprivileged to do daily tasks. In winters they had to scooch in one room to beat cold or when they had nothing to read or write. Neither he is admiring the old 'happy family time' when the women of the house cleaned up after dinner and all the children had to sit around the father to listen to him, quietly. When women were indulged in the cycle of life where the greatest achievement for them was to get married. Instead, he is making a case for human beings to find their potentials beyond the boundaries of mere animalistic desires.

SubQuestion No : 96

Q.96 What is the tone of the speaker?

Ans

✗ 1. Humorous

✗ 2. Joyful

✗ 3. Threatening

✓ 4. Serious

Question ID : **63068084645**
Option 1 ID : **630680328115**
Option 2 ID : **630680328112**
Option 3 ID : **630680328113**
Option 4 ID : **630680328114**
Status : **Answered**
Chosen Option : **4**

DAILY JOB Alert ਪੰਜਾਬ

Comprehension:

Read the given passage and answer the questions that follow.

In Russell's opinion, "Boredom as a factor in human behaviour has received far less attention than it deserves". He believes it to be 'one of the great motive powers throughout the historical epoch, and is so at the present day more than ever'. 'A distinctively human emotion' hence must be scrutinised. His essay was first published in 1930 when there was not much mass consumption of entertainment and excitement which the digital world offers us in these times. His ideas are relevant because our anxieties may have evolved with all the technologies but the necessity to cope with them is the same. This is such a time when the greatest achievement would be to understand ourselves and make sense of the things we do all the time.

Interestingly, he is not asking us to live a life of old times, when there was no technology, and it was harder for underprivileged to do daily tasks. In winters they had to scooch in one room to beat cold or when they had nothing to read or write. Neither he is admiring the old 'happy family time' when the women of the house cleaned up after dinner and all the children had to sit around the father to listen to him, quietly. When women were indulged in the cycle of life where the greatest achievement for them was to get married. Instead, he is making a case for human beings to find their potentials beyond the boundaries of mere animalistic desires.

SubQuestion No : 97

Q.97 Why, according to the author, are Russell's ideas relevant?

Ans

✗ 1. It's because man's attitude towards happiness may have changed.

✗ 2. It's because man's thinking may have affected his future plans.

✓ 3. It's because man's anxieties may have evolved with all the technologies.

✗ 4. It's because man's interests may have evolved with all the changes.

Question ID : **63068084643**
Option 1 ID : **630680328105**
Option 2 ID : **630680328107**
Option 3 ID : **630680328106**
Option 4 ID : **630680328104**
Status : **Answered**
Chosen Option : **3**

DAILY JOB Alert ਪੰਜਾਬ

Comprehension:

Read the given passage and answer the questions that follow.

In Russell's opinion, "Boredom as a factor in human behaviour has received far less attention than it deserves". He believes it to be 'one of the great motive powers throughout the historical epoch, and is so at the present day more than ever'. 'A distinctively human emotion' hence must be scrutinised. His essay was first published in 1930 when there was not much mass consumption of entertainment and excitement which the digital world offers us in these times. His ideas are relevant because our anxieties may have evolved with all the technologies but the necessity to cope with them is the same. This is such a time when the greatest achievement would be to understand ourselves and make sense of the things we do all the time.

Interestingly, he is not asking us to live a life of old times, when there was no technology, and it was harder for underprivileged to do daily tasks. In winters they had to scooch in one room to beat cold or when they had nothing to read or write. Neither he is admiring the old 'happy family time' when the women of the house cleaned up after dinner and all the children had to sit around the father to listen to him, quietly. When women were indulged in the cycle of life where the greatest achievement for them was to get married. Instead, he is making a case for human beings to find their potentials beyond the boundaries of mere animalistic desires.

SubQuestion No : 98

Q.98 Select the suitable word given in the passage meaning 'a particular period of time'.

Ans

✗ 1. Task

✗ 2. Underprivileged

✓ 3. Epoch

✗ 4. Scooch

Question ID : **63068084644**
Option 1 ID : **630680328111**
Option 2 ID : **630680328110**
Option 3 ID : **630680328108**
Option 4 ID : **630680328109**
Status : **Answered**
Chosen Option : **2**

DAILY JOB Alert ਪੰਜਾਬ

Comprehension:

Read the given passage and answer the questions that follow.

In Russell's opinion, "Boredom as a factor in human behaviour has received far less attention than it deserves". He believes it to be 'one of the great motive powers throughout the historical epoch, and is so at the present day more than ever'. 'A distinctively human emotion' hence must be scrutinised. His essay was first published in 1930 when there was not much mass consumption of entertainment and excitement which the digital world offers us in these times. His ideas are relevant because our anxieties may have evolved with all the technologies but the necessity to cope with them is the same. This is such a time when the greatest achievement would be to understand ourselves and make sense of the things we do all the time.

Interestingly, he is not asking us to live a life of old times, when there was no technology, and it was harder for underprivileged to do daily tasks. In winters they had to scooch in one room to beat cold or when they had nothing to read or write. Neither he is admiring the old 'happy family time' when the women of the house cleaned up after dinner and all the children had to sit around the father to listen to him, quietly. When women were indulged in the cycle of life where the greatest achievement for them was to get married. Instead, he is making a case for human beings to find their potentials beyond the boundaries of mere animalistic desires.

SubQuestion No : 99

Q.99 What is the theme of the passage?

Ans

✗ 1. Excitement

✗ 2. Living without technology

✗ 3. Happy life

✓ 4. Boredom

Question ID : **63068084642**
Option 1 ID : **630680328101**
Option 2 ID : **630680328102**
Option 3 ID : **630680328103**
Option 4 ID : **630680328100**
Status : **Answered**
Chosen Option : **3**

DAILY JOB Alert ਪੰਜਾਬ

Comprehension:

Read the given passage and answer the questions that follow.

In Russell's opinion, "Boredom as a factor in human behaviour has received far less attention than it deserves". He believes it to be 'one of the great motive powers throughout the historical epoch, and is so at the present day more than ever'. 'A distinctively human emotion' hence must be scrutinised. His essay was first published in 1930 when there was not much mass consumption of entertainment and excitement which the digital world offers us in these times. His ideas are relevant because our anxieties may have evolved with all the technologies but the necessity to cope with them is the same. This is such a time when the greatest achievement would be to understand ourselves and make sense of the things we do all the time.

Interestingly, he is not asking us to live a life of old times, when there was no technology, and it was harder for underprivileged to do daily tasks. In winters they had to scooch in one room to beat cold or when they had nothing to read or write. Neither he is admiring the old 'happy family time' when the women of the house cleaned up after dinner and all the children had to sit around the father to listen to him, quietly. When women were indulged in the cycle of life where the greatest achievement for them was to get married. Instead, he is making a case for human beings to find their potentials beyond the boundaries of mere animalistic desires.

SubQuestion No : 100

Q.100 How does the speaker evaluate the arguments of Russell?

Ans

✗ 1. Russell's arguments are complex but acceptable.

✗ 2. Russell's arguments are confusing and scattered.

✗ 3. Russell's arguments are irrelevant and outdated.

✓ 4. Russell's arguments are relevant and sharp.

Question ID : **63068084646**
Option 1 ID : **630680328118**
Option 2 ID : **630680328116**
Option 3 ID : **630680328117**
Option 4 ID : **630680328119**
Status : **Answered**
Chosen Option : **4**

Section : **Qualifying Test of Punjabi Language**

Q.1 'ਸਬਰ ਨਾਲ ਕੀਤਾ ਕੰਮ ਜ਼ਰੂਰ ਪੂਰਾ ਹੁੰਦਾ ਹੈ' ਲਈ ਕਿਸ ਅਖਾਣ ਦੀ ਵਰਤੋਂ ਕੀਤੀ ਜਾਂਦੀ ਹੈ:-

Ans

✓ 1. ਸਹਿਜ ਪੱਕੇ ਸੋ ਮੀਠਾ ਹੋਏ।

✗ 2. ਸਾਈਆਂ ਕਿਤੇ, ਵਧਾਈਆਂ ਕਿਤੇ।

✗ 3. ਕਰ ਮਜ਼ੂਰੀ ਤੇ ਖਾਹ ਚੂਰੀ।

✗ 4. ਹੋਣੀ ਹਾਰ ਮਿਟਾਵੇ ਕੌਣ ।

Question ID : **630680248269**
Option 1 ID : **630680963219**
Option 2 ID : **630680963220**
Option 3 ID : **630680963222**
Option 4 ID : **630680963221**
Status : **Answered**
Chosen Option : **1**

Website - www.dailyjobalert.in

Q.2 'ਮੋਬਾਇਲ ਦੀ ਜਿਆਦਾ ਵਰਤੋਂ ਨਾਲ _____ ਕਮਜ਼ੋਰ ਹੋ ਜਾਂਦੀਆਂ ਹਨ।' ਵਿਚ ਖਾਲੀ ਸਥਾਨ ਭਰਨ ਦਾ ਸਹੀ ਵਿਕਲਪ ਹੈ:-

Ans
- ✔ 1. ਅੱਖਾਂ
- ✘ 2. ਪਲਕਾਂ
- ✘ 3. ਦਿਮਾਗ
- ✘ 4. ਉਂਗਲਾਂ

Question ID : **630680248283**
Option 1 ID : **630680963278**
Option 2 ID : **630680963275**
Option 3 ID : **630680963277**
Option 4 ID : **630680963276**
Status : **Answered**
Chosen Option : **1**

Q.3 ਹੇਠ ਲਿਖਿਆਂ ਵਿਚ ਅਗੇਤਰ ਯੁਕਤ ਸ਼ਬਦ ਹੈ:-

Ans
- ✘ 1. ਕਾਰ
- ✘ 2. ਤੰਦਰੁਸਤ
- ✔ 3. ਪਰਦੇਸ
- ✘ 4. ਬਰਾਬਰ

Question ID : **630680248280**
Option 1 ID : **630680963266**
Option 2 ID : **630680963264**
Option 3 ID : **630680963265**
Option 4 ID : **630680963263**
Status : **Answered**
Chosen Option : **1**

Q.4 ਹਫ਼ਤੇ ਤੋਂ ਕੀ ਭਾਵ ਹੈ?

Ans
- ✘ 1. ਤਿੰਨ ਦਿਨ
- ✘ 2. ਚਾਰ ਦਿਨ
- ✔ 3. ਸੱਤ ਦਿਨ
- ✘ 4. ਛੇ ਦਿੰਨ

Question ID : **630680248304**
Option 1 ID : **630680963359**
Option 2 ID : **630680963362**
Option 3 ID : **630680963360**
Option 4 ID : **630680963361**
Status : **Answered**
Chosen Option : **3**

DAILY JOB Alert ਪੰਜਾਬ

Q.5 'ਭਾਰਤ ਦੀ ਰਾਜਧਾਨੀ _____ ਹੈ।' ਵਿਚ ਖਾਲੀ ਸਥਾਨ ਭਰਨ ਦਾ ਸਹੀ ਵਿਕਲਪ ਹੈ:-

Ans
✔ 1. ਦਿੱਲੀ
✘ 2. ਕਨਾਟ ਪਲੇਸ
✘ 3. ਦਿੱਲੀ ਕੈਂਟ
✘ 4. ਗੁਰੂਗਰਾਮ

Question ID : **630680248284**
Option 1 ID : **630680963282**
Option 2 ID : **630680963280**
Option 3 ID : **630680963281**
Option 4 ID : **630680963279**
Status : **Answered**
Chosen Option : **1**

Q.6 ਹੇਠ ਲਿਖੇ ਸ਼ਬਦਾਂ ਵਿਚ 'ਅਨਾਥ' ਦਾ ਸਹੀ ਅਰਥ ਨਹੀਂ ਹੈ:-

Ans
✘ 1. ਬੇਸਹਾਰਾ
✔ 2. ਭੁੱਖਾ
✘ 3. ਲਾਵਾਰਸ
✘ 4. ਯਤੀਮ

Question ID : **630680248292**
Option 1 ID : **630680963314**
Option 2 ID : **630680963311**
Option 3 ID : **630680963312**
Option 4 ID : **630680963313**
Status : **Answered**
Chosen Option : **4**

Q.7 ਹੇਠ ਲਿਖਿਆਂ 'ਚੋਂ ਪੂਰਨ ਵਿਸ਼ਰਾਮ ਚਿੰਨ੍ਹ ਦੀ ਚੋਣ ਕਰੋ।

Ans
✘ 1. :
✔ 2. ।
✘ 3. ?
✘ 4. !

Question ID : **630680248293**
Option 1 ID : **630680963318**
Option 2 ID : **630680963315**
Option 3 ID : **630680963316**
Option 4 ID : **630680963317**
Status : **Answered**
Chosen Option : **4**

DAILY JOB Alert ਪੰਜਾਬ

Q.8 'ਭਾਰਤ ਤੋਂ ਇਲਾਵਾ _____ ਵਿਚ ਪੰਜਾਬੀ ਭਾਸ਼ਾ ਨੂੰ ਸਰਕਾਰੀ ਪੱਧਰ 'ਤੇ ਮਾਨਤਾ ਪ੍ਰਾਪਤ ਹੈ।' ਵਿਚ ਖਾਲੀ ਸਥਾਨ ਭਰਨ ਦਾ ਸਹੀ ਵਿਕਲਪ ਹੈ:-

Ans
1. ਸਵਿਟਜ਼ਰਲੈਂਡ
2. ਕੈਨੈਡਾ
3. ਜਰਮਨੀ
4. ਰੂਸ

Question ID : **630680248285**
Option 1 ID : **630680963284**
Option 2 ID : **630680963285**
Option 3 ID : **630680963283**
Option 4 ID : **630680963286**
Status : **Answered**
Chosen Option : **2**

Q.9 'ਅਕਹਿ' ਸ਼ਬਦ ਵਿਚ ਅਗੇਤਰ ਹੈ:-

Ans
1. ਆਕ
2. ਆ
3. ਅ
4. ਅਕ

Question ID : **630680248278**
Option 1 ID : **630680963258**
Option 2 ID : **630680963256**
Option 3 ID : **630680963257**
Option 4 ID : **630680963255**
Status : **Answered**
Chosen Option : **4**

Q.10 ਇਸ ਵਿਸ਼ਰਾਮ ਚਿੰਨ੍ਹ (!) ਨੂੰ ਕੀ ਕਹਿੰਦੇ ਹਨ-

Ans
1. ਬਿੰਦੀ ਕਮਾ
2. ਕਾਮਾ
3. ਪ੍ਰਸ਼ਨ ਚਿੰਨ੍ਹ
4. ਵਿਸਮਿਕ ਚਿੰਨ੍ਹ

Question ID : **630680248296**
Option 1 ID : **630680963330**
Option 2 ID : **630680963329**
Option 3 ID : **630680963327**
Option 4 ID : **630680963328**
Status : **Answered**
Chosen Option : **4**

DAILY JOB Alert ਪੰਜਾਬ

Q.11 'Sword' ਸ਼ਬਦ ਦਾ ਪੰਜਾਬੀ ਅਨੁਵਾਦ ਨਹੀਂ ਹੈ:-

Ans
✔ 1. ਦਾਤੀ
✘ 2. ਸ਼ਮਸ਼ੀਰ
✘ 3. ਤੇਗ
✘ 4. ਕਿਰਪਾਨ

Question ID : **630680248298**
Option 1 ID : **630680963336**
Option 2 ID : **630680963338**
Option 3 ID : **630680963335**
Option 4 ID : **630680963337**
Status : **Answered**
Chosen Option : **4**

Q.12 ਕਿਹੜਾ ਸ਼ਬਦ ਅਸ਼ੁੱਧ ਹੈ?

Ans
✔ 1. ਬੀਸਤਰਾ
✘ 2. ਮੌਤ
✘ 3. ਪਿੰਡ
✘ 4. ਮੁਕਾਬਲਾ

Question ID : **630680248291**
Option 1 ID : **630680963309**
Option 2 ID : **630680963307**
Option 3 ID : **630680963310**
Option 4 ID : **630680963308**
Status : **Answered**
Chosen Option : **1**

Q.13 'ਕੁੜਮਣੀ' ਸ਼ਬਦ ਦਾ ਪੁਲਿੰਗ ਹੈ:-

Ans
✔ 1. ਕੁੜਮ
✘ 2. ਕੁੜਮਾਈ
✘ 3. ਕੁੜਮਣ
✘ 4. ਕੁੜਮੀ

Question ID : **630680248277**
Option 1 ID : **630680963252**
Option 2 ID : **630680963253**
Option 3 ID : **630680963251**
Option 4 ID : **630680963254**
Status : **Answered**
Chosen Option : **1**

Q.14 "ਗਲਤੀਆਂ" ਸ਼ਬਦ ਦਾ ਇਕਵਚਨ ਹੈ:-

Ans
✘ 1. ਗਲਤਿ
✔ 2. ਗਲਤੀ
✘ 3. ਗਲਤ
✘ 4. ਗਲਤੀਆ

Question ID : **630680248273**
Option 1 ID : **630680963238**
Option 2 ID : **630680963237**
Option 3 ID : **630680963235**
Option 4 ID : **630680963236**
Status : **Answered**
Chosen Option : **2**

Website - www.dailyjobalert.in

Q.15 ਹੇਠ ਲਿਖਿਆਂ ਵਿਚੋਂ ਕਿਹੜਾ ਸ਼ਬਦ "ਪ੍ਰਕਾਸ਼" ਦਾ ਸਮਾਨਾਰਥਕ ਨਹੀਂ ਹੈ:-

Ans
1. ਰੌਸ਼ਨੀ
2. ਹਨ੍ਹੇਰਾ
3. ਲੋਅ
4. ਚਾਨਣ

Question ID : **630680248261**
Option 1 ID : **630680963187**
Option 2 ID : **630680963188**
Option 3 ID : **630680963190**
Option 4 ID : **630680963189**
Status : **Answered**
Chosen Option : **2**

Q.16 'Literature' ਸ਼ਬਦ ਦਾ ਪੰਜਾਬੀ ਅਨੁਵਾਦ ਹੈ:-

Ans
1. ਗਿਆਨ
2. ਸਾਹਿਤ
3. ਪੁਸਤਕ
4. ਸਾਹਿਤਕਾਰ

Question ID : **630680248301**
Option 1 ID : **630680963350**
Option 2 ID : **630680963349**
Option 3 ID : **630680963347**
Option 4 ID : **630680963348**
Status : **Answered**
Chosen Option : **2**

Q.17 'ਮੁੰਡੇ ਨੇ ਭੰਗੜਾ ਪਾ ਕੇ ਰੰਗ ਬੰਨ੍ਹ ਦਿੱਤਾ' ਵਾਕ ਵਿਚ ਵਚਨ ਬਦਲੋ:-

Ans
1. ਮੁੰਡਾ ਨੇ ਭੰਗੜਾ ਪਾ ਕੇ ਰੰਗ ਬੰਨ੍ਹ ਗਿਆ
2. ਮੁੰਡਾ ਨੇ ਭੰਗੜਾ ਪਾ ਕੇ ਰੰਗ ਬੰਨ੍ਹ ਦਿੱਤਾ
3. ਮੁੰਡਿਆਂ ਨੇ ਭੰਗੜਾ ਪਾ ਕੇ ਰਗ ਬੰਨ੍ਹ ਦਿੱਤਾ
4. ਮੁੰਡਿਆਂ ਨੇ ਭੰਗੜਾ ਪਾ ਕੇ ਰੰਗ ਬੰਨ੍ਹ ਦਿੱਤਾ

Question ID : **630680248274**
Option 1 ID : **630680963241**
Option 2 ID : **630680963239**
Option 3 ID : **630680963242**
Option 4 ID : **630680963240**
Status : **Answered**
Chosen Option : **3**

Q.18 'ਕਿਰਪਾ ਕਰਕੇ ਲਾਈਨ ਵਿਚ ਲੱਗੋ।' ਵਾਕ ਹੈ:-

Ans
1. ਪ੍ਰਸ਼ਨਵਾਚਕ
2. ਮਿਸ਼ਰਤ
3. ਸੰਯੁਕਤ
4. ਬਿਨੈਵਾਚਕ

Question ID : **630680248289**
Option 1 ID : **630680963300**
Option 2 ID : **630680963299**
Option 3 ID : **630680963301**
Option 4 ID : **630680963302**
Status : **Answered**
Chosen Option : **3**

Website - www.dailyjobalert.in

Q.19 'Theatre' ਸ਼ਬਦ ਦਾ ਪੰਜਾਬੀ ਅਨੁਵਾਦ ਹੈ:-

Ans
✔ 1. ਰੰਗਮੰਚ
✘ 2. ਦ੍ਰਿਸ਼
✘ 3. ਸ਼ੈਲੀ
✘ 4. ਨਾਟਕ

Question ID : **630680248299**
Option 1 ID : **630680963342**
Option 2 ID : **630680963340**
Option 3 ID : **630680963341**
Option 4 ID : **630680963339**
Status : **Answered**
Chosen Option : **1**

Q.20 'ਫਕੀਰਨੀ' ਸ਼ਬਦ ਦਾ ਪੁਲਿੰਗ ਹੈ:-

Ans
✘ 1. ਫਿਕਰ
✘ 2. ਫਕੀਰਨ
✘ 3. ਫਕੀਰੀ
✔ 4. ਫਕੀਰ

Question ID : **630680248275**
Option 1 ID : **630680963246**
Option 2 ID : **630680963243**
Option 3 ID : **630680963244**
Option 4 ID : **630680963245**
Status : **Answered**
Chosen Option : **4**

Q.21 ਅਗਸਤ ਤੋਂ ਬਾਦ ਕਿਹੜਾ ਮਹੀਨਾ ਆਉਂਦਾ ਹੈ?

Ans
✘ 1. ਅਕਤੂਬਰ
✘ 2. ਜੁਲਾਈ
✘ 3. ਜਨਵਰੀ
✔ 4. ਸਤੰਬਰ

Question ID : **630680248305**
Option 1 ID : **630680963366**
Option 2 ID : **630680963365**
Option 3 ID : **630680963364**
Option 4 ID : **630680963363**
Status : **Answered**
Chosen Option : **4**

Q.22 ਹੇਠ ਲਿਖਿਆਂ ਵਿਚ ਪਿਛੇਤਰ ਯੁਕਤ ਸ਼ਬਦ ਹੈ:-

Ans
✘ 1. ਕਮਾਲ
✘ 2. ਇਨਸਾਨ
✔ 3. ਖਾਨਦਾਨ
✘ 4. ਅਮੀਰ

Question ID : **630680248282**
Option 1 ID : **630680963273**
Option 2 ID : **630680963274**
Option 3 ID : **630680963271**
Option 4 ID : **630680963272**
Status : **Answered**
Chosen Option : **3**

DAILY JOB Alert ਪੰਜਾਬ
Website - www.dailyjobalert.in

Q.23 'ਪਾਠਸ਼ਾਲਾ' ਸ਼ਬਦ ਵਿਚ ਪਿਛੇਤਰ ਹੈ:-

Ans
✔ 1. ਸ਼ਾਲਾ
✘ 2. ਲਾ
✘ 3. ਸ਼ਾਅਲਾ
✘ 4. ਆਲਾ

Question ID : **630680248281**
Option 1 ID : **630680963267**
Option 2 ID : **630680963268**
Option 3 ID : **630680963270**
Option 4 ID : **630680963269**
Status : **Answered**
Chosen Option : **2**

Q.24 "ਪੁਸਤਕ" ਸ਼ਬਦ ਦਾ ਬਹੁਵਚਨ ਹੈ:-

Ans
✘ 1. ਪੁਸਤਕੇ
✘ 2. ਪੁਸਤਕਾਂ
✘ 3. ਪੁਸਤਕਾ
✔ 4. ਪੁਸਤਕਾਂ

Question ID : **630680248272**
Option 1 ID : **630680963231**
Option 2 ID : **630680963234**
Option 3 ID : **630680963233**
Option 4 ID : **630680963232**
Status : **Answered**
Chosen Option : **4**

Q.25 'ਉਹ ਕੰਮ 'ਤੇ ਜਾਂਦਾ ਹੈ ਤੇ ਰੋਟੀ ਵੀ ਲੈਕੇ ਜਾਂਦਾ ਹੈ, ਪਰ ਖਾਂਦਾ ਨਹੀਂ।' ਵਾਕ ਹੈ:-

Ans
✘ 1. ਹਾਂ ਵਾਚਕ ਵਾਕ
✔ 2. ਮਿਸ਼ਰਤ ਵਾਕ
✘ 3. ਵਿਸਮਿਕ ਵਾਕ
✘ 4. ਸੰਜੁਕਤ ਵਾਕ

Question ID : **630680248287**
Option 1 ID : **630680963292**
Option 2 ID : **630680963291**
Option 3 ID : **630680963293**
Option 4 ID : **630680963294**
Status : **Answered**
Chosen Option : **3**

Q.26 "ਅੱਗ ਵਰ੍ਹਨੀ" ਮੁਹਾਵਰੇ ਨੂੰ ਵਰਤ ਕੇ ਬਣਾਏ ਵਾਕ ਦੀ ਸਹੀ ਚੋਣ ਕਰੋ:-

Ans
✔ 1. ਭਾਰਤ ਵਿਚ ਮਈ ਤੇ ਜੂਨ ਮਹੀਨੇ ਵਿਚ ਅੱਗ ਵਰ੍ਹਦੀ ਹੈ।
✘ 2. ਜਿੱਥੇ ਅੱਗ ਵਰ੍ਹਦੀ ਹੈ ਉਥੇ ਧੁੱਪ ਨਹੀਂ ਨਿਕਲਦੀ।
✘ 3. ਅੱਗ ਵਰ੍ਹਨਾ ਭਾਰਤੀ ਪਰੰਪਰਾ ਵਿਚ ਸ਼ੁਭ ਮੰਨਿਆ ਜਾਂਦਾ ਹੈ।
✘ 4. ਠੰਡੇ ਮੁਲਕਾਂ ਵਿਚ ਅਕਸਰ ਅੱਗ ਵਰ੍ਹਦੀ ਰਹਿੰਦੀ ਹੈ।

Question ID : **630680248267**
Option 1 ID : **630680963214**
Option 2 ID : **630680963213**
Option 3 ID : **630680963211**
Option 4 ID : **630680963212**
Status : **Answered**
Chosen Option : **1**

DAILY JOB Alert ਪੰਜਾਬ
Website - www.dailyjobalert.in

Q.27 ਕਾਮਾ (,) ਦੀ ਸਹੀ ਵਰਤੋਂ ਕਿਸ ਵਾਕ ਵਿਚ ਹੋਈ ਹੈ?

Ans
- ✗ 1. ਚਿੰਤਾ ਨਾ ਕਰੋ, ਅਕਾਲ ਪੁਰਖ ਸਭ ਦੀ ਸੁਣਦਾ, ਹੈ।
- ✗ 2. ਚਿੰਤਾ ਨਾ, ਕਰੋ ਅਕਾਲ ਪੁਰਖ ਸਭ ਦੀ ਸੁਣਦਾ ਹੈ।
- ✓ 3. ਚਿੰਤਾ ਨਾ ਕਰੋ, ਅਕਾਲ ਪੁਰਖ ਸਭ ਦੀ ਸੁਣਦਾ ਹੈ।
- ✗ 4. ਚਿੰਤਾ, ਨਾ ਕਰੋ ਅਕਾਲ ਪੁਰਖ ਸਭ ਦੀ, ਸੁਣਦਾ ਹੈ।

Question ID : **630680248294**
Option 1 ID : **630680963319**
Option 2 ID : **630680963320**
Option 3 ID : **630680963321**
Option 4 ID : **630680963322**
Status : **Answered**
Chosen Option : **1**

Q.28 'ਵੈਰ' ਸ਼ਬਦ ਨਾਲ ਕਿਹੜਾ ਅਗੇਤਰ ਲਾਇਆ ਜਾ ਸਕਦਾ ਹੈ:-

Ans
- ✗ 1. ਪਿਰ
- ✗ 2. ਪਰ
- ✓ 3. ਨਿਰ
- ✗ 4. ਬਦ

Question ID : **630680248279**
Option 1 ID : **630680963259**
Option 2 ID : **630680963260**
Option 3 ID : **630680963262**
Option 4 ID : **630680963261**
Status : **Answered**
Chosen Option : **3**

Q.29 'House' ਸ਼ਬਦ ਦਾ ਪੰਜਾਬੀ ਅਨੁਵਾਦ ਨਹੀਂ ਹੈ:-

Ans
- ✓ 1. ਛੱਤ
- ✗ 2. ਮਕਾਨ
- ✗ 3. ਰਿਹਾਇਸ਼'
- ✗ 4. ਘਰ

Question ID : **630680248302**
Option 1 ID : **630680963352**
Option 2 ID : **630680963353**
Option 3 ID : **630680963354**
Option 4 ID : **630680963351**
Status : **Answered**
Chosen Option : **1**

Q.30 "ਉਂਗਲ" ਸ਼ਬਦ ਦਾ ਬਹੁਵਚਨ ਹੈ:-

Ans
- ✗ 1. ਉਂਗਲਆਂ
- ✗ 2. ਉਂਗਲੇ
- ✓ 3. ਉਂਗਲਾਂ
- ✗ 4. ਉਂਗਲੀ

Question ID : **630680248271**
Option 1 ID : **630680963230**
Option 2 ID : **630680963228**
Option 3 ID : **630680963229**
Option 4 ID : **630680963227**
Status : **Answered**
Chosen Option : **3**

Website - www.dailyjobalert.in

Q.31 "ਉਹ ਪਾਣੀ ਜਿਸਨੂੰ ਪੀ ਕੇ ਦੁੱਖ ਦੂਰ ਹੋਣ' ਲਈ ਕੋਈ ਇਕ ਸ਼ਬਦ ਚੁਣੋ:-

Ans
✗ 1. ਜਲ
✗ 2. ਦਵਾਈ
✗ 3. ਸਾਫ਼ ਪਾਣੀ
✓ 4. ਅੰਮ੍ਰਿਤ

Question ID : **630680248262**
Option 1 ID : **630680963194**
Option 2 ID : **630680963191**
Option 3 ID : **630680963193**
Option 4 ID : **630680963192**
Status : **Answered**
Chosen Option : **4**

Q.32 66 ਨੂੰ ਪੰਜਾਬੀ ਵਿਚ ਕਿਵੇਂ ਲਿਖਦੇ ਹਾਂ?

Ans
✗ 1. ਛੀਆਠ
✗ 2. ਛੇਆਥ
✓ 3. ਛਿਆਠ
✗ 4. ਛਿਅੱਠ

Question ID : **630680248303**
Option 1 ID : **630680963356**
Option 2 ID : **630680963357**
Option 3 ID : **630680963355**
Option 4 ID : **630680963358**
Status : **Answered**
Chosen Option : **3**

Q.33 "ਖੇੜਾ" ਦਾ ਸਮਾਨਾਰਥਕ ਸ਼ਬਦ ਹੈ:-

Ans
✗ 1. ਖਿਡੋਣਾ
✓ 2. ਖੁਸ਼ੀ
✗ 3. ਖੇਡਣਾ
✗ 4. ਖੂਹ

Question ID : **630680248260**
Option 1 ID : **630680963185**
Option 2 ID : **630680963183**
Option 3 ID : **630680963184**
Option 4 ID : **630680963186**
Status : **Answered**
Chosen Option : **4**

Q.34 ਕਿਹੜਾ ਸ਼ਬਦ ਸ਼ੁੱਧ ਨਹੀਂ ਹੈ:-

Ans
✗ 1. ਸਾਈਕਲ
✗ 2. ਇਮਤਿਹਾਨ
✓ 3. ਮਨੁਰੰਜਨ
✗ 4. ਖੂਬਸੂਰਤ

Question ID : **630680248290**
Option 1 ID : **630680963306**
Option 2 ID : **630680963304**
Option 3 ID : **630680963303**
Option 4 ID : **630680963305**
Status : **Answered**
Chosen Option : **3**

Website - www.dailyjobalert.in

Q.35 'ਆਪਣੀ ਇੱਜ਼ਤ ਆਪਣੇ ਹੱਥ' ਅਖਾਣ ਦਾ ਅਰਥ ਹੈ:-

Ans
✔ 1. ਹਰ ਬੰਦਾ ਆਪਣੇ ਵਰਤਾਓ ਅਨੁਸਾਰ ਆਪਣੀ ਇੱਜ਼ਤ ਕਰਵਾਉਂਦਾ ਹੈ।
✘ 2. ਕਿਸੇ ਨਾਲ ਗਲ ਕਰਦੇ-ਕਰਦੇ ਹੱਥ ਮਿਲਾਉਣਾ।
✘ 3. ਇੱਜ਼ਤ ਦਾ ਹੱਥਾ ਵਿਚ ਆਉਣਾ।
✘ 4. ਆਪਣੀ ਇੱਜ਼ਤ ਬਚਾਉਣ ਲਈ ਦੂਜੇ ਬੋਲਣਾ।

Question ID : **630680248307**
Option 1 ID : **630680963372**
Option 2 ID : **630680963373**
Option 3 ID : **630680963371**
Option 4 ID : **630680963374**
Status : **Answered**
Chosen Option : **1**

Q.36 ਕਿਹੜੇ ਵਾਕ ਵਿਚ ਵਿਸ਼ਰਾਮ ਚਿੰਨ੍ਹ ਦੀ ਸਹੀ ਵਰਤੋਂ ਹੋਈ ਹੈ?

Ans
✘ 1. 'ਪੰਜਾਬੀ ਵਰਣਮਾਲਾ ਨੂੰ ਪੈਂਤੀ ਅੱਖਰੀ' ਵੀ ਕਿਹਾ ਜਾਂਦਾ ਹੈ।
✔ 2. ਪੰਜਾਬੀ ਵਰਣਮਾਲਾ ਨੂੰ 'ਪੈਂਤੀ ਅੱਖਰੀ' ਵੀ ਕਿਹਾ ਜਾਂਦਾ ਹੈ।
✘ 3. ਪੰਜਾਬੀ ਵਰਣਮਾਲਾ ਨੂੰ ਪੈਂਤੀ 'ਅੱਖਰੀ' ਵੀ ਕਿਹਾ ਜਾਂਦਾ ਹੈ।
✘ 4. ਪੰਜਾਬੀ 'ਵਰਣਮਾਲਾ' ਨੂੰ ਪੈਂਤੀ ਅੱਖਰੀ ਵੀ ਕਿਹਾ ਜਾਂਦਾ ਹੈ।

Question ID : **630680248297**
Option 1 ID : **630680963334**
Option 2 ID : **630680963331**
Option 3 ID : **630680963333**
Option 4 ID : **630680963332**
Status : **Answered**
Chosen Option : **2**

Q.37 "ਚੰਨ੍ਹ ਚਾੜ੍ਹਨਾ" ਮੁਹਾਵਰੇ ਦਾ ਅਰਥ ਹੈ:-

Ans
✘ 1. ਰਾਤ ਨੂੰ ਜਾਗਣਾ
✘ 2. ਚੰਨ੍ਹ' ਤੱਕ ਪਹੁੰਚਣਾ
✔ 3. ਕੰਮ ਵਿਗਾੜਨਾ
✘ 4. ਬੁਲੰਦੀਆਂ ਨੂੰ ਛੂਹਣਾ

Question ID : **630680248266**
Option 1 ID : **630680963210**
Option 2 ID : **630680963209**
Option 3 ID : **630680963208**
Option 4 ID : **630680963207**
Status : **Answered**
Chosen Option : **3**

Q.38 'ਮੇਰਾ ਬਚਪਨ ਪਿੰਡ ਦੀ ਗਲੀ 'ਚ ਲੰਘਿਆ ਹੈ' ਵਾਕ ਦਾ ਵਚਨ ਬਦਲ ਕੇ ਲਿਖਿਆ ਸਹੀ ਵਾਕ ਹੈ:-

Ans
✘ 1. ਮੇਰਾ ਬਚਪਨ ਪਿੰਡ ਦੀ ਗਲੀ 'ਚ ਨਹੀਂ ਲੰਘਿਆ
✔ 2. ਮੇਰਾ ਬਚਪਨ ਪਿੰਡ ਦੀਆਂ ਗਲੀਆਂ 'ਚ ਲੰਘਿਆ ਹੈ
✘ 3. ਮੇਰਾ ਬਚਪਨ ਪਿੰਡਾ 'ਚ ਲੰਘਿਆ ਹੈ
✘ 4. ਮੇਰਾ ਬਚਪਨ ਪਿੰਡਾਂ ਦੀ ਗਲੀ 'ਚ ਲੰਘਿਆ ਹੈ

Question ID : **630680248276**
Option 1 ID : **630680963250**
Option 2 ID : **630680963247**
Option 3 ID : **630680963248**
Option 4 ID : **630680963249**
Status : **Answered**
Chosen Option : **4**

DAILY JOB Alert ਪੰਜਾਬ
Website - www.dailyjobalert.in

Q.39 'Fear' ਸ਼ਬਦ ਦਾ ਪੰਜਾਬੀ ਅਨੁਵਾਦ ਨਹੀਂ ਹੈ:-

Ans
✔ 1. ਬਚਾਅ
✘ 2. ਤੌਖਲਾ
✘ 3. ਭੈਅ
✘ 4. ਖੌਫ਼

Question ID : **630680248300**
Option 1 ID : **630680963343**
Option 2 ID : **630680963346**
Option 3 ID : **630680963344**
Option 4 ID : **630680963345**
Status : **Answered**
Chosen Option : **3**

Q.40 ਬਿੰਦੀ ਕਾਮਾ (;) ਦੀ ਸਹੀ ਵਰਤੋਂ ਵਾਲਾ ਵਾਕ ਹੈ?

Ans
✔ 1. ਉਹ ਤਿੰਨ ਭਾਸ਼ਾਵਾਂ ਜਾਣਦਾ ਹੈ; ਪੰਜਾਬੀ, ਹਿੰਦੀ ਤੇ ਅੰਗ੍ਰੇਜ਼ੀ।
✘ 2. ਉਹ ਤਿੰਨ ਭਾਸ਼ਾਵਾਂ ਜਾਣਦਾ ਹੈ ਪੰਜਾਬੀ; ਹਿੰਦੀ ਤੇ ਅੰਗ੍ਰੇਜ਼ੀ।
✘ 3. ਉਹ ਤਿੰਨ ਭਾਸ਼ਾਵਾਂ; ਜਾਣਦਾ ਹੈ ਪੰਜਾਬੀ, ਹਿੰਦੀ ਤੇ ਅੰਗ੍ਰੇਜ਼ੀ।
✘ 4. ਉਹ ਤਿੰਨ ਭਾਸ਼ਾਵਾਂ ਜਾਣਦਾ ਹੈ ਪੰਜਾਬੀ, ਹਿੰਦੀ; ਅੰਗ੍ਰੇਜ਼ੀ।

Question ID : **630680248295**
Option 1 ID : **630680963323**
Option 2 ID : **630680963326**
Option 3 ID : **630680963324**
Option 4 ID : **630680963325**
Status : **Answered**
Chosen Option : **3**

Q.41 "ਸੌਦਾ ਵੇਚਣ ਵਾਲਾ" ਲਈ ਕੋਈ ਇਕ ਸ਼ਬਦ ਚੁਣੋ:-

Ans
✔ 1. ਦੁਕਾਨਦਾਰ
✘ 2. ਪਾਗਲ
✘ 3. ਵਣਜਾਰਾ
✘ 4. ਡਾਕੀਆ

Question ID : **630680248264**
Option 1 ID : **630680963202**
Option 2 ID : **630680963199**
Option 3 ID : **630680963201**
Option 4 ID : **630680963200**
Status : **Answered**
Chosen Option : **1**

Q.42 "ਜਿਹੜਾ ਧਰਮ ਦਾ ਪ੍ਰਚਾਰ ਕਰੇ" ਲਈ ਕੋਈ ਇਕ ਸ਼ਬਦ ਚੁਣੋ:-

Ans
✘ 1. ਸੁਝਵਾਨ
✘ 2. ਟੀਕਾਕਾਰ
✔ 3. ਪ੍ਰਚਾਰਕ
✘ 4. ਅਧਰਮੀ

Question ID : **630680248263**
Option 1 ID : **630680963196**
Option 2 ID : **630680963198**
Option 3 ID : **630680963197**
Option 4 ID : **630680963195**
Status : **Answered**
Chosen Option : **3**

Website - www.dailyjobalert.in

Q.43 'ਮੇਰਾ ਮਾਮਾ ਮੈਨੂੰ ਬਹੁਤ ਪਿਆਰ ਕਰਦਾ ਹੈ।' ਵਾਕ ਦਾ ਲਿੰਗ ਬਦਲ ਕੇ ਲਿਖਿਆ ਸਹੀ ਵਾਕ ਹੈ:-

Ans
1. ਮੇਰੀ ਮਾਮੀ ਮੈਨੂੰ ਬਹੁਤ ਪਿਆਰ ਕਰਦਾ ਹੈ।
2. ਮੇਰਾ ਮਮੀ ਮੈਨੂੰ ਬਹੁਤ ਪਿਆਰ ਕਰਦਾ ਹੈ।
3. ਮੇਰੀ ਮਾਮੀ ਮੈਨੂੰ ਬਹੁਤ ਪਿਆਰ ਕਰਦੀ ਹੈ।
4. ਮੇਰੀ ਮਾਮਾ ਮੈਨੂੰ ਬਹੁਤ ਪਿਆਰ ਕਰਦੀ ਹੈ।

Question ID : **630680248306**
Option 1 ID : **630680963370**
Option 2 ID : **630680963367**
Option 3 ID : **630680963369**
Option 4 ID : **630680963368**
Status : **Answered**
Chosen Option : **3**

Q.44 ਕਿਹੜਾ ਸ਼ਬਦ ਸ਼ੁੱਧ ਹੈ:-

Ans
1. ਥਕੜਾ
2. ਕੰਮਕਾਰ
3. ਏਨਕ
4. ਸਧਨ

Question ID : **630680248309**
Option 1 ID : **630680963380**
Option 2 ID : **630680963381**
Option 3 ID : **630680963379**
Option 4 ID : **630680963382**
Status : **Answered**
Chosen Option : **2**

Q.45 "ਇਕ ਹੱਥ ਨਾਲ ਤਾਲੀ ਨਹੀਂ ਵੱਜਦੀ" ਅਖਾਣ ਦਾ ਅਰਥ ਹੈ:-

Ans
1. ਇਕ ਹੱਥ ਨੂੰ ਨਾ ਵਰਤਣਾ।
2. ਹੱਥ 'ਤੇ ਸੱਟ ਲੱਗਣਾ।
3. ਇਕ ਧੀਰ ਦੀ ਗਲਤੀ ਹੋਣੀ।
4. ਗਲਤੀ ਦੋਨਾਂ ਪਾਸਿਆਂ ਦੀ ਹੋਣੀ।

Question ID : **630680248268**
Option 1 ID : **630680963216**
Option 2 ID : **630680963218**
Option 3 ID : **630680963215**
Option 4 ID : **630680963217**
Status : **Answered**
Chosen Option : **4**

Q.46 ਨਿਮਨ ਲਿਖਤ ਵਿਚ ਪ੍ਰਸ਼ਨਵਾਚਕ ਵਾਕ ਹੈ:-

Ans
1. ਕੰਮ ਵਾਲੀ ਕੰਮ ਕਰਕੇ ਚਲੀ ਗਈ।
2. ਕਲ ਤੋਂ ਮੈਂ ਸਾਰਾ ਕੰਮ ਆਪ ਕਰਾਂਗੀ।
3. ਤੁਸੀਂ ਆਪਣਾ ਕੰਮ ਆਪ ਕਰਦੇ ਹੋ?
4. ਆਪਣਾ ਕੰਮ ਖੁਦ ਕਰਨਾ ਚੰਗੀ ਗੱਲ ਹੁੰਦੀ ਹੈ।

Question ID : **630680248288**
Option 1 ID : **630680963295**
Option 2 ID : **630680963298**
Option 3 ID : **630680963297**
Option 4 ID : **630680963296**
Status : **Answered**
Chosen Option : **3**

Website - www.dailyjobalert.in

Q.47 'ਉਹ ਪੰਜਾਬ ਲਈ ਨਿਕਲ ਗਏ।' ਵਾਕ ਹੈ:-

Ans
- ✗ 1. ਵਿਸਮਿਕ ਵਾਕ
- ✗ 2. ਸੰਜੁਕਤ ਵਾਕ
- ✗ 3. ਪ੍ਰਸ਼ਨਵਾਚਕ ਵਾਕ
- ✓ 4. ਸਾਧਾਰਨ ਵਾਕ

Question ID : **630680248286**
Option 1 ID : **630680963288**
Option 2 ID : **630680963290**
Option 3 ID : **630680963289**
Option 4 ID : **630680963287**
Status : **Answered**
Chosen Option : **3**

Q.48 "ਅੱਖਾਂ ਵਿਚ ਘੱਟਾ ਪਾਉਣਾ" ਮੁਹਾਵਰੇ ਦਾ ਅਰਥ ਹੈ:-

Ans
- ✓ 1. ਧੋਖਾ ਦੇਣਾ
- ✗ 2. ਸਾਥ ਦੇਣਾ
- ✗ 3. ਫਾਇਦਾ ਕਰਨਾ
- ✗ 4. ਅੱਖਾਂ ਖਰਾਬ ਕਰਨਾ

Question ID : **630680248265**
Option 1 ID : **630680963203**
Option 2 ID : **630680963206**
Option 3 ID : **630680963205**
Option 4 ID : **630680963204**
Status : **Answered**
Chosen Option : **1**

Q.49 'ਘੜੇ ਨੂੰ ਹੱਥ ਲਾਇਆ ਸਾਰਾ ਟੱਬਰ ਤਿਹਾਇਆ' ਅਖਾਣ ਦਾ ਅਰਥ ਹੈ:-

Ans
- ✗ 1. ਘੜੇ ਨੂੰ ਹੱਥ ਲਾਉਣ ਕਰਕੇ ਟੱਬਰ ਦਾ ਗੁੱਸਾ ਹੋਣਾ।
- ✗ 2. ਘੜੇ 'ਚੋਂ ਪਾਣੀ ਪੀਣਾ।
- ✗ 3. ਇਕ ਦੀ ਗੱਲ ਦੂਜੇ ਨੂੰ ਦੱਸਣੀ।
- ✓ 4. ਚੀਜ਼ ਬਹੁਤ ਥੋੜ੍ਹੀ ਹੋਣੀ ਪਰ ਲੋੜਵੰਦ ਬਹੁਤ ਜਿਆਦਾ ਹੋਣੇ।

Question ID : **630680248270**
Option 1 ID : **630680963223**
Option 2 ID : **630680963226**
Option 3 ID : **630680963225**
Option 4 ID : **630680963224**
Status : **Answered**
Chosen Option : **4**

DAILY JOB Alert ਪੰਜਾਬ

Q.50 'ਡਾਕਟਰ' ਸ਼ਬਦ ਦਾ ਇਸਤਰੀ ਲਿੰਗ ਹੈ:-

Ans
1. ਡਾਕਟਰਣ
2. ਡਾਕਟਰਨ
3. ਡਾਕਟਰੀ
4. ਡਾਕਟਰਨੀ

Question ID : **630680248308**
Option 1 ID : **630680963378**
Option 2 ID : **630680963376**
Option 3 ID : **630680963377**
Option 4 ID : **630680963375**
Status : **Answered**
Chosen Option : **4**

DAILY JOB Alert ਪੰਜਾਬ

PUNJAB POLICE

Police to its last particle is duty

Exam Name	Recruitment for the post of Sub Inspector in Cadres of District and Armed Police 20th Jun to 31st Jul 2023 Paper I
Application No	www.dailyjobalert.in
Roll No	Telegram - Daily Job Alert Punjab
Applicant Name	instagram - Daily Job Alert Punjab
Exam Date	02/07/2023
Shift	9:00 AM - 11:00 AM
Subject	Sub Inspector Paper I

Section : **General Awareness**

Q.1 ਭਾਰਤ ਵਿੱਚ ਪੰਜਵੀਂ ਪੰਜ ਸਾਲਾ ਯੋਜਨਾ ਦਾ ਮੁੱਖ ਉਦੇਸ਼ _____ ਸੀ।

Ans

✗ 1. ਪੂੰਜੀ ਵਸਤੂਆਂ ਦੇ ਉਦਯੋਗਾਂ ਦੀ ਸਥਾਪਨਾ

✓ 2. ਗਰੀਬੀ ਨੂੰ ਦੂਰ ਕਰਨਾ

✗ 3. ਅਨਾਜ ਦੇ ਉਤਪਾਦਨ ਨੂੰ ਵਧਾਉਣਾ

✗ 4. ਨਿਰਯਾਤ-ਮੁਖੀ ਉਦਯੋਗਾਂ ਨੂੰ ਵਿਕਸਤ ਕਰਨਾ

Question ID : **63068050590**
Option 1 ID : **630680194675**
Option 2 ID : **630680194677**
Option 3 ID : **630680194674**
Option 4 ID : **630680194676**
Status : **Not Answered**
Chosen Option : **--**

Q.2 ਹੇਠਾਂ ਦਿੱਤਿਆਂ ਵਿੱਚੋਂ ਕਿਸ ਨੂੰ ਕਨਿਸ਼ਕ ਦੀ ਦੂਜੀ ਰਾਜਧਾਨੀ ਮੰਨਿਆ ਜਾਂਦਾ ਸੀ?

Ans

✗ 1. ਵਾਰਾਣਸੀ

✓ 2. ਮਥੁਰਾ

✗ 3. ਕਸ਼ਮੀਰ

✗ 4. ਕਾਬੁਲ

Question ID : **63068053059**
Option 1 ID : **630680204339**
Option 2 ID : **630680204341**
Option 3 ID : **630680204340**
Option 4 ID : **630680204338**
Status : **Not Answered**
Chosen Option : **--**

Website - www.dailyjobalert.in

Q.3 ਭਾਰਤੀ ਸੰਵਿਧਾਨ ਦੇ ਅਨੁਛੇਦ 170 ਦੇ ਅਨੁਸਾਰ, ਹਰੇਕ ਰਾਜ ਦੀ ਵਿਧਾਨ ਸਭਾ ਵਿੱਚ ਪੰਜ ਸੌ ਤੋਂ ਵੱਧ ਅਤੇ _____ ਤੋਂ ਘੱਟ ਮੈਂਬਰ ਨਹੀਂ ਹੋਣਗੇ।

Ans
✔ 1. 60
✘ 2. 55
✘ 3. 70
✘ 4. 65

Question ID : **630680100481**
Option 1 ID : **630680390621**
Option 2 ID : **630680390620**
Option 3 ID : **630680390623**
Option 4 ID : **630680390622**
Status : **Answered**
Chosen Option : **1**

Q.4 ਪ੍ਰਸਿੱਧ #MeToo, _____ ਦੇ ਵਿਰੁੱਧ ਪੀੜਤਾਂ ਦੁਆਰਾ ਸ਼ੁਰੂ ਕੀਤਾ ਇੱਕ ਵਿਸ਼ਵ-ਪਧੱਰੀ ਅੰਦੋਲਨ ਹੈ।

Ans
✘ 1. ਲੁਧਿਆਣਾ
✘ 2. ਪਟਿਆਲਾ
✔ 3. ਅੰਮ੍ਰਿਤਸਰ
✘ 4. ਬਠਿੰਡਾ

Question ID : **630680238328**
Option 1 ID : **630680924329**
Option 2 ID : **630680924330**
Option 3 ID : **630680924328**
Option 4 ID : **630680924331**
Status : **Not Answered**
Chosen Option : **--**

Q.5 2021 ਤੱਕ ਦੀ ਜਾਣਕਾਰੀ ਅਨੁਸਾਰ, ਗਰਮੀਆਂ ਦੀ ਓਪਲੰਪਿਕਸ ਵਿੱਚ ਵਿਅਕਤੀਗਤ ਤੌਰ 'ਤੇ ਸੋਨੇ ਦਾ ਤਮਗਾ ਜਿੱਤਣ ਵਾਲਾ ਦੂਜਾ ਭਾਰਤੀ ਕੌਣ ਹੈ?

Ans
✘ 1. ਅਭਿਨਵ ਬਿੰਦਰਾ
✘ 2. ਬਜਰੰਗ ਪੁਨੀਆ
✘ 3. ਪੀਵੀ ਸਿੰਧੂ
✔ 4. ਨੀਰਜ ਚੋਪੜਾ

Question ID : **630680112698**
Option 1 ID : **630680436489**
Option 2 ID : **630680436488**
Option 3 ID : **630680436487**
Option 4 ID : **630680436486**
Status : **Answered**
Chosen Option : **4**

DAILY JOB Alert ਪੰਜਾਬ

Q.6 ਵਾਤਾਵਰਣ ਦੁਆਰਾ ਹੇਠਾਂ ਦਿੱਤੇ ਕਾਰਜਾਂ ਵਿੱਚੋਂ ਕਿਹੜਾ ਕੰਮ ਕੀਤਾ ਜਾਂਦਾ ਹੈ?

i. ਇਹ ਸਰੋਤਾਂ ਦੀ ਪੂਰਤੀ ਕਰਦਾ ਹੈ।

ii. ਇਹ ਰਹਿੰਦ-ਖੂੰਹਦ ਨੂੰ ਸਮਾ ਲੈਂਦਾ ਹੈ।

iii. ਇਹ ਅਨੁਵੰਸ਼ਿਕ ਅਤੇ ਜੈਵਿਕ ਵਿਭਿੰਨਤਾ ਪ੍ਰਦਾਨ ਕਰਕੇ ਜੀਵਨ ਨੂੰ ਕਾਇਮ ਰੱਖਦਾ ਹੈ।

iv. ਇਹ ਕੁਦਰਤੀ ਦ੍ਰਿਸ਼ ਵਰਗੀਆਂ ਸੁਹਜਾਤਮਕ ਸੇਵਾਵਾਂ ਪ੍ਰਦਾਨ ਕਰਦਾ ਹੈ।।

Ans
✗ 1. ਸਿਰਫ਼ (i), (ii) ਅਤੇ (iii)
✗ 2. ਸਿਰਫ਼ (i)
✓ 3. (i), (ii), (iii) ਅਤੇ (iv)
✗ 4. ਸਿਰਫ਼ (i) ਅਤੇ (iii)

Question ID : **63068056717**
Option 1 ID : **630680218804**
Option 2 ID : **630680218802**
Option 3 ID : **630680218805**
Option 4 ID : **630680218803**
Status : **Answered**
Chosen Option : **3**

Q.7 PEPSU (ਪਟਿਆਲਾ ਅਤੇ ਪੂਰਬੀ ਪੰਜਾਬ ਰਾਜ ਸੰਘ) ਨੂੰ ਹੇਠ ਲਿਖਿਆ ਵਿੱਚੋਂ ਕਿਹੜੇ ਸਾਲ ਵਿੱਚ ਪੰਜਾਬ ਰਾਜ ਵਿੱਚ ਮਿਲਾ ਦਿੱਤਾ ਗਿਆ ਸੀ?

Ans
✗ 1. 1946
✗ 2. 1960
✓ 3. 1956
✗ 4. 1950

Question ID : **630680238415**
Option 1 ID : **630680924676**
Option 2 ID : **630680924679**
Option 3 ID : **630680924678**
Option 4 ID : **630680924677**
Status : **Answered**
Chosen Option : **3**

Q.8 ਭਾਰਤ ਸਰਕਾਰ ਦੁਆਰਾ ਨੈਸ਼ਨਲ ਸਮਾਰਟ ਸਿਟੀਜ਼ ਮਿਸ਼ਨ ਕਿਸ ਸਾਲ ਸ਼ੁਰੂ ਕੀਤਾ ਗਿਆ ਸੀ?

Ans
✗ 1. 2014
✓ 2. 2015
✗ 3. 2017
✗ 4. 2016

Question ID : **63068050587**
Option 1 ID : **630680194662**
Option 2 ID : **630680194663**
Option 3 ID : **630680194665**
Option 4 ID : **630680194664**
Status : **Not Answered**
Chosen Option : **--**

Website - www.dailyjobalert.in

Q.9 ਮਹਾਤਮਾ ਗਾਂਧੀ ਅੰਤਰ ਰਾਸ਼ਟਰੀ ਹਿੰਦੀ ਵਿਸ਼ਵਵਿਦਿਆਲਿਆ ਹੇਠ ਲਿਖੇ ਸ਼ਹਿਰਾਂ ਵਿੱਚੋਂ ਕਿਸ ਵਿੱਚ ਸਥਿਤ ਹੈ?

Ans
- ✗ 1. ਅਹਿਮਦਾਬਾਦ
- ✗ 2. ਨਵੀਂ ਦਿੱਲੀ
- ✓ 3. ਵਾਰਧਾ
- ✗ 4. ਮੈਸੂਰ

Question ID : **63068086130**
Option 1 ID : **630680333955**
Option 2 ID : **630680333952**
Option 3 ID : **630680333953**
Option 4 ID : **630680333954**
Status : **Not Answered**
Chosen Option : **--**

Q.10 ਹੇਠਾਂ ਦਿੱਤੇ ਨਿਰਦੇਸ਼ਾਤਮਿਕ ਸਿਧਾਂਤਾਂ ਵਿੱਚੋਂ ਕਿਹੜੇ ਗਾਂਧੀਵਾਦੀ ਸਿਧਾਂਤਾਂ 'ਤੇ ਅਧਾਰਿਤ ਹਨ?

Ans
- ✗ 1. ਰਾਜ ਨਿਆਂਪਾਲਿਕਾ ਨੂੰ ਕਾਰਜਪਾਲਿਕਾ ਤੋਂ ਵੱਖ ਕਰਨ ਲਈ ਕਦਮ ਚੁੱਕੇਗਾ।
- ✓ 2. ਰਾਜ ਗਾਵਾਂ, ਵੱਛਿਆਂ ਅਤੇ ਹੋਰ ਦੁਧਾਰੂ ਪਸ਼ੂਆਂ ਦੀ ਹੱਤਿਆ 'ਤੇ ਪਾਬੰਦੀ ਲਗਾਉਣ ਲਈ ਕਦਮ ਚੁੱਕੇਗਾ।
- ✗ 3. ਰਾਜ ਕੰਮ ਦੀਆਂ ਨਿਆਂਪੂਰਨ ਅਤੇ ਮਾਨਵੀ ਸਥਿਤੀਆਂ ਨੂੰ ਸੁਰੱਖਿਅਤ ਕਰਨ ਲਈ ਪਰਬੰਧ ਕਰੇਗਾ।
- ✗ 4. ਰਾਜ ਨੂੰ ਕਲਾਤਮਕ ਜਾਂ ਇਤਿਹਾਸਕ ਹਿੱਤਾਂ ਦੇ ਹਰ ਸਮਾਰਕ ਜਾਂ ਸਥਾਨ ਦੀ ਰੱਖਿਆ ਕਰਨੀ ਚਾਹੀਦੀ ਹੈ।

Question ID : **630680100465**
Option 1 ID : **630680390556**
Option 2 ID : **630680390558**
Option 3 ID : **630680390559**
Option 4 ID : **630680390557**
Status : **Answered**
Chosen Option : **2**

Q.11 ਹੇਠ ਲਿਖੀਆਂ ਨਦੀਆਂ ਵਿੱਚੋਂ ਕਿਹੜੀ ਡੈਲਟਾ ਨਹੀਂ ਬਣਾਉਂਦੀ?

Ans
- ✗ 1. ਮਹਾਨਦੀ
- ✓ 2. ਤਾਪਤੀ
- ✗ 3. ਗੋਦਾਵਰੀ
- ✗ 4. ਗੰਗਾ

Question ID : **630680115197**
Option 1 ID : **630680446155**
Option 2 ID : **630680446156**
Option 3 ID : **630680446157**
Option 4 ID : **630680446154**
Status : **Answered**
Chosen Option : **2**

Website - www.dailyjobalert.in

Q.12 ਭਾਰਤੀ ਰਿਵਾਇਤੀ ਰੁੱਤਾਂ ਨੂੰ ਅੰਗਰੇਜ਼ੀ ਕੈਲੰਡਰ ਨਾਲ ਮਿਲਾਓ:

ਰੁੱਤਾਂ	ਮਹੀਨੇ
a) ਵਸੰਤ	1. ਸਤੰਬਰ-ਅਕਤੂਬਰ
b) ਹੇਮੰਤ	2. ਜਨਵਰੀ-ਫਰਵਰੀ
c) ਸ਼ਿਸ਼ਿਰ	3. ਮਾਰਚ-ਅਪ੍ਰੈਲ
d) ਸ਼ਰਦ	4. ਨਵੰਬਰ-ਦਸੰਬਰ

Ans
✔ 1. a - 3, b - 4, c - 2, d - 1
✘ 2. a - 4, b - 1, c - 2, d - 3
✘ 3. a - 1, b - 2, c - 3, d - 4
✘ 4. a - 2, b - 3, c - 4, d - 1

Question ID : **63068059731**
Option 1 ID : **630680230494**
Option 2 ID : **630680230495**
Option 3 ID : **630680230496**
Option 4 ID : **630680230497**
Status : **Answered**
Chosen Option : **4**

Q.13 ਜਨਵਰੀ 2022 ਵਿੱਚ, ਸੰਯੁਕਤ ਰਾਸ਼ਟਰ ਨੇ ਬੈਂਕਿੰਗ ਪ੍ਰਣਾਲੀਆਂ ਨੂੰ ਮੁੜ-ਸੁਰਜੀਤ ਕਰਨ ਲਈ, ਕਿਸ ਦੇਸ਼ ਲਈ ਹੁਣ ਤੱਕ ਦੀ ਸਭ ਤੋਂ ਵੱਡੀ ਦੇਸ਼-ਵਿਸ਼ੇਸ਼ (country-specific) ਅਪੀਲ ਸ਼ੁਰੂ ਕੀਤੀ?

Ans
✘ 1. ਇਰਾਕ
✘ 2. ਸੀਰੀਆ
✘ 3. ਯਮਨ
✔ 4. ਅਫਗਾਨਿਸਤਾਨ

Question ID : **63068090320**
Option 1 ID : **630680350055**
Option 2 ID : **630680350056**
Option 3 ID : **630680350057**
Option 4 ID : **630680350054**
Status : **Not Answered**
Chosen Option : **--**

DAILY JOB Alert ਪੰਜਾਬ

Q.14 ਭਾਰਤੀ ਸੰਵਿਧਾਨ ਦਾ ਅਨੁਛੇਦ 198 ਪ੍ਰਦਾਨ ਕਰਦਾ ਹੈ ਕਿ ਇੱਕ _____ ਨੂੰ ਇਕ ਵਿਧਾਨ ਪਰਿਸ਼ਦ ਵਿੱਚ ਪੇਸ਼ ਨਹੀਂ ਕੀਤਾ ਜਾਵੇਗਾ।

Ans
✗ 1. ਸੰਵਿਧਾਨ ਸੰਸ਼ੋਧਨ ਬਿੱਲ
✗ 2. ਆਮ ਬਿੱਲ
✗ 3. ਆਰਡੀਨੈਂਸ ਰਿਪਲੇਸਿੰਗ ਬਿੱਲ
✓ 4. ਮਨੀ ਬਿੱਲ

Question ID : **630680114566**
Option 1 ID : **630680443633**
Option 2 ID : **630680443630**
Option 3 ID : **630680443632**
Option 4 ID : **630680443631**
Status : **Answered**
Chosen Option : **4**

Q.15 19ਵੀਂ ਸਦੀ ਦੇ ਸ਼ੁਰੂ ਵਿੱਚ ਹੇਠ ਲਿਖਿਆਂ ਵਿੱਚੋਂ ਕਿਸ ਨੇ 'ਫਰਾਇਜ਼ੀ ਲਹਿਰ' ਸ਼ੁਰੂ ਕੀਤੀ ਸੀ?

Ans
✗ 1. ਸਰ ਸਯਦ ਅਹਿਮਦ ਖਾਨ
✗ 2. ਮਿਰਜ਼ਾ ਗੁਲਾਮ ਅਹਿਮਦ
✓ 3. ਹਾਜੀ ਸ਼ਰੀਅਤਉੱਲਾ
✗ 4. ਸੱਯਦ ਅਹਿਮਦ ਬਰੇਲਵੀ

Question ID : **63068059758**
Option 1 ID : **630680230605**
Option 2 ID : **630680230603**
Option 3 ID : **630680230602**
Option 4 ID : **630680230604**
Status : **Not Answered**
Chosen Option : **--**

Q.16 ਮਾਰਚ 2021 ਵਿੱਚ, ਇੱਕ ਪਸ਼ੂ ਸੁਰੱਖਿਆਪਣ ਜੀਵ ਵਿਗਿਆਨੀ, ਤੇਂਦੂਏ ਦੀ ਸੁਰੱਖਿਆਪਣ, ਉਹਨਾਂ ਦੁਆਰਾ ਪਸੰਦ ਕੀਤੇ ਜਾਣ ਵਾਲੇ ਪਰਿਸਥਿਤੀ ਵਿਗਿਆਨ ਅਤੇ ਮਨੁੱਖਾਂ ਨਾਲ ਉਹਨਾਂ ਦੇ ਟਕਰਾਅ ਨਾਲ ਸੰਬੰਧਿਤ ਇੱਕ ਕਿਤਾਬ 'ਲੈਪਰਡ ਡਾਇਰੀਜ਼ - ਦ ਰੋਸੈਟ ਇਨ ਇੰਡੀਆ (Leopard Diaries – the Rosette in India)' ਲਿਖਣ ਲਈ ਚਰਚਾ ਵਿੱਚ ਬਣੇ ਰਹੇ। ਉਸ ਲੇਖਕ ਦਾ ਨਾਮ ਦੱਸੋ।

Ans
✓ 1. ਸੰਜੇ ਗੁੱਬੀ
✗ 2. ਬਿਟੂ ਸਹਗਲ
✗ 3. ਵੰਦਨਾ ਸ਼ਿਵਾ
✗ 4. ਉਮਾ ਰਾਮਕ੍ਰਿਸ਼ਣਨ

Question ID : **630680134816**
Option 1 ID : **630680522083**
Option 2 ID : **630680522085**
Option 3 ID : **630680522082**
Option 4 ID : **630680522084**
Status : **Not Answered**
Chosen Option : **--**

DAILY JOB Alert ਪੰਜਾਬ

Q.17 ਨਾਗਰਿਕਾਂ ਦੇ ਮੌਲਿਕ ਫਰਜ਼ਾਂ ਸੰਬੰਧੀ ਭਾਰਤ ਦੇ ਸੰਵਿਧਾਨ ਦੇ ਆਰਟੀਕਲ 51A ਦੇ ਸੰਦਰਭ ਵਿੱਚ, ਹੇਠ ਲਿਖਿਆਂ ਵਿੱਚੋਂ ਕਿਹੜਾ ਜੁੱਟ ਸਹੀ ਮੇਲ ਖਾਂਦਾ ਹੈ?

	ਸਬ-ਆਰਟੀਕਲ ਦਾ ਵਿਸ਼ਾ-ਵਸਤੂ	ਸੰਵਿਧਾਨ ਦਾ ਸਬ-ਆਰਟੀਕਲ
1.	ਉਨ੍ਹਾਂ ਉੱਤਮ ਆਦਰਸ਼ਾਂ ਨੂੰ ਸੰਜੋਣਾ ਅਤੇ ਉਨ੍ਹਾਂ ਦੀ ਪਾਲਣਾ ਕਰਨ ਦਾ ਫਰਜ਼ ਜਿਨ੍ਹਾਂ ਨੇ ਆਜ਼ਾਦੀ ਲਈ ਸਾਡੇ ਰਾਸ਼ਟਰੀ ਸੰਘਰਸ਼ ਨੂੰ ਪ੍ਰੇਰਿਤ ਕੀਤਾ	51A(b)
2.	ਭਾਰਤ ਦੀ ਪ੍ਰਭੁਸੱਤਾ, ਏਕਤਾ ਅਤੇ ਅਖੰਡਤਾ ਨੂੰ ਬਰਕਰਾਰ ਰੱਖਣ ਅਤੇ ਇਸ ਦੀ ਸੁਰੱਖਿਆ ਕਰਨ ਦਾ ਫਰਜ਼	51A(c)
3.	ਦੇਸ਼ ਦੀ ਸੁਰੱਖਿਆ ਕਰਨ ਅਤੇ ਅਜਿਹਾ ਕਰਨ ਲਈ ਬੁਲਾਏ ਜਾਣ 'ਤੇ ਰਾਸ਼ਟਰੀ ਸੇਵਾ ਪ੍ਰਦਾਨ ਕਰਨ ਦਾ ਫਰਜ਼	51A(f)
4.	ਸਾਡੇ ਸਾਂਝੇ ਸੱਭਿਆਚਾਰ ਦੇ ਅਮੀਰ ਵਿਰਸੇ ਦੀ ਕਦਰ ਅਤੇ ਸੰਭਾਲ ਕਰਨ ਦਾ ਫਰਜ਼	51A(g)

Ans

✗ 1. ਸਿਰਫ਼ 2 ਅਤੇ 4

✗ 2. ਸਿਰਫ਼ 1 ਅਤੇ 3

✓ 3. ਸਿਰਫ਼ 1 ਅਤੇ 2

✗ 4. ਸਿਰਫ਼ 3 ਅਤੇ 4

Question ID : **630680117213**
Option 1 ID : **630680454141**
Option 2 ID : **630680454138**
Option 3 ID : **630680454139**
Option 4 ID : **630680454140**
Status : **Not Answered**
Chosen Option : **--**

Q.18 ਭਾਰਤ ਦੇ ਪੁਲਾੜ ਪ੍ਰੋਗਰਾਮ ਦਾ ਪਿਤਾਮਾ ਕੌਣ ਹੈ?

Ans

✓ 1. ਵਿਕਰਮ ਸਾਰਾਭਾਈ

✗ 2. ਸਤੀਸ਼ ਧਵਨ

✗ 3. ਡਾ.ਏਪੀਜੇ ਅਬਦੁਲ ਕਲਾਮ

✗ 4. ਕੇ.ਕਸਤੂਰੀਰੰਗਨ

Question ID : **63068053897**
Option 1 ID : **630680207653**
Option 2 ID : **630680207652**
Option 3 ID : **630680207650**
Option 4 ID : **630680207651**
Status : **Answered**
Chosen Option : **1**

DAILY JOB Alert ਪੰਜਾਬ

Q.19 ਨੈਤਿਕਤਾ ਦੀ ਹੇਠ ਲਿਖੀ ਕਿਹੜੀ ਸ਼ਾਖ ਵਿੱਚ ਗਰਭਪਾਤ, ਜਾਨਵਰਾਂ ਦੇ ਅਧਿਕਾਰ ਅਤੇ ਇੱਛਾ ਮੌਤ ਵਰਗੇ ਖਾਸ ਵਿਵਾਦਪੂਰਨ ਨੈਤਿਕ ਮੁੱਦਿਆਂ ਦਾ ਵਿਸ਼ਲੇਸ਼ਣ ਸ਼ਾਮਲ ਹੈ?

Ans

✗ 1. ਅਧਿਨਿਤੀ ਸ਼ਾਸਤਰ

✗ 2. ਆਦਰਸ਼ਕ ਨੈਤਿਕਤਾ

✗ 3. ਵਰਣਨਾਤਮਕ ਨੈਤਿਕਤਾ

✓ 4. ਵਿਹਾਰਕ ਨੈਤਿਕਤਾ

Question ID : **630680238356**
Option 1 ID : **630680924440**
Option 2 ID : **630680924442**
Option 3 ID : **630680924443**
Option 4 ID : **630680924441**
Status : **Not Answered**
Chosen Option : **--**

Q.20 ਹੇਠ ਦਿੱਤਿਆਂ ਵਿੱਚੋਂ ਕਿਸ ਨੇ ਲੰਡਨ ਵਿੱਚ 1866 ਵਿੱਚ ਈਸਟ ਇੰਡੀਆ ਐਸੋਸੀਏਸ਼ਨ ਦੀ ਸਥਾਪਨਾ ਕੀਤੀ ਸੀ?

Ans

✗ 1. ਜਸਟਿਸ ਰਾਨਾਡੇ

✗ 2. ਸੁਰੇਂਦਰ ਨਾਥ ਬੈਨਰਜੀ

✗ 3. ਰਾਜਾ ਰਾਮ ਮੋਹਨ ਰਾਏ

✓ 4. ਦਾਦਾਭਾਈ ਨੌਰੋਜੀ

Question ID : **630680160031**
Option 1 ID : **630680619510**
Option 2 ID : **630680619509**
Option 3 ID : **630680619508**
Option 4 ID : **630680619511**
Status : **Answered**
Chosen Option : **2**

Q.21 ਤਮਿਲਨਾਡੂ ਦੀ ਇੱਕ 14 ਸਾਲਾਂ ਲੜਕੀ ਵਿਨਿਸ਼ਾ ਉਮਾਸ਼ੰਕਰ ਕਿਹੜੇ ਕਾਰਨਾਂ ਨਾਲ ਹਾਲ ਹੀ ਵਿੱਚ ਖਬਰਾਂ ਵਿੱਚ ਰਹੀ ਅਤੇ ਪ੍ਰਤਿਸ਼ਠਾਵਾਨ ਵਾਤਾਵਰਣ ਪੁਰਸਕਾਰ 'ਅਰਥਸ਼ਾਟ ਪੁਰਸਕਾਰ 2021' ਲਈ ਮਨੋਨੀਤ ਹੋਈ ?

Ans

✗ 1. ਚੱਲ ਰਹੇ ਜਲਵਾਯੂ ਸੰਕਟਾਂ ਬਾਰੇ ਉਸਦੇ ਮੁਹਿੰਮ

✗ 2. ਤਮਿਲਨਾਡੂ ਵਿੱਚ ਲਗਭਗ 5000 ਰੁੱਖ ਲਗਾਉਣ ਅਤੇ ਜੰਗਲ ਬਣਾਉਣ ਲਈ

✗ 3. ਇੱਕ ਅਜਿਹੀ ਐਪਲੀਕੇਸ਼ਨ ਬਣਾਉਣ ਲਈ ਜਿਹੜੀ ਕਿ ਭਾਰਤ ਵਿੱਚ ਨਦੀਆਂ ਦੀ ਸਿਹਤ ਨੂੰ ਟਰੈਕ ਕਰੇਗੀ

✓ 4. ਉਸਦੀ ਵਿਲੱਖਣ ਕਾਢ ਸੂਰਜੀ ਊਰਜਾ ਵਾਲੇ ਆਇਰਨਿੰਗ ਕਾਰਟ ਲਈ

Question ID : **63068086867**
Option 1 ID : **630680336862**
Option 2 ID : **630680336863**
Option 3 ID : **630680336864**
Option 4 ID : **630680336861**
Status : **Not Answered**
Chosen Option : **--**

Website - www.dailyjobalert.in

Q.22 ਮਾਰਚ 2021 ਵਿੱਚ, ਨਗੋਜ਼ੀ ਓਕੋਨਜੋ-ਇਵੇਲਾ (Ngozi Okonjo-Iweala) _____ ਦੀ ਡਾਇਰੈਕਟਰ-ਜਨਰਲ ਵਜੋਂ ਸੇਵਾ ਕਰਨ ਵਾਲੀ ਪਹਿਲੀ ਔਰਤ ਅਤੇ ਪਹਿਲੀ ਅਫ਼ਰੀਕੀ ਬਣੀ।

Ans
1. UNO
2. WHO
3. WTO
4. UNESCO

Question ID : **63068068655**
Option 1 ID : **630680265312**
Option 2 ID : **630680265310**
Option 3 ID : **630680265313**
Option 4 ID : **630680265311**
Status : **Not Answered**
Chosen Option : **--**

Q.23 ਹਰੀ ਕ੍ਰਾਂਤੀ ਦੇ ਪਹਿਲੇ ਪੜਾਅ ਦੌਰਾਨ, ਦੇਸ਼ ਦਾ ਦਾਇਰਾ ਭਾਰਤ ਦੇ _____ ਅਤੇ _____ ਉਗਾਉਣ ਵਾਲੇ ਖੇਤਰਾਂ ਤੱਕ ਹੀ ਸੀਮਤ ਸੀ।

Ans
1. ਮੱਕੀ; ਕਪਾਹ
2. ਮੱਕੀ; ਚੌਲ
3. ਕਣਕ; ਚੌਲ
4. ਕਣਕ; ਮੱਕੀ

Question ID : **63068059042**
Option 1 ID : **630680227792**
Option 2 ID : **630680227793**
Option 3 ID : **630680227790**
Option 4 ID : **630680227791**
Status : **Answered**
Chosen Option : **3**

Q.24 ਅੰਗ ਮਹਾਜਨਪਦ ਦੀ ਰਾਜਧਾਨੀ _____ ਸੀ।

Ans
1. ਤਕਸ਼ੀਲਾ
2. ਵਿਰਾਟਨਗਰ
3. ਕੌਸ਼ਾਂਬੀ
4. ਚੰਪਾ

Question ID : **630680112619**
Option 1 ID : **630680436170**
Option 2 ID : **630680436171**
Option 3 ID : **630680436172**
Option 4 ID : **630680436173**
Status : **Not Answered**
Chosen Option : **--**

Website - www.dailyjobalert.in

Q.25 ਕਾਲਮਾਂ ਦਾ ਮਿਲਾਣ ਕਰੋ:

ਸੂਚੀ-I (ਸੰਸਥਾ ਦਾ ਨਾਮ)	ਸੂਚੀ-II (ਸਥਾਪਨਾ ਦਾ ਸਾਲ)
1. ਨੌਜਵਾਨ ਭਾਰਤ ਸਭਾ	A. 1875
2. ਬਹਿਸ਼ਕਰਿਤ ਹਿਤਕਰਨੀ ਸਭਾ	B. 1866
3. ਆਰੀਆ ਸਮਾਜ	C. 1926
4. ਈਸਟ ਇੰਡੀਅਨ ਐਸੋਸੀਏਸ਼ਨ	D. 1924

Ans
✔ 1. 1-(C); 2 -(D); 3 - (A); 4- (B)

✘ 2. 1-(D); 2 -(C); 3 - (B); 4- (A)

✘ 3. 1-(A); 2 -(C); 3 - (D); 4- (B)

✘ 4. 1-(C); 2 -(A); 3 - (B); 4- (D)

Question ID : **630680176095**
Option 1 ID : **630680682626**
Option 2 ID : **630680682625**
Option 3 ID : **630680682627**
Option 4 ID : **630680682624**
Status : **Answered**
Chosen Option : **1**

Q.26 ਹਰ ਸਾਲ ਮੁਕਤਸਰ ਸਾਹਿਬ ਵਿਖੇ ਹੇਠ ਲਿਖਿਆਂ ਵਿੱਚੋਂ ਕਿਹੜਾ ਤਿਉਹਾਰ ਮਨਾਇਆ ਜਾਂਦਾ ਹੈ?

Ans
✔ 1. ਮਾਘੀ ਦਾ ਮੇਲਾ

✘ 2. ਗੁਰੂ ਦਾ ਮੇਲਾ

✘ 3. ਸਾਹਿਬ ਦਾ ਮੇਲਾ

✘ 4. ਵਾਹਿਗੁਰੂ ਦਾ ਮੇਲਾ

Question ID : **630680238518**
Option 1 ID : **630680925089**
Option 2 ID : **630680925090**
Option 3 ID : **630680925088**
Option 4 ID : **630680925091**
Status : **Answered**
Chosen Option : **1**

Website - www.dailyjobalert.in

Q.27 ਪੰਜਾਬ ਵਿੱਚ, ਸਭ ਤੋਂ ਮਸ਼ਹੂਰ ਸ਼ਾਸਤਰੀ ਸੰਗੀਤ ਘਰਾਣਾ _____ ਘਰਾਣਾ ਹੈ, ਜੋ ਇਸਦੀ ਠੁਮਰੀ, ਗ਼ਜ਼ਲਾਂ ਅਤੇ ਖਿਆਲ ਪੇਸ਼ਕਾਰੀ ਲਈ ਪ੍ਰਸਿੱਧ ਹੈ।

Ans
✗ 1. ਲੁਧਿਆਣਾ
✗ 2. ਅੰਮ੍ਰਿਤਸਰ
✓ 3. ਪਟਿਆਲਾ
✗ 4. ਬਠਿੰਡਾ

Question ID : **630680238546**
Option 1 ID : **630680925201**
Option 2 ID : **630680925200**
Option 3 ID : **630680925202**
Option 4 ID : **630680925203**
Status : **Answered**
Chosen Option : **1**

Q.28 ਹੇਠ ਦਿੱਤਿਆਂ ਵਿੱਚੋਂ ਕਿਹੜੇ ਸਿੱਖ ਗੁਰੂ ਨੇ 1604 ਵਿੱਚ ਆਦਿ ਗ੍ਰੰਥ ਦਾ ਸੰਕਲਨ ਕੀਤਾ ਸੀ?

Ans
✗ 1. ਗੁਰੂ ਗੋਬਿੰਦ ਸਿੰਘ ਜੀ
✓ 2. ਗੁਰੂ ਅਰਜਨ ਦੇਵ ਜੀ
✗ 3. ਗੁਰੂ ਤੇਗ ਬਹਾਦਰ ਜੀ
✗ 4. ਗੁਰੂ ਅੰਗਦ ਦੇਵ ਜੀ

Question ID : **630680238573**
Option 1 ID : **630680925309**
Option 2 ID : **630680925311**
Option 3 ID : **630680925310**
Option 4 ID : **630680925308**
Status : **Answered**
Chosen Option : **2**

Q.29 ਚਨਾਬ ਨਦੀ, ਹੇਠ ਲਿਖਿਆਂ ਵਿੱਚੋਂ ਕਿਹੜੇ ਵਿੱਚੋਂ ਨਿਕਲਦੀ ਹੈ?

Ans
✗ 1. ਨਾਥੂ ਲਾ
✗ 2. ਖਰਦੁੰਗ ਲਾ
✓ 3. ਬਰਾਲਾਚਾ ਪਾਸ
✗ 4. ਰੋਹਤਾਂਗ ਪਾਸ

Question ID : **630680115195**
Option 1 ID : **630680446148**
Option 2 ID : **630680446146**
Option 3 ID : **630680446147**
Option 4 ID : **630680446149**
Status : **Answered**
Chosen Option : **4**

Website - www.dailyjobalert.in

Q.30 ਹੇਠ ਲਿਖਿਆਂ ਵਿੱਚੋਂ ਪਟਿਆਲਾ ਅਤੇ ਪੂਰਬੀ ਪੰਜਾਬ ਰਾਜ ਸੰਘ (ਪੈਪਸੂ) ਦਾ ਆਖਰੀ ਮੁੱਖ ਮੰਤਰੀ ਕੌਣ ਸੀ?

Ans
1. ਗਿਆਨ ਸਿੰਘ ਰਾੜੇਵਾਲਾ
2. ਬ੍ਰਿਸ਼ ਭਾਨ
3. ਰਘਬੀਰ ਸਿੰਘ
4. ਭੀਮ ਸੇਨ ਸੱਚਰ

Question ID : **630680238427**
Option 1 ID : **630680924724**
Option 2 ID : **630680924727**
Option 3 ID : **630680924726**
Option 4 ID : **630680924725**
Status : **Answered**
Chosen Option : **3**

Q.31 ਭਾਰਤ _____ ਵਿੱਚ 13000 ਫੁੱਟ ਤੋਂ ਵੱਧ ਉਚਾਈ 'ਤੇ ਦੁਨੀਆਂ ਦੀ ਸਭ ਤੋਂ ਲੰਬੀ ਦੂਹਰੀ-ਲੇਨ ਵਾਲੀ ਸੜਕ ਸੁਰੰਗ 'ਸੇਲਾ ਸੁਰੰਗ' ਦਾ ਨਿਰਮਾਣ ਕਰ ਰਿਹਾ ਹੈ।

Ans
1. ਸਿਕਮ
2. ਅਸਮ
3. ਪੱਛਮੀ ਬੰਗਾਲ
4. ਅਰੁਣਾਚਲ ਪ੍ਰਦੇਸ਼

Question ID : **630680127560**
Option 1 ID : **630680494501**
Option 2 ID : **630680494500**
Option 3 ID : **630680494502**
Option 4 ID : **630680494503**
Status : **Answered**
Chosen Option : **4**

Q.32 2011 ਦੀ ਮਰਦਮਸ਼ੁਮਾਰੀ ਅਨੁਸਾਰ, ਹੇਠਾਂ ਦਿੱਤਿਆਂ ਵਿੱਚੋਂ ਕਿਹੜੇ ਭਾਰਤੀ ਰਾਜ ਵਿੱਚ ਹਿੰਦੂ ਆਬਾਦੀ ਦਾ ਪ੍ਰਤੀਸ਼ਤ ਸਭ ਤੋਂ ਵੱਧ ਹੈ?

Ans
1. ਛੱਤੀਸਗੜ੍ਹ
2. ਮੱਧ ਪ੍ਰਦੇਸ਼
3. ਹਿਮਾਚਲ ਪ੍ਰਦੇਸ਼
4. ਗੁਜਰਾਤ

Question ID : **63068080430**
Option 1 ID : **630680311746**
Option 2 ID : **630680311748**
Option 3 ID : **630680311745**
Option 4 ID : **630680311747**
Status : **Not Answered**
Chosen Option : **--**

Website - www.dailyjobalert.in

Q.33 ਭਾਰਤ ਵਿੱਚ ਸਵੱਛ ਭਾਰਤ ਅਭਿਆਨ ਕਿਸ ਸਾਲ ਸ਼ੁਰੂ ਕੀਤਾ ਗਿਆ ਸੀ?

Ans
✔ 1. 2014
✘ 2. 2013
✘ 3. 2015
✘ 4. 2016

Question ID : **63068068580**
Option 1 ID : **630680265011**
Option 2 ID : **630680265010**
Option 3 ID : **630680265012**
Option 4 ID : **630680265013**
Status : **Not Answered**
Chosen Option : **--**

Q.34 ਹੇਠ ਲਿਖੀਆਂ ਵਿੱਚੋਂ ਕਿਹੜੀ ਦੁਨੀਆਂ ਦੀ ਸਭ ਤੋਂ ਵੱਧ ਸਮੱਸਿਆ ਵਾਲੀ ਜਲ ਬੂਟੀ ਹੈ?

Ans
✘ 1. ਲੇਮਨਾ ਮਾਈਨਰ (Lemna minors)
✘ 2. ਲੈਮੀਨੇਰੀਆ ਐਸਪੀਪੀ (Laminaria spp)
✔ 3. ਆਈਕੋਰਨੀਆ ਕਰੈਸੀਪਸ (Eichhornia crassipes)
✘ 4. ਓਟੇਲੀਆ ਅਲਿਸਮੋਇਡ (Ottelia alismoide)

Question ID : **63068049662**
Option 1 ID : **630680191080**
Option 2 ID : **630680191079**
Option 3 ID : **630680191078**
Option 4 ID : **630680191081**
Status : **Not Answered**
Chosen Option : **--**

Q.35 ਜੇਕਰ ਸੰਸਦ ਦੇ ਕਿਸੇ ਵੀ ਸਦਨ ਜਾਂ ਰਾਜ ਦੇ ਵਿਧਾਨ ਸਭਾ ਦੇ ਕਿਸੇ ਵੀ ਸਦਨ ਦਾ ਕੋਈ ਮੈਂਬਰ ਰਾਜਪਾਲ ਵਜੋਂ ਨਿਯੁਕਤ ਕੀਤਾ ਜਾਂਦਾ ਹੈ, ਤਾਂ _____ ਉਸ ਦੁਆਰਾ ਸਦਨ ਵਿੱਚ ਆਪਣੀ ਸੀਟ ਖਾਲੀ ਕੀਤੀ ਸਮਝੀ ਜਾਵੇਗੀ।

Ans
✘ 1. ਰਾਜਪਾਲ ਦੇ ਦਫ਼ਤਰ ਵਿੱਚ ਦਾਖ਼ਲ ਹੋਣ ਦੇ 30 ਦਿਨਾਂ ਦੇ ਅੰਦਰ
✘ 2. ਰਾਜਪਾਲ ਦੇ ਦਫ਼ਤਰ ਵਿੱਚ ਦਾਖ਼ਲ ਹੋਣ ਦੇ 45 ਦਿਨਾਂ ਦੇ ਅੰਦਰ
✔ 3. ਜਿਸ ਦਿਨ ਉਹ ਰਾਜਪਾਲ ਦੇ ਦਫ਼ਤਰ ਵਿੱਚ ਦਾਖ਼ਲ ਹੁੰਦਾ ਹੈ
✘ 4. ਰਾਜਪਾਲ ਦੇ ਦਫ਼ਤਰ ਵਿੱਚ ਦਾਖ਼ਲ ਹੋਣ ਦੇ 60 ਦਿਨਾਂ ਦੇ ਅੰਦਰ

Question ID : **630680100476**
Option 1 ID : **630680390601**
Option 2 ID : **630680390602**
Option 3 ID : **630680390600**
Option 4 ID : **630680390603**
Status : **Not Answered**
Chosen Option : **--**

DAILY JOB Alert ਪੰਜਾਬ

Q.36 ਹੇਠਾਂ ਦਿੱਤਿਆਂ ਵਿੱਚੋਂ ਕਿਸ ਭਾਰਤੀ ਸੰਸਥਾ ਦੇ ਖੋਜਕਰਤਾਵਾਂ ਨੇ 'ਸਿੰਧੂਜਾ-1' ਨਾਮਕ ਇੱਕ ਪ੍ਰਣਾਲੀ ਵਿਕਸਿਤ ਅਤੇ ਤੈਨਾਤ ਕੀਤੀ ਹੈ?

Ans
✗ 1. ਆਈਆਈਟੀ ਬੌਂਬੇ
✗ 2. ਆਈਆਈਟੀ ਕਾਨਪੁਰ
✓ 3. ਆਈਆਈਟੀ ਮਦਰਾਸ
✗ 4. ਆਈਆਈਟੀ ਰੋਪੜ

Question ID : **630680191798**
Option 1 ID : **630680743799**
Option 2 ID : **630680743800**
Option 3 ID : **630680743797**
Option 4 ID : **630680743798**
Status : **Not Answered**
Chosen Option : **--**

Q.37 2021 ਵਿੱਚ UNESCO ਦੁਆਰਾ ਭਾਰਤ ਦੇ ਹੇਠਾਂ ਦਿੱਤੇ ਸਮਾਰਕਾਂ ਵਿੱਚੋਂ ਕਿਸ ਨੂੰ ਵਿਸ਼ਵ ਵਿਰਾਸਤ ਸਥਾਨ ਵਜੋਂ ਘੋਸ਼ਿਤ ਕੀਤਾ ਗਿਆ ਹੈ?

Ans
✓ 1. ਰਾਮੱਪਾ ਮੰਦਰ
✗ 2. ਭੀਮਬੇਟਕਾ ਦੇ ਰਾਕ ਸ਼ੈਲਟਰ
✗ 3. ਹੰਪੀ ਵਿਖੇ ਸਮਾਰਕਾਂ ਦਾ ਸਮੂਹ
✗ 4. ਬਾਦਾਮੀ ਚਲੁਕਿਆ ਆਰਕੀਟੈਕਚਰ

Question ID : **630680165364**
Option 1 ID : **630680640472**
Option 2 ID : **630680640475**
Option 3 ID : **630680640474**
Option 4 ID : **630680640473**
Status : **Not Answered**
Chosen Option : **--**

Q.38 ਮਹਾਰਾਜਾ ਰਣਜੀਤ ਸਿੰਘ ਅਤੇ ਲਾਰਡ ਹਾਰਡਿੰਗ ਵਿਚਕਾਰ ਲਾਹੌਰ ਦੀ ਸੰਧੀ ਕਦੋਂ ਹੋਈ ਸੀ?

Ans
✗ 1. 19 ਮਾਰਚ 1845
✗ 2. 19 ਮਾਰਚ 1849
✓ 3. 9 ਮਾਰਚ 1846
✗ 4. 29 ਮਾਰਚ 1845

Question ID : **630680238553**
Option 1 ID : **630680925229**
Option 2 ID : **630680925230**
Option 3 ID : **630680925228**
Option 4 ID : **630680925231**
Status : **Answered**
Chosen Option : **3**

Website - www.dailyjobalert.in

Q.39 ਜਗੋਈ ਅਤੇ ਚੋਲੋਮ ਹੇਠ ਦਿੱਤੇ ਸ਼ਾਸਤਰੀ ਨਾਚਾਂ ਵਿੱਚੋਂ ਕਿਸ ਨਾਲ ਜੁੜੇ ਹੋਏ ਹਨ?

Ans
- ✗ 1. ਕਥਕਲੀ
- ✗ 2. ਕਥਕ
- ✓ 3. ਮਣੀਪੁਰੀ
- ✗ 4. ਭਰਤਨਾਟਿਅਮ

Question ID : **63068071179**
Option 1 ID : **630680275313**
Option 2 ID : **630680275310**
Option 3 ID : **630680275312**
Option 4 ID : **630680275311**
Status : **Not Answered**
Chosen Option : **--**

Q.40 ਸਰਵ ਸਿੱਖਿਆ ਅਭਿਆਨ (SSA) ਇੱਕ ਸਮਾਂਬੱਧ ਢੰਗ ਨਾਲ ਐਲੀਮੈਂਟਰੀ ਐਜੂਕੇਸ਼ਨ ਦੇ ਵਿਸ਼ਵੀਕਰਨ (UEE) ਦੀ ਪ੍ਰਾਪਤੀ ਲਈ ਭਾਰਤ ਸਰਕਾਰ ਦਾ ਇੱਕ ਪ੍ਰਮੁੱਖ ਪ੍ਰੋਗਰਾਮ ਹੈ। ਦੇਸ਼ ਵਿੱਚ ਸਰਵ ਸਿੱਖਿਆ ਅਭਿਆਨ (SSA) ਕਦੋਂ ਸ਼ੁਰੂ ਕੀਤਾ ਗਿਆ ਸੀ?

Ans
- ✓ 1. 2001
- ✗ 2. 1998
- ✗ 3. 2007
- ✗ 4. 2003

Question ID : **630680238361**
Option 1 ID : **630680924461**
Option 2 ID : **630680924460**
Option 3 ID : **630680924463**
Option 4 ID : **630680924462**
Status : **Answered**
Chosen Option : **4**

Q.41 ਗੁਰੂ ਤੇਗ ਬਹਾਦਰ ਜੀ ਦਾ ਸ਼ਹੀਦੀ ਦਿਹਾੜਾ ਹਰ ਸਾਲ _____ ਨੂੰ ਮਨਾਇਆ ਜਾਂਦਾ ਹੈ।

Ans
- ✗ 1. 28 ਸਤੰਬਰ
- ✗ 2. 28 ਦਸੰਬਰ
- ✗ 3. 28 ਅਕਤੂਬਰ
- ✓ 4. 24 ਨਵੰਬਰ

Question ID : **630680238448**
Option 1 ID : **630680924808**
Option 2 ID : **630680924811**
Option 3 ID : **630680924809**
Option 4 ID : **630680924810**
Status : **Not Answered**
Chosen Option : **--**

DAILY JOB Alert ਪੰਜਾਬ

Q.42 ਮਹਾਰਾਜਾ ਰਣਜੀਤ ਸਿੰਘ ਜੰਗੀ ਅਜਾਇਬ ਘਰ ਸਾਲ _____ ਵਿੱਚ ਹੋਂਦ ਵਿੱਚ ਆਇਆ।

Ans
1. 2001
2. 2000
3. 1999
4. 2002

Question ID : **630680238529**
Option 1 ID : **630680925134**
Option 2 ID : **630680925133**
Option 3 ID : **630680925132**
Option 4 ID : **630680925135**
Status : **Not Answered**
Chosen Option : **--**

Q.43 ਹੇਠ ਲਿਖੀਆਂ ਵਿੱਚੋਂ ਕਿਹੜੀ ਖੇਤੀ ਮੰਡੀਕਰਨ ਪ੍ਰਕਿਰਿਆ ਵਿੱਚ ਸ਼ਾਮਲ ਨਹੀਂ ਹੈ?

Ans
1. ਉਪਜ ਦੀ ਗੁਣਵੱਤਾ ਦੇ ਅਨੁਸਾਰ ਸ਼੍ਰੇਣੀਬੱਧ ਕਰਨਾ
2. ਖਰੀਦਦਾਰਾਂ ਦੀਆਂ ਤਰਜੀਹਾਂ ਅਨੁਸਾਰ ਉਤਪਾਦਾਂ ਨੂੰ ਪੈਕ ਕਰਨਾ
3. ਖੇਤੀਬਾੜੀ ਵਿੱਚ ਨਿਵੇਸ਼ਾਂ ਦਾ ਵਰਗੀਕਰਨ
4. ਭਵਿੱਖ ਵਿੱਚ ਵਿਕਰੀ ਲਈ ਉਤਪਾਦਾਂ ਨੂੰ ਸਟੋਰ ਕਰਨਾ

Question ID : **630680111941**
Option 1 ID : **630680433490**
Option 2 ID : **630680433492**
Option 3 ID : **630680433491**
Option 4 ID : **630680433493**
Status : **Answered**
Chosen Option : **3**

Q.44 ਸਰਦਾਰ ਭਗਤ ਸਿੰਘ ਨੇ 1928 ਵਿੱਚ ਜੇ.ਪੀ ਸਾਂਡਰਸ ਨੂੰ ਮਾਰ ਕੇ ਕਿਸ ਆਜ਼ਾਦੀ ਘੁਲਾਟੀਏ ਦੀ ਮੌਤ ਦਾ ਬਦਲਾ ਲਿਆ ਸੀ?

Ans
1. ਭਾਈ ਹਰਨਾਮ ਸਿੰਘ ਟੁੰਡੀਲਾਟ
2. ਸੋਹਣ ਸਿੰਘ ਭਕਨਾ
3. ਲਾਲਾ ਹਰਦਿਆਲ
4. ਲਾਲਾ ਲਾਜਪਤ ਰਾਏ

Question ID : **630680238407**
Option 1 ID : **630680924647**
Option 2 ID : **630680924646**
Option 3 ID : **630680924645**
Option 4 ID : **630680924644**
Status : **Answered**
Chosen Option : **4**

Website - www.dailyjobalert.in

Q.45 ਪੰਜਾਬ ਵਿੱਚ ਹੇਠ ਲਿਖਿਆਂ ਵਿੱਚੋਂ ਕਿਹੜਾ ਕਿਲ੍ਹਾ ਰਾਵੀ ਨਦੀ ਦੇ ਕੰਢੇ 'ਤੇ ਸਥਿਤ ਹੈ?

Ans
1. ਗੋਬਿੰਦਗੜ੍ਹ ਕਿਲ੍ਹਾ
2. ਸ਼ਾਹਪੁਰ ਕੰਢੀ ਦਾ ਕਿਲ੍ਹਾ
3. ਬਹਾਦਰਗੜ੍ਹ ਕਿਲ੍ਹਾ
4. ਕਿਲ੍ਹਾ ਮੁਬਾਰਕ

Question ID : **630680238456**
Option 1 ID : **630680924843**
Option 2 ID : **630680924841**
Option 3 ID : **630680924840**
Option 4 ID : **630680924842**
Status : **Answered**
Chosen Option : **2**

Q.46 'ਐਸਿਡ ਅਟੈਕ ਪੀੜਤਾਂ ਲਈ ਪੰਜਾਬ ਵਿੱਤੀ ਸਹਾਇਤਾ ਸਕੀਮ' ਤਹਿਤ ਐਸਿਡ ਅਟੈਕ ਪੀੜਤਾਂ ਨੂੰ ਕਿੰਨਾ ਮਹੀਨਾਵਾਰ ਮੁਆਵਜ਼ਾ ਦਿੱਤਾ ਜਾਂਦਾ ਹੈ?

Ans
1. ₹15,000
2. ₹8,000
3. ₹10,000
4. ₹5,000

Question ID : **630680238382**
Option 1 ID : **630680924547**
Option 2 ID : **630680924546**
Option 3 ID : **630680924545**
Option 4 ID : **630680924544**
Status : **Not Answered**
Chosen Option : **--**

Q.47 ਹੇਠ ਲਿਖਿਆਂ ਵਿੱਚੋਂ ਕਿਹੜਾ ਧਾਰਮਿਕ ਕਾਰਨਾਂ ਕਰਕੇ ਕੁਦਰਤ ਦੀ ਰੱਖਿਆ ਦਾ ਅਭਿਆਸ ਹੈ?

Ans
1. ਨਰਮਦਾ ਬਚਾਓ ਅੰਦੋਲਨ
2. ਚਿਪਕੋ ਅੰਦੋਲਨ
3. ਭਾਰਤ ਦੇ ਪਵਿੱਤਰ ਉਪਵਣ
4. ਕਿਓਟੋ ਪ੍ਰੋਟੋਕੋਲ

Question ID : **63068049669**
Option 1 ID : **630680191107**
Option 2 ID : **630680191108**
Option 3 ID : **630680191106**
Option 4 ID : **630680191109**
Status : **Not Answered**
Chosen Option : **--**

Website - www.dailyjobalert.in

Q.48 ਜੂਨ 2021 ਵਿੱਚ ਹੇਠਾਂ ਦਿੱਤਿਆਂ ਵਿੱਚੋਂ ਕਿਸ ਰਾਜ ਵਿੱਚ ਭਾਰਤ ਦਾ ਪਹਿਲਾਂ ਫੈਂਟਨ ਵੇਸਟਵਾਟਰ ਟ੍ਰੀਟਮੈਂਟ ਪਲਾਂਟ (Fenton wastewater treatment plant) ਸਥਾਪਿਤ ਕੀਤਾ ਗਿਆ ਸੀ?

Ans
1. ਉੱਤਰ ਪ੍ਰਦੇਸ਼
2. ਆਂਧਰਾ ਪ੍ਰਦੇਸ਼
3. ਹਿਮਾਚਲ ਪ੍ਰਦੇਸ਼
4. ਗੁਜਰਾਤ

Question ID : **630680112674**
Option 1 ID : **630680436393**
Option 2 ID : **630680436390**
Option 3 ID : **630680436391**
Option 4 ID : **630680436392**
Status : **Not Answered**
Chosen Option : **--**

Q.49 ਹੇਠ ਲਿਖੇ ਕਲਾਕਾਰਾਂ ਵਿੱਚੋਂ ਕੌਣ 'ਕੱਥਕ ਰਾਣੀ' ਵਜੋਂ ਮਸ਼ਹੂਰ ਸੀ?

Ans
1. ਰਾਧਾ ਰੈਡੀ
2. ਐਲ ਬੀਨੋ ਦੇਵੀ
3. ਸਿਤਾਰਾ ਦੇਵੀ
4. ਵੈਜਯੰਤੀਮਾਲਾ

Question ID : **630680163288**
Option 1 ID : **630680632358**
Option 2 ID : **630680632356**
Option 3 ID : **630680632357**
Option 4 ID : **630680632359**
Status : **Not Answered**
Chosen Option : **--**

Q.50 ਹੇਠ ਦਿੱਤਿਆਂ ਵਿੱਚੋਂ ਕਿਹੜੇ ਕਾਂਗਰਸ ਸੈਸ਼ਨ ਵਿੱਚ ਜਵਾਹਰ ਲਾਲ ਨਹਿਰੂ ਪਹਿਲੀ ਵਾਰ ਭਾਰਤੀ ਰਾਸ਼ਟਰੀ ਕਾਂਗਰਸ ਦੇ ਪ੍ਰਧਾਨ ਬਣੇ?

Ans
1. ਮਦਰਾਸ ਸੈਸ਼ਨ, 1927
2. ਲਾਹੌਰ ਸੈਸ਼ਨ, 1929
3. ਕਰਾਚੀ ਸੈਸ਼ਨ, 1931
4. ਲਖਨਊ ਸੈਸ਼ਨ, 1936

Question ID : **630680146020**
Option 1 ID : **630680564981**
Option 2 ID : **630680564979**
Option 3 ID : **630680564978**
Option 4 ID : **630680564980**
Status : **Answered**
Chosen Option : **2**

Section : **Quantitative Aptitude and Numerical Skills**

Website - www.dailyjobalert.in

Q.51 ਜੇਕਰ $\frac{a}{b} = \frac{2}{3}$ ਅਤੇ $\frac{b}{c} = \frac{4}{5}$, ਤਦ $\frac{a+b}{b+c} = ?$

Ans
1. 8 : 35
2. 20 : 15
3. 20 : 27 ✔
4. 4 : 9

Question ID : **630680139490**
Option 1 ID : **630680540028**
Option 2 ID : **630680540029**
Option 3 ID : **630680540027**
Option 4 ID : **630680540026**
Status : **Not Answered**
Chosen Option : **--**

Q.52 8 m ਅਰਧ-ਵਿਆਸ ਅਤੇ 21 m ਡੂੰਘਾਈ ਵਾਲਾ ਇੱਕ ਖੂਹ ਪੁੱਟਿਆ ਜਾਂਦਾ ਹੈ ਅਤੇ ਪੁੱਟੀ ਗਈ ਮਿੱਟੀ ਨੂੰ 35 m × 15 m ਪੈਮਾਇਸ਼ ਵਾਲਾ ਇੱਕ ਪਲੇਟਫਾਰਮ ਬਣਾਉਣ ਲਈ ਬਰਾਬਰ ਫੈਲਾਇਆ ਜਾਂਦਾ ਹੈ। ਪਲੇਟਫਾਰਮ ਦੀ ਉਚਾਈ ਪਤਾ ਕਰੋ।

Ans
1. 9.06 m
2. 8.05 m ✔
3. 7.05 m
4. 6.06 m

Question ID : **630680131161**
Option 1 ID : **630680507913**
Option 2 ID : **630680507910**
Option 3 ID : **630680507912**
Option 4 ID : **630680507911**
Status : **Not Answered**
Chosen Option : **--**

Website - www.dailyjobalert.in

Q.53 ਜੇਕਰ $2^x = 3^y = 6^{-z}$, ਤਾਂ $\frac{(xy+yz+zx)}{xyz}$ ਦਾ ਮੁੱਲ ਕਿੰਨਾ ਹੋਵੇਗਾ?

Ans
✗ 1. 1

✓ 2. 0

✗ 3. $\frac{3}{2}$

✗ 4. $\frac{-1}{2}$

Question ID : **63068070825**
Option 1 ID : **630680273915**
Option 2 ID : **630680273914**
Option 3 ID : **630680273916**
Option 4 ID : **630680273917**
Status : **Not Answered**
Chosen Option : **--**

Q.54 ਇੱਕ ਆਇਤਾਕਾਰ ਖੇਤ ਦਾ ਖੇਤਰਫਲ ਕੀ ਹੋਵੇਗਾ, ਜਿਸਦਾ ਵਿਕਰਣ, ਇਸ ਦੇ ਛੋਟੇ ਪਾਸੇ ਨਾਲੋਂ 60 m ਵੱਧ ਹੈ ਅਤੇ ਲੰਬਾ ਪਾਸਾ ਛੋਟੇ ਪਾਸੇ ਨਾਲੋਂ 30 m ਵੱਧ ਹੈ?

Ans
✓ 1. 10800 m^2

✗ 2. 1800 m^2

✗ 3. 9800 m^2

✗ 4. 10900 m^2

Question ID : **63068070870**
Option 1 ID : **630680274093**
Option 2 ID : **630680274091**
Option 3 ID : **630680274090**
Option 4 ID : **630680274092**
Status : **Not Answered**
Chosen Option : **--**

Q.55 ਇੱਕ ਤਿਕੋਣ ਦਾ ਖੇਤਰਫਲ 42 cm^2 ਹੈ। ਇਸਦਾ ਆਧਾਰ 14 cm ਹੈ। ਇਸਦਾ ਸਿਖ਼ਰਲੰਬ ਪਤਾ ਕਰੋ।

Ans
✗ 1. 8 cm

✓ 2. 6 cm

✗ 3. 10 cm

✗ 4. 12 cm

Question ID : **630680105269**
Option 1 ID : **630680409151**
Option 2 ID : **630680409154**
Option 3 ID : **630680409152**
Option 4 ID : **630680409153**
Status : **Not Answered**
Chosen Option : **--**

Website - www.dailyjobalert.in

Q.56 ਇੱਕ ਕੰਪਨੀ ₹7,500 ਤੱਕ ਦੀ ਖਰੀਦ 'ਤੇ 12% ਦੀ ਛੋਟ ਦੀ ਪੇਸ਼ਕਸ਼ ਕਰਦੀ ਹੈ ਅਤੇ ਇਹ ਬਾਕੀ ਬਚੀ ਧਨਰਾਸ਼ੀ 'ਤੇ (₹7,500 ਤੋਂ ਵੱਧ ਦੀ ਰਕਮ 'ਤੇ) 15% ਛੋਟ ਦਿੰਦੀ ਹੈ। K ਕੰਪਨੀ ਤੋਂ ਘੱਟੋ-ਘੱਟ 14.5% ਦੀ ਛੋਟ ਦੇ ਨਾਲ ਟੈਲੀਵਿਜ਼ਨ ਖਰੀਦਣਾ ਚਾਹੁੰਦਾ ਹੈ। ਟੈਲੀਵਿਜ਼ਨ ਦੀ ਘੱਟੋ-ਘੱਟ ਕੀਮਤ ਕਿੰਨੀ ਹੋਣੀ ਚਾਹੀਦੀ ਹੈ?

Ans
✗ 1. ₹37,500
✗ 2. ₹40,000
✓ 3. ₹45,000
✗ 4. ₹42,500

Question ID : **630680145250**
Option 1 ID : **630680561982**
Option 2 ID : **630680561983**
Option 3 ID : **630680561985**
Option 4 ID : **630680561984**
Status : **Not Answered**
Chosen Option : **--**

Q.57 $((0.05)^2+(0.55)^2+(0.555)^2) \div ((0.005)^2+(0.055)^2+(0.0555)^2)$ ਦਾ ਮੁੱਲ ਕੀ ਹੈ?

Ans
✓ 1. 100
✗ 2. 500
✗ 3. 50
✗ 4. 10

Question ID : **63068076008**
Option 1 ID : **630680294145**
Option 2 ID : **630680294148**
Option 3 ID : **630680294147**
Option 4 ID : **630680294146**
Status : **Not Answered**
Chosen Option : **--**

Q.58 ਹੇਠ ਲਿਖੀਆਂ ਸੰਖਿਆਵਾਂ ਵਿੱਚੋਂ ਕਿਹੜੀ ਸੰਖਿਆ 45 ਨਾਲ ਪੂਰੀ ਤਰ੍ਹਾਂ ਭਾਗਯੋਗ ਹੈ?

Ans
✗ 1. 523795
✓ 2. 423765
✗ 3. 597325
✗ 4. 372565

Question ID : **63068084196**
Option 1 ID : **630680326312**
Option 2 ID : **630680326313**
Option 3 ID : **630680326315**
Option 4 ID : **630680326314**
Status : **Answered**
Chosen Option : **2**

Website - www.dailyjobalert.in

Q.59 8 ਵਿਅਕਤੀਆਂ ਦੇ ਔਸਤ ਭਾਰ ਵਿੱਚ 2.5 kg ਦਾ ਵਾਧਾ ਹੁੰਦਾ ਹੈ ਜਦੋਂ ਉਹਨਾਂ ਵਿੱਚੋਂ ਇੱਕ, ਜਿਸਦਾ ਭਾਰ 56 kg ਹੈ, ਦੀ ਥਾਂ ਇੱਕ ਨਵਾਂ ਆਦਮੀ ਬਦਲਿਆ ਜਾਂਦਾ ਹੈ। ਨਵੇਂ ਆਦਮੀ ਦਾ ਭਾਰ ਪਤਾ ਕਰੋ।

Ans
✔ 1. 76 kg
✘ 2. 58.5 kg
✘ 3. 30 kg
✘ 4. 76 g

Question ID : **630680109174**
Option 1 ID : **630680423511**
Option 2 ID : **630680423509**
Option 3 ID : **630680423510**
Option 4 ID : **630680423508**
Status : **Answered**
Chosen Option : **1**

Q.60 ਸੰਖਿਆਵਾਂ ਦੇ ਕਿੰਨੇ ਜੋੜੇ ਹਨ ਜਿਨ੍ਹਾਂ ਦਾ ਮ.ਸ.ਵ (HCF), 18 ਅਤੇ ਲ. ਸ.ਵ (LCM), 112 ਹੈ?

Ans
✔ 1. ਅਜਿਹਾ ਕੋਈ ਜੋੜਾ ਮੌਜੂਦ ਨਹੀਂ ਹੈ
✘ 2. ਕੇਵਲ ਇੱਕ
✘ 3. ਅਨੰਤ
✘ 4. ਕੇਵਲ ਦੋ

Question ID : **63068065188**
Option 1 ID : **630680251718**
Option 2 ID : **630680251719**
Option 3 ID : **630680251721**
Option 4 ID : **630680251720**
Status : **Answered**
Chosen Option : **3**

Q.61 ਜੇਕਰ ਹੇਠਾਂ ਦਿੱਤੇ ਅੰਕੜਿਆਂ ਦਾ ਅੰਕਗਣਿਤਕ ਮੱਧਮਾਨ 39 ਹੈ ਤਾਂ p ਦਾ ਮੁੱਲ ਕੀ ਹੋਵੇਗਾ?

16, 7, 31, 25, 29, 11, 51, p, 63

Ans
✘ 1. 157
✔ 2. 118
✘ 3. 144
✘ 4. 97

Question ID : **630680151932**
Option 1 ID : **630680587773**
Option 2 ID : **630680587772**
Option 3 ID : **630680587775**
Option 4 ID : **630680587774**
Status : **Answered**
Chosen Option : **2**

Website - www.dailyjobalert.in

Q.62 ਸਾਲਾਨਾ ਤੌਰ 'ਤੇ, ਕਿਸੇ ਸ਼ਹਿਰ ਦੀ ਆਬਾਦੀ 5% ਵਧਦੀ ਹੈ ਪਰ ਨਾਲ ਹੀ ਪਰਵਾਸ ਕਾਰਨ ਇਹ 0.5% ਘੱਟ ਜਾਂਦੀ ਹੈ। 4 ਸਾਲਾਂ ਬਾਅਦ ਆਬਾਦੀ ਪ੍ਰਤੀਸ਼ਤ ਵਾਧਾ ਕਿੰਨਾ ਹੋਵੇਗਾ (ਦਸ਼ਮਲਵ ਦੇ ਦੋ ਸਥਾਨਾਂ ਤੱਕ ਸਹੀ)?

Ans
1. 20.14%
2. 19.32%
3. 19.15%
4. 19.25%

Question ID : **630680144642**
Option 1 ID : **630680559617**
Option 2 ID : **630680559615**
Option 3 ID : **630680559614**
Option 4 ID : **630680559616**
Status : **Answered**
Chosen Option : **4**

Q.63 ਜੇਕਰ A : B = 1.75 : 1.50 ਅਤੇ B : C = 3.2 : 5.6, ਤਾਂ A : B : C ਪਤਾ ਕਰੋ।

Ans
1. 7 : 14 : 21
2. 14 : 12 : 21
3. 1 : 2 : 3
4. 14 : 21 : 12

Question ID : **630680131129**
Option 1 ID : **630680507787**
Option 2 ID : **630680507789**
Option 3 ID : **630680507786**
Option 4 ID : **630680507788**
Status : **Not Answered**
Chosen Option : **--**

Q.64 A ਇੱਕ ਕੰਮ ਨੂੰ 12 ਦਿਨਾਂ ਵਿੱਚ ਪੂਰਾ ਕਰ ਸਕਦਾ ਹੈ ਜਦੋਂ ਕਿ B ਇਕੱਲਾ ਇਸਨੂੰ 15 ਦਿਨਾਂ ਵਿੱਚ ਪੂਰਾ ਕਰ ਸਕਦਾ ਹੈ। C ਦੀ ਮਦਦ ਨਾਲ, ਉਹ ਇਸ ਨੂੰ 5 ਦਿਨਾਂ 'ਚ ਖ਼ਤਮ ਕਰ ਸਕਦੇ ਹਨ। ਜੇਕਰ ਉਨ੍ਹਾਂ ਨੂੰ ਪੂਰੇ ਕੰਮ ਲਈ ₹2,880 ਦਿੱਤੇ ਜਾਂਦੇ ਹਨ, ਤਾਂ C ਦੀ ਹਿੱਸੇਦਾਰੀ ਪਤਾ ਕਰੋ?

Ans
1. ₹1,200
2. ₹1,250
3. ₹960
4. ₹720

Question ID : **630680135905**
Option 1 ID : **630680526327**
Option 2 ID : **630680526326**
Option 3 ID : **630680526328**
Option 4 ID : **630680526329**
Status : **Answered**
Chosen Option : **4**

Website - www.dailyjobalert.in

Q.65 56352744, x ਨਾਲ ਪੂਰਨ ਤੌਰ 'ਤੇ ਭਾਗਯੋਗ ਹੈ। x ਦਾ ਮੁੱਲ ਕਿੰਨਾ ਹੈ?

Ans
1. 11
2. 16
3. 24
4. 13

Question ID : **630680102946**
Option 1 ID : **630680400046**
Option 2 ID : **630680400044**
Option 3 ID : **630680400043**
Option 4 ID : **630680400045**
Status : **Answered**
Chosen Option : **3**

Q.66 ਉਸ ਵੱਡੇ ਤੋਂ ਵੱਡੇ ਲੰਬ ਚੱਕਰੀ ਸ਼ੰਕੂ ਦਾ ਅਰਧ-ਵਿਆਸ ਪਤਾ ਕਰੋ ਜਿਸ ਨੂੰ 7.2 cm ਪਾਸੇ ਵਾਲੇ ਕਿਸੇ ਘਣ ਤੋਂ ਕੱਟਿਆ ਜਾ ਸਕਦਾ ਹੈ?

Ans
1. 5.3cm
2. 5.1cm
3. 7.1cm
4. 3.6cm

Question ID : **630680101832**
Option 1 ID : **630680395689**
Option 2 ID : **630680395691**
Option 3 ID : **630680395688**
Option 4 ID : **630680395690**
Status : **Not Answered**
Chosen Option : **--**

Q.67 ਹੇਠਾਂ ਦਿੱਤੇ ਨੂੰ ਸਰਲ ਕਰੋ।

$$((7)^{\frac{1}{3}} + (3)^{\frac{1}{3}})((7)^{\frac{2}{3}} - (21)^{\frac{1}{3}} + (3)^{\frac{2}{3}})$$

Ans
1. 21
2. 10
3. 9
4. 14

Question ID : **630680208121**
Option 1 ID : **630680806715**
Option 2 ID : **630680806716**
Option 3 ID : **630680806718**
Option 4 ID : **630680806717**
Status : **Not Answered**
Chosen Option : **--**

Website - www.dailyjobalert.in

Q.68 $15 - [(7 \times 8 \div 2) \div \{44 - (32 - 20 \div 10)\}]$ ਦਾ ਮੁੱਲ ਪਤਾ ਕਰੋ।

Ans
1. 17
2. 13
3. 11
4. 15

Question ID : **630680136691**
Option 1 ID : **630680529381**
Option 2 ID : **630680529380**
Option 3 ID : **630680529379**
Option 4 ID : **630680529378**
Status : **Answered**
Chosen Option : **2**

Q.69 ਮਿਸ਼ਰਿਤ ਵਿਆਜ ਦੀ ਇੱਕ ਨਿਸ਼ਚਿਤ ਦਰ 'ਤੇ ਜਮ੍ਹਾਂ ਕੀਤੀ ₹36,000 ਦੀ ਧਨਰਾਸ਼ੀ, ਵਿਆਜ ਦੀ ਗਣਨਾ ਸਲਾਨਾ ਤੌਰ 'ਤੇ ਕਰਨ 'ਤੇ, 6 ਸਾਲਾਂ ਬਾਅਦ ਤਿੰਨ ਗੁਣਾ ਹੋ ਜਾਂਦੀ ਹੈ। ਮਿਸ਼ਰਿਤ ਵਿਆਜ ਦੀ ਉਸੇ ਦਰ 'ਤੇ 18 ਸਾਲਾਂ ਬਾਅਦ ਇਹ (₹ ਵਿੱਚ) ਕਿੰਨੀ ਬਣ ਜਾਵੇਗੀ।

Ans
1. 3,24,000
2. 81,000
3. 9,72,000
4. 1,08,000

Question ID : **630680222885**
Option 1 ID : **630680865301**
Option 2 ID : **630680865302**
Option 3 ID : **630680865299**
Option 4 ID : **630680865300**
Status : **Answered**
Chosen Option : **3**

Website - www.dailyjobalert.in

Q.70 ਸਰਲ ਕਰੋ।

$$\frac{6.28\ X\ 6.28-3.4\ X\ 6.28+3.4\ X\ 3.4}{6.28\ X\ 6.28\ X\ 6.28+3.4\ X\ 3.4\ X3.4}$$

Ans

✗ 1. $\frac{1}{4.68}$

✗ 2. $\frac{1}{2.68}$

✓ 3. $\frac{1}{9.68}$

✗ 4. $\frac{1}{2.88}$

Question ID : **63068091834**
Option 1 ID : **630680356071**
Option 2 ID : **630680356073**
Option 3 ID : **630680356070**
Option 4 ID : **630680356072**
Status : **Not Answered**
Chosen Option : **--**

Q.71 ਇੱਕ ਕਰਿਆਨਾ ਵਿਕਰੇਤਾ ਇੱਕ ਥੋਕ ਵਿਕਰੇਤਾ ਤੋਂ 36 ਪੈਨਾਂ ਦੇ ਅੰਕਿਤ ਮੁੱਲ 'ਤੇ 40 ਪੈਨ ਖਰੀਦਦਾ ਹੈ। ਜੇਕਰ ਉਹ ਇਹਨਾਂ ਪੈਨਾਂ ਨੂੰ 1% ਦੀ ਛੋਟ ਦੇ ਕੇ ਵੇਚਦਾ ਹੈ, ਤਾਂ ਲਾਭ ਪ੍ਰਤੀਸ਼ਤ ਕਿੰਨਾ ਹੋਵੇਗਾ?

Ans

✗ 1. 0.25%

✗ 2. 20%

✓ 3. 10%

✗ 4. 5%

Question ID : **630680108200**
Option 1 ID : **630680419865**
Option 2 ID : **630680419867**
Option 3 ID : **630680419864**
Option 4 ID : **630680419866**
Status : **Answered**
Chosen Option : **3**

Website - www.dailyjobalert.in

Q.72 $3.\overline{4}$ ਦੇ ਬਰਾਬਰ ਇੱਕ ਪਰਿਮੇਯ ਸੰਖਿਆ _____ ਹੈ।

Ans

✗ 1. $\frac{34}{10}$

✓ 2. $\frac{31}{9}$

✗ 3. $\frac{10}{34}$

✗ 4. $\frac{9}{31}$

Question ID : **630680103606**
Option 1 ID : **630680402667**
Option 2 ID : **630680402670**
Option 3 ID : **630680402668**
Option 4 ID : **630680402669**
Status : **Answered**
Chosen Option : **1**

Q.73 ਹੇਠਾਂ ਦਿੱਤੇ ਅੰਕੜੇ ਦਾ ਬਹੁਲਕ ਕਿੰਨਾ ਹੋਵੇਗਾ?:

9, 7, 18, 16, 9, 16, 27, 18, 33, 9, 7, 16, 21, 18, 15, 7, 9

Ans

✗ 1. 16

✓ 2. 9

✗ 3. 18

✗ 4. 7

Question ID : **630680151943**
Option 1 ID : **630680587818**
Option 2 ID : **630680587817**
Option 3 ID : **630680587816**
Option 4 ID : **630680587819**
Status : **Not Answered**
Chosen Option : **--**

DAILY JOB Alert ਪੰਜਾਬ

Q.74 ਇੱਕ ਡਰਾਈਵਰ ਨੇ ਇੱਕ ਦੂਜੇ ਤੋਂ 63 km ਦੂਰ ਦੋ ਸ਼ਹਿਰਾਂ ਵਿਚਕਾਰ 1 ਘੰਟਾ 45 ਮਿੰਟ ਵਿੱਚ ਸਫ਼ਰ ਕੀਤਾ। ਮੀਟਰ ਪ੍ਰਤੀ ਮਿੰਟ ਵਿੱਚ ਗਤੀ ਪਤਾ ਕਰੋ।

Ans
1. 600 km/min
2. 60 m/min
3. 560 m/min
4. 600 m/min ✔

Question ID : **63068078726**
Option 1 ID : **630680304945**
Option 2 ID : **630680304947**
Option 3 ID : **630680304948**
Option 4 ID : **630680304946**
Status : **Answered**
Chosen Option : **4**

Q.75 ਇੱਕ ਲੰਬ ਚੱਕਰੀ ਸ਼ੰਕੂ ਦਾ ਆਇਤਨ $240\pi\ cm^3$ ਹੈ ਅਤੇ ਇਸਦੀ ਉਚਾਈ 5 cm ਹੈ। ਇਸਦੀ ਤਿਰਛੀ ਉਚਾਈ ਕਿੰਨੀ ਹੋਵੇਗੀ?

Ans
1. 14 cm
2. 13 cm ✔
3. 11 cm
4. 18 cm

Question ID : **630680104058**
Option 1 ID : **630680404449**
Option 2 ID : **630680404447**
Option 3 ID : **630680404450**
Option 4 ID : **630680404448**
Status : **Not Answered**
Chosen Option : **--**

Q.76 ₹5,000 ਦੀ ਧਨਰਾਸ਼ੀ 3% ਸਾਲਾਨਾ ਦੀ ਦਰ ਨਾਲ ਸਧਾਰਨ ਵਿਆਜ 'ਤੇ ਨਿਵੇਸ਼ ਕੀਤੀ ਜਾਂਦੀ ਹੈ। 3 ਸਾਲਾਂ ਬਾਅਦ ਧਨਰਾਸ਼ੀ (₹ ਵਿੱਚ) ਕਿੰਨੀ ਹੋ ਜਾਵੇਗੀ?

Ans
1. 5250
2. 5450 ✔
3. 5400
4. 5200

Question ID : **630680222883**
Option 1 ID : **630680865292**
Option 2 ID : **630680865294**
Option 3 ID : **630680865293**
Option 4 ID : **630680865291**
Status : **Answered**
Chosen Option : **2**

Website - www.dailyjobalert.in

Q.77 9 ਦੇ ਤਿੰਨ ਲਗਾਤਾਰ ਗੁਣਜਾਂ ਦਾ ਜੋੜ 2457 ਹੈ। ਸਭ ਤੋਂ ਵੱਡੀ ਸੰਖਿਆ ਪਤਾ ਕਰੋ।

Ans
1. 819
2. 990
3. 828
4. 999

Question ID : **630680222900**
Option 1 ID : **630680865359**
Option 2 ID : **630680865362**
Option 3 ID : **630680865360**
Option 4 ID : **630680865361**
Status : **Answered**
Chosen Option : **4**

Q.78 6 m 30 cm ਦੀ ਉਚਾਈ ਵਾਲੇ ਲੰਬਕਾਰੀ ਖੰਭੇ ਦਾ 3 m 15 cm ਲੰਬਾ ਪਰਛਾਵਾਂ ਹੈ।
ਪਤਾ ਕਰੋ:
(i) 8 m 5 cm ਉੱਚੇ ਇੱਕ ਹੋਰ ਖੰਭੇ ਦੇ ਪਰਛਾਵੇਂ ਦੀ ਲੰਬਾਈ
(ii) ਇੱਕ ਖੰਭੇ ਦੀ ਉਚਾਈ ਜਿਸਦਾ ਪਰਛਾਵਾਂ 5m ਲੰਬਾ ਹੈ

Ans
1. 4 m, 8 m
2. 5.25 m, 9.5 m
3. 4.30 m, 9 m
4. 4.025 m, 10 m

Question ID : **630680116127**
Option 1 ID : **630680449838**
Option 2 ID : **630680449840**
Option 3 ID : **630680449841**
Option 4 ID : **630680449839**
Status : **Not Answered**
Chosen Option : **--**

Q.79 ਦੇਵੇਸ਼ ਨੂੰ ₹10,000 ਵਿੱਚ 20 ਬੈਗ ਵੇਚਣ 'ਤੇ 20% ਦੀ ਹਾਨੀ ਹੋਈ। ਹੁਣ, ਉਹੀ 20 ਵਸਤੂਆਂ 'ਤੇ 10% ਲਾਭ ਕਮਾਉਣ ਲਈ, ਉਹ ਉਨ੍ਹਾਂ ਨੂੰ P ਰੁਪਏ 'ਤੇ ਵੇਚਦਾ ਹੈ। P ਦਾ ਮੁੱਲ ਪਤਾ ਕਰੋ।

Ans
1. ₹13,000
2. ₹13,750
3. ₹12,500
4. ₹14,000

Question ID : **630680125152**
Option 1 ID : **630680485387**
Option 2 ID : **630680485388**
Option 3 ID : **630680485386**
Option 4 ID : **630680485389**
Status : **Answered**
Chosen Option : **2**

Website - www.dailyjobalert.in

Q.80 ਇੱਕ ਬੱਸ 24 km ਦੀ ਦੂਰੀ ਨੂੰ ਇਸ ਤਰੀਕੇ ਨਾਲ ਤੈਅ ਕਰਦੀ ਹੈ ਕਿ ਇਹ ਹਰ 6 km ਦੀ ਦੂਰੀ 'ਤੇ ਆਪਣੀ ਚਾਲ 25 km/h, 50 km/h, 75km/h ਅਤੇ 150 km/h ਵਿੱਚ ਬਦਲਦੀ ਹੈ। ਪੂਰੇ ਸਫ਼ਰ ਦੌਰਾਨ ਬੱਸ ਦੀ ਔਸਤ ਚਾਲ ਦਾ ਪਤਾ ਕਰੋ।

Ans
✗ 1. 100 km/h
✓ 2. 50 km/h
✗ 3. 75 km/h
✗ 4. 25 km/h

Question ID : **630680110230**
Option 1 ID : **630680427284**
Option 2 ID : **630680427286**
Option 3 ID : **630680427285**
Option 4 ID : **630680427283**
Status : **Answered**
Chosen Option : **2**

Section : **Punjabi Language**

Q.81 ਪੜਨਾਂਵ ਕਿੰਨੀ ਪ੍ਰਕਾਰ ਦੇ ਹੁੰਦੇ ਹਨ?

Ans
✗ 1. ਛੇ
✗ 2. ਚਾਰ
✗ 3. ਸੱਤ
✓ 4. ਪੰਜ

Question ID : **630680241161**
Option 1 ID : **630680935104**
Option 2 ID : **630680935103**
Option 3 ID : **630680935106**
Option 4 ID : **630680935105**
Status : **Answered**
Chosen Option : **1**

Q.82 ਅੰਗਰੇਜ਼ੀ ਵਾਕ ਦਾ ਅਨੁਵਾਦ ਕਰੋ।
Thank you for supporting me.

Ans
✗ 1. ਮੇਰਾ ਸਮਰਥਨ ਨਾ ਕਰਨ ਲਈ ਧੰਨਵਾਦ।
✗ 2. ਸਾਡਾ ਸਮਰਥਨ ਕਰਨ ਲਈ ਧੰਨਵਾਦ।
✓ 3. ਮੇਰਾ ਸਮਰਥਨ ਕਰਨ ਲਈ ਤੁਹਾਡਾ ਧੰਨਵਾਦ।
✗ 4. ਮੇਰਾ ਅਸਮਰਥਨ ਕਰਨ ਲਈ ਤੁਹਾਡਾ ਧੰਨਵਾਦ।

Question ID : **630680241164**
Option 1 ID : **630680935116**
Option 2 ID : **630680935118**
Option 3 ID : **630680935115**
Option 4 ID : **630680935117**
Status : **Answered**
Chosen Option : **3**

Website - www.dailyjobalert.in

Q.83 ਹੇਠ ਲਿਖਿਆਂ ਵਿੱਚੋਂ ਕਿਹੜਾ 'ਦੋਸਤੀ' ਸ਼ਬਦ ਦਾ ਸਮਾਨਾਰਥੀ ਸ਼ਬਦ ਨਹੀਂ ਹੈ:-

Ans
✗ 1. ਮਿੱਤਰਤਾ
✗ 2. ਯਾਰੀ
✓ 3. ਦੁਸ਼ਮਣੀ
✗ 4. ਸੱਜਣਤਾ

Question ID : **630680241156**
Option 1 ID : **630680935086**
Option 2 ID : **630680935083**
Option 3 ID : **630680935085**
Option 4 ID : **630680935084**
Status : **Answered**
Chosen Option : **3**

Q.84 'ਜੋ ਵਿਆਜ 'ਤੇ ਪੈਸੇ ਲਵੇ।' ਬਹੁਤੇ ਸ਼ਬਦਾਂ ਦੀ ਥਾਂ ਇਕ ਸ਼ਬਦ ਦੀ ਚੋਣ ਕਰੋ:-

Ans
✓ 1. ਸਾਮੀ
✗ 2. ਸ਼ਾਹ
✗ 3. ਸ਼ਾਮੀ
✗ 4. ਸਰਾਫ਼

Question ID : **630680241160**
Option 1 ID : **630680935099**
Option 2 ID : **630680935100**
Option 3 ID : **630680935101**
Option 4 ID : **630680935102**
Status : **Answered**
Chosen Option : **4**

Q.85 Expensive ਸ਼ਬਦ ਦਾ ਪੰਜਾਬੀ ਅਨੁਵਾਦ ਚੁਣੋ:-

Ans
✗ 1. ਵਿਸ਼ੇਸ
✗ 2. ਔਖਾ
✗ 3. ਸਸਤਾ
✓ 4. ਮਹਿੰਗਾ

Question ID : **630680241163**
Option 1 ID : **630680935114**
Option 2 ID : **630680935112**
Option 3 ID : **630680935111**
Option 4 ID : **630680935113**
Status : **Answered**
Chosen Option : **4**

Website - www.dailyjobalert.in

Q.86 'ਪਤਲਾ' ਸ਼ਬਦ ਦਾ ਵਿਰੋਧੀ ਸ਼ਬਦ ਚੁਣੋ;-

Ans
✗ 1. ਮਾੜਾ
✗ 2. ਕਮਜੋਰ
✗ 3. ਬਰੀਕ
✓ 4. ਮੋਟਾ

Question ID : **630680241157**
Option 1 ID : **630680935088**
Option 2 ID : **630680935089**
Option 3 ID : **630680935090**
Option 4 ID : **630680935087**
Status : **Answered**
Chosen Option : **4**

Q.87 'ਫੱਕਾ ਨਾ ਰਹਿਣਾ' ਦਾ _____ ਅਰਥ ਨਿਕਲਦਾ ਹੈ।

Ans
✗ 1. ਢੇਰੀ ਢਾਹੁਣੀ
✗ 2. ਹਿੰਮਤ ਨਾ ਹੋਣੀ
✗ 3. ਮੱਤ ਮਾਰੀ ਜਾਣੀ
✓ 4. ਇੱਜ਼ਤ ਨਾ ਰਹਿਣੀ

Question ID : **630680241170**
Option 1 ID : **630680935137**
Option 2 ID : **630680935136**
Option 3 ID : **630680935138**
Option 4 ID : **630680935135**
Status : **Answered**
Chosen Option : **4**

Q.88 'ਜਿਸਨੂੰ ਮੇਟਿਆ ਨਾ ਜਾ ਸਕੇ।' ਬਹੁਤੇ ਸ਼ਬਦਾਂ ਦੀ ਥਾਂ ਇਕ ਸ਼ਬਦ ਦੀ ਚੋਣ ਕਰੋ:-

Ans
✗ 1. ਮਿਟ
✗ 2. ਮਿੱਤ
✓ 3. ਅਮਿੱਟ
✗ 4. ਅਮਿੱਤ

Question ID : **630680241159**
Option 1 ID : **630680935095**
Option 2 ID : **630680935096**
Option 3 ID : **630680935097**
Option 4 ID : **630680935098**
Status : **Answered**
Chosen Option : **3**

Website - www.dailyjobalert.in

Q.89 ਹੇਠ ਲਿਖਿਆਂ ਵਿੱਚੋਂ ਕਿਹੜਾ ਸਮਾਨਾਰਥੀ ਸ਼ਬਦਾਂ ਦਾ ਜੁੱਟ ਨਹੀਂ ਹੈ;-

Ans
1. ✗ ਬਹਾਦਰ, ਵੀਰ ਤੇ ਦਲੇਰ
2. ✓ ਵੈਰ, ਪਿਆਰ ਤੇ ਸਨੇਹ
3. ✗ ਤਾਕਤ, ਜ਼ੋਰ ਤੇ ਬਲ
4. ✗ ਮੀਂਹ, ਬਾਰਿਸ਼ ਤੇ ਬਰਸਾਤ

Question ID : **630680241158**
Option 1 ID : **630680935092**
Option 2 ID : **630680935094**
Option 3 ID : **630680935091**
Option 4 ID : **630680935093**
Status : **Answered**
Chosen Option : **2**

Q.90 ਬਣਤਰ ਦੇ ਆਧਾਰ 'ਤੇ ਉਪਵਾਕ ਕਿੰਨੀ ਤਰ੍ਹਾਂ ਦੇ ਹੁੰਦੇ ਹਨ?

Ans
1. ✓ ਦੋ
2. ✗ ਇੱਕ
3. ✗ ਚਾਰ
4. ✗ ਤਿੰਨ

Question ID : **630680241151**
Option 1 ID : **630680935064**
Option 2 ID : **630680935063**
Option 3 ID : **630680935066**
Option 4 ID : **630680935065**
Status : **Not Answered**
Chosen Option : **--**

Q.91 ਹੇਠ ਲਿਖਿਆਂ ਵਿੱਚੋਂ ਸ਼ੁੱਧ ਜੁੱਟ ਦੀ ਚੋਣ ਕਰੋ:-

Ans
1. ✓ ਅਮੋੜ-ਅਲਬੇਲਾ
2. ✗ ਆਮੋੜ-ਅਲਬੇਲਾ
3. ✗ ਆਮੋਰ-ਅਲਬੇਲਾ
4. ✗ ਅਮੋੜ-ਆਲਬੇਲਾ

Question ID : **630680241155**
Option 1 ID : **630680935079**
Option 2 ID : **630680935082**
Option 3 ID : **630680935080**
Option 4 ID : **630680935081**
Status : **Answered**
Chosen Option : **1**

Website - www.dailyjobalert.in

Q.92 ਸ਼ਬਦ, ਵਾਕੰਸ਼ ਅਤੇ ਉਪਵਾਕ ਆਦਿ ਨੂੰ ਕਿਸ ਵਿਆਕਰਣਿਕ ਇਕਾਈ ਅਧੀਨ ਵਿਚਾਰਿਆ ਜਾਂਦਾ ਹੈ?

Ans
✗ 1. ਸ਼ਬਦ-ਬੋਧ
✓ 2. ਵਾਕ-ਬੋਧ
✗ 3. ਅੱਖਰ-ਬੋਧ
✗ 4. ਧੁਨੀ ਬੋਧ

Question ID : **630680241152**
Option 1 ID : **630680935068**
Option 2 ID : **630680935070**
Option 3 ID : **630680935067**
Option 4 ID : **630680935069**
Status : **Answered**
Chosen Option : **2**

Q.93 ਗੁਰਜੀਤ ਵਧੀਆ ਐਥਲੀਟ ਹੈ।

ਉਪਰੋਕਤ ਵਾਕ ਵਿੱਚੋਂ ਵਿਸ਼ੇਸ਼ਣ ਦੀ ਚੋਣ ਕਰੋ:-

Ans
✗ 1. ਗੁਰਜੀਤ
✗ 2. ਵਧੀਆਂ ਐਥਲੀਟ
✓ 3. ਵਧੀਆ
✗ 4. ਐਥਲੀਟ

Question ID : **630680241153**
Option 1 ID : **630680935073**
Option 2 ID : **630680935074**
Option 3 ID : **630680935071**
Option 4 ID : **630680935072**
Status : **Answered**
Chosen Option : **3**

Q.94 'ਸ੍ਰੀ ਅੰਮ੍ਰਿਤਸਰ' ਨਾਂਵ ਦੀ ਕਿਸਮ ਹੈ:-

Ans
✗ 1. ਆਮ-ਨਾਂਵ
✗ 2. ਵਸਤੁਵਾਚਕ ਨਾਂਵ
✗ 3. ਇਕੱਠਵਾਚਕ-ਨਾਂਵ
✓ 4. ਖਾਸ-ਨਾਂਵ

Question ID : **630680241162**
Option 1 ID : **630680935108**
Option 2 ID : **630680935110**
Option 3 ID : **630680935109**
Option 4 ID : **630680935107**
Status : **Answered**
Chosen Option : **4**

Website - www.dailyjobalert.in

Q.95 ਹੇਠ ਲਿਖਿਆ ਵਿੱਚੋਂ ਸ਼ੁੱਧ ਸ਼ਬਦ ਦੀ ਚੋਣ ਕਰੋ:-

Ans
✗ 1. ਅਣਖਿਲਾ
✓ 2. ਅਣਖੀਲਾ
✗ 3. ਅਨਖੀਲਾ
✗ 4. ਆਣਖੀਲਾ

Question ID : **630680241154**
Option 1 ID : **630680935077**
Option 2 ID : **630680935075**
Option 3 ID : **630680935076**
Option 4 ID : **630680935078**
Status : **Answered**
Chosen Option : **2**

Q.96 ਵਾਹ ! ਕਿੰਨਾ ਸੋਹਣਾ ਫੁੱਲ ਹੈ।

ਉਪਰੋਕਤ ਵਾਕ ਕਿਸ ਸ਼੍ਰੇਣੀ ਨਾਲ ਸੰਬੰਧਿਤ ਹੈ?

Ans
✓ 1. ਵਿਸਮਿਕ-ਵਾਕ
✗ 2. ਪ੍ਰਸ਼ਨ-ਵਾਚਕ ਵਾਕ
✗ 3. ਸਧਾਰਨ-ਵਾਕ
✗ 4. ਆਗਿਆ-ਵਾਚਕ ਵਾਕ

Question ID : **630680241150**
Option 1 ID : **630680935060**
Option 2 ID : **630680935059**
Option 3 ID : **630680935061**
Option 4 ID : **630680935062**
Status : **Answered**
Chosen Option : **1**

DAILY JOB Alert

Comprehension:

ਸੁੰਦਰਤਾ ਉਹ ਹੈ ਜਿਸਦੀ ਸੌਂਕਣ ਵੀ ਸਿਫ਼ਤ ਕਰੇ। ਸੁੰਦਰਤਾ ਪਰਮਾਤਮਾ ਦੀ ਮੁਸਕਰਾਹਟ ਹੈ। ਖੂਬਸੂਰਤੀ ਕਿਸੇ ਦੀਆਂ ਅੱਖਾਂ ਜਾਂ ਬੁੱਲ੍ਹਾਂ ਜਾਂ ਦੰਦਾਂ ਵਿਚ ਨਹੀਂ ਹੁੰਦੀ, ਇਹ ਪੂਰੇ ਸਰੀਰ ਦੇ ਸੁਮੇਲ ਵਿਚ ਹੁੰਦੀ ਹੈ। ਜਿਵੇਂ ਚੰਦਰਮਾ ਸੂਰਜ ਕਾਰਨ ਖੂਬਸੂਰਤ ਹੈ, ਤਾਰੇ ਰਾਤ ਕਾਰਨ ਸੋਹਣੇ ਲਗਦੇ ਹਨ, ਇਵੇਂ ਹੀ ਕਿਸੇ ਸੁੰਦਰੀ ਦੇ ਚਿਹਰੇ ਉਤੇ ਬਿੰਦੀ ਇਸ ਕਰਕੇ ਸੁੰਦਰ ਲਗਦੀ ਹੈ ਕਿਉਂਕਿ ਬਿੰਦੀ ਦੇ ਪਿੱਛੇ ਮੱਥਾ ਸੋਹਣਾ ਹੁੰਦਾ ਹੈ। ਕਿਸੇ ਵਸਤੂ ਦਾ ਖੂਬਸੂਰਤ ਹੋਣਾ ਸਾਡੀਆਂ ਅੱਖਾਂ ਉਤੇ ਨਿਰਭਰ ਕਰਦਾ ਹੈ। ਸਾਡੀਆਂ ਅੱਖਾਂ ਕਿਸੇ ਦੀ ਖੂਬਸੂਰਤੀ ਦਾ ਪਹਿਲਾ ਅਤੇ ਅੰਤਮ ਫੈਸਲਾ ਦਿੰਦੀਆਂ ਹਨ। ਜਿਹੜਾ ਸਾਡੀਆਂ ਅੱਖਾਂ ਨੂੰ ਨਹੀਂ ਜਚਦਾ, ਉਸ ਨਾਲ ਪਿਆਰ ਕਰਨ ਦੀ ਸੰਭਾਵਨਾ ਨਹੀਂ ਹੁੰਦੀ। ਸਰੀਰਿਕ ਸੁੰਦਰਤਾ ਅਤੇ ਆਵਾਜ਼ ਕਿਸੇ ਦੀ ਸੁੰਦਰਤਾ ਦੇ ਪਹਿਲੇ ਦੋ ਪੜਾਅ ਹਨ। ਖੂਬਸੂਰਤੀ ਉਹ ਨਹੀਂ ਜਿਸ ਦੇ ਸਾਹਮਣੇ ਅਸੀਂ ਹੀਣੇ ਅਨੁਭਵ ਕਰੀਏ ਸਗੋਂ ਖੂਬਸੂਰਤੀ ਉਹ ਹੈ ਜਿਸ ਦੀ ਹਾਜ਼ਰੀ ਵਿਚ ਸਾਨੂੰ ਆਪਣਾ ਆਪ ਚੰਗਾ ਲੱਗੇ। ਸੁੰਦਰਤਾ ਜਾਂ ਖੂਬਸੂਰਤੀ ਉਹ ਹੈ ਕਿ ਜਿਸ ਦੀ ਸੇਵਾ ਵਿਚ ਮਨੁੱਖ ਤਨ, ਮਨ, ਧਨ ਲਗਾ ਦੇਵੇ।

SubQuestion No : 97

Q.97 ਉਪਰੋਕਤ ਪੈਰ੍ਹੇ ਦਾ ਕੇਂਦਰੀ ਥੀਮ ਕੀ ਹੈ?

Ans
- ✔ 1. ਸੁੰਦਰਤਾ
- ✘ 2. ਮੁਹੱਬਤ
- ✘ 3. ਕਰੂਰਤਾ
- ✘ 4. ਨਫ਼ਰਤ

Question ID : **630680241166**
Option 1 ID : **630680935119**
Option 2 ID : **630680935120**
Option 3 ID : **630680935121**
Option 4 ID : **630680935122**
Status : **Answered**
Chosen Option : **1**

Comprehension:

ਸੁੰਦਰਤਾ ਉਹ ਹੈ ਜਿਸਦੀ ਸੌਂਕਣ ਵੀ ਸਿਫ਼ਤ ਕਰੇ। ਸੁੰਦਰਤਾ ਪਰਮਾਤਮਾ ਦੀ ਮੁਸਕਰਾਹਟ ਹੈ। ਖੂਬਸੂਰਤੀ ਕਿਸੇ ਦੀਆਂ ਅੱਖਾਂ ਜਾਂ ਬੁੱਲ੍ਹਾਂ ਜਾਂ ਦੰਦਾਂ ਵਿਚ ਨਹੀਂ ਹੁੰਦੀ, ਇਹ ਪੂਰੇ ਸਰੀਰ ਦੇ ਸੁਮੇਲ ਵਿਚ ਹੁੰਦੀ ਹੈ। ਜਿਵੇਂ ਚੰਦਰਮਾ ਸੂਰਜ ਕਾਰਨ ਖੂਬਸੂਰਤ ਹੈ, ਤਾਰੇ ਰਾਤ ਕਾਰਨ ਸੋਹਣੇ ਲਗਦੇ ਹਨ, ਇਵੇਂ ਹੀ ਕਿਸੇ ਸੁੰਦਰੀ ਦੇ ਚਿਹਰੇ ਉਤੇ ਬਿੰਦੀ ਇਸ ਕਰਕੇ ਸੁੰਦਰ ਲਗਦੀ ਹੈ ਕਿਉਂਕਿ ਬਿੰਦੀ ਦੇ ਪਿੱਛੇ ਮੱਥਾ ਸੋਹਣਾ ਹੁੰਦਾ ਹੈ। ਕਿਸੇ ਵਸਤੂ ਦਾ ਖੂਬਸੂਰਤ ਹੋਣਾ ਸਾਡੀਆਂ ਅੱਖਾਂ ਉਤੇ ਨਿਰਭਰ ਕਰਦਾ ਹੈ। ਸਾਡੀਆਂ ਅੱਖਾਂ ਕਿਸੇ ਦੀ ਖੂਬਸੂਰਤੀ ਦਾ ਪਹਿਲਾ ਅਤੇ ਅੰਤਮ ਫੈਸਲਾ ਦਿੰਦੀਆਂ ਹਨ। ਜਿਹੜਾ ਸਾਡੀਆਂ ਅੱਖਾਂ ਨੂੰ ਨਹੀਂ ਜਚਦਾ, ਉਸ ਨਾਲ ਪਿਆਰ ਕਰਨ ਦੀ ਸੰਭਾਵਨਾ ਨਹੀਂ ਹੁੰਦੀ। ਸਰੀਰਿਕ ਸੁੰਦਰਤਾ ਅਤੇ ਆਵਾਜ਼ ਕਿਸੇ ਦੀ ਸੁੰਦਰਤਾ ਦੇ ਪਹਿਲੇ ਦੋ ਪੜਾਅ ਹਨ। ਖੂਬਸੂਰਤੀ ਉਹ ਨਹੀਂ ਜਿਸ ਦੇ ਸਾਹਮਣੇ ਅਸੀਂ ਹੀਣੇ ਅਨੁਭਵ ਕਰੀਏ ਸਗੋਂ ਖੂਬਸੂਰਤੀ ਉਹ ਹੈ ਜਿਸ ਦੀ ਹਾਜ਼ਰੀ ਵਿਚ ਸਾਨੂੰ ਆਪਣਾ ਆਪ ਚੰਗਾ ਲੱਗੇ। ਸੁੰਦਰਤਾ ਜਾਂ ਖੂਬਸੂਰਤੀ ਉਹ ਹੈ ਕਿ ਜਿਸ ਦੀ ਸੇਵਾ ਵਿਚ ਮਨੁੱਖ ਤਨ, ਮਨ, ਧਨ ਲਗਾ ਦੇਵੇ।

SubQuestion No : 98

Q.98 ਸੁੰਦਰਤਾ ਦੇ ਪਹਿਲੇ ਦੋ ਪੜਾਅ ਕਿਹੜੇ ਹਨ।

Ans
- ✘ 1. ਹੱਸਣਾ ਤੇ ਸੋਚਣਾ
- ✘ 2. ਅੱਖ-ਨੱਕ
- ✘ 3. ਆਵਾਜ਼ ਤੇ ਹਸਣਾ
- ✔ 4. ਸਰੀਰ ਤੇ ਆਵਾਜ਼

Question ID : **630680241169**
Option 1 ID : **630680935134**
Option 2 ID : **630680935131**
Option 3 ID : **630680935133**
Option 4 ID : **630680935132**
Status : **Answered**
Chosen Option : **4**

Website - www.dailyjobalert.in

Comprehension:

ਸੁੰਦਰਤਾ ਉਹ ਹੈ ਜਿਸਦੀ ਸੌਂਕਣ ਵੀ ਸਿਫ਼ਤ ਕਰੇ। ਸੁੰਦਰਤਾ ਪਰਮਾਤਮਾ ਦੀ ਮੁਸਕਰਾਹਟ ਹੈ। ਖੂਬਸੂਰਤੀ ਕਿਸੇ ਦੀਆਂ ਅੱਖਾਂ ਜਾਂ ਬੁੱਲ੍ਹਾਂ ਜਾਂ ਦੰਦਾਂ ਵਿਚ ਨਹੀਂ ਹੁੰਦੀ, ਇਹ ਪੂਰੇ ਸਰੀਰ ਦੇ ਸੁਮੇਲ ਵਿਚ ਹੁੰਦੀ ਹੈ। ਜਿਵੇਂ ਚੰਦਰਮਾ ਸੂਰਜ ਕਾਰਨ ਖੂਬਸੂਰਤ ਹੈ, ਤਾਰੇ ਰਾਤ ਕਾਰਨ ਸੋਹਣੇ ਲਗਦੇ ਹਨ, ਇਵੇਂ ਹੀ ਕਿਸੇ ਸੁੰਦਰੀ ਦੇ ਚਿਹਰੇ ਉਤੇ ਬਿੰਦੀ ਇਸ ਕਰਕੇ ਸੁੰਦਰ ਲਗਦੀ ਹੈ ਕਿਉਂਕਿ ਬਿੰਦੀ ਦੇ ਪਿੱਛੇ ਮੱਥਾ ਸੋਹਣਾ ਹੁੰਦਾ ਹੈ। ਕਿਸੇ ਵਸਤੂ ਦਾ ਖੂਬਸੂਰਤ ਹੋਣਾ ਸਾਡੀਆਂ ਅੱਖਾਂ ਉਤੇ ਨਿਰਭਰ ਕਰਦਾ ਹੈ। ਸਾਡੀਆਂ ਅੱਖਾਂ ਕਿਸੇ ਦੀ ਖੂਬਸੂਰਤੀ ਦਾ ਪਹਿਲਾ ਅਤੇ ਅੰਤਮ ਫੈਸਲਾ ਦਿੰਦੀਆਂ ਹਨ। ਜਿਹੜਾ ਸਾਡੀਆਂ ਅੱਖਾਂ ਨੂੰ ਨਹੀਂ ਜਚਦਾ, ਉਸ ਨਾਲ ਪਿਆਰ ਕਰਨ ਦੀ ਸੰਭਾਵਨਾ ਨਹੀਂ ਹੁੰਦੀ। ਸਰੀਰਿਕ ਸੁੰਦਰਤਾ ਅਤੇ ਆਵਾਜ਼ ਕਿਸੇ ਦੀ ਸੁੰਦਰਤਾ ਦੇ ਪਹਿਲੇ ਦੋ ਪੜਾਅ ਹਨ। ਖੂਬਸੂਰਤੀ ਉਹ ਨਹੀਂ ਜਿਸ ਦੇ ਸਾਹਮਣੇ ਅਸੀਂ ਹੀਣੇ ਅਨੁਭਵ ਕਰੀਏ ਸਗੋਂ ਖੂਬਸੂਰਤੀ ਉਹ ਹੈ ਜਿਸ ਦੀ ਹਾਜ਼ਰੀ ਵਿਚ ਸਾਨੂੰ ਆਪਣਾ ਆਪ ਚੰਗਾ ਲੱਗੇ। ਸੁੰਦਰਤਾ ਜਾਂ ਖੂਬਸੂਰਤੀ ਉਹ ਹੈ ਕਿ ਜਿਸ ਦੀ ਸੇਵਾ ਵਿਚ ਮਨੁੱਖ ਤਨ, ਮਨ, ਧਨ ਲਗਾ ਦੇਵੇ।

SubQuestion No : 99

Q.99 ਖੂਬਸੂਰਤੀ ਦਾ ਅਨੁਭਵ ਕਿਹੋ ਜਿਹਾ ਹੁੰਦਾ ਹੈ?

Ans

✗ 1. ਸਾੜਾ ਹੁੰਦਾ ਹੈ

✗ 2. ਦੇਖ ਕੇ ਆਪ ਵੀ ਉਸ ਤਰਾਂ ਬਣਨ ਦਾ ਦਿਲ ਕਰਦਾ ਹੈ

✓ 3. ਦੇਖਣ ਵਾਲੇ ਨੂੰ ਵੀ ਆਪਣਾ ਆਪ ਚੰਗਾ ਲਗਦਾ ਹੈ

✗ 4. ਨਸ਼ਾ ਚੜ੍ਹਦਾ ਹੈ

Question ID : **630680241168**
Option 1 ID : **630680935128**
Option 2 ID : **630680935127**
Option 3 ID : **630680935129**
Option 4 ID : **630680935130**
Status : **Answered**
Chosen Option : **3**

Comprehension:

ਸੁੰਦਰਤਾ ਉਹ ਹੈ ਜਿਸਦੀ ਸੌਂਕਣ ਵੀ ਸਿਫ਼ਤ ਕਰੇ। ਸੁੰਦਰਤਾ ਪਰਮਾਤਮਾ ਦੀ ਮੁਸਕਰਾਹਟ ਹੈ। ਖੂਬਸੂਰਤੀ ਕਿਸੇ ਦੀਆਂ ਅੱਖਾਂ ਜਾਂ ਬੁੱਲ੍ਹਾਂ ਜਾਂ ਦੰਦਾਂ ਵਿਚ ਨਹੀਂ ਹੁੰਦੀ, ਇਹ ਪੂਰੇ ਸਰੀਰ ਦੇ ਸੁਮੇਲ ਵਿਚ ਹੁੰਦੀ ਹੈ। ਜਿਵੇਂ ਚੰਦਰਮਾ ਸੂਰਜ ਕਾਰਨ ਖੂਬਸੂਰਤ ਹੈ, ਤਾਰੇ ਰਾਤ ਕਾਰਨ ਸੋਹਣੇ ਲਗਦੇ ਹਨ, ਇਵੇਂ ਹੀ ਕਿਸੇ ਸੁੰਦਰੀ ਦੇ ਚਿਹਰੇ ਉਤੇ ਬਿੰਦੀ ਇਸ ਕਰਕੇ ਸੁੰਦਰ ਲਗਦੀ ਹੈ ਕਿਉਂਕਿ ਬਿੰਦੀ ਦੇ ਪਿੱਛੇ ਮੱਥਾ ਸੋਹਣਾ ਹੁੰਦਾ ਹੈ। ਕਿਸੇ ਵਸਤੂ ਦਾ ਖੂਬਸੂਰਤ ਹੋਣਾ ਸਾਡੀਆਂ ਅੱਖਾਂ ਉਤੇ ਨਿਰਭਰ ਕਰਦਾ ਹੈ। ਸਾਡੀਆਂ ਅੱਖਾਂ ਕਿਸੇ ਦੀ ਖੂਬਸੂਰਤੀ ਦਾ ਪਹਿਲਾ ਅਤੇ ਅੰਤਮ ਫੈਸਲਾ ਦਿੰਦੀਆਂ ਹਨ। ਜਿਹੜਾ ਸਾਡੀਆਂ ਅੱਖਾਂ ਨੂੰ ਨਹੀਂ ਜਚਦਾ, ਉਸ ਨਾਲ ਪਿਆਰ ਕਰਨ ਦੀ ਸੰਭਾਵਨਾ ਨਹੀਂ ਹੁੰਦੀ। ਸਰੀਰਿਕ ਸੁੰਦਰਤਾ ਅਤੇ ਆਵਾਜ਼ ਕਿਸੇ ਦੀ ਸੁੰਦਰਤਾ ਦੇ ਪਹਿਲੇ ਦੋ ਪੜਾਅ ਹਨ। ਖੂਬਸੂਰਤੀ ਉਹ ਨਹੀਂ ਜਿਸ ਦੇ ਸਾਹਮਣੇ ਅਸੀਂ ਹੀਣੇ ਅਨੁਭਵ ਕਰੀਏ ਸਗੋਂ ਖੂਬਸੂਰਤੀ ਉਹ ਹੈ ਜਿਸ ਦੀ ਹਾਜ਼ਰੀ ਵਿਚ ਸਾਨੂੰ ਆਪਣਾ ਆਪ ਚੰਗਾ ਲੱਗੇ। ਸੁੰਦਰਤਾ ਜਾਂ ਖੂਬਸੂਰਤੀ ਉਹ ਹੈ ਕਿ ਜਿਸ ਦੀ ਸੇਵਾ ਵਿਚ ਮਨੁੱਖ ਤਨ, ਮਨ, ਧਨ ਲਗਾ ਦੇਵੇ।

SubQuestion No : 100

Q.100 ਕਿਸੇ ਦੀ ਖੂਬਸੂਰਤੀ ਕਿਸ 'ਤੇ ਨਿਰਭਰ ਕਰਦੀ ਹੈ?

Ans

✗ 1. ਤਨ ਮਨ ਧਨ ਵਿੱਚ

✗ 2. ਸੇਵਾ ਵਿੱਚ

✓ 3. ਦੇਖਣ ਵਾਲੀ ਦੀ ਅੱਖ 'ਤੇ

✗ 4. ਮੂੰਹ ਮੱਥੇ 'ਤੇ

Question ID : **630680241167**
Option 1 ID : **630680935125**
Option 2 ID : **630680935124**
Option 3 ID : **630680935126**
Option 4 ID : **630680935123**
Status : **Answered**
Chosen Option : **3**

Website - www.dailyjobalert.in

PUNJAB POLICE

Police to its last particle is duty

Exam Name	Recruitment for the post of Sub Inspector in Cadres of District and Armed Police 20th Jun to 31st Jul 2023 Paper I
Application No	www.dailyjobalert.in
Roll No	Telegram - Daily Job Alert Punjab
Applicant Name	instagram - Daily Job Alert Punjab
Exam Date	02/07/2023
Shift	12:30 PM - 2:30 PM
Subject	Sub Inspector Paper I

Section : **General Awareness**

Q.1 **_____ land holdings further increased during the Gupta and post-Gupta period through the institution of Brahmadeya and Agrahara grants.**

Ans
✔ 1. Brahmana
✘ 2. Vaishya
✘ 3. Shudra
✘ 4. Khastriya

Question ID : **63068052296**
Option 1 ID : **630680201289**
Option 2 ID : **630680201287**
Option 3 ID : **630680201286**
Option 4 ID : **630680201288**
Status : **Answered**
Chosen Option : **1**

Q.2 **Which among of the following is the official language of Sri Lanka?**

Ans
✘ 1. Malayalam
✘ 2. Telugu
✔ 3. Sinhala
✘ 4. English

Question ID : **63068087963**
Option 1 ID : **630680341238**
Option 2 ID : **630680341237**
Option 3 ID : **630680341239**
Option 4 ID : **630680341240**
Status : **Answered**
Chosen Option : **1**

Website - www.dailyjobalert.in

Q.3 **Which of the following British Viceroys in India carried out the division of Bengal in 1905?**

Ans
- ✗ 1. Lord Mountbatten
- ✓ 2. Lord Curzon
- ✗ 3. Lord Chelmsford
- ✗ 4. Lord Canning

Question ID : **630680160034**
Option 1 ID : **630680619522**
Option 2 ID : **630680619520**
Option 3 ID : **630680619523**
Option 4 ID : **630680619521**
Status : **Answered**
Chosen Option : **2**

Q.4 **_____, born on April 14, 1907, lived in Almora district of Uttarakhand and pursued his education from Allahabad University.**

Ans
- ✗ 1. Meenu Masani
- ✗ 2. Jayaprakash Narayan
- ✗ 3. Acharya Narendra Dev
- ✓ 4. PC Joshi

Question ID : **630680146021**
Option 1 ID : **630680564984**
Option 2 ID : **630680564982**
Option 3 ID : **630680564983**
Option 4 ID : **630680564985**
Status : **Answered**
Chosen Option : **2**

Q.5 When did the Government of India enact the Sexual Harassment of Women at Workplace Act?

Ans
- ✗ 1. 2011
- ✓ 2. 2013
- ✗ 3. 2009
- ✗ 4. 2015

Question ID : **630680238387**
Option 1 ID : **630680924566**
Option 2 ID : **630680924567**
Option 3 ID : **630680924564**
Option 4 ID : **630680924565**
Status : **Answered**
Chosen Option : **4**

DAILY JOB Alert ਪੰਜਾਬ

Q.6 Kerala is primarily famous for which of the following forms of dance?

Ans
✗ 1. Kuchipudi
✓ 2. Kathakali
✗ 3. Bharatnatyam
✗ 4. Kathak

Question ID : **63068087341**
Option 1 ID : **630680338753**
Option 2 ID : **630680338755**
Option 3 ID : **630680338754**
Option 4 ID : **630680338756**
Status : **Answered**
Chosen Option : **2**

Q.7 In which of the following states is the English and Foreign Languages University located?

Ans
✗ 1. Tamil Nadu
✗ 2. Maharashtra
✗ 3. Kerala
✓ 4. Telangana

Question ID : **63068078076**
Option 1 ID : **630680302368**
Option 2 ID : **630680302366**
Option 3 ID : **630680302367**
Option 4 ID : **630680302365**
Status : **Answered**
Chosen Option : **3**

Q.8 Every year on _____, Martyr's Fair is held across Punjab to pay homage to the martyrs, Shaheed Bhagat Singh, Rajguru and Sukhdev.

Ans
✗ 1. 20th March
✗ 2. 22nd March
✗ 3. 21st March
✓ 4. 23rd March

Question ID : **630680238473**
Option 1 ID : **630680924908**
Option 2 ID : **630680924910**
Option 3 ID : **630680924909**
Option 4 ID : **630680924911**
Status : **Answered**
Chosen Option : **4**

Website - www.dailyjobalert.in

Q.9 What is the yearly premium for the 'Anganwadi Worker Karya Karti Bima Yojana', launched by the Government of Punjab?

Ans
✗ 1. ₹400
✗ 2. ₹500
✓ 3. ₹200
✗ 4. ₹300

Question ID : **630680238367**
Option 1 ID : **630680924486**
Option 2 ID : **630680924487**
Option 3 ID : **630680924485**
Option 4 ID : **630680924484**
Status : **Answered**
Chosen Option : **2**

Q.10 In which year was Project Elephant launched by the Ministry of Environment and Forests of the Government of India?

Ans
✗ 1. 1989
✓ 2. 1992
✗ 3. 1991
✗ 4. 1990

Question ID : **630680115712**
Option 1 ID : **630680448186**
Option 2 ID : **630680448189**
Option 3 ID : **630680448188**
Option 4 ID : **630680448187**
Status : **Answered**
Chosen Option : **2**

Q.11 Shamsher Khan's tomb, a historical monument of Punjab, is located in which district?

Ans
✗ 1. Patiala
✓ 2. Gurdaspur
✗ 3. Pathankot
✗ 4. Ropar

Question ID : **630680238592**
Option 1 ID : **630680925384**
Option 2 ID : **630680925387**
Option 3 ID : **630680925386**
Option 4 ID : **630680925385**
Status : **Answered**
Chosen Option : **4**

Website - www.dailyjobalert.in

Q.12 Mukteshwar Mahadev Temple is located in which of the following districts of Punjab?

Ans

✔ 1. Pathankot

✘ 2. Bathinda

✘ 3. Firozpur

✘ 4. Barnala

Question ID : **630680238509**
Option 1 ID : **630680925055**
Option 2 ID : **630680925053**
Option 3 ID : **630680925052**
Option 4 ID : **630680925054**
Status : **Answered**
Chosen Option : **1**

Q.13 Who among the following was the Commander-in-Chief of British forces during the 2nd Anglo-Sikh War?

Ans

✘ 1. Lord Mayo

✘ 2. Sir Reginald Dyer

✘ 3. Michael O'Dwyer

✔ 4. General Sir Hugh Gough

Question ID : **630680238402**
Option 1 ID : **630680924627**
Option 2 ID : **630680924626**
Option 3 ID : **630680924625**
Option 4 ID : **630680924624**
Status : **Answered**
Chosen Option : **4**

Q.14 What do you call the approach that involves the formula, 'Every person should be given an exactly equal share of societies' benefits and burdens'?

Ans

✔ 1. Egalitarianism approach

✘ 2. Asceticism approach

✘ 3. Kohlberg's approach

✘ 4. Libertarianism approach

Question ID : **630680238349**
Option 1 ID : **630680924413**
Option 2 ID : **630680924414**
Option 3 ID : **630680924412**
Option 4 ID : **630680924415**
Status : **Answered**
Chosen Option : **4**

Website - www.dailyjobalert.in

Q.15 Every year 'Shaheedi Jor Mela' is held at Fatehgarh Sahib to pay homage to the martyrdom of _____.

Ans

✗ 1. Guru Teg Bahadur Ji

✗ 2. Elder sons of Guru Gobind Singh Ji

✗ 3. Guru Gobind Singh Ji

✓ 4. Youngest sons of Guru Gobind Singh Ji

Question ID : **630680238447**
Option 1 ID : **630680924805**
Option 2 ID : **630680924806**
Option 3 ID : **630680924804**
Option 4 ID : **630680924807**
Status : **Answered**
Chosen Option : **4**

Q.16 In India what is the minimum eligible age qualification for a member of the State Legislative Council?

Ans

✗ 1. 35 years

✗ 2. 28 years

✗ 3. 25 years

✓ 4. 30 years

Question ID : **630680100480**
Option 1 ID : **630680390619**
Option 2 ID : **630680390617**
Option 3 ID : **630680390616**
Option 4 ID : **630680390618**
Status : **Answered**
Chosen Option : **3**

Q.17 In context of State Legislative Assembly of an Indian State, who has the power to adjourn the House or suspend the meeting in absence of quorum?

Ans

✓ 1. Speaker

✗ 2. Chief Minister

✗ 3. Governor

✗ 4. President

Question ID : **630680114563**
Option 1 ID : **630680443621**
Option 2 ID : **630680443620**
Option 3 ID : **630680443619**
Option 4 ID : **630680443618**
Status : **Answered**
Chosen Option : **3**

Website - www.dailyjobalert.in

Q.18 **Who among the following was one of the finest dancers of both Bharatanatyam and Kathakali?**

Ans
✔ 1. Mrinalini Sarabhai
✘ 2. Sonal Mansingh
✘ 3. Shovana Narayan
✘ 4. Rukmini Devi Arundale

Question ID : **63068083343**
Option 1 ID : **630680323222**
Option 2 ID : **630680323220**
Option 3 ID : **630680323221**
Option 4 ID : **630680323223**
Status : **Answered**
Chosen Option : **1**

Q.19 Moti Bagh Palace, located at Patiala has been designed on the pattern of _____.

Ans
✘ 1. Kew Gardens, London
✘ 2. Mughal Gardens, New Delhi
✘ 3. Alhambra Palace and Gardens, Spain
✔ 4. Shalimar Gardens, Lahore

Question ID : **630680238458**
Option 1 ID : **630680924848**
Option 2 ID : **630680924849**
Option 3 ID : **630680924851**
Option 4 ID : **630680924850**
Status : **Answered**
Chosen Option : **1**

Q.20 **The Nilgiri Hills form a part of which of the following?**

Ans
✘ 1. The Malabar Region
✘ 2. Andaman and Nicobar
✔ 3. The Western Ghats
✘ 4. The Indus Plains

Question ID : **630680115193**
Option 1 ID : **630680446139**
Option 2 ID : **630680446140**
Option 3 ID : **630680446138**
Option 4 ID : **630680446141**
Status : **Answered**
Chosen Option : **3**

Website - www.dailyjobalert.in

Q.21 **What causes skin cancer in humans and also lowers production of phytoplankton, thereby affecting other aquatic organisms?**

Ans
- ✗ 1. Acid rain
- ✗ 2. Ozone gas
- ✗ 3. Greenhouse gases
- ✓ 4. UV radiation

Question ID : **63068078603**
Option 1 ID : **630680304462**
Option 2 ID : **630680304461**
Option 3 ID : **630680304463**
Option 4 ID : **630680304464**
Status : **Answered**
Chosen Option : **2**

Q.22 Baba Pokhar is known to be associated with which style of Jhumar?

Ans
- ✗ 1. Sindhu Jhumar
- ✓ 2. Ravi Jhumar
- ✗ 3. Multani Jhumar
- ✗ 4. Chenab Jhumar

Question ID : **630680238464**
Option 1 ID : **630680924874**
Option 2 ID : **630680924873**
Option 3 ID : **630680924872**
Option 4 ID : **630680924875**
Status : **Answered**
Chosen Option : **3**

Q.23 **Where can you find nitrogen fixing bacteria?**

Ans
- ✗ 1. In the leaves of legumes
- ✗ 2. In the leaves of bamboo
- ✓ 3. In the root nodules of legumes
- ✗ 4. In the roots of bamboo

Question ID : **63068049666**
Option 1 ID : **630680191094**
Option 2 ID : **630680191096**
Option 3 ID : **630680191097**
Option 4 ID : **630680191095**
Status : **Answered**
Chosen Option : **2**

DAILY JOB ALERT ਪੰਜਾਬ

Q.24 During first phase of Green Revolution implementation of the new agricultural strategy is more successful in the state of _____.

Ans
✔ 1. Punjab
✘ 2. Rajasthan
✘ 3. Tamil Nadu
✘ 4. Karnataka

Question ID : **63068050595**
Option 1 ID : **630680194694**
Option 2 ID : **630680194696**
Option 3 ID : **630680194697**
Option 4 ID : **630680194695**
Status : **Answered**
Chosen Option : **1**

Q.25 ISRO had launched _____ OneWeb satellites in first commercial launch for LVM-3 from Sriharikota in October 2022.

Ans
✘ 1. 29
✘ 2. 12
✔ 3. 36
✘ 4. 47

Question ID : **630680200217**
Option 1 ID : **630680776293**
Option 2 ID : **630680776292**
Option 3 ID : **630680776294**
Option 4 ID : **630680776295**
Status : **Answered**
Chosen Option : **1**

Q.26 During the sixth BRICS summit in Fortaleza (2014), the leaders signed an agreement establishing the_____ .

Ans
✘ 1. New Investment Bank
✘ 2. Asian Development Bank
✔ 3. New Development Bank
✘ 4. Asian Investment Board

Question ID : **63068056724**
Option 1 ID : **630680218832**
Option 2 ID : **630680218831**
Option 3 ID : **630680218830**
Option 4 ID : **630680218833**
Status : **Answered**
Chosen Option : **2**

Website - www.dailyjobalert.in

Q.27 The Aam Aadmi Party in 2022 elections swept Punjab, winning _____ of the 117 Assembly seats.

Ans
✗ 1. 89
✗ 2. 97
✓ 3. 92
✗ 4. 85

Question ID : **630680238424**
Option 1 ID : **630680924713**
Option 2 ID : **630680924715**
Option 3 ID : **630680924714**
Option 4 ID : **630680924712**
Status : **Answered**
Chosen Option : **3**

Q.28 In which of the following cities was the 19th National Federation Cup Juniors (U20) Athletics Championship 2021 organised in July-August 2021?

Ans
✗ 1. Ludhiana
✓ 2. Sangrur
✗ 3. Mohali
✗ 4. Chandigarh

Question ID : **63068069209**
Option 1 ID : **630680267517**
Option 2 ID : **630680267514**
Option 3 ID : **630680267516**
Option 4 ID : **630680267515**
Status : **Answered**
Chosen Option : **1**

Q.29 Siachen Glacier is located in:

Ans
✗ 1. Sub Himalayas
✗ 2. Greater Himalayas
✓ 3. Trans Himalayas
✗ 4. Lesser Himalayas

Question ID : **63068049553**
Option 1 ID : **630680190643**
Option 2 ID : **630680190644**
Option 3 ID : **630680190642**
Option 4 ID : **630680190645**
Status : **Answered**
Chosen Option : **2**

Website - www.dailyjobalert.in

Q.30 Who among the following went to seek Buddha's advice on how to defeat the Vajjis?

Ans
✗ 1. Diga Charanaya
✗ 2. Anurudhha
✗ 3. Bimbisara
✓ 4. Vassakara

Question ID : **63068080437**
Option 1 ID : **630680311775**
Option 2 ID : **630680311773**
Option 3 ID : **630680311776**
Option 4 ID : **630680311774**
Status : **Answered**
Chosen Option : **4**

Q.31 In 1945, the Reserve Bank of India was entrusted with the responsibility of managing currency and coinage of which of the following countries?

Ans
✗ 1. Pakistan
✗ 2. Nepal
✗ 3. Sri Lanka
✓ 4. Burma

Question ID : **63068056721**
Option 1 ID : **630680218820**
Option 2 ID : **630680218819**
Option 3 ID : **630680218821**
Option 4 ID : **630680218818**
Status : **Answered**
Chosen Option : **2**

Q.32 Which of the following is one of the schemes launched to promote and propagate the rich cultural heritage of North-East India?

Ans
✗ 1. Guru Shishya Parampara
✗ 2. Shilpgram
✗ 3. National Cultural Exchange Programme
✓ 4. Octave

Question ID : **630680164666**
Option 1 ID : **630680637777**
Option 2 ID : **630680637779**
Option 3 ID : **630680637776**
Option 4 ID : **630680637778**
Status : **Answered**
Chosen Option : **1**

Website - www.dailyjobalert.in

Q.33 **The 160th anniversary of which of the following freedom fighters from Jaintia hills was commemorated on 30 December 2022?**

Ans
- ✗ 1. U Tirot Sing Syiemlieh
- ✗ 2. Haipou Jadonang
- ✓ 3. U Kiang Nangbah
- ✗ 4. Rani Gaidinliu

Question ID : **630680170374**
Option 1 ID : **630680660092**
Option 2 ID : **630680660091**
Option 3 ID : **630680660089**
Option 4 ID : **630680660090**
Status : **Answered**
Chosen Option : **2**

Q.34 **Which of the following Articles of the Indian Constitution states that 'No citizen shall, on grounds only of religion, race, caste, sex, place of birth or any of them, be subject to any disability, liability, restriction, or condition with regard to access to shops, public restaurants, hotels, and places of public entertainment.'?**

Ans
- ✗ 1. Article 15 (5)
- ✗ 2. Article 16 (1)
- ✗ 3. Article 14 (2)
- ✓ 4. Article 15 (2)

Question ID : **630680146502**
Option 1 ID : **630680566892**
Option 2 ID : **630680566893**
Option 3 ID : **630680566890**
Option 4 ID : **630680566891**
Status : **Answered**
Chosen Option : **4**

Q.35 **In December 2021, Parag Agrawal was appointed the CEO of _____.**

Ans
- ✗ 1. Facebook
- ✗ 2. Instagram
- ✗ 3. YouTube
- ✓ 4. Twitter

Question ID : **630680145772**
Option 1 ID : **630680564017**
Option 2 ID : **630680564015**
Option 3 ID : **630680564014**
Option 4 ID : **630680564016**
Status : **Answered**
Chosen Option : **3**

DAILY JOB Alert ਪੰਜਾਬ

Q.36 The Planning Commission was replaced with NITI Aayog in the year _____.

Ans
✗ 1. 2010
✗ 2. 2011
✗ 3. 2014
✓ 4. 2015

Question ID : **63068059040**
Option 1 ID : **630680227782**
Option 2 ID : **630680227783**
Option 3 ID : **630680227784**
Option 4 ID : **630680227785**
Status : **Answered**
Chosen Option : **4**

Q.37 The Ministry of Labour and Employment has launched the _____on 26 August 2021 for creating a National Database of Unorganized Workers (NDUW).

Ans
✓ 1. e-Shram portal
✗ 2. e-Daksh portal
✗ 3. ESIC portal
✗ 4. Shramik portal

Question ID : **630680145288**
Option 1 ID : **630680562134**
Option 2 ID : **630680562135**
Option 3 ID : **630680562137**
Option 4 ID : **630680562136**
Status : **Answered**
Chosen Option : **4**

Q.38 In which year was the National Urban Digital Mission launched by the Housing and Urban Affairs Ministry?

Ans
✗ 1. March 2021
✗ 2. May 2021
✗ 3. April 2021
✓ 4. February 2021

Question ID : **63068050586**
Option 1 ID : **630680194659**
Option 2 ID : **630680194661**
Option 3 ID : **630680194660**
Option 4 ID : **630680194658**
Status : **Answered**
Chosen Option : **4**

Website - www.dailyjobalert.in

Q.39 The total population in Maldives at the time of the Census in September 2014 was about _____.

Ans
✗ 1. 0.20 million
✗ 2. 0.30 million
✗ 3. 0.10 million
✓ 4. 0.40 million

Question ID : **63068059760**
Option 1 ID : **630680230611**
Option 2 ID : **630680230612**
Option 3 ID : **630680230610**
Option 4 ID : **630680230613**
Status : **Answered**
Chosen Option : **2**

Q.40 In India, National Nutrition Mission (NNM) was launched in which year?

Ans
✗ 1. 2015
✓ 2. 2018
✗ 3. 2017
✗ 4. 2016

Question ID : **630680112101**
Option 1 ID : **630680434130**
Option 2 ID : **630680434133**
Option 3 ID : **630680434132**
Option 4 ID : **630680434131**
Status : **Answered**
Chosen Option : **2**

Q.41 Who was named 2021 Athlete of the Year by TIME magazine?

Ans
✗ 1. Naomi Osaka
✗ 2. Sunisa Lee
✓ 3. Simone Biles
✗ 4. Aly Raisman

Question ID : **63068090319**
Option 1 ID : **630680350053**
Option 2 ID : **630680350051**
Option 3 ID : **630680350050**
Option 4 ID : **630680350052**
Status : **Answered**
Chosen Option : **1**

Website - www.dailyjobalert.in

Q.42 Which of the following countries and India jointly launched 'Centre of Excellence on Offshore Wind' as part of the Green Strategic Partnership in 2021?

Ans
✗ 1. Italy
✗ 2. Germany
✓ 3. Denmark
✗ 4. France

Question ID : **63068053262**
Option 1 ID : **630680205150**
Option 2 ID : **630680205152**
Option 3 ID : **630680205153**
Option 4 ID : **630680205151**
Status : **Answered**
Chosen Option : **2**

Q.43 What is the literacy rate of Punjab in percentage according to the 2011 census of India?

Ans
✓ 1. 75.84
✗ 2. 86.21
✗ 3. 82.34
✗ 4. 79.06

Question ID : **630680238492**
Option 1 ID : **630680924986**
Option 2 ID : **630680924987**
Option 3 ID : **630680924984**
Option 4 ID : **630680924985**
Status : **Answered**
Chosen Option : **1**

Q.44 Who won the World Food Prize 2021?

Ans
✗ 1. Rattan Lal
✗ 2. Simon N Groot
✗ 3. Sanjaya Rajaram
✓ 4. Shakuntala Haraksingh Thilsted

Question ID : **63068052421**
Option 1 ID : **630680201787**
Option 2 ID : **630680201788**
Option 3 ID : **630680201789**
Option 4 ID : **630680201786**
Status : **Answered**
Chosen Option : **3**

DAILY JOB Alert ਪੰਜਾਬ

Q.45 In ethical objectivism, moral values and virtues are _____ and NOT dependent on anything outside of them.

Ans

✗ 1. extrinsic

✗ 2. virtual

✓ 3. intrinsic

✗ 4. trivial

Question ID : **630680238339**
Option 1 ID : **630680924373**
Option 2 ID : **630680924374**
Option 3 ID : **630680924372**
Option 4 ID : **630680924375**
Status : **Answered**
Chosen Option : **3**

Q.46 ਅੰਗਰੇਜ਼ਾਂ ਦੇ ਰਾਜ ਦੌਰਾਨ ਹੇਠ ਲਿਖਿਆਂ ਵਿੱਚੋਂ ਕਿਹੜੇ ਸਾਲ ਵਿੱਚ ਦਿੱਲੀ ਜ਼ਿਲ੍ਹਾ, ਪੰਜਾਬ ਤੋਂ ਵੱਖ ਹੋਇਆ ਸੀ?

Ans

✓ 1. 1911

✗ 2. 1947

✗ 3. 1905

✗ 4. 1935

Question ID : **630680238554**
Option 1 ID : **630680925233**
Option 2 ID : **630680925235**
Option 3 ID : **630680925232**
Option 4 ID : **630680925234**
Status : **Answered**
Chosen Option : **3**

Q.47 **Which of the following articles of the Indian constitution provides for freedom as to payment of taxes for promotion of any particular religion?**

Ans

✗ 1. Articles 26

✓ 2. Articles 27

✗ 3. Articles 28

✗ 4. Articles 25

Question ID : **630680160045**
Option 1 ID : **630680619565**
Option 2 ID : **630680619566**
Option 3 ID : **630680619567**
Option 4 ID : **630680619564**
Status : **Answered**
Chosen Option : **2**

DAILY JOB Alert ਪੰਜਾਬ

Q.48 Which of the following Union Territories was planned by the famous French architect Le Corbusier?

Ans
✗ 1. Dadra and Nagar Haveli and Daman and Diu
✗ 2. Puducherry
✓ 3. Chandigarh
✗ 4. NCT of Delhi

Question ID : **63068099126**
Option 1 ID : **630680385208**
Option 2 ID : **630680385210**
Option 3 ID : **630680385211**
Option 4 ID : **630680385209**
Status : **Answered**
Chosen Option : **3**

Q.49 In 2021, Grene Robotics designed and developed India's first 100% indigenous unified, distributed and wide-area autonomous drone defence dome called _____.

Ans
✗ 1. Indra
✗ 2. Rudra
✗ 3. Mayajaal
✓ 4. Indrajaal

Question ID : **630680113601**
Option 1 ID : **630680439938**
Option 2 ID : **630680439940**
Option 3 ID : **630680439941**
Option 4 ID : **630680439939**
Status : **Answered**
Chosen Option : **4**

Q.50 The 'Durand Line' between _____ and British India was drawn as a result of the 'Durand Agreement' of 1893.

Ans
✗ 1. Bhutan
✓ 2. Afghanistan
✗ 3. Nepal
✗ 4. Burma

Question ID : **630680118113**
Option 1 ID : **630680457631**
Option 2 ID : **630680457633**
Option 3 ID : **630680457630**
Option 4 ID : **630680457632**
Status : **Answered**
Chosen Option : **1**

Section : **Quantitative Aptitude and Numerical Skills**

Website - www.dailyjobalert.in

Q.51 **The difference between the length and breadth of a rectangle is 41m. If its perimeter is 270 m, then its area is:**

Ans

✗ 1. $4216\ m^2$

✓ 2. $4136\ m^2$

✗ 3. $3912\ m^2$

✗ 4. $4356\ m^2$

Question ID : **63068085739**
Option 1 ID : **630680332416**
Option 2 ID : **630680332417**
Option 3 ID : **630680332418**
Option 4 ID : **630680332419**
Status : **Answered**
Chosen Option : **3**

Q.52 **Ramesh's income is 20% more than that of Rajesh. How much percentage is the income of Rajesh less than that of Ramesh?**

Ans

✗ 1. $12\frac{2}{3}\%$

✓ 2. $16\frac{2}{3}\%$

✗ 3. 18%

✗ 4. $13\frac{3}{2}\%$

Question ID : **630680115943**
Option 1 ID : **630680449102**
Option 2 ID : **630680449104**
Option 3 ID : **630680449105**
Option 4 ID : **630680449103**
Status : **Answered**
Chosen Option : **2**

Q.53 If $x = 2 + \sqrt{5}$ and $y = 2 - \sqrt{5}$, then the value of $x^2 + y^2$ is:

Ans

✗ 1. 16

✗ 2. 20

✓ 3. 18

✗ 4. 22

Question ID : **630680222911**
Option 1 ID : **630680865404**
Option 2 ID : **630680865405**
Option 3 ID : **630680865403**
Option 4 ID : **630680865406**
Status : **Answered**
Chosen Option : **3**

Website - www.dailyjobalert.in

Q.54 A shopkeeper marks his goods 30% above the cost price. He sold $\frac{3}{5}$ of the goods at the marked price, and the remaining he sold at a discount of 25%. Find his gain percentage.

Ans
✗ 1. 15%
✗ 2. 16%
✓ 3. 17%
✗ 4. 14%

Question ID : **630680135717**
Option 1 ID : **630680525589**
Option 2 ID : **630680525586**
Option 3 ID : **630680525587**
Option 4 ID : **630680525588**
Status : **Answered**
Chosen Option : **3**

Q.55 A certain sum at the rate of 4% p.a. compound interest payable half-yearly amounts to ₹5,306.04 in $1\frac{1}{2}$ years. The sum is:

Ans
✗ 1. ₹4,500
✓ 2. ₹5,000
✗ 3. ₹5,202
✗ 4. ₹5,100

Question ID : **630680140151**
Option 1 ID : **630680542441**
Option 2 ID : **630680542439**
Option 3 ID : **630680542438**
Option 4 ID : **630680542440**
Status : **Answered**
Chosen Option : **1**

Q.56 **In the first 10 overs of a cricket match, the run rate was only 3 runs per over. What should be the run rate per over in the remaining 40 overs to reach the target of 310 runs?**

Ans
✓ 1. 7
✗ 2. 8
✗ 3. 9
✗ 4. 6

Question ID : **630680107363**
Option 1 ID : **630680416819**
Option 2 ID : **630680416816**
Option 3 ID : **630680416817**
Option 4 ID : **630680416818**
Status : **Answered**
Chosen Option : **1**

Website - www.dailyjobalert.in

Q.57 The area of an isosceles right triangle whose perimeter is p, is:

Ans

✗ 1. $\frac{p^2}{2+\sqrt{2}}$

✗ 2. $\frac{p^2}{(6+4\sqrt{3})}$

✓ 3. $\frac{p^2}{(12+8\sqrt{2})}$

✗ 4. $\frac{p^2}{2(2+\sqrt{2})}$

Question ID : **63068079836**
Option 1 ID : **630680309369**
Option 2 ID : **630680309372**
Option 3 ID : **630680309371**
Option 4 ID : **630680309370**
Status : **Answered**
Chosen Option : **2**

Q.58 If 3x – 2y = 10 and xy = 11, then the value of $27x^3 - 8y^3$ is _____.

Ans

✗ 1. 3336

✓ 2. 2980

✗ 3. 2569

✗ 4. 3170

Question ID : **630680222895**
Option 1 ID : **630680865342**
Option 2 ID : **630680865339**
Option 3 ID : **630680865341**
Option 4 ID : **630680865340**
Status : **Answered**
Chosen Option : **1**

Q.59 If $a = 3^{0.5} + 1/3^{0.5}$ and $b = 3^{0.5} - 1/3^{0.5}$, then the value of the expression $(a \times b)^2 - \frac{64}{9} + \frac{3}{8} a \times b$ is:

Ans

✗ 1. $\frac{64}{9}$

✗ 2. $\frac{3}{8}$

✗ 3. $\frac{8}{3}$

✓ 4. 1

Question ID : **63068079125**
Option 1 ID : **630680306538**
Option 2 ID : **630680306540**
Option 3 ID : **630680306539**
Option 4 ID : **630680306537**
Status : **Answered**
Chosen Option : **4**

Website - www.dailyjobalert.in

Q.60 **Vinod and Abhi enter into a business partnership for a year. Vinod contributes ₹1,500 and Abhi contributes ₹2,000. After 4 months, they admit Krishna, who contributes ₹2,250. If Abhi withdraws his contribution after 9 months, how much would Abhi get in a profit of ₹900 at the end of the year?**

Ans

✗ 1. ₹250

✗ 2. ₹500

✓ 3. ₹300

✗ 4. ₹400

Question ID : **630680208699**
Option 1 ID : **630680809029**
Option 2 ID : **630680809027**
Option 3 ID : **630680809030**
Option 4 ID : **630680809028**
Status : **Answered**
Chosen Option : **4**

Q.61 The number of marks obtained by 60 students of a class are given below:

Marks	38	53	15	37	41	10
Number of students	7	9	16	10	10	8

Find the mode.

Ans

✗ 1. 53

✗ 2. 10

✓ 3. 15

✗ 4. 16

Question ID : **630680195475**
Option 1 ID : **630680758371**
Option 2 ID : **630680758372**
Option 3 ID : **630680758369**
Option 4 ID : **630680758370**
Status : **Answered**
Chosen Option : **2**

Q.62 **Robert covers a distance of P km by his car at a speed of 25 km/h and comes back at a speed of 40 km/h. What is his average speed during the travel?**

Ans

✗ 1. $13\frac{10}{30}$ km/h

✓ 2. $30\frac{10}{13}$ km/h

✗ 3. $1\frac{10}{25}$ km/h

✗ 4. $1\frac{15}{25}$ km/h

Question ID : **630680109347**
Option 1 ID : **630680424150**
Option 2 ID : **630680424149**
Option 3 ID : **630680424151**
Option 4 ID : **630680424148**
Status : **Answered**
Chosen Option : **2**

Website - www.dailyjobalert.in

Q.63 Find the mean proportion between 9 and 16.

Ans
✗ 1. 56
✓ 2. 12
✗ 3. 24
✗ 4. 36

Question ID : **63068067677**
Option 1 ID : **630680261529**
Option 2 ID : **630680261526**
Option 3 ID : **630680261527**
Option 4 ID : **630680261528**
Status : **Answered**
Chosen Option : **2**

Q.64 If $2^{a-4}+2^{a+2}=130$, then the value of a is:

Ans
✗ 1. 3
✗ 2. 1
✗ 3. 0
✓ 4. 5

Question ID : **630680101868**
Option 1 ID : **630680395829**
Option 2 ID : **630680395830**
Option 3 ID : **630680395831**
Option 4 ID : **630680395828**
Status : **Answered**
Chosen Option : **4**

Q.65 How much simple interest can a person get on ₹ 8,200 at 17.5% p.a. for a period of 2 years and 6 months?

Ans
✗ 1. ₹ 3,750
✗ 2. ₹ 2,850
✗ 3. ₹ 3,770.50
✓ 4. ₹ 3,587.50

Question ID : **63068070180**
Option 1 ID : **630680271360**
Option 2 ID : **630680271358**
Option 3 ID : **630680271361**
Option 4 ID : **630680271359**
Status : **Answered**
Chosen Option : **3**

Website - www.dailyjobalert.in

Q.66 **The height of a right circular cone is 63 cm and its base radius is 4 cm. Find its volume.**

Ans

✔ 1. $1056\ cm^3$

✘ 2. $2156\ cm^3$

✘ 3. $924\ cm^3$

✘ 4. $2490\ cm^3$

Question ID : **630680102084**
Option 1 ID : **630680396693**
Option 2 ID : **630680396694**
Option 3 ID : **630680396692**
Option 4 ID : **630680396695**
Status : **Answered**
Chosen Option : **1**

Q.67 **The cost price of a juicer is ₹595. A shopkeeper allows a discount of 15% and gets a profit of 10%. Find the marked price of the juicer.**

Ans

✘ 1. ₹790

✘ 2. ₹690

✘ 3. ₹670

✔ 4. ₹770

Question ID : **630680109047**
Option 1 ID : **630680423049**
Option 2 ID : **630680423050**
Option 3 ID : **630680423051**
Option 4 ID : **630680423048**
Status : **Answered**
Chosen Option : **4**

Q.68 The value of $\frac{0.943\times0.943-0.943\times0.057+0.057\times0.057}{0.943\times0.943\times0.943+0.057\times0.057\times0.057}$ is:

Ans

✘ 1. 0.886

✘ 2. 1.1286

✔ 3. 1

✘ 4. 0.32

Question ID : **63068070912**
Option 1 ID : **630680274259**
Option 2 ID : **630680274261**
Option 3 ID : **630680274260**
Option 4 ID : **630680274258**
Status : **Answered**
Chosen Option : **4**

Website - www.dailyjobalert.in

Q.69 The value of $\frac{(243)^{0.13}\times(243)^{0.07}}{(7)^{0.25}\times(49)^{0.075}\times(343)^{0.2}}$ is:

Ans

✗ 1. $\frac{5}{7}$

✓ 2. $\frac{3}{7}$

✗ 3. $\frac{2}{7}$

✗ 4. 3

Question ID : **63068070995**
Option 1 ID : **630680274592**
Option 2 ID : **630680274591**
Option 3 ID : **630680274590**
Option 4 ID : **630680274593**
Status : **Answered**
Chosen Option : **1**

Q.70 **Ram and Shyam enter into a partnership for a year. Ram contributes ₹30,000 and Shyam contributes ₹50,000. After 6 months Ram withdraws his amount. At the end of the year share of Ram in profit is ₹33,000 then what will be the share of Shyam in profit?**

Ans

✗ 1. ₹88,000

✗ 2. ₹99,000

✓ 3. ₹1,10,000

✗ 4. ₹74,000

Question ID : **630680119765**
Option 1 ID : **630680464140**
Option 2 ID : **630680464138**
Option 3 ID : **630680464139**
Option 4 ID : **630680464141**
Status : **Answered**
Chosen Option : **3**

Q.71 **Compute the mean of the following data.**
32, 27, 46, 12, 36, 81, 72, 27, 54, 43, 6, 92

Ans

✗ 1. 38

✗ 2. 60

✗ 3. 52

✓ 4. 44

Question ID : **630680151933**
Option 1 ID : **630680587776**
Option 2 ID : **630680587778**
Option 3 ID : **630680587777**
Option 4 ID : **630680587779**
Status : **Answered**
Chosen Option : **4**

Website - www.dailyjobalert.in

Q.72 The radius of the base of a conical tent is 16 m and its height is 12 m. Find the length of a 10 m wide canvas required for this tent.(Use $\pi = \frac{22}{7}$)

Ans

✗ 1. $\frac{703}{7}$ m

✗ 2. $\frac{702}{7}$ m

✗ 3. $\frac{701}{7}$ m

✓ 4. $\frac{704}{7}$ m

Question ID : **630680103515**
Option 1 ID : **630680402305**
Option 2 ID : **630680402304**
Option 3 ID : **630680402303**
Option 4 ID : **630680402306**
Status : **Answered**
Chosen Option : **4**

Q.73 Simplify:

$$\left[3\frac{1}{4} \div \left\{2\frac{1}{4} - 0.25\left(2\frac{1}{3} - \frac{1}{4} + \frac{1}{6}\right)\right\}\right] \div \frac{13}{27}$$

Ans

✗ 1. 4.5

✗ 2. 2

✗ 3. 1

✓ 4. 4

Question ID : **630680107337**
Option 1 ID : **630680416722**
Option 2 ID : **630680416723**
Option 3 ID : **630680416720**
Option 4 ID : **630680416721**
Status : **Answered**
Chosen Option : **2**

Q.74 **A 360-m-long train is running at a speed of 45 km/h. How long will it take to cross a 140-m-long bridge?**

Ans

✓ 1. 40 sec

✗ 2. 50 sec

✗ 3. 35 sec

✗ 4. 45 sec

Question ID : **630680101755**
Option 1 ID : **630680395382**
Option 2 ID : **630680395383**
Option 3 ID : **630680395381**
Option 4 ID : **630680395380**
Status : **Answered**
Chosen Option : **3**

Website - www.dailyjobalert.in

Q.75 If 5 men can do a work in 2 days and 3 boys can do the same work in 5 days, then find the time taken to complete the same work by 10 men and 6 boys.

Ans

✗ 1. $\frac{5}{78}$ days

✗ 2. $\frac{5}{9}$ days

✓ 3. $\frac{5}{7}$ days

✗ 4. $\frac{5}{6}$ days

Question ID : **630680205682**
Option 1 ID : **630680797539**
Option 2 ID : **630680797542**
Option 3 ID : **630680797541**
Option 4 ID : **630680797540**
Status : **Answered**
Chosen Option : **3**

Q.76 A cuboid of size 44 cm × 32 cm × 36 cm contains some curable chemicals and salts. These are to be melted and reshaped in the form of spherical tablets of radius 12 cm, to be given to patients. How many such tablets can be formed?

Ans

✓ 1. 7

✗ 2. 3

✗ 3. 8

✗ 4. 6

Question ID : **630680121070**
Option 1 ID : **630680469244**
Option 2 ID : **630680469242**
Option 3 ID : **630680469245**
Option 4 ID : **630680469243**
Status : **Answered**
Chosen Option : **1**

Q.77 A retailer bought goods worth ₹6,000 and sold half of them at a gain of 20%. At what percentage gain must he sell the remaining goods so as to get a gain of 40% on whole?

Ans

✗ 1. 40%

✗ 2. 80%

✗ 3. 20%

✓ 4. 60%

Question ID : **630680125151**
Option 1 ID : **630680485383**
Option 2 ID : **630680485385**
Option 3 ID : **630680485382**
Option 4 ID : **630680485384**
Status : **Answered**
Chosen Option : **4**

Website - www.dailyjobalert.in

Q.78 A water tank is $\frac{2}{3}$ full. When 30 litres are drawn from it, it is just $\frac{1}{3}$ full. Half the capacity of the tank (in litre) is:

Ans
✗ 1. 90
✗ 2. 15
✗ 3. 30
✓ 4. 45

Question ID : **63068084213**
Option 1 ID : **630680326380**
Option 2 ID : **630680326381**
Option 3 ID : **630680326383**
Option 4 ID : **630680326382**
Status : **Answered**
Chosen Option : **1**

Q.79 Bhim has 90 pencils and 216 pens. He wants to distribute the pencils and pens such that each student gets the same number of pens and pencils. What is the maximum number of students among whom he can distribute the pens and pencils?

Ans
✗ 1. 90
✗ 2. 72
✗ 3. 216
✓ 4. 18

Question ID : **63068076095**
Option 1 ID : **630680294486**
Option 2 ID : **630680294488**
Option 3 ID : **630680294485**
Option 4 ID : **630680294487**
Status : **Answered**
Chosen Option : **1**

Q.80 What is the remainder when 8127 is divided by 8?

Ans
✗ 1. 6
✓ 2. 7
✗ 3. 5
✗ 4. 4

Question ID : **63068091841**
Option 1 ID : **630680356098**
Option 2 ID : **630680356100**
Option 3 ID : **630680356099**
Option 4 ID : **630680356101**
Status : **Answered**
Chosen Option : **2**

Section : **Punjabi Language**

Website - www.dailyjobalert.in

Q.81 ਸੁਰਜੀਤ ਤੇਜ਼ ਦੌੜਦਾ ਹੈ।

ਉਪਰੋਕਤ ਵਾਕ ਵਿੱਚੋਂ ਕਿਰਿਆ ਵਿਸ਼ੇਸ਼ਣ ਚੁਣੋ :-

Ans
✗ 1. ਤੇਜ਼
✗ 2. ਸੁਰਜੀਤ
✓ 3. ਦੌੜਦਾ
✗ 4. ਹੈ

Question ID : **630680241174**
Option 1 ID : **630680935152**
Option 2 ID : **630680935151**
Option 3 ID : **630680935153**
Option 4 ID : **630680935154**
Status : **Answered**
Chosen Option : **1**

Q.82 ਹੇਠ ਲਿਖੇ ਬਹੁਤੇ ਸ਼ਬਦਾਂ ਦੀ ਥਾਂ ਇੱਕ ਸ਼ਬਦ ਦਾ ਵਿਕਲਪ ਚੁਣੋ।

'ਜਿਹੜਾ ਸਭ ਕੁਝ ਖਾ ਜਾਣ ਵਾਲਾ ਹੋਵੇ'

Ans
✗ 1. ਸਰਬ-ਸਾਂਝ
✗ 2. ਸਰਬ-ਪੱਖੀ
✗ 3. ਸਰਬ-ਵਿਆਪਕ
✓ 4. ਸਰਬ-ਭੱਖੀ

Question ID : **630680241181**
Option 1 ID : **630680935182**
Option 2 ID : **630680935179**
Option 3 ID : **630680935180**
Option 4 ID : **630680935181**
Status : **Answered**
Chosen Option : **4**

Q.83 'Brave' ਸ਼ਬਦ ਦਾ ਪੰਜਾਬੀ ਅਨੁਵਾਦ ਚੁਣੋ:-

Ans
✗ 1. ਮਜ਼ਬੂਤ
✗ 2. ਪਹਿਲਵਾਨ
✓ 3. ਬਹਾਦਰ
✗ 4. ਤਕੜਾ

Question ID : **630680241184**
Option 1 ID : **630680935193**
Option 2 ID : **630680935194**
Option 3 ID : **630680935191**
Option 4 ID : **630680935192**
Status : **Answered**
Chosen Option : **3**

Website - www.dailyjobalert.in

Q.84 There was no body in the garden ਵਾਕ ਦਾ ਪੰਜਾਬੀ ਅਨੁਵਾਦ ਚੁਣੋ:-

Ans
1. ✗ ਬਾਗ ਵਿੱਚ ਸਾਰੇ ਸਨ।
2. ✓ ਬਾਗ ਵਿੱਚ ਕੋਈ ਨਹੀਂ ਸੀ।
3. ✗ ਬਾਗ ਵਿੱਚ ਕੋਈ ਸੀ।
4. ✗ ਬਾਗ ਵਿੱਚ ਕੋਈ ਤਾਂ ਸੀ।

Question ID : **630680241185**
Option 1 ID : **630680935195**
Option 2 ID : **630680935197**
Option 3 ID : **630680935196**
Option 4 ID : **630680935198**
Status : **Answered**
Chosen Option : **2**

Q.85 ਮੈਂ ਕੱਲ੍ਹ ਸ਼ਹਿਰ ਜਾਵਾਂਗਾ।

ਉਪਰੋਕਤ ਵਾਕ ਵਿੱਚ ਉਦੇਸ਼ ਕਿਹੜਾ ਹੈ?

Ans
1. ✗ ਜਾਵਾਂਗਾ
2. ✗ ਕੱਲ੍ਹ
3. ✓ ਮੈਂ
4. ✗ ਸ਼ਹਿਰ

Question ID : **630680241173**
Option 1 ID : **630680935150**
Option 2 ID : **630680935148**
Option 3 ID : **630680935147**
Option 4 ID : **630680935149**
Status : **Answered**
Chosen Option : **4**

Q.86 'ਅਕਾਸ਼' ਸ਼ਬਦ ਦਾ ਸਮਾਨਾਰਥੀ ਚੁਣੋ।

Ans
1. ✗ ਅਕਸ਼
2. ✗ ਅਣਜਾਣ
3. ✓ ਗਗਨ
4. ✗ ਆਸਰਾ

Question ID : **630680241178**
Option 1 ID : **630680935170**
Option 2 ID : **630680935167**
Option 3 ID : **630680935168**
Option 4 ID : **630680935169**
Status : **Answered**
Chosen Option : **3**

Website - www.dailyjobalert.in

Q.87 ਹੇਠ ਲਿਖਿਆਂ ਵਿੱਚੋਂ ਕਿਹੜਾ ਉਸਤਤ ਸ਼ਬਦ ਦਾ ਸਮਾਨਾਰਥੀ ਨਹੀਂ ਹੈ?

Ans
✔ 1. ਵਧੀਆਂ
✘ 2. ਉਪਮਾ
✘ 3. ਤਾਰੀਫ
✘ 4. ਪ੍ਰਸੰਸਾ

Question ID : **630680241179**
Option 1 ID : **630680935174**
Option 2 ID : **630680935172**
Option 3 ID : **630680935171**
Option 4 ID : **630680935173**
Status : **Answered**
Chosen Option : **1**

Q.88 'ਉਧਾਰ' ਸ਼ਬਦ ਦਾ ਵਿਰੋਧੀ ਸ਼ਬਦ ਚੁਣੋ।

Ans
✘ 1. ਹਕ
✘ 2. ਕਠੋਰ
✔ 3. ਨਕਦ
✘ 4. ਉਦਾਰ

Question ID : **630680241177**
Option 1 ID : **630680935165**
Option 2 ID : **630680935163**
Option 3 ID : **630680935166**
Option 4 ID : **630680935164**
Status : **Answered**
Chosen Option : **3**

Q.89 "ਉਹ ਆਦਮੀ ਜੋ ਇਸਤ੍ਰੀ ਦੇ ਅਧੀਨ ਹੋਵੇ" ਉਸ ਨੂੰ ਕੀ ਬੋਲਿਆ ਜਾਂਦਾ ਹੈ।

Ans
✔ 1. ਝੁੱਡੂ
✘ 2. ਜਨਾਨੀਬਾਜ਼
✘ 3. ਮਰਜੀਵੜਾ
✘ 4. ਰੰਡਾ

Question ID : **630680241191**
Option 1 ID : **630680935217**
Option 2 ID : **630680935216**
Option 3 ID : **630680935218**
Option 4 ID : **630680935215**
Status : **Answered**
Chosen Option : **2**

Website - www.dailyjobalert.in

Q.90 ਵਾਕ ਵਿੱਚ ਕਿਰਿਆ ਦੀ ਵਿਸ਼ੇਸ਼ਤਾ ਦੱਸਣ ਵਾਲੇ ਸ਼ਬਦ ਨੂੰ _____ ਕਿਹਾ ਜਾਂਦਾ ਹੈ:-

Ans
✗ 1. ਵਿਸ਼ੇਸ਼ਣ
✗ 2. ਕਿਰਿਆ
✓ 3. ਕਿਰਿਆ ਵਿਸ਼ੇਸ਼ਣ
✗ 4. ਪੜਨਾਂਵ

Question ID : **630680241183**
Option 1 ID : **630680935189**
Option 2 ID : **630680935188**
Option 3 ID : **630680935187**
Option 4 ID : **630680935190**
Status : **Answered**
Chosen Option : **1**

Q.91 ਹੇਠ ਲਿਖਿਆਂ ਵਿੱਚੋਂ ਸ਼ੁੱਧ ਸ਼ਬਦ ਜੁੱਟ ਦੀ ਚੋਣ ਕਰੋ।

Ans
✗ 1. ਅਮੀਟ-ਅਮਿੱਤ
✗ 2. ਅਮੀਤ-ਅਮਿੱਟ
✓ 3. ਅਮਿੱਟ-ਅਮਿੱਤ
✗ 4. ਅਮਿਕ- ਅਮਿੱਟ

Question ID : **630680241176**
Option 1 ID : **630680935161**
Option 2 ID : **630680935162**
Option 3 ID : **630680935159**
Option 4 ID : **630680935160**
Status : **Answered**
Chosen Option : **3**

Q.92 ਹੇਠ ਲਿਖੇ ਬਹੁਤੇ ਸ਼ਬਦਾਂ ਦੀ ਥਾਂ ਇੱਕ ਸ਼ਬਦ ਦਾ ਵਿਕਲਪ ਚੁਣੋ।

'ਸੱਪ ਦਾ ਬੱਚਾ'

Ans
✗ 1. ਸੱਪ
✓ 2. ਸਪੋਲੀਆ
✗ 3. ਸਪੇਰਾ
✗ 4. ਸਪਟਾਇਕ

Question ID : **630680241180**
Option 1 ID : **630680935178**
Option 2 ID : **630680935176**
Option 3 ID : **630680935177**
Option 4 ID : **630680935175**
Status : **Answered**
Chosen Option : **1**

Website - www.dailyjobalert.in

Q.93 ਉਹ ਸਕੂਲ ਕਿਉਂ ਨਹੀਂ ਆਇਆ। ਕਿਹੜਾ ਵਾਕ ਹੈ?

Ans
✗ 1. ਮਿਸ਼ਰਤ ਵਾਕ
✗ 2. ਸਧਾਰਨ ਵਾਕ
✓ 3. ਪ੍ਰਸ਼ਨ ਵਾਚਕ
✗ 4. ਹਾਂ ਵਾਚਕ

Question ID : **630680241171**
Option 1 ID : **630680935140**
Option 2 ID : **630680935139**
Option 3 ID : **630680935141**
Option 4 ID : **630680935142**
Status : **Answered**
Chosen Option : **3**

Q.94 ਵਾਕ ਵਿੱਚ ਸੰਬੰਧਕ ਦੀ ਵਰਤੋਂ ਕਦੋਂ ਹੁੰਦੀ ਹੈ?

Ans
✗ 1. ਨਾਂਵ ਅਤੇ ਪੜਨਾਂਵ ਦੇ ਵਿਚਕਾਰ
✗ 2. ਨਾਂਵ ਅਤੇ ਪੜਨਾਂਵ ਤੋਂ ਪਹਿਲਾਂ
✓ 3. ਨਾਂਵ ਅਤੇ ਪੜਨਾਂਵ ਤੋਂ ਬਾਅਦ
✗ 4. ਕਿਰਿਆ ਤੋਂ ਬਾਅਦ

Question ID : **630680241172**
Option 1 ID : **630680935146**
Option 2 ID : **630680935144**
Option 3 ID : **630680935145**
Option 4 ID : **630680935143**
Status : **Answered**
Chosen Option : **1**

Q.95 ਹੇਠ ਦਿੱਤਿਆਂ ਵਿੱਚੋਂ ਅਸ਼ੁੱਧ ਸ਼ਬਦ ਦੀ ਚੋਣ ਕਰੋ।

Ans
✗ 1. ਜਗ-ਬੀਤੀ
✗ 2. ਸਾਮਵਾਦੀ
✗ 3. ਆਪ-ਬੀਤੀ
✓ 4. ਹੱਦ-ਬੀਤੀ

Question ID : **630680241175**
Option 1 ID : **630680935156**
Option 2 ID : **630680935158**
Option 3 ID : **630680935155**
Option 4 ID : **630680935157**
Status : **Answered**
Chosen Option : **3**

Website - www.dailyjobalert.in

Q.96 ਨਾਂਵ _____ ਪ੍ਰਕਾਰ ਦੇ ਹੁੰਦੇ ਹਨ:-

Ans
✔ 1. ਪੰਜ
✘ 2. ਤਿੰਨ
✘ 3. ਇੱਕ
✘ 4. ਦੋ

Question ID : **630680241182**
Option 1 ID : **630680935186**
Option 2 ID : **630680935185**
Option 3 ID : **630680935183**
Option 4 ID : **630680935184**
Status : **Answered**
Chosen Option : **1**

Comprehension:

ਘਰ ਤੋਂ ਭਾਵ ਉਹ ਥਾਂ ਹੈ, ਜਿੱਥੇ ਮਨੁੱਖ ਦੇ ਪਿਆਰ ਤੇ ਸਧਰਾਂ ਪਲਦੀਆਂ ਹਨ, ਜਿੱਥੇ ਬਾਲਪਨ ਵਿੱਚ ਮਾਂ ਭੈਣ ਤੇ ਭਰਾ ਕੋਲੋਂ ਲਾਡ ਲਿਆ ਹੁੰਦਾ ਹੈ, ਜਿੱਥੇ ਜਵਾਨੀ ਵਿੱਚ ਸਾਰੇ ਜਹਾਨ ਨੂੰ ਗਾਹ ਕੇ, ਲਿਤਾੜ ਕੇ, ਖਟੀ ਕਮਾਈ ਕਰ ਕੇ ਮੁੜ ਆਉਣ ਨੂੰ ਜੀ ਕਰਦਾ ਹੈ, ਜਿੱਥੇ ਬੁਢੇਪੇ ਵਿੱਚ ਬਹਿ ਕੇ ਸਾਰੇ ਜੀਵਨ ਦੇ ਝਮੇਲਿਆਂ ਤੋਂ ਮਿਲੀ ਵਿਹਲ ਨੂੰ ਅਰਾਮ ਨਾਲ ਕੱਟਣ ਵਿੱਚ ਇਉਂ ਸੁਆਦ ਆਉਂਦਾ ਹੈ। ਘਰ ਮਨੁੱਖ ਦੇ ਨਿਜੀ ਵਲਵਲਿਆਂ ਤੇ ਸ਼ਖ਼ਸੀ ਰਹਿਣੀ-ਬਹਿਣੀ ਦਾ ਕੇਂਦਰ ਹੁੰਦਾ ਹੈ। ਉਸ ਦੇ ਆਚਰਣ ਬਣਾਉਣ ਵਿੱਚ ਜਿੱਥੇ ਸਮਾਜਕ ਤੇ ਮੁਲਕੀ ਆਲੇ-ਦੁਆਲੇ ਦਾ ਅਸਰ ਕੰਮ ਕਰਦਾ ਹੈ ਅਤੇ ਮਨੁੱਖ ਦਾ ਆਚਰਣ ਬਣਦਾ ਹੀ ਘਰ ਵਿੱਚ ਹੈ। ਕਈ ਵਾਰੀ ਜਦ ਮੈਂ ਕਿਸੇ ਸਜਣ ਨੂੰ ਕੋਝੇ, ਸੜੀਅਲ ਜਾਂ ਖਿਝੂ ਸੁਭਾ ਵਾਲਾ ਦੇਖਦਾ ਹਾਂ ਤਾਂ ਮੈਂ ਦਿਲ ਵਿਚ ਕਹਿੰਦਾ ਹਾਂ, ਇਸ ਵਿਚਾਰੇ ਨੂੰ ਘਰ ਦਾ ਪਿਆਰ ਨਹੀਂ ਮਿਲਿਆ ਹੋਣਾ। ਘਰ ਦੇ ਪਿਆਰ ਤੋਂ ਹੀ ਸਮਾਜ ਅਤੇ ਦੇਸ ਦਾ ਪਿਆਰ ਪੈਦਾ ਹੁੰਦਾ ਹੈ। ਮੈਨੂੰ ਹਿੰਦੁਸਤਾਨ ਉਤਨਾ ਹੀ ਪਿਆਰਾ ਹੈ ਜਿਤਨਾ ਕਿ ਮੈਨੂੰ ਆਪਣੇ ਅਡਿਆਲੇ ਪਿੰਡ ਦਾ ਕੱਚਾ ਕੋਠਾ ਅਤੇ ਉਸ ਵਿੱਚ ਵਸਦੇ ਬੰਦੇ ਪਿਆਰੇ ਹਨ। ਮੈਨੂੰ ਯਾਦ ਹੈ, ਜਦ ਮੈਂ ਰਾਵਲਪਿੰਡੀ ਪੜ੍ਹਦਾ ਹੁੰਦਾ ਸਾਂ ਤਾਂ ਹਰ ਹਫ਼ਤੇ ਐਤਵਾਰ ਕੱਟਣ ਨੂੰ ਆਪਣੇ ਪਿੰਡ ਜਾਂਦਾ ਹੁੰਦਾ ਸਾਂ ਤਾਂ ਪਿੰਡ ਦੀ ਪਿਆਰੀ ਝਾਕੀ ਅੱਖਾਂ ਦੇ ਸਾਹਮਣੇ ਆਉਣ ਤੋਂ ਪਹਿਲਾਂ ਮੈਂ ਉਸ ਟਿੱਬੇ ਕੋਲ ਠਹਿਰ ਜਾਂਦਾ ਸੀ ਅਤੇ ਦਿਲ ਨੂੰ ਚੰਗੀ ਤਰ੍ਹਾਂ ਤਿਆਰ ਕਰ ਕੇ ਪਿੰਡ ਵਲ ਝਾਕਣ ਦਾ ਹੀਆ ਕਰਦਾ ਸਾਂ। ਉਸ ਵਿੱਚ ਵਸਦੇ ਮੇਰੇ ਸੰਬੰਧੀ ਹੋਰ ਭੀ ਪਿਆਰੇ ਹਨ।

SubQuestion No : 97

Q.97 **ਆਪਣਾ ਘਰ ਕਿਸਦੇ ਸਮਾਨ ਲਗਦਾ ਹੈ?**

Ans
✘ 1. ਮਾਂ ਪਿਓ ਦੇ
✘ 2. ਕੈਨੇਡਾ ਦੇ
✔ 3. ਆਪਣੇ ਵਤਨ ਦੇ
✘ 4. ਦੋਸਤਾਂ ਦੇ

Question ID : **630680241190**
Option 1 ID : **630680935211**
Option 2 ID : **630680935214**
Option 3 ID : **630680935213**
Option 4 ID : **630680935212**
Status : **Answered**
Chosen Option : **3**

DAILY JOB Alert ਪੰਜਾਬ

Comprehension:

ਘਰ ਤੋਂ ਭਾਵ ਉਹ ਥਾਂ ਹੈ, ਜਿੱਥੇ ਮਨੁੱਖ ਦੇ ਪਿਆਰ ਤੇ ਸਧਰਾਂ ਪਲਦੀਆਂ ਹਨ, ਜਿੱਥੇ ਬਾਲਪਨ ਵਿੱਚ ਮਾਂ ਭੈਣ ਤੇ ਭਰਾ ਕੋਲੋਂ ਲਾਡ ਲਿਆ ਹੁੰਦਾ ਹੈ, ਜਿੱਥੇ ਜਵਾਨੀ ਵਿੱਚ ਸਾਰੇ ਜਹਾਨ ਨੂੰ ਗਾਹ ਕੇ, ਲਿਤਾੜ ਕੇ, ਖਟੀ ਕਮਾਈ ਕਰ ਕੇ ਮੁੜ ਆਉਣ ਨੂੰ ਜੀ ਕਰਦਾ ਹੈ, ਜਿੱਥੇ ਬੁਢੇਪੇ ਵਿੱਚ ਬਹਿ ਕੇ ਸਾਰੇ ਜੀਵਨ ਦੇ ਝਮੇਲਿਆਂ ਤੋਂ ਮਿਲੀ ਵਿਹਲ ਨੂੰ ਅਰਾਮ ਨਾਲ ਕੱਟਣ ਵਿੱਚ ਇਉਂ ਸੁਆਦ ਆਉਂਦਾ ਹੈ। ਘਰ ਮਨੁੱਖ ਦੇ ਨਿਜੀ ਵਲਵਲਿਆਂ ਤੇ ਸ਼ਖ਼ਸੀ ਰਹਿਣੀ-ਬਹਿਣੀ ਦਾ ਕੇਂਦਰ ਹੁੰਦਾ ਹੈ। ਉਸ ਦੇ ਆਚਰਣ ਬਣਾਉਣ ਵਿੱਚ ਜਿੱਥੇ ਸਮਾਜਕ ਤੇ ਮੁਲਕੀ ਆਲੇ-ਦੁਆਲੇ ਦਾ ਅਸਰ ਕੰਮ ਕਰਦਾ ਹੈ ਅਤੇ ਮਨੁੱਖ ਦਾ ਆਚਰਣ ਬਣਦਾ ਹੀ ਘਰ ਵਿੱਚ ਹੈ। ਕਈ ਵਾਰੀ ਜਦ ਮੈਂ ਕਿਸੇ ਸਜਣ ਨੂੰ ਕੋਝੇ, ਸੜੀਅਲ ਜਾਂ ਖਿਝੂ ਸੁਭਾ ਵਾਲਾ ਦੇਖਦਾ ਹਾਂ ਤਾਂ ਮੈਂ ਦਿਲ ਵਿਚ ਕਹਿੰਦਾ ਹਾਂ, ਇਸ ਵਿਚਾਰੇ ਨੂੰ ਘਰ ਦਾ ਪਿਆਰ ਨਹੀਂ ਮਿਲਿਆ ਹੋਣਾ। ਘਰ ਦੇ ਪਿਆਰ ਤੋਂ ਹੀ ਸਮਾਜ ਅਤੇ ਦੇਸ ਦਾ ਪਿਆਰ ਪੈਦਾ ਹੁੰਦਾ ਹੈ। ਮੈਨੂੰ ਹਿੰਦੁਸਤਾਨ ਉਤਨਾ ਹੀ ਪਿਆਰਾ ਹੈ ਜਿਤਨਾ ਕਿ ਮੈਨੂੰ ਆਪਣੇ ਅਡਿਆਲੇ ਪਿੰਡ ਦਾ ਕੱਚਾ ਕੋਠਾ ਅਤੇ ਉਸ ਵਿੱਚ ਵਸਦੇ ਬੰਦੇ ਪਿਆਰੇ ਹਨ। ਮੈਨੂੰ ਯਾਦ ਹੈ, ਜਦ ਮੈਂ ਰਾਵਲਪਿੰਡੀ ਪੜ੍ਹਦਾ ਹੁੰਦਾ ਸਾਂ ਤਾਂ ਹਰ ਹਫ਼ਤੇ ਐਤਵਾਰ ਕੱਟਣ ਨੂੰ ਆਪਣੇ ਪਿੰਡ ਜਾਂਦਾ ਹੁੰਦਾ ਸਾਂ ਤਾਂ ਪਿੰਡ ਦੀ ਪਿਆਰੀ ਝਾਕੀ ਅੱਖਾਂ ਦੇ ਸਾਹਮਣੇ ਆਉਣ ਤੋਂ ਪਹਿਲਾਂ ਮੈਂ ਉਸ ਟਿੱਬੇ ਕੋਲ ਠਹਿਰ ਜਾਂਦਾ ਸੀ ਅਤੇ ਦਿਲ ਨੂੰ ਚੰਗੀ ਤਰ੍ਹਾਂ ਤਿਆਰ ਕਰ ਕੇ ਪਿੰਡ ਵਲ ਝਾਕਣ ਦਾ ਹੀਆ ਕਰਦਾ ਸਾਂ। ਉਸ ਵਿੱਚ ਵਸਦੇ ਮੇਰੇ ਸੰਬੰਧੀ ਹੋਰ ਭੀ ਪਿਆਰੇ ਹਨ।

SubQuestion No : 98

Q.98 ਇਨਸਾਨ ਕੋਝਾ ਜਾਂ ਸੜੀਅਲ ਹੁੰਦਾ ਹੈ:-

Ans

✗ 1. ਕਿਉਂਕਿ ਉਸਦਾ ਸੁਭਾਅ ਹੁੰਦਾ ਹੈ

✗ 2. ਕਿਉਂਕਿ ਉਸਦੇ ਮਾਤਾ-ਪਿਤਾ ਪਿਆਰ ਨਹੀਂ ਕਰਦੇ

✓ 3. ਕਿਉਂਕਿ ਉਸਨੂੰ ਘਰ ਦਾ ਪਿਆਰ ਨਹੀਂ ਮਿਲਿਆ ਹੁੰਦਾ

✗ 4. ਕਿਉਕਿ ਉਹ ਘਰ ਰਹਿੰਦਾ ਹੇ

Question ID : **630680241188**
Option 1 ID : **630680935206**
Option 2 ID : **630680935205**
Option 3 ID : **630680935204**
Option 4 ID : **630680935203**
Status : **Answered**
Chosen Option : **3**

Comprehension:

ਘਰ ਤੋਂ ਭਾਵ ਉਹ ਥਾਂ ਹੈ, ਜਿੱਥੇ ਮਨੁੱਖ ਦੇ ਪਿਆਰ ਤੇ ਸਧਰਾਂ ਪਲਦੀਆਂ ਹਨ, ਜਿੱਥੇ ਬਾਲਪਨ ਵਿੱਚ ਮਾਂ ਭੈਣ ਤੇ ਭਰਾ ਕੋਲੋਂ ਲਾਡ ਲਿਆ ਹੁੰਦਾ ਹੈ, ਜਿੱਥੇ ਜਵਾਨੀ ਵਿੱਚ ਸਾਰੇ ਜਹਾਨ ਨੂੰ ਗਾਹ ਕੇ, ਲਿਤਾੜ ਕੇ, ਖਟੀ ਕਮਾਈ ਕਰ ਕੇ ਮੁੜ ਆਉਣ ਨੂੰ ਜੀ ਕਰਦਾ ਹੈ, ਜਿੱਥੇ ਬੁਢੇਪੇ ਵਿੱਚ ਬਹਿ ਕੇ ਸਾਰੇ ਜੀਵਨ ਦੇ ਝਮੇਲਿਆਂ ਤੋਂ ਮਿਲੀ ਵਿਹਲ ਨੂੰ ਅਰਾਮ ਨਾਲ ਕੱਟਣ ਵਿੱਚ ਇਉਂ ਸੁਆਦ ਆਉਂਦਾ ਹੈ। ਘਰ ਮਨੁੱਖ ਦੇ ਨਿਜੀ ਵਲਵਲਿਆਂ ਤੇ ਸ਼ਖ਼ਸੀ ਰਹਿਣੀ-ਬਹਿਣੀ ਦਾ ਕੇਂਦਰ ਹੁੰਦਾ ਹੈ। ਉਸ ਦੇ ਆਚਰਣ ਬਣਾਉਣ ਵਿੱਚ ਜਿੱਥੇ ਸਮਾਜਕ ਤੇ ਮੁਲਕੀ ਆਲੇ-ਦੁਆਲੇ ਦਾ ਅਸਰ ਕੰਮ ਕਰਦਾ ਹੈ ਅਤੇ ਮਨੁੱਖ ਦਾ ਆਚਰਣ ਬਣਦਾ ਹੀ ਘਰ ਵਿੱਚ ਹੈ। ਕਈ ਵਾਰੀ ਜਦ ਮੈਂ ਕਿਸੇ ਸਜਣ ਨੂੰ ਕੋਝੇ, ਸੜੀਅਲ ਜਾਂ ਖਿਝੂ ਸੁਭਾ ਵਾਲਾ ਦੇਖਦਾ ਹਾਂ ਤਾਂ ਮੈਂ ਦਿਲ ਵਿਚ ਕਹਿੰਦਾ ਹਾਂ, ਇਸ ਵਿਚਾਰੇ ਨੂੰ ਘਰ ਦਾ ਪਿਆਰ ਨਹੀਂ ਮਿਲਿਆ ਹੋਣਾ। ਘਰ ਦੇ ਪਿਆਰ ਤੋਂ ਹੀ ਸਮਾਜ ਅਤੇ ਦੇਸ ਦਾ ਪਿਆਰ ਪੈਦਾ ਹੁੰਦਾ ਹੈ। ਮੈਨੂੰ ਹਿੰਦੁਸਤਾਨ ਉਤਨਾ ਹੀ ਪਿਆਰਾ ਹੈ ਜਿਤਨਾ ਕਿ ਮੈਨੂੰ ਆਪਣੇ ਅਡਿਆਲੇ ਪਿੰਡ ਦਾ ਕੱਚਾ ਕੋਠਾ ਅਤੇ ਉਸ ਵਿੱਚ ਵਸਦੇ ਬੰਦੇ ਪਿਆਰੇ ਹਨ। ਮੈਨੂੰ ਯਾਦ ਹੈ, ਜਦ ਮੈਂ ਰਾਵਲਪਿੰਡੀ ਪੜ੍ਹਦਾ ਹੁੰਦਾ ਸਾਂ ਤਾਂ ਹਰ ਹਫ਼ਤੇ ਐਤਵਾਰ ਕੱਟਣ ਨੂੰ ਆਪਣੇ ਪਿੰਡ ਜਾਂਦਾ ਹੁੰਦਾ ਸਾਂ ਤਾਂ ਪਿੰਡ ਦੀ ਪਿਆਰੀ ਝਾਕੀ ਅੱਖਾਂ ਦੇ ਸਾਹਮਣੇ ਆਉਣ ਤੋਂ ਪਹਿਲਾਂ ਮੈਂ ਉਸ ਟਿੱਬੇ ਕੋਲ ਠਹਿਰ ਜਾਂਦਾ ਸੀ ਅਤੇ ਦਿਲ ਨੂੰ ਚੰਗੀ ਤਰ੍ਹਾਂ ਤਿਆਰ ਕਰ ਕੇ ਪਿੰਡ ਵਲ ਝਾਕਣ ਦਾ ਹੀਆ ਕਰਦਾ ਸਾਂ। ਉਸ ਵਿੱਚ ਵਸਦੇ ਮੇਰੇ ਸੰਬੰਧੀ ਹੋਰ ਭੀ ਪਿਆਰੇ ਹਨ।

SubQuestion No : 99

Q.99 ਉਪਰੋਕਤ ਪਹਿਰੇ ਦਾ ਕੇਂਦਰੀ ਥੀਮ ਕੀ ਹੈ?

Ans

✓ 1. ਘਰ ਦਾ ਪਿਆਰ

✗ 2. ਦੋਸਤ ਦਾ ਪਿਆਰ

✗ 3. ਸਮਾਜ ਦਾ ਪਿਆਰ

✗ 4. ਦੇਸ਼ ਦਾ ਪਿਆਰ

Question ID : **630680241187**
Option 1 ID : **630680935199**
Option 2 ID : **630680935202**
Option 3 ID : **630680935201**
Option 4 ID : **630680935200**
Status : **Answered**
Chosen Option : **1**

Daily Job Alert ਪੰਜਾਬ

Comprehension:

ਘਰ ਤੋਂ ਭਾਵ ਉਹ ਥਾਂ ਹੈ, ਜਿੱਥੇ ਮਨੁੱਖ ਦੇ ਪਿਆਰ ਤੇ ਸਧਰਾਂ ਪਲਦੀਆਂ ਹਨ, ਜਿੱਥੇ ਬਾਲਪਨ ਵਿੱਚ ਮਾਂ ਭੈਣ ਤੇ ਭਰਾ ਕੋਲੋਂ ਲਾਡ ਲਿਆ ਹੁੰਦਾ ਹੈ, ਜਿੱਥੇ ਜਵਾਨੀ ਵਿੱਚ ਸਾਰੇ ਜਹਾਨ ਨੂੰ ਗਾਹ ਕੇ, ਲਿਤਾੜ ਕੇ, ਖਟੀ ਕਮਾਈ ਕਰ ਕੇ ਮੁੜ ਆਉਣ ਨੂੰ ਜੀ ਕਰਦਾ ਹੈ, ਜਿੱਥੇ ਬੁਢੇਪੇ ਵਿੱਚ ਬਹਿ ਕੇ ਸਾਰੇ ਜੀਵਨ ਦੇ ਝਮੇਲਿਆਂ ਤੋਂ ਮਿਲੀ ਵਿਹਲ ਨੂੰ ਅਰਾਮ ਨਾਲ ਕੱਟਣ ਵਿੱਚ ਇਉਂ ਸੁਆਦ ਆਉਂਦਾ ਹੈ। ਘਰ ਮਨੁੱਖ ਦੇ ਨਿਜੀ ਵਲਵਲਿਆਂ ਤੇ ਸ਼ਖ਼ਸੀ ਰਹਿਣੀ-ਬਹਿਣੀ ਦਾ ਕੇਂਦਰ ਹੁੰਦਾ ਹੈ। ਉਸ ਦੇ ਆਚਰਣ ਬਣਾਉਣ ਵਿੱਚ ਜਿੱਥੇ ਸਮਾਜਕ ਤੇ ਮੁਲਕੀ ਆਲੇ-ਦੁਆਲੇ ਦਾ ਅਸਰ ਕੰਮ ਕਰਦਾ ਹੈ ਅਤੇ ਮਨੁੱਖ ਦਾ ਆਚਰਣ ਬਣਦਾ ਹੀ ਘਰ ਵਿੱਚ ਹੈ। ਕਈ ਵਾਰੀ ਜਦ ਮੈਂ ਕਿਸੇ ਸਜਣ ਨੂੰ ਕੋਝੇ, ਸੜੀਅਲ ਜਾਂ ਖਿਝੂ ਸੁਭਾ ਵਾਲਾ ਦੇਖਦਾ ਹਾਂ ਤਾਂ ਮੈਂ ਦਿਲ ਵਿਚ ਕਹਿੰਦਾ ਹਾਂ, ਇਸ ਵਿਚਾਰੇ ਨੂੰ ਘਰ ਦਾ ਪਿਆਰ ਨਹੀਂ ਮਿਲਿਆ ਹੋਣਾ। ਘਰ ਦੇ ਪਿਆਰ ਤੋਂ ਹੀ ਸਮਾਜ ਅਤੇ ਦੇਸ ਦਾ ਪਿਆਰ ਪੈਦਾ ਹੁੰਦਾ ਹੈ। ਮੈਨੂੰ ਹਿੰਦੁਸਤਾਨ ਉਤਨਾ ਹੀ ਪਿਆਰਾ ਹੈ ਜਿਤਨਾ ਕਿ ਮੈਨੂੰ ਆਪਣੇ ਅਡਿਆਲੇ ਪਿੰਡ ਦਾ ਕੱਚਾ ਕੋਠਾ ਅਤੇ ਉਸ ਵਿੱਚ ਵਸਦੇ ਬੰਦੇ ਪਿਆਰੇ ਹਨ। ਮੈਨੂੰ ਯਾਦ ਹੈ, ਜਦ ਮੈਂ ਰਾਵਲਪਿੰਡੀ ਪੜ੍ਹਦਾ ਹੁੰਦਾ ਸਾਂ ਤਾਂ ਹਰ ਹਫ਼ਤੇ ਐਤਵਾਰ ਕੱਟਣ ਨੂੰ ਆਪਣੇ ਪਿੰਡ ਜਾਂਦਾ ਹੁੰਦਾ ਸਾਂ ਤਾਂ ਪਿੰਡ ਦੀ ਪਿਆਰੀ ਝਾਕੀ ਅੱਖਾਂ ਦੇ ਸਾਹਮਣੇ ਆਉਣ ਤੋਂ ਪਹਿਲਾਂ ਮੈਂ ਉਸ ਟਿੱਬੇ ਕੋਲ ਠਹਿਰ ਜਾਂਦਾ ਸੀ ਅਤੇ ਦਿਲ ਨੂੰ ਚੰਗੀ ਤਰ੍ਹਾਂ ਤਿਆਰ ਕਰ ਕੇ ਪਿੰਡ ਵਲ ਝਾਕਣ ਦਾ ਹੀਆ ਕਰਦਾ ਸਾਂ। ਉਸ ਵਿੱਚ ਵਸਦੇ ਮੇਰੇ ਸੰਬੰਧੀ ਹੋਰ ਭੀ ਪਿਆਰੇ ਹਨ।

SubQuestion No : 100

Q.100 ਘਰ ਕੀ ਹੈ?

Ans

✗ 1. ਜਿਥੇ ਉਸਦਾ ਵਿਆਹ ਹੋਇਆ

✓ 2. ਨਿੱਜੀ ਵਲਵਲਿਆਂ ਤੇ ਸ਼ਖਸੀ ਰਹਿਣੀ ਬਹਿਣੀ ਦਾ ਕੇਂਦਰ

✗ 3. ਇੱਟਾਂ ਦਾ ਮਕਾਨ

✗ 4. ਜਿਥੇ ਮਨੁੱਖ ਨੇ ਜਨਮ ਲਿਆ

Question ID : **630680241189**
Option 1 ID : **630680935209**
Option 2 ID : **630680935210**
Option 3 ID : **630680935207**
Option 4 ID : **630680935208**
Status : **Answered**
Chosen Option : **2**

DAILY JOB Alert ਪੰਜਾਬ

PUNJAB POLICE

Police to its last particle is duty

Exam Name	Recruitment for the post of Sub Inspector in Cadres of District and Armed Police 20th Jun to 31st Jul 2023 S2 Paper II and III
Application No	www.dailyjobalert.in
Roll No	Telegram - Daily Job Alert Punjab
Applicant Name	instagram - Daily Job Alert Punjab
Exam Date	02/07/2023
Shift	4:00 PM - 7:00 PM
Subject	Sub Inspector Paper II and III

Section : **Logical and Analytical Reasoning and Data Interpretation**

Q.1 **ਉਸ ਵਿਕਲਪ ਦੀ ਚੋਣ ਕਰੋ, ਜਿਸ ਵਿੱਚ ਸ਼ਬਦ ਉਹੀ ਸੰਬੰਧ ਸਾਂਝੇ ਕਰਦੇ ਹਨ ਜੋ ਸ਼ਬਦਾਂ ਦੇ ਦਿੱਤੇ ਜੋੜੇ ਦੁਆਰਾ ਸਾਂਝੇ ਕੀਤੇ ਗਏ ਹਨ।**

ਫੁੱਲ (Flowers) : ਗੁਲਦਸਤਾ (Bouquet)

Ans

✔ 1. ਮਲਾਹ (Sailors): ਜਹਾਜ਼ੀ ਅਮਲਾ(Crew)

✘ 2. ਦੰਗਾਈ (Rioters) : ਕਲੋਨੀ (Colony)

✘ 3. ਸੰਗੀਤਕਾਰ(Musician) : ਸਾਜ਼ (Instrument)

✘ 4. ਕੀਬੋਰਡ (Keyboard) : ਕੰਪਯੂਟਰ (Computer)

Question ID : **63068063299**
Option 1 ID : **630680244363**
Option 2 ID : **630680244364**
Option 3 ID : **630680244362**
Option 4 ID : **630680244365**
Status : **Answered**
Chosen Option : **2**

Website - www.dailyjobalert.in

Q.2 ਇੱਕ ਖਾਸ ਕੋਡ ਭਾਸ਼ਾ ਵਿੱਚ, 'JUTE' ਨੂੰ 'L3V5' ਵੱਜੋਂ ਲਿਖਿਆ ਗਿਆ ਹੈ, ਅਤੇ 'SILVER' ਨੂੰ 'U9N4G9' ਵੱਜੋਂ ਲਿਖਿਆ ਗਿਆ ਹੈ। ਉਸ ਭਾਸ਼ਾ ਵਿੱਚ 'GRIP' ਕਿਵੇਂ ਲਿਖਿਆ ਜਾਵੇਗਾ?

Ans
1. I8K7
2. I9J7
3. I9K8
4. I9K7 ✔

Question ID : **63068057453**
Option 1 ID : **630680221655**
Option 2 ID : **630680221657**
Option 3 ID : **630680221656**
Option 4 ID : **630680221654**
Status : **Answered**
Chosen Option : **4**

Q.3 ਇੱਕ ਖਾਸ ਕੋਡ ਭਾਸ਼ਾ ਵਿੱਚ, 'CRISP' ਨੂੰ '39917' ਵੱਜੋਂ ਲਿਖਿਆ ਗਿਆ ਹੈ, ਅਤੇ 'SOUP' ਨੂੰ '1637' ਵੱਜੋਂ ਲਿਖਿਆ ਗਿਆ ਹੈ। ਉਸ ਭਾਸ਼ਾ ਵਿੱਚ 'RATING' ਕਿਵੇਂ ਲਿਖਿਆ ਜਾਵੇਗਾ?

Ans
1. 912957 ✔
2. 911957
3. 912867
4. 912857

Question ID : **63068057450**
Option 1 ID : **630680221643**
Option 2 ID : **630680221642**
Option 3 ID : **630680221645**
Option 4 ID : **630680221644**
Status : **Answered**
Chosen Option : **1**

Q.4 ਸਾਗਰ, ਮਾਧੁਰੀ, ਟੀਆ, ਰੀਟਾ, ਜ਼ੈਨ ਅਤੇ ਨੇਹਾ ਛੇ ਦੋਸਤ ਹਨ। ਰੀਟਾ ਮਾਧੁਰੀ ਤੋਂ ਮਧਰੀ ਹੈ ਪਰ ਜ਼ੈਨ ਤੋਂ ਲੰਬੀ ਹੈ। ਸਾਗਰ ਸਭ ਤੋਂ ਲੰਬਾ ਹੈ। ਟੀਆ ਮਾਧੁਰੀ ਤੋਂ ਮਧਰੀ ਪਰ ਰੀਟਾ ਤੋਂ ਲੰਬੀ ਹੈ। ਨੇਹਾ ਸਭ ਤੋਂ ਮਧਰੀ ਹੈ। ਕਿੰਨੇ ਲੋਕ ਟੀਆ ਤੋਂ ਲੰਬੇ ਹਨ?

Ans
1. 2 ✔
2. 1
3. 3
4. 4

Question ID : **630680105766**
Option 1 ID : **630680411068**
Option 2 ID : **630680411069**
Option 3 ID : **630680411067**
Option 4 ID : **630680411070**
Status : **Answered**
Chosen Option : **1**

Website - www.dailyjobalert.in

Q.5 ਛੇ ਦੋਸਤ P, Q, R, S, T ਅਤੇ U ਹਨ, ਹਰੇਕ ਦੀ ਉਮਰ ਵੱਖਰੀ ਹੈ। Q ਸਾਰਿਆਂ ਵਿੱਚੋਂ ਸਭ ਤੋਂ ਛੋਟਾ ਨਹੀਂ ਹੈ। S, P ਅਤੇ Q ਤੋਂ ਵੱਡਾ R ਹੈ। T, Q ਅਤੇ P ਤੋਂ ਵੱਡਾ ਹੈ। U, T ਤੋਂ ਵੱਡਾ ਹੈ ਪਰ S ਤੋਂ ਛੋਟਾ ਹੈ।

ਸਾਰਿਆ ਵਿੱਚੋਂ ਸਭ ਤੋਂ ਛੋਟਾ ਕੌਣ ਹੈ?

Ans
✗ 1. T
✗ 2. Q
✓ 3. P
✗ 4. U

Question ID : **630680106332**
Option 1 ID : **630680413155**
Option 2 ID : **630680413156**
Option 3 ID : **630680413157**
Option 4 ID : **630680413154**
Status : **Answered**
Chosen Option : **3**

Q.6 ਦਿੱਤੀ ਗਈ ਲੜੀ ਵਿੱਚ ਪ੍ਰਸ਼ਨ ਚਿੰਨ੍ਹ (?) ਦੇ ਸਥਾਨ 'ਤੇ ਕੀ ਆਵੇਗਾ?
42, 32, 23, 15, ?

Ans
✗ 1. 5
✓ 2. 8
✗ 3. 10
✗ 4. 7

Question ID : **630680122731**
Option 1 ID : **630680475835**
Option 2 ID : **630680475834**
Option 3 ID : **630680475836**
Option 4 ID : **630680475837**
Status : **Answered**
Chosen Option : **2**

Q.7 ਅੱਖਰ-ਜੋੜਾ ਚੁਣੋ ਜੋ ਹੇਠਾਂ ਦਿੱਤੀ ਲੜੀ ਵਿੱਚ ਅੱਗੇ ਆਵੇਗਾ।
ML, OJ, QH, SF, ____

Ans
✓ 1. UD
✗ 2. RE
✗ 3. VD
✗ 4. SF

Question ID : **63068048607**
Option 1 ID : **630680187039**
Option 2 ID : **630680187040**
Option 3 ID : **630680187038**
Option 4 ID : **630680187041**
Status : **Answered**
Chosen Option : **1**

Website - www.dailyjobalert.in

Q.8 ਦਿੱਤੀ ਗਈ ਲੜੀ ਵਿੱਚ ਪ੍ਰਸ਼ਨ ਚਿੰਨ੍ਹ (?) ਦੇ ਸਥਾਨ 'ਤੇ ਕੀ ਆਵੇਗਾ?
1, 3, 6, 11, 20, ?

Ans
✗ 1. 39
✗ 2. 38
✗ 3. 36
✓ 4. 37

Question ID : **63068083908**
Option 1 ID : **630680325224**
Option 2 ID : **630680325225**
Option 3 ID : **630680325227**
Option 4 ID : **630680325226**
Status : **Answered**
Chosen Option : **4**

Q.9 ਦਿੱਤੇ ਗਏ ਅੱਖਰ-ਸਮੂਹ ਵਿੱਚ, ਖੱਬੇ ਸਿਰੇ ਤੋਂ ਦਸਵੇਂ ਅੱਖਰ ਦੇ ਸੱਜੇ ਪਾਸੇ ਤੋਂ ਦੂਜਾ ਅੱਖਰ ਕਿਹੜਾ ਹੈ?

(ਖੱਬਾ) L, D, A, X, W, Z, I, O, V, R, S, U, T, K, Y (ਸੱਜਾ)।

Ans
✗ 1. S
✗ 2. R
✗ 3. T
✓ 4. U

Question ID : **63068058165**
Option 1 ID : **630680224387**
Option 2 ID : **630680224386**
Option 3 ID : **630680224389**
Option 4 ID : **630680224388**
Status : **Answered**
Chosen Option : **4**

Q.10 ਦਿੱਤੇ ਗਏ ਅੱਖਰ-ਸਮੂਹ ਵਿੱਚ, ਖੱਬੇ ਸਿਰੇ ਤੋਂ ਪੰਜਵੇਂ ਅੱਖਰ ਦੇ ਸੱਜੇ ਪਾਸੇ ਦੂਜਾ ਅੱਖਰ ਕਿਹੜਾ ਹੈ?

(ਖੱਬਾ) G R O C F Q V B M E A Z (ਸੱਜਾ)

Ans
✗ 1. B
✗ 2. F
✓ 3. V
✗ 4. Q

Question ID : **630680172152**
Option 1 ID : **630680667047**
Option 2 ID : **630680667044**
Option 3 ID : **630680667045**
Option 4 ID : **630680667046**
Status : **Answered**
Chosen Option : **3**

Website - www.dailyjobalert.in

Q.11 Read the given statements and conclusions carefully. Assuming that the information given in the statements is true, even if it appears to be at variance with commonly known facts, decide which of the given conclusions logically follow(s) from the statements.
Statements:
I) All laptops are mice.
II) All mice are desktops
III) All keyboards are desktops.
Conclusions:
I) Some keyboards are mice.
II) Some desktops are mice.
III) Some desktops are laptops.

Ans
✔ 1. Conclusion II and III follow
✘ 2. Conclusion I and III follow
✘ 3. Only conclusion I follows
✘ 4. Conclusion I and II follow

Question ID : **630680105755**
Option 1 ID : **630680411025**
Option 2 ID : **630680411026**
Option 3 ID : **630680411023**
Option 4 ID : **630680411024**
Status : **Answered**
Chosen Option : **1**

Q.12 ਉਸ ਵਿਕਲਪ ਦੀ ਚੋਣ ਕਰੋ ਜੋ ਪੰਜਵੀਂ ਸੰਖਿਆ ਨਾਲ ਉਸੇ ਤਰ੍ਹਾਂ ਸੰਬੰਧਿਤ ਹੈ ਜਿਸ ਤਰ੍ਹਾਂ ਚੌਥੀ ਸੰਖਿਆ ਤੀਜੀ ਸੰਖਿਆ ਨਾਲ ਸੰਬੰਧਿਤ ਹੈ ਅਤੇ ਦੂਜੀ ਸੰਖਿਆ ਪਹਿਲੀ ਸੰਖਿਆ ਨਾਲ ਸੰਬੰਧਿਤ ਹੈ।
5 : 135 :: 8 : 522 :: 9 : ?

Ans
✘ 1. 743
✘ 2. 719
✘ 3. 723
✔ 4. 739

Question ID : **63068062318**
Option 1 ID : **630680240520**
Option 2 ID : **630680240519**
Option 3 ID : **630680240521**
Option 4 ID : **630680240518**
Status : **Answered**
Chosen Option : **4**

Q.13 ਕੁਝ ਵਿਅਕਤੀ ਇੱਕ ਕਤਾਰ ਵਿੱਚ ਉੱਤਰ ਵੱਲ ਮੂੰਹ ਕਰਕੇ ਬੈਠੇ ਹਨ। F, G ਦੇ ਸੱਜੇ ਪਾਸੇ ਦੂਜੇ ਸਥਾਨ 'ਤੇ ਬੈਠਾ ਹੈ। A ਅਤੇ B ਵਿਚਕਾਰ ਸਿਰਫ਼ ਇੱਕ ਵਿਅਕਤੀ ਬੈਠਾ ਹੈ। G, D ਦੇ ਸੱਜੇ ਪਾਸੇ ਤੀਜੇ ਸਥਾਨ 'ਤੇ ਬੈਠਾ ਹੈ। B, C ਦੇ ਖੱਬੇ ਚੌਥੇ ਸਥਾਨ 'ਤੇ ਬੈਠਾ ਹੈ। E, A ਦੇ ਠੀਕ ਖੱਬੇ ਪਾਸੇ ਬੈਠਾ ਹੈ। D, C ਦੇ ਸੱਜੇ ਪਾਸੇ ਦੂਜੇ ਸਥਾਨ 'ਤੇ ਬੈਠਾ ਹੈ। E ਅਤੇ F ਕਤਾਰ ਦੇ ਸਿਰਿਆਂ 'ਤੇ ਬੈਠੇ ਹਨ। ਜੇਕਰ ਕਤਾਰ ਵਿੱਚ ਕੋਈ ਹੋਰ ਵਿਅਕਤੀ ਨਹੀਂ ਬੈਠਾ ਹੈ, ਤਾਂ ਕੁੱਲ ਕਿੰਨੇ ਵਿਅਕਤੀ ਬੈਠੇ ਹਨ?

Ans
✔ 1. 15
✘ 2. 14
✘ 3. 16
✘ 4. 13

Question ID : **630680112291**
Option 1 ID : **630680434880**
Option 2 ID : **630680434879**
Option 3 ID : **630680434881**
Option 4 ID : **630680434878**
Status : **Answered**
Chosen Option : **2**

Website - www.dailyjobalert.in

Q.14 ਨਿਮਨਲਿਖਤ ਚਾਰ ਵਿੱਚੋਂ ਤਿੰਨ ਇੱਕ ਖਾਸ ਤਰੀਕੇ ਨਾਲ ਇੱਕੋ ਜਿਹੇ ਹਨ ਅਤੇ ਇਸ ਤਰ੍ਹਾਂ ਇੱਕ ਸਮੂਹ ਬਣਾਉਂਦੇ ਹਨ। ਉਹ ਕਿਹੜਾ ਹੈ ਜੋ ਉਸ ਸਮੂਹ ਨਾਲ ਸਬੰਧਤ ਨਹੀਂ ਹੈ?

Ans
1. QOSQU
2. VTXVZ
3. GEIGK
4. AZCAD ✔

Question ID : **630680104899**
Option 1 ID : **630680407728**
Option 2 ID : **630680407729**
Option 3 ID : **630680407727**
Option 4 ID : **630680407730**
Status : **Answered**
Chosen Option : **4**

Q.15 ਸੰਖਿਆ 9654032718 ਵਿੱਚ, ਜੇਕਰ ਪਹਿਲੇ ਅੰਕ ਨੂੰ ਆਖਰੀ ਅੰਕ ਨਾਲ ਬਦਲਿਆ ਜਾਂਦਾ ਹੈ, ਦੂਜੇ ਅੰਕ ਨੂੰ ਅਖੀਰ ਤੋਂ ਦੂਜੇ (second last) ਅੰਕ ਨਾਲ ਬਦਲਿਆ ਜਾਂਦਾ ਹੈ, ਅਤੇ ਇਸੇ ਤਰ੍ਹਾਂ ਹੀ ਬਾਕੀ ਅੰਕਾਂ ਨੂੰ ਆਪਸ ਵਿੱਚ ਬਦਲਦਿਆਂ, ਕਿੰਨੇ ਅੰਕਾਂ ਦੀ ਸਥਿਤੀ ਉਹੀ ਰਹੇਗੀ?

Ans
1. 0 ✔
2. 5
3. 4
4. 3

Question ID : **630680107146**
Option 1 ID : **630680415981**
Option 2 ID : **630680415983**
Option 3 ID : **630680415982**
Option 4 ID : **630680415980**
Status : **Answered**
Chosen Option : **1**

Q.16 Town M is to the south of town N. Town O is to the east of town M. Town P is to the north of town O. Town Q is to the north of town P. Town R is to the west of town Q. What is the position of town M with respect to town P?

Ans
1. South - east
2. North - east
3. South - west ✔
4. North - west

Question ID : **630680166397**
Option 1 ID : **630680644542**
Option 2 ID : **630680644543**
Option 3 ID : **630680644540**
Option 4 ID : **630680644541**
Status : **Answered**
Chosen Option : **3**

Website - www.dailyjobalert.in

Q.17 ਦਿੱਤੇ ਪਾਈ ਚਾਰਟ ਦਾ ਅਧਿਐਨ ਕਰੋ ਅਤੇ ਦਿੱਤੇ ਸਵਾਲ ਦਾ ਜਵਾਬ ਦਿਓ।
ਦਿੱਤਾ ਪਾਈ ਚਾਰਟ, ਇੱਕ ਸਕੂਲ ਵਿੱਚ, ਇਕੱਠੇ ਚਾਰ ਦਿਨਾਂ 'ਤੇ ਹਾਜ਼ਿਰ ਕੁੜੀਆਂ ਦੀ ਕੁਲ ਸੰਖਿਆ (ਜੋ 360 ਹੈ) ਵਿੱਚੋਂ, ਚਾਰ ਦਿਨਾਂ 'ਤੇ ਹਾਜ਼ਿਰ ਕੁੜੀਆਂ ਦੀ ਸੰਖਿਆ ਦਰਸਾਉਂਦਾ ਹੈ।

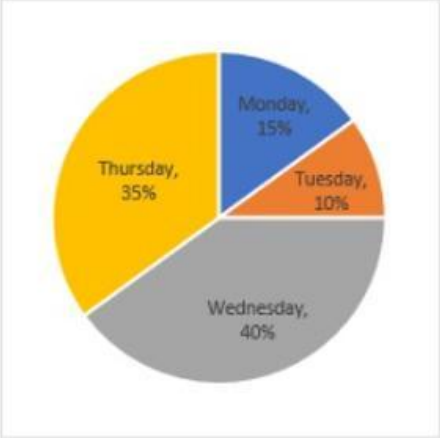

(Monday= ਸੋਮਵਾਰ,Tuesday=ਮੰਗਲਵਾਰ, Wednesday=ਬੁੱਧਵਾਰ, Thursday=ਵੀਰਵਾਰ)
ਜੇ ਬੁੱਧਵਾਰ ਅਤੇ ਵੀਰਵਾਰ ਨੂੰ ਹਾਜ਼ਿਰ ਮੁੰਡਿਆਂ ਦੀ ਕੁਲ ਸੰਖਿਆ 98 ਅਤੇ 105 ਸੀ, ਕ੍ਰਮਵਾਰ, ਇਕੱਠੇ ਬੁੱਧਵਾਰ ਅਤੇ ਵੀਰਵਾਰ ਨੂੰ ਕਿੰਨੇ ਵਿਦਯਾਰਥੀ (ਮੁੰਡੇ + ਕੁੜੀਆਂ) ਹਾਜ਼ਿਰ ਸੀ?

Ans
✗ 1. 481
✓ 2. 473
✗ 3. 475
✗ 4. 486

Question ID : **630680182833**
Option 1 ID : **630680708440**
Option 2 ID : **630680708439**
Option 3 ID : **630680708437**
Option 4 ID : **630680708438**
Status : **Answered**
Chosen Option : **2**

Q.18 ਇੱਕ ਖਾਸ ਢੰਗ ਨਾਲ MT18, NG9 ਨਾਲ ਸੰਬੰਧਿਤ ਹੈ। ਇਸੇ ਤਰ੍ਹਾਂ QX14, JC7 ਨਾਲ ਸੰਬੰਧਿਤ ਹੈ। ਉਸੇ ਤਰਕ ਦੀ ਵਰਤੋਂ ਕਰਦੇ ਹੋਏ, ਹੇਠਾਂ ਦਿੱਤਿਆਂ ਵਿੱਚੋਂ AP22 ਕਿਸ ਨਾਲ ਸੰਬੰਧਿਤ ਹੈ?

Ans
✗ 1. ZL11
✗ 2. JZ11
✓ 3. ZK11
✗ 4. ZK12

Question ID : **63068062321**
Option 1 ID : **630680240533**
Option 2 ID : **630680240530**
Option 3 ID : **630680240531**
Option 4 ID : **630680240532**
Status : **Answered**
Chosen Option : **3**

Website - www.dailyjobalert.in

Q.19 18 ਇੱਕ ਨਿਸ਼ਚਿਤ ਤਰਕ ਅਨੁਸਾਰ 99 ਨਾਲ ਸੰਬੰਧਿਤ ਹੈ। ਉਸੇ ਤਰਕ ਅਨੁਸਾਰ 24, 168 ਨਾਲ ਸੰਬੰਧਿਤ ਹੈ।. ਉਸੇ ਤਰਕ ਦੀ ਵਰਤੋਂ ਕਰਦੇ ਹੋਏ 28 ਹੇਠ ਲਿਖਿਆਂ ਵਿੱਚੋਂ ਕਿਸ ਨਾਲ ਸੰਬੰਧਿਤ ਹੈ?

Ans
✗ 1. 250
✗ 2. 196
✗ 3. 204
✓ 4. 224

Question ID : **63068058976**
Option 1 ID : **630680227527**
Option 2 ID : **630680227528**
Option 3 ID : **630680227526**
Option 4 ID : **630680227529**
Status : **Answered**
Chosen Option : **4**

Q.20 ਜੇਕਰ ਹਰ ਸ਼ਨੀਵਾਰ ਅਤੇ ਐਤਵਾਰ ਨੂੰ ਛੁੱਟੀ ਹੁੰਦੀ ਹੈ, ਤਾਂ ਇੱਕ ਮਹੀਨੇ ਵਿੱਚ ਕਿੰਨੇ ਕੰਮਕਾਜੀ ਦਿਨ ਹੋਣਗੇ ਜੋ ਮਹੀਨਾ ਐਤਵਾਰ ਤੋਂ ਸ਼ੁਰੂ ਹੋਵੇ ਅਤੇ ਉਸ ਵਿੱਚ 31 ਦਿਨ ਹੋਣ?

Ans
✗ 1. 23
✓ 2. 22
✗ 3. 21
✗ 4. 20

Question ID : **630680117487**
Option 1 ID : **630680455197**
Option 2 ID : **630680455196**
Option 3 ID : **630680455195**
Option 4 ID : **630680455194**
Status : **Answered**
Chosen Option : **2**

Q.21 ਉਸ ਵਿਕਲਪ ਦੀ ਚੋਣ ਕਰੋ ਜਿਸ ਵਿੱਚ ਤਿੱਕੜੀ ਉਹੀ ਰਿਸ਼ਤਾ ਸਾਂਝਾ ਕਰਦੀ ਹੈ ਜੋ ਦਿੱਤੇ ਗਈ ਤਿੱਕੜੀ ਵੱਲੋਂ ਸਾਂਝਾ ਕੀਤਾ ਗਿਆ ਹੈ।
SILK – ILKS – KSIL

Ans
✗ 1. NOTE – OTEN – ENTO
✓ 2. SING – INGS - GSIN
✗ 3. FIND – IDNF – DFIN
✗ 4. TIRE – IRET - ERIT

Question ID : **63068050133**
Option 1 ID : **630680192855**
Option 2 ID : **630680192857**
Option 3 ID : **630680192856**
Option 4 ID : **630680192854**
Status : **Answered**
Chosen Option : **2**

Website - www.dailyjobalert.in

Q.22 ਦਿੱਤੀ ਗਈ ਲੜੀ ਨੂੰ ਤਰਕਸੰਗਤ ਢੰਗ ਪੂਰਾ ਕਰਨ ਲਈ, ਇਸ ਵਿੱਚ ਪ੍ਰਸ਼ਨ ਚਿੰਨ੍ਹ (?) ਦੀ ਥਾਂ 'ਤੇ ਕੀ ਆਵੇਗਾ?
M12N, L16O, K20P, J24Q, ?

Ans
1. U30P
2. I28R
3. I30R
4. H28S

Question ID : **630680127180**
Option 1 ID : **630680493150**
Option 2 ID : **630680493151**
Option 3 ID : **630680493152**
Option 4 ID : **630680493149**
Status : **Answered**
Chosen Option : **2**

Q.23 ਸੂਰਜ ਚੜ੍ਹਨ ਵੇਲੇ, ਸੰਜੇ ਅਤੇ ਰਵੀ ਇੱਕ ਦੂਜੇ ਦੇ ਵੱਲ ਮੂੰਹ ਕਰਕੇ ਖੜ੍ਹੇ ਹਨ। ਸੰਜੇ ਦਾ ਪਰਛਾਵਾਂ ਰਵੀ ਦੇ ਸੱਜੇ ਪਾਸੇ ਬਣਦਾ ਹੈ। ਸੰਜੇ ਦਾ ਮੂੰਹ ਕਿਸ ਦਿਸ਼ਾ ਵੱਲ ਹੈ?

Ans
1. ਪੱਛਮ
2. ਪੂਰਬ
3. ਉੱਤਰ
4. ਦੱਖਣ

Question ID : **630680106027**
Option 1 ID : **630680412008**
Option 2 ID : **630680412007**
Option 3 ID : **630680412009**
Option 4 ID : **630680412010**
Status : **Answered**
Chosen Option : **3**

Website - www.dailyjobalert.in

Q.24 ਛੇ ਅੱਖਰ A, B, C, D, E ਅਤੇ F ਇੱਕ ਡਾਈਸ ਦੇ ਵੱਖ-ਵੱਖ ਪਾਸਿਆਂ 'ਤੇ ਲਿਖੇ ਹੋਏ ਹਨ। ਹੇਠਾਂ ਦਿੱਤੇ ਚਿੱਤਰ ਵਿੱਚ ਇਸ ਡਾਈਸ ਦੀਆਂ ਦੋ ਸਥਿਤੀਆਂ ਦਿਖਾਈਆਂ ਗਈਆਂ ਹਨ। F ਦੇ ਉਲਟ ਪਾਸੇ ਦਾ ਅੱਖਰ ਪਤਾ ਕਰੋ।

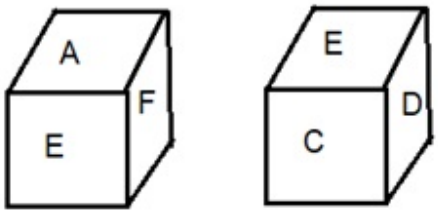

Ans
✗ 1. E
✓ 2. C
✗ 3. B
✗ 4. D

Question ID : **630680187296**
Option 1 ID : **630680726136**
Option 2 ID : **630680726133**
Option 3 ID : **630680726135**
Option 4 ID : **630680726134**
Status : **Answered**
Chosen Option : **2**

Q.25 ਇੱਕ ਖਾਸ ਕੋਡ ਭਾਸ਼ਾ ਵਿੱਚ, TOWEL ਨੂੰ 12345 ਵਜੋਂ ਅਤੇ WELCOME ਨੂੰ 3456284 ਵਜੋਂ ਲਿਖਿਆ ਜਾਂਦਾ ਹੈ। ਉਸੇ ਭਾਸ਼ਾ ਵਿੱਚ COOL ਨੂੰ ਕਿਵੇਂ ਲਿਖਿਆ ਜਾਵੇਗਾ?

Ans
✗ 1. 6235
✓ 2. 6225
✗ 3. 3224
✗ 4. 6224

Question ID : **630680134275**
Option 1 ID : **630680519946**
Option 2 ID : **630680519948**
Option 3 ID : **630680519949**
Option 4 ID : **630680519947**
Status : **Answered**
Chosen Option : **2**

Website - www.dailyjobalert.in

Q.26 A, B, C, D, E ਅਤੇ F ਵੱਖ-ਵੱਖ ਉਮਰਾਂ ਦੇ ਹਨ। B, F ਤੋਂ ਦੋ ਸਾਲ ਛੋਟਾ ਹੈ ਅਤੇ C ਤੋਂ 20 ਸਾਲ ਵੱਡਾ ਹੈ। C, D ਤੋਂ ਪੰਜ ਸਾਲ ਵੱਡਾ ਹੈ। E, B ਤੋਂ ਦੋ ਸਾਲ ਛੋਟਾ ਹੈ। A, F ਤੋਂ 3 ਸਾਲ ਵੱਡਾ ਹੈ। D ਦੀ ਉਮਰ, A ਦੀ ਉਮਰ ਦਾ ਵਰਗ ਮੂਲ ਹੈ ਜੋ ਕਿ 36 ਹੈ। 2 ਸਾਲਾਂ ਬਾਅਦ, A ਦੂਜੇ ਦੇਸ਼ ਵਿੱਚ ਜਾਂਦਾ ਹੈ ਅਤੇ F ਅਤੇ C, D ਦੀ ਦੇਖਭਾਲ ਕਰਦੇ ਹਨ। ਹੋਰ 2 ਸਾਲਾਂ ਬਾਅਦ, C ਨੂੰ ਦੂਜੇ ਦੇਸ਼ ਵਿੱਚ ਜਾਣਾ ਪੈਂਦਾ ਹੈ ਅਤੇ F ਨੂੰ D ਦੀ ਦੇਖਭਾਲ ਕਰਨੀ ਪੈਂਦੀ ਹੈ। B, F ਦੀ ਮਦਦ ਲਈ ਆਉਂਦਾ ਹੈ। ਤਿੰਨ ਸਾਲਾਂ ਬਾਅਦ, B ਯਾਤਰਾ ਕਰਦਾ ਹੈ, ਇਸ ਲਈ, E, F ਦੀ ਮਦਦ ਲਈ ਆਉਂਦਾ ਹੈ। ਇੱਕ ਸਾਲ ਬਾਅਦ, F ਯਾਤਰਾ ਕਰਦਾ ਹੈ, ਇਸ ਲਈ, E ਅਤੇ D ਇਕੱਠੇ ਰਹਿੰਦੇ ਹਨ। 7 ਸਾਲਾਂ ਬਾਅਦ ਇੱਕ ਅਸਮਾਨਤਾ ਵਿੱਚ A, B ਅਤੇ C ਦੀ ਉਮਰਾਂ ਦੇ ਵਿਚਕਾਰ ਦੇ ਸੰਬੰਧਾਂ ਨੂੰ ਦਰਸਾਓ।

Ans
✔ 1. A > B > C
✘ 2. A < B > C
✘ 3. A < B < C
✘ 4. A > B < C

Question ID : **63068078957**
Option 1 ID : **630680305865**
Option 2 ID : **630680305866**
Option 3 ID : **630680305867**
Option 4 ID : **630680305868**
Status : **Not Answered**
Chosen Option : **--**

Q.27 ਉਸ ਵਿਕਲਪ ਦੀ ਚੋਣ ਕਰੋ ਜਿਸ ਵਿੱਚ ਸੰਖਿਆਵਾਂ ਉਸੇ ਤਰ੍ਹਾਂ ਆਪਸ ਵਿੱਚ ਸੰਬੰਧਿਤ ਹੋਣ ਜਿਸ ਤਰ੍ਹਾਂ ਦਿੱਤੀ ਗਈ ਤਿੱਕੜੀ ਵਿੱਚ ਸੰਖਿਆਵਾਂ ਆਪਸ ਵਿੱਚ ਸੰਬੰਧਿਤ ਹਨ।
(81 : 54 : 27)
(39 : 26 : 13)

Ans
✘ 1. (22 : 33 : 11)
✘ 2. (20 : 10 : 5)
✘ 3. (42 : 26 : 14)
✔ 4. (57 : 38 : 19)

Question ID : **63068062247**
Option 1 ID : **630680240285**
Option 2 ID : **630680240282**
Option 3 ID : **630680240283**
Option 4 ID : **630680240284**
Status : **Answered**
Chosen Option : **4**

DAILY JOB Alert ਪੰਜਾਬ

Q.28 70 ਕਾਰਾਂ ਖੱਬੇ ਤੋਂ ਸੱਜੇ ਇੱਕ ਸਿੱਧੀ ਲਾਈਨ ਵਿੱਚ ਵਿਵਸਥਿਤ ਕੀਤੀਆਂ ਗਈਆਂ ਹਨ। ਵਤਸਾਲਾ ਦੀ ਕਾਰ ਖੱਬੇ ਸਿਰੇ ਤੋਂ 27ਵੇਂ ਨੰਬਰ 'ਤੇ ਸੀ। ਸੱਜੇ ਸਿਰੇ ਤੋਂ ਇਸਦੀ ਸਥਿਤੀ ਕੀ ਹੋਵੇਗੀ?

Ans
✔ 1. 44ਵੀਂ
✘ 2. 45ਵੀਂ
✘ 3. 42ਵੀਂ
✘ 4. 43ਵੀਂ

Question ID : **630680138934**
Option 1 ID : **630680537889**
Option 2 ID : **630680537888**
Option 3 ID : **630680537887**
Option 4 ID : **630680537886**
Status : **Answered**
Chosen Option : **1**

Q.29 ਹੇਠਾਂ ਦਿੱਤੇ ਹਫ਼ਤੇ ਦੇ ਦਿਨਾਂ ਵਿੱਚੋਂ 1 ਮਈ 2002 ਨੂੰ ਕਿਹੜਾ ਦਿਨ ਸੀ?

Ans
✘ 1. ਸ਼ੁੱਕਰਵਾਰ
✔ 2. ਬੁੱਧਵਾਰ
✘ 3. ਮੰਗਲਵਾਰ
✘ 4. ਵੀਰਵਾਰ

Question ID : **63068058565**
Option 1 ID : **630680225909**
Option 2 ID : **630680225907**
Option 3 ID : **630680225906**
Option 4 ID : **630680225908**
Status : **Answered**
Chosen Option : **2**

Q.30 ਕਿਸੇ ਖਾਸ ਕੋਡ ਭਾਸ਼ਾ ਵਿੱਚ, 'EVIL' ਨੂੰ '3-20-7-10' ਵਜੋਂ ਅਤੇ 'DONE' ਨੂੰ '2-13-12-3' ਵਜੋਂ ਕੋਡਬੱਧ ਕੀਤਾ ਗਿਆ ਹੈ। ਉਸੇ ਭਾਸ਼ਾ ਵਿੱਚ 'FILM' ਨੂੰ ਕਿਵੇਂ ਕੋਡਬੱਧ ਕੀਤਾ ਜਾਵੇਗਾ?

Ans
✔ 1. 4-7-10-11
✘ 2. 6-9-12-13
✘ 3. 4-7-12-11
✘ 4. 6-7-10-13

Question ID : **630680158225**
Option 1 ID : **630680612428**
Option 2 ID : **630680612431**
Option 3 ID : **630680612429**
Option 4 ID : **630680612430**
Status : **Answered**
Chosen Option : **1**

Website - www.dailyjobalert.in

Q.31 ਦਿੱਤੀ ਗਈ ਜਾਣਕਾਰੀ ਨੂੰ ਪੜ੍ਹੋ ਅਤੇ ਦਿੱਤੇ ਪ੍ਰਸ਼ਨ ਦਾ ਉੱਤਰ ਦਿਓ।

•'P @ Q' ਦਾ ਮਤਲਬ ਹੈ ਕਿ 'P, Q ਦੀ ਭੈਣ ਹੈ'

•'P $ Q' ਦਾ ਮਤਲਬ ਹੈ ਕਿ 'P, Q ਦਾ ਪੁੱਤਰ ਹੈ'

•'P % Q' ਦਾ ਮਤਲਬ ਹੈ ਕਿ 'P, Q ਦੀ ਪਤਨੀ ਹੈ'

•'P# Q' ਦਾ ਮਤਲਬ ਹੈ ਕਿ 'P, Q ਦਾ ਪਤੀ ਹੈ'

ਦਿੱਤੀ ਜਾਣਕਾਰੀ ਦੇ ਆਧਾਰ 'ਤੇ, E ਦਾ A ਨਾਲ ਕੀ ਰਿਸ਼ਤਾ ਹੈ ਜੇਕਰ 'A % B $ C @ D # E'?

Ans
✔ 1. ਸੱਸ ਦੇ ਭਰਾ ਦੀ ਪਤਨੀ (Mother-in-law's brother's wife)

✘ 2. ਭਰਾ ਦੀ ਪਤਨੀ ਦੀ ਮਾਂ (Brother's wife's mother)v

✘ 3. ਫੁੱਫੜ (Father's sister's husband)

✘ 4. ਭੈਣ ਦੇ ਪਤੀ ਦਾ ਪਿਤਾ (Sister's husband's father)

Question ID : **630680119374**
Option 1 ID : **630680462586**
Option 2 ID : **630680462587**
Option 3 ID : **630680462588**
Option 4 ID : **630680462589**
Status : **Not Answered**
Chosen Option : **--**

Q.32 ਜੇਕਰ ਰਾਣੀ ਦੀ ਮਾਂ, ਸੋਨੂੰ ਦੀ ਮਾਂ ਦੀ ਧੀ ਹੈ ਤਾਂ ਰਾਣੀ ਦਾ ਸੋਨੂੰ ਨਾਲ ਕੀ ਰਿਸ਼ਤਾ ਹੈ?

Ans
✘ 1. ਭਰਾ (Brother)

✔ 2. ਭਾਣਜੀ (Sister's daughter)

✘ 3. ਭੈਣ (Sister)

✘ 4. ਪਿਤਾ (Father)

Question ID : **630680125620**
Option 1 ID : **630680487144**
Option 2 ID : **630680487142**
Option 3 ID : **630680487143**
Option 4 ID : **630680487145**
Status : **Answered**
Chosen Option : **2**

DAILY JOB Alert ਪੰਜਾਬ

Q.33 ਉਸ ਵਿਕਲਪ ਦੀ ਚੋਣ ਕਰੋ, ਜਿਸ ਵਿੱਚ ਸ਼ਬਦ ਉਹੀ ਸੰਬੰਧ ਸਾਂਝੇ ਕਰਦੇ ਹਨ ਜੋ ਸ਼ਬਦਾਂ ਦੇ ਦਿੱਤੇ ਜੋੜੇ ਦੁਆਰਾ ਸਾਂਝੇ ਕੀਤੇ ਗਏ ਹਨ।

ਸਾਧਵੀ(Nun) : ਸਾਧੂ (Monk)

Ans
1. ਜਾਦੂ (Magic) : ਜਾਦੂਗਰ (Wizard)
2. ਬਤਕ (Duck) : ਹੰਸ (Gander)
3. ਲੂੰਬੜੀ (Vixen) : ਨਰ ਬਤਕ(Drake)
4. ਕੁਆਰੀ (Spinster) : ਕੁਆਰਾ(Bachelor)

Question ID : **63068063306**
Option 1 ID : **630680244392**
Option 2 ID : **630680244390**
Option 3 ID : **630680244393**
Option 4 ID : **630680244391**
Status : **Answered**
Chosen Option : **4**

Q.34 ਦਿੱਤੇ ਗਏ ਵਿਕਲਪਾਂ ਵਿੱਚੋਂ ਅੱਖਰ-ਅੰਕੀ ਪਦ ਚੁਣੋ ਜੋ ਹੇਠਾਂ ਦਿੱਤੀ ਲੜੀ ਵਿੱਚ ਪ੍ਰਸ਼ਨ ਚਿੰਨ੍ਹ (?) ਨੂੰ ਬਦਲ ਸਕਦਾ ਹੈ।
2U4, 3B6,4I8, 5P10, ?

Ans
1. 6X12
2. 6W11
3. 6W12
4. 6V12

Question ID : **63068053434**
Option 1 ID : **630680205801**
Option 2 ID : **630680205798**
Option 3 ID : **630680205799**
Option 4 ID : **630680205800**
Status : **Answered**
Chosen Option : **3**

Q.35 ਅੱਖਰਾਂ ਦੇ ਸੁਮੇਲ ਦੀ ਚੋਣ ਕਰੋ ਜੋ ਦਿੱਤੀ ਗਈ ਲੜੀ ਦੇ ਖਾਲੀ ਸਥਾਨਾਂ ਵਿੱਚ ਕ੍ਰਮਵਾਰ ਰੱਖੇ ਜਾਣ 'ਤੇ ਲੜੀ ਪੂਰੀ ਕਰਨਗੇ।
_C_FD G_J_I LM_PN _QS_R T_WX_

Ans
1. BEKHOPTUV
2. BEHKPOTUV
3. BEHKOPTUV
4. BEHKPOTVU

Question ID : **63068060463**
Option 1 ID : **630680233388**
Option 2 ID : **630680233387**
Option 3 ID : **630680233389**
Option 4 ID : **630680233386**
Status : **Not Answered**
Chosen Option : **--**

Website - www.dailyjobalert.in

Q.36 ਅੱਖਰਾਂ ਦੇ ਸੁਮੇਲ ਦੀ ਚੋਣ ਕਰੋ ਜੋ ਦਿੱਤੀ ਗਈ ਲੜੀ ਦੇ ਖਾਲੀ ਸਥਾਨ ਵਿੱਚ ਕ੍ਰਮਵਾਰ ਰੱਖੇ ਜਾਣ ਨਾਲ ਲੜੀ ਨੂੰ ਪੂਰਾ ਕਰੇਗਾ।
BDE_ H_KL _PQR TV_X

Ans
1. CINU
2. FJMU
3. CIMW
4. FJNW

Question ID : **630680107956**
Option 1 ID : **630680419005**
Option 2 ID : **630680419004**
Option 3 ID : **630680419007**
Option 4 ID : **630680419006**
Status : **Not Answered**
Chosen Option : **--**

Comprehension:

Read the given information and answer the questions that follows.

M, N, O, P, Q, R and S are seven people sitting in a row facing towards the north. R is to the immediate right of Q. Q is fourth to the right of S. O is the neighbour of N and P. The person who is third to the left of P is at one of the ends.

SubQuestion No : 37

Q.37 **Who is sitting at the extreme left of the row?**

Ans
1. S
2. P
3. M
4. O

Question ID : **63068082620**
Option 1 ID : **630680320469**
Option 2 ID : **630680320471**
Option 3 ID : **630680320468**
Option 4 ID : **630680320470**
Status : **Answered**
Chosen Option : **1**

Website - www.dailyjobalert.in

Comprehension:

ਦਿੱਤੀ ਗਈ ਜਾਣਕਾਰੀ ਨੂੰ ਪੜ੍ਹੋ ਅਤੇ ਦਿੱਤੇ ਪ੍ਰਸ਼ਨਾਂ ਦੇ ਉੱਤਰ ਦਿਓ।

M, N, O, P, Q, R ਅਤੇ S ਸੱਤ ਵਿਅਕਤੀ ਹਨ ਜੋ ਉੱਤਰ ਵੱਲ ਮੂੰਹ ਕਰਕੇ ਇੱਕ ਕਤਾਰ ਵਿੱਚ ਬੈਠੇ ਹਨ। R, Q ਦੇ ਠੀਕ ਸੱਜੇ ਪਾਸੇ ਬੈਠਾ ਹੈ। Q, S ਦੇ ਸੱਜੇ ਪਾਸੇ ਤੋਂ ਚੌਥੇ ਸਥਾਨ 'ਤੇ ਬੈਠਾ ਹੈ। O, N ਅਤੇ P ਦੇ ਨਾਲ ਬੈਠਾ ਹੈ। ਉਹ ਵਿਅਕਤੀ ਜੋ P ਦੇ ਖੱਬੇ ਪਾਸੇ ਤੀਜੇ ਸਥਾਨ 'ਤੇ ਹੈ, ਇੱਕ ਸਿਰੇ 'ਤੇ ਬੈਠਾ ਹੈ।

SubQuestion No : 38

Q.38 O ਅਤੇ Q ਵਿਚਕਾਰ ਕੌਣ ਬੈਠਾ ਹੈ?

Ans
✔ 1. P
✘ 2. Q
✘ 3. R
✘ 4. S

Question ID : **63068082621**
Option 1 ID : **630680320472**
Option 2 ID : **630680320473**
Option 3 ID : **630680320474**
Option 4 ID : **630680320475**
Status : **Answered**
Chosen Option : **1**

Comprehension:

1, 2, 3, 4, 5 ਅਤੇ 6 ਨੰਬਰ ਵਾਲੀਆਂ ਲਿਫਟਾਂ ਵਿੱਚੋਂ ਹਰੇਕ ਨੂੰ, ਇੱਕ ਕਮਿਊਨਿਟੀ ਵਿੱਚ ਹਫ਼ਤੇ ਦੇ ਵੱਖਰੇ-ਵੱਖਰੇ ਦਿਨ ਵਰਤਿਆ ਜਾਵੇਗਾ, ਉਸੇ ਹਫ਼ਤੇ ਦੇ ਸੋਮਵਾਰ ਤੋਂ ਸ਼ੁਰੂ ਹੋ ਕੇ ਅਤੇ ਸ਼ਨੀਵਾਰ ਨੂੰ ਸਮਾਪਤ ਹੋਂਦੇ ਹੋਏ। ਲਿਫਟ 5 ਵੀਰਵਾਰ ਨੂੰ ਵਰਤੀ ਜਾਵੇਗੀ ਅਤੇ ਲਿਫਟ 3 ਸੋਮਵਾਰ ਨੂੰ ਵਰਤੀ ਜਾਵੇਗੀ। ਲਿਫਟ 2 ਦੀ ਵਰਤੋਂ 5 ਤੋਂ ਤੁਰੰਤ ਪਹਿਲਾਂ ਕੀਤੀ ਜਾਵੇਗੀ ਅਤੇ ਲਿਫਟ 1 ਦੀ ਵਰਤੋਂ 5 ਤੋਂ ਤੁਰੰਤ ਬਾਅਦ ਕੀਤੀ ਜਾਵੇਗੀ। ਸਭ ਤੋਂ ਵੱਧ ਨੰਬਰ ਵਾਲੀ ਲਿਫਟ ਦੀ ਵਰਤੋਂ ਆਖਰੀ ਦਿਨ 'ਤੇ ਕੀਤੀ ਜਾਵੇਗੀ।

SubQuestion No : 39

Q.39 ਹੇਠਾਂ ਦਿੱਤੇ ਦਿਨਾਂ ਵਿੱਚੋਂ ਕਿਸ ਦਿਨ ਲਿਫਟ 4 ਦੀ ਵਰਤੋਂ ਕੀਤੀ ਜਾਵੇਗੀ?

Ans
✘ 1. ਸ਼ੁੱਕਰਵਾਰ
✘ 2. ਵੀਰਵਾਰ
✔ 3. ਮੰਗਲਵਾਰ
✘ 4. ਸ਼ਨੀਵਾਰ

Question ID : **63068083592**
Option 1 ID : **630680324022**
Option 2 ID : **630680324020**
Option 3 ID : **630680324021**
Option 4 ID : **630680324023**
Status : **Answered**
Chosen Option : **3**

DAILY JOB Alert ਪੰਜਾਬ

Comprehension:

1, 2, 3, 4, 5 ਅਤੇ 6 ਨੰਬਰ ਵਾਲੀਆਂ ਲਿਫਟਾਂ ਵਿੱਚੋਂ ਹਰੇਕ ਨੂੰ, ਇੱਕ ਕਮਿਊਨਿਟੀ ਵਿੱਚ ਹਫ਼ਤੇ ਦੇ ਵੱਖਰੇ-ਵੱਖਰੇ ਦਿਨ ਵਰਤਿਆ ਜਾਵੇਗਾ, ਉਸੇ ਹਫ਼ਤੇ ਦੇ ਸੋਮਵਾਰ ਤੋਂ ਸ਼ੁਰੂ ਹੋ ਕੇ ਅਤੇ ਸ਼ਨੀਵਾਰ ਨੂੰ ਸਮਾਪਤ ਹੋਂਦੇ ਹੋਏ। ਲਿਫਟ 5 ਵੀਰਵਾਰ ਨੂੰ ਵਰਤੀ ਜਾਵੇਗੀ ਅਤੇ ਲਿਫਟ 3 ਸੋਮਵਾਰ ਨੂੰ ਵਰਤੀ ਜਾਵੇਗੀ। ਲਿਫਟ 2 ਦੀ ਵਰਤੋਂ 5 ਤੋਂ ਤੁਰੰਤ ਪਹਿਲਾਂ ਕੀਤੀ ਜਾਵੇਗੀ ਅਤੇ ਲਿਫਟ 1 ਦੀ ਵਰਤੋਂ 5 ਤੋਂ ਤੁਰੰਤ ਬਾਅਦ ਕੀਤੀ ਜਾਵੇਗੀ। ਸਭ ਤੋਂ ਵੱਧ ਨੰਬਰ ਵਾਲੀ ਲਿਫਟ ਦੀ ਵਰਤੋਂ ਆਖਰੀ ਦਿਨ 'ਤੇ ਕੀਤੀ ਜਾਵੇਗੀ।

SubQuestion No : 40

Q.40 ਲਿਫਟ 4 ਅਤੇ ਲਿਫਟ 6 ਦੇ ਵਿਚਕਾਰ ਕਿੰਨੀਆਂ ਲਿਫਟਾਂ ਦੀ ਵਰਤੋਂ ਕੀਤੀ ਜਾਵੇਗੀ?

Ans
✗ 1. ਦੋ
✗ 2. ਚਾਰ
✓ 3. ਤਿੰਨ
✗ 4. ਇਕ

Question ID : **63068083593**
Option 1 ID : **630680324025**
Option 2 ID : **630680324027**
Option 3 ID : **630680324026**
Option 4 ID : **630680324024**
Status : **Answered**
Chosen Option : **3**

Comprehension:

ਦਿੱਤੇ ਗਏ ਚਿੱਤਰ ਦਾ ਧਿਆਨ ਨਾਲ ਅਧਿਐਨ ਕਰੋ ਅਤੇ ਅੱਗੇ ਆਉਣ ਵਾਲੇ ਪ੍ਰਸ਼ਨਾਂ ਦੇ ਉੱਤਰ ਦਿਓ। ਵੱਖ-ਵੱਖ ਭਾਗਾਂ ਵਿਚਲੀਆਂ ਸੰਖਿਆਵਾਂ ਫੁੱਲਾਂ ਦੇ ਗੁਲਦਸਤਿਆਂ ਦੀ ਗਿਣਤੀ ਨੂੰ ਦਰਸਾਉਂਦੀਆਂ ਹਨ।

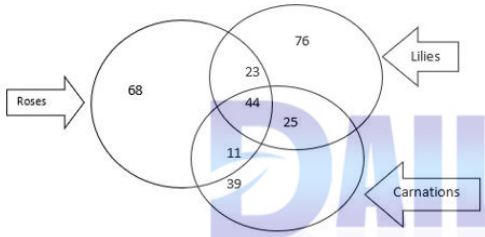

Roses = ਗੁਲਾਬ Lilies = ਲਿਲੀਜ਼ Carnations = ਕਾਰਨੇਸ਼ਨਸ

SubQuestion No : 41

Q.41 ਕਿੰਨੇ ਫੁੱਲਾਂ ਦੇ ਗੁਲਦਸਤਿਆਂ ਵਿੱਚ ਗੁਲਾਬ ਨਹੀਂ ਹਨ?

Ans
✗ 1. 25
✗ 2. 11
✓ 3. 140
✗ 4. 115

Question ID : **630680105574**
Option 1 ID : **630680410339**
Option 2 ID : **630680410342**
Option 3 ID : **630680410340**
Option 4 ID : **630680410341**
Status : **Answered**
Chosen Option : **3**

Website - www.dailyjobalert.in

Comprehension:

ਦਿੱਤੇ ਗਏ ਚਿੱਤਰ ਦਾ ਧਿਆਨ ਨਾਲ ਅਧਿਐਨ ਕਰੋ ਅਤੇ ਅੱਗੇ ਆਉਣ ਵਾਲੇ ਪ੍ਰਸ਼ਨਾਂ ਦੇ ਉੱਤਰ ਦਿਓ। ਵੱਖ-ਵੱਖ ਭਾਗਾਂ ਵਿਚਲੀਆਂ ਸੰਖਿਆਵਾਂ ਫੁੱਲਾਂ ਦੇ ਗੁਲਦਸਤਿਆਂ ਦੀ ਗਿਣਤੀ ਨੂੰ ਦਰਸਾਉਂਦੀਆਂ ਹਨ।

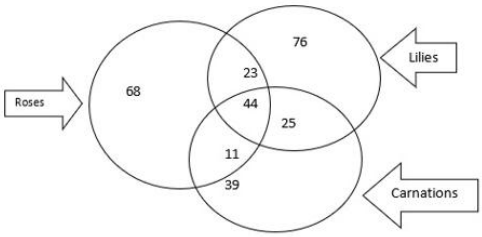

Roses = ਗੁਲਾਬ Lilies = ਲਿਲੀਜ਼ Carnations = ਕਾਰਨੇਸ਼ਨਸ

SubQuestion No : 42

Q.42 ਕਿੰਨੇ ਗੁਲਦਸਤੇ ਬਣਾਏ ਜਾ ਸਕਦੇ ਹਨ ਜਿਨ੍ਹਾਂ ਵਿੱਚ ਘੱਟੋ-ਘੱਟ ਦੋ ਵੱਖ-ਵੱਖ ਕਿਸਮਾਂ ਦੇ ਫੁੱਲ ਦਾ ਮਿਸ਼ਰਣ ਹੋਵੇ ਪਰ ਤਿੰਨਾਂ ਦਾ ਨਹੀਂ?

Ans

✗ 1. 15

✗ 2. 44

✗ 3. 23

✓ 4. 59

Question ID : **630680105575**
Option 1 ID : **630680410346**
Option 2 ID : **630680410344**
Option 3 ID : **630680410343**
Option 4 ID : **630680410345**
Status : **Not Answered**
Chosen Option : **--**

Comprehension:

ਇੱਕ ਖਾਸ ਕੋਡ ਵਿੱਚ,
'black bean salad' ਨੂੰ 'sy od xt' ਵਜੋਂ ਕੋਡਬੱਧ ਕੀਤਾ ਗਿਆ ਹੈ,
'board of black' ਨੂੰ 'rg fu od, ਵਜੋਂ ਕੋਡਬੱਧ ਕੀਤਾ ਗਿਆ ਹੈ,
'bean board pin' ਨੂੰ 'ao sy rg' ਵਜੋਂ ਕੋਡਬੱਧ ਕੀਤਾ ਗਿਆ ਹੈ।

SubQuestion No : 43

Q.43 'board' ਲਈ ਕੋਡ ਕੀ ਹੋਵੇਗਾ?

Ans

✗ 1. sv

✗ 2. od

✗ 3. fu

✓ 4. rg

Question ID : **630680109070**
Option 1 ID : **630680423113**
Option 2 ID : **630680423114**
Option 3 ID : **630680423112**
Option 4 ID : **630680423115**
Status : **Answered**
Chosen Option : **4**

Website - www.dailyjobalert.in

Comprehension:

ਇੱਕ ਖਾਸ ਕੋਡ ਵਿੱਚ,
'black bean salad' ਨੂੰ 'sy od xt' ਵਜੋਂ ਕੋਡਬੱਧ ਕੀਤਾ ਗਿਆ ਹੈ,
'board of black' ਨੂੰ 'rg fu od, ਵਜੋਂ ਕੋਡਬੱਧ ਕੀਤਾ ਗਿਆ ਹੈ,
'bean board pin' ਨੂੰ 'ao sy rg' ਵਜੋਂ ਕੋਡਬੱਧ ਕੀਤਾ ਗਿਆ ਹੈ।

SubQuestion No : 44

Q.44 'bean' ਲਈ ਕੋਡ ਕੀ ਹੋਵੇਗਾ?

Ans
✔ 1. sy
✘ 2. ao
✘ 3. xt
✘ 4. od

Question ID : **630680109071**
Option 1 ID : **630680423116**
Option 2 ID : **630680423119**
Option 3 ID : **630680423118**
Option 4 ID : **630680423117**
Status : **Answered**
Chosen Option : **1**

Comprehension:

ਦਿੱਤੀ ਗਈ ਸਾਰਣੀ ਕਾਲਜਾਂ (P, Q, R, S ਅਤੇ T) ਦੀ ਸੂਚੀ ਅਤੇ ਉਨ੍ਹਾਂ ਵਿਦਿਆਰਥੀਆਂ ਦੀ ਗਿਣਤੀ ਨੂੰ ਦਰਸਾਉਂਦੀ ਹੈ ਜੋ ਸਲਾਨਾ ਸਮਾਰੋਹ ਵਿੱਚ ਹਿੱਸਾ ਲੈਂਦੇ ਹਨ। ਸਾਰਣੀ ਦਾ ਅਧਿਐਨ ਕਰੋ ਅਤੇ ਦਿੱਤੇ ਗਏ ਪ੍ਰਸ਼ਨਾਂ ਦੇ ਉੱਤਰ ਦਿਓ।

ACTIVITIES	COLLEGE NAME				
	P	Q	R	S	T
DANCING	14	12	26	23	18
SINGING	20	17	13	25	11
DEBATE	19	24	18	15	41
GAMES	32	26	9	27	23
QUIZ	31	13	21	19	26

Activity = ਗਤੀਵਿਧੀਆਂ, Dancing = ਡਾਂਸਿੰਗ, Singing = ਗਾਇਕੀ, Debate = ਵਾਦ-ਵਿਵਾਦ, Games = ਖੇਡਾਂ, Quiz = ਕੁਇਜ਼, College Name = ਕਾਲਜ ਦਾ ਨਾਂ

SubQuestion No : 45

Q.45 ਕੁਇਜ਼ ਵਿੱਚ ਭਾਗ ਲੈਣ ਵਾਲੇ ਵਿਦਿਆਰਥੀਆਂ ਦੀ ਔਸਤ ਗਿਣਤੀ ਕਿੰਨੀ ਹੈ?

Ans
✘ 1. 21
✘ 2. 23
✔ 3. 22
✘ 4. 24

Question ID : **630680110426**
Option 1 ID : **630680427979**
Option 2 ID : **630680427981**
Option 3 ID : **630680427980**
Option 4 ID : **630680427982**
Status : **Answered**
Chosen Option : **3**

Website - www.dailyjobalert.in

Comprehension:

ਦਿੱਤੀ ਗਈ ਸਾਰਣੀ ਕਾਲਜਾਂ (P, Q, R, S ਅਤੇ T) ਦੀ ਸੂਚੀ ਅਤੇ ਉਨ੍ਹਾਂ ਵਿਦਿਆਰਥੀਆਂ ਦੀ ਗਿਣਤੀ ਨੂੰ ਦਰਸਾਉਂਦੀ ਹੈ ਜੋ ਸਲਾਨਾ ਸਮਾਰੋਹ ਵਿੱਚ ਹਿੱਸਾ ਲੈਂਦੇ ਹਨ। ਸਾਰਣੀ ਦਾ ਅਧਿਐਨ ਕਰੋ ਅਤੇ ਦਿੱਤੇ ਗਏ ਪ੍ਰਸ਼ਨਾਂ ਦੇ ਉੱਤਰ ਦਿਓ।

ACTIVITIES	COLLEGE NAME				
	P	Q	R	S	T
DANCING	14	12	26	23	18
SINGING	20	17	13	25	11
DEBATE	19	24	18	15	41
GAMES	32	26	9	27	23
QUIZ	31	13	21	19	26

Activity = ਗਤੀਵਿਧੀਆਂ, Dancing = ਡਾਂਸਿੰਗ, Singing = ਗਾਇਕੀ, Debate = ਵਾਦ-ਵਿਵਾਦ, Games = ਖੇਡਾਂ, Quiz = ਕੁਇਜ਼, College Name = ਕਾਲਜ ਦਾ ਨਾਂ

SubQuestion No : 46

Q.46 ਵਾਦ-ਵਿਵਾਦ ਅਤੇ ਕੁਇਜ਼ ਵਿੱਚ ਕਾਲਜ R ਦੇ ਕਿੰਨੇ ਵਿਦਿਆਰਥੀ ਹਿੱਸਾ ਲੈ ਰਹੇ ਹਨ?

Ans
✔ 1. 39
✘ 2. 31
✘ 3. 35
✘ 4. 48

Question ID : **630680110425**
Option 1 ID : **630680427975**
Option 2 ID : **630680427978**
Option 3 ID : **630680427977**
Option 4 ID : **630680427976**
Status : **Answered**
Chosen Option : **1**

Comprehension:

The following table shows details of the number of boys and girls from four different departments of a certain university, who got campus placement over the years. Study the table carefully and answer the questions that follow.

Dept / Year	Physics Department		Chemistry Department		Mathematics Department		Commerce Department	
	Boys	Girls	Boys	Girls	Boys	Girls	Boys	Girls
2018	100	120	160	120	90	100	180	160
2019	150	200	200	150	180	200	110	120
2020	150	130	120	140	100	80	200	150
2021	100	80	100	100	150	140	100	120

SubQuestion No : 47

Q.47 What is the difference between the total number of boys and total number of girls who got campus placement from all the departments in the year 2020?

Ans
✔ 1. 70
✘ 2. 65
✘ 3. 55
✘ 4. 50

Question ID : **63068085619**
Option 1 ID : **630680331974**
Option 2 ID : **630680331975**
Option 3 ID : **630680331973**
Option 4 ID : **630680331972**
Status : **Answered**
Chosen Option : **1**

Website - www.dailyjobalert.in

Comprehension:

ਹੇਠਾਂ ਦਿੱਤੀ ਸਾਰਣੀ ਕਿਸੇ ਯੂਨੀਵਰਸਿਟੀ ਦੇ ਚਾਰ ਵੱਖ-ਵੱਖ ਵਿਭਾਗਾਂ ਦੇ ਮੁੰਡੇ ਅਤੇ ਕੁੜੀਆਂ ਦੀ ਸੰਖਿਆ ਦੇ ਵੇਰਵੇ ਦਰਸਾਉਂਦੀ ਹੈ, ਜਿਨ੍ਹਾਂ ਨੇ ਦਿੱਤੇ ਸਾਲਾਂ ਦੌਰਾਨ ਕੈਂਪਸ ਪਲੇਸਮੈਂਟ ਪ੍ਰਾਪਤ ਕੀਤੀ। ਸਾਰਣੀ ਦਾ ਧਿਆਨ ਨਾਲ ਅਧਿਐਨ ਕਰੋ ਅਤੇ ਦਿੱਤੇ ਸਵਾਲ ਦਾ ਜਵਾਬ ਦਿਓ।

ਵਿਭਾਗ / ਸਾਲ	ਫਿਜ਼ੀਕਸ ਵਿਭਾਗ		ਕੈਮਿਸਟਰੀ ਵਿਭਾਗ		ਮੈਥਮੈਟਿਕਸ ਵਿਭਾਗ		ਕਾਮਰਸ ਵਿਭਾਗ	
	ਮੁੰਡੇ	ਕੁੜੀਆਂ	ਮੁੰਡੇ	ਕੁੜੀਆਂ	ਮੁੰਡੇ	ਕੁੜੀਆਂ	ਮੁੰਡੇ	ਕੁੜੀਆਂ
2018	100	120	160	120	90	100	180	160
2019	150	200	200	150	180	200	110	120
2020	150	130	120	140	100	80	200	150
2021	100	80	100	100	150	140	100	120

SubQuestion No : 48

Q.48 **ਸਾਲ 2021 ਵਿੱਚ, ਸਾਰੇ ਵਿਭਾਗਾਂ ਵਿੱਚੋਂ ਕੈਂਪਸ ਪਲੇਸਮੈਂਟ ਪ੍ਰਾਪਤ ਕਰਨ ਵਾਲੀਆਂ ਕੁੜੀਆਂ ਦੀ ਕੁੱਲ ਸੰਖਿਆ, ਕੈਂਪਸ ਪਲੇਸਮੈਂਟ ਪ੍ਰਾਪਤ ਕਰਨ ਵਾਲੇ ਮੁੰਡਿਆਂ ਦੀ ਕੁੱਲ ਸੰਖਿਆ ਦਾ ਲਗਭਗ ਕਿੰਨੇ ਪ੍ਰਤੀਸ਼ਤ ਹੈ?**

Ans

✗ 1. 90.5 ਪ੍ਰਤੀਸ਼ਤ

✗ 2. 95.5 ਪ੍ਰਤੀਸ਼ਤ

✓ 3. 97.7 ਪ੍ਰਤੀਸ਼ਤ

✗ 4. 89.2 ਪ੍ਰਤੀਸ਼ਤ

Question ID : **63068085620**
Option 1 ID : **630680331978**
Option 2 ID : **630680331976**
Option 3 ID : **630680331979**
Option 4 ID : **630680331977**
Status : **Not Answered**
Chosen Option : **--**

Website - www.dailyjobalert.in

Comprehension:

ਦਿੱਤੇ ਗਏ ਪੈਰੇ ਨੂੰ ਪੜ੍ਹੋ ਅਤੇ ਦਿੱਤੇ ਸਵਾਲਾਂ ਦੇ ਉੱਤਰ ਦਿਓ।

ਦੇਹਰਾਦੂਨ ਖਦਾਨ ਮਾਮਲੇ (quarrying case) ਵਿੱਚ, ਭਾਰਤ ਦੀ ਸੁਪਰੀਮ ਕੋਰਟ ਨੇ ਕਿਹਾ ਹੈ ਕਿ ਖੁਦਾਈ ਕਾਰਨ ਪੈਦਾ ਹੋਣ ਵਾਲੇ ਪ੍ਰਦੂਸ਼ਣ ਦਾ ਲੋਕਾਂ ਦੀ ਸਿਹਤ ਅਤੇ ਸੁਰੱਖਿਆ 'ਤੇ ਮਾੜਾ ਅਸਰ ਪੈਂਦਾ ਹੈ ਅਤੇ ਇਸ ਲਈ ਅਨੁਛੇਦ 21 ਦੀ ਉਲੰਘਣਾ ਹੋਣ ਦੇ ਨਾਤੇ ਇਸ ਨੂੰ ਰੋਕਿਆ ਜਾਣਾ ਚਾਹੀਦਾ ਹੈ। ਇਸ ਮਾਮਲੇ ਵਿੱਚ ਸੁਪਰੀਮ ਕੋਰਟ ਨੇ ਪਹਿਲੀ ਵਾਰ ਮੰਨਿਆ ਕਿ ਸਿਹਤਮੰਦ ਵਾਤਾਵਰਣ ਦਾ ਅਧਿਕਾਰ ਸੰਵਿਧਾਨ ਦੀ ਧਾਰਾ 21 ਅਧੀਨ ਗਾਰੰਟੀਸ਼ੁਦਾ ਜੀਵਨ ਅਤੇ ਵਿਅਕਤੀਗਤ ਆਜ਼ਾਦੀ ਦੇ ਅਧਿਕਾਰ ਦਾ ਹਿੱਸਾ ਹੈ।
ਅਦਾਲਤਾਂ ਪ੍ਰਸ਼ਾਸਕੀ ਗਤੀਵਿਧੀਆਂ ਦੀਆਂ ਸ਼ਕਤੀਆਂ ਅਤੇ ਉਦੇਸ਼ਾਂ ਦੇ ਦਾਇਰੇ ਨੂੰ ਨਿਰਧਾਰਤ ਕਰਨ ਅਤੇ ਵਾਤਾਵਰਣ ਅਤੇ ਵਿਕਾਸ ਵਿਚਕਾਰ ਸਥਿਰਤਾ ਲਿਆਉਣਾ ਲਈ ਬਹੁਤ ਮਹੱਤਵਪੂਰਨ ਭੂਮਿਕਾ ਨਿਭਾਉਂਦੀਆਂ ਹਨ। ਸਮੇਂ ਦੀ ਲੋੜ ਹੈ ਕਿ ਦੋਵਾਂ ਵਿਚਕਾਰ ਸੰਤੁਲਨ ਕਾਇਮ ਕੀਤਾ ਜਾਵੇ ਅਰਥਾਤ ਇੱਕ ਪਾਸੇ ਵਿਕਾਸ ਅਤੇ ਦੂਜੇ ਪਾਸੇ ਪ੍ਰਦੂਸ਼ਣ ਸਵੀਕਾਰ ਕੀਤਾ ਵਾਤਾਵਰਨ।

SubQuestion No : 49

Q.49 ਸਿਹਤ ਅਤੇ ਸੁਰੱਖਿਆ ਦਾ ਅਧਿਕਾਰ ਹੇਠਾਂ ਦਿੱਤੇ ਵਿੱਚੋਂ ਕਿਸ ਦਾ ਹਿੱਸਾ ਹਨ?

Ans
✔ 1. ਜੀਵਨ ਦਾ ਅਧਿਕਾਰ
✘ 2. ਸਮਾਨਤਾ ਦਾ ਅਧਿਕਾਰ
✘ 3. ਸੁਤੰਤਰਤਾ ਦਾ ਅਧਿਕਾਰ
✘ 4. ਸ਼ੋਸ਼ਣ ਦੇ ਖਿਲਾਫ ਅਧਿਕਾਰ

Question ID : **630680248125**
Option 1 ID : **630680962690**
Option 2 ID : **630680962688**
Option 3 ID : **630680962687**
Option 4 ID : **630680962689**
Status : **Answered**
Chosen Option : **1**

Comprehension:

ਦਿੱਤੇ ਗਏ ਪੈਰੇ ਨੂੰ ਪੜ੍ਹੋ ਅਤੇ ਦਿੱਤੇ ਸਵਾਲਾਂ ਦੇ ਉੱਤਰ ਦਿਓ।

ਦੇਹਰਾਦੂਨ ਖਦਾਨ ਮਾਮਲੇ (quarrying case) ਵਿੱਚ, ਭਾਰਤ ਦੀ ਸੁਪਰੀਮ ਕੋਰਟ ਨੇ ਕਿਹਾ ਹੈ ਕਿ ਖੁਦਾਈ ਕਾਰਨ ਪੈਦਾ ਹੋਣ ਵਾਲੇ ਪ੍ਰਦੂਸ਼ਣ ਦਾ ਲੋਕਾਂ ਦੀ ਸਿਹਤ ਅਤੇ ਸੁਰੱਖਿਆ 'ਤੇ ਮਾੜਾ ਅਸਰ ਪੈਂਦਾ ਹੈ ਅਤੇ ਇਸ ਲਈ ਅਨੁਛੇਦ 21 ਦੀ ਉਲੰਘਣਾ ਹੋਣ ਦੇ ਨਾਤੇ ਇਸ ਨੂੰ ਰੋਕਿਆ ਜਾਣਾ ਚਾਹੀਦਾ ਹੈ। ਇਸ ਮਾਮਲੇ ਵਿੱਚ ਸੁਪਰੀਮ ਕੋਰਟ ਨੇ ਪਹਿਲੀ ਵਾਰ ਮੰਨਿਆ ਕਿ ਸਿਹਤਮੰਦ ਵਾਤਾਵਰਣ ਦਾ ਅਧਿਕਾਰ ਸੰਵਿਧਾਨ ਦੀ ਧਾਰਾ 21 ਅਧੀਨ ਗਾਰੰਟੀਸ਼ੁਦਾ ਜੀਵਨ ਅਤੇ ਵਿਅਕਤੀਗਤ ਆਜ਼ਾਦੀ ਦੇ ਅਧਿਕਾਰ ਦਾ ਹਿੱਸਾ ਹੈ।
ਅਦਾਲਤਾਂ ਪ੍ਰਸ਼ਾਸਕੀ ਗਤੀਵਿਧੀਆਂ ਦੀਆਂ ਸ਼ਕਤੀਆਂ ਅਤੇ ਉਦੇਸ਼ਾਂ ਦੇ ਦਾਇਰੇ ਨੂੰ ਨਿਰਧਾਰਤ ਕਰਨ ਅਤੇ ਵਾਤਾਵਰਣ ਅਤੇ ਵਿਕਾਸ ਵਿਚਕਾਰ ਸਥਿਰਤਾ ਲਿਆਉਣਾ ਲਈ ਬਹੁਤ ਮਹੱਤਵਪੂਰਨ ਭੂਮਿਕਾ ਨਿਭਾਉਂਦੀਆਂ ਹਨ। ਸਮੇਂ ਦੀ ਲੋੜ ਹੈ ਕਿ ਦੋਵਾਂ ਵਿਚਕਾਰ ਸੰਤੁਲਨ ਕਾਇਮ ਕੀਤਾ ਜਾਵੇ ਅਰਥਾਤ ਇੱਕ ਪਾਸੇ ਵਿਕਾਸ ਅਤੇ ਦੂਜੇ ਪਾਸੇ ਪ੍ਰਦੂਸ਼ਣ ਸਵੀਕਾਰ ਕੀਤਾ ਵਾਤਾਵਰਨ।

SubQuestion No : 50

Q.50 ਵਿਕਾਸ ਅਤੇ ਵਾਤਾਵਰਨ ਵਿਚਕਾਰ ਸੰਤੁਲਨ ਕਾਇਮ ਕਰਨਾ ਕਿਸ ਦਾ ਕਰਤੱਵ ਹੈ?

Ans
✘ 1. ਸਰਕਾਰ
✘ 2. ਵਿਧਾਨ ਮੰਡਲ
✔ 3. ਨਿਆਂਪਾਲਿਕਾ
✘ 4. ਨਾਗਰਿਕ

Question ID : **630680248126**
Option 1 ID : **630680962691**
Option 2 ID : **630680962692**
Option 3 ID : **630680962693**
Option 4 ID : **630680962694**
Status : **Answered**
Chosen Option : **3**

Section : **Digital Literacy and Computer Awareness**

Website - www.dailyjobalert.in

Q.51 MS-Word 2010 ਦੀ _____ ਟੈਬ ਵਿੱਚ ਸਕਰੀਨਸ਼ਾਟ ਵਿਕਲਪ ਉਪਲਬਧ ਹੈ।

Ans
1. ਹੋਮ
2. ਡਿਜ਼ਾਈਨ
3. ਰੀਵਿਊ
4. ਇਨਸਰਟ

Question ID : **630680247834**
Option 1 ID : **630680961543**
Option 2 ID : **630680961544**
Option 3 ID : **630680961546**
Option 4 ID : **630680961545**
Status : **Not Answered**
Chosen Option : **--**

Q.52 MS-Word 2010 ਦਾ ਹੇਠ ਲਿਖਿਆਂ ਵਿੱਚੋਂ ਕਿਹੜਾ ਫੀਚਰ ਸਮੱਗਰੀ ਨੂੰ ਹਰ ਪੇਜ 'ਤੇ ਸ਼ਾਮਲ ਕੀਤੇ ਬਿਨਾਂ, ਹਰ ਪੇਜ ਦੇ ਸਿਖਰ 'ਤੇ ਦੁਹਰਾਉਣ ਵਿੱਚ ਮਦਦ ਕਰਦਾ ਹੈ?

Ans
1. ਲਿੰਕ
2. ਹੈਡਰ
3. ਟੈਕਸਟ ਬਾਕਸ
4. ਕਮੈਂਟ

Question ID : **630680247835**
Option 1 ID : **630680961550**
Option 2 ID : **630680961547**
Option 3 ID : **630680961548**
Option 4 ID : **630680961549**
Status : **Not Answered**
Chosen Option : **--**

Q.53 ਪਹਿਲੀ VoIP ਸੇਵਾ VocalTech ਨਾਮ ਦੀ ਕੰਪਨੀ ਦੁਆਰਾ _____ ਵਿੱਚ ਸ਼ੁਰੂ ਕੀਤੀ ਗਈ ਸੀ।

Ans
1. 1991
2. 1997
3. 1995
4. 1993

Question ID : **630680247851**
Option 1 ID : **630680961611**
Option 2 ID : **630680961614**
Option 3 ID : **630680961613**
Option 4 ID : **630680961612**
Status : **Not Answered**
Chosen Option : **--**

Website - www.dailyjobalert.in

Q.54 ਤੁਹਾਡੇ ਸਮਾਰਟਫੋਨ ਦੀ ਸੁਰੱਖਿਆ ਨੂੰ ਵਧਾਉਣ ਲਈ ਹੇਠ ਲਿਖਿਆਂ ਵਿੱਚੋਂ ਕਿਹੜਾ ਵਿਕਲਪ ਇੱਕ ਸੁਝਾਅ ਨਹੀਂ ਹੈ?

Ans
✔ 1. ਆਪਣੀ ਨਿੱਜੀ ਜਾਣਕਾਰੀ ਔਨਲਾਈਨ ਸਾਂਝੀ ਕਰੋ
✘ 2. ਆਪਣੇ ਡੇਟਾ ਦਾ ਬੈਕਅੱਪ ਲਓ
✘ 3. ਆਪਣੇ ਸਮਾਰਟਫੋਨ ਨੂੰ ਲਾਕ ਕਰਨ ਲਈ ਇੱਕ ਪਿੰਨ ਜਾਂ ਪਾਸਵਰਡ ਦੀ ਵਰਤੋਂ ਕਰੋ
✘ 4. ਵਰਤੋਂ ਵਿੱਚ ਨਾ ਹੋਣ 'ਤੇ ਵਾਈ-ਫਾਈ ਜਾਂ ਬਲੂਟੂੱਥ ਨੂੰ ਬੰਦ ਰੱਖੋ

Question ID : **630680247856**
Option 1 ID : **630680961634**
Option 2 ID : **630680961632**
Option 3 ID : **630680961631**
Option 4 ID : **630680961633**
Status : **Answered**
Chosen Option : **1**

Q.55 _____ ਇੱਕ ਫ੍ਰੀਵੇਅਰ, ਕਰਾਸ-ਪਲੇਟਫਾਰਮ, ਕਲਾਉਡ-ਅਧਾਰਿਤ ਇੰਸਟੈਂਟ ਮੈਸੇਜਿੰਗ (IM) ਸੇਵਾ ਹੈ ਜੋ ਐਂਡ-ਟੂ-ਐਂਡ ਇਨਕ੍ਰਿਪਟਡ ਵੀਡੀਓ ਕਾਲਿੰਗ, VoIP, ਫਾਈਲ ਸ਼ੇਅਰਿੰਗ ਆਦਿ ਪ੍ਰਦਾਨ ਕਰਦੀ ਹੈ।

Ans
✘ 1. ਏਅਰਟੈੱਲ
✘ 2. ਯੂਟਿਊਬ
✔ 3. ਟੈਲੀਗ੍ਰਾਮ
✘ 4. ਇੰਟਰਨੈੱਟ

Question ID : **630680247853**
Option 1 ID : **630680961622**
Option 2 ID : **630680961621**
Option 3 ID : **630680961619**
Option 4 ID : **630680961620**
Status : **Not Answered**
Chosen Option : **--**

Q.56 _____ ਤਕਨੀਕ ਦੀ ਵਰਤੋਂ ਕਰਕੇ ਸਿੱਖਣ ਨਾਲ ਸੰਬੰਧਿਤ ਹੈ ਜੋ ਲੋਕਾਂ ਨੂੰ ਕਿਸੇ ਵੀ ਸਮੇਂ ਜਾਂ ਕਿਤੇ ਵੀ ਸਿੱਖਣ ਦੇ ਯੋਗ ਬਣਾਉਂਦਾ ਹੈ।

Ans
✘ 1. ਈ-ਬੈਂਕਿੰਗ
✘ 2. ਈ - ਮੇਲ
✔ 3. ਈ-ਲਰਨਿੰਗ
✘ 4. ਈ-ਕਾਮਰਸ

Question ID : **630680247843**
Option 1 ID : **630680961582**
Option 2 ID : **630680961580**
Option 3 ID : **630680961579**
Option 4 ID : **630680961581**
Status : **Answered**
Chosen Option : **3**

Website - www.dailyjobalert.in

Q.57 ਹੇਠ ਲਿਖਿਆਂ ਵਿੱਚੋਂ ਕਿਹੜੀ ਮੈਗਨੇਟਿਕ ਜਾਂ ਆਪਟੀਕਲ ਮੈਮਰੀ ਦੀ ਉਦਾਹਰਨ ਹੈ?

Ans
1. ਪ੍ਰਾਇਮਰੀ ਮੈਮਰੀ
2. ਰਜਿਸਟਰ
3. ਸੈਕੰਡਰੀ ਮੈਮਰੀ
4. ਕੈਸ਼ੇ ਮੈਮਰੀ

Question ID : **630680247829**
Option 1 ID : **630680961525**
Option 2 ID : **630680961523**
Option 3 ID : **630680961526**
Option 4 ID : **630680961524**
Status : **Not Answered**
Chosen Option : **--**

Q.58 ਹੇਠ ਲਿਖਿਆਂ ਵਿੱਚੋਂ _____ਤੋਂ ਬਿਨ੍ਹਾਂ ਬਾਕੀ ਸਾਰੇ ਸੋਸ਼ਲ ਮੀਡੀਆ ਪਲੇਟਫਾਰਮ ਹਨ।

Ans
1. Pinterest
2. Chatterley
3. Discord
4. ResearchGate

Question ID : **630680247848**
Option 1 ID : **630680961600**
Option 2 ID : **630680961602**
Option 3 ID : **630680961601**
Option 4 ID : **630680961599**
Status : **Not Answered**
Chosen Option : **--**

Q.59 ਵਰਤੋਕਾਰਾਂ ਨੂੰ ਵਰਲਡ ਵਾਈਡ ਵੈੱਬ ਤੱਕ ਪਹੁੰਚ ਅਤੇ ਨੈਵੀਗੇਟ ਕਰਨ ਦੀ ਇਜਾਜ਼ਤ ਹੇਠ ਦਿੱਤਿਆਂ ਵਿੱਚੋਂ ਕਿਹੜਾ ਸਾਫਟਵੇਅਰ ਪ੍ਰੋਗਰਾਮ ਦਿੰਦਾ ਹੈ?

Ans
1. ਵੈੱਬ ਬਰਾਊਜ਼ਰ
2. ਮੇਨ ਪੇਜ਼
3. ਵੈੱਬਸਾਈਟ
4. ਵੇਬ ਪੇਜ

Question ID : **630680247844**
Option 1 ID : **630680961583**
Option 2 ID : **630680961586**
Option 3 ID : **630680961585**
Option 4 ID : **630680961584**
Status : **Answered**
Chosen Option : **1**

Website - www.dailyjobalert.in

Q.60 MS-Excel 2010 ਵਿੱਚ ਇੱਕ ਕਿਰਿਆ ਅਧੀਨ (ਏਕਟਿਵ) ਸੈੱਲ ਦੀ ਸਮੱਗਰੀ ਨੂੰ ਪ੍ਰਦਰਸ਼ਿਤ ਕਰਨ ਲਈ ਹੇਠ ਲਿਖਿਆਂ ਵਿੱਚੋਂ ਕਿਹੜਾ ਵਿਕਲਪ ਵਰਤਿਆ ਜਾਂਦਾ ਹੈ?

Ans
1. ਸਕ੍ਰੋਲ ਬਾਰ
2. ਟਾਈਟਲ ਬਾਰ
3. ਫਾਰਮੂਲਾ ਬਾਰ
4. ਰੂਲਰ

Question ID : **630680247836**
Option 1 ID : **630680961551**
Option 2 ID : **630680961554**
Option 3 ID : **630680961552**
Option 4 ID : **630680961553**
Status : **Answered**
Chosen Option : **3**

Q.61 MS-PowerPoint 2010 ਨਾਲ ਸੰਬੰਧਿਤ ਹੇਠ ਲਿਖਿਆਂ ਵਿੱਚੋਂ ਸਹੀ ਜਾ ਗਲਤ ਕਥਨ ਦੀ ਪਛਾਣ ਕਰੋ।

(i) MS-PowerPoint 2010 ਵਿੱਚ ਪ੍ਰੇਜ਼ੇਂਟੇਸ਼ਨ ਨੂੰ ਰੋਕਣ ਲਈ Shift+F5 ਸ਼ਾਰਟਕੱਟ ਦੀ ਵਰਤੋਂ ਕੀਤੀ ਜਾਂਦੀ ਹੈ।
(ii) ਪ੍ਰੈਜ਼ੈਂਟਰ ਵਿਊ ਵਿੱਚ ਪ੍ਰੇਜ਼ੇਂਟੇਸ਼ਨ ਸ਼ੁਰੂ ਕਰਨ ਲਈ Alt+F5 ਸ਼ਾਰਟਕੱਟ ਦੀ ਵਰਤੋਂ ਕੀਤੀ ਜਾਂਦੀ ਹੈ।

Ans
1. (i) ਸਹੀ, (ii) ਸਹੀ
2. (i) ਗਲਤ, (ii) ਗਲਤ
3. (i) ਗਲਤ, (ii) ਸਹੀ
4. (i) ਸਹੀ, (ii) ਗਲਤ

Question ID : **630680247841**
Option 1 ID : **630680961571**
Option 2 ID : **630680961574**
Option 3 ID : **630680961573**
Option 4 ID : **630680961572**
Status : **Not Answered**
Chosen Option : **--**

Q.62 C++, COBOL ਅਤੇ Java ਪ੍ਰੋਗਰਾਮਿੰਗ ਲੈਂਗੁਏਜਜ਼ ਦੀ ਵਰਤੋਂ ਕੰਪਿਊਟਰਾਂ ਦੀ _____ ਪੀੜ੍ਹੀ ਵਿੱਚ ਕੀਤੀ ਗਈ ਸੀ।

Ans
1. ਚੌਥੀ
2. ਪਹਿਲੀ
3. ਪੰਜਵੀਂ
4. ਤੀਜੀ

Question ID : **630680247827**
Option 1 ID : **630680961517**
Option 2 ID : **630680961515**
Option 3 ID : **630680961518**
Option 4 ID : **630680961516**
Status : **Not Answered**
Chosen Option : **--**

DAILY JOB ALERT ਪੰਜਾਬ

Q.63 ਪਿੰਟਰੇਸਟ (Pinterest) ਇੱਕ _____ ਹੈ।

Ans
- ✗ 1. ਵੀਡੀਓ-ਅਧਾਰਿਤ ਸੋਸ਼ਲ ਮੀਡੀਆ ਨੈੱਟਵਰਕ
- ✗ 2. ਪੋਡਕਾਸਟ ਨੈੱਟਵਰਕ
- ✓ 3. ਚਿੱਤਰ-ਆਧਾਰਿਤ ਸੋਸ਼ਲ ਮੀਡੀਆ ਨੈੱਟਵਰਕ
- ✗ 4. ਚਰਚਾ ਮੰਚ (ਡਿਸਕਸ਼ਨ ਫੋਰਮ)

Question ID : **630680247847**
Option 1 ID : **630680961596**
Option 2 ID : **630680961595**
Option 3 ID : **630680961597**
Option 4 ID : **630680961598**
Status : **Not Answered**
Chosen Option : **--**

Q.64 ਹੇਠਾਂ ਲਿਖਿਆਂ ਵਿੱਚੋਂ ਕਿਹੜਾ ਵਿਕਲਪ ਕਿਸੇ ਈਮੇਲ ਐਡਰੈੱਸ ਦੀ ਇੱਕ ਉਦਾਹਰਨ ਹੈ?

Ans
- ✓ 1. smithk@gmail.com
- ✗ 2. http://viahome.com/index.htm
- ✗ 3. student.org/teachers/mail addresses
- ✗ 4. D:\ \Email\Standard

Question ID : **630680247842**
Option 1 ID : **630680961578**
Option 2 ID : **630680961575**
Option 3 ID : **630680961577**
Option 4 ID : **630680961576**
Status : **Answered**
Chosen Option : **1**

Q.65 ਇੱਕ _____ ਇੱਕ ਚਿੱਤਰ ਹੈ ਜੋ ਜਦੋਂ ਵੀ ਕੰਪਿਊਟਰ ਨੂੰ ਕੁਝ ਸਮੇਂ ਲਈ ਵਿਹਲਾ (idle) ਛੱਡ ਦਿੱਤਾ ਜਾਂਦਾ ਹੈ, ਤਾਂ ਡੈਸਕਟਾਪ ਸਕ੍ਰੀਨ 'ਤੇ ਦਿਖਾਈ ਦਿੰਦਾ ਹੈ ।

Ans
- ✓ 1. ਸਕਰੀਨਸੇਵਰ (screensaver)
- ✗ 2. ਸਿਸਟਮ ਟਰੇ (system tray)
- ✗ 3. ਸ਼ਾਰਟਕੱਟ ਮੀਨੂ (shortcut menu)
- ✗ 4. ਵਾਲਪੇਪਰ (wallpaper)

Question ID : **630680247832**
Option 1 ID : **630680961535**
Option 2 ID : **630680961537**
Option 3 ID : **630680961538**
Option 4 ID : **630680961536**
Status : **Answered**
Chosen Option : **1**

Website - www.dailyjobalert.in

Q.66 ਵਿੰਡੋਜ਼ ਓਪਰੇਟਿੰਗ ਸਿਸਟਮ ਦੇ ਲੋਡ ਹੋਣ ਤੋਂ ਬਾਅਦ ਤੁਹਾਨੂੰ ਦਿਖਾਈ ਦੇਣ ਵਾਲਾ ਸਭ ਤੋਂ ਪਹਿਲਾ ਸਕ੍ਰੀਨ/ਕੰਪੋਨੈਂਟ ਹੇਠ ਲਿਖਿਆਂ ਵਿੱਚੋਂ ਕਿਹੜਾ ਹੈ?

Ans
- ✗ 1. ਕੈਲੰਡਰ
- ✗ 2. ਕੈਲਕੁਲੇਟਰ
- ✓ 3. ਡੈਸਕਟਾਪ
- ✗ 4. ਕੰਟਰੋਲ ਪੈਨਲ

Question ID : **630680247830**
Option 1 ID : **630680961529**
Option 2 ID : **630680961530**
Option 3 ID : **630680961528**
Option 4 ID : **630680961527**
Status : **Not Answered**
Chosen Option : **--**

Q.67 MS-Excel 2010 ਵਰਕਸ਼ੀਟ ਵਿੱਚ ਕਿਰਿਆ ਅਧੀਨ ਸੈੱਲ ਵਿੱਚ ਇੱਕ ਨਵੀਂ ਲਾਈਨ ਦਾਖਲ ਕਰਨ ਲਈ ਹੇਠ ਦਿੱਤਿਆਂ ਵਿੱਚੋਂ ਕਿਹੜਾ ਕੀਬੋਰਡ ਸ਼ਾਰਟਕੱਟ ਵਰਤਿਆ ਜਾਂਦਾ ਹੈ?

Ans
- ✗ 1. Shift+Enter
- ✗ 2. Ctrl+Enter
- ✗ 3. Tab+Enter
- ✓ 4. Alt+Enter

Question ID : **630680247837**
Option 1 ID : **630680961558**
Option 2 ID : **630680961557**
Option 3 ID : **630680961555**
Option 4 ID : **630680961556**
Status : **Answered**
Chosen Option : **1**

Q.68 VoIP' ਦਾ ਪੂਰਾ ਵਿਸਤ੍ਰਿਤ ਨਾਮ ਕੀ ਹੈ?

Ans
- ✗ 1. ਵੌਇਸ ਓਵਰ ਇੰਟਰਨੈੱਟ ਪੈਟਰਨ (Voice over Internet Pattern)
- ✗ 2. ਵੌਇਸ ਓਵਰ ਇੰਟਰਨਲ ਪ੍ਰੋਟੋਕੋਲ (Voice over Internal Protocol)
- ✗ 3. ਵਿਜ਼ੁਅਲ ਓਵਰ ਇੰਟਰਾਨੈੱਟ ਪ੍ਰੋਟੋਕੋਲ (Visual over Intranet Protocol)
- ✓ 4. ਵੌਇਸ ਓਵਰ ਇੰਟਰਨੈੱਟ ਪ੍ਰੋਟੋਕੋਲ (Voice over Internet Protocol)

Question ID : **630680247850**
Option 1 ID : **630680961609**
Option 2 ID : **630680961608**
Option 3 ID : **630680961610**
Option 4 ID : **630680961607**
Status : **Not Answered**
Chosen Option : **--**

Website - www.dailyjobalert.in

Q.69 ਇਹਨਾਂ ਵਿੱਚੋਂ ਕਿਹੜਾ ਵਿਕਲਪ YouTube ਦਾ ਸਭ ਤੋਂ ਵਧੀਆ ਵਰਣਨ ਕਰਦਾ ਹੈ?

Ans
- ✗ 1. ਇਹ ਇੱਕ ਵਰਡ ਐਡਟਿੰਗ ਸਾਫਟਵੇਅਰ ਹੈ
- ✗ 2. ਇਹ ਇੱਕ ਵੀਡੀਓ ਐਡਟਿੰਗ ਡੈਸਕਟਾਪ ਸੌਫਟਵੇਅਰ ਹੈ
- ✓ 3. ਇਹ ਇੱਕ ਵੀਡੀਓ ਸ਼ੇਅਰਿੰਗ ਵੈੱਬਸਾਈਟ ਹੈ ਜਿੱਥੇ ਲੋਕ ਵੀਡੀਓ ਨੂੰ ਸਾਂਝਾ, ਪਸੰਦ ਅਤੇ ਟਿੱਪਣੀ ਕਰ ਸਕਦੇ ਹਨ
- ✗ 4. ਇਹ ਇੱਕ ਚੈਟਿੰਗ ਸਿਸਟਮ ਹੈ

Question ID : **630680247849**
Option 1 ID : **630680961604**
Option 2 ID : **630680961605**
Option 3 ID : **630680961603**
Option 4 ID : **630680961606**
Status : **Answered**
Chosen Option : **3**

Q.70 MS-PowerPoint 2010 ਵਿੱਚ ਹੇਠ ਲਿਖਿਆਂ ਵਿੱਚੋਂ ਕਿਹੜੀ ਇੱਕ ਉਚਿਤ ਰੂਪਰੇਖਾ (ਵੈਲਿਡ ਲੇਅ-ਆਊਟ) ਨਹੀਂ ਹੈ?

Ans
- ✗ 1. ਟਾਈਟਲ ਸਲਾਈਡ
- ✓ 2. ਪੈਰਾਗ੍ਰਾਫ ਹੈਡਰ
- ✗ 3. ਟਾਈਟਲ ਐਂਡ ਕੰਟੈਂਟ
- ✗ 4. ਸੈਕਸ਼ਨ ਹੈਡਰ

Question ID : **630680247839**
Option 1 ID : **630680961563**
Option 2 ID : **630680961566**
Option 3 ID : **630680961564**
Option 4 ID : **630680961565**
Status : **Not Answered**
Chosen Option : **--**

Q.71 ਕਿਸੇ ਕੰਪਿਊਟਰ ਦੀ ਇੰਟਰਨਲ ਮੈਮਰੀ ਦੀ ਮੁੱਖ ਵਿਸ਼ੇਸ਼ਤਾ ਹੇਠ ਲਿਖਿਆਂ ਵਿੱਚੋਂ ਕਿਹੜੀ ਨਹੀਂ ਹੈ?

Ans
- ✗ 1. ਵੋਲਟਾਈਲ ਸਟੋਰੇਜ
- ✗ 2. ਉੱਚ ਲਾਗਤ
- ✗ 3. ਸੀਮਤ ਸਟੋਰੇਜ਼ ਸਮਰੱਥਾ
- ✓ 4. ਧੀਮੀ ਪਹੁੰਚ

Question ID : **630680247828**
Option 1 ID : **630680961521**
Option 2 ID : **630680961519**
Option 3 ID : **630680961522**
Option 4 ID : **630680961520**
Status : **Not Answered**
Chosen Option : **--**

Website - www.dailyjobalert.in

Q.72 MS-PowerPoint 2007 ਜਾਂ ਇਸਤੋਂ ਬਾਅਦ ਦੇ ਸੰਸਕਰਣ ਦੀ ਵਰਤੋਂ ਕਰਕੇ ਬਣਾਏ ਗਏ ਦਸਤਾਵੇਜ਼ ਦੀ ਡਿਫਾਲਟ ਐਕਸਟੈਂਸ਼ਨ ਕੀ ਹੁੰਦੀ ਹੈ?

Ans
1. .ppt
2. .pptx
3. .ppb
4. .ppx

Question ID : **630680247840**
Option 1 ID : **630680961568**
Option 2 ID : **630680961567**
Option 3 ID : **630680961570**
Option 4 ID : **630680961569**
Status : **Not Answered**
Chosen Option : **--**

Q.73 ਕਰਨ ਨੇ 'ਗ੍ਰੀਨਹਾਊਸ ਇਫੈਕਟ' 'ਤੇ MS-PowerPoint ਪ੍ਰੇਜ਼ੇਂਟੇਸ਼ਨ ਤਿਆਰ ਕਰਨੀ ਹੈ। ਉਹ ਇੰਟਰਨੈੱਟ ਤੋਂ ਇਸ ਵਿਸ਼ੇ 'ਤੇ ਜਾਣਕਾਰੀ ਪ੍ਰਾਪਤ ਕਰਨਾ ਚਾਹੁੰਦਾ ਹੈ। ਉਸ ਨੂੰ ਇਸ ਨਾਲ ਸੰਬੰਧਿਤ ਜਾਣਕਾਰੀ ਲੱਭਣ ਵਿੱਚ ਹੇਠ ਲਿਖਿਆਂ ਵਿੱਚੋਂ ਕਿਹੜਾ ਮੱਦਦ ਕਰੇਗਾ?

Ans
1. ਆਪਰੇਟਿੰਗ ਸਿਸਟਮ
2. ਸਰਚ ਇੰਜਣ
3. MS- Word
4. MS- Excel

Question ID : **630680247846**
Option 1 ID : **630680961593**
Option 2 ID : **630680961591**
Option 3 ID : **630680961594**
Option 4 ID : **630680961592**
Status : **Answered**
Chosen Option : **2**

Q.74 DES ਇੱਕ ਨੀਵੇਂ-ਪੱਧਰ ਦਾ ਇਨਕ੍ਰਿਪਸ਼ਨ ਬਲਾਕ ਸਿਫਰ (cipher) ਐਲਗੋਰਿਦਮ ਹੈ ਜੋ ਪਲੇਨਟੈਕਸਟ ਨੂੰ ਸਿਰਫਟੈਕਸਟ (ciphertext) ਵਿੱਚ ਬਦਲਣ ਲਈ _____ ਬਿੱਟਸ ਦੇ ਬਲਾਕਾਂ ਵਿੱਚ ਪਲੇਨਟੈਕਸਟ ਲੈਂਦਾ ਹੈ।

Ans
1. 64
2. 48
3. 128
4. 32

Question ID : **630680247854**
Option 1 ID : **630680961625**
Option 2 ID : **630680961624**
Option 3 ID : **630680961626**
Option 4 ID : **630680961623**
Status : **Not Answered**
Chosen Option : **--**

Website - www.dailyjobalert.in

Q.75 ਵਿੰਡੋਜ਼ ਓਪਰੇਟਿੰਗ ਸਿਸਟਮ ਨੂੰ _____ ਦੁਆਰਾ ਵਿਕਸਤ ਕੀਤਾ ਗਿਆ ਸੀ।

Ans
1. Windows
2. Microsoft
3. Apple
4. Google

Question ID : **630680247831**
Option 1 ID : **630680961533**
Option 2 ID : **630680961532**
Option 3 ID : **630680961531**
Option 4 ID : **630680961534**
Status : **Not Answered**
Chosen Option : **--**

Q.76 Match the following.

LIST-1	LIST-2
I) Web browser	A) .org
II) Domain name	B) URL
III) Web page	C) Mosaic
IV) Web page address	D) A single hypertext document

Ans
1. I) – C), II) – B), III) – D), IV) – A)
2. I) – D), II) – A), III) – B), IV) – C)
3. I) – C), II) – A), III) – D), IV) – B)
4. I) – D), II) – B), III) – A), IV) – C)

Question ID : **630680247845**
Option 1 ID : **630680961588**
Option 2 ID : **630680961589**
Option 3 ID : **630680961590**
Option 4 ID : **630680961587**
Status : **Not Answered**
Chosen Option : **--**

Q.77 MS-Excel 2010 ਵਿੱਚ ਹੇਠ ਲਿਖਿਆਂ ਵਿੱਚੋਂ ਕਿਹੜੇ ਫੀਚਰ ਦੀ ਵਰਤੋਂ ਚੁਣੇ ਹੋਏ ਸੈੱਲਾਂ ਨੂੰ ਇੱਕ ਵੱਡੇ ਸੈੱਲ ਵਿੱਚ ਜੋੜਨ ਅਤੇ ਨਵੇਂ ਸੈੱਲ ਵਿੱਚ ਸਮੱਗਰੀ ਨੂੰ ਸੈਂਟਰ ਅਲਾਈਨ ਕਰਨ ਲਈ ਕੀਤੀ ਜਾਂਦੀ ਹੈ?

Ans
1. ਵ੍ਰੈਪ ਟੈਕਸਟ
2. ਫਾਰਮੈਟ ਐਜ਼ ਟੈਕਸਟ
3. ਕੰਡੀਸ਼ਨਲ ਫਾਰਮੈਟਿੰਗ
4. ਮਰਜ ਐਂਡ ਸੈਂਟਰ

Question ID : **630680247838**
Option 1 ID : **630680961559**
Option 2 ID : **630680961562**
Option 3 ID : **630680961561**
Option 4 ID : **630680961560**
Status : **Answered**
Chosen Option : **4**

Website - www.dailyjobalert.in

Q.78 ਹੇਠ ਲਿਖਿਆਂ ਵਿੱਚੋਂ ਕਿਹੜੀ ਇੱਕ ਸਿਮਿਟ੍ਰਿਕ ਇਨਕ੍ਰਿਪਸ਼ਨ (symmetric encryption) ਵਿਧੀ ਨਹੀਂ ਹੈ?

Ans
- ✗ 1. ਡੇਟਾ ਇਨਕ੍ਰਿਪਸ਼ਨ ਸਟੈਂਡਰਡ (DES)
- ✗ 2. ਟ੍ਰਿਪਲ DES
- ✓ 3. ਡੋਮੇਨ ਨੇਮ ਸਰਵਰ (DNS)
- ✗ 4. ਟੂਫਿਸ਼

Question ID : **630680247855**
Option 1 ID : **630680961627**
Option 2 ID : **630680961628**
Option 3 ID : **630680961630**
Option 4 ID : **630680961629**
Status : **Not Answered**
Chosen Option : **--**

Q.79 ਵਿੰਡੋ ਦੇ ਸਿਖਰ 'ਤੇ ਯੂਜ਼ਰ ਇੰਟਰਫੇਸ ਬਾਰ ਜਿਸ ਵਿੱਚ ਟੈਬਾਂ ਦੁਆਰਾ ਸੰਗਠਿਤ ਕਈ ਤਰ੍ਹਾਂ ਦੇ ਟੂਲ ਹੁੰਦੇ ਹਨ, ਜੋ ਤੁਹਾਨੂੰ MS-Word 2010 ਡੋਕਿਉਮੈਂਟ ਨੂੰ ਐਡਿਟ ਕਰਨ ਅਤੇ ਫਾਰਮੈਟ ਕਰਨ ਵਿੱਚ ਮਦਦ ਕਰਦੇ ਹਨ, ਉਹਨਾਂ ਨੂੰ ਕੀ ਕਿਹਾ ਜਾਂਦਾ ਹੈ?

Ans
- ✗ 1. ਮੈਕਰੋਜ਼
- ✗ 2. ਸਲੈਕਸ਼ਨ ਪੈਨ
- ✓ 3. ਰਿਬਨ
- ✗ 4. ਰੂਲਰ

Question ID : **630680247833**
Option 1 ID : **630680961539**
Option 2 ID : **630680961542**
Option 3 ID : **630680961540**
Option 4 ID : **630680961541**
Status : **Answered**
Chosen Option : **3**

Q.80 WhatsApp ਦੀ ਸਥਾਪਨਾ _____ ਦੇ ਸਾਬਕਾ ਕਰਮਚਾਰੀਆਂ ਦੁਆਰਾ ਕੀਤੀ ਗਈ ਸੀ।

Ans
- ✗ 1. ਮਾਈਕ੍ਰੋਸੋਫ਼ਟ (Microsoft)
- ✓ 2. ਯਾਹੂ (Yahoo)
- ✗ 3. ਆਈਬੀਐੱਮ (IBM)
- ✗ 4. ਗੂਗਲ (Google)

Question ID : **630680247852**
Option 1 ID : **630680961615**
Option 2 ID : **630680961617**
Option 3 ID : **630680961618**
Option 4 ID : **630680961616**
Status : **Not Answered**
Chosen Option : **--**

Section : **English Language**

Website - www.dailyjobalert.in

Q.81 **The following sentence has been split into four segments. Identify the segment that contains a grammatical error.**
There is no / difference beyond the / drawing made by / Adam and Niel.

Ans
✗ 1. There is no

✓ 2. Difference beyond the

✗ 3. Drawing made by

✗ 4. Adam and Niel

Question ID : **630680183548**
Option 1 ID : **630680711205**
Option 2 ID : **630680711206**
Option 3 ID : **630680711207**
Option 4 ID : **630680711208**
Status : **Not Answered**
Chosen Option : **--**

Q.82 **Select the most appropriate nouns to fill in the blanks.**
I will always remember my ex-boss, who was full of _____ and _____ and willing to help everyone.

Ans
✗ 1. artistry, argument

✗ 2. anxiety, despair

✓ 3. compassion, kindness

✗ 4. disregard, assumption

Question ID : **630680166983**
Option 1 ID : **630680646793**
Option 2 ID : **630680646792**
Option 3 ID : **630680646794**
Option 4 ID : **630680646795**
Status : **Answered**
Chosen Option : **3**

Q.83 **Select the most appropriate ANTONYM of the capitalised word in the given sentence.**
Ram is very BUSY.

Ans
✗ 1. Repose

✓ 2. Idle

✗ 3. Regular

✗ 4. Establish

Question ID : **630680118351**
Option 1 ID : **630680458539**
Option 2 ID : **630680458538**
Option 3 ID : **630680458541**
Option 4 ID : **630680458540**
Status : **Not Answered**
Chosen Option : **--**

Website - www.dailyjobalert.in

Q.84 **The following sentence has been split into four segments. Identify the segment that contains a grammatical error.**

It is easy to / get bore when / you are alone, / with nothing to do.

Ans
✗ 1. with nothing to do.

✓ 2. get bore when

✗ 3. you are alone

✗ 4. It is easy to

Question ID : **630680129263**
Option 1 ID : **630680500681**
Option 2 ID : **630680500679**
Option 3 ID : **630680500680**
Option 4 ID : **630680500678**
Status : **Not Answered**
Chosen Option : **--**

Q.85 **"ਮਿਹਨਤ ਸਫਲਤਾ ਦੀ ਕੁੰਜੀ ਹੈ।" ਇਸ ਵਾਕ ਦਾ ਅੰਗਰੇਜ਼ੀ ਅਨੁਵਾਦ ਹੈ:-**

Ans
✗ 1. hard work is center to success

✗ 2. There is no success without hard work.

✗ 3. hard work always give success

✓ 4. Hard work is the key to success

Question ID : **630680248101**
Option 1 ID : **630680962613**
Option 2 ID : **630680962614**
Option 3 ID : **630680962612**
Option 4 ID : **630680962611**
Status : **Answered**
Chosen Option : **4**

Q.86 **Parts of a sentence are given below in jumbled order. Arrange the parts in the correct order to form a meaningful sentence.**

A. The discipline
B. as a professional
C. strengthened you
D. of working has

Ans
✗ 1. ABCD

✓ 2. ADCB

✗ 3. BACD

✗ 4. ACDB

Question ID : **630680124981**
Option 1 ID : **630680484728**
Option 2 ID : **630680484727**
Option 3 ID : **630680484729**
Option 4 ID : **630680484726**
Status : **Answered**
Chosen Option : **2**

Website - www.dailyjobalert.in

Q.87 **Select the option that can be used as a one-word substitute for the given phrase.**

One who is greedy for money and wealth

Ans
✔ 1. Avaricious

✘ 2. Glutton

✘ 3. Parasite

✘ 4. Miser

Question ID : **63068084654**
Option 1 ID : **630680328147**
Option 2 ID : **630680328146**
Option 3 ID : **630680328144**
Option 4 ID : **630680328145**
Status : **Not Answered**
Chosen Option : **--**

Q.88 **Select the most appropriate ANTONYM of the underlined word.**

People expressed their strong dissatisfaction about the <u>sporadic</u> electric supply.

Ans
✔ 1. Frequent

✘ 2. Inconvenient

✘ 3. Inexpensive

✘ 4. Irregular

Question ID : **630680129625**
Option 1 ID : **630680502112**
Option 2 ID : **630680502113**
Option 3 ID : **630680502111**
Option 4 ID : **630680502110**
Status : **Not Answered**
Chosen Option : **--**

Q.89 **Select the most appropriate ANTONYM of the underlined word.**

My friend suggested a very <u>lucrative</u> financial scheme.

Ans
✘ 1. Miserable

✔ 2. Unprofitable

✘ 3. Barbarous

✘ 4. Disturbing

Question ID : **630680129315**
Option 1 ID : **630680500879**
Option 2 ID : **630680500881**
Option 3 ID : **630680500878**
Option 4 ID : **630680500880**
Status : **Not Answered**
Chosen Option : **--**

Website - www.dailyjobalert.in

Q.90 Select the sentence in which all the words are spelt correctly.

Ans
✗ 1. The reniwed COVID-19 concerns have now brought about the desired objective.

✓ 2. The renewed COVID-19 concerns have now brought about the desired objective.

✗ 3. The renued COVID-19 concerns have now bought about the desired objective.

✗ 4. The rinewed COVID-19 concerns have now brought about the desired objective.

Question ID : **630680131755**
Option 1 ID : **630680510232**
Option 2 ID : **630680510230**
Option 3 ID : **630680510231**
Option 4 ID : **630680510233**
Status : **Answered**
Chosen Option : **2**

Q.91 Select the option that can be used as a one-word substitute for the given group of words.

Existing or continuing for a long time

Ans
✓ 1. Perpetual

✗ 2. Accentual

✗ 3. Conceptual

✗ 4. Effectual

Question ID : **63068060860**
Option 1 ID : **630680234890**
Option 2 ID : **630680234893**
Option 3 ID : **630680234892**
Option 4 ID : **630680234891**
Status : **Not Answered**
Chosen Option : **--**

Q.92 Select the option that correctly rearranges the given set of disarranged fragments into a logical and meaningful sentence.
performed well on / tended to perform people / well on other tests / one cognitive test /, while those who scored / who / badly on / to score / one test tended badly on others

Ans
✓ 1. People who performed well on one cognitive test tended to perform well on other tests, while those who scored badly on one test tended to score badly on others.

✗ 2. One cognitive test tended to perform well on other tests people who performed well on, while those who scored badly on others on one test tended to score badly.

✗ 3. People tended to perform well on other tests who performed well on one cognitive test, while those who scored badly on one test tended to score badly on others.

✗ 4. People perform well on other tests who performed well on one tended to cognitive test, while those who scored badly on one test tended to score badly on others.

Question ID : **630680113803**
Option 1 ID : **630680440739**
Option 2 ID : **630680440740**
Option 3 ID : **630680440738**
Option 4 ID : **630680440741**
Status : **Not Answered**
Chosen Option : **--**

Website - www.dailyjobalert.in

Q.93 Select the most appropriate article to fill in the blank.

He is planning to move to ____ European country for his higher studies.

Ans
✔ 1. a

✘ 2. an

✘ 3. No article required

✘ 4. the

Question ID : **63068067349**
Option 1 ID : **630680260220**
Option 2 ID : **630680260219**
Option 3 ID : **630680260221**
Option 4 ID : **630680260218**
Status : **Answered**
Chosen Option : **3**

Q.94 Select the most appropriate option to fill in the blank.

By the time firefighters were called, the house was _____ ablaze.

Ans
✘ 1. pure

✘ 2. good

✘ 3. very

✔ 4. well

Question ID : **630680129329**
Option 1 ID : **630680500936**
Option 2 ID : **630680500934**
Option 3 ID : **630680500937**
Option 4 ID : **630680500935**
Status : **Not Answered**
Chosen Option : **--**

Q.95 Select the word that is OPPOSITE in meaning to the underlined word in the following sentence.

Religious strife has been the cause of <u>pandemonium</u> since long.

Ans
✘ 1. Uproar

✔ 2. Harmony

✘ 3. Hullabaloo

✘ 4. Chaos

Question ID : **630680166291**
Option 1 ID : **630680644125**
Option 2 ID : **630680644126**
Option 3 ID : **630680644127**
Option 4 ID : **630680644124**
Status : **Not Answered**
Chosen Option : **--**

Website - www.dailyjobalert.in

Comprehension:

Read the given passage and answer the questions that follow.

The number of women serving in the Indian armed forces has nearly tripled in recent years. They are increasingly joining the military as soldiers, fighter pilots, and army command posts, rather than only working in the medical profession.
Women's enlistment in the Indian armed services has been a topic of much discussion in recent years. India has taken longer than other industrialised nations like the USA, UK, Germany, and Canada to open up opportunities for women outside of traditional nursing or medical positions.
According to facts in the public domain, the US has contributed significantly to the enlistment of women in the armed forces. More than 200,000 women are now serving on active duty, which accounts for about 20% of the total strength of the US armed forces.
Israel also has women in its armed services, but they serve in technical and administrative positions rather than in combat ones.
The young Indian women in India have broken the glass ceiling in the traditionally male-dominated field by persevering, and as of today, there are about 9,118 women serving in the Indian Army, Air Force, and Navy. The introduction of 1,700 female jawans into the Corps of Military Police has received approval from the administration.
When the Indian Military Nursing Service was established in 1888, women were admitted for the first time to the Indian Armed Forces. Additionally, the Indian Army's entire nursing personnel at the time was crucial to the success of World War I. The top Army brass was so impressed by their performance that they decided to strengthen and expand the women's wing, creating the Women's Auxiliary Corps. This Corps was created to make it easier for women to serve in administrative, accounting, and other non-combat positions.
Women were only allowed to serve in Netaji Subhas Chandra Bose's Azad Hind Fauj and the Rani of Jhansi Regiment, which battled the Imperial Japanese Army in what was then Burma.
The Indian Army, according to a female officer, "gives us the opportunity to help us satisfy our professional and personal life requirements. Serving our country makes us officers feel incredibly proud."
A woman can become stronger and a warrior for life with the support system of the army. In 2016, the Indian Air Force (IAF) began training its first female fighter pilots to fly the MiG-21 Bison. The female fighter pilots of the IAF claim that there is no discrimination based on gender and that all pilots confront the same challenges.
According to prior reports, the Supreme Court of India ordered the Centre to give permanent commissions to women officers in all three Services where women are eligible for appointment in a landmark decision.
As per the government's directive, ten streams, including Army Air Defence (AAD), Signals, Engineers, Army Aviation, Electronics and Mechanical Engineers (EME), Army Service Corps (ASC), Army Ordnance Corps (AOC), and Intelligence Corps, in addition to the two currently active streams of Judge and Advocate General (JAG) and Army Educational Corps(AEC), were opened to women officers in July 2020.<brThe nation's highest court rendered a landmark decision regarding women in combat arms in March 2020.
Since 2020, there has been a noticeable increase in the number of women serving in the armed forces; in addition to the female officers in the Army Education Corps, they can now be given consideration for leadership positions within the Indian Army.<brAccording to information presented by the government in Rajya Sabha in February 2021, the Indian Navy employs the most women of the three services, at 6.5 per cent. Additionally, the proportion of women in the Indian Air Force and Army is 1.08 and 0.56, respectively.
There are 6,807 women serving in the Army, while there are 12,18,036 males, according to information provided in a written response by the former Minister of State for Defence Shripad Naik.
In the Indian Navy, there are 704 women officers, which is 6.5 per cent of the 10,108 males who serve in the organisation. Additionally, women have currently been hired as officers. Women have been a member of the service since 1992, when it consisted of three distinct streams: logistics, education, and law.

SubQuestion No : 96

Q.96 What led to the creation of the Women's Auxiliary Corps?

Ans

✗ 1. As the introduction of 1700 female jawans into the corps received approval.

✗ 2. As the number of men forces during the wars was declining.

✓ 3. As the performance of nursing personnel during World War I, impressed the army brass.

✗ 4. As it was easier for women to serve in the administration.

Question ID : **630680204134**
Option 1 ID : **630680791684**
Option 2 ID : **630680791686**
Option 3 ID : **630680791685**
Option 4 ID : **630680791683**
Status : **Not Answered**
Chosen Option : **--**

Website - www.dailyjobalert.in

Comprehension:

Read the given passage and answer the questions that follow.

The number of women serving in the Indian armed forces has nearly tripled in recent years. They are increasingly joining the military as soldiers, fighter pilots, and army command posts, rather than only working in the medical profession.
Women's enlistment in the Indian armed services has been a topic of much discussion in recent years. India has taken longer than other industrialised nations like the USA, UK, Germany, and Canada to open up opportunities for women outside of traditional nursing or medical positions.
According to facts in the public domain, the US has contributed significantly to the enlistment of women in the armed forces. More than 200,000 women are now serving on active duty, which accounts for about 20% of the total strength of the US armed forces.
Israel also has women in its armed services, but they serve in technical and administrative positions rather than in combat ones.
The young Indian women in India have broken the glass ceiling in the traditionally male-dominated field by persevering, and as of today, there are about 9,118 women serving in the Indian Army, Air Force, and Navy. The introduction of 1,700 female jawans into the Corps of Military Police has received approval from the administration.
When the Indian Military Nursing Service was established in 1888, women were admitted for the first time to the Indian Armed Forces. Additionally, the Indian Army's entire nursing personnel at the time was crucial to the success of World War I. The top Army brass was so impressed by their performance that they decided to strengthen and expand the women's wing, creating the Women's Auxiliary Corps. This Corps was created to make it easier for women to serve in administrative, accounting, and other non-combat positions.
Women were only allowed to serve in Netaji Subhas Chandra Bose's Azad Hind Fauj and the Rani of Jhansi Regiment, which battled the Imperial Japanese Army in what was then Burma.
The Indian Army, according to a female officer, "gives us the opportunity to help us satisfy our professional and personal life requirements. Serving our country makes us officers feel incredibly proud."
A woman can become stronger and a warrior for life with the support system of the army. In 2016, the Indian Air Force (IAF) began training its first female fighter pilots to fly the MiG-21 Bison. The female fighter pilots of the IAF claim that there is no discrimination based on gender and that all pilots confront the same challenges.
According to prior reports, the Supreme Court of India ordered the Centre to give permanent commissions to women officers in all three Services where women are eligible for appointment in a landmark decision.
As per the government's directive, ten streams, including Army Air Defence (AAD), Signals, Engineers, Army Aviation, Electronics and Mechanical Engineers (EME), Army Service Corps (ASC), Army Ordnance Corps (AOC), and Intelligence Corps, in addition to the two currently active streams of Judge and Advocate General (JAG) and Army Educational Corps(AEC), were opened to women officers in July 2020.<brThe nation's highest court rendered a landmark decision regarding women in combat arms in March 2020.
Since 2020, there has been a noticeable increase in the number of women serving in the armed forces; in addition to the female officers in the Army Education Corps, they can now be given consideration for leadership positions within the Indian Army.<brAccording to information presented by the government in Rajya Sabha in February 2021, the Indian Navy employs the most women of the three services, at 6.5 per cent. Additionally, the proportion of women in the Indian Air Force and Army is 1.08 and 0.56, respectively.
There are 6,807 women serving in the Army, while there are 12,18,036 males, according to information provided in a written response by the former Minister of State for Defence Shripad Naik.
In the Indian Navy, there are 704 women officers, which is 6.5 per cent of the 10,108 males who serve in the organisation. Additionally, women have currently been hired as officers. Women have been a member of the service since 1992, when it consisted of three distinct streams: logistics, education, and law.

SubQuestion No : 97

Q.97 Identify the most appropriate title for the passage.

Ans

✗ 1. Women and MiG-21 Bison

✗ 2. No Gender Discrimination

✗ 3. Women and Glass Ceiling

✓ 4. Women in the Indian Armed Forces

Question ID : **630680204130**
Option 1 ID : **630680791669**
Option 2 ID : **630680791668**
Option 3 ID : **630680791667**
Option 4 ID : **630680791670**
Status : **Answered**
Chosen Option : **4**

Website - www.dailyjobalert.in

Comprehension:

Read the given passage and answer the questions that follow.

The number of women serving in the Indian armed forces has nearly tripled in recent years. They are increasingly joining the military as soldiers, fighter pilots, and army command posts, rather than only working in the medical profession.
Women's enlistment in the Indian armed services has been a topic of much discussion in recent years. India has taken longer than other industrialised nations like the USA, UK, Germany, and Canada to open up opportunities for women outside of traditional nursing or medical positions.
According to facts in the public domain, the US has contributed significantly to the enlistment of women in the armed forces. More than 200,000 women are now serving on active duty, which accounts for about 20% of the total strength of the US armed forces.
Israel also has women in its armed services, but they serve in technical and administrative positions rather than in combat ones.
The young Indian women in India have broken the glass ceiling in the traditionally male-dominated field by persevering, and as of today, there are about 9,118 women serving in the Indian Army, Air Force, and Navy. The introduction of 1,700 female jawans into the Corps of Military Police has received approval from the administration.
When the Indian Military Nursing Service was established in 1888, women were admitted for the first time to the Indian Armed Forces. Additionally, the Indian Army's entire nursing personnel at the time was crucial to the success of World War I. The top Army brass was so impressed by their performance that they decided to strengthen and expand the women's wing, creating the Women's Auxiliary Corps. This Corps was created to make it easier for women to serve in administrative, accounting, and other non-combat positions.
Women were only allowed to serve in Netaji Subhas Chandra Bose's Azad Hind Fauj and the Rani of Jhansi Regiment, which battled the Imperial Japanese Army in what was then Burma.
The Indian Army, according to a female officer, "gives us the opportunity to help us satisfy our professional and personal life requirements. Serving our country makes us officers feel incredibly proud."
A woman can become stronger and a warrior for life with the support system of the army. In 2016, the Indian Air Force (IAF) began training its first female fighter pilots to fly the MiG-21 Bison. The female fighter pilots of the IAF claim that there is no discrimination based on gender and that all pilots confront the same challenges.
According to prior reports, the Supreme Court of India ordered the Centre to give permanent commissions to women officers in all three Services where women are eligible for appointment in a landmark decision.
As per the government's directive, ten streams, including Army Air Defence (AAD), Signals, Engineers, Army Aviation, Electronics and Mechanical Engineers (EME), Army Service Corps (ASC), Army Ordnance Corps (AOC), and Intelligence Corps, in addition to the two currently active streams of Judge and Advocate General (JAG) and Army Educational Corps(AEC), were opened to women officers in July 2020.<brThe nation's highest court rendered a landmark decision regarding women in combat arms in March 2020.
Since 2020, there has been a noticeable increase in the number of women serving in the armed forces; in addition to the female officers in the Army Education Corps, they can now be given consideration for leadership positions within the Indian Army.<brAccording to information presented by the government in Rajya Sabha in February 2021, the Indian Navy employs the most women of the three services, at 6.5 per cent. Additionally, the proportion of women in the Indian Air Force and Army is 1.08 and 0.56, respectively.
There are 6,807 women serving in the Army, while there are 12,18,036 males, according to information provided in a written response by the former Minister of State for Defence Shripad Naik.
In the Indian Navy, there are 704 women officers, which is 6.5 per cent of the 10,108 males who serve in the organisation. Additionally, women have currently been hired as officers. Women have been a member of the service since 1992, when it consisted of three distinct streams: logistics, education, and law.

SubQuestion No : 98

Q.98 Which of the following facts is mentioned in the passage?

Ans

✔ 1. Earlier, women were allowed to serve in the Rani of Jhansi Regiment.

✘ 2. 2,00,000 Indian women are now serving on active duty.

✘ 3. During World War I, permanent commission was given to all women

✘ 4. The proportion of women in the Indian Army is now more than women in the Indian Navy.

Question ID : **630680204132**
Option 1 ID : **630680791678**
Option 2 ID : **630680791675**
Option 3 ID : **630680791676**
Option 4 ID : **630680791677**
Status : **Not Answered**
Chosen Option : **--**

Website - www.dailyjobalert.in

Comprehension:

Read the given passage and answer the questions that follow.

The number of women serving in the Indian armed forces has nearly tripled in recent years. They are increasingly joining the military as soldiers, fighter pilots, and army command posts, rather than only working in the medical profession.
Women's enlistment in the Indian armed services has been a topic of much discussion in recent years. India has taken longer than other industrialised nations like the USA, UK, Germany, and Canada to open up opportunities for women outside of traditional nursing or medical positions.
According to facts in the public domain, the US has contributed significantly to the enlistment of women in the armed forces. More than 200,000 women are now serving on active duty, which accounts for about 20% of the total strength of the US armed forces.
Israel also has women in its armed services, but they serve in technical and administrative positions rather than in combat ones.
The young Indian women in India have broken the glass ceiling in the traditionally male-dominated field by persevering, and as of today, there are about 9,118 women serving in the Indian Army, Air Force, and Navy. The introduction of 1,700 female jawans into the Corps of Military Police has received approval from the administration.
When the Indian Military Nursing Service was established in 1888, women were admitted for the first time to the Indian Armed Forces. Additionally, the Indian Army's entire nursing personnel at the time was crucial to the success of World War I. The top Army brass was so impressed by their performance that they decided to strengthen and expand the women's wing, creating the Women's Auxiliary Corps. This Corps was created to make it easier for women to serve in administrative, accounting, and other non-combat positions.
Women were only allowed to serve in Netaji Subhas Chandra Bose's Azad Hind Fauj and the Rani of Jhansi Regiment, which battled the Imperial Japanese Army in what was then Burma.
The Indian Army, according to a female officer, "gives us the opportunity to help us satisfy our professional and personal life requirements. Serving our country makes us officers feel incredibly proud."
A woman can become stronger and a warrior for life with the support system of the army. In 2016, the Indian Air Force (IAF) began training its first female fighter pilots to fly the MiG-21 Bison. The female fighter pilots of the IAF claim that there is no discrimination based on gender and that all pilots confront the same challenges.
According to prior reports, the Supreme Court of India ordered the Centre to give permanent commissions to women officers in all three Services where women are eligible for appointment in a landmark decision.
As per the government's directive, ten streams, including Army Air Defence (AAD), Signals, Engineers, Army Aviation, Electronics and Mechanical Engineers (EME), Army Service Corps (ASC), Army Ordnance Corps (AOC), and Intelligence Corps, in addition to the two currently active streams of Judge and Advocate General (JAG) and Army Educational Corps(AEC), were opened to women officers in July 2020.<brThe nation's highest court rendered a landmark decision regarding women in combat arms in March 2020.
Since 2020, there has been a noticeable increase in the number of women serving in the armed forces; in addition to the female officers in the Army Education Corps, they can now be given consideration for leadership positions within the Indian Army.<brAccording to information presented by the government in Rajya Sabha in February 2021, the Indian Navy employs the most women of the three services, at 6.5 per cent. Additionally, the proportion of women in the Indian Air Force and Army is 1.08 and 0.56, respectively.
There are 6,807 women serving in the Army, while there are 12,18,036 males, according to information provided in a written response by the former Minister of State for Defence Shripad Naik.
In the Indian Navy, there are 704 women officers, which is 6.5 per cent of the 10,108 males who serve in the organisation. Additionally, women have currently been hired as officers. Women have been a member of the service since 1992, when it consisted of three distinct streams: logistics, education, and law.

SubQuestion No : 99

Q.99 What is the structure of the given passage?

Ans

✗ 1. Problem and solution

✗ 2. Sequence and process

✓ 3. Compare and contrast

✗ 4. Cause and effect

Question ID : **630680204133**
Option 1 ID : **630680791681**
Option 2 ID : **630680791679**
Option 3 ID : **630680791680**
Option 4 ID : **630680791682**
Status : **Not Answered**
Chosen Option : **--**

Website - www.dailyjobalert.in

Comprehension:

Read the given passage and answer the questions that follow.

The number of women serving in the Indian armed forces has nearly tripled in recent years. They are increasingly joining the military as soldiers, fighter pilots, and army command posts, rather than only working in the medical profession.
Women's enlistment in the Indian armed services has been a topic of much discussion in recent years. India has taken longer than other industrialised nations like the USA, UK, Germany, and Canada to open up opportunities for women outside of traditional nursing or medical positions.
According to facts in the public domain, the US has contributed significantly to the enlistment of women in the armed forces. More than 200,000 women are now serving on active duty, which accounts for about 20% of the total strength of the US armed forces.
Israel also has women in its armed services, but they serve in technical and administrative positions rather than in combat ones.
The young Indian women in India have broken the glass ceiling in the traditionally male-dominated field by persevering, and as of today, there are about 9,118 women serving in the Indian Army, Air Force, and Navy. The introduction of 1,700 female jawans into the Corps of Military Police has received approval from the administration.
When the Indian Military Nursing Service was established in 1888, women were admitted for the first time to the Indian Armed Forces. Additionally, the Indian Army's entire nursing personnel at the time was crucial to the success of World War I. The top Army brass was so impressed by their performance that they decided to strengthen and expand the women's wing, creating the Women's Auxiliary Corps. This Corps was created to make it easier for women to serve in administrative, accounting, and other non-combat positions.
Women were only allowed to serve in Netaji Subhas Chandra Bose's Azad Hind Fauj and the Rani of Jhansi Regiment, which battled the Imperial Japanese Army in what was then Burma.
The Indian Army, according to a female officer, "gives us the opportunity to help us satisfy our professional and personal life requirements. Serving our country makes us officers feel incredibly proud."
A woman can become stronger and a warrior for life with the support system of the army. In 2016, the Indian Air Force (IAF) began training its first female fighter pilots to fly the MiG-21 Bison. The female fighter pilots of the IAF claim that there is no discrimination based on gender and that all pilots confront the same challenges.
According to prior reports, the Supreme Court of India ordered the Centre to give permanent commissions to women officers in all three Services where women are eligible for appointment in a landmark decision.
As per the government's directive, ten streams, including Army Air Defence (AAD), Signals, Engineers, Army Aviation, Electronics and Mechanical Engineers (EME), Army Service Corps (ASC), Army Ordnance Corps (AOC), and Intelligence Corps, in addition to the two currently active streams of Judge and Advocate General (JAG) and Army Educational Corps(AEC), were opened to women officers in July 2020.<brThe nation's highest court rendered a landmark decision regarding women in combat arms in March 2020.
Since 2020, there has been a noticeable increase in the number of women serving in the armed forces; in addition to the female officers in the Army Education Corps, they can now be given consideration for leadership positions within the Indian Army.<brAccording to information presented by the government in Rajya Sabha in February 2021, the Indian Navy employs the most women of the three services, at 6.5 per cent. Additionally, the proportion of women in the Indian Air Force and Army is 1.08 and 0.56, respectively.
There are 6,807 women serving in the Army, while there are 12,18,036 males, according to information provided in a written response by the former Minister of State for Defence Shripad Naik.
In the Indian Navy, there are 704 women officers, which is 6.5 per cent of the 10,108 males who serve in the organisation. Additionally, women have currently been hired as officers. Women have been a member of the service since 1992, when it consisted of three distinct streams: logistics, education, and law.

SubQuestion No : 100

Q.100 What does the 'Glass Ceiling'mean in the given passage?

Ans

✗ 1. A belief in capitalist society

✗ 2. Ritual in traditional society

✗ 3. Attitude maintained by men

✓ 4. Barriers faced by women

Question ID : **630680204131**
Option 1 ID : **630680791674**
Option 2 ID : **630680791673**
Option 3 ID : **630680791672**
Option 4 ID : **630680791671**
Status : **Not Answered**
Chosen Option : **--**

Website - www.dailyjobalert.in

Q.1 ਸਹੀ ਸ਼ਬਦ-ਜੋੜ ਚੁਣੋ:

Ans
✔ 1. ਭਿਖਾਰਨ
✘ 2. ਭਿਖਰਾਨ
✘ 3. ਭਿਖਰਨ
✘ 4. ਭੀਖਾਰਿਨ

Question ID : **630680248396**
Option 1 ID : **630680963727**
Option 2 ID : **630680963729**
Option 3 ID : **630680963728**
Option 4 ID : **630680963730**
Status : **Answered**
Chosen Option : **1**

Q.2 ਵਿਸਰਾਮ ਚਿੰਨ੍ਹ ਦੀ ਠੀਕ ਵਰਤੋਂ ਪੱਖੋਂ ਕਿਹੜਾ ਵਾਕ ਸਹੀ ਹੈ:

Ans
✘ 1. ਮੰਮੀ ਵੀਰਾ ? ਆ ਗਿਆ ਏ।
✘ 2. ਮੰਮੀ ਵੀਰਾ ! ਆ, ਗਿਆ ਏ?
✘ 3. ਮੰਮੀ ਵੀਰਾ; ਆ ਗਿਆ ਏ
✔ 4. ਮੰਮੀ, ਵੀਰਾ ਆ ਗਿਆ ਏ!

Question ID : **630680248401**
Option 1 ID : **630680963747**
Option 2 ID : **630680963748**
Option 3 ID : **630680963750**
Option 4 ID : **630680963749**
Status : **Answered**
Chosen Option : **2**

Q.3 'ਸੇਠ' ਸ਼ਬਦ ਦਾ ਲਿੰਗ ਬਦਲੋ:

Ans
✔ 1. ਸੇਠਾਣੀ
✘ 2. ਮਾਲਕਣ
✘ 3. ਸੇਠੀ
✘ 4. ਨੌਕਰਾਣੀ

Question ID : **630680248381**
Option 1 ID : **630680963669**
Option 2 ID : **630680963670**
Option 3 ID : **630680963667**
Option 4 ID : **630680963668**
Status : **Answered**
Chosen Option : **1**

DAILY JOB Alert ਪੰਜਾਬ

Q.4 'ਠਰ੍ਹੰਮਾ' ਸ਼ਬਦ ਦਾ ਅਰਥ _____ ਹੈ।

Ans
✔ 1. ਸਬਰ
✘ 2. ਫਾਨਾ
✘ 3. ਪ੍ਰਾਣ
✘ 4. ਠਰਨਾ

Question ID : **630680248409**
Option 1 ID : **630680963781**
Option 2 ID : **630680963782**
Option 3 ID : **630680963780**
Option 4 ID : **630680963779**
Status : **Answered**
Chosen Option : **1**

Q.5 'ਪੁਸ਼ਪ' ਦਾ ਸਮਾਨਾਰਥਕ ਸ਼ਬਦ ਹੈ:

Ans
✘ 1. ਸੁਥਰਾ
✘ 2. ਸਾਫ
✔ 3. ਫੁੱਲ
✘ 4. ਸਵੱਛ

Question ID : **630680248363**
Option 1 ID : **630680963598**
Option 2 ID : **630680963596**
Option 3 ID : **630680963595**
Option 4 ID : **630680963597**
Status : **Answered**
Chosen Option : **3**

Q.6 ਬੇਪਰਵਾਹ ਸ਼ਬਦ ਵਿਚ ਕਿਹੜਾ ਅਗੇਤਰ ਹੈ:

Ans
✘ 1. ਬੇਪ
✔ 2. ਬੇ
✘ 3. ਏ
✘ 4. ਬੇਪਰ

Question ID : **630680248387**
Option 1 ID : **630680963692**
Option 2 ID : **630680963693**
Option 3 ID : **630680963694**
Option 4 ID : **630680963691**
Status : **Answered**
Chosen Option : **2**

Q.7 ਯਤੀਮਖ਼ਾਨਾ ਸ਼ਬਦ ਵਿਚ ਕਿਹੜਾ ਪਿਛੇਤਰ ਹੈ:

Ans
✘ 1. ਮਖ਼ਾਨਾ
✔ 2. ਖ਼ਾਨਾ
✘ 3. ਤੀਮਖ਼ਾਨਾ
✘ 4. ਨਾ

Question ID : **630680248393**
Option 1 ID : **630680963717**
Option 2 ID : **630680963718**
Option 3 ID : **630680963716**
Option 4 ID : **630680963715**
Status : **Answered**
Chosen Option : **2**

DAILY JOB Alert ਪੰਜਾਬ
Website - www.dailyjobalert.in

Q.8 ਵਿਸਮਕ ਚਿੰਨ੍ਹ(!) ਦੀ ਵਰਤੋਂ _____ ਪ੍ਰਗਟ ਕਰਨ ਲਈ ਹੁੰਦੀ ਹੈ।

Ans
1. ਅਲਪ ਵਿਰਾਮ
2. ਪ੍ਰਸ਼ਨ
3. ਹੈਰਾਨੀ
4. ਪੂਰਨ ਵਿਸਰਾਮ

Question ID : **630680248398**
Option 1 ID : **630680963737**
Option 2 ID : **630680963735**
Option 3 ID : **630680963738**
Option 4 ID : **630680963736**
Status : **Answered**
Chosen Option : **3**

Q.9 'ਸੰਘਣਾ' ਦਾ ਵਿਰੋਧੀ ਸ਼ਬਦ ਹੈ:

Ans
1. ਗਾੜ੍ਹਾ
2. ਵਿਰਲਾ
3. ਘੁਟਵਾਂ
4. ਸੰਖੇਪ

Question ID : **630680248368**
Option 1 ID : **630680963616**
Option 2 ID : **630680963618**
Option 3 ID : **630680963617**
Option 4 ID : **630680963615**
Status : **Answered**
Chosen Option : **2**

Q.10 ਸਹੀ ਸ਼ਬਦ-ਜੋੜ ਚੁਣੋ:

Ans
1. ਜਲੇਮ
2. ਜਲਿਮ
3. ਜਲਮਨ
4. ਜ਼ਾਲਮ

Question ID : **630680248395**
Option 1 ID : **630680963724**
Option 2 ID : **630680963723**
Option 3 ID : **630680963725**
Option 4 ID : **630680963726**
Status : **Answered**
Chosen Option : **4**

Q.11 Autonomous ਸ਼ਬਦ ਦਾ ਪੰਜਾਬੀ ਅਨੁਵਾਦ ਕਰੋ।

Ans
1. ਖ਼ੁਦਗਰਜ਼
2. ਵਾਹਨ ਨਿਯਮ
3. ਖ਼ੁਦਮੁਖ਼ਤਿਆਰ
4. ਨਿਰਭਰ

Question ID : **630680248404**
Option 1 ID : **630680963762**
Option 2 ID : **630680963759**
Option 3 ID : **630680963761**
Option 4 ID : **630680963760**
Status : **Answered**
Chosen Option : **1**

Website - www.dailyjobalert.in

Q.12 ਔਗੁਣ ਸ਼ਬਦ ਵਿਚ ਕਿਹੜਾ ਅਗੇਤਰ ਹੈ:

Ans
1. ਣ
2. ਔ
3. ਅ
4. ਔਗੁ

Question ID : **630680248388**
Option 1 ID : **630680963698**
Option 2 ID : **630680963696**
Option 3 ID : **630680963695**
Option 4 ID : **630680963697**
Status : **Answered**
Chosen Option : **2**

Q.13 'ਛੋਹਲਾ' ਦਾ ਵਿਰੋਧੀ ਸ਼ਬਦ ਹੈ:

Ans
1. ਤੇਜ਼
2. ਡਰਾਕਲ
3. ਹੁਸ਼ਿਆਰ
4. ਸੁਸਤ

Question ID : **630680248367**
Option 1 ID : **630680963611**
Option 2 ID : **630680963613**
Option 3 ID : **630680963612**
Option 4 ID : **630680963614**
Status : **Answered**
Chosen Option : **4**

Q.14 ਹਮਜ਼ੋਲੀ ਸ਼ਬਦ ਵਿਚ ਕਿਹੜਾ ਅਗੇਤਰ ਹੈ:

Ans
1. ਹਮ
2. ਹਮਜ਼
3. ਹਮਜ਼ੋ
4. ਹ

Question ID : **630680248389**
Option 1 ID : **630680963702**
Option 2 ID : **630680963700**
Option 3 ID : **630680963701**
Option 4 ID : **630680963699**
Status : **Answered**
Chosen Option : **1**

Q.15 _____ ਪ੍ਰਗਟ ਕਰਨ ਵਾਲੇ ਵਿਰੋਧਾਰਥਕ ਸ਼ਬਦ ਹੁੰਦੇ ਹਨ:

Ans
1. ਉਲਟ ਭਾਵਾਂ ਨੂੰ
2. ਇਕੋ ਜਿਹੇ ਭਾਵਾਂ ਨੂੰ
3. ਬਹੁ-ਅਰਥਾਂ ਨੂੰ
4. ਸਮਾਨ ਭਾਵਾਂ ਨੂੰ

Question ID : **630680248364**
Option 1 ID : **630680963602**
Option 2 ID : **630680963599**
Option 3 ID : **630680963601**
Option 4 ID : **630680963600**
Status : **Answered**
Chosen Option : **1**

Website - www.dailyjobalert.in

Q.16 Assistant ਸ਼ਬਦ ਦਾ ਪੰਜਾਬੀ ਅਨੁਵਾਦ ਕਰੋ।

Ans
- ✗ 1. ਨੇੜੇ ਜਾਣਾ
- ✓ 2. ਸਹਾਇਕ
- ✗ 3. ਮਿਲਣਾ
- ✗ 4. ਚਾਲੂ

Question ID : **630680248403**
Option 1 ID : **630680963757**
Option 2 ID : **630680963755**
Option 3 ID : **630680963756**
Option 4 ID : **630680963758**
Status : **Answered**
Chosen Option : **2**

Q.17 'ਫੁੱਫੜ' ਸ਼ਬਦ ਦਾ ਲਿੰਗ ਬਦਲੋ:

Ans
- ✗ 1. ਫੁਫੜੀ
- ✗ 2. ਫੁਫੇਹਸ
- ✓ 3. ਭੂਆ
- ✗ 4. ਫੂਫਾ

Question ID : **630680248383**
Option 1 ID : **630680963676**
Option 2 ID : **630680963677**
Option 3 ID : **630680963678**
Option 4 ID : **630680963675**
Status : **Answered**
Chosen Option : **3**

Q.18 'ਰਾਈ ਦਾ ਪਹਾੜ ਬਣਾਉਣਾ' ਕੀ ਹੈ?

Ans
- ✗ 1. ਬਹੁਤੇ ਸ਼ਬਦਾਂ ਦੀ ਥਾਂ ਇਕ ਸ਼ਬਦ
- ✗ 2. ਅਖਾਣ
- ✗ 3. ਬੁਝਾਰਤ
- ✓ 4. ਮੁਹਾਵਰਾ

Question ID : **630680248376**
Option 1 ID : **630680963650**
Option 2 ID : **630680963648**
Option 3 ID : **630680963647**
Option 4 ID : **630680963649**
Status : **Answered**
Chosen Option : **4**

Q.19 'ਉਹ ਅਖ਼ਬਾਰ ਜੋ ਹਫ਼ਤੇ ਬਾਅਦ ਨਿਕਲੇ' ਨੂੰ ਕਿਹਾ ਜਾਂਦਾ ਹੈ:

Ans
- ✗ 1. ਦੈਨਿਕ
- ✗ 2. ਸਲਾਨਾ
- ✓ 3. ਸਪਤਾਹਿਕ
- ✗ 4. ਮਾਸਿਕ

Question ID : **630680248371**
Option 1 ID : **630680963630**
Option 2 ID : **630680963628**
Option 3 ID : **630680963629**
Option 4 ID : **630680963627**
Status : **Answered**
Chosen Option : **3**

DAILY JOB Alert ਪੰਜਾਬ
Website - www.dailyjobalert.in

Q.20 79 ਨੂੰ ਪੰਜਾਬੀ ਵਿਚ ਲਿਖੋ।

Ans
1. ਨਤ੍ਰਿਨਵੇਂ
2. ਉਣਾਸੀ
3. ਪੈਂਹਠ
4. ਬਾਨਵੇਂ

Question ID : **630680248406**
Option 1 ID : **630680963768**
Option 2 ID : **630680963770**
Option 3 ID : **630680963769**
Option 4 ID : **630680963767**
Status : **Answered**
Chosen Option : **2**

Q.21 ਉਹ ਸ਼ਬਦ ਜੋ ਵੱਖ-ਵੱਖ ਹੁੰਦੇ ਹੋਏ ਵੀ ਇਕ ਹੀ ਅਰਥ ਪ੍ਰਗਟ ਕਰਦੇ ਹਨ, ਉਹ _____ ਸ਼ਬਦ ਅਖਵਾਉਂਦੇ ਹਨ।

Ans
1. ਵਿਰੋਧੀ
2. ਸਮਾਨਾਰਥਕ
3. ਬਹੁ-ਅਰਥਕ
4. ਬਹੁਤੇ ਸ਼ਬਦਾਂ ਦੀ ਥਾਂ ਇਕ ਸ਼ਬਦ

Question ID : **630680248360**
Option 1 ID : **630680963585**
Option 2 ID : **630680963583**
Option 3 ID : **630680963584**
Option 4 ID : **630680963586**
Status : **Answered**
Chosen Option : **4**

Q.22 ਸਹੀ ਸ਼ਬਦ-ਜੋੜ ਚੁਣੋ:

Ans
1. ਮਿਹਨਤ
2. ਮਹਿਨਤ
3. ਮੇਹਨਤ
4. ਮੈਹਨਤ

Question ID : **630680248394**
Option 1 ID : **630680963720**
Option 2 ID : **630680963722**
Option 3 ID : **630680963719**
Option 4 ID : **630680963721**
Status : **Answered**
Chosen Option : **1**

Q.23 'ਉਹ ਪਾਠ ਜੋ ਸ਼ੁਰੂ ਤੋਂ ਅੰਤ ਤੱਕ ਅਰੁੱਕ ਕੀਤਾ ਜਾਵੇ' ਨੂੰ ਕਿਹਾ ਜਾਂਦਾ ਹੈ:

Ans
1. ਖੰਡ ਪਾਠ
2. ਸਮੁੱਚਾ ਪਾਠ
3. ਅਖੰਡ ਪਾਠ
4. ਪਾਠ

Question ID : **630680248369**
Option 1 ID : **630680963621**
Option 2 ID : **630680963622**
Option 3 ID : **630680963620**
Option 4 ID : **630680963619**
Status : **Answered**
Chosen Option : **3**

Website - www.dailyjobalert.in

Q.24 'ਸੱਪ' ਸ਼ਬਦ ਦਾ ਲਿੰਗ ਬਦਲੋ:

Ans
1. ਸਪੇਰਨ
2. ਸਪੇਰੀ
3. ਸੱਪਣੀ
4. ਸੱਪੀ

Question ID : **630680248382**
Option 1 ID : **630680963672**
Option 2 ID : **630680963674**
Option 3 ID : **630680963671**
Option 4 ID : **630680963673**
Status : **Answered**
Chosen Option : **3**

Q.25 ਸਹੀ ਸ਼ਬਦ-ਜੋੜ ਚੁਣੋ:

Ans
1. ਵਾਰਸ਼ਿਕ
2. ਵਾਰਸਕ
3. ਵਾਰਸ਼ਕਿ
4. ਬਾਰਸ਼ਕ

Question ID : **630680248397**
Option 1 ID : **630680963733**
Option 2 ID : **630680963734**
Option 3 ID : **630680963732**
Option 4 ID : **630680963731**
Status : **Answered**
Chosen Option : **1**

Q.26 39 ਨੂੰ ਪੰਜਾਬੀ ਵਿਚ ਲਿਖੋ।

Ans
1. ਉਨਾਹਠ
2. ਉਣੰਜਾ
3. ਉਨੱਤੀ
4. ਉਣਤਾਲੀ

Question ID : **630680248405**
Option 1 ID : **630680963766**
Option 2 ID : **630680963765**
Option 3 ID : **630680963763**
Option 4 ID : **630680963764**
Status : **Answered**
Chosen Option : **4**

Q.27 'ਆਕੜ' ਦਾ ਵਿਰੋਧੀ ਸ਼ਬਦ ਹੈ:

Ans
1. ਹੰਕਾਰ
2. ਈਗੋ
3. ਅਭਿਮਾਨ
4. ਹਲੀਮੀ

Question ID : **630680248366**
Option 1 ID : **630680963608**
Option 2 ID : **630680963609**
Option 3 ID : **630680963610**
Option 4 ID : **630680963607**
Status : **Answered**
Chosen Option : **4**

Website - www.dailyjobalert.in

Q.28 'ਲੱਤ' ਦਾ ਵਚਨ ਬਦਲੋ:

Ans
✔ 1. ਲੱਤਾਂ
✘ 2. ਲੱਤੀਆਂ
✘ 3. ਲੱਤਾਵਾਂ
✘ 4. ਲੱਤਿਆ

Question ID : **630680248386**
Option 1 ID : **630680963687**
Option 2 ID : **630680963689**
Option 3 ID : **630680963688**
Option 4 ID : **630680963690**
Status : **Answered**
Chosen Option : **1**

Q.29 ਫੱਗਣ ਮਹੀਨੇ ਤੋਂ ਅਗਲਾ ਮਹੀਨਾ ਕਿਹੜਾ ਆਉਂਦਾ ਹੈ:

Ans
✘ 1. ਮਾਘ
✘ 2. ਵਿਸਾਖ
✘ 3. ਜੇਠ
✔ 4. ਚੇਤ

Question ID : **630680248408**
Option 1 ID : **630680963776**
Option 2 ID : **630680963777**
Option 3 ID : **630680963778**
Option 4 ID : **630680963775**
Status : **Answered**
Chosen Option : **4**

Q.30 ਕਿਸੇ ਦੀ ਬੁਰਾਈ ਕਰਨ ਵੇਲੇ ਕਿਹੜਾ ਮੁਹਾਵਰਾ ਵਰਤਿਆ ਜਾਂਦਾ ਹੈ:

Ans
✔ 1. ਭੰਡੀ ਕਰਨਾ
✘ 2. ਫਿਕ ਪੈਣਾ
✘ 3. ਬਾਂਹ ਭੱਜਣੀ
✘ 4. ਨੱਕ ਚਾੜ੍ਹਨਾ

Question ID : **630680248375**
Option 1 ID : **630680963644**
Option 2 ID : **630680963645**
Option 3 ID : **630680963643**
Option 4 ID : **630680963646**
Status : **Answered**
Chosen Option : **1**

Q.31 ਪੂਰਨ ਵਿਸਰਾਮ ਲਈ ਪੰਜਾਬੀ ਭਾਸ਼ਾ ਵਿਚ _____ ਚਿੰਨ੍ਹ ਵਰਤਿਆ ਜਾਂਦਾ ਹੈ।

Ans
✘ 1. ਡੈਸ਼
✘ 2. ਪ੍ਰਸ਼ਨ
✔ 3. ਡੰਡੀ
✘ 4. ਕਾਮਾ ਬਿੰਦੀ

Question ID : **630680248399**
Option 1 ID : **630680963742**
Option 2 ID : **630680963739**
Option 3 ID : **630680963740**
Option 4 ID : **630680963741**
Status : **Answered**
Chosen Option : **3**

Website - www.dailyjobalert.in

Q.32 'ਉਚਿਤ' ਦਾ ਸਮਾਨਾਰਥਕ ਸ਼ਬਦ ਹੈ:

Ans
1. ਉੱਚਾ
2. ਯੋਗ
3. ਵੱਡਾ
4. ਉਪਰਾਲਾ

Question ID : **630680248361**
Option 1 ID : **630680963587**
Option 2 ID : **630680963589**
Option 3 ID : **630680963588**
Option 4 ID : **630680963590**
Status : **Answered**
Chosen Option : **2**

Q.33 ਉਖਲੀ ਵਿਚ ਸਿਰ ਦਿੱਤਾ ਤਾਂ _____ ਅਖਾਣ ਨੂੰ ਪੂਰਾ ਕਰੋ:

Ans
1. ਸੱਟਾਂ ਦਾ ਕੀ ਡਰ
2. ਗੁਆਂਢੀਆਂ ਦਾ ਕੀ ਡਰ
3. ਮੱਟਾ ਖਾਓ
4. ਮੋਹਲ਼ਿਆਂ ਦਾ ਕੀ ਡਰ

Question ID : **630680248380**
Option 1 ID : **630680963666**
Option 2 ID : **630680963664**
Option 3 ID : **630680963665**
Option 4 ID : **630680963663**
Status : **Answered**
Chosen Option : **4**

Q.34 ਕੋਈ ਮਰੇ ਕੋਈ ਜੀਵੇ ਸੁਥਰਾ _____ ਅਖਾਣ ਨੂੰ ਪੂਰਾ ਕਰੋ:

Ans
1. ਘੋਲ ਖੰਡ ਪੀਵੇ
2. ਸਾਫ ਕੱਪੜੇ ਪਾਵੇ
3. ਘੋਲ ਪਤਾਸੇ ਪੀਵੇ
4. ਘੋਲ ਪਾਣੀ ਪੀਵੇ

Question ID : **630680248379**
Option 1 ID : **630680963661**
Option 2 ID : **630680963659**
Option 3 ID : **630680963660**
Option 4 ID : **630680963662**
Status : **Answered**
Chosen Option : **3**

Q.35 'ਜਿਹੜਾ ਬਹੁਤੀਆਂ ਗੱਲਾਂ ਕਰਦਾ ਹੋਵੇ' ਨੂੰ ਕਿਹਾ ਜਾਂਦਾ ਹੈ:

Ans
1. ਹਰਮਨ-ਪਿਆਰਾ
2. ਸਪੀਕਰ
3. ਗਾਲੜੀ
4. ਬੜਬੋਲਾ

Question ID : **630680248372**
Option 1 ID : **630680963634**
Option 2 ID : **630680963632**
Option 3 ID : **630680963633**
Option 4 ID : **630680963631**
Status : **Answered**
Chosen Option : **3**

Website - www.dailyjobalert.in

Q.36 ਅੰਨ੍ਹਾ ਵੰਡੇ ਸ਼ੀਰਨੀ _____ ਅਖਾਣ ਨੂੰ ਪੂਰਾ ਕਰੋ:

Ans
✔ 1. ਮੁੜ-ਘਿੜ ਆਪਣਿਆਂ ਨੂੰ
✘ 2. ਮੁੜ-ਘਿੜ ਲੋਕਾਂ ਨੂੰ
✘ 3. ਮੁੜ-ਘਿੜ ਦੁਸ਼ਮਣਾਂ ਨੂੰ
✘ 4. ਮੁੜ-ਘਿੜ ਬੇਗਾਨਿਆਂ ਨੂੰ

Question ID : **630680248378**
Option 1 ID : **630680963658**
Option 2 ID : **630680963656**
Option 3 ID : **630680963657**
Option 4 ID : **630680963655**
Status : **Answered**
Chosen Option : **1**

Q.37 'ਸਾਰਿਆਂ ਦੀ ਸਾਂਝੀ ਰਾਏ' ਨੂੰ ਕਿਹਾ ਜਾਂਦਾ ਹੈ:

Ans
✔ 1. ਸਰਬ-ਸੰਮਤੀ
✘ 2. ਲੋਕ-ਸਭਾ
✘ 3. ਪੰਚਾਇਤ
✘ 4. ਸੰਮਤੀ

Question ID : **630680248373**
Option 1 ID : **630680963638**
Option 2 ID : **630680963635**
Option 3 ID : **630680963636**
Option 4 ID : **630680963637**
Status : **Answered**
Chosen Option : **1**

Q.38 ਉਲਟੀ ਵਾੜ _____ ਅਖਾਣ ਨੂੰ ਪੂਰਾ ਕਰੋ:

Ans
✔ 1. ਖੇਤ ਨੂੰ ਖਾਏ
✘ 2. ਸ਼ਹਿਰ ਨੂੰ ਖਾਏ
✘ 3. ਸੁਰੱਖਿਅਤ ਹੁੰਦੀ ਹੈ
✘ 4. ਕਣਕਾਂ ਨੂੰ ਖਾਏ

Question ID : **630680248377**
Option 1 ID : **630680963652**
Option 2 ID : **630680963651**
Option 3 ID : **630680963653**
Option 4 ID : **630680963654**
Status : **Answered**
Chosen Option : **1**

Q.39 'ਆਥਣ' ਦਾ ਸਮਾਨਾਰਥਕ ਸ਼ਬਦ ਹੈ:

Ans
✘ 1. ਦੁਪਹਿਰ
✘ 2. ਲੋਢਾ ਵੇਲਾ
✘ 3. ਸਵੇਰ
✔ 4. ਸੰਝ

Question ID : **630680248362**
Option 1 ID : **630680963593**
Option 2 ID : **630680963594**
Option 3 ID : **630680963592**
Option 4 ID : **630680963591**
Status : **Answered**
Chosen Option : **2**

DAILY JOB Alert ਪੰਜਾਬ
Website - www.dailyjobalert.in

Q.40 Acknowledgement ਸ਼ਬਦ ਦਾ ਪੰਜਾਬੀ ਅਨੁਵਾਦ ਕਰੋ।

Ans
✗ 1. ਹਿਸਾਬ
✗ 2. ਗਿਆਨ
✓ 3. ਪਹੁੰਚ ਰਸੀਦ
✗ 4. ਗਿਆਨਵਾਨ

Question ID : **630680248402**
Option 1 ID : **630680963751**
Option 2 ID : **630680963753**
Option 3 ID : **630680963752**
Option 4 ID : **630680963754**
Status : **Answered**
Chosen Option : **3**

Q.41 'ਉੱਚੀ ਇਮਾਰਤ ਦੂਰੋਂ ਦਿਸਦੀ ਹੈ।' ਦਾ ਵਚਨ ਬਦਲੋ:

Ans
✓ 1. ਉੱਚੀਆਂ ਇਮਾਰਤਾਂ ਦੂਰੋਂ ਦਿਸਦੀਆਂ ਹਨ।
✗ 2. ਵੱਡੀਆਂ ਇਮਾਰਤਾਂ ਦੂਰਾਂ ਤੋਂ ਦਿਸਦੀਆਂ ਹਨ।
✗ 3. ਉੱਚੀਆਂ ਇਮਾਰਤ ਦੂਰੋਂ ਦਿਸਦੀ ਹੈ।
✗ 4. ਉੱਚੀ ਇਮਾਰਤਾਂ ਦੂਰੋਂ ਦਿਸਦੀਆਂ ਹਨ।

Question ID : **630680248385**
Option 1 ID : **630680963685**
Option 2 ID : **630680963686**
Option 3 ID : **630680963683**
Option 4 ID : **630680963684**
Status : **Answered**
Chosen Option : **1**

Q.42 'ਉਹ ਥਾਂ ਜਿੱਥੇ ਪਹਿਲਵਾਨ ਘੋਲ ਕਰਦੇ ਹਨ' ਨੂੰ ਕਿਹਾ ਜਾਂਦਾ ਹੈ:

Ans
✓ 1. ਅਖਾੜਾ
✗ 2. ਸ਼ਾਮਲਾਟ
✗ 3. ਤਬੇਲਾ
✗ 4. ਤ੍ਰਿੰਞਣ

Question ID : **630680248370**
Option 1 ID : **630680963623**
Option 2 ID : **630680963624**
Option 3 ID : **630680963626**
Option 4 ID : **630680963625**
Status : **Answered**
Chosen Option : **1**

Q.43 ਦੇਸੀ ਸਾਲ ਦਾ ਚੌਥਾ ਮਹੀਨਾ ਕਿਹੜਾ ਹੁੰਦਾ ਹੈ:

Ans
✗ 1. ਵਿਸਾਖ
✗ 2. ਅੱਸੂ
✗ 3. ਸਾਉਣ
✓ 4. ਹਾੜ੍ਹ

Question ID : **630680248407**
Option 1 ID : **630680963771**
Option 2 ID : **630680963774**
Option 3 ID : **630680963773**
Option 4 ID : **630680963772**
Status : **Answered**
Chosen Option : **4**

Website - www.dailyjobalert.in

Q.44 ਵਿਸਰਾਮ ਚਿੰਨ੍ਹ ਦੀ ਠੀਕ ਵਰਤੋਂ ਪੱਖੋਂ ਕਿਹੜਾ ਵਾਕ ਸਹੀ ਹੈ:

Ans
- ✗ 1. ਅੜੀਏ ? ਇਸ ਤਰ੍ਹਾਂ ਖਰ੍ਹਵਾ; ਨਹੀਂ ਬੋਲੀਦਾ!
- ✓ 2. ਅੜੀਏ, ਇਸ ਤਰ੍ਹਾਂ ਖਰ੍ਹਵਾ ਨਹੀਂ ਬੋਲੀਦਾ।
- ✗ 3. ਅੜੀਏ ਇਸ ; ਤਰ੍ਹਾਂ ਖਰ੍ਹਵਾ, ਨਹੀਂ ਬੋਲੀਦਾ"
- ✗ 4. ਅੜੀਏ 'ਇਸ ਤਰ੍ਹਾਂ, ਖਰ੍ਹਵਾ ਨਹੀਂ ਬੋਲੀਦਾ?

Question ID : **630680248400**
Option 1 ID : **630680963744**
Option 2 ID : **630680963743**
Option 3 ID : **630680963745**
Option 4 ID : **630680963746**
Status : **Answered**
Chosen Option : **2**

Q.45 'ਕੱਖ ਨਾ ਰਹਿਣਾ' ਮੁਹਾਵਰੇ ਦਾ ਅਰਥ ਹੈ:

Ans
- ✗ 1. ਕੱਖ ਖ਼ਤਮ ਹੋ ਜਾਣੇ
- ✗ 2. ਕੱਖਾਂ ਤੋਂ ਹੌਲਾ ਹੋਣਾ
- ✗ 3. ਕੱਖ ਉੱਡ ਜਾਣੇ
- ✓ 4. ਖੁਰਾ ਖੋਜ ਮਿਟ ਜਾਣਾ

Question ID : **630680248374**
Option 1 ID : **630680963639**
Option 2 ID : **630680963641**
Option 3 ID : **630680963642**
Option 4 ID : **630680963640**
Status : **Answered**
Chosen Option : **4**

Q.46 ਈਰਖਾਲੂ ਸ਼ਬਦ ਵਿਚ ਕਿਹੜਾ ਪਿਛੇਤਰ ਹੈ:

Ans
- ✗ 1. ਰਖਾਲੂ
- ✗ 2. ਆਲੂ
- ✗ 3. ਖਾਲੂ
- ✓ 4. ਲੂ

Question ID : **630680248390**
Option 1 ID : **630680963706**
Option 2 ID : **630680963704**
Option 3 ID : **630680963705**
Option 4 ID : **630680963703**
Status : **Answered**
Chosen Option : **2**

Q.47 'ਉਚਾਣ' ਦਾ ਵਿਰੋਧੀ ਸ਼ਬਦ ਹੈ:

Ans
- ✗ 1. ਲੰਮਾ
- ✗ 2. ਉੱਚਾ
- ✓ 3. ਨਿਵਾਣ
- ✗ 4. ਉੱਪਰ

Question ID : **630680248365**
Option 1 ID : **630680963604**
Option 2 ID : **630680963603**
Option 3 ID : **630680963606**
Option 4 ID : **630680963605**
Status : **Answered**
Chosen Option : **3**

Website - www.dailyjobalert.in

Q.48 ਇਮਾਨਦਾਰ ਸ਼ਬਦ ਵਿਚ ਕਿਹੜਾ ਪਿਛੇਤਰ ਹੈ:

Ans
- ✗ 1. ਆਰ
- ✗ 2. ਨਦਾਨ
- ✓ 3. ਦਾਰ
- ✗ 4. ਰ

Question ID : **630680248392**
Option 1 ID : **630680963713**
Option 2 ID : **630680963711**
Option 3 ID : **630680963712**
Option 4 ID : **630680963714**
Status : **Answered**
Chosen Option : **3**

Q.49 ਉੱਤਮਤਾ ਸ਼ਬਦ ਵਿਚ ਕਿਹੜਾ ਪਿਛੇਤਰ ਹੈ:

Ans
- ✗ 1. ਤਮਤਾ
- ✗ 2. ਅਤਾ
- ✗ 3. ਮਤਾ
- ✓ 4. ਤਾ

Question ID : **630680248391**
Option 1 ID : **630680963707**
Option 2 ID : **630680963710**
Option 3 ID : **630680963708**
Option 4 ID : **630680963709**
Status : **Answered**
Chosen Option : **2**

Q.50 'ਭਠਿਆਰਾ' ਸ਼ਬਦ ਦਾ ਲਿੰਗ ਬਦਲੋ:

Ans
- ✗ 1. ਭਠਿਆਰਨੀ
- ✗ 2. ਭਠਿਆਰ
- ✓ 3. ਭਠਿਆਰਨ
- ✗ 4. ਭਠਿਆਰੀ

Question ID : **630680248384**
Option 1 ID : **630680963680**
Option 2 ID : **630680963682**
Option 3 ID : **630680963681**
Option 4 ID : **630680963679**
Status : **Answered**
Chosen Option : **3**

DAILY JOB Alert ਪੰਜਾਬ

PUNJAB POLICE

Police to its last particle is duty

Exam Name	Recruitment for the post of Sub Inspector in Cadres of District and Armed Police 20th Jun to 31st Jul 2023 S2 Paper II and III
Application No	www.dailyjobalert.in
Roll No	Telegram - Daily Job Alert Punjab
Applicant Name	instagram - Daily Job Alert Punjab
Exam Date	03/07/2023
Shift	4:00 PM - 7:00 PM
Subject	Sub Inspector Paper II and III

Section : **Logical and Analytical Reasoning and Data Interpretation**

Q.1 Rama is the sister of Sikha. Atul is the brother of Deepak. Sikha is the daughter of Atul. Deepak is the father of Bharat. How is Deepak related to Rama?

Ans
- ✗ 1. Father's father
- ✗ 2. Father
- ✗ 3. Brother
- ✓ 4. Father's brother

Question ID : **630680124746**
Option 1 ID : **630680483822**
Option 2 ID : **630680483825**
Option 3 ID : **630680483823**
Option 4 ID : **630680483824**
Status : **Answered**
Chosen Option : **4**

Q.2 Select the option in which the words share the same relationship as that shared by the given pair of words.

Weak : Robust

Ans
- ✗ 1. Scarcity : Dearth
- ✓ 2. Rejoice : Mourn
- ✗ 3. Kindle : Fire
- ✗ 4. Affirm : Confirm

Question ID : **63068063304**
Option 1 ID : **630680244382**
Option 2 ID : **630680244384**
Option 3 ID : **630680244385**
Option 4 ID : **630680244383**
Status : **Answered**
Chosen Option : **2**

Website - www.dailyjobalert.in

Q.3 **Thirty-three students are sitting in a row. Shubham is twenty-forth from the right. Manish is twelfth from the left. How many students are there between Shubham and Manish?**

Ans
✗ 1. 2
✗ 2. 4
✗ 3. 3
✓ 4. 1

Question ID : **630680113676**
Option 1 ID : **630680440238**
Option 2 ID : **630680440239**
Option 3 ID : **630680440241**
Option 4 ID : **630680440240**
Status : **Answered**
Chosen Option : **4**

Q.4 **Select the term from among the given options that can replace the question mark (?) in the following series.**
4J16, 6C36, 9V81, 14O196, 21H441, ?

Ans
✗ 1. 32A729
✓ 2. 32A1024
✗ 3. 32A880
✗ 4. 32B1024

Question ID : **630680126054**
Option 1 ID : **630680488834**
Option 2 ID : **630680488836**
Option 3 ID : **630680488837**
Option 4 ID : **630680488835**
Status : **Answered**
Chosen Option : **2**

Q.5 **Select the option in which the numbers are related in the same way as are the numbers in the given triad.**
(15 : 31 : 48)

Ans
✗ 1. (11 : 23 : 34)
✗ 2. (20 : 40 : 60)
✗ 3. (23 : 46 : 69)
✓ 4. (17 : 35 : 54)

Question ID : **63068062248**
Option 1 ID : **630680240289**
Option 2 ID : **630680240287**
Option 3 ID : **630680240288**
Option 4 ID : **630680240286**
Status : **Answered**
Chosen Option : **4**

Website - www.dailyjobalert.in

Q.6 **In a code language, 'BANGLE' is coded as FNJRFH and 'NUMBER' is coded as SGEQZT. How will 'CLAMPS' be coded in the same language?**

Ans
✔ 1. TRPEQI
✘ 2. STQDRF
✘ 3. RQUTDI
✘ 4. PURQED

Question ID : **630680147837**
Option 1 ID : **630680572063**
Option 2 ID : **630680572062**
Option 3 ID : **630680572065**
Option 4 ID : **630680572064**
Status : **Answered**
Chosen Option : **1**

Q.7 **The length and the breadth of a room are 23 m and 12 m, respectively. A dog starts at one corner and runs along the four walls once to reach his starting point. What is the total distance the dog has covered?**

Ans
✘ 1. 68 m
✘ 2. 74 m
✘ 3. 72 m
✔ 4. 70 m

Question ID : **630680172185**
Option 1 ID : **630680667178**
Option 2 ID : **630680667177**
Option 3 ID : **630680667179**
Option 4 ID : **630680667176**
Status : **Answered**
Chosen Option : **4**

Q.8 **Select the option in which the words share the same relationship as that shared by the given pair of words.**

Car : Steering

Ans
✘ 1. Fan : Electricity
✔ 2. Airplane : Cockpit
✘ 3. Pen : Write
✘ 4. Circle : Radius

Question ID : **63068063302**
Option 1 ID : **630680244374**
Option 2 ID : **630680244376**
Option 3 ID : **630680244375**
Option 4 ID : **630680244377**
Status : **Answered**
Chosen Option : **1**

Website - www.dailyjobalert.in

Q.9 Select the number from among the given options that can replace the question mark (?) in the following series.
97, 95, 91, 83,?

Ans
✗ 1. 75
✗ 2. 72
✗ 3. 62
✓ 4. 67

Question ID : **63068050387**
Option 1 ID : **630680193873**
Option 2 ID : **630680193870**
Option 3 ID : **630680193872**
Option 4 ID : **630680193871**
Status : **Answered**
Chosen Option : **4**

Q.10 Select the combination of letters that when sequentially placed in the blanks of the given series will complete the series.
_C_FD J_NO_ _R_US K_OP_ R_V_U

Ans
✗ 1. AEKMPTMNTW
✓ 2. AELMPTMNTW
✗ 3. AEKMTPMNTW
✗ 4. AEKMTPNMTW

Question ID : **63068060462**
Option 1 ID : **630680233382**
Option 2 ID : **630680233383**
Option 3 ID : **630680233385**
Option 4 ID : **630680233384**
Status : **Answered**
Chosen Option : **2**

Q.11 Study the following pie chart and answer the given question.
The following pie chart depicts the number of girls who attended a seminar from different cities, out of the total number of girls (which is 800) who attended the seminar from the given cities together.

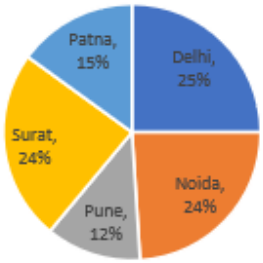

If the number of boys who attended the seminar from Delhi and Surat was 124 and 60, respectively, then what was the respective ratio between the number of attendees (boys + girls) from Delhi and Surat?

Ans
✗ 1. 9 : 5
✓ 2. 9 : 7
✗ 3. 8 : 5
✗ 4. 8 : 7

Question ID : **630680196466**
Option 1 ID : **630680762184**
Option 2 ID : **630680762183**
Option 3 ID : **630680762186**
Option 4 ID : **630680762185**
Status : **Answered**
Chosen Option : **2**

Website - www.dailyjobalert.in

Q.12 **In a code language, 'CLAMP' is coded as LCMAK and 'BORED' is coded as OBERY. How will 'PIQUE' be coded in the same language?**

Ans
- ✗ 1. JPUQS
- ✓ 2. IPUQZ
- ✗ 3. JQURP
- ✗ 4. IQURJ

Question ID : **630680147836**
Option 1 ID : **630680572061**
Option 2 ID : **630680572058**
Option 3 ID : **630680572060**
Option 4 ID : **630680572059**
Status : **Answered**
Chosen Option : **2**

Q.13 **I went to the market 10 days ago. If today is a Tuesday, then what day was it when I went to the market?**

Ans
- ✗ 1. Monday
- ✓ 2. Saturday
- ✗ 3. Sunday
- ✗ 4. Tuesday

Question ID : **630680127067**
Option 1 ID : **630680492766**
Option 2 ID : **630680492768**
Option 3 ID : **630680492767**
Option 4 ID : **630680492769**
Status : **Answered**
Chosen Option : **2**

Q.14 **Select the letter-pair from among the given options that can replace the question mark (?) in the following series.**
VD, WF, XH, ?, ZL

Ans
- ✗ 1. YI
- ✓ 2. YJ
- ✗ 3. YK
- ✗ 4. YH

Question ID : **63068048601**
Option 1 ID : **630680187016**
Option 2 ID : **630680187014**
Option 3 ID : **630680187015**
Option 4 ID : **630680187017**
Status : **Answered**
Chosen Option : **2**

Website - www.dailyjobalert.in

Q.15 **Select the option in which the triad share the same relationship as that shared by the given triad.**
PB – SY – XT

Ans
✗ 1. QN – TK – YE
✓ 2. DW – GT – LO
✗ 3. MY – QV – VQ
✗ 4. CJ – FG – LB

Question ID : **63068060337**
Option 1 ID : **630680232882**
Option 2 ID : **630680232883**
Option 3 ID : **630680232885**
Option 4 ID : **630680232884**
Status : **Answered**
Chosen Option : **4**

Q.16 **Which of the following numbers will replace the question mark (?) in the given series?**
30, 31, 33, 37, 45, 61, ?

Ans
✗ 1. 92
✗ 2. 95
✗ 3. 94
✓ 4. 93

Question ID : **630680157527**
Option 1 ID : **630680609638**
Option 2 ID : **630680609636**
Option 3 ID : **630680609639**
Option 4 ID : **630680609637**
Status : **Answered**
Chosen Option : **4**

Q.17 **ਨਿਮਨਲਿਖਤ ਚਾਰ ਵਿੱਚੋਂ ਤਿੰਨ ਇੱਕ ਖਾਸ ਤਰੀਕੇ ਨਾਲ ਇੱਕੋ ਜਿਹੇ ਹਨ ਅਤੇ ਇਸ ਤਰ੍ਹਾਂ ਇੱਕ ਸਮੂਹ ਬਣਾਉਂਦੇ ਹਨ। ਉਹ ਕਿਹੜਾ ਹੈ ਜੋ ਉਸ ਸਮੂਹ ਨਾਲ ਸੰਬੰਧਿਤ ਨਹੀਂ ਹੈ?**

Ans
✓ 1. GKH
✗ 2. FBE
✗ 3. PLO
✗ 4. VRU

Question ID : **630680108273**
Option 1 ID : **630680420126**
Option 2 ID : **630680420124**
Option 3 ID : **630680420125**
Option 4 ID : **630680420127**
Status : **Answered**
Chosen Option : **1**

Website - www.dailyjobalert.in

Q.18 **ASDF is related to CVHK in a certain way based on the English alphabetical order. In the same way, LKJH is related to NNNM. To which of the following is PEAS related using the same logic?**

Ans
✔ 1. RHEX
✘ 2. RHEW
✘ 3. QGDW
✘ 4. RHDW

Question ID : **63068058590**
Option 1 ID : **630680226006**
Option 2 ID : **630680226008**
Option 3 ID : **630680226007**
Option 4 ID : **630680226009**
Status : **Answered**
Chosen Option : **1**

Q.19 **Which of the following letters is fifth to the left of the ninth letter from the left end?**
(Left) V, O, N, P, T, A, D, E, B, J, Q, Z, X (Right)

Ans
✘ 1. D
✘ 2. A
✔ 3. P
✘ 4. Z

Question ID : **630680172734**
Option 1 ID : **630680669339**
Option 2 ID : **630680669338**
Option 3 ID : **630680669336**
Option 4 ID : **630680669337**
Status : **Answered**
Chosen Option : **3**

Q.20 **Select the option that is related to the fifth number in the same way as the fourth number is related to the third number and the second number is related to the first number.**
64 : 12 :: 87 : 28 :: 98 : ?

Ans
✘ 1. 41
✔ 2. 36
✘ 3. 35
✘ 4. 39

Question ID : **63068062315**
Option 1 ID : **630680240506**
Option 2 ID : **630680240508**
Option 3 ID : **630680240509**
Option 4 ID : **630680240507**
Status : **Answered**
Chosen Option : **1**

Website - www.dailyjobalert.in

Q.21 **Six letters A, B, C, D, E and F are written on different faces of a dice. Two positions of this dice are shown in the following figure. Find the letter on the face opposite to C.**

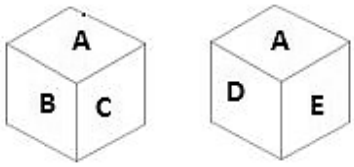

Ans
✔ 1. E
✘ 2. F
✘ 3. A
✘ 4. D

Question ID : **630680180617**
Option 1 ID : **630680699977**
Option 2 ID : **630680699979**
Option 3 ID : **630680699976**
Option 4 ID : **630680699978**
Status : **Answered**
Chosen Option : **2**

Q.22 **Which letter is third to the right of the seventh letter from the left end?**
(Left) C, E, Z, K, M, O, J, T, X, A, U, G, H (Right)

Ans
✘ 1. K
✘ 2. X
✘ 3. U
✔ 4. A

Question ID : **630680172733**
Option 1 ID : **630680669335**
Option 2 ID : **630680669332**
Option 3 ID : **630680669333**
Option 4 ID : **630680669334**
Status : **Answered**
Chosen Option : **4**

Q.23 **Using the same logic as applied for the first two pairs of terms, replace the question mark (?) with the appropriate term in the third pair.**
CAT - DCW
DOG - EQJ
BOY - ?

Ans
✘ 1. CQA
✘ 2. DQB
✘ 3. CQZ
✔ 4. CQB

Question ID : **630680106080**
Option 1 ID : **630680412220**
Option 2 ID : **630680412222**
Option 3 ID : **630680412219**
Option 4 ID : **630680412221**
Status : **Answered**
Chosen Option : **4**

Website - www.dailyjobalert.in

Q.24 In a row of people all facing north, Saina is 5th from the right end. Prayag is 15th from the right end. Prayag is exactly between Saina and Ria. If Ria is 5th from the left end of the row, then how many people in total are there in the row?

Ans
✗ 1. 30
✓ 2. 29
✗ 3. 32
✗ 4. 31

Question ID : **630680107011**
Option 1 ID : **630680415509**
Option 2 ID : **630680415508**
Option 3 ID : **630680415511**
Option 4 ID : **630680415510**
Status : **Answered**
Chosen Option : **2**

Q.25 A man starts for his office in the east direction. He turns left, then right and again to the right. In which direction is he facing now?

Ans
✗ 1. West
✓ 2. South
✗ 3. North
✗ 4. East

Question ID : **630680106030**
Option 1 ID : **630680412020**
Option 2 ID : **630680412022**
Option 3 ID : **630680412021**
Option 4 ID : **630680412019**
Status : **Answered**
Chosen Option : **2**

Q.26 Select the term from among the given options that can replace the question mark (?) in the following series.
A48Z, E52V, I60R, O72N, ?

Ans
✗ 1. U88E
✗ 2. U88F
✗ 3. U86F
✓ 4. U88J

Question ID : **630680126055**
Option 1 ID : **630680488840**
Option 2 ID : **630680488839**
Option 3 ID : **630680488838**
Option 4 ID : **630680488841**
Status : **Answered**
Chosen Option : **4**

Website - www.dailyjobalert.in

Q.27 There are six people X, A, B, C, D, E. B's age is 30% more than A's age, which is 10% of C's age. D's age 2 years later will be 2 times the age of E. Also, the product of D's age and A's age is 10 times that of B's age and C's age is 12 times that of X's age. E's age is 1.5 times that of X's age, which is the square root of 25. What is B's age?

Ans
- ✗ 1. 5.4
- ✗ 2. 6.7
- ✓ 3. 7.8
- ✗ 4. 6

Question ID : **630680166743**
Option 1 ID : **630680645885**
Option 2 ID : **630680645887**
Option 3 ID : **630680645886**
Option 4 ID : **630680645884**
Status : **Answered**
Chosen Option : **4**

Q.28 G, H, I, J, K and L scored different marks. Only four persons scored less than G. J scored less than I but did not score the lowest marks. H scored less than G but more than I. L scored the maximum marks among all. Who scored the lowest marks among all?

Ans
- ✗ 1. J
- ✓ 2. K
- ✗ 3. H
- ✗ 4. G

Question ID : **630680189102**
Option 1 ID : **630680733218**
Option 2 ID : **630680733220**
Option 3 ID : **630680733219**
Option 4 ID : **630680733217**
Status : **Answered**
Chosen Option : **2**

Q.29 Select the alpha-numeric term from among the given options that can replace the question mark (?) in the following series.
W3D, U6F,? , Q24J, O48L, M96N

Ans
- ✓ 1. S12H
- ✗ 2. R12H
- ✗ 3. S18H
- ✗ 4. S15H

Question ID : **63068053435**
Option 1 ID : **630680205805**
Option 2 ID : **630680205804**
Option 3 ID : **630680205802**
Option 4 ID : **630680205803**
Status : **Answered**
Chosen Option : **1**

Website - www.dailyjobalert.in

Q.30 Following a certain logic, if $\frac{1}{13}$ is related to $\frac{1}{26}$ and $\frac{1}{15}$ is related to $\frac{1}{30}$, to which of the following is $\frac{1}{19}$ related?

Ans

✗ 1. $\frac{1}{29}$

✗ 2. $\frac{1}{40}$

✗ 3. $\frac{1}{57}$

✓ 4. $\frac{1}{38}$

Question ID : **63068057002**
Option 1 ID : **630680219941**
Option 2 ID : **630680219940**
Option 3 ID : **630680219939**
Option 4 ID : **630680219938**
Status : **Answered**
Chosen Option : **4**

Q.31 If 29 July 2010 was Thursday, then what was the day of the week on 29 July 2022?

Ans

✗ 1. Monday

✗ 2. Saturday

✓ 3. Friday

✗ 4. Sunday

Question ID : **630680159734**
Option 1 ID : **630680618396**
Option 2 ID : **630680618397**
Option 3 ID : **630680618399**
Option 4 ID : **630680618398**
Status : **Answered**
Chosen Option : **3**

Q.32 'P $ Q' means 'P is the mother of Q'
'P % Q' means 'P is the son of Q'
'P @ Q' means 'P is the daughter of Q'
'P # Q' means 'P is the daughter-in-law of Q'
If T has only one child, then in the expression 'R @ S # T $ U % V', how is V related to R?

Ans

✗ 1. Father

✗ 2. Son-in-law

✓ 3. Brother

✗ 4. Son

Question ID : **630680124761**
Option 1 ID : **630680483885**
Option 2 ID : **630680483883**
Option 3 ID : **630680483882**
Option 4 ID : **630680483884**
Status : **Answered**
Chosen Option : **1**

Website - www.dailyjobalert.in

Q.33 GMTR is related to IJXM in a certain way based on the English alphabetical order. In the same way, FLUT is related to HIYO. To which of the following is MGSY related, following the same logic?

Ans
1. RIVS
2. ODWT
3. OIVT
4. RDWS

Question ID : **63068077037**
Option 1 ID : **630680298246**
Option 2 ID : **630680298245**
Option 3 ID : **630680298247**
Option 4 ID : **630680298248**
Status : **Answered**
Chosen Option : **2**

Q.34 Each one out of P, Q, R, S, T and U is of a different age. P is the oldest and U is the youngest. S is older than 2 friends only. How many friends have their ages between P and S?

Ans
1. 4
2. 2
3. 1
4. 3

Question ID : **63068059456**
Option 1 ID : **630680229432**
Option 2 ID : **630680229430**
Option 3 ID : **630680229433**
Option 4 ID : **630680229431**
Status : **Answered**
Chosen Option : **2**

Q.35 A certain number of people are sitting in a row, facing the north. M is sitting exactly in between of R and T. R is sitting second from the extreme left end. T is sitting seventh to the right of N.
P is sitting second to the left of S. Only two people are sitting between R and N. Only one person is sitting between T and P. Q is sitting immediately to the left of O who is sitting third to the right of S. How many people are sitting in the row?

Ans
1. 17
2. 20
3. 18
4. 19

Question ID : **630680112280**
Option 1 ID : **630680434834**
Option 2 ID : **630680434836**
Option 3 ID : **630680434835**
Option 4 ID : **630680434837**
Status : **Answered**
Chosen Option : **4**

Website - www.dailyjobalert.in

Q.36 Read the given statements and conclusions carefully. Assuming that the information given in the statements is true, even if it appears to be at variance with commonly known facts, decide which of the given conclusions logically follow(s) from the statements.

Statements: All smiles are lips. Some lips are teeth.
Conclusion (I): Some teeth are lips.
Conclusion (II): At least some smiles are teeth.

Ans
✔ 1. Only conclusion (I) follows
✘ 2. Only conclusion (II) follows
✘ 3. Both conclusions (I) and (II) follow
✘ 4. Both conclusions (I) and (II) do not follow

Question ID : **630680111455**
Option 1 ID : **630680431614**
Option 2 ID : **630680431615**
Option 3 ID : **630680431616**
Option 4 ID : **630680431617**
Status : **Answered**
Chosen Option : **2**

Comprehension:

Read the following information and answer the given question.
Seven people A, B, C, J, K, L and M are sitting in a straight line and all of them are facing north.
B sits third from one of the extreme ends of the line. A sits second to the right of B. M is an immediate neighbour of A. As many people sit to the right of M as to the left of C. J sits second to the right of K.

SubQuestion No : 37

Q.37 Who sits at the extreme left end of the line?

Ans
✘ 1. M
✘ 2. C
✔ 3. K
✘ 4. L

Question ID : **63068063581**
Option 1 ID : **630680245486**
Option 2 ID : **630680245487**
Option 3 ID : **630680245488**
Option 4 ID : **630680245489**
Status : **Answered**
Chosen Option : **1**

DAILY JOB Alert ਪੰਜਾਬ

Comprehension:

Read the following information and answer the given question.
Seven people A, B, C, J, K, L and M are sitting in a straight line and all of them are facing north.
B sits third from one of the extreme ends of the line. A sits second to the right of B. M is an immediate neighbour of A. As many people sit to the right of M as to the left of C. J sits second to the right of K.

SubQuestion No : 38

Q.38 As per the given arrangement, as many people sit between B and K as between:

Ans
✔ 1. A and J
✘ 2. C and L
✘ 3. M and B
✘ 4. K and A

Question ID : **63068063582**
Option 1 ID : **630680245493**
Option 2 ID : **630680245491**
Option 3 ID : **630680245490**
Option 4 ID : **630680245492**
Status : **Answered**
Chosen Option : **1**

Comprehension:

Six boxes R, S, T, U, V and W are kept one over the other but not necessarily in the same order. V is kept third from the bottom. Only three boxes are kept between S and T. T is placed in one of the positions below S. U is kept immediately above S. W is kept immediately above V.

SubQuestion No : 39

Q.39 How many boxes are kept between U and R?

Ans
✔ 1. Three
✘ 2. Four
✘ 3. Two
✘ 4. One

Question ID : **63068083461**
Option 1 ID : **630680323609**
Option 2 ID : **630680323608**
Option 3 ID : **630680323610**
Option 4 ID : **630680323611**
Status : **Answered**
Chosen Option : **1**

Website - www.dailyjobalert.in

Comprehension:

Six boxes R, S, T, U, V and W are kept one over the other but not necessarily in the same order. V is kept third from the bottom. Only three boxes are kept between S and T. T is placed in one of the positions below S. U is kept immediately above S. W is kept immediately above V.

SubQuestion No : 40

Q.40 Which box is second from the bottom?

Ans
✔ 1. R
✘ 2. U
✘ 3. T
✘ 4. E

Question ID : **63068083460**
Option 1 ID : **630680323605**
Option 2 ID : **630680323607**
Option 3 ID : **630680323604**
Option 4 ID : **630680323606**
Status : **Answered**
Chosen Option : **1**

Comprehension:

Study the given diagram carefully and answer the questions that follows. The numbers in each section indicate the number of persons.

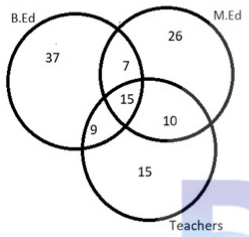

SubQuestion No : 41

Q.41 What is the total of only B.Ed and only M.Ed?

Ans
✘ 1. 82
✔ 2. 63
✘ 3. 70
✘ 4. 79

Question ID : **63068082645**
Option 1 ID : **630680320543**
Option 2 ID : **630680320541**
Option 3 ID : **630680320542**
Option 4 ID : **630680320540**
Status : **Answered**
Chosen Option : **2**

Website - www.dailyjobalert.in

Comprehension:

Study the given diagram carefully and answer the questions that follows. The numbers in each section indicate the number of persons.

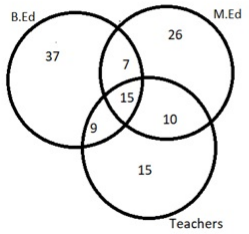

SubQuestion No : 42

Q.42 How many teachers hold a B.Ed degree but NOT an M.Ed degree?

Ans
1. 19
2. 9 ✔
3. 25
4. 15

Question ID : **63068082644**
Option 1 ID : **630680320539**
Option 2 ID : **630680320536**
Option 3 ID : **630680320538**
Option 4 ID : **630680320537**
Status : **Answered**
Chosen Option : **2**

Comprehension:

In a certain code language, 'Sun is hot' is coded as 'ter pix mun', 'Moon is cool' is coded as 'deh mun ace' and 'Just be cool' is coded as 'mem sip deh'.

SubQuestion No : 43

Q.43 Which of the following is the code for 'cool'?

Ans
1. sip
2. deh ✔
3. mun
4. mem

Question ID : **63068058656**
Option 1 ID : **630680226268**
Option 2 ID : **630680226266**
Option 3 ID : **630680226269**
Option 4 ID : **630680226267**
Status : **Answered**
Chosen Option : **2**

Website - www.dailyjobalert.in

Comprehension:

In a certain code language, 'Sun is hot' is coded as 'ter pix mun', 'Moon is cool' is coded as 'deh mun ace' and 'Just be cool' is coded as 'mem sip deh'.

SubQuestion No : 44

Q.44 Which of the following is the code for 'moon'?

Ans
✗ 1. deh
✗ 2. sip
✓ 3. ace
✗ 4. mun

Question ID : **63068058657**
Option 1 ID : **630680226271**
Option 2 ID : **630680226273**
Option 3 ID : **630680226272**
Option 4 ID : **630680226270**
Status : **Answered**
Chosen Option : **3**

Comprehension:

The percentage of students enrolled in different games is given in the following chart. Answer the given question. The total number of students is 3000.

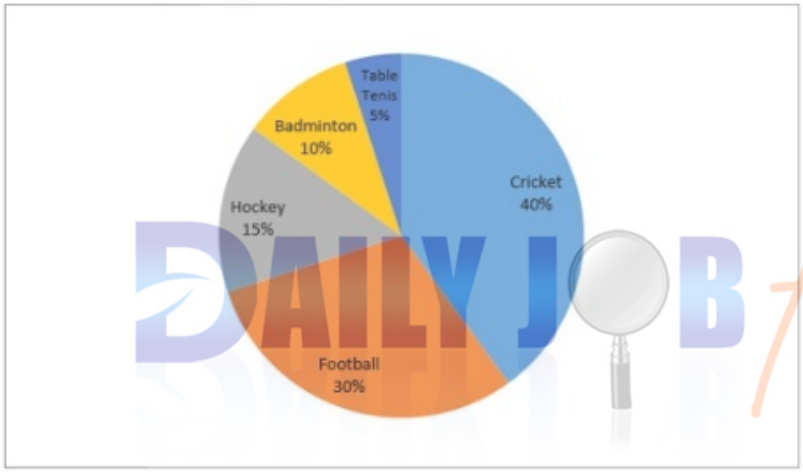

SubQuestion No : 45

Q.45 What is the number of students enrolled in hockey?

Ans
✗ 1. 350
✓ 2. 450
✗ 3. 550
✗ 4. 250

Question ID : **630680105717**
Option 1 ID : **630680410877**
Option 2 ID : **630680410876**
Option 3 ID : **630680410875**
Option 4 ID : **630680410878**
Status : **Answered**
Chosen Option : **2**

Website - www.dailyjobalert.in

Comprehension:

The percentage of students enrolled in different games is given in the following chart. Answer the given question. The total number of students is 3000.

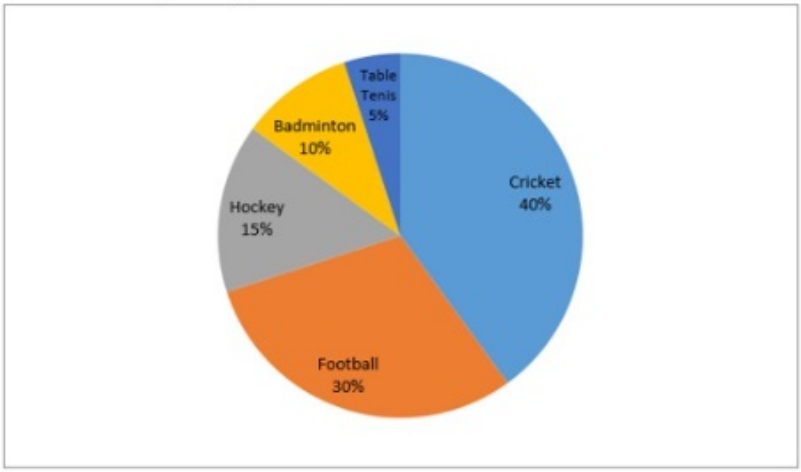

SubQuestion No : 46

Q.46 What is the ratio of students in football and badminton?

Ans

✗ 1. 3:2

✗ 2. 2:3

✗ 3. 1:3

✓ 4. 3:1

Question ID : **630680105718**
Option 1 ID : **630680410882**
Option 2 ID : **630680410881**
Option 3 ID : **630680410880**
Option 4 ID : **630680410879**
Status : **Answered**
Chosen Option : **4**

Website - www.dailyjobalert.in

Comprehension:

Study the given pie-chart and answer the questions that follow.

The pie-chart represents the percentage of material used in a building.

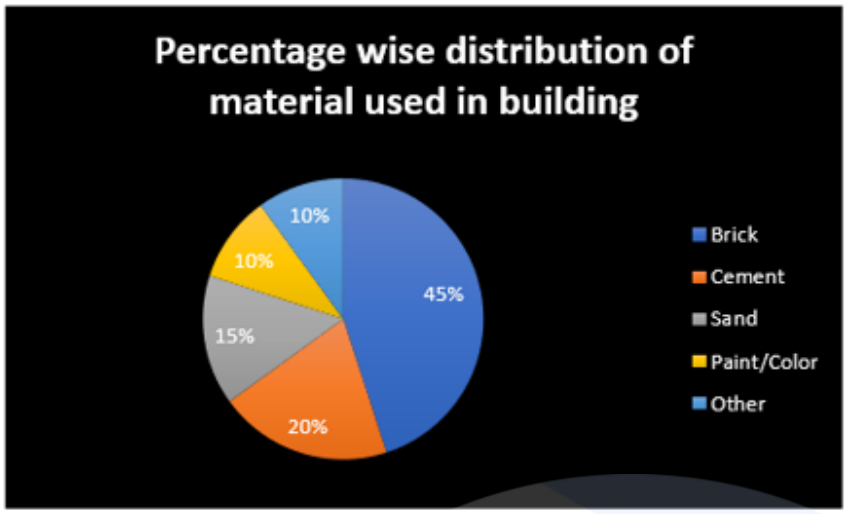

SubQuestion No : 47

Q.47 If ₹12,000 was spent on sand, then how much money was spent on cement? (Assume that the amount spent is directly proportional to the consumption of material)

Ans

✗ 1. ₹14,000

✗ 2. ₹18,000

✓ 3. ₹16,000

✗ 4. ₹22,000

Question ID : **630680113968**
Option 1 ID : **630680441320**
Option 2 ID : **630680441319**
Option 3 ID : **630680441318**
Option 4 ID : **630680441321**
Status : **Answered**
Chosen Option : **3**

Website - www.dailyjobalert.in

Comprehension:

Study the given pie-chart and answer the questions that follow.

The pie-chart represents the percentage of material used in a building.

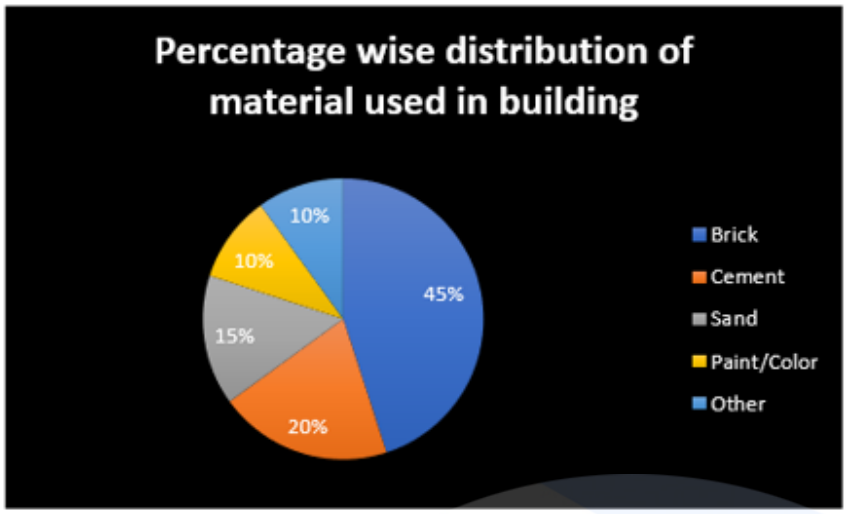

SubQuestion No : 48

Q.48 What is the central angle made by brick consumption?

Ans

✗ 1. 158°

✓ 2. 162°

✗ 3. 168°

✗ 4. 174°

Question ID : **630680113967**
Option 1 ID : **630680441316**
Option 2 ID : **630680441315**
Option 3 ID : **630680441317**
Option 4 ID : **630680441314**
Status : **Answered**
Chosen Option : **2**

Website - www.dailyjobalert.in

Comprehension:

Read the given passage and answer the questions that follow.

India adopted the socialist pattern of society in 1954 as a framework for social and economic policies. This framework articulates that public policy decisions must enable the society to maximise social gain and not private profit. This framework also envisages a catalytic role for the State in the social and economic transformation of the country. The Constitution of India provides a number of Directive Principles of State Policy. Indian Five year Plans have also stressed goals such as rapid economic growth, employment generation, poverty alleviation and balanced regional development. Since June 1991, there has been a tilt in economic policy towards economic liberalisation and globalisation. The importance of sustainable development is also being stressed as an objective of public policy.

SubQuestion No : 49

Q.49 The goal of social and economic transformation is expressed in the Indian Constitution through which of the following?

Ans
✔ 1. Directive Principles of State policy
✘ 2. Basic Structure of the Constitution
✘ 3. Fundamental Rights
✘ 4. Independence of Judiciary

Question ID : **630680248129**
Option 1 ID : **630680962702**
Option 2 ID : **630680962700**
Option 3 ID : **630680962699**
Option 4 ID : **630680962701**
Status : **Answered**
Chosen Option : **1**

Comprehension:

Read the given passage and answer the questions that follow.

India adopted the socialist pattern of society in 1954 as a framework for social and economic policies. This framework articulates that public policy decisions must enable the society to maximise social gain and not private profit. This framework also envisages a catalytic role for the State in the social and economic transformation of the country. The Constitution of India provides a number of Directive Principles of State Policy. Indian Five year Plans have also stressed goals such as rapid economic growth, employment generation, poverty alleviation and balanced regional development. Since June 1991, there has been a tilt in economic policy towards economic liberalisation and globalisation. The importance of sustainable development is also being stressed as an objective of public policy.

SubQuestion No : 50

Q.50 What should be the objective of public policy in a socialist society like India?

Ans
✔ 1. Social gain
✘ 2. Development
✘ 3. Public gain
✘ 4. Individual gain

Question ID : **630680248128**
Option 1 ID : **630680962696**
Option 2 ID : **630680962698**
Option 3 ID : **630680962695**
Option 4 ID : **630680962697**
Status : **Answered**
Chosen Option : **1**

Section : **Digital Literacy and Computer Awareness**

Website - www.dailyjobalert.in

Q.51 Which of the following options is NOT used to add text to a slide in MS-PowerPoint 2010?

Ans
- ✗ 1. Placeholder
- ✓ 2. ClipArt
- ✗ 3. Part of the shape
- ✗ 4. Textbox

Question ID : **630680247870**
Option 1 ID : **630680961688**
Option 2 ID : **630680961689**
Option 3 ID : **630680961690**
Option 4 ID : **630680961687**
Status : **Answered**
Chosen Option : **3**

Q.52 Which of the following is NOT a characteristic of a computer?

Ans
- ✓ 1. Installation
- ✗ 2. Speed
- ✗ 3. Reliability
- ✗ 4. Accuracy

Question ID : **630680247859**
Option 1 ID : **630680961646**
Option 2 ID : **630680961645**
Option 3 ID : **630680961644**
Option 4 ID : **630680961643**
Status : **Answered**
Chosen Option : **3**

Q.53 What is the address of the cell at the intersection of the fifth row and the fifth column in MS-Excel 2010?

Ans
- ✗ 1. E10
- ✗ 2. E6
- ✓ 3. E5
- ✗ 4. $D5$

Question ID : **630680247866**
Option 1 ID : **630680961672**
Option 2 ID : **630680961673**
Option 3 ID : **630680961671**
Option 4 ID : **630680961674**
Status : **Answered**
Chosen Option : **3**

Website - www.dailyjobalert.in

Q.54 _____ encryption is also known as public-key cryptography.

Ans
- ✗ 1. Symmetric
- ✗ 2. Systematic
- ✗ 3. Internal
- ✓ 4. Asymmetric

Question ID : **630680247885**
Option 1 ID : **630680961747**
Option 2 ID : **630680961750**
Option 3 ID : **630680961749**
Option 4 ID : **630680961748**
Status : **Answered**
Chosen Option : **1**

Q.55 **Telegram was founded by:**

Ans
- ✗ 1. David Karp
- ✓ 2. Nikolai Durov
- ✗ 3. Charlie Cheever
- ✗ 4. Brian Acton

Question ID : **630680247882**
Option 1 ID : **630680961737**
Option 2 ID : **630680961735**
Option 3 ID : **630680961736**
Option 4 ID : **630680961738**
Status : **Answered**
Chosen Option : **2**

Q.56 **Which of the following options representing non-volatile memory stores the Basic Input Output System (BIOS) program of the computer?**

Ans
- ✗ 1. Register
- ✗ 2. Cache memory
- ✗ 3. RAM
- ✓ 4. ROM

Question ID : **630680247858**
Option 1 ID : **630680961640**
Option 2 ID : **630680961642**
Option 3 ID : **630680961641**
Option 4 ID : **630680961639**
Status : **Answered**
Chosen Option : **2**

Website - www.dailyjobalert.in

Q.57 Which of the following sequences of steps is used to add ClipArt pictures to a slide in MS-PowerPoint 2010?

Ans
- ✗ 1. Insert → Images → Stock Images
- ✓ 2. Insert → Images → ClipArt
- ✗ 3. Insert → Images → Stock Pictures
- ✗ 4. Insert → Images → Picture

Question ID : **630680247871**
Option 1 ID : **630680961693**
Option 2 ID : **630680961692**
Option 3 ID : **630680961694**
Option 4 ID : **630680961691**
Status : **Answered**
Chosen Option : **2**

Q.58 In Windows 10, which of the following keyboard shortcuts is used to cycle through items in the order in which they were opened?

Ans
- ✗ 1. Alt+End
- ✓ 2. Alt+Esc
- ✗ 3. Alt+Spacebar
- ✗ 4. Alt+Ctrl

Question ID : **630680247861**
Option 1 ID : **630680961652**
Option 2 ID : **630680961651**
Option 3 ID : **630680961654**
Option 4 ID : **630680961653**
Status : **Answered**
Chosen Option : **4**

Q.59 _____ is an internationally available freeware, cross-platform, centralised, instant messaging (IM) and voice-over-IP (VoIP) service owned by Meta platforms.

Ans
- ✓ 1. WhatsApp
- ✗ 2. TCP/IP
- ✗ 3. Microsoft Edge
- ✗ 4. Bing

Question ID : **630680247881**
Option 1 ID : **630680961732**
Option 2 ID : **630680961733**
Option 3 ID : **630680961734**
Option 4 ID : **630680961731**
Status : **Answered**
Chosen Option : **1**

DAILY JOB Alert ਪੰਜਾਬ

Q.60 Which of the following is an online chat technology that allows people to communicate via messages in real time within an internet-based chat room?

Ans
✗ 1. Message Transfer Protocol
✗ 2. Transmission Messaging
✓ 3. Instant Messaging
✗ 4. Voice over Internet Protocol

Question ID : **630680247873**
Option 1 ID : **630680961699**
Option 2 ID : **630680961700**
Option 3 ID : **630680961701**
Option 4 ID : **630680961702**
Status : **Answered**
Chosen Option : **3**

Q.61 Which of the following is NOT a disadvantage of VoIP?

Ans
✗ 1. No support to emergency calls
✓ 2. Low cost
✗ 3. Requirement for continuous power supply
✗ 4. Requirement for a good internet connection

Question ID : **630680247880**
Option 1 ID : **630680961730**
Option 2 ID : **630680961727**
Option 3 ID : **630680961729**
Option 4 ID : **630680961728**
Status : **Answered**
Chosen Option : **2**

Q.62 Which of the following is a valid page orientation in MS-Word 2010?
(i) Landscape
(ii) Portrait

Ans
✗ 1. Only (ii)
✗ 2. Neither (i) nor (ii)
✗ 3. Only (i)
✓ 4. Both (i) and (ii)

Question ID : **630680247863**
Option 1 ID : **630680961660**
Option 2 ID : **630680961662**
Option 3 ID : **630680961659**
Option 4 ID : **630680961661**
Status : **Answered**
Chosen Option : **4**

Website - www.dailyjobalert.in

Q.63 The practice of gathering and analysing data from blogs and social media websites to assist in making business decisions is commonly known as _____.

Ans
- ✗ 1. search engine optimisation
- ✗ 2. social media marketing
- ✗ 3. social media crawling
- ✓ 4. social media analytics

Question ID : **630680247878**
Option 1 ID : **630680961722**
Option 2 ID : **630680961721**
Option 3 ID : **630680961719**
Option 4 ID : **630680961720**
Status : **Answered**
Chosen Option : **4**

Q.64 The _____ feature allows you to remove the selected text from a document and temporarily place it on the MS-Office 2010 clipboard.

Ans
- ✓ 1. Cut
- ✗ 2. Paste
- ✗ 3. Copy
- ✗ 4. Paste Special

Question ID : **630680247865**
Option 1 ID : **630680961667**
Option 2 ID : **630680961669**
Option 3 ID : **630680961668**
Option 4 ID : **630680961670**
Status : **Answered**
Chosen Option : **1**

Q.65 In mobile device security, a/an _____ extends a private network across a public network.

Ans
- ✗ 1. email security
- ✗ 2. endpoint protection
- ✓ 3. Virtual Private Network (VPN)
- ✗ 4. secure web gateway

Question ID : **630680247886**
Option 1 ID : **630680961752**
Option 2 ID : **630680961754**
Option 3 ID : **630680961753**
Option 4 ID : **630680961751**
Status : **Answered**
Chosen Option : **3**

Website - www.dailyjobalert.in

Q.66 **In the Windows OS, when you delete an item from any of the drives on your computer by making use of the Delete key or even by simply right-clicking and selecting the 'Delete' option, the file is moved to _____.**

Ans
✔ 1. Recycle Bin
✘ 2. Control Panel
✘ 3. Start menu
✘ 4. Taskbar

Question ID : **630680247860**
Option 1 ID : **630680961649**
Option 2 ID : **630680961647**
Option 3 ID : **630680961648**
Option 4 ID : **630680961650**
Status : **Answered**
Chosen Option : **1**

Q.67 **The section of Microsoft Windows 10 which is used for editing operating system settings, including hardware settings, connectivity, user profiles, security settings and the computer name, is known as _____.**

Ans
✘ 1. Remote Settings
✘ 2. System Recovery
✘ 3. System Settings
✔ 4. System Properties

Question ID : **630680247862**
Option 1 ID : **630680961656**
Option 2 ID : **630680961658**
Option 3 ID : **630680961655**
Option 4 ID : **630680961657**
Status : **Answered**
Chosen Option : **3**

Q.68 **_____ is the process of arranging data in a definite sequence based on a criterion or criteria in MS-Excel 2010.**

Ans
✘ 1. Sequencing
✘ 2. Filtering
✘ 3. Saving
✔ 4. Sorting

Question ID : **630680247867**
Option 1 ID : **630680961677**
Option 2 ID : **630680961676**
Option 3 ID : **630680961678**
Option 4 ID : **630680961675**
Status : **Answered**
Chosen Option : **4**

Website - www.dailyjobalert.in

Q.69 **Identify whether the given statements related to characteristics of the computer are true or false.**

(a) Power of remembrance: The computer can remember data for us.
(b) No intelligence quotient (IQ): The computer does not work without instructions.

Ans
✗ 1. (a) True (b) False
✓ 2. (a) True (b) True
✗ 3. (a) False (b) False
✗ 4. (a) False (b) True

Question ID : **630680247857**
Option 1 ID : **630680961636**
Option 2 ID : **630680961635**
Option 3 ID : **630680961637**
Option 4 ID : **630680961638**
Status : **Answered**
Chosen Option : **4**

Q.70 **Which of the following is used in Google search engine to search for exact phrases or names?**

Ans
✗ 1. AND
✗ 2. OR
✗ 3. NOT
✓ 4. “ ”

Question ID : **630680247876**
Option 1 ID : **630680961712**
Option 2 ID : **630680961713**
Option 3 ID : **630680961714**
Option 4 ID : **630680961711**
Status : **Answered**
Chosen Option : **4**

Q.71 **Through which of the following is a search engine accessed?**

Ans
✗ 1. Web page
✓ 2. Web browser
✗ 3. Web server
✗ 4. Website

Question ID : **630680247874**
Option 1 ID : **630680961705**
Option 2 ID : **630680961704**
Option 3 ID : **630680961706**
Option 4 ID : **630680961703**
Status : **Answered**
Chosen Option : **2**

Website - www.dailyjobalert.in

Q.72 **The practice of using a dedicated online platform to maintain contact, to interact and to collaborate with like-minded individuals, peers, friends and family is known as _____ networking.**

Ans
✔ 1. social
✘ 2. digital
✘ 3. society
✘ 4. computer

Question ID : **630680247877**
Option 1 ID : **630680961715**
Option 2 ID : **630680961716**
Option 3 ID : **630680961717**
Option 4 ID : **630680961718**
Status : **Answered**
Chosen Option : **2**

Q.73 **The maximum character limit for a tweet is:**

Ans
✘ 1. 150
✘ 2. 180
✔ 3. 280
✘ 4. 250

Question ID : **630680247879**
Option 1 ID : **630680961723**
Option 2 ID : **630680961725**
Option 3 ID : **630680961724**
Option 4 ID : **630680961726**
Status : **Answered**
Chosen Option : **3**

Q.74 **_____ internet service is a service that allows connectivity to the internet through a standard telephone line.**

Ans
✘ 1. Satellite
✔ 2. Dial-up
✘ 3. Digital subscriber line
✘ 4. 3G and 4G

Question ID : **630680247872**
Option 1 ID : **630680961697**
Option 2 ID : **630680961695**
Option 3 ID : **630680961698**
Option 4 ID : **630680961696**
Status : **Answered**
Chosen Option : **2**

Website - www.dailyjobalert.in

Q.75 **In MS-Excel 2010, which of the following options allows illustrating the workbook data graphically, making it easy to visualise comparisons and trends?**

Ans
- ✗ 1. PivotTable
- ✓ 2. Charts
- ✗ 3. AutoFill
- ✗ 4. AutoSum

Question ID : **630680247868**
Option 1 ID : **630680961680**
Option 2 ID : **630680961681**
Option 3 ID : **630680961679**
Option 4 ID : **630680961682**
Status : **Answered**
Chosen Option : **2**

Q.76 **Which of the following keyboard shortcuts is NOT used in MS-Word 2010 for formatting text?**

Ans
- ✗ 1. Ctrl+U
- ✗ 2. Ctrl+I
- ✓ 3. Ctrl+O
- ✗ 4. Ctrl+B

Question ID : **630680247864**
Option 1 ID : **630680961666**
Option 2 ID : **630680961664**
Option 3 ID : **630680961665**
Option 4 ID : **630680961663**
Status : **Answered**
Chosen Option : **3**

Q.77 What do the following icons represent?

Ans
- ✓ 1. Web browsers
- ✗ 2. Web documents
- ✗ 3. Websites
- ✗ 4. Web windows

Question ID : **630680247875**
Option 1 ID : **630680961709**
Option 2 ID : **630680961708**
Option 3 ID : **630680961707**
Option 4 ID : **630680961710**
Status : **Answered**
Chosen Option : **1**

Website - www.dailyjobalert.in

Q.78 Which of the following is NOT a valid option in the 'Start Slide Show' group of the Slide Show tab in MS-PowerPoint 2010?

Ans
✔ 1. Reverse from Rear
✘ 2. From Current Slide
✘ 3. From Beginning
✘ 4. Custom Slide Show

Question ID : **630680247869**
Option 1 ID : **630680961686**
Option 2 ID : **630680961683**
Option 3 ID : **630680961684**
Option 4 ID : **630680961685**
Status : **Answered**
Chosen Option : **1**

Q.79 There is/are _____ type(s) of data encryption.

Ans
✘ 1. one
✔ 2. two
✘ 3. four
✘ 4. three

Question ID : **630680247884**
Option 1 ID : **630680961743**
Option 2 ID : **630680961744**
Option 3 ID : **630680961746**
Option 4 ID : **630680961745**
Status : **Answered**
Chosen Option : **1**

Q.80 Which of the following statements is true with reference to WhatsApp?

(i) A user will be able to access WhatsApp on your computer only if you have a working mobile phone with you.
(ii) A user can log in to more than one desktop WhatsApp applications with the same phone number at the same time.

Ans
✔ 1. Both (i) and (ii)
✘ 2. Only (i)
✘ 3. Neither (i) nor (ii)
✘ 4. Only (ii)

Question ID : **630680247883**
Option 1 ID : **630680961741**
Option 2 ID : **630680961739**
Option 3 ID : **630680961742**
Option 4 ID : **630680961740**
Status : **Answered**
Chosen Option : **2**

Section : **English Language**

Website - www.dailyjobalert.in

Q.81 Select the most appropriate ANTONYM of the underlined word.

Soon they will go to sleep in the tomb of the great King. The King is there himself in his painted coffin. He is wrapped in yellow linen and <u>embalmed</u> with spices.

Ans
- ✗ 1. Preserved
- ✓ 2. Exposed
- ✗ 3. Polished
- ✗ 4. Added

Question ID : **630680131062**
Option 1 ID : **630680507529**
Option 2 ID : **630680507526**
Option 3 ID : **630680507528**
Option 4 ID : **630680507527**
Status : **Answered**
Chosen Option : **3**

Q.82 Identity the spelling error in the given sentence.

In spite of her disability, her success inevitably proves her diligence and persevarance.

Ans
- ✗ 1. diligence
- ✗ 2. disability
- ✗ 3. inevitably
- ✓ 4. persevarance

Question ID : **63068087421**
Option 1 ID : **630680339070**
Option 2 ID : **630680339071**
Option 3 ID : **630680339069**
Option 4 ID : **630680339072**
Status : **Answered**
Chosen Option : **4**

Q.83 Select the most appropriate option to fill in the blank.

Tokyo is _____ London of the East.

Ans
- ✓ 1. the
- ✗ 2. that
- ✗ 3. a
- ✗ 4. an

Question ID : **63068068179**
Option 1 ID : **630680263432**
Option 2 ID : **630680263433**
Option 3 ID : **630680263430**
Option 4 ID : **630680263431**
Status : **Answered**
Chosen Option : **1**

Website - www.dailyjobalert.in

Q.84 Select the most appropriate ANTONYM of the underlined word.

"I am very glad I have travelled. Travel improves the mind wonderfully and does away with all one's prejudices."

Ans

✗ 1. Visions

✗ 2. Aims

✗ 3. Biases

✓ 4. Impartialities

Question ID : **630680131057**
Option 1 ID : **630680507508**
Option 2 ID : **630680507506**
Option 3 ID : **630680507509**
Option 4 ID : **630680507507**
Status : **Answered**
Chosen Option : **4**

Q.85 Select the option that can be used as a one-word substitute for the given group of words.

An ability to see what might happen in the future

Ans

✓ 1. Foresight

✗ 2. Erudite

✗ 3. Judicious

✗ 4. Hindsight

Question ID : **630680129654**
Option 1 ID : **630680502224**
Option 2 ID : **630680502223**
Option 3 ID : **630680502222**
Option 4 ID : **630680502225**
Status : **Answered**
Chosen Option : **1**

Q.86 Select the option that correctly rearranges the given set of disarranged fragments into a logical and meaningful sentence.
help them/ acquire / of their communities / those virtues / moral education / helping children or moral habits that will individually live good lives / refers to / and at the same time become productive, contributing members

Ans

✗ 1. Moral education become productive, contributing members of their communities; refers to helping children acquire those virtues or moral habits that will help them individually live good lives and at the same time.

✓ 2. Moral education refers to helping children acquire those virtues or moral habits that will help them individually live good lives and at the same time become productive, contributing members of their communities.

✗ 3. Moral education will help them individually live good lives and refers to helping children acquire those virtues or moral habits that at the same time become productive, contributing members of their communities.

✗ 4. Moral education acquire those virtues or moral habits that refers to helping children will help them individually live good lives and become productive, contributing members of their communities at the same time.

Question ID : **630680113804**
Option 1 ID : **630680440745**
Option 2 ID : **630680440744**
Option 3 ID : **630680440742**
Option 4 ID : **630680440743**
Status : **Answered**
Chosen Option : **2**

Website - www.dailyjobalert.in

Q.87 **Select the option that can be used as a one-word substitute for the given group of words.**

A speech made without any previous preparation

Ans
- ✗ 1. Presentation
- ✗ 2. Excerpt
- ✓ 3. Extempore
- ✗ 4. Maiden speech

Question ID : **630680129648**
Option 1 ID : **630680502200**
Option 2 ID : **630680502201**
Option 3 ID : **630680502199**
Option 4 ID : **630680502198**
Status : **Answered**
Chosen Option : **2**

Q.88 **Select the most appropriate ANTONYM of the given word.**
Coarse

Ans
- ✗ 1. Classic
- ✓ 2. Smooth
- ✗ 3. Rough
- ✗ 4. Attract

Question ID : **630680167045**
Option 1 ID : **630680647043**
Option 2 ID : **630680647042**
Option 3 ID : **630680647040**
Option 4 ID : **630680647041**
Status : **Answered**
Chosen Option : **3**

Q.89 **Parts of a sentence are given below in jumbled order. Arrange the parts in the correct order to form a meaningful sentence.**
A.procrastination
B.to success
C. in any area of
D.the major threats
E.is one of
F.life

Ans
- ✓ 1. A, E, D, B, C, F
- ✗ 2. A, E, B, D, C, F
- ✗ 3. A, D, E, B, C, F
- ✗ 4. A, E, C, B, D, F

Question ID : **630680113198**
Option 1 ID : **630680438355**
Option 2 ID : **630680438356**
Option 3 ID : **630680438357**
Option 4 ID : **630680438354**
Status : **Answered**
Chosen Option : **1**

DAILY JOB Alert ਪੰਜਾਬ

Q.90 "ਤੁਸੀਂ ਆਪਣੀਆਂ ਆਦਤਾਂ ਤੋਂ ਮਜਬੂਰ ਹੋ। " ਇਸ ਵਾਕ ਦਾ ਅੰਗਰੇਜ਼ੀ ਅਨੁਵਾਦ ਹੈ:-

Ans
✔ 1. You are compelled by your habits.
✘ 2. You are bound to your habits.
✘ 3. You are compelled from your habit.
✘ 4. You are encircled by your habits.

Question ID : **630680248102**
Option 1 ID : **630680962618**
Option 2 ID : **630680962617**
Option 3 ID : **630680962615**
Option 4 ID : **630680962616**
Status : **Answered**
Chosen Option : **1**

Q.91 **Select the most appropriate option to fill in the blank.**

I _____ a fever from my colleague.

Ans
✘ 1. had
✔ 2. caught
✘ 3. made
✘ 4. got

Question ID : **630680123962**
Option 1 ID : **630680480706**
Option 2 ID : **630680480708**
Option 3 ID : **630680480707**
Option 4 ID : **630680480709**
Status : **Answered**
Chosen Option : **1**

Q.92 **The given sentence is divided into four segments. Select the option that has the segment with a grammatical error.**
I can agree to / you only when / you sign the deal with / all the terms and conditions.

Ans
✘ 1. all the terms and conditions.
✘ 2. you sign the deal with
✘ 3. you only when
✔ 4. I can agree to

Question ID : **630680176891**
Option 1 ID : **630680685771**
Option 2 ID : **630680685770**
Option 3 ID : **630680685769**
Option 4 ID : **630680685768**
Status : **Answered**
Chosen Option : **4**

DAILY JOB Alert ਪੰਜਾਬ

Q.93 **The following sentence has been split into four segments. Identify the segment that contains a grammatical error.**
This famous / quotation has been / taken on / Shakespeare's 'Hamlet'.

Ans
✗ 1. This famous
✗ 2. quotation has been
✓ 3. taken on
✗ 4. Shakespeare's 'Hamlet'

Question ID : **630680129503**
Option 1 ID : **630680501630**
Option 2 ID : **630680501631**
Option 3 ID : **630680501632**
Option 4 ID : **630680501633**
Status : **Answered**
Chosen Option : **3**

Q.94 **Select the most appropriate ANTONYM of the word in brackets to fill in the blank.**
The snow is _____(transient) but will melt as soon as the sun appears.

Ans
✗ 1. temporal
✗ 2. transitory
✗ 3. ephemeral
✓ 4. enduring

Question ID : **630680183025**
Option 1 ID : **630680709185**
Option 2 ID : **630680709188**
Option 3 ID : **630680709187**
Option 4 ID : **630680709186**
Status : **Answered**
Chosen Option : **4**

Q.95 **Identify the adjective in the given sentence.**
The ship sustained a heavy damage.

Ans
✗ 1. Ship
✗ 2. Damage
✗ 3. Sustained
✓ 4. Heavy

Question ID : **630680167241**
Option 1 ID : **630680647736**
Option 2 ID : **630680647738**
Option 3 ID : **630680647737**
Option 4 ID : **630680647739**
Status : **Answered**
Chosen Option : **4**

Website - www.dailyjobalert.in

Comprehension:

Read the given passage and answer the questions that follow.

The young woman organised the so-called business incubator for agricultural manufacturers and small business owners. Her venture had passed a long and thorny way towards sustained profitability and public success. Now that her position in this market niche has become particularly strong, she has agreed to share her recipe for entrepreneurial success with others. Ms Maria, this is how she asked to be mentioned in the interview transcript, tells her story of venture creation.

Before she started her first venture, Ms Maria had been working in the field of agriculture. Actually, her entire life had been closely associated with the agricultural business. The woman grew up on a small rural estate. Her father enjoyed the recognised status of one of the best agricultural workers in their community. Ms Maria confesses that she did not plan to end up in agriculture. Yet, no matter how hard she tried to escape her agricultural fate, she always returned to it. One day, the young woman decided that she needed a good investor to Launch her agricultural project. That was the moment of revelation when Ms Maria suddenly realised how large the gap between her entrepreneurship spirit and that of potential investors was. She met numerous men and women, who shared brilliant business ideas and irradiated determination to become a success in agriculture.

As a result, Ms Maria decided to try herself in the so-called helping business. That is, she would look for an investor for a business venture she believed to be potentially profitable. She says that she wanted to see how the process would go to avoid similar issues with her own business idea. However, once the venture was started and the first project was completed, her fame in the investor glue quickly spread within and beyond the community. Today, Ms Maria manages dozens of agricultural projects and meets with at least two potential investors every day. Her venture is flourishing and thriving, and she does not want to talk of the times when she could hardly meet her basic needs.

For Ms Maria, the most valuable asset is creativity. This sounds surprising, given that many contemporary entrepreneurs emphasise the crucial role of human resources behind the success of their business ventures. Had it not been for Ms Maria's creativity, she would have never managed to succeed in her market niche. The services she provides are unique but extremely important for the future of local agriculture. The only thing she says she would do differently is rely on the real-life experiences of other business owners rather than her own intuition and perceptions of the future.

More than once, Ms Maria acknowledges that she owes the success of her venture to incidents, accidents, and coincidences. An impression persists that the businesswoman never engaged in any planning activities. Today, Ms Maria cannot imagine her venture without thorough planning and controlling activities, administrative support, and strategic decision-making. She says that, had she been more thorough in planning her initial venture activities, she would have managed to reduce the costs of her business activity, minimise the risks of financial losses, and avoid the hurdles of misbalanced human resource management.

Overall, from the perspective of Ms Maria, the venture creation process resembles a spontaneous occurrence. The interviewee does not specify the strategies she employed to obtain the desired results. She constantly emphasises the fact that she did not follow any predetermined course. Many of her decisions were made intuitively. This is actually where the discussed venture fell short. Despite its profitability and strategic success, one should not ignore the relevance and utmost importance of strategic planning. I find it particularly admirable about the entrepreneur's ability to make quick decisions, based on a surface analysis of the situation. Still, I would discourage other young entrepreneurs from following the same path.

One of the key things have learned from this interview is that being successful in venture creation is never possible without having experience and expertise in the selected business activity. Ms Maria knew the taste of being an agricultural worker inside out, and she knew how she could help other business people to close the existing investment gaps. Simultaneously, the results of the interview once again confirmed the essential role of planning, marketing, and advertising in venture creation, development, and growth. The success of Ms Maria's venture looks more like an accident rather than a result of thorough planning. These planning priorities will certainly influence my career in the next five years. I will be much more considerate to ensure that the results I manage to achieve in business can sustain me in the long run.

To conclude, venture creation is a sophisticated process that encompasses numerous elements, decisions, and actions. It requires talent and creativity. However, it is also impossible without thorough planning. The results of the present interview suggest that business owners cannot rely solely on their intuition. They must make grounded decisions to make sure that the venture they manage to create brings long-term profits.

SubQuestion No : 96

Q.96 What is the most valuable asset, according to Ms Maria?

Ans

✗ 1. Planning

✓ 2. Creativity

✗ 3. Fame

✗ 4. Human resources

Question ID : **630680204124**
Option 1 ID : **630680791650**
Option 2 ID : **630680791648**

Website - www.dailyjobalert.in

Option 3 ID : **630680791647**
Option 4 ID : **630680791649**
Status : **Answered**
Chosen Option : **4**

Website - www.dailyjobalert.in

Comprehension:

Read the given passage and answer the questions that follow.

The young woman organised the so-called business incubator for agricultural manufacturers and small business owners. Her venture had passed a long and thorny way towards sustained profitability and public success. Now that her position in this market niche has become particularly strong, she has agreed to share her recipe for entrepreneurial success with others. Ms Maria, this is how she asked to be mentioned in the interview transcript, tells her story of venture creation.

Before she started her first venture, Ms Maria had been working in the field of agriculture. Actually, her entire life had been closely associated with the agricultural business. The woman grew up on a small rural estate. Her father enjoyed the recognised status of one of the best agricultural workers in their community. Ms Maria confesses that she did not plan to end up in agriculture. Yet, no matter how hard she tried to escape her agricultural fate, she always returned to it. One day, the young woman decided that she needed a good investor to Launch her agricultural project. That was the moment of revelation when Ms Maria suddenly realised how large the gap between her entrepreneurship spirit and that of potential investors was. She met numerous men and women, who shared brilliant business ideas and irradiated determination to become a success in agriculture.

As a result, Ms Maria decided to try herself in the so-called helping business. That is, she would look for an investor for a business venture she believed to be potentially profitable. She says that she wanted to see how the process would go to avoid similar issues with her own business idea. However, once the venture was started and the first project was completed, her fame in the investor glue quickly spread within and beyond the community. Today, Ms Maria manages dozens of agricultural projects and meets with at least two potential investors every day. Her venture is flourishing and thriving, and she does not want to talk of the times when she could hardly meet her basic needs.

For Ms Maria, the most valuable asset is creativity. This sounds surprising, given that many contemporary entrepreneurs emphasise the crucial role of human resources behind the success of their business ventures. Had it not been for Ms Maria's creativity, she would have never managed to succeed in her market niche. The services she provides are unique but extremely important for the future of local agriculture. The only thing she says she would do differently is rely on the real-life experiences of other business owners rather than her own intuition and perceptions of the future.

More than once, Ms Maria acknowledges that she owes the success of her venture to incidents, accidents, and coincidences. An impression persists that the businesswoman never engaged in any planning activities. Today, Ms Maria cannot imagine her venture without thorough planning and controlling activities, administrative support, and strategic decision-making. She says that, had she been more thorough in planning her initial venture activities, she would have managed to reduce the costs of her business activity, minimise the risks of financial losses, and avoid the hurdles of misbalanced human resource management.

Overall, from the perspective of Ms Maria, the venture creation process resembles a spontaneous occurrence. The interviewee does not specify the strategies she employed to obtain the desired results. She constantly emphasises the fact that she did not follow any predetermined course. Many of her decisions were made intuitively. This is actually where the discussed venture fell short. Despite its profitability and strategic success, one should not ignore the relevance and utmost importance of strategic planning. I find it particularly admirable about the entrepreneur's ability to make quick decisions, based on a surface analysis of the situation. Still, I would discourage other young entrepreneurs from following the same path.

One of the key things have learned from this interview is that being successful in venture creation is never possible without having experience and expertise in the selected business activity. Ms Maria knew the taste of being an agricultural worker inside out, and she knew how she could help other business people to close the existing investment gaps. Simultaneously, the results of the interview once again confirmed the essential role of planning, marketing, and advertising in venture creation, development, and growth. The success of Ms Maria's venture looks more like an accident rather than a result of thorough planning. These planning priorities will certainly influence my career in the next five years. I will be much more considerate to ensure that the results I manage to achieve in business can sustain me in the long run.

To conclude, venture creation is a sophisticated process that encompasses numerous elements, decisions, and actions. It requires talent and creativity. However, it is also impossible without thorough planning. The results of the present interview suggest that business owners cannot rely solely on their intuition. They must make grounded decisions to make sure that the venture they manage to create brings long-term profits.

SubQuestion No : 97

Q.97 Select an appropriate title for the passage.

Ans

✗ 1. An Agricultural Project

✗ 2. Creativity – AValuable Asset

✓ 3. Entrepreneurship

✗ 4. Ms Maria's Success Story

Question ID : **630680204125**
Option 1 ID : **630680791651**
Option 2 ID : **630680791654**

Website - www.dailyjobalert.in

Option 3 ID : **630680791652**
Option 4 ID : **630680791653**
Status : **Answered**
Chosen Option : **3**

Website - www.dailyjobalert.in

Comprehension:

Read the given passage and answer the questions that follow.

The young woman organised the so-called business incubator for agricultural manufacturers and small business owners. Her venture had passed a long and thorny way towards sustained profitability and public success. Now that her position in this market niche has become particularly strong, she has agreed to share her recipe for entrepreneurial success with others. Ms Maria, this is how she asked to be mentioned in the interview transcript, tells her story of venture creation.

Before she started her first venture, Ms Maria had been working in the field of agriculture. Actually, her entire life had been closely associated with the agricultural business. The woman grew up on a small rural estate. Her father enjoyed the recognised status of one of the best agricultural workers in their community. Ms Maria confesses that she did not plan to end up in agriculture. Yet, no matter how hard she tried to escape her agricultural fate, she always returned to it. One day, the young woman decided that she needed a good investor to Launch her agricultural project. That was the moment of revelation when Ms Maria suddenly realised how large the gap between her entrepreneurship spirit and that of potential investors was. She met numerous men and women, who shared brilliant business ideas and irradiated determination to become a success in agriculture.

As a result, Ms Maria decided to try herself in the so-called helping business. That is, she would look for an investor for a business venture she believed to be potentially profitable. She says that she wanted to see how the process would go to avoid similar issues with her own business idea. However, once the venture was started and the first project was completed, her fame in the investor glue quickly spread within and beyond the community. Today, Ms Maria manages dozens of agricultural projects and meets with at least two potential investors every day. Her venture is flourishing and thriving, and she does not want to talk of the times when she could hardly meet her basic needs.

For Ms Maria, the most valuable asset is creativity. This sounds surprising, given that many contemporary entrepreneurs emphasise the crucial role of human resources behind the success of their business ventures. Had it not been for Ms Maria's creativity, she would have never managed to succeed in her market niche. The services she provides are unique but extremely important for the future of local agriculture. The only thing she says she would do differently is rely on the real-life experiences of other business owners rather than her own intuition and perceptions of the future.

More than once, Ms Maria acknowledges that she owes the success of her venture to incidents, accidents, and coincidences. An impression persists that the businesswoman never engaged in any planning activities. Today, Ms Maria cannot imagine her venture without thorough planning and controlling activities, administrative support, and strategic decision-making. She says that, had she been more thorough in planning her initial venture activities, she would have managed to reduce the costs of her business activity, minimise the risks of financial losses, and avoid the hurdles of misbalanced human resource management.

Overall, from the perspective of Ms Maria, the venture creation process resembles a spontaneous occurrence. The interviewee does not specify the strategies she employed to obtain the desired results. She constantly emphasises the fact that she did not follow any predetermined course. Many of her decisions were made intuitively. This is actually where the discussed venture fell short. Despite its profitability and strategic success, one should not ignore the relevance and utmost importance of strategic planning. I find it particularly admirable about the entrepreneur's ability to make quick decisions, based on a surface analysis of the situation. Still, I would discourage other young entrepreneurs from following the same path.

One of the key things have learned from this interview is that being successful in venture creation is never possible without having experience and expertise in the selected business activity. Ms Maria knew the taste of being an agricultural worker inside out, and she knew how she could help other business people to close the existing investment gaps. Simultaneously, the results of the interview once again confirmed the essential role of planning, marketing, and advertising in venture creation, development, and growth. The success of Ms Maria's venture looks more like an accident rather than a result of thorough planning. These planning priorities will certainly influence my career in the next five years. I will be much more considerate to ensure that the results I manage to achieve in business can sustain me in the long run.

To conclude, venture creation is a sophisticated process that encompasses numerous elements, decisions, and actions. It requires talent and creativity. However, it is also impossible without thorough planning. The results of the present interview suggest that business owners cannot rely solely on their intuition. They must make grounded decisions to make sure that the venture they manage to create brings long-term profits.

SubQuestion No : 98

Q.98 According to Ms Maria, what kind of approach would she take differently from other entrepreneurs?

Ans

✗ 1. Following her own intuitions and perceptions of the future.

✓ 2. Relying on the real-life experiences of other business owners.

✗ 3. Realising the importance of human resources.

✗ 4. Valuing the creativity of her own self.

Question ID : **630680204126**
Option 1 ID : **630680791658**

Website - www.dailyjobalert.in

Option 2 ID : **630680791657**
Option 3 ID : **630680791656**
Option 4 ID : **630680791655**
Status : **Answered**
Chosen Option : **3**

Website - www.dailyjobalert.in

Comprehension:

Read the given passage and answer the questions that follow.

The young woman organised the so-called business incubator for agricultural manufacturers and small business owners. Her venture had passed a long and thorny way towards sustained profitability and public success. Now that her position in this market niche has become particularly strong, she has agreed to share her recipe for entrepreneurial success with others. Ms Maria, this is how she asked to be mentioned in the interview transcript, tells her story of venture creation.

Before she started her first venture, Ms Maria had been working in the field of agriculture. Actually, her entire life had been closely associated with the agricultural business. The woman grew up on a small rural estate. Her father enjoyed the recognised status of one of the best agricultural workers in their community. Ms Maria confesses that she did not plan to end up in agriculture. Yet, no matter how hard she tried to escape her agricultural fate, she always returned to it. One day, the young woman decided that she needed a good investor to Launch her agricultural project. That was the moment of revelation when Ms Maria suddenly realised how large the gap between her entrepreneurship spirit and that of potential investors was. She met numerous men and women, who shared brilliant business ideas and irradiated determination to become a success in agriculture.

As a result, Ms Maria decided to try herself in the so-called helping business. That is, she would look for an investor for a business venture she believed to be potentially profitable. She says that she wanted to see how the process would go to avoid similar issues with her own business idea. However, once the venture was started and the first project was completed, her fame in the investor glue quickly spread within and beyond the community. Today, Ms Maria manages dozens of agricultural projects and meets with at least two potential investors every day. Her venture is flourishing and thriving, and she does not want to talk of the times when she could hardly meet her basic needs.

For Ms Maria, the most valuable asset is creativity. This sounds surprising, given that many contemporary entrepreneurs emphasise the crucial role of human resources behind the success of their business ventures. Had it not been for Ms Maria's creativity, she would have never managed to succeed in her market niche. The services she provides are unique but extremely important for the future of local agriculture. The only thing she says she would do differently is rely on the real-life experiences of other business owners rather than her own intuition and perceptions of the future.

More than once, Ms Maria acknowledges that she owes the success of her venture to incidents, accidents, and coincidences. An impression persists that the businesswoman never engaged in any planning activities. Today, Ms Maria cannot imagine her venture without thorough planning and controlling activities, administrative support, and strategic decision-making. She says that, had she been more thorough in planning her initial venture activities, she would have managed to reduce the costs of her business activity, minimise the risks of financial losses, and avoid the hurdles of misbalanced human resource management.

Overall, from the perspective of Ms Maria, the venture creation process resembles a spontaneous occurrence. The interviewee does not specify the strategies she employed to obtain the desired results. She constantly emphasises the fact that she did not follow any predetermined course. Many of her decisions were made intuitively. This is actually where the discussed venture fell short. Despite its profitability and strategic success, one should not ignore the relevance and utmost importance of strategic planning. I find it particularly admirable about the entrepreneur's ability to make quick decisions, based on a surface analysis of the situation. Still, I would discourage other young entrepreneurs from following the same path.

One of the key things have learned from this interview is that being successful in venture creation is never possible without having experience and expertise in the selected business activity. Ms Maria knew the taste of being an agricultural worker inside out, and she knew how she could help other business people to close the existing investment gaps. Simultaneously, the results of the interview once again confirmed the essential role of planning, marketing, and advertising in venture creation, development, and growth. The success of Ms Maria's venture looks more like an accident rather than a result of thorough planning. These planning priorities will certainly influence my career in the next five years. I will be much more considerate to ensure that the results I manage to achieve in business can sustain me in the long run.

To conclude, venture creation is a sophisticated process that encompasses numerous elements, decisions, and actions. It requires talent and creativity. However, it is also impossible without thorough planning. The results of the present interview suggest that business owners cannot rely solely on their intuition. They must make grounded decisions to make sure that the venture they manage to create brings long-term profits.

SubQuestion No : 99

Q.99 What does the word 'Niche' imply in the passage?

Ans

✗ 1. Degree of competition related to products

✗ 2. A functional place of creativity

✗ 3. Position in the environment

✓ 4. Products satisfying the needs of the people

Question ID : **630680204127**
Option 1 ID : **630680791661**
Option 2 ID : **630680791660**

Website - www.dailyjobalert.in

Option 3 ID : **630680791659**
Option 4 ID : **630680791662**
Status : **Answered**
Chosen Option : **1**

Website - www.dailyjobalert.in

Comprehension:

Read the given passage and answer the questions that follow.

The young woman organised the so-called business incubator for agricultural manufacturers and small business owners. Her venture had passed a long and thorny way towards sustained profitability and public success. Now that her position in this market niche has become particularly strong, she has agreed to share her recipe for entrepreneurial success with others. Ms Maria, this is how she asked to be mentioned in the interview transcript, tells her story of venture creation.

Before she started her first venture, Ms Maria had been working in the field of agriculture. Actually, her entire life had been closely associated with the agricultural business. The woman grew up on a small rural estate. Her father enjoyed the recognised status of one of the best agricultural workers in their community. Ms Maria confesses that she did not plan to end up in agriculture. Yet, no matter how hard she tried to escape her agricultural fate, she always returned to it. One day, the young woman decided that she needed a good investor to Launch her agricultural project. That was the moment of revelation when Ms Maria suddenly realised how large the gap between her entrepreneurship spirit and that of potential investors was. She met numerous men and women, who shared brilliant business ideas and irradiated determination to become a success in agriculture.

As a result, Ms Maria decided to try herself in the so-called helping business. That is, she would look for an investor for a business venture she believed to be potentially profitable. She says that she wanted to see how the process would go to avoid similar issues with her own business idea. However, once the venture was started and the first project was completed, her fame in the investor glue quickly spread within and beyond the community. Today, Ms Maria manages dozens of agricultural projects and meets with at least two potential investors every day. Her venture is flourishing and thriving, and she does not want to talk of the times when she could hardly meet her basic needs.

For Ms Maria, the most valuable asset is creativity. This sounds surprising, given that many contemporary entrepreneurs emphasise the crucial role of human resources behind the success of their business ventures. Had it not been for Ms Maria's creativity, she would have never managed to succeed in her market niche. The services she provides are unique but extremely important for the future of local agriculture. The only thing she says she would do differently is rely on the real-life experiences of other business owners rather than her own intuition and perceptions of the future.

More than once, Ms Maria acknowledges that she owes the success of her venture to incidents, accidents, and coincidences. An impression persists that the businesswoman never engaged in any planning activities. Today, Ms Maria cannot imagine her venture without thorough planning and controlling activities, administrative support, and strategic decision-making. She says that, had she been more thorough in planning her initial venture activities, she would have managed to reduce the costs of her business activity, minimise the risks of financial losses, and avoid the hurdles of misbalanced human resource management.

Overall, from the perspective of Ms Maria, the venture creation process resembles a spontaneous occurrence. The interviewee does not specify the strategies she employed to obtain the desired results. She constantly emphasises the fact that she did not follow any predetermined course. Many of her decisions were made intuitively. This is actually where the discussed venture fell short. Despite its profitability and strategic success, one should not ignore the relevance and utmost importance of strategic planning. I find it particularly admirable about the entrepreneur's ability to make quick decisions, based on a surface analysis of the situation. Still, I would discourage other young entrepreneurs from following the same path.

One of the key things have learned from this interview is that being successful in venture creation is never possible without having experience and expertise in the selected business activity. Ms Maria knew the taste of being an agricultural worker inside out, and she knew how she could help other business people to close the existing investment gaps. Simultaneously, the results of the interview once again confirmed the essential role of planning, marketing, and advertising in venture creation, development, and growth. The success of Ms Maria's venture looks more like an accident rather than a result of thorough planning. These planning priorities will certainly influence my career in the next five years. I will be much more considerate to ensure that the results I manage to achieve in business can sustain me in the long run.

To conclude, venture creation is a sophisticated process that encompasses numerous elements, decisions, and actions. It requires talent and creativity. However, it is also impossible without thorough planning. The results of the present interview suggest that business owners cannot rely solely on their intuition. They must make grounded decisions to make sure that the venture they manage to create brings long-term profits.

SubQuestion No : 100

Q.100 Identify the ANTONYM of the word 'Concealment' from the passage.

Ans

✗ 1. Coincidence

✗ 2. Sustain

✓ 3. Revelation

✗ 4. Venture

Question ID : **630680204128**
Option 1 ID : **630680791665**
Option 2 ID : **630680791664**

Website - www.dailyjobalert.in

Option 3 ID : **630680791663**
Option 4 ID : **630680791666**
Status : **Answered**
Chosen Option : **1**

Section : **Qualifying Test of Punjabi Language**

Q.1 ਸਹੀ ਸ਼ਬਦ-ਜੋੜ ਚੁਣੋ:

Ans
✗ 1. ਖਾਲੀਸ
✗ 2. ਖਾਲਿਸ
✗ 3. ਖ਼ਲਸ
✓ 4. ਖ਼ਾਲਸ

Question ID : **630680248447**
Option 1 ID : **630680963932**
Option 2 ID : **630680963931**
Option 3 ID : **630680963934**
Option 4 ID : **630680963933**
Status : **Answered**
Chosen Option : **2**

Q.2 ਅਖਾਣ ਵਿਚਲੀ ਖ਼ਾਲੀ ਥਾਂ ਭਰੋ: _____ ਵਾੜ ਖੇਤ ਨੂੰ ਖਾਏ

Ans
✗ 1. ਕੰਡਿਆਂ ਵਾਲੀ
✗ 2. ਸਿੱਧੀ
✓ 3. ਉਲਟੀ
✗ 4. ਫੁੱਲਾਂ ਵਾਲੀ

Question ID : **630680248427**
Option 1 ID : **630680963854**
Option 2 ID : **630680963852**
Option 3 ID : **630680963851**
Option 4 ID : **630680963853**
Status : **Answered**
Chosen Option : **3**

Q.3 Balance ਸ਼ਬਦ ਦਾ ਪੰਜਾਬੀ ਅਨੁਵਾਦ ਕੀ ਹੈ?

Ans
✗ 1. ਉਧਾਰ
✗ 2. ਲੇਖਾ
✗ 3. ਰਾਸ਼ੀ
✓ 4. ਬਕਾਇਆ

Question ID : **630680248453**
Option 1 ID : **630680963957**
Option 2 ID : **630680963958**
Option 3 ID : **630680963956**
Option 4 ID : **630680963955**
Status : **Answered**
Chosen Option : **4**

Website - www.dailyjobalert.in

Q.4 ਅੱਗੇ ਲਿਖੇ ਬਹੁਤੇ ਸ਼ਬਦਾਂ ਲਈ ਇਕ ਸ਼ਬਦ ਚੁਣੋ: ਜਦੋਂ ਮੀਂਹ ਨਾ ਪਵੇ

Ans
1. ਸੇਮ
2. ਬਰਸਾਤ
3. ਬੰਜਰ
4. ਔੜ

Question ID : **630680248420**
Option 1 ID : **630680963826**
Option 2 ID : **630680963824**
Option 3 ID : **630680963823**
Option 4 ID : **630680963825**
Status : **Answered**
Chosen Option : **4**

Q.5 ਦੇਸੀ ਸਾਲ ਦਾ ਦਸਵਾਂ ਮਹੀਨਾ ਕਿਹੜਾ ਹੁੰਦਾ ਹੈ:

Ans
1. ਸਾਉਣ
2. ਭਾਦਰੋਂ
3. ਪੋਹ
4. ਮੱਘਰ

Question ID : **630680248457**
Option 1 ID : **630680963973**
Option 2 ID : **630680963974**
Option 3 ID : **630680963972**
Option 4 ID : **630680963971**
Status : **Answered**
Chosen Option : **3**

Q.6 ਹੈਰਾਨੀ, ਭੈਅ, ਖ਼ੁਸ਼ੀ ਦੇ ਭਾਵ ਪ੍ਰਗਟ ਕਰਨ ਵਾਲੇ ਸ਼ਬਦ ਜਾਂ ਵਾਕ ਤੋਂ ਪਿੱਛੋਂ _____ ਚਿੰਨ੍ਹ ਵਰਤਿਆ ਜਾਂਦਾ ਹੈ।

Ans
1. ਵਿਸਮਕ
2. ਪ੍ਰਸ਼ਨ
3. ਕਾਮਾ ਬਿੰਦੀ
4. ਦੁਬਿੰਦੀ

Question ID : **630680248449**
Option 1 ID : **630680963940**
Option 2 ID : **630680963939**
Option 3 ID : **630680963941**
Option 4 ID : **630680963942**
Status : **Answered**
Chosen Option : **1**

Q.7 'ਆਦਿ' ਦਾ ਵਿਰੋਧੀ ਸ਼ਬਦ ਹੈ:

Ans
1. ਸ਼ੁਰੂ
2. ਆਗਮਨ
3. ਅੰਤ
4. ਆਮਦ

Question ID : **630680248416**
Option 1 ID : **630680963807**
Option 2 ID : **630680963808**
Option 3 ID : **630680963810**
Option 4 ID : **630680963809**
Status : **Answered**
Chosen Option : **1**

Website - www.dailyjobalert.in

Q.8 ਹੇਠ ਲਿਖਿਆਂ ਵਿੱਚੋਂ ਕਿਸ ਵਾਕ ਵਿਚ ਵਿਸਰਾਮ ਚਿੰਨ੍ਹਾਂ ਦੀ ਠੀਕ ਵਰਤੋਂ ਹੋਈ ਹੈ?

Ans
- ✗ 1. ਮੁੱਖ ਅਧਿਆਪਕ ਜੀ ਨੇ ਕਿਹਾ; ਮੈਂ ਹਮੇਸ਼ਾਂ, ਮਿਹਨਤੀ ਅਤੇ ਲਗਨ ਵਾਲੇ ਵਿਦਿਆਰਥੀਆਂ ਦੀ ਕਦਰ ਕਰਦਾ ਹਾਂ!
- ✗ 2. ਮੁੱਖ ਅਧਿਆਪਕ ਜੀ ਨੇ, "ਕਿਹਾ ਮੈਂ ਹਮੇਸ਼ਾਂ" ਮਿਹਨਤੀ ਅਤੇ ਲਗਨ ਵਾਲੇ ਵਿਦਿਆਰਥੀਆਂ ਦੀ ਕਦਰ ਕਰਦਾ ਹਾਂ?
- ✓ 3. ਮੁੱਖ ਅਧਿਆਪਕ ਜੀ ਨੇ ਕਿਹਾ, "ਮੈਂ ਹਮੇਸ਼ਾਂ ਮਿਹਨਤੀ ਅਤੇ ਲਗਨ ਵਾਲੇ ਵਿਦਿਆਰਥੀਆਂ ਦੀ ਕਦਰ ਕਰਦਾ ਹਾਂ।"
- ✗ 4. ਮੁੱਖ ਅਧਿਆਪਕ ਜੀ ਨੇ ਕਿਹਾ! ਮੈਂ ਹਮੇਸ਼ਾਂ ਮਿਹਨਤੀ ਅਤੇ ਲਗਨ ਵਾਲੇ ਵਿਦਿਆਰਥੀਆਂ ਦੀ ਕਦਰ ਕਰਦਾ ਹਾਂ?

Question ID : **630680248450**
Option 1 ID : **630680963944**
Option 2 ID : **630680963945**
Option 3 ID : **630680963946**
Option 4 ID : **630680963943**
Status : **Answered**
Chosen Option : **3**

Q.9 ਸਹੀ ਸ਼ਬਦ-ਜੋੜ ਚੁਣੋ:

Ans
- ✓ 1. ਧਾਰਮਿਕ
- ✗ 2. ਧਾਰਿਮਕ
- ✗ 3. ਧਰਮੀਕ
- ✗ 4. ਦਾਰਮਿਕ

Question ID : **630680248446**
Option 1 ID : **630680963927**
Option 2 ID : **630680963930**
Option 3 ID : **630680963929**
Option 4 ID : **630680963928**
Status : **Answered**
Chosen Option : **1**

Q.10 ਸਹੀ ਸ਼ਬਦ-ਜੋੜ ਚੁਣੋ:

Ans
- ✗ 1. ਸ਼ਬਦਿਕ
- ✓ 2. ਸ਼ਾਬਦਿਕ
- ✗ 3. ਸਬਦੀਕ
- ✗ 4. ਸ਼ਾਬਦਕਿ

Question ID : **630680248444**
Option 1 ID : **630680963919**
Option 2 ID : **630680963920**
Option 3 ID : **630680963921**
Option 4 ID : **630680963922**
Status : **Answered**
Chosen Option : **2**

Q.11 ਅੱਗੇ ਲਿਖੇ ਬਹੁਤੇ ਸ਼ਬਦਾਂ ਲਈ ਇਕ ਸ਼ਬਦ ਚੁਣੋ: ਪੈਦਲ ਸਫ਼ਰ ਕਰਨ ਵਾਲਾ

Ans
- ✗ 1. ਮੁਸਾਫ਼ਰ
- ✗ 2. ਪੰਧ
- ✓ 3. ਪਾਂਧੀ
- ✗ 4. ਸਫ਼ਰੀ

Question ID : **630680248421**
Option 1 ID : **630680963830**
Option 2 ID : **630680963828**
Option 3 ID : **630680963829**
Option 4 ID : **630680963827**
Status : **Answered**
Chosen Option : **1**

DAILY JOB Alert ਪੰਜਾਬ
Website - www.dailyjobalert.in

Q.12 ਅਖਾਣ ਵਿਚਲੀ ਖ਼ਾਲੀ ਥਾਂ ਭਰੋ: ਗ਼ਰੀਬ ਰੱਖੇ ਰੋਜ਼ੇ ਤੇ ਦਿਨ _____ ਆਏ

Ans
✔ 1. ਵੱਡੇ
✘ 2. ਸੁਹਾਵਣੇ
✘ 3. ਛੋਟੇ
✘ 4. ਚੰਗੇ

Question ID : **630680248428**
Option 1 ID : **630680963858**
Option 2 ID : **630680963855**
Option 3 ID : **630680963857**
Option 4 ID : **630680963856**
Status : **Answered**
Chosen Option : **1**

Q.13 'ਸ਼ਲਾਘਾ' ਦਾ ਸਮਾਨਾਰਥਕ ਸ਼ਬਦ ਹੈ:

Ans
✘ 1. ਉਸਤਾਦ
✘ 2. ਯੋਗ
✘ 3. ਸ਼ਾਨਦਾਰ
✔ 4. ਉਸਤਤ

Question ID : **630680248410**
Option 1 ID : **630680963784**
Option 2 ID : **630680963786**
Option 3 ID : **630680963785**
Option 4 ID : **630680963783**
Status : **Answered**
Chosen Option : **4**

Q.14 ਬਰੈਕਟ ਵਿਚ ਦਿੱਤੇ ਵਿਸਰਾਮ ਚਿੰਨ੍ਹ (:) ਦੀ ਪਛਾਣ ਕਰੋ

Ans
✔ 1. ਦੁਬਿੰਦੀ
✘ 2. ਦੁਬਿੰਦੀ ਡੈਸ਼
✘ 3. ਬਿੰਦੀ ਕਾਮਾ
✘ 4. ਛੁੱਟ ਮਰੋੜੀ

Question ID : **630680248448**
Option 1 ID : **630680963938**
Option 2 ID : **630680963935**
Option 3 ID : **630680963937**
Option 4 ID : **630680963936**
Status : **Answered**
Chosen Option : **1**

Q.15 'ਗੂੜ੍ਹਾ' ਦਾ ਵਿਰੋਧੀ ਸ਼ਬਦ ਹੈ:

Ans
✘ 1. ਕਾਲਾ
✘ 2. ਰੰਗਦਾਰ
✘ 3. ਸਫ਼ੇਦ
✔ 4. ਫਿੱਕਾ

Question ID : **630680248417**
Option 1 ID : **630680963812**
Option 2 ID : **630680963813**
Option 3 ID : **630680963811**
Option 4 ID : **630680963814**
Status : **Answered**
Chosen Option : **4**

Website - www.dailyjobalert.in

Q.16 'ਅਲੌਕਿਕ' ਦਾ ਸਮਾਨਾਰਥਕ ਸ਼ਬਦ ਹੈ:

Ans
1. ਢੋਅ
2. ਪ੍ਰਣ
3. ਸਵੱਛ
4. ਅਨੂਠਾ

Question ID : **630680248413**
Option 1 ID : **630680963798**
Option 2 ID : **630680963796**
Option 3 ID : **630680963797**
Option 4 ID : **630680963795**
Status : **Answered**
Chosen Option : **4**

Q.17 ਅਖਾਣ ਵਿਚਲੀ ਖ਼ਾਲੀ ਥਾਂ ਭਰੋ: ਉਹ ਕਿਹੜੀ ਗਲੀ ਜਿੱਥੇ _____ ਨਹੀਂ ਖਲੀ

Ans
1. ਭਾਗੋ
2. ਭਜਨੋ
3. ਛਿੰਦੋ
4. ਕਰਮੋ

Question ID : **630680248426**
Option 1 ID : **630680963848**
Option 2 ID : **630680963849**
Option 3 ID : **630680963850**
Option 4 ID : **630680963847**
Status : **Answered**
Chosen Option : **1**

Q.18 ਪ੍ਰਫੁਲਿਤ ਸ਼ਬਦ ਵਿਚ ਕਿਹੜਾ ਅਗੇਤਰ ਹੈ:

Ans
1. ਪ੍ਰਉਇ
2. ਪ੍ਰ
3. ਪ੍ਰਫੁਲਿ
4. ਪ੍ਰਫੁ

Question ID : **630680248440**
Option 1 ID : **630680963905**
Option 2 ID : **630680963906**
Option 3 ID : **630680963904**
Option 4 ID : **630680963903**
Status : **Answered**
Chosen Option : **2**

Q.19 'ਅਕਲ ਦਾ ਵੈਰੀ' ਮੁਹਾਵਰੇ ਦਾ ਅਰਥ ਹੈ:

Ans
1. ਗਿਆਨ ਦੀ ਗੱਲਾਂ ਕਰਨ ਵਾਲਾ
2. ਬੁਰਾ ਸੋਚਣ ਵਾਲਾ
3. ਮੂਰਖ
4. ਅਕਲਮੰਦ

Question ID : **630680248423**
Option 1 ID : **630680963837**
Option 2 ID : **630680963836**
Option 3 ID : **630680963838**
Option 4 ID : **630680963835**
Status : **Answered**
Chosen Option : **3**

Website - www.dailyjobalert.in

Q.20 'ਸੰਦੂਕ' ਸ਼ਬਦ ਦਾ ਲਿੰਗ ਬਦਲੋ:

Ans
1. ਸੰਦੂਕਣੀ
2. ਸੰਦੂਕੀ
3. ਸੰਦੂਕਣ
4. ਸੰਦੂਕੜੀ

Question ID : **630680248431**
Option 1 ID : **630680963868**
Option 2 ID : **630680963869**
Option 3 ID : **630680963870**
Option 4 ID : **630680963867**
Status : **Answered**
Chosen Option : **4**

Q.21 ਲੱਭ ਸ਼ਬਦ ਨਾਲ ਲੱਗਦਾ ਸਹੀ ਅਗੇਤਰ ਚੁਣੋ:

Ans
1. ਕੁ
2. ਦੂਰ
3. ਦੁਰ
4. ਪ

Question ID : **630680248439**
Option 1 ID : **630680963902**
Option 2 ID : **630680963901**
Option 3 ID : **630680963900**
Option 4 ID : **630680963899**
Status : **Answered**
Chosen Option : **3**

Q.22 ਮੁਹਾਵਰੇ ਵਿਚਲੀ ਖ਼ਾਲੀ ਥਾਂ ਭਰੋ: ਚਾਂਦੀ ਦੀ _____ ਮਾਰਨਾ

Ans
1. ਸੋਟੀ
2. ਛੜੀ
3. ਜੁੱਤੀ
4. ਇੱਟ

Question ID : **630680248424**
Option 1 ID : **630680963840**
Option 2 ID : **630680963841**
Option 3 ID : **630680963839**
Option 4 ID : **630680963842**
Status : **Answered**
Chosen Option : **4**

Q.23 ਅਖਾਣ ਵਿਚਲੀ ਖ਼ਾਲੀ ਥਾਂ ਭਰੋ: ਅਕਲ ਦਾ ਅੰਨਾ ਤੇ _____ ਦਾ ਪੂਰਾ

Ans
1. ਰੰਢ
2. ਮਤ
3. ਨਜ਼ਰ
4. ਦਿਮਾਗ

Question ID : **630680248429**
Option 1 ID : **630680963860**
Option 2 ID : **630680963862**
Option 3 ID : **630680963861**
Option 4 ID : **630680963859**
Status : **Answered**
Chosen Option : **3**

Website - www.dailyjobalert.in

Q.24 'ਕੁੜੱਤਣ' ਦਾ ਵਿਰੋਧੀ ਸ਼ਬਦ ਹੈ:

Ans
1. ਜ਼ਹਿਰੀਲਾ
2. ਤਿੱਖਾ
3. ਮਿਠਾਸ
4. ਕੌੜਾ

Question ID : **630680248415**
Option 1 ID : **630680963805**
Option 2 ID : **630680963804**
Option 3 ID : **630680963806**
Option 4 ID : **630680963803**
Status : **Answered**
Chosen Option : **4**

Q.25 ਠੀਕ ਚੁਣੋ:

Ans
1. ਉੱਜਲ- ਉਸਤਾਦ, ਉਪਲਬਧ, ਸ਼ਲਾਘਾ
2. ਉੱਜਲ- ਅਕਲ, ਉਜਾਲਾ, ਮਤ
3. ਉੱਜਲ- ਗਵਾਰ, ਮੂਰਖ, ਅੱਖੜ
4. ਉੱਜਲ- ਸਾਫ਼, ਨਿਰਮਲ, ਸਵੱਛ

Question ID : **630680248411**
Option 1 ID : **630680963788**
Option 2 ID : **630680963790**
Option 3 ID : **630680963787**
Option 4 ID : **630680963789**
Status : **Answered**
Chosen Option : **4**

Q.26 ਅੱਗੇ ਲਿਖੇ ਬਹੁਤੇ ਸ਼ਬਦਾਂ ਲਈ ਇਕ ਸ਼ਬਦ ਚੁਣੋ: ਚਰਖਾ ਕੱਤਣ ਵਾਲੀਆਂ ਕੁੜੀਆਂ ਦਾ ਇਕੱਠ

Ans
1. ਪਿੜ
2. ਥੜ੍ਹਾ
3. ਤਬੇਲਾ
4. ਤ੍ਰਿੰਞਣ

Question ID : **630680248418**
Option 1 ID : **630680963817**
Option 2 ID : **630680963818**
Option 3 ID : **630680963815**
Option 4 ID : **630680963816**
Status : **Answered**
Chosen Option : **4**

Q.27 ਅਖਾਣ ਵਿਚਲੀ ਖ਼ਾਲੀ ਥਾਂ ਭਰੋ: ਗਊ ਪੁੰਨ ਦੀ _____ ਕੌਣ ਗਿਣੇ

Ans
1. ਪੈਰ
2. ਦੰਦ
3. ਖੁਰ
4. ਸਿੰਗ

Question ID : **630680248430**
Option 1 ID : **630680963864**
Option 2 ID : **630680963863**
Option 3 ID : **630680963865**
Option 4 ID : **630680963866**
Status : **Answered**
Chosen Option : **2**

Website - www.dailyjobalert.in

Q.28 'ਤਹਿਜ਼ੀਬ' ਸ਼ਬਦ ਦਾ ਅਰਥ _____ ਹੈ।

Ans
1. ਝਿਜਕ
2. ਅਨੁਭਵ
3. ਸ਼ਿਸ਼ਟਾਚਾਰ
4. ਤਜਰਬਾ

Question ID : **630680248459**
Option 1 ID : **630680963982**
Option 2 ID : **630680963980**
Option 3 ID : **630680963981**
Option 4 ID : **630680963979**
Status : **Answered**
Chosen Option : **3**

Q.29 ਅੱਗੇ ਲਿਖੇ ਬਹੁਤੇ ਸ਼ਬਦਾਂ ਲਈ ਇਕ ਸ਼ਬਦ ਚੁਣੋ: ਸੋਨੇ ਚਾਂਦੀ ਦਾ ਵਪਾਰ ਕਰਨ ਵਾਲਾ

Ans
1. ਵਪਾਰੀ
2. ਲੁਹਾਰ
3. ਸਰਾਫ਼
4. ਵਣਜਾਰਾ

Question ID : **630680248419**
Option 1 ID : **630680963822**
Option 2 ID : **630680963821**
Option 3 ID : **630680963819**
Option 4 ID : **630680963820**
Status : **Answered**
Chosen Option : **1**

Q.30 ਗਊਸ਼ਾਲਾ ਸ਼ਬਦ ਵਿਚ ਕਿਹੜਾ ਪਿਛੇਤਰ ਹੈ:

Ans
1. ਲਾ
2. ਸ਼ਾਲਾ
3. ਲਆ
4. ਊਸ਼ਾਲਾ

Question ID : **630680248441**
Option 1 ID : **630680963909**
Option 2 ID : **630680963907**
Option 3 ID : **630680963910**
Option 4 ID : **630680963908**
Status : **Answered**
Chosen Option : **2**

Q.31 ਕਮਦਿਲ ਸ਼ਬਦ ਵਿਚ ਕਿਹੜਾ ਅਗੇਤਰ ਹੈ:

Ans
1. ਕਮਇ
2. ਕਮਦਿ
3. ਕ
4. ਕਮ

Question ID : **630680248438**
Option 1 ID : **630680963898**
Option 2 ID : **630680963895**
Option 3 ID : **630680963896**
Option 4 ID : **630680963897**
Status : **Answered**
Chosen Option : **4**

Website - www.dailyjobalert.in

Q.32 'ਬਾਂਹ ਭੱਜਣੀ' ਮੁਹਾਵਰੇ ਦਾ ਅਰਥ ਹੈ:

Ans
1. ਬਾਂਹ ਉਤਰ ਜਾਣਾ
2. ਸਰੀਰ ਦਾ ਕੋਈ ਅੰਗ ਨਕਾਰਾ ਹੋ ਜਾਣਾ
3. ਆਸਰਾ ਟੁੱਟ ਜਾਣਾ
4. ਬਾਂਹ ਟੁੱਟ ਜਾਣਾ

Question ID : **630680248425**
Option 1 ID : **630680963846**
Option 2 ID : **630680963844**
Option 3 ID : **630680963845**
Option 4 ID : **630680963843**
Status : **Answered**
Chosen Option : **3**

Q.33 'ਉਪਕਾਰ' ਦਾ ਸਮਾਨਾਰਥਕ ਸ਼ਬਦ ਹੈ:

Ans
1. ਨੇਕੀ
2. ਕਾਰ ਦਾ ਹਿੱਸਾ
3. ਉਪਯੋਗ
4. ਯੋਗ

Question ID : **630680248412**
Option 1 ID : **630680963794**
Option 2 ID : **630680963791**
Option 3 ID : **630680963793**
Option 4 ID : **630680963792**
Status : **Answered**
Chosen Option : **1**

Q.34 ਸ਼ਰਧਾਲੂ ਸ਼ਬਦ ਵਿਚ ਕਿਹੜਾ ਪਿਛੇਤਰ ਹੈ:

Ans
1. ਰਧਆਲੂ
2. ਰਧਾਲੂ
3. ਲੂ
4. ਧਾਲੂ

Question ID : **630680248443**
Option 1 ID : **630680963917**
Option 2 ID : **630680963916**
Option 3 ID : **630680963915**
Option 4 ID : **630680963918**
Status : **Answered**
Chosen Option : **3**

Q.35 Confidential ਸ਼ਬਦ ਦਾ ਪੰਜਾਬੀ ਅਨੁਵਾਦ ਕੀ ਹੈ?

Ans
1. ਸਪਸ਼ਟੀਕਰਨ
2. ਗੁਪਤ
3. ਅਚਾਨਕ
4. ਰੋਜ਼ਨਾਮਚਾ

Question ID : **630680248454**
Option 1 ID : **630680963959**
Option 2 ID : **630680963961**
Option 3 ID : **630680963960**
Option 4 ID : **630680963962**
Status : **Answered**
Chosen Option : **2**

Website - www.dailyjobalert.in

Q.36 ਸਹੀ ਸ਼ਬਦ-ਜੋੜ ਚੁਣੋ:

Ans
- ✗ 1. ਕਰਾਯ
- ✓ 2. ਕਾਰਜ
- ✗ 3. ਕਾਰਜ਼ਿ
- ✗ 4. ਕਾਰਾਜ਼

Question ID : **630680248445**
Option 1 ID : **630680963923**
Option 2 ID : **630680963926**
Option 3 ID : **630680963925**
Option 4 ID : **630680963924**
Status : **Answered**
Chosen Option : **2**

Q.37 'ਵਸਤੂ' ਦਾ ਵਚਨ ਬਦਲੋ:

Ans
- ✓ 1. ਵਸਤੂਆਂ
- ✗ 2. ਵਸਤਵਾਂ
- ✗ 3. ਚੀਜ਼ਾਂ
- ✗ 4. ਵਸਤਾਂ

Question ID : **630680248436**
Option 1 ID : **630680963887**
Option 2 ID : **630680963890**
Option 3 ID : **630680963889**
Option 4 ID : **630680963888**
Status : **Answered**
Chosen Option : **1**

Q.38 ਅੱਸੂ ਸਾਲ ਦਾ _____ ਮਹੀਨਾ ਹੁੰਦਾ ਹੈ।

Ans
- ✓ 1. ਸੱਤਵਾਂ
- ✗ 2. ਪੰਜਵਾਂ
- ✗ 3. ਛੇਵਾਂ
- ✗ 4. ਅੱਠਵਾਂ

Question ID : **630680248458**
Option 1 ID : **630680963975**
Option 2 ID : **630680963978**
Option 3 ID : **630680963977**
Option 4 ID : **630680963976**
Status : **Answered**
Chosen Option : **1**

Q.39 68 ਨੂੰ ਪੰਜਾਬੀ ਵਿਚ ਲਿਖੋ।

Ans
- ✗ 1. ਉਣ੍ਹੱਤਰ
- ✗ 2. ਪੰਚਾਸੀ
- ✗ 3. ਪਝੱਤਰ
- ✓ 4. ਅਠਾਹਠ

Question ID : **630680248456**
Option 1 ID : **630680963969**
Option 2 ID : **630680963967**
Option 3 ID : **630680963968**
Option 4 ID : **630680963970**
Status : **Answered**
Chosen Option : **4**

DAILY JOB Alert ਪੰਜਾਬ
Website - www.dailyjobalert.in

Q.40 'ਧੀ' ਸ਼ਬਦ ਦਾ ਵਚਨ ਬਦਲੋ:

Ans
✔ 1. ਧੀਆਂ
✘ 2. ਧੀਰਾਣੀਆਂ
✘ 3. ਧੀਏ
✘ 4. ਧੀਓ

Question ID : **630680248435**
Option 1 ID : **630680963886**
Option 2 ID : **630680963885**
Option 3 ID : **630680963883**
Option 4 ID : **630680963884**
Status : **Answered**
Chosen Option : **1**

Q.41 ਹੇਠ ਲਿਖਿਆਂ ਵਿੱਚੋਂ ਕਿਸ ਵਾਕ ਵਿਚ ਵਿਸਰਾਮ ਚਿੰਨ੍ਹਾਂ ਦੀ ਠੀਕ ਵਰਤੋਂ ਹੋਈ ਹੈ?

Ans
✘ 1. ਮਾਰ 'ਘਤਿਆ ਓਏ?
✘ 2. ਮਾਰ, ਘਤਿਆ! ਓਏ :-
✔ 3. ਮਾਰ ਘਤਿਆ ਓਏ!
✘ 4. "ਮਾਰ ਘਤਿਆ!" ਓਏ।

Question ID : **630680248452**
Option 1 ID : **630680963951**
Option 2 ID : **630680963952**
Option 3 ID : **630680963953**
Option 4 ID : **630680963954**
Status : **Answered**
Chosen Option : **2**

Q.42 ਚੁਗਲਖੋਰ ਸ਼ਬਦ ਵਿਚ ਕਿਹੜਾ ਪਿਛੇਤਰ ਹੈ:

Ans
✘ 1. ਲਖੋਰ
✔ 2. ਖੋਰ
✘ 3. ਖੋਰ
✘ 4. ਰ

Question ID : **630680248442**
Option 1 ID : **630680963912**
Option 2 ID : **630680963913**
Option 3 ID : **630680963911**
Option 4 ID : **630680963914**
Status : **Answered**
Chosen Option : **2**

Q.43 'ਸਲੇਟ' ਸ਼ਬਦ ਦਾ ਵਚਨ ਬਦਲੋ:

Ans
✘ 1. ਸਲੇਟੀ
✔ 2. ਸਲੇਟਾਂ
✘ 3. ਸਲੇਟੀਆਂ
✘ 4. ਸਲੇਟਣ

Question ID : **630680248434**
Option 1 ID : **630680963882**
Option 2 ID : **630680963880**
Option 3 ID : **630680963881**
Option 4 ID : **630680963879**
Status : **Answered**
Chosen Option : **2**

Website - www.dailyjobalert.in

Q.44 ਸੁਚਿੱਤਰ ਸ਼ਬਦ ਵਿਚ ਕਿਹੜਾ ਅਗੇਤਰ ਹੈ:

Ans
1. ਸੁਚਿੱਤ
2. ਸੁਇ
3. ਸੁਚਿ
4. ਸੁ

Question ID : **630680248437**
Option 1 ID : **630680963893**
Option 2 ID : **630680963894**
Option 3 ID : **630680963891**
Option 4 ID : **630680963892**
Status : **Answered**
Chosen Option : **4**

Q.45 'ਮੈਂ' ਦਾ ਵਚਨ ਬਦਲੋ:

Ans
1. ਮੈਨੂੰ
2. ਮੇਰੀ
3. ਅਸੀਂ
4. ਤੁਸੀਂ

Question ID : **630680248433**
Option 1 ID : **630680963878**
Option 2 ID : **630680963876**
Option 3 ID : **630680963877**
Option 4 ID : **630680963875**
Status : **Answered**
Chosen Option : **3**

Q.46 'ਨਵਾਬ' ਸ਼ਬਦ ਦਾ ਲਿੰਗ ਬਦਲੋ:

Ans
1. ਬੇਗਮ
2. ਨਵਾਬਜਾਦੀ
3. ਨਵਾਬਰਾਣੀ
4. ਨਵਾਬੀ

Question ID : **630680248432**
Option 1 ID : **630680963873**
Option 2 ID : **630680963872**
Option 3 ID : **630680963871**
Option 4 ID : **630680963874**
Status : **Answered**
Chosen Option : **1**

Q.47 'ਉੱਲੂ ਸਿੱਧਾ ਕਰਨਾ' ਮੁਹਾਵਰੇ ਦਾ ਅਰਥ ਹੈ:

Ans
1. ਉੱਲੂ ਨੂੰ ਮਾਰਨਾ
2. ਮਤਲਬ ਕੱਢਣਾ
3. ਵਿਗੜਿਆਂ ਨੂੰ ਸਿੱਧਾ ਕਰਨਾ
4. ਨਿਰਾਦਰ ਕਰਨਾ

Question ID : **630680248422**
Option 1 ID : **630680963832**
Option 2 ID : **630680963831**
Option 3 ID : **630680963833**
Option 4 ID : **630680963834**
Status : **Answered**
Chosen Option : **2**

Website - www.dailyjobalert.in

Q.48 99 ਨੂੰ ਪੰਜਾਬੀ ਵਿਚ ਲਿਖੋ।

Ans
- ✗ 1. ਉਣਾਨਵੇਂ
- ✗ 2. ਉਣਾਹਠ
- ✗ 3. ਅਠਾਨਵੇਂ
- ✓ 4. ਨੜਿਨਵੇਂ

Question ID : **630680248455**
Option 1 ID : **630680963963**
Option 2 ID : **630680963966**
Option 3 ID : **630680963965**
Option 4 ID : **630680963964**
Status : **Answered**
Chosen Option : **4**

Q.49 ਹੇਠ ਲਿਖਿਆਂ ਵਿੱਚੋਂ ਕਿਸ ਵਾਕ ਵਿਚ ਵਿਸਰਾਮ ਚਿੰਨ੍ਹਾਂ ਦੀ ਠੀਕ ਵਰਤੋਂ ਹੋਈ ਹੈ?

Ans
- ✗ 1. ਸਾਡੀ! ਰਹਾਇਸ਼ ਖੇਤ 'ਚ' ਹੀ ਹੈ?
- ✓ 2. ਸਾਡੀ ਰਹਾਇਸ਼ ਖੇਤ 'ਚ ਹੀ ਹੈ।
- ✗ 3. ਸਾਡੀ ਰਹਾਇਸ਼, ਖੇਤ ਚ ਹੀ ਹੈ!
- ✗ 4. ਸਾਡੀ ਰਹਾਇਸ਼! ਖੇਤ 'ਚ ਹੀ ਹੈ;

Question ID : **630680248451**
Option 1 ID : **630680963947**
Option 2 ID : **630680963950**
Option 3 ID : **630680963948**
Option 4 ID : **630680963949**
Status : **Answered**
Chosen Option : **2**

Q.50 'ਚੜ੍ਹਾਈ' ਦਾ ਵਿਰੋਧੀ ਸ਼ਬਦ ਹੈ:

Ans
- ✗ 1. ਲੰਬਾਈ
- ✗ 2. ਉੱਚਾ
- ✓ 3. ਉਤਰਾਈ
- ✗ 4. ਚੜ੍ਹਾਉਣਾ

Question ID : **630680248414**
Option 1 ID : **630680963799**
Option 2 ID : **630680963801**
Option 3 ID : **630680963802**
Option 4 ID : **630680963800**
Status : **Answered**
Chosen Option : **1**

DAILY JOB Alert ਪੰਜਾਬ

PUNJAB POLICE

Police to its last particle is duty

Exam Name	Recruitment for the post of Sub Inspector in Cadres of District and Armed Police 20th Jun to 31st Jul 2023 Paper I
Application No	www.dailyjobalert.in
Roll No	Telegram - Daily Job Alert Punjab
Applicant Name	instagram - Daily Job Alert Punjab
Exam Date	09/07/2023
Shift	9:00 AM - 11:00 AM
Subject	Sub Inspector Paper I

Section : **General Awareness**

Q.1 The oldest music festival of India (as declared by the Limca Book of Records) is held at which of the following places?

Ans

✗ 1. Qila Mubarak, Bathinda

✗ 2. Sheesh Mahal, Patiala

✗ 3. Bhaini Sahib Gurudwara, Ludhiana

✓ 4. Devi Talab Mandir, Jalandhar

Question ID : **630680238440**
Option 1 ID : **630680924778**
Option 2 ID : **630680924777**
Option 3 ID : **630680924776**
Option 4 ID : **630680924779**
Status : **Answered**
Chosen Option : **1**

Q.2 **In India, Citizenship is a subject under the _____.**

Ans

✓ 1. union list

✗ 2. federal list

✗ 3. concurrent list

✗ 4. state list

Question ID : **630680100461**
Option 1 ID : **630680390542**
Option 2 ID : **630680390540**
Option 3 ID : **630680390541**
Option 4 ID : **630680390543**
Status : **Answered**
Chosen Option : **1**

Website - www.dailyjobalert.in

Q.3 Param Veer Chakra recipient Gurbachan Singh served which of the following regiments of the Indian army?

Ans

✗ 1. Sikh Regiment

✗ 2. Rajput Regiment

✗ 3. The Garhwal Rifles

✓ 4. Gorkha Rifles

Question ID : **630680238496**
Option 1 ID : **630680925002**
Option 2 ID : **630680925001**
Option 3 ID : **630680925003**
Option 4 ID : **630680925000**
Status : **Answered**
Chosen Option : **1**

Q.4 **Bodo is a language primarily spoken in which of the following Indian States?**

Ans

✗ 1. Goa

✓ 2. Assam

✗ 3. Jharkhand

✗ 4. Chhattisgarh

Question ID : **63068081539**
Option 1 ID : **630680316188**
Option 2 ID : **630680316191**
Option 3 ID : **630680316190**
Option 4 ID : **630680316189**
Status : **Answered**
Chosen Option : **2**

Q.5 The Upanishads of Hinduism say, 'Vasudhaiva Kutumbakam', which means _____.

Ans

✓ 1. the world is one family

✗ 2. entire India is one family

✗ 3. all Hindus are one family

✗ 4. all those who believe in Lord Vishnu are one family

Question ID : **630680238321**
Option 1 ID : **630680924301**
Option 2 ID : **630680924302**
Option 3 ID : **630680924300**
Option 4 ID : **630680924303**
Status : **Answered**
Chosen Option : **1**

Website - www.dailyjobalert.in

Q.6 Where is India's first snowdome located?

Ans
✔ 1. Vidarbha
✘ 2. Nashik
✘ 3. Ahmedabad
✘ 4. Nagpur

Question ID : **63068078600**
Option 1 ID : **630680304450**
Option 2 ID : **630680304452**
Option 3 ID : **630680304451**
Option 4 ID : **630680304449**
Status : **Answered**
Chosen Option : **3**

Q.7 Which of the following Articles of the Constitution of India deals with the State Executive?

Ans
✘ 1. Articles 125 to 139
✘ 2. Articles 105 to 124
✔ 3. Articles 153 to 167
✘ 4. Articles 140 to 152

Question ID : **63068099221**
Option 1 ID : **630680385589**
Option 2 ID : **630680385588**
Option 3 ID : **630680385591**
Option 4 ID : **630680385590**
Status : **Answered**
Chosen Option : **1**

Q.8 Which of the following states is the only Indian state to win an award for Inspiring Regional Leadership Award from Under2 Coalition for Climate Action?

Ans
✘ 1. Mizoram
✔ 2. Maharashtra
✘ 3. Uttar Pradesh
✘ 4. Rajasthan

Question ID : **63068099728**
Option 1 ID : **630680387611**
Option 2 ID : **630680387610**
Option 3 ID : **630680387609**
Option 4 ID : **630680387608**
Status : **Answered**
Chosen Option : **2**

Website - www.dailyjobalert.in

Q.9 **Consider the following statements:**
1.Every Year, the National Science Day is celebrated on 27 February.
2.The Department of Science and Technology acts as a nodal agency and co-ordinates celebration of the National Science Day.
3.Theme of the National Science Day 2022 was 'Integrated Approach in S&T for Sustainable Future'.
4.The main purpose to set this theme of the NSD 2022 was to raise public appreciation of the scientific issues involved and this kind of celebrations need to be built up on a regular basis.
Which of the statements given above is/are correct?

Ans
✗ 1. Only 1, 2 and 3
✗ 2. Only 2 and 4
✗ 3. Only 1
✓ 4. Only 2, 3 and 4

Question ID : **630680117227**
Option 1 ID : **630680454194**
Option 2 ID : **630680454195**
Option 3 ID : **630680454196**
Option 4 ID : **630680454197**
Status : **Answered**
Chosen Option : **4**

Q.10 **Who among the following was the Chairman of the Committee on Restructuring of DRDA (District Rural Development Agency)?**

Ans
✗ 1. Lalit Mathur
✓ 2. V Ramachandran
✗ 3. Rajwant Sandhu
✗ 4. Mani Shankar Aiyar

Question ID : **63068052973**
Option 1 ID : **630680203994**
Option 2 ID : **630680203995**
Option 3 ID : **630680203996**
Option 4 ID : **630680203997**
Status : **Not Answered**
Chosen Option : **--**

Q.11 **Who is considered as the Adi Guru of Kuchipudi Dance?**

Ans
✗ 1. Rukmini Devi Arundale
✗ 2. Mallika Sarabhai
✗ 3. Shovana Narayanan
✓ 4. Siddhendra Yogi

Question ID : **63068069555**
Option 1 ID : **630680268889**
Option 2 ID : **630680268886**
Option 3 ID : **630680268888**
Option 4 ID : **630680268887**
Status : **Not Answered**
Chosen Option : **--**

Website - www.dailyjobalert.in

Q.12 **In which of the following institutions was the Centre for Research and Innovation in Artificial Intelligence (AI) inaugurated in August 2021?**

Ans
- ✗ 1. Indian Institute of Science, Bengaluru
- ✗ 2. Indian Institute of Technology, Kanpur
- ✓ 3. Indian Institute of Technology, Hyderabad
- ✗ 4. C-DAC, Pune

Question ID : **63068091140**
Option 1 ID : **630680353316**
Option 2 ID : **630680353315**
Option 3 ID : **630680353314**
Option 4 ID : **630680353317**
Status : **Answered**
Chosen Option : **4**

Q.13 Who was the Governor General of India when Punjab was merged into British Empire after the 2nd Anglo-Sikh War?

Ans
- ✗ 1. Lord Mayo
- ✗ 2. Lord Acton
- ✗ 3. Lord Hardinge
- ✓ 4. Lord Dalhousie

Question ID : **630680238413**
Option 1 ID : **630680924670**
Option 2 ID : **630680924671**
Option 3 ID : **630680924668**
Option 4 ID : **630680924669**
Status : **Answered**
Chosen Option : **4**

Q.14 **In India, organisations like _____ facilitate institutions which come under the health sector.**

Ans
- ✗ 1. AICTE
- ✓ 2. ICMR
- ✗ 3. NCERT
- ✗ 4. UGC

Question ID : **63068056696**
Option 1 ID : **630680218719**
Option 2 ID : **630680218718**
Option 3 ID : **630680218721**
Option 4 ID : **630680218720**
Status : **Answered**
Chosen Option : **2**

Website - www.dailyjobalert.in

Q.15 When did the term environmental refugee become popular?

Ans
✗ 1. After the Kyoto protocol
✗ 2. After the Chipko movement
✗ 3. After the Montreal protocol
✓ 4. After the African drought

Question ID : **63068049668**
Option 1 ID : **630680191104**
Option 2 ID : **630680191102**
Option 3 ID : **630680191105**
Option 4 ID : **630680191103**
Status : **Answered**
Chosen Option : **2**

Q.16 Which of the following river systems does NOT originate from the Himalayan and Trans- Himalayan regions?

Ans
✗ 1. The Brahmaputra System
✓ 2. The Narmada System
✗ 3. The Indus System
✗ 4. The Ganga System

Question ID : **63068053176**
Option 1 ID : **630680204807**
Option 2 ID : **630680204808**
Option 3 ID : **630680204809**
Option 4 ID : **630680204806**
Status : **Answered**
Chosen Option : **2**

Q.17 Environmentalist Kamala Pujari belongs to which of the following states?

Ans
✗ 1. Tamil Nadu
✗ 2. Kerala
✗ 3. Assam
✓ 4. Odisha

Question ID : **63068048112**
Option 1 ID : **630680185113**
Option 2 ID : **630680185112**
Option 3 ID : **630680185110**
Option 4 ID : **630680185111**
Status : **Not Answered**
Chosen Option : **--**

Website - www.dailyjobalert.in

Q.18 **The text _____refers to the Mauryan king, Bindusara as 'Amitraghata', which literary means 'a slayer of enemies'.**

Ans
- ✗ 1. The Indica
- ✓ 2. The Mahabhashya
- ✗ 3. The Mudrarakshasa
- ✗ 4. The Arthshashtra

Question ID : **63068069629**
Option 1 ID : **630680269184**
Option 2 ID : **630680269182**
Option 3 ID : **630680269185**
Option 4 ID : **630680269183**
Status : **Answered**
Chosen Option : **3**

Q.19 Jagatjit Palace has been modelled on the lines of which of the following palaces?

Ans
- ✗ 1. Birmingham Palace, Birmingham
- ✗ 2. Royal Palace, Madrid
- ✗ 3. Alahmbra Palace, Granada
- ✓ 4. Palace of Versailles, Paris

Question ID : **630680238459**
Option 1 ID : **630680924853**
Option 2 ID : **630680924852**
Option 3 ID : **630680924854**
Option 4 ID : **630680924855**
Status : **Answered**
Chosen Option : **1**

Q.20 **Which of the following Indian institutes has been selected as the Secretariat of Science 20 Group of the G20 Summit?**

Ans
- ✓ 1. IISc Bengaluru
- ✗ 2. IIT Bombay
- ✗ 3. IIT Madras
- ✗ 4. Madras Institute of Technology

Question ID : **630680191794**
Option 1 ID : **630680743784**
Option 2 ID : **630680743781**
Option 3 ID : **630680743783**
Option 4 ID : **630680743782**
Status : **Answered**
Chosen Option : **3**

Website - www.dailyjobalert.in

Q.21 The Bahadurgarh Fort located on the out skirts of Patiala city was constructed by _____.

Ans
- ✗ 1. Mohammad Khan Kamboh
- ✗ 2. Mughlani Begum
- ✓ 3. Nawab Saif Khan
- ✗ 4. Ahmad Sirhindi

Question ID : **630680238455**
Option 1 ID : **630680924838**
Option 2 ID : **630680924837**
Option 3 ID : **630680924836**
Option 4 ID : **630680924839**
Status : **Not Answered**
Chosen Option : **--**

Q.22 What is the name of the digital portal of the Union government of India to generate digital certificates of vaccination?

Ans
- ✓ 1. CoWIN
- ✗ 2. Covishield
- ✗ 3. COVID-19
- ✗ 4. Covaxin

Question ID : **630680111948**
Option 1 ID : **630680433521**
Option 2 ID : **630680433518**
Option 3 ID : **630680433519**
Option 4 ID : **630680433520**
Status : **Answered**
Chosen Option : **1**

Q.23 Which country has erected the statue of Bitcoin founder Satoshi Nakamoto, which is the first such statue throughout the world?

Ans
- ✓ 1. Hungary
- ✗ 2. Bolivia
- ✗ 3. Canada
- ✗ 4. El Salvador

Question ID : **63068068652**
Option 1 ID : **630680265301**
Option 2 ID : **630680265300**
Option 3 ID : **630680265298**
Option 4 ID : **630680265299**
Status : **Answered**
Chosen Option : **2**

DAILY JOB Alert ਪੰਜਾਬ

Q.24 The Kahaum pillar inscription was related with which of the following Gupta rulers?

Ans
✔ 1. Skandagupta
✘ 2. Samudragupta
✘ 3. Devagupta II
✘ 4. Kumaragupta

Question ID : **63068084314**
Option 1 ID : **630680326809**
Option 2 ID : **630680326810**
Option 3 ID : **630680326811**
Option 4 ID : **630680326808**
Status : **Not Answered**
Chosen Option : **--**

Q.25 Which of the following instruments is based on traditional 'Taus' and was invented by Guru Gobind Singh Ji?

Ans
✔ 1. Dilruba
✘ 2. Tumbi
✘ 3. Bugchu
✘ 4. Algoze

Question ID : **630680238432**
Option 1 ID : **630680924746**
Option 2 ID : **630680924747**
Option 3 ID : **630680924745**
Option 4 ID : **630680924744**
Status : **Answered**
Chosen Option : **1**

Q.26 Identify the language that belongs to the Assam Myanmari language group of the Sino-Tibetan language family from the following options.

Ans
✔ 1. Kuki-Chin
✘ 2. Aka
✘ 3. Konkani
✘ 4. Lepcha

Question ID : **630680115738**
Option 1 ID : **630680448292**
Option 2 ID : **630680448291**
Option 3 ID : **630680448293**
Option 4 ID : **630680448290**
Status : **Answered**
Chosen Option : **1**

Website - www.dailyjobalert.in

Q.27 **Who among the following architects has been awarded the Baburao Mhatre Gold Medal for the year 2020, for his outstanding contribution to the profession and Indian architecture?**

Ans
- ✗ 1. BV Doshi
- ✓ 2. S Gopakumar
- ✗ 3. Brinda Somaya
- ✗ 4. Achyut Kanvinde

Question ID : **630680138997**
Option 1 ID : **630680538101**
Option 2 ID : **630680538098**
Option 3 ID : **630680538099**
Option 4 ID : **630680538100**
Status : **Answered**
Chosen Option : **2**

Q.28 In which of the following dances of Punjab people use swords, sticks, and daggers?

Ans
- ✗ 1. Sammi
- ✓ 2. Gatka
- ✗ 3. Kikli
- ✗ 4. Gidhha

Question ID : **630680238547**
Option 1 ID : **630680925204**
Option 2 ID : **630680925207**
Option 3 ID : **630680925206**
Option 4 ID : **630680925205**
Status : **Answered**
Chosen Option : **2**

Q.29 **The National Forest Policy (1952) classified the forests in India into four categories. Which of the following is NOT among them?**

Ans
- ✗ 1. Village Forests
- ✓ 2. Classified Forests
- ✗ 3. National Forests
- ✗ 4. Protected Forests

Question ID : **63068049558**
Option 1 ID : **630680190665**
Option 2 ID : **630680190663**
Option 3 ID : **630680190662**
Option 4 ID : **630680190664**
Status : **Answered**
Chosen Option : **1**

Website - www.dailyjobalert.in

Q.30 **Indira Gandhi, the then Prime Minister of India, officially recorded the impressive strides of Green Revolution in agriculture by releasing a special stamp entitled _____.**

Ans
- ✗ 1. 'Rice Revolution' in July 1968
- ✗ 2. 'Rice Revolution' in July 1970
- ✗ 3. 'Wheat Revolution' in July 1970
- ✓ 4. 'Wheat Revolution' in July 1968

Question ID : **63068056649**
Option 1 ID : **630680218531**
Option 2 ID : **630680218533**
Option 3 ID : **630680218532**
Option 4 ID : **630680218530**
Status : **Not Answered**
Chosen Option : **--**

Q.31 **The concept of the Concurrent List in the Constitution of India is borrowed from the:**

Ans
- ✓ 1. Constitution of Australia
- ✗ 2. Constitution of Japan
- ✗ 3. Constitution of South Africa
- ✗ 4. Constitution of the United States

Question ID : **630680160043**
Option 1 ID : **630680619556**
Option 2 ID : **630680619559**
Option 3 ID : **630680619558**
Option 4 ID : **630680619557**
Status : **Answered**
Chosen Option : **3**

Q.32 Who was the Chief Minister of Punjab state during the Indo-Pakistani War of 1965?

Ans
- ✗ 1. Partap Singh Kairon
- ✗ 2. Bhim Sen Sachar
- ✓ 3. Ram Kishan
- ✗ 4. Gopi Chand Bhargava

Question ID : **630680238500**
Option 1 ID : **630680925017**
Option 2 ID : **630680925016**
Option 3 ID : **630680925019**
Option 4 ID : **630680925018**
Status : **Answered**
Chosen Option : **1**

DAILY JOB Alert ਪੰਜਾਬ

Q.33 Which of the following battles was NOT fought during the 2nd Anglo-Sikh War?

Ans

✗ 1. Battle of Gujarat

✗ 2. Battle of Ramnagar

✓ 3. Battle of Mudki

✗ 4. Battle of Sadulapur

Question ID : **630680238405**
Option 1 ID : **630680924639**
Option 2 ID : **630680924636**
Option 3 ID : **630680924638**
Option 4 ID : **630680924637**
Status : **Answered**
Chosen Option : **3**

Q.34 Under which of the following Charter Acts did the monopoly of the East India Company on tea trade in India and trade with China end?

Ans

✗ 1. 1793

✓ 2. 1833

✗ 3. 1853

✗ 4. 1813

Question ID : **630680160030**
Option 1 ID : **630680619504**
Option 2 ID : **630680619506**
Option 3 ID : **630680619507**
Option 4 ID : **630680619505**
Status : **Answered**
Chosen Option : **4**

Q.35 Which of the following branches of ethics refers to empirical investigation of people's moral beliefs on the basis of law and customs?

Ans

✗ 1. Teleological ethics

✗ 2. Deontological ethics

✓ 3. Descriptive ethics

✗ 4. Normative ethics

Question ID : **630680238348**
Option 1 ID : **630680924411**
Option 2 ID : **630680924410**
Option 3 ID : **630680924408**
Option 4 ID : **630680924409**
Status : **Answered**
Chosen Option : **4**

Website - www.dailyjobalert.in

Q.36 In which crop the productivity impact of high yielding variety is high during Green Revolution?

Ans
✔ 1. Wheat
✘ 2. Jute
✘ 3. Jowar
✘ 4. Maize

Question ID : **63068054209**
Option 1 ID : **630680208881**
Option 2 ID : **630680208878**
Option 3 ID : **630680208880**
Option 4 ID : **630680208879**
Status : **Answered**
Chosen Option : **1**

Q.37 According to the Puranic story, which of the following deities is the basis of the Mohiniyattam Dance?

Ans
✘ 1. Lord Krishna
✘ 2. Lord Shiva
✔ 3. Lord Vishnu
✘ 4. Lord Brahma

Question ID : **630680119741**
Option 1 ID : **630680464042**
Option 2 ID : **630680464043**
Option 3 ID : **630680464044**
Option 4 ID : **630680464045**
Status : **Not Answered**
Chosen Option : **--**

Q.38 In which year was the first women's university in India founded, in Bombay?

Ans
✘ 1. 1895
✘ 2. 1904
✔ 3. 1916
✘ 4. 1899

Question ID : **630680164888**
Option 1 ID : **630680638635**
Option 2 ID : **630680638632**
Option 3 ID : **630680638633**
Option 4 ID : **630680638634**
Status : **Not Answered**
Chosen Option : **--**

Website - www.dailyjobalert.in

Q.39 **The size of the Legislative Council must be no less than _____ and no more than one-third of the total membership of the Legislative Assembly as per Article 171 of the Indian Constitution.**

Ans
✔ 1. 40
✘ 2. 41
✘ 3. 43
✘ 4. 42

Question ID : **630680114558**
Option 1 ID : **630680443598**
Option 2 ID : **630680443599**
Option 3 ID : **630680443601**
Option 4 ID : **630680443600**
Status : **Answered**
Chosen Option : **1**

Q.40 Which of the following chief ministers of Punjab declared Lord Krishna Balram Jagannath Rath Yatra as an annual state festival?

Ans
✘ 1. Amarinder Singh
✘ 2. Parkash Singh Badal
✔ 3. Charanjit Singh Channi
✘ 4. Bhagwant Mann

Question ID : **630680238522**
Option 1 ID : **630680925106**
Option 2 ID : **630680925107**
Option 3 ID : **630680925105**
Option 4 ID : **630680925104**
Status : **Answered**
Chosen Option : **3**

Q.41 **In 2021, how many children were awarded the Pradhan Mantri Rashtriya Bal Puraskar?**

Ans
✘ 1. 56
✘ 2. 43
✘ 3. 24
✔ 4. 32

Question ID : **63068074735**
Option 1 ID : **630680289097**
Option 2 ID : **630680289098**
Option 3 ID : **630680289096**
Option 4 ID : **630680289095**
Status : **Not Answered**
Chosen Option : **--**

Website - www.dailyjobalert.in

Q.42 **In India, the _____ has the power to summon and prorogue either House of Parliament.**

Ans
✔ 1. President
✘ 2. Speaker
✘ 3. Vice-President
✘ 4. Prime Minister

Question ID : **63068099120**
Option 1 ID : **630680385186**
Option 2 ID : **630680385187**
Option 3 ID : **630680385184**
Option 4 ID : **630680385185**
Status : **Answered**
Chosen Option : **1**

Q.43 **Which of the following employment related scheme of India was launched on 2nd October, 1993?**

Ans
✔ 1. PMRY
✘ 2. NRLM
✘ 3. IRDP
✘ 4. MGNREGA

Question ID : **63068068711**
Option 1 ID : **630680265534**
Option 2 ID : **630680265536**
Option 3 ID : **630680265537**
Option 4 ID : **630680265535**
Status : **Answered**
Chosen Option : **3**

Q.44 Under the 'Bebe Nanki Laadli Beti Kalyan' scheme by the Government of Punjab, what amount is provided upon the birth of a girl child?

Ans
✘ 1. ₹11,000
✘ 2. ₹35,000
✔ 3. ₹20,000
✘ 4. ₹21,000

Question ID : **630680238392**
Option 1 ID : **630680924585**
Option 2 ID : **630680924587**
Option 3 ID : **630680924584**
Option 4 ID : **630680924586**
Status : **Answered**
Chosen Option : **4**

Website - www.dailyjobalert.in

Q.45 Under which ministry does the Swami Vivekananda National Institute of Rehabilitation Training And Research (SVNIRTAR) function?

Ans

✗ 1. Ministry of Tribal Affairs

✓ 2. Ministry of Social Justice and Empowerment

✗ 3. Ministry of Home Affairs

✗ 4. Ministry of Education

Question ID : **630680238377**
Option 1 ID : **630680924526**
Option 2 ID : **630680924527**
Option 3 ID : **630680924525**
Option 4 ID : **630680924524**
Status : **Not Answered**
Chosen Option : **--**

Q.46 Which country is separated from India by the Gulf of Mannar?

Ans

✗ 1. Myanmar

✗ 2. China

✓ 3. Sri Lanka

✗ 4. Afghanistan

Question ID : **630680112005**
Option 1 ID : **630680433748**
Option 2 ID : **630680433749**
Option 3 ID : **630680433746**
Option 4 ID : **630680433747**
Status : **Answered**
Chosen Option : **1**

Q.47 The Sardar Sarovar Project has been constructed on which of the following rivers?

Ans

✗ 1. Godavari

✗ 2. Subarnarekha

✓ 3. Narmada

✗ 4. Mahanadi

Question ID : **63068049556**
Option 1 ID : **630680190655**
Option 2 ID : **630680190656**
Option 3 ID : **630680190654**
Option 4 ID : **630680190657**
Status : **Answered**
Chosen Option : **3**

Website - www.dailyjobalert.in

Q.48 Who among the following social reformers was one of the founders of the Hindu College in Calcutta?

Ans
✗ 1. Keshub Chandra Sen
✗ 2. Alexander Duff
✗ 3. Prasanna Kumar Tagore
✓ 4. Raja Ram Mohan Roy

Question ID : **630680146031**
Option 1 ID : **630680565023**
Option 2 ID : **630680565022**
Option 3 ID : **630680565025**
Option 4 ID : **630680565024**
Status : **Answered**
Chosen Option : **4**

Q.49 Ravi Kumar Dahiya was honoured with Major Dhyan Chand Khel Ratna Award 2021 in November 2021. Which sports he is related to?

Ans
✗ 1. Hockey
✗ 2. Badminton
✓ 3. Wrestling
✗ 4. Para Shooting

Question ID : **63068061964**
Option 1 ID : **630680239174**
Option 2 ID : **630680239175**
Option 3 ID : **630680239176**
Option 4 ID : **630680239177**
Status : **Answered**
Chosen Option : **1**

Q.50 Which of the following countries won its maiden Men's T20 World Cup 2021 title?

Ans
✓ 1. Australia
✗ 2. Scotland
✗ 3. New Zealand
✗ 4. Namibia

Question ID : **63068058419**
Option 1 ID : **630680225371**
Option 2 ID : **630680225372**
Option 3 ID : **630680225370**
Option 4 ID : **630680225373**
Status : **Answered**
Chosen Option : **1**

Section : **Quantitative Aptitude and Numerical Skills**

Website - www.dailyjobalert.in

Q.51 **The median of observations 10, 12, 24, 28, x + 5, x + 9, 45, 47, 52, (x + 22) arranged in ascending order is 42. The value of the last observation of the data is:**

Ans

✗ 1. 64

✗ 2. 60

✗ 3. 53

✓ 4. 57

Question ID : **630680151939**
Option 1 ID : **630680587800**
Option 2 ID : **630680587801**
Option 3 ID : **630680587802**
Option 4 ID : **630680587803**
Status : **Answered**
Chosen Option : **4**

Q.52 **Simplify the following expression:**
[71 – 14 ÷ 2 of 7] - [6 ÷ 6 of 6 + 6 ÷ 6 x 6] + (6 + 6) – 6 of 6 + 6x (6 x 8) ÷6 - (0.35 x 0.35 + 0.65 x 0.65 + 0.7 x 0.65).

Ans

✓ 1. $\frac{521}{6}$

✗ 2. $\frac{420}{6}$

✗ 3. $\frac{421}{6}$

✗ 4. $\frac{520}{6}$

Question ID : **630680116121**
Option 1 ID : **630680449817**
Option 2 ID : **630680449815**
Option 3 ID : **630680449814**
Option 4 ID : **630680449816**
Status : **Not Answered**
Chosen Option : **--**

Q.53 **If pipe A can fill a cistern in 10 min, pipe B can fill the same cistern in 15 min, and pipe C can empty the full cistern in 18 min, then find the time taken to completely fill the cistern, if pipes A, B and C are opened together.**

Ans

✗ 1. 8 min

✓ 2. 9 min

✗ 3. 12 min

✗ 4. 6 min

Question ID : **630680206371**
Option 1 ID : **630680800260**
Option 2 ID : **630680800261**
Option 3 ID : **630680800262**
Option 4 ID : **630680800259**
Status : **Answered**
Chosen Option : **2**

Website - www.dailyjobalert.in

Q.54 **A triangle whose two sides and two angles are equal, and altitude drawn on non-equal side bisect, is called a/an:**

Ans
✔ 1. isosceles triangle
✘ 2. scalene triangle
✘ 3. equilateral triangle
✘ 4. right angled triangle

Question ID : **63068067756**
Option 1 ID : **630680261832**
Option 2 ID : **630680261833**
Option 3 ID : **630680261830**
Option 4 ID : **630680261831**
Status : **Answered**
Chosen Option : **1**

Q.55 **A covers 5 km from home to office in 15 minutes and from office to home in 20 minutes. What is his speed (in km/h) during the complete round?**

Ans
✘ 1. 17.41
✔ 2. 17.14
✘ 3. 14.71
✘ 4. 14.17

Question ID : **63068094963**
Option 1 ID : **630680368548**
Option 2 ID : **630680368550**
Option 3 ID : **630680368547**
Option 4 ID : **630680368549**
Status : **Answered**
Chosen Option : **1**

Q.56 What is the fraction equal to $7.58\overline{3}$?

Ans
✘ 1. $\frac{75}{83}$
✘ 2. $\frac{58}{3}$
✔ 3. $\frac{91}{12}$
✘ 4. $\frac{12}{91}$

Question ID : **63068079547**
Option 1 ID : **630680308226**
Option 2 ID : **630680308227**
Option 3 ID : **630680308225**
Option 4 ID : **630680308228**
Status : **Answered**
Chosen Option : **4**

Website - www.dailyjobalert.in

Q.57 **If P is 43% greater than R and Q is 30% greater than R, then by what percentage is P greater than Q?**

Ans

✔ 1. 10%

✘ 2. 13%

✘ 3. 9.09%

✘ 4. 21%

Question ID : **630680131548**
Option 1 ID : **630680509438**
Option 2 ID : **630680509439**
Option 3 ID : **630680509440**
Option 4 ID : **630680509441**
Status : **Answered**
Chosen Option : **1**

Q.58 **The total surface area of a cylinder whose radius is 14 cm and height is 6 cm is: (Take π=22/7)**

Ans

✘ 1. 1750 cm^2

✘ 2. 1780 cm^2

✘ 3. 1770 cm^2

✔ 4. 1760 cm^2

Question ID : **630680110339**
Option 1 ID : **630680427707**
Option 2 ID : **630680427710**
Option 3 ID : **630680427709**
Option 4 ID : **630680427708**
Status : **Answered**
Chosen Option : **3**

Q.59 **A solid metallic sphere of radius 4 cm is melted and recast in the form of a solid right circular cone of height 8 cm. Find the radius of the cone.**

Ans

✘ 1. $2\sqrt{2}$ cm

✘ 2. $\sqrt{2}$ cm

✔ 3. $4\sqrt{2}$ cm

✘ 4. $3\sqrt{2}$ cm

Question ID : **630680103879**
Option 1 ID : **630680403732**
Option 2 ID : **630680403734**
Option 3 ID : **630680403731**
Option 4 ID : **630680403733**
Status : **Not Answered**
Chosen Option : **--**

Website - www.dailyjobalert.in

Q.60 Let $a = \left[\frac{1}{2} \div \frac{1}{3} + \frac{3}{4} \times \frac{10}{6}\right] \times \left(\frac{2}{3} \div \frac{2}{9} + \frac{1}{2}\right)$ and $b = \left[3\left(\frac{1}{6} - \frac{5}{12} \times \frac{6}{5}\right) - (-3)\right] \times 2 \div \left(\frac{5}{2}\right)$. The value of $\frac{a}{b}$ is:

Ans

✗ 1. $\frac{77}{5}$

✓ 2. $\frac{385}{64}$

✗ 3. $\frac{385}{128}$

✗ 4. $\frac{385}{32}$

Question ID : **63068094930**
Option 1 ID : **630680368418**
Option 2 ID : **630680368416**
Option 3 ID : **630680368417**
Option 4 ID : **630680368415**
Status : **Not Answered**
Chosen Option : **--**

Q.61 **In a class of 32, 12 students averaged a score of 62, 10 students had an average of 58, 7 students had an average of 78 and 3 students had an average test score of 82. Find the average test score for the entire class.**

Ans

✗ 1. 67.123

✗ 2. 68.514

✓ 3. 66.218

✗ 4. 65.315

Question ID : **630680108647**
Option 1 ID : **630680421524**
Option 2 ID : **630680421525**
Option 3 ID : **630680421527**
Option 4 ID : **630680421526**
Status : **Answered**
Chosen Option : **3**

Q.62 Find the volume of a solid hemisphere whose diameter is 42 cm. $\left(\text{Use } \pi = \frac{22}{7}\right)$

Ans

✓ 1. $19404\ cm^3$

✗ 2. $19004\ cm^3$

✗ 3. $19204\ cm^3$

✗ 4. $19104\ cm^3$

Question ID : **630680108920**
Option 1 ID : **630680422574**
Option 2 ID : **630680422572**
Option 3 ID : **630680422573**
Option 4 ID : **630680422575**
Status : **Answered**
Chosen Option : **4**

Website - www.dailyjobalert.in

Q.63 **After availing of a 24% discount on the marked price of a commodity, A purchased it for ₹323/kg. What was the marked price of the commodity per kg?**

Ans
✗ 1. ₹450
✗ 2. ₹420
✗ 3. ₹380
✓ 4. ₹425

Question ID : **630680104280**
Option 1 ID : **630680405336**
Option 2 ID : **630680405337**
Option 3 ID : **630680405338**
Option 4 ID : **630680405335**
Status : **Answered**
Chosen Option : **4**

Q.64 **A sum of ₹12,000 invested at compound interest at a certain rate of interest becomes two times itself in eight years. After 16 years, what will the sum become (in ₹) under the same rate of interest?**

Ans
✗ 1. 92,000
✓ 2. 48,000
✗ 3. 1,92,000
✗ 4. 1,44,000

Question ID : **630680222887**
Option 1 ID : **630680865308**
Option 2 ID : **630680865307**
Option 3 ID : **630680865310**
Option 4 ID : **630680865309**
Status : **Answered**
Chosen Option : **2**

Q.65 **The mean age of 12 men gets increased by 8 years when three of them, whose ages are 27, 28 and 29 years, are replaced by three women. Find the mean age of the three women.**

Ans
✓ 1. 60 years
✗ 2. 65 years
✗ 3. 50 years
✗ 4. 55 years

Question ID : **630680200478**
Option 1 ID : **630680777269**
Option 2 ID : **630680777270**
Option 3 ID : **630680777267**
Option 4 ID : **630680777268**
Status : **Answered**
Chosen Option : **1**

DAILY JOB Alert ਪੰਜਾਬ

Q.66 **Find the largest 4-digit number which, when divided by 2, 5, 7 or 10, leaves the same remainder 1 in each case.**

Ans

✗ 1. 9976

✗ 2. 9987

✓ 3. 9941

✗ 4. 9951

Question ID : **630680103140**
Option 1 ID : **630680400820**
Option 2 ID : **630680400821**
Option 3 ID : **630680400822**
Option 4 ID : **630680400819**
Status : **Answered**
Chosen Option : **3**

Q.67 **The sum of two numbers is 100. The difference of their squares is 6000. Find the larger number.**

Ans

✗ 1. 64

✗ 2. 75

✗ 3. 55

✓ 4. 80

Question ID : **630680222888**
Option 1 ID : **630680865312**
Option 2 ID : **630680865313**
Option 3 ID : **630680865311**
Option 4 ID : **630680865314**
Status : **Answered**
Chosen Option : **4**

Q.68 The LCM of $\frac{3}{5}, \frac{4}{5}$ and $\frac{6}{11}$ will be:

Ans

✗ 1. $\frac{1}{36}$

✗ 2. $\frac{1}{24}$

✓ 3. 12

✗ 4. $\frac{1}{12}$

Question ID : **63068079806**
Option 1 ID : **630680309251**
Option 2 ID : **630680309252**
Option 3 ID : **630680309250**
Option 4 ID : **630680309249**
Status : **Answered**
Chosen Option : **3**

Website - www.dailyjobalert.in

Q.69 **If a sum of ₹2,000 amounts to ₹2,360 in 3 years at a certain rate of simple interest per annum, then what will the same sum amount to in 5 years, if the rate of simple interest per annum remains the same?**

Ans

✗ 1. ₹2,650

✗ 2. ₹2,605

✗ 3. ₹2,500

✓ 4. ₹2,600

Question ID : **630680206366**
Option 1 ID : **630680800241**
Option 2 ID : **630680800242**
Option 3 ID : **630680800239**
Option 4 ID : **630680800240**
Status : **Answered**
Chosen Option : **3**

Q.70 **The marked price of a book is ₹1,200 but the shopkeeper gets a discount of 10%. If the shopkeeper sells the book at the marked price, then the profit per cent is _____.**

Ans

✗ 1. 10.11%

✓ 2. 11.11%

✗ 3. 10.00%

✗ 4. 11.00%

Question ID : **63068094349**
Option 1 ID : **630680366093**
Option 2 ID : **630680366092**
Option 3 ID : **630680366091**
Option 4 ID : **630680366094**
Status : **Answered**
Chosen Option : **2**

Q.71 **If a positive integer n is divided by 8, the remainder is 5. Which of the numbers below yields a remainder of 0 when it is divided by 8?**

Ans

✗ 1. n − 3

✓ 2. n +3

✗ 3. n − 1

✗ 4. n + 1

Question ID : **630680101460**
Option 1 ID : **630680394361**
Option 2 ID : **630680394363**
Option 3 ID : **630680394360**
Option 4 ID : **630680394362**
Status : **Answered**
Chosen Option : **2**

Website - www.dailyjobalert.in

Q.72 **If the weight of 12 sheets of thick paper is 40 g, how many sheets of the same paper would weigh 2500 g?**

Ans

✗ 1. 800

✗ 2. 950

✗ 3. 850

✓ 4. 750

Question ID : **630680131208**
Option 1 ID : **630680508099**
Option 2 ID : **630680508101**
Option 3 ID : **630680508100**
Option 4 ID : **630680508098**
Status : **Answered**
Chosen Option : **4**

Q.73 **Which of the following numbers is divisible by 15?**

Ans

✗ 1. 30560

✗ 2. 23755

✓ 3. 47325

✗ 4. 29515

Question ID : **63068084413**
Option 1 ID : **630680327207**
Option 2 ID : **630680327205**
Option 3 ID : **630680327204**
Option 4 ID : **630680327206**
Status : **Answered**
Chosen Option : **3**

Q.74 **Two buckets are filled with milk and water in the ratio of 3 : 1 and 5 : 2. If these mixtures are mixed in the ratio of 1 : 5, the resulting mixture will have water and milk in the ratio of _____.**

Ans

✗ 1. 41:121

✗ 2. 43:121

✓ 3. 47:121

✗ 4. 47:120

Question ID : **63068094350**
Option 1 ID : **630680366097**
Option 2 ID : **630680366098**
Option 3 ID : **630680366095**
Option 4 ID : **630680366096**
Status : **Answered**
Chosen Option : **3**

Website - www.dailyjobalert.in

Q.75 **What is the loss percentage if a man loses ₹10 on selling an article for ₹100**

Ans
✗ 1. 10%
✓ 2. 9.09%
✗ 3. 11.11%
✗ 4. 90%

Question ID : **630680222916**
Option 1 ID : **630680865424**
Option 2 ID : **630680865423**
Option 3 ID : **630680865425**
Option 4 ID : **630680865426**
Status : **Answered**
Chosen Option : **2**

Q.76 **If the volume of a 21 cm high right circular cone is 2800 π cm^3, find its total surface area.**

Ans
✗ 1. $740\pi\ cm^2$
✗ 2. $680\pi\ cm^2$
✓ 3. $980\pi\ cm^2$
✗ 4. $820\pi\ cm^2$

Question ID : **63068085747**
Option 1 ID : **630680332450**
Option 2 ID : **630680332451**
Option 3 ID : **630680332448**
Option 4 ID : **630680332449**
Status : **Answered**
Chosen Option : **2**

Q.77 **Find a third proportional to the numbers 4, 3.**

Ans
✗ 1. 5.3
✗ 2. 1.7
✗ 3. 1.3
✓ 4. 2.25

Question ID : **630680117880**
Option 1 ID : **630680456698**
Option 2 ID : **630680456701**
Option 3 ID : **630680456700**
Option 4 ID : **630680456699**
Status : **Answered**
Chosen Option : **4**

Website - www.dailyjobalert.in

Q.78 **30% of [{(210% of 20)-12}] % of 400 is equal to:**

Ans
✔ 1. 36
✘ 2. 26
✘ 3. 42
✘ 4. 28

Question ID : **630680208127**
Option 1 ID : **630680806740**
Option 2 ID : **630680806741**
Option 3 ID : **630680806739**
Option 4 ID : **630680806742**
Status : **Answered**
Chosen Option : **1**

Q.79 **Find the value of the following expression.**
316 - 3(20 + 16 ÷ 4 × 3 - 2 × 2) + 101

Ans
✘ 1. 33
✔ 2. 333
✘ 3. 323
✘ 4. 313

Question ID : **630680137970**
Option 1 ID : **630680534190**
Option 2 ID : **630680534191**
Option 3 ID : **630680534192**
Option 4 ID : **630680534193**
Status : **Answered**
Chosen Option : **2**

Q.80 **A bus covers 360 km at a speed of 90 km/h and the next 255 km at a speed of 85 km/h. What is the average speed (in km/h) for the entire journey? (Correct to 2 decimal places)**

Ans
✘ 1. 84.55
✘ 2. 86.5
✔ 3. 87.86
✘ 4. 88.85

Question ID : **630680112490**
Option 1 ID : **630680435657**
Option 2 ID : **630680435654**
Option 3 ID : **630680435656**
Option 4 ID : **630680435655**
Status : **Answered**
Chosen Option : **3**

Section : **Punjabi Language**

Website - www.dailyjobalert.in

Q.81 ਹੇਠ ਲਿਖੇ ਵਿਕਲਪਾਂ 'ਚੋਂ ਖਾਲੀ ਸਥਾਨ ਭਰੋ। "ਮੁੰਡੇ ਦੇ ਕੰਨ .....ਨਹੀਂ ਤਾਂ ਵਿਗੜ ਜਾਏਗਾ।

Ans
✔ 1. ਖਿੱਚੋ
✘ 2. ਫੜੋ
✘ 3. ਖੁਰਕੋ
✘ 4. ਕੁਤਰੋ

Question ID : **630680241204**
Option 1 ID : **630680935269**
Option 2 ID : **630680935267**
Option 3 ID : **630680935270**
Option 4 ID : **630680935268**
Status : **Answered**
Chosen Option : **1**

Q.82 ' ਜਲ' ਦਾ ਸਮਾਨਾਰਥਕ ਸ਼ਬਦ ਹੈ:

Ans
✘ 1. ਸੀਤਲ
✘ 2. ਕੁੰਭ
✘ 3. ਮੀਨ
✔ 4. ਪਾਣੀ

Question ID : **630680241198**
Option 1 ID : **630680935245**
Option 2 ID : **630680935243**
Option 3 ID : **630680935246**
Option 4 ID : **630680935244**
Status : **Answered**
Chosen Option : **4**

Q.83 ਹੇਠ ਲਿਖਿਆਂ ਵਿੱਚੋਂ ਅਸ਼ੁੱਧ ਸ਼ਬਦ ਦੀ ਚੋਣ ਕਰੋ:-

Ans
✘ 1. ਭੂਮੀ
✘ 2. ਲਿਖਣਾ
✔ 3. ਵਿਅਕਤਿ
✘ 4. ਰਾਸ਼ਟਰੀ

Question ID : **630680241197**
Option 1 ID : **630680935242**
Option 2 ID : **630680935240**
Option 3 ID : **630680935241**
Option 4 ID : **630680935239**
Status : **Answered**
Chosen Option : **3**

Website - www.dailyjobalert.in

Q.84 "Comparative" ਦਾ ਸਹੀ ਪੰਜਾਬੀ ਅਨੁਵਾਦ ਹੈ:-

Ans
✗ 1. ਤੁਲਨਾ
✓ 2. ਤੁਲਨਾਤਮਕ
✗ 3. ਤੁਲਨਾ ਕੀਤੀ
✗ 4. ਬਰਾਬਰੀ

Question ID : **630680241206**
Option 1 ID : **630680935275**
Option 2 ID : **630680935276**
Option 3 ID : **630680935277**
Option 4 ID : **630680935278**
Status : **Answered**
Chosen Option : **1**

Q.85 ਹੇਠ ਲਿਖੇ ਵਿਕਲਪਾਂ 'ਚੋਂ ਖਾਲੀ ਸਥਾਨ ਭਰੋ। "ਮਨੋਹਰ ਨੇ ਰੋਟੀ.....ਤੇ ਸਕੂਲ ਗਿਆ।"

Ans
✗ 1. ਖਾਣ ਲਈ
✓ 2. ਖਾਧੀ
✗ 3. ਖਾਦੀ
✗ 4. ਖਾਣ ਮਗਰੋਂ

Question ID : **630680241203**
Option 1 ID : **630680935264**
Option 2 ID : **630680935263**
Option 3 ID : **630680935266**
Option 4 ID : **630680935265**
Status : **Answered**
Chosen Option : **3**

Q.86 "Persuasion"ਦਾ ਸਹੀ ਪੰਜਾਬੀ ਅਨੁਵਾਦ ਹੈ:-

Ans
✗ 1. ਪ੍ਰਚਕਾਰਨਾ
✗ 2. ਪ੍ਰੇਰਿਤ ਕੀਤਾ
✗ 3. ਪ੍ਰੇਰਿਤ ਕਰਨਾ
✓ 4. ਪ੍ਰੇਰਨਾ

Question ID : **630680241205**
Option 1 ID : **630680935274**
Option 2 ID : **630680935273**
Option 3 ID : **630680935272**
Option 4 ID : **630680935271**
Status : **Answered**
Chosen Option : **3**

Website - www.dailyjobalert.in

Q.87 ਹੇਠ ਲਿਖਿਆਂ 'ਚੋਂ ਸ਼ੁੱਧ ਸ਼ਬਦ ਚੁਣੋ:-

Ans
✗ 1. ਕੇੜਾ
✗ 2. ਕ੍ਰੇੜਾ
✓ 3. ਕਿਹੜਾ
✗ 4. ਕੇਹੜਾ

Question ID : **630680241196**
Option 1 ID : **630680935236**
Option 2 ID : **630680935238**
Option 3 ID : **630680935237**
Option 4 ID : **630680935235**
Status : **Answered**
Chosen Option : **3**

Q.88 "ਜਿਹੜਾ ਕੀਤੇ ਨੂੰ ਨਾ ਜਾਣੇ" ਲਈ ਕਿਸੇ ਇਕ ਸਹੀ ਸ਼ਬਦ ਦੀ ਚੋਣ ਕਰੋ:-

Ans
✗ 1. ਆਸਤਕ
✗ 2. ਜਾਲਸਾਜ਼
✗ 3. ਗਦਾਰ
✓ 4. ਅਕਿਰਤਘਣ

Question ID : **630680241202**
Option 1 ID : **630680935261**
Option 2 ID : **630680935260**
Option 3 ID : **630680935262**
Option 4 ID : **630680935259**
Status : **Answered**
Chosen Option : **3**

Q.89 "ਆਪਣਾ ਸਵਾਰਥ ਸਿੱਧ ਕਰਨ ਵਾਲਾ" ਲਈ ਕਿਸੇ ਇਕ ਸਹੀ ਸ਼ਬਦ ਦੀ ਚੋਣ ਕਰੋ:-

Ans
✗ 1. ਸਮਦਰਸ਼ੀ
✗ 2. ਅਸਵਾਰਥੀ
✓ 3. ਮਤਲਬੀ
✗ 4. ਸ਼ਰਨਾਰਥੀ

Question ID : **630680241201**
Option 1 ID : **630680935258**
Option 2 ID : **630680935255**
Option 3 ID : **630680935257**
Option 4 ID : **630680935256**
Status : **Answered**
Chosen Option : **3**

Website - www.dailyjobalert.in

Q.90 "I am yet to achieve this goal" ਵਾਕ ਦਾ ਸਹੀ ਅਨੁਵਾਦ ਹੈ:-

Ans
✗ 1. ਮੈਂ ਆਪਣਾ ਟੀਚਾ ਪੂਰਾ ਕਰ ਲਵਾਂਗਾ।
✗ 2. ਮੈਂ ਆਪਣਾ ਟੀਚਾ ਪੂਰਾ ਕਰ ਲਿਆ ਹੈ।
✗ 3. ਮੈਂ ਇਹ ਟੀਚਾ ਪੂਰਾ ਕਰਨ ਵਾਲਾ ਹਾਂ।
✓ 4. ਮੈਂ ਹਾਲੇ ਆਪਣਾ ਟੀਚਾ ਹਾਸਿਲ ਕਰਨਾ ਹੈ।

Question ID : **630680241207**
Option 1 ID : **630680935282**
Option 2 ID : **630680935281**
Option 3 ID : **630680935279**
Option 4 ID : **630680935280**
Status : **Answered**
Chosen Option : **4**

Q.91 "ਲੋਅ" ਦਾ ਵਿਪਰੀਤਾਰਥਕ ਸ਼ਬਦ ਹੈ:-

Ans
✗ 1. ਰੋਸ਼ਨੀ
✓ 2. ਹਨ੍ਹੇਰਾ
✗ 3. ਦੁਪਹਿਰ
✗ 4. ਤੜਕਾ

Question ID : **630680241199**
Option 1 ID : **630680935247**
Option 2 ID : **630680935250**
Option 3 ID : **630680935248**
Option 4 ID : **630680935249**
Status : **Answered**
Chosen Option : **2**

Q.92 ਇਕ ਪ੍ਰਧਾਨ ਉਪਵਾਕ ਅਤੇ ਬਾਕੀ ਅਧੀਨ ਉਪ ਵਾਕਾਂ ਨੂੰ ਅਧੀਨ ਯੋਜਕ ਨਾਲ ਜੋੜ ਕੇ ਬਣਾਏ ਜਾਣ ਵਾਲੇ ਵਾਕ ਨੂੰ ਕੀ ਕਹਿੰਦੇ ਹਨ?

Ans
✗ 1. ਸਧਾਰਨ ਵਾਕ
✓ 2. ਮਿਸ਼ਰਤ ਵਾਕ
✗ 3. ਖੰਡਿਤ ਵਾਕ
✗ 4. ਸੰਯੁਕਤ ਵਾਕ

Question ID : **630680241193**
Option 1 ID : **630680935223**
Option 2 ID : **630680935225**
Option 3 ID : **630680935226**
Option 4 ID : **630680935224**
Status : **Answered**
Chosen Option : **4**

Website - www.dailyjobalert.in

Q.93 "ਉਹ ਘਰ ਆਇਆ ਤੇ ਉਸਨੇ ਕੱਪੜੇ ਬਦਲੇ।" ਵਾਕ ਦੀ ਕਿਸਮ ਹੈ:-

Ans
1. ✗ ਮਿਸ਼ਰਤ ਵਾਕ
2. ✗ ਸਧਾਰਨ ਵਾਕ
3. ✓ ਸੰਯੁਕਤ ਵਾਕ
4. ✗ ਵਿਸਮਿਕ ਵਾਕ

Question ID : **630680241195**
Option 1 ID : **630680935232**
Option 2 ID : **630680935231**
Option 3 ID : **630680935234**
Option 4 ID : **630680935233**
Status : **Answered**
Chosen Option : **3**

Q.94 ਹੇਠ ਲਿਖਿਆਂ ਵਿੱਚ ਕਿਹੜਾ ਸ਼ਬਦ "ਉਜੱਡ" ਦਾ ਸਮਾਨਾਰਥਕ ਨਹੀਂ ਹੈ?

Ans
1. ✓ ਸਿਆਣਾ
2. ✗ ਗਵਾਰ
3. ✗ ਮੂਰਖ
4. ✗ ਅਖੜ

Question ID : **630680241200**
Option 1 ID : **630680935252**
Option 2 ID : **630680935254**
Option 3 ID : **630680935253**
Option 4 ID : **630680935251**
Status : **Answered**
Chosen Option : **1**

Q.95 "ਪ੍ਰਮਾਤਮਾ ਤੁਹਾਨੂੰ ਲੰਬੀ ਉਮਰ ਬਖਸ਼ੇ।" ਵਾਕ ਦੀ ਕਿਸਮ ਹੈ:-

Ans
1. ✓ ਇੱਛਾ-ਸੂਚਕ ਵਾਕ
2. ✗ ਵਿਸਮਿਕ ਵਾਕ
3. ✗ ਆਗਿਆ-ਸੂਚਕ ਵਾਕ
4. ✗ ਕਰਤਰੀ ਵਾਕ

Question ID : **630680241194**
Option 1 ID : **630680935227**
Option 2 ID : **630680935229**
Option 3 ID : **630680935228**
Option 4 ID : **630680935230**
Status : **Answered**
Chosen Option : **1**

Website - www.dailyjobalert.in

Q.96 ਭਾਸ਼ਾ ਦੀ ਵੱਡੀ ਤੋਂ ਵੱਡੀ ਵਿਆਕਰਣਿਕ ਇਕਾਈ ਕਿਹੜੀ ਹੁੰਦੀ ਹੈ?

Ans
✗ 1. ਕਿਰਿਆ
✓ 2. ਵਾਕ
✗ 3. ਵਿਸਮਿਕ
✗ 4. ਕਾਲ

Question ID : **630680241192**
Option 1 ID : **630680935222**
Option 2 ID : **630680935220**
Option 3 ID : **630680935219**
Option 4 ID : **630680935221**
Status : **Answered**
Chosen Option : **2**

Comprehension:

"ਜਦੋਂ ਕੋਈ ਭੂਗੋਲਿਕ ਖਿੱਤਾ ਕਿਸੇ ਸਨਅਤੀ ਤੇ ਵਿਗਿਆਨਕ ਵਰਤਾਰੇ ਤੋਂ ਪਰੇ ਰਹਿੰਦਾ ਹੈ ਤਾਂ ਉਸ ਖਿੱਤੇ ਦੀ ਭਾਸ਼ਾ ਵੀ ਉਨ੍ਹਾਂ ਵਰਤਾਰਿਆਂ ਤੋਂ ਵਿਰਵੀ ਰਹਿੰਦੀ ਹੈ। ਉਸ ਭਾਸ਼ਾ ਵਿੱਚ ਉਨ੍ਹਾਂ ਵਰਤਾਰਿਆਂ ਲਈ ਤਕਨੀਕੀ ਸ਼ਬਦਾਵਲੀ ਵਿਕਸਤ ਨਹੀਂ ਹੁੰਦੀ ਤੇ ਉਸਨੂੰ ਬੋਲਣ ਵਾਲੇ ਲੋਕ ਹੌਲੀ ਹੌਲੀ ਦੂਸਰੀ ਭਾਸ਼ਾ ਵੱਲ ਖਿਚੇ ਜਾਂਦੇ ਹਨ। ਫਿਰ ਸਮੱਸਿਆ ਖੜੀ ਹੋ ਜਾਂਦੀ ਹੈ ਕਿ ਅਜਿਹੀ ਭਾਸ਼ਾ ਲਈ ਵਿਗਿਆਨਕ ਸ਼ਬਦਾਵਲੀ ਕਿਵੇਂ ਪੈਦਾ ਕੀਤੀ ਜਾਵੇ। ਇਸ ਤਰ੍ਹਾਂ ਭਾਸ਼ਾ ਦੇ ਵਿਕਾਸ ਵਿੱਚ ਖੜੋਤ ਵੀ ਪੈਦਾ ਹੋ ਜਾਂਦੀ ਹੈ। ਇਹ ਇਕ ਅਜਿਹਾ ਭਾਸ਼ਾਈ ਤੇ ਸਭਿਆਚਾਰਕ ਬੋਝ ਹੈ ਜੋ ਉਸ ਭਾਸ਼ਾ ਦੇ ਲੋਕਾਂ ਨੂੰ ਲੰਬਾ ਸਮਾਂ ਢੋਣਾ ਪੈਂਦਾ ਹੈ। ਕੋਈ ਵੀ ਭਾਸ਼ਾ ਇਕ ਦਿਨ ਵਿੱਚ ਆਪਣੇ ਲਈ ਵਿਗਿਆਨਕ ਖੇਤਰਾਂ ਦੇ ਤਕਨੀਕੀ ਸ਼ਬਦਾਂ ਦੀ ਘਾੜਤ ਨਹੀਂ ਕਰ ਸਕਦੀ ਕਿਉਂਕਿ ਇਹ ਇਕ ਸਮੂਹਿਕ ਵਰਤਾਰਾ ਹੁੰਦਾ ਹੈ ਜਿਹੜਾ ਹੌਲੀ ਹੌਲੀ ਪ੍ਰਵਾਨ ਚੜ੍ਹਦਾ ਹੈ।"

SubQuestion No : 97

Q.97 ਭਾਸ਼ਾਈ ਤੇ ਸਭਿਆਚਾਰਕ ਬੋਝ ਕੀ ਹੈ?

Ans
✗ 1. ਵਿਗਿਆਨ ਤੋਂ ਵਿਰਵੇ ਹੋਣਾ
✓ 2. ਭਾਸ਼ਾ ਦੇ ਵਿਕਾਸ ਵਿੱਚ ਖੜੋਤ
✗ 3. ਲੋਕ ਬੋਲੀ ਦਾ ਅਨੁਭਵ
✗ 4. ਵਿਗਿਆਨਕ ਸ਼ਬਦਾਵਲੀ

Question ID : **630680241210**
Option 1 ID : **630680935287**
Option 2 ID : **630680935288**
Option 3 ID : **630680935290**
Option 4 ID : **630680935289**
Status : **Answered**
Chosen Option : **4**

Website - www.dailyjobalert.in

Comprehension:

"ਜਦੋਂ ਕੋਈ ਭੂਗੋਲਿਕ ਖਿੱਤਾ ਕਿਸੇ ਸਨਅਤੀ ਤੇ ਵਿਗਿਆਨਕ ਵਰਤਾਰੇ ਤੋਂ ਪਰੇ ਰਹਿੰਦਾ ਹੈ ਤਾਂ ਉਸ ਖਿੱਤੇ ਦੀ ਭਾਸ਼ਾ ਵੀ ਉਨ੍ਹਾਂ ਵਰਤਾਰਿਆਂ ਤੋਂ ਵਿਰਵੀ ਰਹਿੰਦੀ ਹੈ। ਉਸ ਭਾਸ਼ਾ ਵਿੱਚ ਉਨ੍ਹਾਂ ਵਰਤਾਰਿਆਂ ਲਈ ਤਕਨੀਕੀ ਸ਼ਬਦਾਵਲੀ ਵਿਕਸਤ ਨਹੀਂ ਹੁੰਦੀ ਤੇ ਉਸਨੂੰ ਬੋਲਣ ਵਾਲੇ ਲੋਕ ਹੌਲੀ ਹੌਲੀ ਦੂਸਰੀ ਭਾਸ਼ਾ ਵੱਲ ਖਿਚੇ ਜਾਂਦੇ ਹਨ। ਫਿਰ ਸਮੱਸਿਆ ਖੜੀ ਹੋ ਜਾਂਦੀ ਹੈ ਕਿ ਅਜਿਹੀ ਭਾਸ਼ਾ ਲਈ ਵਿਗਿਆਨਕ ਸ਼ਬਦਾਵਲੀ ਕਿਵੇਂ ਪੈਦਾ ਕੀਤੀ ਜਾਵੇ। ਇਸ ਤਰ੍ਹਾਂ ਭਾਸ਼ਾ ਦੇ ਵਿਕਾਸ ਵਿੱਚ ਖੜੋਤ ਵੀ ਪੈਦਾ ਹੋ ਜਾਂਦੀ ਹੈ। ਇਹ ਇਕ ਅਜਿਹਾ ਭਾਸ਼ਾਈ ਤੇ ਸਭਿਆਚਾਰਕ ਬੋਝ ਹੈ ਜੋ ਉਸ ਭਾਸ਼ਾ ਦੇ ਲੋਕਾਂ ਨੂੰ ਲੰਬਾ ਸਮਾਂ ਢੋਣਾ ਪੈਂਦਾ ਹੈ। ਕੋਈ ਵੀ ਭਾਸ਼ਾ ਇਕ ਦਿਨ ਵਿੱਚ ਆਪਣੇ ਲਈ ਵਿਗਿਆਨਕ ਖੇਤਰਾਂ ਦੇ ਤਕਨੀਕੀ ਸ਼ਬਦਾਂ ਦੀ ਘਾੜਤ ਨਹੀਂ ਕਰ ਸਕਦੀ ਕਿਉਂਕਿ ਇਹ ਇਕ ਸਮੂਹਿਕ ਵਰਤਾਰਾ ਹੁੰਦਾ ਹੈ ਜਿਹੜਾ ਹੌਲੀ ਹੌਲੀ ਪ੍ਰਵਾਨ ਚੜ੍ਹਦਾ ਹੈ।"

SubQuestion No : 98

Q.98 ਉਪਰੋਕਤ ਪੈਰੇ ਦਾ ਸਿਰਲੇਖ ਹੈ:-

Ans
✔ 1. ਭਾਸ਼ਾ ਲਈ ਤਕਨੀਕੀ ਸ਼ਬਦਾਵਲੀ ਦੀ ਲੋੜ
✘ 2. ਭਾਸ਼ਾਈ ਸੰਕਟ ਤੇ ਉਸਦੇ ਹੱਲ
✘ 3. ਭਾਸ਼ਾਈ ਗੁਣ
✘ 4. ਭਾਸ਼ਾ ਦੀ ਅਸਮਰਥਾ ਤੇ ਭਵਿੱਖ

Question ID : **630680241209**
Option 1 ID : **630680935283**
Option 2 ID : **630680935285**
Option 3 ID : **630680935286**
Option 4 ID : **630680935284**
Status : **Answered**
Chosen Option : **1**

Comprehension:

"ਜਦੋਂ ਕੋਈ ਭੂਗੋਲਿਕ ਖਿੱਤਾ ਕਿਸੇ ਸਨਅਤੀ ਤੇ ਵਿਗਿਆਨਕ ਵਰਤਾਰੇ ਤੋਂ ਪਰੇ ਰਹਿੰਦਾ ਹੈ ਤਾਂ ਉਸ ਖਿੱਤੇ ਦੀ ਭਾਸ਼ਾ ਵੀ ਉਨ੍ਹਾਂ ਵਰਤਾਰਿਆਂ ਤੋਂ ਵਿਰਵੀ ਰਹਿੰਦੀ ਹੈ। ਉਸ ਭਾਸ਼ਾ ਵਿੱਚ ਉਨ੍ਹਾਂ ਵਰਤਾਰਿਆਂ ਲਈ ਤਕਨੀਕੀ ਸ਼ਬਦਾਵਲੀ ਵਿਕਸਤ ਨਹੀਂ ਹੁੰਦੀ ਤੇ ਉਸਨੂੰ ਬੋਲਣ ਵਾਲੇ ਲੋਕ ਹੌਲੀ ਹੌਲੀ ਦੂਸਰੀ ਭਾਸ਼ਾ ਵੱਲ ਖਿਚੇ ਜਾਂਦੇ ਹਨ। ਫਿਰ ਸਮੱਸਿਆ ਖੜੀ ਹੋ ਜਾਂਦੀ ਹੈ ਕਿ ਅਜਿਹੀ ਭਾਸ਼ਾ ਲਈ ਵਿਗਿਆਨਕ ਸ਼ਬਦਾਵਲੀ ਕਿਵੇਂ ਪੈਦਾ ਕੀਤੀ ਜਾਵੇ। ਇਸ ਤਰ੍ਹਾਂ ਭਾਸ਼ਾ ਦੇ ਵਿਕਾਸ ਵਿੱਚ ਖੜੋਤ ਵੀ ਪੈਦਾ ਹੋ ਜਾਂਦੀ ਹੈ। ਇਹ ਇਕ ਅਜਿਹਾ ਭਾਸ਼ਾਈ ਤੇ ਸਭਿਆਚਾਰਕ ਬੋਝ ਹੈ ਜੋ ਉਸ ਭਾਸ਼ਾ ਦੇ ਲੋਕਾਂ ਨੂੰ ਲੰਬਾ ਸਮਾਂ ਢੋਣਾ ਪੈਂਦਾ ਹੈ। ਕੋਈ ਵੀ ਭਾਸ਼ਾ ਇਕ ਦਿਨ ਵਿੱਚ ਆਪਣੇ ਲਈ ਵਿਗਿਆਨਕ ਖੇਤਰਾਂ ਦੇ ਤਕਨੀਕੀ ਸ਼ਬਦਾਂ ਦੀ ਘਾੜਤ ਨਹੀਂ ਕਰ ਸਕਦੀ ਕਿਉਂਕਿ ਇਹ ਇਕ ਸਮੂਹਿਕ ਵਰਤਾਰਾ ਹੁੰਦਾ ਹੈ ਜਿਹੜਾ ਹੌਲੀ ਹੌਲੀ ਪ੍ਰਵਾਨ ਚੜ੍ਹਦਾ ਹੈ।"

SubQuestion No : 99

Q.99 ਕਿਸੇ ਭਾਸ਼ਾ ਵਿੱਚ ਨਵੇਂ ਸ਼ਬਦਾਂ ਨੂੰ ਕੌਣ ਪ੍ਰਵਾਨ ਕਰਦਾ ਹੈ?

Ans
✔ 1. ਲੋਕ-ਸਮੂਹ
✘ 2. ਭਾਸ਼ਾ ਵਿਗਿਆਨੀ
✘ 3. ਸਾਹਿਤਕਾਰ
✘ 4. ਵਿਗਿਆਨੀ

Question ID : **630680241211**
Option 1 ID : **630680935293**
Option 2 ID : **630680935294**
Option 3 ID : **630680935292**
Option 4 ID : **630680935291**
Status : **Answered**
Chosen Option : **1**

Website - www.dailyjobalert.in

Comprehension:

"ਜਦੋਂ ਕੋਈ ਭੂਗੋਲਿਕ ਖਿੱਤਾ ਕਿਸੇ ਸਨਅਤੀ ਤੇ ਵਿਗਿਆਨਕ ਵਰਤਾਰੇ ਤੋਂ ਪਰੇ ਰਹਿੰਦਾ ਹੈ ਤਾਂ ਉਸ ਖਿੱਤੇ ਦੀ ਭਾਸ਼ਾ ਵੀ ਉਨ੍ਹਾਂ ਵਰਤਾਰਿਆਂ ਤੋਂ ਵਿਰਵੀ ਰਹਿੰਦੀ ਹੈ। ਉਸ ਭਾਸ਼ਾ ਵਿੱਚ ਉਨ੍ਹਾਂ ਵਰਤਾਰਿਆਂ ਲਈ ਤਕਨੀਕੀ ਸ਼ਬਦਾਵਲੀ ਵਿਕਸਤ ਨਹੀਂ ਹੁੰਦੀ ਤੇ ਉਸਨੂੰ ਬੋਲਣ ਵਾਲੇ ਲੋਕ ਹੌਲੀ ਹੌਲੀ ਦੂਸਰੀ ਭਾਸ਼ਾ ਵੱਲ ਖਿਚੇ ਜਾਂਦੇ ਹਨ। ਫਿਰ ਸਮੱਸਿਆ ਖੜੀ ਹੋ ਜਾਂਦੀ ਹੈ ਕਿ ਅਜਿਹੀ ਭਾਸ਼ਾ ਲਈ ਵਿਗਿਆਨਕ ਸ਼ਬਦਾਵਲੀ ਕਿਵੇਂ ਪੈਦਾ ਕੀਤੀ ਜਾਵੇ। ਇਸ ਤਰ੍ਹਾਂ ਭਾਸ਼ਾ ਦੇ ਵਿਕਾਸ ਵਿੱਚ ਖੜੋਤ ਵੀ ਪੈਦਾ ਹੋ ਜਾਂਦੀ ਹੈ। ਇਹ ਇਕ ਅਜਿਹਾ ਭਾਸ਼ਾਈ ਤੇ ਸਭਿਆਚਾਰਕ ਬੋਝ ਹੈ ਜੋ ਉਸ ਭਾਸ਼ਾ ਦੇ ਲੋਕਾਂ ਨੂੰ ਲੰਬਾ ਸਮਾਂ ਢੋਣਾ ਪੈਂਦਾ ਹੈ। ਕੋਈ ਵੀ ਭਾਸ਼ਾ ਇਕ ਦਿਨ ਵਿੱਚ ਆਪਣੇ ਲਈ ਵਿਗਿਆਨਕ ਖੇਤਰਾਂ ਦੇ ਤਕਨੀਕੀ ਸ਼ਬਦਾਂ ਦੀ ਘਾੜਤ ਨਹੀਂ ਕਰ ਸਕਦੀ ਕਿਉਂਕਿ ਇਹ ਇਕ ਸਮੂਹਿਕ ਵਰਤਾਰਾ ਹੁੰਦਾ ਹੈ ਜਿਹੜਾ ਹੌਲੀ ਹੌਲੀ ਪ੍ਰਵਾਨ ਚੜ੍ਹਦਾ ਹੈ।"

SubQuestion No : 100

Q.100 ਭਾਸ਼ਾ ਵਿੱਚ ਵਿਗਿਆਨਕ ਸ਼ਬਦਾਵਲੀ ਨਾ ਆਉਣ ਦੇ ਕੀ ਕਾਰਣ ਹੁੰਦੇ ਹਨ?

Ans

✗ 1. ਭਾਸ਼ਾ ਵਿਗਿਆਨੀਆਂ ਦੀ ਘਾਟ

✓ 2. ਭਾਸ਼ਾਈ ਸਮਾਜ ਦਾ ਵਿਗਿਆਨਕ ਤਰੱਕੀ ਤੋਂ ਵਿਰਵੇ ਹੋਣਾ

✗ 3. ਭਾਸ਼ਾਈ ਸਮਾਜ ਦਾ ਵਿਗਿਆਨਕ ਹੋਣਾ

✗ 4. ਭਾਸ਼ਾਈ ਸਮਾਜ ਦਾ ਮਾਤ ਭਾਸ਼ਾ ਨਾਲ ਪ੍ਰੇਮ ਹੋਣਾ

Question ID : **630680241212**
Option 1 ID : **630680935296**
Option 2 ID : **630680935298**
Option 3 ID : **630680935295**
Option 4 ID : **630680935297**
Status : **Answered**
Chosen Option : **2**

DAILY JOB Alert ਪੰਜਾਬ

PUNJAB POLICE

Police to its last particle is duty

Exam Name	Recruitment for the post of Sub Inspector in Cadres of District and Armed Police 20th Jun to 31st Jul 2023 S2 Paper II and III
Application No	www.dailyjobalert.in
Roll No	Telegram - Daily Job Alert Punjab
Applicant Name	instagram - Daily Job Alert Punjab
Exam Date	09/07/2023
Shift	4:00 PM - 7:00 PM
Subject	Sub Inspector Paper II and III

Section : **Logical and Analytical Reasoning and Data Interpretation**

Q.1 P, Q, R, S and T are selected for a university admission interview, according to the marks they have obtained in the entrance test. R has the least chance and T has the highest chance of getting the admission. The test was out of 140 marks, which included 50 marks for multiple choice questions, 30 for short answer questions, and 60 for long answer questions. P got full marks for the multiple choice questions and short answer questions, but lost half of the total for the long answer questions. Q got $\frac{3}{5}$ of what P got. S got more than R, who got 6% less than Q's marks. S scored 128.04 marks.

If the ranking of a candidate depends upon the merit list according to the marks they received in the test, who came third?

Ans
✔ 1. P
✘ 2. Q
✘ 3. T
✘ 4. S

Question ID : **630680166740**
Option 1 ID : **630680645872**
Option 2 ID : **630680645874**
Option 3 ID : **630680645875**
Option 4 ID : **630680645873**
Status : **Answered**
Chosen Option : **1**

Q.2 Following a certain logic, if 13 is related to 60 and 16 is related to 75, to which of the following is 19 related?

Ans
✘ 1. 85
✔ 2. 90
✘ 3. 100
✘ 4. 95

Question ID : **63068057018**
Option 1 ID : **630680220002**
Option 2 ID : **630680220003**
Option 3 ID : **630680220005**
Option 4 ID : **630680220004**
Status : **Answered**
Chosen Option : **2**

Website - www.dailyjobalert.in

Q.3 **Select the letter-pair from among the given options that can replace the question mark (?) in the following series.**
AA, BB, DC, ?, KE, PF

Ans
✗ 1. GF
✗ 2. ED
✗ 3. GE
✓ 4. GD

Question ID : **63068048594**
Option 1 ID : **630680186988**
Option 2 ID : **630680186986**
Option 3 ID : **630680186987**
Option 4 ID : **630680186989**
Status : **Answered**
Chosen Option : **4**

Q.4 **Following a certain logic, if 25 is related to 4 and 70 is related to 13, to which of the following is 125 related?**

Ans
✗ 1. 36
✓ 2. 24
✗ 3. 49
✗ 4. 52

Question ID : **63068057025**
Option 1 ID : **630680220033**
Option 2 ID : **630680220032**
Option 3 ID : **630680220030**
Option 4 ID : **630680220031**
Status : **Answered**
Chosen Option : **2**

Q.5 **Select the number from among the given options that can replace the question mark (?) in the following series.**
45, 70, 54, 63, ?

Ans
✗ 1. 57
✓ 2. 59
✗ 3. 67
✗ 4. 60

Question ID : **63068050836**
Option 1 ID : **630680195655**
Option 2 ID : **630680195656**
Option 3 ID : **630680195657**
Option 4 ID : **630680195654**
Status : **Answered**
Chosen Option : **2**

Website - www.dailyjobalert.in

Q.6 K, L, M, N, O ਅਤੇ P ਵੱਖ-ਵੱਖ ਉਮਰਾਂ ਦੇ ਹਨ। M, L ਤੋਂ ਵੱਡਾ ਹੈ ਪਰ P ਤੋਂ ਛੋਟਾ ਹੈ। ਸਿਰਫ਼ ਤਿੰਨ ਵਿਅਕਤੀ P ਤੋਂ ਛੋਟੇ ਹਨ। O, P ਤੋਂ ਵੱਡਾ ਹੈ ਪਰ ਸਭ ਤੋਂ ਵੱਡਾ ਨਹੀਂ ਹੈ। L, N ਤੋਂ ਵੱਡਾ ਹੈ। ਸਭ ਤੋਂ ਵੱਡਾ ਕੌਣ ਹੈ?

Ans
✔ 1. K
✘ 2. P
✘ 3. L
✘ 4. M

Question ID : **630680189103**
Option 1 ID : **630680733221**
Option 2 ID : **630680733222**
Option 3 ID : **630680733224**
Option 4 ID : **630680733223**
Status : **Answered**
Chosen Option : **1**

Q.7 Kabir walks 3 km from A to B. He turns right and walks 5 km to C. He again turns right and walks 10 km to D. Again, he turns right and walks 5 km to E. From E, he turns right and walks 6 km. How far is Kabir from point A?

Ans
✘ 1. 3 km
✔ 2. 1 km
✘ 3. 0 km
✘ 4. 2 km

Question ID : **630680106031**
Option 1 ID : **630680412025**
Option 2 ID : **630680412023**
Option 3 ID : **630680412026**
Option 4 ID : **630680412024**
Status : **Answered**
Chosen Option : **2**

Q.8 Select the option in which the triad share the same relationship as that shared by the given triad.
HOPE – PEHO – EHOP

Ans
✘ 1. KIND – INDK - DKNI
✘ 2. MANE – NAME - NEAM
✘ 3. SING – SGIN – GINS
✔ 4. WHAT – ATWH – TWHA

Question ID : **63068050140**
Option 1 ID : **630680192882**
Option 2 ID : **630680192885**
Option 3 ID : **630680192884**
Option 4 ID : **630680192883**
Status : **Answered**
Chosen Option : **4**

Website - www.dailyjobalert.in

Q.9 **PASD is related to RDUG in a certain way based on the English alphabetical order. In the same way, TULF is related to VXNI. To which of the following is GRCL related, following the same logic?**

Ans
✔ 1. IUEO
✘ 2. JVFO
✘ 3. JVEN
✘ 4. IUFN

Question ID : **63068077033**
Option 1 ID : **630680298230**
Option 2 ID : **630680298231**
Option 3 ID : **630680298232**
Option 4 ID : **630680298229**
Status : **Answered**
Chosen Option : **1**

Q.10 **In a code GLAZED is coded as LGWDDE and QUILTS is coded as UQEPST. How will EXPIRE be coded in the same language?**

Ans
✘ 1. TREMLX
✔ 2. XELMER
✘ 3. XMLRED
✘ 4. TMLEXR

Question ID : **630680147840**
Option 1 ID : **630680572075**
Option 2 ID : **630680572074**
Option 3 ID : **630680572076**
Option 4 ID : **630680572077**
Status : **Answered**
Chosen Option : **2**

Q.11 **Select the number from among the given options that can replace the question mark (?) in the following series.**
15, 19, 24, ?, 37

Ans
✔ 1. 30
✘ 2. 31
✘ 3. 28
✘ 4. 33

Question ID : **630680134062**
Option 1 ID : **630680519151**
Option 2 ID : **630680519152**
Option 3 ID : **630680519150**
Option 4 ID : **630680519153**
Status : **Answered**
Chosen Option : **1**

Website - www.dailyjobalert.in

Q.12 **Select the letter-cluster from among the given options that can replace the question mark (?) in the following series.**
IAZA, JBYE, KCXI, ?, MEVU

Ans
✗ 1. LDWN
✗ 2. LDKJ
✗ 3. LDWJ
✓ 4. LDWO

Question ID : **63068048612**
Option 1 ID : **630680187061**
Option 2 ID : **630680187060**
Option 3 ID : **630680187059**
Option 4 ID : **630680187058**
Status : **Answered**
Chosen Option : **1**

Q.13 **Read the given statements and conclusions carefully. Assuming that the information given in the statements is true, even if it appears to be at variance with commonly known facts, decide which of the given conclusions logically follow(s) from the statements.**

Statements: Some pins are needles. Some needles are knives.
Conclusion (I): Some knives are needles.
Conclusion (II): Some needles are pins.

Ans
✗ 1. Both conclusions (I) and (II) do not follow
✓ 2. Both conclusions (I) and (II) follow
✗ 3. Only conclusion (I) follows
✗ 4. Only conclusion (II) follows

Question ID : **630680111453**
Option 1 ID : **630680431609**
Option 2 ID : **630680431608**
Option 3 ID : **630680431606**
Option 4 ID : **630680431607**
Status : **Answered**
Chosen Option : **2**

Q.14 **While introducing Reema, Ratnesh said, "Her father is my father's only son". How is Ratnesh related to Reema?**

Ans
✗ 1. Father's son
✗ 2. Brother
✓ 3. Father
✗ 4. Son

Question ID : **630680125619**
Option 1 ID : **630680487141**
Option 2 ID : **630680487138**
Option 3 ID : **630680487140**
Option 4 ID : **630680487139**
Status : **Answered**
Chosen Option : **3**

Website - www.dailyjobalert.in

Q.15 Read the following Pie chart and answer the given question.
The given Pie chart depicts the number of tables manufactured of five brands, out of the total number of tables manufactured (which is 500) of all five brands together.
Study the chart and answer the question that follows.

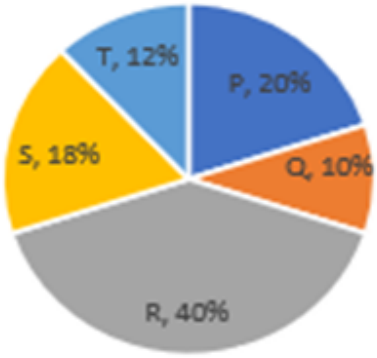

If the manufacturing cost per table of Brand R and S was ₹500 and ₹800, respectively, what was the total manufacturing cost incurred by Brand R and S together? (in ₹)

Ans
✗ 1. 1,84,000
✓ 2. 1,72,000
✗ 3. 1,64,000
✗ 4. 1,58,000

Question ID : **630680161806**
Option 1 ID : **630680626555**
Option 2 ID : **630680626553**
Option 3 ID : **630680626552**
Option 4 ID : **630680626554**
Status : **Answered**
Chosen Option : **2**

Q.16 7 is related to 73 following a certain logic. Following the same logic, 13 is related to 127. To which of the following is 84 related, following the same logic?

Ans
✗ 1. 756
✗ 2. 787
✗ 3. 777
✓ 4. 766

Question ID : **63068049493**
Option 1 ID : **630680190402**
Option 2 ID : **630680190405**
Option 3 ID : **630680190404**
Option 4 ID : **630680190403**
Status : **Answered**
Chosen Option : **1**

Website - www.dailyjobalert.in

Q.17 'A ~ B' means 'B is the granddaughter of A'
'A @ B' means 'B is the mother of A'
'A # B' means 'B is the husband of A'
'A * B' means 'B is the wife of A'
If E has only one child, then in the expression 'E * F ~ G @ H # I', how is E related to G?

Ans
✔ 1. Mother's father
✘ 2. Father
✘ 3. Son
✘ 4. Father's mother

Question ID : **630680124759**
Option 1 ID : **630680483874**
Option 2 ID : **630680483877**
Option 3 ID : **630680483876**
Option 4 ID : **630680483875**
Status : **Answered**
Chosen Option : **1**

Q.18 Rohan is 21st from both the ends of the row of students of class 11. How many students are there in the row?

Ans
✘ 1. 43
✘ 2. 32
✔ 3. 41
✘ 4. 42

Question ID : **630680106169**
Option 1 ID : **630680412577**
Option 2 ID : **630680412578**
Option 3 ID : **630680412575**
Option 4 ID : **630680412576**
Status : **Answered**
Chosen Option : **3**

Q.19 EODW is related to JSAU in a certain way based on the English alphabetical order. In the same way, TPKF is related to YTHD. To which of the following is SAFY related, following the same logic?

Ans
✘ 1. NFIV
✘ 2. XFIW
✘ 3. NECV
✔ 4. XECW

Question ID : **63068077040**
Option 1 ID : **630680298260**
Option 2 ID : **630680298257**
Option 3 ID : **630680298259**
Option 4 ID : **630680298258**
Status : **Answered**
Chosen Option : **2**

Website - www.dailyjobalert.in

Q.20 Six letters A, B, C, D, E and F are written on different faces of a dice. Two positions of this dice are shown in the following figure. Find the letter on the face opposite to F.

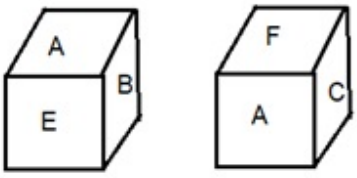

Ans
✔ 1. B
✘ 2. E
✘ 3. D
✘ 4. A

Question ID : **630680187303**
Option 1 ID : **630680726161**
Option 2 ID : **630680726163**
Option 3 ID : **630680726162**
Option 4 ID : **630680726164**
Status : **Answered**
Chosen Option : **1**

Q.21 ਦਿੱਤੇ ਅੱਖਰ-ਸਮੂਹ ਵਿੱਚ, ਸੱਜੇ ਸਿਰੇ ਤੋਂ ਪੰਜਵੇਂ ਅੱਖਰ ਦੇ ਠੀਕ ਸੱਜੇ ਪਾਸੇ ਕਿਹੜਾ ਅੱਖਰ ਹੈ?

(ਖੱਬੇ) B M G W U Z X A D L R V C (ਸੱਜੇ)

Ans
✘ 1. U
✘ 2. W
✘ 3. D
✔ 4. L

Question ID : **630680172156**
Option 1 ID : **630680667060**
Option 2 ID : **630680667062**
Option 3 ID : **630680667063**
Option 4 ID : **630680667061**
Status : **Answered**
Chosen Option : **4**

Q.22 What should come in place of the question mark (?) in the given series?
6, 14, 30, 62, ?

Ans
✔ 1. 126
✘ 2. 124
✘ 3. 120
✘ 4. 128

Question ID : **630680122737**
Option 1 ID : **630680475861**
Option 2 ID : **630680475858**
Option 3 ID : **630680475859**
Option 4 ID : **630680475860**
Status : **Answered**
Chosen Option : **1**

Website - www.dailyjobalert.in

Q.23 Raj and Vihan are standing in a row of 49 boys facing the north. Raj is standing seventh to the left of Vihan, who is standing twelfth from the right. What is Raj's position from the left?

Ans
✔ 1. 31st
✘ 2. 20th
✘ 3. 22nd
✘ 4. 19th

Question ID : **630680113675**
Option 1 ID : **630680440236**
Option 2 ID : **630680440235**
Option 3 ID : **630680440237**
Option 4 ID : **630680440234**
Status : **Answered**
Chosen Option : **1**

Q.24 There are two teams in a game. The first team consists of three players: A, B and C. The second team consists of each of their parents, D, E and F. Each member of one team is of the same age as his/her teammates. The first team to second team members' ages are in the ratio 2 : 5. Four years later the ratio of their ages becomes 5 : 11, respectively. How old were the players of second team five years ago?

Ans
✘ 1. 30
✔ 2. 35
✘ 3. 45
✘ 4. 40

Question ID : **630680166742**
Option 1 ID : **630680645882**
Option 2 ID : **630680645883**
Option 3 ID : **630680645881**
Option 4 ID : **630680645880**
Status : **Answered**
Chosen Option : **2**

Q.25 Select the option in which the words share the same relationship as that shared by the given pair of words.

Cat : Kitten

Ans
✘ 1. Stag : Doe
✘ 2. Cub : Lion
✘ 3. Lion : Lioness
✔ 4. Hen : Chick

Question ID : **63068063308**
Option 1 ID : **630680244398**
Option 2 ID : **630680244401**
Option 3 ID : **630680244400**
Option 4 ID : **630680244399**
Status : **Answered**
Chosen Option : **4**

Website - www.dailyjobalert.in

Q.26 **In the given letter-cluster, how many such consonants are there, each of which is immediately preceded by a vowel and also immediately followed by a consonant?**

(Left) K M E W V I B P U A R X (Right)

Ans
- ✗ 1. 1
- ✓ 2. 3
- ✗ 3. 2
- ✗ 4. 4

Question ID : **630680172162**
Option 1 ID : **630680667087**
Option 2 ID : **630680667084**
Option 3 ID : **630680667086**
Option 4 ID : **630680667085**
Status : **Answered**
Chosen Option : **2**

Q.27 **Select the option that will come in place of the question mark (?)in the given series in order to make it logically complete.**
AD27 GJ36 MP45 ?

Ans
- ✗ 1. RV56
- ✗ 2. TW54
- ✓ 3. SV54
- ✗ 4. SU63

Question ID : **630680107948**
Option 1 ID : **630680418973**
Option 2 ID : **630680418975**
Option 3 ID : **630680418974**
Option 4 ID : **630680418972**
Status : **Answered**
Chosen Option : **3**

Q.28 **In a certain code language, 'this is small' is written as 'yp uc pj' and 'what is this' is written as 'pj gj yp'. How is 'small' written in that language?**

Ans
- ✗ 1. gj
- ✓ 2. uc
- ✗ 3. pj
- ✗ 4. yp

Question ID : **630680158218**
Option 1 ID : **630680612403**
Option 2 ID : **630680612401**
Option 3 ID : **630680612402**
Option 4 ID : **630680612400**
Status : **Answered**
Chosen Option : **2**

Website - www.dailyjobalert.in

Q.29 Select the alpha-numeric term from among the given options that can replace the question mark (?) in the following series.
2N3, 5P7, 11Q13, 17S19, ?

Ans
✗ 1. 23U29
✓ 2. 23T29
✗ 3. 23T27
✗ 4. 23T25

Question ID : **63068053432**
Option 1 ID : **630680205790**
Option 2 ID : **630680205792**
Option 3 ID : **630680205791**
Option 4 ID : **630680205793**
Status : **Answered**
Chosen Option : **2**

Q.30 Four letter-clusters have been given, out of which three are alike in some manner and one is different. Select the one that is different.

Ans
✗ 1. BXD
✗ 2. MNP
✓ 3. EOU
✗ 4. FHK

Question ID : **630680105001**
Option 1 ID : **630680408115**
Option 2 ID : **630680408116**
Option 3 ID : **630680408117**
Option 4 ID : **630680408118**
Status : **Answered**
Chosen Option : **2**

Q.31 ਕਿੰਸ਼ੁਕ ਨੇ ਬਿੰਦੂ A ਤੋਂ ਸ਼ੁਰੂ ਕੀਤਾ ਅਤੇ ਪੱਛਮ ਵੱਲ 7 m ਤੱਕ ਚੱਲਿਆ। ਉਹ ਫਿਰ ਸੱਜੇ ਪਾਸੇ ਵੱਲ ਮੁੜਿਆ ਅਤੇ ਖੱਬੇ ਪਾਸੇ ਮੁੜਕੇ 9 m ਚੱਲਣ ਤੋਂ ਪਹਿਲਾਂ 4 m ਤੱਕ ਚੱਲਿਆ। ਫਿਰ ਉਸਨੇ ਖੱਬੇ ਪਾਸੇ ਇੱਕ ਮੋੜ ਕੱਟਿਆ ਅਤੇ ਬਿੰਦੂ B ਤੱਕ ਪਹੁੰਚਣ ਲਈ ਦੁਬਾਰਾ 4 m ਤੱਕ ਚੱਲਿਆ। ਇੱਕ ਸਿੱਧੀ ਲਾਈਨ ਵਿੱਚ ਬਿੰਦੂ B ਤੋਂ ਬਿੰਦੂ A ਕਿੰਨੀ ਦੂਰ ਹੈ? (ਸਾਰੇ ਮੋੜ 90° ਦੇ ਹਨ।)

Ans
✗ 1. 2 m
✗ 2. 13 m
✗ 3. 9 m
✓ 4. 16 m

Question ID : **630680172184**
Option 1 ID : **630680667173**
Option 2 ID : **630680667175**
Option 3 ID : **630680667172**
Option 4 ID : **630680667174**
Status : **Answered**
Chosen Option : **4**

Website - www.dailyjobalert.in

Q.32 **MPES is related to ONCU in a certain way based on the English alphabetical order. In the same way, REAP is related to TCYR. To which of the following is QNSR related using the same logic?**

Ans
- ✗ 1. SLUT
- ✓ 2. SLQT
- ✗ 3. SLUP
- ✗ 4. SPUT

Question ID : **63068058591**
Option 1 ID : **630680226010**
Option 2 ID : **630680226012**
Option 3 ID : **630680226011**
Option 4 ID : **630680226013**
Status : **Answered**
Chosen Option : **2**

Q.33 **Three of the following four are alike in a certain way and thus form a group. Which is the one that does NOT belong to that group?**

Ans
- ✓ 1. UTX
- ✗ 2. NLQ
- ✗ 3. FDI
- ✗ 4. JHM

Question ID : **630680108071**
Option 1 ID : **630680419377**
Option 2 ID : **630680419379**
Option 3 ID : **630680419376**
Option 4 ID : **630680419378**
Status : **Answered**
Chosen Option : **1**

Q.34 **If 18 July 2021 was a Sunday, what day of the week was 20 August 2021?**

Ans
- ✗ 1. Sunday
- ✗ 2. Thursday
- ✓ 3. Friday
- ✗ 4. Saturday

Question ID : **63068058557**
Option 1 ID : **630680225877**
Option 2 ID : **630680225874**
Option 3 ID : **630680225875**
Option 4 ID : **630680225876**
Status : **Answered**
Chosen Option : **3**

DAILY JOB Alert ਪੰਜਾਬ

Q.35 **A certain number of people are sitting in a row, facing the north. Only one person sits between C and D as well as A and B. E is at the immediate left of A. C is fourth to the right of B. Both D and E sit at the two extreme ends of the row. If no other person is sitting in the row, then what is the total number of people seated?**

Ans
✗ 1. 13
✗ 2. 11
✓ 3. 10
✗ 4. 12

Question ID : **630680112289**
Option 1 ID : **630680434873**
Option 2 ID : **630680434871**
Option 3 ID : **630680434870**
Option 4 ID : **630680434872**
Status : **Answered**
Chosen Option : **3**

Q.36 **The calendar for which of the following years will look exactly the same as the calendar for the year 2007?**

Ans
✗ 1. 2016
✗ 2. 2017
✓ 3. 2018
✗ 4. 2014

Question ID : **630680117483**
Option 1 ID : **630680455179**
Option 2 ID : **630680455180**
Option 3 ID : **630680455181**
Option 4 ID : **630680455178**
Status : **Answered**
Chosen Option : **3**

Comprehension:

Read the below information and answer the given questions.
P, Q, R, S, T, U, V and W, are working in an organisation. P called an urgent meeting to discuss about the issues that need immediate resolution. For this, he called all the Heads of the different departments for discussion. See below the seating arrangement and answer the below question accordingly.
All eight people are sitting around a square table facing towards the centre with only eight chairs available. Two chairs on each side. T is sitting on the left of W facing North. Q and S are sitting on the West side. P is facing South and is immediate close to Q. R and V are facing West and V is sitting immediate close to W.

SubQuestion No : 37

Q.37 **Who is sitting to the immediate right of S?**

Ans
✗ 1. V
✗ 2. P
✗ 3. Q
✓ 4. T

Question ID : **630680109289**
Option 1 ID : **630680423929**
Option 2 ID : **630680423928**
Option 3 ID : **630680423930**
Option 4 ID : **630680423931**
Status : **Answered**
Chosen Option : **4**

Website - www.dailyjobalert.in

Comprehension:

Read the below information and answer the given questions.
P, Q, R, S, T, U, V and W, are working in an organisation. P called an urgent meeting to discuss about the issues that need immediate resolution. For this, he called all the Heads of the different departments for discussion. See below the seating arrangement and answer the below question accordingly.
All eight people are sitting around a square table facing towards the centre with only eight chairs available. Two chairs on each side. T is sitting on the left of W facing North. Q and S are sitting on the West side. P is facing South and is immediate close to Q. R and V are facing West and V is sitting immediate close to W.

SubQuestion No : 38

Q.38 How many people are sitting between P and T when counted from the right of P?

Ans
✗ 1. Five
✗ 2. Four
✓ 3. Two
✗ 4. Six

Question ID : **630680109288**
Option 1 ID : **630680423927**
Option 2 ID : **630680423924**
Option 3 ID : **630680423926**
Option 4 ID : **630680423925**
Status : **Answered**
Chosen Option : **2**

Comprehension:

Read the below information and answer the given questions.

Each of the tents 1, 2, 3, 4, 5 and 6 will be used in a community on a different day of a week, starting from Monday and ending on Saturday of the same week. Tent 2 will be used on Wednesday. Tent 3 will be used on the first day. Tent 5 will be used on the day immediately after tent 2. Tent 1 will be used on the last day. Only three tents will be used between tents 1 and 6.

SubQuestion No : 39

Q.39 On which of the following days will tent 4 be used?

Ans
✗ 1. Monday
✓ 2. Friday
✗ 3. Thursday
✗ 4. Saturday

Question ID : **63068083595**
Option 1 ID : **630680324031**
Option 2 ID : **630680324029**
Option 3 ID : **630680324028**
Option 4 ID : **630680324030**
Status : **Answered**
Chosen Option : **2**

Website - www.dailyjobalert.in

Comprehension:

Read the below information and answer the given questions.

Each of the tents 1, 2, 3, 4, 5 and 6 will be used in a community on a different day of a week, starting from Monday and ending on Saturday of the same week. Tent 2 will be used on Wednesday. Tent 3 will be used on the first day. Tent 5 will be used on the day immediately after tent 2. Tent 1 will be used on the last day. Only three tents will be used between tents 1 and 6.

SubQuestion No : 40

Q.40 How many tents will be used between tent 6 and tent 5?

Ans

✗ 1. Three

✗ 2. Four

✗ 3. Two

✓ 4. One

Question ID : **63068083596**
Option 1 ID : **630680324033**
Option 2 ID : **630680324032**
Option 3 ID : **630680324034**
Option 4 ID : **630680324035**
Status : **Answered**
Chosen Option : **3**

Comprehension:

Study the given diagram carefully and answer the questions that follow. The numbers in the different sections indicate the number of clothing items.

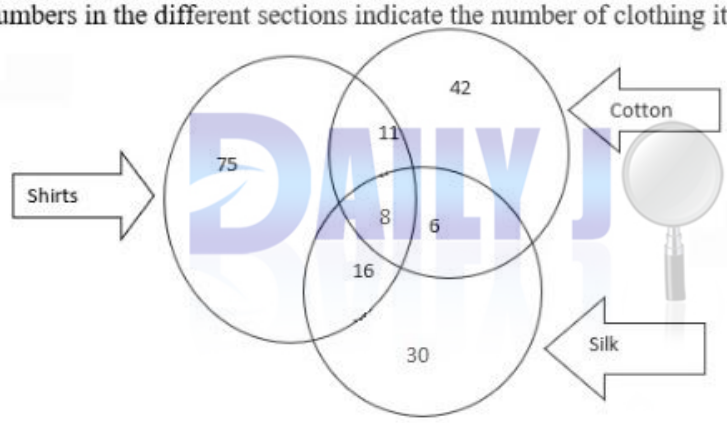

SubQuestion No : 41

Q.41 How many shirts are made of cotton as well as silk?

Ans

✓ 1. 8

✗ 2. 72

✗ 3. 33

✗ 4. 6

Question ID : **630680105565**
Option 1 ID : **630680410317**
Option 2 ID : **630680410318**
Option 3 ID : **630680410316**
Option 4 ID : **630680410315**
Status : **Answered**
Chosen Option : **4**

Website - www.dailyjobalert.in

Comprehension:

Study the given diagram carefully and answer the questions that follow. The numbers in the different sections indicate the number of clothing items.

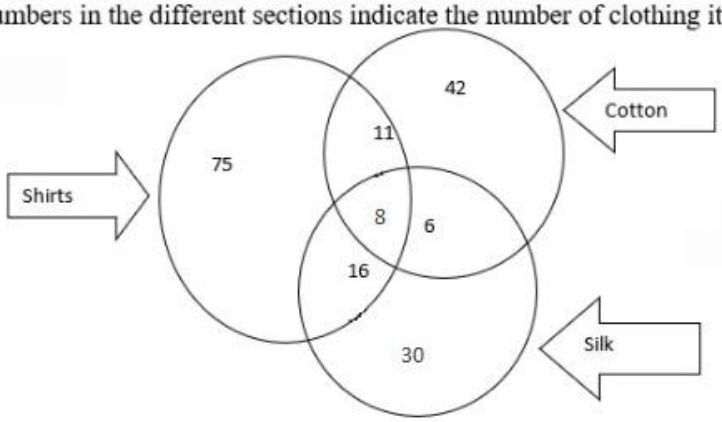

SubQuestion No : 42

Q.42 How many items of clothing are available for someone who wants only cotton clothing?

Ans
✔ 1. 53
✘ 2. 42
✘ 3. 11
✘ 4. 67

Question ID : **630680105566**
Option 1 ID : **630680410322**
Option 2 ID : **630680410319**
Option 3 ID : **630680410320**
Option 4 ID : **630680410321**
Status : **Answered**
Chosen Option : **2**

Comprehension:

In a certain code
'dogs are cute' is coded as 'ly uo pj'
'cats hate dogs' is coded as 'ky tr uo'
'let cats run' is coded as 'yt ky ew'

SubQuestion No : 43

Q.43 What does 'tr' stand for?

Ans
✔ 1. hate
✘ 2. run
✘ 3. cute
✘ 4. let

Question ID : **63068060288**
Option 1 ID : **630680232698**
Option 2 ID : **630680232699**
Option 3 ID : **630680232701**
Option 4 ID : **630680232700**
Status : **Answered**
Chosen Option : **1**

Website - www.dailyjobalert.in

Comprehension:

In a certain code
'dogs are cute' is coded as 'ly uo pj'
'cats hate dogs' is coded as 'ky tr uo'
'let cats run' is coded as 'yt ky ew'

SubQuestion No : 44

Q.44 What is the code for 'cat'?

Ans
✗ 1. ly
✗ 2. ew
✓ 3. ky
✗ 4. uo

Question ID : **63068060287**
Option 1 ID : **630680232694**
Option 2 ID : **630680232696**
Option 3 ID : **630680232695**
Option 4 ID : **630680232697**
Status : **Answered**
Chosen Option : **3**

Comprehension:

The following pie chart shows the percentage distribution of different types of TV sets produced by the company for 2,50,000 TV sets. Study the pie chart carefully and answer the following question.

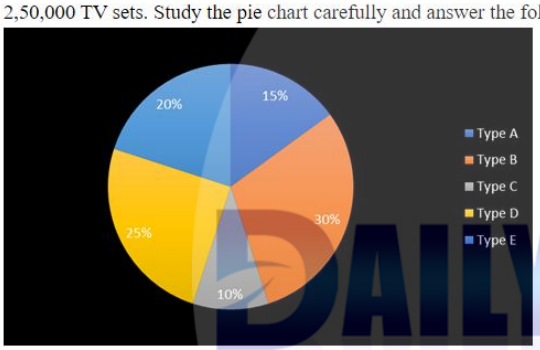

SubQuestion No : 45

Q.45 If 70% of the TV sets of Type B are sold by the company, then how many TV sets are left unsold of type B?

Ans
✗ 1. 17250
✗ 2. 25000
✗ 3. 20000
✓ 4. 22500

Question ID : **63068082718**
Option 1 ID : **630680320781**
Option 2 ID : **630680320782**
Option 3 ID : **630680320783**
Option 4 ID : **630680320780**
Status : **Answered**
Chosen Option : **4**

Website - www.dailyjobalert.in

Comprehension:

The following pie chart shows the percentage distribution of different types of TV sets produced by the company for 2,50,000 TV sets. Study the pie chart carefully and answer the following question.

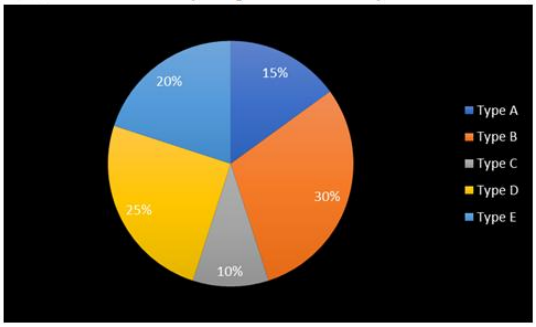

SubQuestion No : 46

Q.46 If 75% of the T.V. of type D is sold then how many perfect T.V. are left unsold of type D?

Ans

✗ 1. 11250

✓ 2. 15625

✗ 3. 15000

✗ 4. 8750

Question ID : **63068082719**
Option 1 ID : **630680320785**
Option 2 ID : **630680320787**
Option 3 ID : **630680320786**
Option 4 ID : **630680320784**
Status : **Answered**
Chosen Option : **2**

DAILY JOB Alert ਪੰਜਾਬ

Comprehension:

Study the below table and answer the given questions.

Year	Medical		Non-Medical		Arts		Commerce		Vocational	
	New	Left	New	Left	New	Left	New	Left	New	Left
2011	560	-	1400	-	680	-	1200	-	890	-
2012	240	140	672	140	256	140	200	130	150	46
2013	169	102	540	150	340	110	230	130	192	48
2014	158	98	346	80	210	150	260	100	176	86
2015	170	82	225	126	180	132	254	95	254	140
2016	153	56	345	153	260	154	300	90	300	154

SubQuestion No : 47

Q.47 For which course there is maximum enrolment of new students in 2013?

Ans

✔ 1. Non-Medical

✘ 2. Medical

✘ 3. Commerce

✘ 4. Arts

Question ID : **63068060553**
Option 1 ID : **630680233671**
Option 2 ID : **630680233670**
Option 3 ID : **630680233673**
Option 4 ID : **630680233672**
Status : **Answered**
Chosen Option : **2**

Website - www.dailyjobalert.in

Comprehension:

Study the below table and answer the given questions.

Year	Medical		Non-Medical		Arts		Commerce		Vocational	
	New	Left	New	Left	New	Left	New	Left	New	Left
2011	560	-	1400	-	680	-	1200	-	890	-
2012	240	140	672	140	256	140	200	130	150	46
2013	169	102	540	150	340	110	230	130	192	48
2014	158	98	346	80	210	150	260	100	176	86
2015	170	82	225	126	180	132	254	95	254	140
2016	153	56	345	153	260	154	300	90	300	154

SubQuestion No : 48

Q.48 How many students are studying the Arts course in the year 2013?

Ans

✗ 1. 340

✗ 2. 1276

✓ 3. 1026

✗ 4. 250

Question ID : **63068060552**
Option 1 ID : **630680233669**
Option 2 ID : **630680233666**
Option 3 ID : **630680233668**
Option 4 ID : **630680233667**
Status : **Answered**
Chosen Option : **1**

Website - www.dailyjobalert.in

Comprehension:

Read the given passage and answer the questions that follow.

The 73rd and 74th Constitutional Amendments of 1992, recognised the three-tier structure of the government by devolution of power to the local bodies, viz., panchayats in rural areas and municipalities in urban areas. With the passage of bills by the state legislatures and devolving powers and allocating revenue sources, these local bodies can become institutions of self-government.

SubQuestion No : 49

Q.49 Which of the following is an institution of self-government in rural area?

Ans

✗ 1. Municipalities

✗ 2. Block officer

✓ 3. District administration

✗ 4. Panchayat

Question ID : **630680248132**
Option 1 ID : **630680962707**
Option 2 ID : **630680962709**
Option 3 ID : **630680962710**
Option 4 ID : **630680962708**
Status : **Answered**
Chosen Option : **4**

Comprehension:

Read the given passage and answer the questions that follow.

The 73rd and 74th Constitutional Amendments of 1992, recognised the three-tier structure of the government by devolution of power to the local bodies, viz., panchayats in rural areas and municipalities in urban areas. With the passage of bills by the state legislatures and devolving powers and allocating revenue sources, these local bodies can become institutions of self-government.

SubQuestion No : 50

Q.50 The Panchayati Raj system was recognised by which of the following?

Ans

✗ 1. 56th Constitutional Amendment Act

✗ 2. 74th Constitutional Amendment Act

✓ 3. 73rd Constitutional Amendment Act

✗ 4. 102nd Constitutional Amendment Act

Question ID : **630680248131**
Option 1 ID : **630680962705**
Option 2 ID : **630680962704**
Option 3 ID : **630680962703**
Option 4 ID : **630680962706**
Status : **Answered**
Chosen Option : **3**

Section : **Digital Literacy and Computer Awareness**

Website - www.dailyjobalert.in

Q.51 Which of the following is an open-source web browser?

Ans
- ✗ 1. Internet Explorer
- ✗ 2. Microsoft Edge
- ✓ 3. Mozilla Firefox
- ✗ 4. Safari

Question ID : **630680247905**
Option 1 ID : **630680961828**
Option 2 ID : **630680961830**
Option 3 ID : **630680961827**
Option 4 ID : **630680961829**
Status : **Answered**
Chosen Option : **2**

Q.52 _____ is a complex program that searches documents containing a specified set of keywords.

Ans
- ✗ 1. Browser
- ✗ 2. Word
- ✗ 3. Safari
- ✓ 4. Search engine

Question ID : **630680247906**
Option 1 ID : **630680961833**
Option 2 ID : **630680961832**
Option 3 ID : **630680961834**
Option 4 ID : **630680961831**
Status : **Answered**
Chosen Option : **2**

Q.53 Which of the following is used as a presentation software in Mac computers?

Ans
- ✗ 1. Numbers
- ✗ 2. Note
- ✗ 3. Pages
- ✓ 4. Keynote

Question ID : **630680247899**
Option 1 ID : **630680961805**
Option 2 ID : **630680961806**
Option 3 ID : **630680961804**
Option 4 ID : **630680961803**
Status : **Answered**
Chosen Option : **4**

Website - www.dailyjobalert.in

Q.54 The central processing unit can be placed on one or more microchips called _____.

Ans
✔ 1. integrated circuits
✘ 2. capacitors
✘ 3. transistors
✘ 4. vacuum tubes

Question ID : **630680247888**
Option 1 ID : **630680961759**
Option 2 ID : **630680961762**
Option 3 ID : **630680961761**
Option 4 ID : **630680961760**
Status : **Answered**
Chosen Option : **2**

Q.55 In MS-Word 2016, which toolbar provides tools for saving, printing, cutting, copying and pasting?

Ans
✘ 1. Main toolbar
✔ 2. Standard toolbar
✘ 3. Formatting toolbar
✘ 4. Drawing toolbar

Question ID : **630680247894**
Option 1 ID : **630680961785**
Option 2 ID : **630680961783**
Option 3 ID : **630680961786**
Option 4 ID : **630680961784**
Status : **Answered**
Chosen Option : **1**

Q.56 What is the full form of 'VoIP'?

Ans
✘ 1. Voice over Instant Protocol
✘ 2. Voice over Integrated Protocol
✔ 3. Voice over Internet Protocol
✘ 4. Voice over Intranet Protocol

Question ID : **630680247910**
Option 1 ID : **630680961850**
Option 2 ID : **630680961849**
Option 3 ID : **630680961847**
Option 4 ID : **630680961848**
Status : **Answered**
Chosen Option : **3**

Website - www.dailyjobalert.in

Q.57 Who among the following founded WhatsApp?

Ans
✔ 1. Jan Koum and Brian Acton
✘ 2. James Gosling
✘ 3. Steve Jobs
✘ 4. Mark Zuckerberg

Question ID : **630680247913**
Option 1 ID : **630680961859**
Option 2 ID : **630680961860**
Option 3 ID : **630680961861**
Option 4 ID : **630680961862**
Status : **Answered**
Chosen Option : **1**

Q.58 Encryption is a _____ method in which information is encoded in such a way that only authorised user can read it.

Ans
✔ 1. security
✘ 2. debugging
✘ 3. computing
✘ 4. presenting

Question ID : **630680247914**
Option 1 ID : **630680961864**
Option 2 ID : **630680961863**
Option 3 ID : **630680961865**
Option 4 ID : **630680961866**
Status : **Answered**
Chosen Option : **1**

Q.59 Social media platforms are _____ or applications that allow users to create and share content or to participate in social networking.

Ans
✘ 1. software
✔ 2. websites
✘ 3. products
✘ 4. operating systems

Question ID : **630680247907**
Option 1 ID : **630680961836**
Option 2 ID : **630680961835**
Option 3 ID : **630680961837**
Option 4 ID : **630680961838**
Status : **Answered**
Chosen Option : **1**

Website - www.dailyjobalert.in

Q.60 In MS-Word 2016, which of the following keyboard shortcuts is used to start a new document?

Ans
✗ 1. Ctrl+O
✗ 2. Ctrl+S
✓ 3. Ctrl+N
✗ 4. Ctrl+D

Question ID : **630680247895**
Option 1 ID : **630680961788**
Option 2 ID : **630680961789**
Option 3 ID : **630680961787**
Option 4 ID : **630680961790**
Status : **Answered**
Chosen Option : **3**

Q.61 Who among the following introduced the concept of stored program computer, which was capable of storing data as well as programs in the memory?

Ans
✗ 1. Charles Babbage
✗ 2. Blaise Pascal
✓ 3. John Von Neumann
✗ 4. Herman Hollerith

Question ID : **630680247887**
Option 1 ID : **630680961756**
Option 2 ID : **630680961757**
Option 3 ID : **630680961755**
Option 4 ID : **630680961758**
Status : **Answered**
Chosen Option : **3**

Q.62 HTTPS works on Port No. ____.

Ans
✗ 1. 334
✓ 2. 443
✗ 3. 88
✗ 4. 43

Question ID : **630680247915**
Option 1 ID : **630680961867**
Option 2 ID : **630680961870**
Option 3 ID : **630680961868**
Option 4 ID : **630680961869**
Status : **Answered**
Chosen Option : **2**

Website - www.dailyjobalert.in

Q.63 In MS-Excel 2016, the _____ key is used to toggle between the absolute and relative modes of referencing cells.

Ans
✗ 1. F2
✗ 2. F3
✗ 3. F5
✓ 4. F4

Question ID : **630680247897**
Option 1 ID : **630680961797**
Option 2 ID : **630680961798**
Option 3 ID : **630680961796**
Option 4 ID : **630680961795**
Status : **Not Answered**
Chosen Option : **--**

Q.64 In MS-PowerPoint 2016, which of the following keyboard shortcuts is used to add a new slide?

Ans
✗ 1. Ctrl+N
✗ 2. Ctrl+O
✗ 3. Ctrl+P
✓ 4. Ctrl+M

Question ID : **630680247900**
Option 1 ID : **630680961808**
Option 2 ID : **630680961809**
Option 3 ID : **630680961810**
Option 4 ID : **630680961807**
Status : **Answered**
Chosen Option : **1**

Q.65 Which of the following is an example of a word processing software?

Ans
✗ 1. Webex
✗ 2. Excel
✗ 3. Zoom
✓ 4. KWrite

Question ID : **630680247893**
Option 1 ID : **630680961781**
Option 2 ID : **630680961782**
Option 3 ID : **630680961780**
Option 4 ID : **630680961779**
Status : **Answered**
Chosen Option : **4**

Website - www.dailyjobalert.in

Q.66 Which of the following operating systems comes only with a command-line interface?

Ans
✗ 1. Catalina
✓ 2. MS-DOS
✗ 3. Chrome OS
✗ 4. Windows XP

Question ID : **630680247890**
Option 1 ID : **630680961769**
Option 2 ID : **630680961767**
Option 3 ID : **630680961770**
Option 4 ID : **630680961768**
Status : **Not Answered**
Chosen Option : **--**

Q.67 ARPANET is a network of devices which was started by the American Department of Defence in the year _____.

Ans
✗ 1. 1968
✓ 2. 1969
✗ 3. 1979
✗ 4. 1958

Question ID : **630680247902**
Option 1 ID : **630680961816**
Option 2 ID : **630680961815**
Option 3 ID : **630680961817**
Option 4 ID : **630680961818**
Status : **Not Answered**
Chosen Option : **--**

Q.68 In MS-PowerPoint 365, the _____ tab in the ribbon lets you add comments or run spell-check.

Ans
✓ 1. Review
✗ 2. View
✗ 3. Format
✗ 4. Design

Question ID : **630680247901**
Option 1 ID : **630680961811**
Option 2 ID : **630680961814**
Option 3 ID : **630680961813**
Option 4 ID : **630680961812**
Status : **Answered**
Chosen Option : **1**

Website - www.dailyjobalert.in

Q.69 What is the full form of 'URL'?

Ans
✗ 1. Uniform Reference Locator
✓ 2. Uniform Resource Locator
✗ 3. Universal Resource Locator
✗ 4. Uniform Resource Loader

Question ID : **630680247903**
Option 1 ID : **630680961821**
Option 2 ID : **630680961819**
Option 3 ID : **630680961820**
Option 4 ID : **630680961822**
Status : **Answered**
Chosen Option : **2**

Q.70 The _____ lets users run programs on or give instructions to the computer in the form of icons, menus and other visual options.

Ans
✗ 1. joystick
✗ 2. mouse
✗ 3. keyboard
✓ 4. GUI

Question ID : **630680247892**
Option 1 ID : **630680961778**
Option 2 ID : **630680961777**
Option 3 ID : **630680961776**
Option 4 ID : **630680961775**
Status : **Answered**
Chosen Option : **4**

Q.71 A document or image stored on the hard disk or a pen drive is referred to as a _____.

Ans
✓ 1. soft copy
✗ 2. saved copy
✗ 3. printed copy
✗ 4. hard copy

Question ID : **630680247889**
Option 1 ID : **630680961763**
Option 2 ID : **630680961766**
Option 3 ID : **630680961765**
Option 4 ID : **630680961764**
Status : **Answered**
Chosen Option : **2**

Website - www.dailyjobalert.in

Q.72 Which of the following social media platforms is considered as the largest professional network?

Ans
✔ 1. LinkedIn
✘ 2. Snapchat
✘ 3. TikTok
✘ 4. Facebook

Question ID : **630680247909**
Option 1 ID : **630680961843**
Option 2 ID : **630680961845**
Option 3 ID : **630680961846**
Option 4 ID : **630680961844**
Status : **Answered**
Chosen Option : **1**

Q.73 Which of the following is a social media application?

Ans
✘ 1. Google
✘ 2. Yahoo
✘ 3. Bingo
✔ 4. Quora

Question ID : **630680247908**
Option 1 ID : **630680961841**
Option 2 ID : **630680961839**
Option 3 ID : **630680961840**
Option 4 ID : **630680961842**
Status : **Answered**
Chosen Option : **4**

Q.74 Which of the following is NOT a mobile protection tool?

Ans
✘ 1. zIPS
✔ 2. Canva
✘ 3. WISeID
✘ 4. Lookout

Question ID : **630680247916**
Option 1 ID : **630680961871**
Option 2 ID : **630680961874**
Option 3 ID : **630680961872**
Option 4 ID : **630680961873**
Status : **Not Answered**
Chosen Option : **--**

Q.75 Which of the following is an example of an operating system?

Ans
✘ 1. Safari
✘ 2. GIMP
✘ 3. Edge
✔ 4. Linux

Question ID : **630680247891**
Option 1 ID : **630680961772**
Option 2 ID : **630680961774**
Option 3 ID : **630680961773**
Option 4 ID : **630680961771**
Status : **Answered**
Chosen Option : **4**

Website - www.dailyjobalert.in

Q.76 What is the default column height of a cell in MS-Excel 365?

Ans
1. 9.21 points
2. 8.43 points
3. 15 points
4. 11.00 points

Question ID : **630680247898**
Option 1 ID : **630680961801**
Option 2 ID : **630680961800**
Option 3 ID : **630680961799**
Option 4 ID : **630680961802**
Status : **Not Answered**
Chosen Option : **--**

Q.77 _____ allows us to perform detailed analysis of numerical data.

Ans
1. A calculator
2. A word processor
3. A spreadsheet
4. Microsoft OneNote

Question ID : **630680247896**
Option 1 ID : **630680961793**
Option 2 ID : **630680961792**
Option 3 ID : **630680961791**
Option 4 ID : **630680961794**
Status : **Answered**
Chosen Option : **3**

Q.78 Which of the following was the first web browser developed by the National Centre for Supercomputing Applications?

Ans
1. Mozilla
2. Opera
3. Mosaic
4. Netscape

Question ID : **630680247904**
Option 1 ID : **630680961826**
Option 2 ID : **630680961825**
Option 3 ID : **630680961823**
Option 4 ID : **630680961824**
Status : **Answered**
Chosen Option : **3**

Q.79 Which of the following is NOT an instant messaging application?

Ans
1. Signal
2. Viber
3. Uber
4. WhatsApp

Question ID : **630680247912**
Option 1 ID : **630680961856**
Option 2 ID : **630680961857**
Option 3 ID : **630680961858**
Option 4 ID : **630680961855**
Status : **Answered**
Chosen Option : **1**

Website - www.dailyjobalert.in

Q.80 **Voice is converted into a/an _____ by VoIP services, which travels over the internet.**

Ans
✗ 1. analogue signal
✗ 2. optical signal
✗ 3. sound signal
✓ 4. digital signal

Question ID : **630680247911**
Option 1 ID : **630680961852**
Option 2 ID : **630680961853**
Option 3 ID : **630680961854**
Option 4 ID : **630680961851**
Status : **Answered**
Chosen Option : **3**

Section : **English Language**

Q.81 **Select the option that correctly rearranges the given set of disarranged fragments into a logical and meaningful sentence.**
through persistent relations / the same political authority / or a human society, is with each other, or a large social grouping / typically subject to / sharing the same geographical or social territory, and dominant cultural expectations / a society / a group of people involved

Ans
✗ 1. A human society, is a group of people involved with each other through persistent relations, or a society, or a large social grouping sharing the same territory, typically geographical or social subject to political authority and dominant cultural expectations the same.
✗ 2. A society, or a human society, is a group of people involved same political authority and, or a large social grouping sharing the same geographical or social territory with each other through persistent relations, typically subject to the dominant cultural expectations.
✗ 3. A society, is a group of people involved with each other through persistent relations, or or a human society, a large social grouping the same geographical or social territory, typically subject to the same political authority and sharing dominant cultural expectations.
✓ 4. A society, or a human society, is a group of people involved with each other through persistent relations, or a large social grouping sharing the same geographical or social territory, typically subject to the same political authority and dominant cultural expectations.

Question ID : **630680113799**
Option 1 ID : **630680440723**
Option 2 ID : **630680440724**
Option 3 ID : **630680440725**
Option 4 ID : **630680440722**
Status : **Answered**
Chosen Option : **4**

Q.82 **Identity the error in the given sentence.**

We should not believe in certain divided politics and polycies.

Ans
✗ 1. politics
✗ 2. should
✓ 3. polycies
✗ 4. believe

Question ID : **63068066501**
Option 1 ID : **630680256875**
Option 2 ID : **630680256874**
Option 3 ID : **630680256877**
Option 4 ID : **630680256876**
Status : **Answered**
Chosen Option : **3**

Website - www.dailyjobalert.in

Q.83 **Complete the following sentence with an appropriate homophone from the given options.**
The protesting doctors refused to treat the _____of patients who were waiting outside.

Ans
✗ 1. hoard
✓ 2. horde
✗ 3. hourd
✗ 4. hoarde

Question ID : **63068084475**
Option 1 ID : **630680327452**
Option 2 ID : **630680327454**
Option 3 ID : **630680327455**
Option 4 ID : **630680327453**
Status : **Answered**
Chosen Option : **1**

Q.84 **Complete the following sentence with an appropriate homophone from the given options.**
It is unfortunate that the company is in dire _____.

Ans
✗ 1. straights
✗ 2. streights
✓ 3. straits
✗ 4. stratas

Question ID : **63068084476**
Option 1 ID : **630680327456**
Option 2 ID : **630680327458**
Option 3 ID : **630680327457**
Option 4 ID : **630680327459**
Status : **Answered**
Chosen Option : **1**

Q.85 **Select the most appropriate article to fill in the blank.**

The teacher left the house without _____ umbrella.

Ans
✗ 1. a
✗ 2. No article required
✗ 3. the
✓ 4. an

Question ID : **63068067351**
Option 1 ID : **630680260226**
Option 2 ID : **630680260229**
Option 3 ID : **630680260228**
Option 4 ID : **630680260227**
Status : **Answered**
Chosen Option : **4**

Website - www.dailyjobalert.in

Q.86 Identify the adjective in the given sentence.
Swimming is a healthy exercise.

Ans
✗ 1. Is
✓ 2. Healthy
✗ 3. Exercise
✗ 4. Swimming

Question ID : **630680167240**
Option 1 ID : **630680647733**
Option 2 ID : **630680647734**
Option 3 ID : **630680647735**
Option 4 ID : **630680647732**
Status : **Answered**
Chosen Option : **2**

Q.87 Select the most appropriate adjective to fill in the blank.
She saves _____ money every month.

Ans
✗ 1. little
✗ 2. most
✗ 3. much
✓ 4. a little

Question ID : **630680144497**
Option 1 ID : **630680559054**
Option 2 ID : **630680559057**
Option 3 ID : **630680559055**
Option 4 ID : **630680559056**
Status : **Answered**
Chosen Option : **4**

Q.88 "ਰੱਬ 'ਤੇ ਹਮੇਸ਼ਾ ਭਰੋਸਾ ਰੱਖੋ" ਇਸ ਵਾਕ ਦਾ ਅੰਗਰੇਜ਼ੀ ਅਨੁਵਾਦ ਹੈ:-

Ans
✗ 1. Have belief in God .
✗ 2. Always trust in your God.
✗ 3. Have trust on God always.
✓ 4. Always believe in God.

Question ID : **630680248103**
Option 1 ID : **630680962619**
Option 2 ID : **630680962622**
Option 3 ID : **630680962621**
Option 4 ID : **630680962620**
Status : **Answered**
Chosen Option : **1**

DAILY JOB Alert ਪੰਜਾਬ

Q.89 **Sentences of a paragraph are given below. While the first and the last sentences (S1 and S6) are in the correct order, the sentences in between are jumbled up. Arrange the sentences in the correct order to form a meaningful and coherent paragraph.**
S1. And with that,
P. the old man vanished
Q. like the fluttering of a million insect wings
R. Instantly, Johnny heard a horrible rustling sound
S. and the room was plunged into darkness
S6. echoing all around him.

Ans
✗ 1. SQPR
✗ 2. RPSQ
✓ 3. PSRQ
✗ 4. QRSP

Question ID : **63068067089**
Option 1 ID : **630680259186**
Option 2 ID : **630680259188**
Option 3 ID : **630680259189**
Option 4 ID : **630680259187**
Status : **Answered**
Chosen Option : **3**

Q.90 **Select the most appropriate ANTONYM of the given word.**
Evanescent

Ans
✗ 1. Fragrant
✗ 2. Dreamy
✗ 3. Dull
✓ 4. Permanent

Question ID : **630680146612**
Option 1 ID : **630680567332**
Option 2 ID : **630680567333**
Option 3 ID : **630680567331**
Option 4 ID : **630680567330**
Status : **Answered**
Chosen Option : **1**

Q.91 **The following sentence has been split into four segments. Identify the segment that contains a grammatical error.**
When I want / to take up two professions, / I do not give equally importance / to those two professions.

Ans
✗ 1. to take up two professions
✗ 2. When I want
✓ 3. I do not give equally importance
✗ 4. to those two professions

Question ID : **630680162350**
Option 1 ID : **630680628697**
Option 2 ID : **630680628696**
Option 3 ID : **630680628698**
Option 4 ID : **630680628699**
Status : **Answered**
Chosen Option : **1**

Website - www.dailyjobalert.in

Q.92 Select the most appropriate option to fill in the blank.

There are two essential points which I would like _____ in this meeting.

Ans
✗ 1. to bring
✗ 2. to do
✗ 3. to put
✓ 4. to raise

Question ID : **630680121891**
Option 1 ID : **630680472507**
Option 2 ID : **630680472509**
Option 3 ID : **630680472508**
Option 4 ID : **630680472506**
Status : **Answered**
Chosen Option : **4**

Q.93 Select the option that can be used as a one-word substitute for the given group of words.

It is the statement, oral or written, of an exchange of promises.

Ans
✗ 1. Entitlement
✗ 2. Establishment
✗ 3. Development
✓ 4. Agreement

Question ID : **630680129756**
Option 1 ID : **630680502622**
Option 2 ID : **630680502625**
Option 3 ID : **630680502623**
Option 4 ID : **630680502624**
Status : **Answered**
Chosen Option : **4**

Q.94 Select the most appropriate ANTONYM of the underlined word.

Tagore <u>established</u> Shanti Niketan.

Ans
✗ 1. Secured
✓ 2. Disproved
✗ 3. Deduced
✗ 4. Defaulted on

Question ID : **630680120852**
Option 1 ID : **630680468385**
Option 2 ID : **630680468382**
Option 3 ID : **630680468383**
Option 4 ID : **630680468384**
Status : **Answered**
Chosen Option : **2**

Website - www.dailyjobalert.in

Q.95 Select the option that can be used as a one-word substitute for the given group of words.

It is an excessively sentimental yearning for some past period of time.

Ans
- ✗ 1. Neuralgia
- ✗ 2. Bargain
- ✗ 3. Neutral
- ✓ 4. Nostalgia

Question ID : **630680129759**
Option 1 ID : **630680502635**
Option 2 ID : **630680502637**
Option 3 ID : **630680502636**
Option 4 ID : **630680502634**
Status : **Answered**
Chosen Option : **4**

Comprehension:

Read the given passage and answer the questions that follow.
As the news of the atomic attack by America on Japanese cities, Hiroshima and Nagasaki, reached Einstein, he became aware of the glaring horror of the abuse of atomic energy. His distress and restlessness knew no bounds. He could not control himself and picked up his violin to turn his mind on to other things. While playing the violin, he tried to dissolve his distress in its sad notes but couldn't. He was burning on the embers of destruction; his heart was filled with an ocean of agony and tears just continued streaming uncontrollably out of his eyes. Night had fallen. His daughter came up and asked him to eat something as he had not taken anything for the last four days. His voice was restrained, and he said, "I don't feel like eating." He could not sleep that night. Lying down, he was thinking how he had drawn the attention of the then American President Roosevelt towards the destructive powers of an atomic bomb. He had thought that this would be used to scare Hitler and put an end to the barbarism that Hitler was up to. However, Roosevelt kept him in the dark and made false promises. Eventually, he had abused Einstein's equation of E=MC2 that resulted in destructive experiments. His actions had made science and scientists as murderers. Einstein kept on thinking for a long time. Eventually, he slipped into sleep. When he woke up at dawn, there was a new dawn in him too. The atomic threat had transformed his heart. The next day, he decided to disassociate himself from the scientific policy of the government and all governmental institutions. He decided to open educational institutions for children, adolescents, and youth – institutions where along with science, spirituality will be compulsorily taught. To inaugurate this institution, he had invited two great philosophers, Bertrand Russell and Albert Schweitzer. Ten other great scientists who had won Nobel Prizes in different fields were also invited. They all saw a different Einstein, not a great scientist but a sage in him. The institution was opened by garlanding a photo of Mahatma Gandhi. While garlanding the Mahatma, he became emotional and said with a lump in his throat, "I bow down to the great man who fought for the independence of his country through non-violence. He could do so because he was a truthful man and true spiritualist. Those who teach science should be taught spirituality too. Without harmony between science and spirituality, the destruction would continue unabated. A few years after this institution was built, a Japanese delegation came to meet him. Einstein broke down in the meeting and said, "You can give me any punishment and I will accept it. Anyway, I have decided to lead my life in penitence." The Japanese were moved by his sincerity and forgot their grief.

SubQuestion No : 96

Q.96 Why was Einstein's heart filled with agony?

Ans
- ✗ 1. Because he made false promises to Roosevelt
- ✗ 2. Because he was unable to concentrate on violin
- ✓ 3. Because he was unhappy about the abuse of atomic energy
- ✗ 4. Because he was a spiritually incapable person

Question ID : **630680181967**
Option 1 ID : **630680705095**
Option 2 ID : **630680705097**
Option 3 ID : **630680705096**
Option 4 ID : **630680705094**
Status : **Answered**
Chosen Option : **3**

Website - www.dailyjobalert.in

Comprehension:

Read the given passage and answer the questions that follow.
As the news of the atomic attack by America on Japanese cities, Hiroshima and Nagasaki, reached Einstein, he became aware of the glaring horror of the abuse of atomic energy. His distress and restlessness knew no bounds. He could not control himself and picked up his violin to turn his mind on to other things. While playing the violin, he tried to dissolve his distress in its sad notes but couldn't. He was burning on the embers of destruction; his heart was filled with an ocean of agony and tears just continued streaming uncontrollably out of his eyes. Night had fallen. His daughter came up and asked him to eat something as he had not taken anything for the last four days. His voice was restrained, and he said, "I don't feel like eating." He could not sleep that night. Lying down, he was thinking how he had drawn the attention of the then American President Roosevelt towards the destructive powers of an atomic bomb. He had thought that this would be used to scare Hitler and put an end to the barbarism that Hitler was up to. However, Roosevelt kept him in the dark and made false promises. Eventually, he had abused Einstein's equation of E=MC2 that resulted in destructive experiments. His actions had made science and scientists as murderers. Einstein kept on thinking for a long time. Eventually, he slipped into sleep. When he woke up at dawn, there was a new dawn in him too. The atomic threat had transformed his heart. The next day, he decided to disassociate himself from the scientific policy of the government and all governmental institutions. He decided to open educational institutions for children, adolescents, and youth – institutions where along with science, spirituality will be compulsorily taught. To inaugurate this institution, he had invited two great philosophers, Bertrand Russell and Albert Schweitzer. Ten other great scientists who had won Nobel Prizes in different fields were also invited. They all saw a different Einstein, not a great scientist but a sage in him. The institution was opened by garlanding a photo of Mahatma Gandhi. While garlanding the Mahatma, he became emotional and said with a lump in his throat, "I bow down to the great man who fought for the independence of his country through non-violence. He could do so because he was a truthful man and true spiritualist. Those who teach science should be taught spirituality too. Without harmony between science and spirituality, the destruction would continue unabated. A few years after this institution was built, a Japanese delegation came to meet him. Einstein broke down in the meeting and said, "You can give me any punishment and I will accept it. Anyway, I have decided to lead my life in penitence." The Japanese were moved by his sincerity and forgot their grief.

SubQuestion No : 97

Q.97 According to the passage, which of the following is NOT a correct statement?

Ans

✗ 1. Atomic threat had transformed Einstein into a great sage.

✗ 2. Einstein played the violin to dissolve his distress.

✓ 3. There is no need of harmony between science and spirituality.

✗ 4. Roosevelt's actions had made science and scientists murderers.

Question ID : **630680181968**
Option 1 ID : **630680705098**
Option 2 ID : **630680705101**
Option 3 ID : **630680705100**
Option 4 ID : **630680705099**
Status : **Answered**
Chosen Option : **3**

Website - www.dailyjobalert.in

Comprehension:

Read the given passage and answer the questions that follow.
As the news of the atomic attack by America on Japanese cities, Hiroshima and Nagasaki, reached Einstein, he became aware of the glaring horror of the abuse of atomic energy. His distress and restlessness knew no bounds. He could not control himself and picked up his violin to turn his mind on to other things. While playing the violin, he tried to dissolve his distress in its sad notes but couldn't. He was burning on the embers of destruction; his heart was filled with an ocean of agony and tears just continued streaming uncontrollably out of his eyes. Night had fallen. His daughter came up and asked him to eat something as he had not taken anything for the last four days. His voice was restrained, and he said, "I don't feel like eating." He could not sleep that night. Lying down, he was thinking how he had drawn the attention of the then American President Roosevelt towards the destructive powers of an atomic bomb. He had thought that this would be used to scare Hitler and put an end to the barbarism that Hitler was up to. However, Roosevelt kept him in the dark and made false promises. Eventually, he had abused Einstein's equation of E=MC2 that resulted in destructive experiments. His actions had made science and scientists as murderers. Einstein kept on thinking for a long time. Eventually, he slipped into sleep. When he woke up at dawn, there was a new dawn in him too. The atomic threat had transformed his heart. The next day, he decided to disassociate himself from the scientific policy of the government and all governmental institutions. He decided to open educational institutions for children, adolescents, and youth – institutions where along with science, spirituality will be compulsorily taught. To inaugurate this institution, he had invited two great philosophers, Bertrand Russell and Albert Schweitzer. Ten other great scientists who had won Nobel Prizes in different fields were also invited. They all saw a different Einstein, not a great scientist but a sage in him. The institution was opened by garlanding a photo of Mahatma Gandhi. While garlanding the Mahatma, he became emotional and said with a lump in his throat, "I bow down to the great man who fought for the independence of his country through non-violence. He could do so because he was a truthful man and true spiritualist. Those who teach science should be taught spirituality too. Without harmony between science and spirituality, the destruction would continue unabated. A few years after this institution was built, a Japanese delegation came to meet him. Einstein broke down in the meeting and said, "You can give me any punishment and I will accept it. Anyway, I have decided to lead my life in penitence." The Japanese were moved by his sincerity and forgot their grief.

SubQuestion No : 98

Q.98 Select the most suitable ANTONYM of the given word.
Embers

Ans
✗ 1. Residue
✗ 2. Ashes
✓ 3. Crystals
✗ 4. Cinders

DAILY JOB Alert ਪੰਜਾਬ

Question ID : **630680181966**
Option 1 ID : **630680705092**
Option 2 ID : **630680705091**
Option 3 ID : **630680705090**
Option 4 ID : **630680705093**
Status : **Answered**
Chosen Option : **1**

Comprehension:

Read the given passage and answer the questions that follow.
As the news of the atomic attack by America on Japanese cities, Hiroshima and Nagasaki, reached Einstein, he became aware of the glaring horror of the abuse of atomic energy. His distress and restlessness knew no bounds. He could not control himself and picked up his violin to turn his mind on to other things. While playing the violin, he tried to dissolve his distress in its sad notes but couldn't. He was burning on the embers of destruction; his heart was filled with an ocean of agony and tears just continued streaming uncontrollably out of his eyes. Night had fallen. His daughter came up and asked him to eat something as he had not taken anything for the last four days. His voice was restrained, and he said, "I don't feel like eating." He could not sleep that night. Lying down, he was thinking how he had drawn the attention of the then American President Roosevelt towards the destructive powers of an atomic bomb. He had thought that this would be used to scare Hitler and put an end to the barbarism that Hitler was up to. However, Roosevelt kept him in the dark and made false promises. Eventually, he had abused Einstein's equation of E=MC2 that resulted in destructive experiments. His actions had made science and scientists as murderers. Einstein kept on thinking for a long time. Eventually, he slipped into sleep. When he woke up at dawn, there was a new dawn in him too. The atomic threat had transformed his heart. The next day, he decided to disassociate himself from the scientific policy of the government and all governmental institutions. He decided to open educational institutions for children, adolescents, and youth – institutions where along with science, spirituality will be compulsorily taught. To inaugurate this institution, he had invited two great philosophers, Bertrand Russell and Albert Schweitzer. Ten other great scientists who had won Nobel Prizes in different fields were also invited. They all saw a different Einstein, not a great scientist but a sage in him. The institution was opened by garlanding a photo of Mahatma Gandhi. While garlanding the Mahatma, he became emotional and said with a lump in his throat, "I bow down to the great man who fought for the independence of his country through non-violence. He could do so because he was a truthful man and true spiritualist. Those who teach science should be taught spirituality too. Without harmony between science and spirituality, the destruction would continue unabated. A few years after this institution was built, a Japanese delegation came to meet him. Einstein broke down in the meeting and said, "You can give me any punishment and I will accept it. Anyway, I have decided to lead my life in penitence." The Japanese were moved by his sincerity and forgot their grief.

SubQuestion No : 99

Q.99 Select the most appropriate word from the passage which means: Self-punishment.

Ans

✗ 1. Restrain

✗ 2. Destruct

✓ 3. Penitence

✗ 4. Barbarism

Question ID : **630680181965**
Option 1 ID : **630680705087**
Option 2 ID : **630680705089**
Option 3 ID : **630680705088**
Option 4 ID : **630680705086**
Status : **Answered**
Chosen Option : **1**

Website - www.dailyjobalert.in

Comprehension:

Read the given passage and answer the questions that follow.
As the news of the atomic attack by America on Japanese cities, Hiroshima and Nagasaki, reached Einstein, he became aware of the glaring horror of the abuse of atomic energy. His distress and restlessness knew no bounds. He could not control himself and picked up his violin to turn his mind on to other things. While playing the violin, he tried to dissolve his distress in its sad notes but couldn't. He was burning on the embers of destruction; his heart was filled with an ocean of agony and tears just continued streaming uncontrollably out of his eyes. Night had fallen. His daughter came up and asked him to eat something as he had not taken anything for the last four days. His voice was restrained, and he said, "I don't feel like eating." He could not sleep that night. Lying down, he was thinking how he had drawn the attention of the then American President Roosevelt towards the destructive powers of an atomic bomb. He had thought that this would be used to scare Hitler and put an end to the barbarism that Hitler was up to. However, Roosevelt kept him in the dark and made false promises. Eventually, he had abused Einstein's equation of E=MC2 that resulted in destructive experiments. His actions had made science and scientists as murderers. Einstein kept on thinking for a long time. Eventually, he slipped into sleep. When he woke up at dawn, there was a new dawn in him too. The atomic threat had transformed his heart. The next day, he decided to disassociate himself from the scientific policy of the government and all governmental institutions. He decided to open educational institutions for children, adolescents, and youth – institutions where along with science, spirituality will be compulsorily taught. To inaugurate this institution, he had invited two great philosophers, Bertrand Russell and Albert Schweitzer. Ten other great scientists who had won Nobel Prizes in different fields were also invited. They all saw a different Einstein, not a great scientist but a sage in him. The institution was opened by garlanding a photo of Mahatma Gandhi. While garlanding the Mahatma, he became emotional and said with a lump in his throat, "I bow down to the great man who fought for the independence of his country through non-violence. He could do so because he was a truthful man and true spiritualist. Those who teach science should be taught spirituality too. Without harmony between science and spirituality, the destruction would continue unabated. A few years after this institution was built, a Japanese delegation came to meet him. Einstein broke down in the meeting and said, "You can give me any punishment and I will accept it. Anyway, I have decided to lead my life in penitence." The Japanese were moved by his sincerity and forgot their grief.

SubQuestion No : 100

Q.100 Why did Einstein ask for punishment from the Japanese delegation that came to meet him at his institution?

Ans

✗ 1. Because he decided to disassociate himself from the scientific policy of the government and all governmental institutions

✓ 2. Because he held himself responsible for the attacks made on the Japanese cities, Hiroshima and Nagasaki

✗ 3. Because he was a truthful man and a true spiritualist

✗ 4. Because he thought he would be able to put an end to the policy of Hitler but was not able to do so

Question ID : **630680181969**
Option 1 ID : **630680705102**
Option 2 ID : **630680705103**
Option 3 ID : **630680705104**
Option 4 ID : **630680705105**
Status : **Answered**
Chosen Option : **3**

Section : **Qualifying Test of Punjabi Language**

Website - www.dailyjobalert.in

Q.1 ਹੇਠ ਲਿਖਿਆਂ ਵਿੱਚੋਂ ਕਿਸ ਵਾਕ ਵਿਚ ਵਿਸਰਾਮ ਚਿੰਨ੍ਹਾਂ ਦੀ ਠੀਕ ਵਰਤੋਂ ਹੋਈ ਹੈ?

Ans
✔ 1. ਮਾਸਟਰ ਜੀ, ਅੱਜ ਤੁਸੀਂ ਛੁੱਟੀਆਂ ਦਾ ਕੰਮ ਵੇਖਣਾ ਏ।
✘ 2. ਮਾਸਟਰ ਜੀ! ਅੱਜ ਤੁਸੀਂ, ਛੁੱਟੀਆਂ ਦਾ, ਕੰਮ ਵੇਖਣਾ ਏ।
✘ 3. "ਮਾਸਟਰ ਜੀ" ਅੱਜ ਤੁਸੀਂ, ਛੁੱਟੀਆਂ, ਦਾ ਕੰਮ ਵੇਖਣਾ ਏ!
✘ 4. ਮਾਸਟਰ, ਜੀ! ਅੱਜ ਤੁਸੀਂ ਛੁੱਟੀਆਂ! ਦਾ ਕੰਮ ਵੇਖਣਾ ਏ?

Question ID : **630680248501**
Option 1 ID : **630680964150**
Option 2 ID : **630680964149**
Option 3 ID : **630680964147**
Option 4 ID : **630680964148**
Status : **Answered**
Chosen Option : **2**

Q.2 Notification ਸ਼ਬਦ ਦਾ ਪੰਜਾਬੀ ਅਨੁਵਾਦ ਕੀ ਹੈ?

Ans
✘ 1. ਰੋਜ਼ਨਾਮਚਾ
✔ 2. ਅਧਿਸੂਚਨਾ
✘ 3. ਮੌਤ ਦੀ ਸੂਚਨਾ
✘ 4. ਸੱਦਾ-ਪੱਤਰ

Question ID : **630680248505**
Option 1 ID : **630680964166**
Option 2 ID : **630680964165**
Option 3 ID : **630680964163**
Option 4 ID : **630680964164**
Status : **Answered**
Chosen Option : **2**

Q.3 ਅਣਗਿਣਤ ਸ਼ਬਦ ਵਿਚ ਕਿਹੜਾ ਅਗੇਤਰ ਹੈ:

Ans
✔ 1. ਅਣ
✘ 2. ਅਣਗਿ
✘ 3. ਅਣਇ
✘ 4. ਅ

Question ID : **630680248494**
Option 1 ID : **630680964122**
Option 2 ID : **630680964119**
Option 3 ID : **630680964120**
Option 4 ID : **630680964121**
Status : **Answered**
Chosen Option : **1**

Q.4 'ਅੰਤ' ਦਾ ਵਿਰੋਧੀ ਸ਼ਬਦ ਹੈ:

Ans
✔ 1. ਸ਼ੁਰੂ
✘ 2. ਓੜਕ
✘ 3. ਛੇਕੜ
✘ 4. ਅਖੀਰ

Question ID : **630680248465**
Option 1 ID : **630680964006**
Option 2 ID : **630680964005**
Option 3 ID : **630680964003**
Option 4 ID : **630680964004**
Status : **Answered**
Chosen Option : **1**

Website - www.dailyjobalert.in

Q.5 'ਓੜਕ' ਦਾ ਸਮਾਨਾਰਥਕ ਸ਼ਬਦ ਹੈ:

Ans
1. ਅਗਾਊ
2. ਪਹਿਲਾਂ
3. ਛੇਕੜ
4. ਆਰੰਭ

Question ID : **630680248463**
Option 1 ID : **630680963996**
Option 2 ID : **630680963998**
Option 3 ID : **630680963995**
Option 4 ID : **630680963997**
Status : **Answered**
Chosen Option : **3**

Q.6 ਦੇਸੀ ਸਾਲ _____ ਮਹੀਨੇ ਤੋਂ ਆਰੰਭ ਹੁੰਦਾ ਹੈ।

Ans
1. ਚੇਤ
2. ਮੱਘਰ
3. ਵਿਸਾਖ
4. ਪੋਹ

Question ID : **630680248509**
Option 1 ID : **630680964180**
Option 2 ID : **630680964182**
Option 3 ID : **630680964179**
Option 4 ID : **630680964181**
Status : **Answered**
Chosen Option : **1**

Q.7 'ਈਦ ਦਾ ਚੰਦ ਹੋਣਾ' ਮੁਹਾਵਰੇ ਦਾ ਅਰਥ ਹੈ:

Ans
1. ਬਹੁਤ ਦੇਰ ਬਾਅਦ ਮਿਲਣਾ
2. ਬਹੁਤ ਦੂਰ ਹੋਣਾ
3. ਚੰਦ ਵਰਗੇ ਸੋਹਣੇ ਪੁਰਸ ਨੂੰ ਮਿਲਣਾ
4. ਚਮਕਣਾ

Question ID : **630680248475**
Option 1 ID : **630680964043**
Option 2 ID : **630680964046**
Option 3 ID : **630680964044**
Option 4 ID : **630680964045**
Status : **Answered**
Chosen Option : **1**

Q.8 ਲਾਪਰਵਾਹ ਸ਼ਬਦ ਵਿਚ ਕਿਹੜਾ ਅਗੇਤਰ ਹੈ:

Ans
1. ਆਪਰ
2. ਲਾਪਰ
3. ਲਾਪ
4. ਲਾ

Question ID : **630680248492**
Option 1 ID : **630680964114**
Option 2 ID : **630680964111**
Option 3 ID : **630680964113**
Option 4 ID : **630680964112**
Status : **Answered**
Chosen Option : **4**

Website - www.dailyjobalert.in

Q.9 'ਕੁੜੀ' ਸ਼ਬਦ ਦਾ ਵਚਨ ਬਦਲੋ:

Ans
- ✗ 1. ਨਾਰੀਆਂ
- ✓ 2. ਕੁੜੀਆਂ
- ✗ 3. ਕੁੜੇ
- ✗ 4. ਔਰਤਾਂ

Question ID : **630680248489**
Option 1 ID : **630680964102**
Option 2 ID : **630680964099**
Option 3 ID : **630680964100**
Option 4 ID : **630680964101**
Status : **Answered**
Chosen Option : **2**

Q.10 ਮੁਹਾਵਰੇ ਵਿਚਲੀ ਖ਼ਾਲੀ ਥਾਂ ਭਰੋ: ਉਲਟਾ ਚੋਰ _____ ਨੂੰ ਡਾਟੇ

Ans
- ✓ 1. ਕੋਤਵਾਲ
- ✗ 2. ਸਾਧ
- ✗ 3. ਮਾਸਟਰ
- ✗ 4. ਸਰਪੰਚ

Question ID : **630680248479**
Option 1 ID : **630680964060**
Option 2 ID : **630680964062**
Option 3 ID : **630680964061**
Option 4 ID : **630680964059**
Status : **Answered**
Chosen Option : **1**

Q.11 ਅੱਗੇ ਲਿਖੇ ਬਹੁਤੇ ਸ਼ਬਦਾਂ ਲਈ ਇਕ ਸ਼ਬਦ ਚੁਣੋ: ਉਹ ਥਾਂ ਜੋ ਸਭ ਦੀ ਸਾਂਝੀ ਹੋਵੇ

Ans
- ✗ 1. ਵਿਰਾਸਤ
- ✗ 2. ਭੂਮੀ
- ✗ 3. ਨਿੱਜੀ
- ✓ 4. ਸ਼ਾਮਲਾਟ

Question ID : **630680248473**
Option 1 ID : **630680964036**
Option 2 ID : **630680964038**
Option 3 ID : **630680964035**
Option 4 ID : **630680964037**
Status : **Answered**
Chosen Option : **4**

Q.12 'ਭਤੀਜਾ' ਸ਼ਬਦ ਦਾ ਲਿੰਗ ਬਦਲੋ:

Ans
- ✗ 1. ਭਤੀਜੇ
- ✓ 2. ਭਤੀਜੀ
- ✗ 3. ਭਣੇਵੀ
- ✗ 4. ਭੈਣ

Question ID : **630680248484**
Option 1 ID : **630680964080**
Option 2 ID : **630680964081**
Option 3 ID : **630680964079**
Option 4 ID : **630680964082**
Status : **Answered**
Chosen Option : **2**

Website - www.dailyjobalert.in

Q.13 ਸਾਧਾਰਨ ਵਾਕ ਦੇ ਅੰਤ ਵਿਚ _____ ਚਿੰਨ੍ਹ ਦੀ ਵਰਤੋਂ ਕੀਤੀ ਜਾਂਦੀ ਹੈ।

Ans
1. ਦੁਬਿੰਦੀ
2. ਵਿਸਮਕ
3. ਡੰਡੀ
4. ਪ੍ਰਸ਼ਨ

Question ID : **630680248499**
Option 1 ID : **630680964142**
Option 2 ID : **630680964141**
Option 3 ID : **630680964140**
Option 4 ID : **630680964139**
Status : **Answered**
Chosen Option : **3**

Q.14 'ਚੋ' ਦਾ ਵਚਨ ਬਦਲੋ:

Ans
1. ਚੋਆਂ
2. ਚੋਣਾ
3. ਚੋਇਆ
4. ਚੋਏ

Question ID : **630680248487**
Option 1 ID : **630680964093**
Option 2 ID : **630680964091**
Option 3 ID : **630680964094**
Option 4 ID : **630680964092**
Status : **Answered**
Chosen Option : **1**

Q.15 ਯੋਗ ਸ਼ਬਦ ਨਾਲ ਲੱਗਦਾ ਸਹੀ ਅਗੇਤਰ ਚੁਣੋ:

Ans
1. ਸਹਿ
2. ਹੋ
3. ਉ
4. ਦੂਰ

Question ID : **630680248493**
Option 1 ID : **630680964116**
Option 2 ID : **630680964118**
Option 3 ID : **630680964115**
Option 4 ID : **630680964117**
Status : **Answered**
Chosen Option : **1**

Q.16 'ਉੱਤਮ' ਦਾ ਸਮਾਨਾਰਥਕ ਸ਼ਬਦ ਹੈ:

Ans
1. ਮਹੱਤਵਹੀਣ
2. ਘਟੀਆ
3. ਨਿਕੰਮਾ
4. ਸ੍ਰੇਸ਼ਟ

Question ID : **630680248460**
Option 1 ID : **630680963985**
Option 2 ID : **630680963986**
Option 3 ID : **630680963984**
Option 4 ID : **630680963983**
Status : **Answered**
Chosen Option : **4**

Website - www.dailyjobalert.in

Q.17 ਮੁਹਾਵਰੇ ਵਿਚਲੀ ਖ਼ਾਲੀ ਥਾਂ ਭਰੋ: ਇਕ _____ ਨਾਲ _____ ਨਹੀਂ ਵੱਜਦੀ

Ans
✔ 1. ਹੱਥ, ਤਾੜੀ
✘ 2. ਤਾਰ, ਤੂੰਬੀ
✘ 3. ਹੱਥ, ਢੋਲਕੀ
✘ 4. ਫੂਕ, ਬੀਨ

Question ID : **630680248480**
Option 1 ID : **630680964066**
Option 2 ID : **630680964065**
Option 3 ID : **630680964064**
Option 4 ID : **630680964063**
Status : **Answered**
Chosen Option : **1**

Q.18 'ਥਾਂ' ਸ਼ਬਦ ਦਾ ਵਚਨ ਬਦਲੋ:

Ans
✘ 1. ਥਾਂਏ
✔ 2. ਥਾਵਾਂ
✘ 3. ਸਥਾਨਾਂ
✘ 4. ਥਾਵੇਂ

Question ID : **630680248488**
Option 1 ID : **630680964095**
Option 2 ID : **630680964096**
Option 3 ID : **630680964098**
Option 4 ID : **630680964097**
Status : **Answered**
Chosen Option : **2**

Q.19 ਅੱਗੇ ਲਿਖੇ ਬਹੁਤੇ ਸ਼ਬਦਾਂ ਲਈ ਇਕ ਸ਼ਬਦ ਚੁਣੋ: ਜਿਸ ਨੂੰ ਸਾਰੇ ਪਿਆਰ ਕਰਨ

Ans
✘ 1. ਬਹੁਤ -ਪਿਆਰਾ
✘ 2. ਆਕਰਸ਼ਨ-ਕੇਂਦਰ
✔ 3. ਹਰਮਨ-ਪਿਆਰਾ
✘ 4. ਖ਼ੂਬਸੂਰਤ

Question ID : **630680248471**
Option 1 ID : **630680964028**
Option 2 ID : **630680964029**
Option 3 ID : **630680964027**
Option 4 ID : **630680964030**
Status : **Answered**
Chosen Option : **3**

Q.20 ਅੱਗੇ ਲਿਖੇ ਬਹੁਤੇ ਸ਼ਬਦਾਂ ਲਈ ਇਕ ਸ਼ਬਦ ਚੁਣੋ: ਜਿਹੜਾ ਕਦੀ ਨਾ ਟੁੱਟੇ

Ans
✔ 1. ਅਟੁੱਟ
✘ 2. ਸੀਮੇਂਟ
✘ 3. ਪੱਕਾ
✘ 4. ਮਜ਼ਬੂਤ

Question ID : **630680248472**
Option 1 ID : **630680964033**
Option 2 ID : **630680964034**
Option 3 ID : **630680964031**
Option 4 ID : **630680964032**
Status : **Answered**
Chosen Option : **1**

Website - www.dailyjobalert.in

Q.21 ਅਕਲਮੰਦ ਸ਼ਬਦ ਵਿਚ ਕਿਹੜਾ ਪਿਛੇਤਰ ਹੈ:

Ans
1. ਦ
2. ਲਮੰਦ
3. ਮਨਦ
4. ਮੰਦ

Question ID : **630680248497**
Option 1 ID : **630680964133**
Option 2 ID : **630680964131**
Option 3 ID : **630680964132**
Option 4 ID : **630680964134**
Status : **Answered**
Chosen Option : **4**

Q.22 ਉਤਸ਼ਾਹਹੀਣ ਸ਼ਬਦ ਵਿਚ ਕਿਹੜਾ ਪਿਛੇਤਰ ਹੈ:

Ans
1. ਣ
2. ਹੀਣ
3. ਹਹੀਣ
4. ਸ਼ਾਹਹੀਣ

Question ID : **630680248495**
Option 1 ID : **630680964125**
Option 2 ID : **630680964123**
Option 3 ID : **630680964124**
Option 4 ID : **630680964126**
Status : **Answered**
Chosen Option : **2**

Q.23 'ਹਲਾਲ' ਦਾ ਵਿਰੋਧੀ ਸ਼ਬਦ ਹੈ:

Ans
1. ਖੋਟਾ
2. ਨਰਮ
3. ਚਲਾਕ
4. ਹਰਾਮ

Question ID : **630680248467**
Option 1 ID : **630680964013**
Option 2 ID : **630680964012**
Option 3 ID : **630680964014**
Option 4 ID : **630680964011**
Status : **Answered**
Chosen Option : **4**

Q.24 'ਸਸਤਾ' ਦਾ ਸਮਾਨਾਰਥਕ ਸ਼ਬਦ ਹੈ:

Ans
1. ਮਾਅਨਾ
2. ਭਾਰਾ
3. ਹੌਲਾ
4. ਲਘੂ

Question ID : **630680248464**
Option 1 ID : **630680964001**
Option 2 ID : **630680964000**
Option 3 ID : **630680963999**
Option 4 ID : **630680964002**
Status : **Answered**
Chosen Option : **3**

Website - www.dailyjobalert.in

Q.25 Query ਸ਼ਬਦ ਦਾ ਪੰਜਾਬੀ ਅਨੁਵਾਦ ਕੀ ਹੈ?

Ans
- ✗ 1. ਪਤਾ
- ✓ 2. ਪੁੱਛ-ਗਿੱਛ
- ✗ 3. ਰਾਏ-ਸ਼ੁਮਾਰੀ
- ✗ 4. ਭੇਜਣਾ

Question ID : **630680248504**
Option 1 ID : **630680964160**
Option 2 ID : **630680964159**
Option 3 ID : **630680964162**
Option 4 ID : **630680964161**
Status : **Answered**
Chosen Option : **2**

Q.26 ਬਰੈਕਟ ਵਿਚ ਦਿੱਤੇ ਵਿਸਰਾਮ ਚਿੰਨ੍ਹ (“ ”) ਦੀ ਪਛਾਣ ਕਰੋ

Ans
- ✓ 1. ਪੁੱਠੇ ਕਾਮੇ
- ✗ 2. ਵਿਸਮਕ
- ✗ 3. ਛੁੱਟ ਮਰੋੜੀ
- ✗ 4. ਕਾਮੇ

Question ID : **630680248498**
Option 1 ID : **630680964138**
Option 2 ID : **630680964135**
Option 3 ID : **630680964136**
Option 4 ID : **630680964137**
Status : **Answered**
Chosen Option : **1**

Q.27 ਮੁਹਾਵਰੇ ਵਿਚਲੀ ਖ਼ਾਲੀ ਥਾਂ ਭਰੋ: ਉਡੀਕ ਉਡੀਕ ਕੇ _____ ਹੋਣਾ

Ans
- ✗ 1. ਪੱਕਾ
- ✓ 2. ਬੁੱਢਾ
- ✗ 3. ਵੱਡਾ
- ✗ 4. ਥੱਕਿਆ

Question ID : **630680248477**
Option 1 ID : **630680964054**
Option 2 ID : **630680964051**
Option 3 ID : **630680964052**
Option 4 ID : **630680964053**
Status : **Answered**
Chosen Option : **3**

Q.28 ਰੋਸ਼ਨਦਾਨ ਸ਼ਬਦ ਵਿਚ ਕਿਹੜਾ ਪਿਛੇਤਰ ਹੈ:

Ans
- ✗ 1. ਸ਼ਨਦਾਨ
- ✗ 2. ਨਦਾਨ
- ✗ 3. ਨ
- ✓ 4. ਦਾਨ

Question ID : **630680248496**
Option 1 ID : **630680964130**
Option 2 ID : **630680964127**
Option 3 ID : **630680964128**
Option 4 ID : **630680964129**
Status : **Answered**
Chosen Option : **4**

Website - www.dailyjobalert.in

Q.29 ਅੱਗੇ ਲਿਖੇ ਬਹੁਤੇ ਸ਼ਬਦਾਂ ਲਈ ਇਕ ਸ਼ਬਦ ਚੁਣੋ: ਉਹ ਥਾਂ ਜਿੱਥੇ ਦੂਰ ਤੱਕ ਰੇਤ ਹੀ ਰੇਤ ਹੋਵੇ

Ans
✔ 1. ਮਾਰੂਥਲ
✘ 2. ਆਬ
✘ 3. ਸਰਾਫ਼
✘ 4. ਬੰਜਰ

Question ID : **630680248474**
Option 1 ID : **630680964041**
Option 2 ID : **630680964042**
Option 3 ID : **630680964039**
Option 4 ID : **630680964040**
Status : **Answered**
Chosen Option : **1**

Q.30 ਦੇਸੀ ਸਾਲ ਦਾ ਕਿਹੜਾ ਮਹੀਨਾ ਸਾਉਣ ਤੋਂ ਮਗਰੋਂ ਅਤੇ ਅੱਸੂ ਤੋਂ ਪਹਿਲਾਂ ਆਉਂਦਾ ਹੈ?

Ans
✘ 1. ਹਾੜ੍ਹ
✘ 2. ਮਾਘ
✘ 3. ਮੱਘਰ
✔ 4. ਭਾਦੋਂ

Question ID : **630680248508**
Option 1 ID : **630680964177**
Option 2 ID : **630680964178**
Option 3 ID : **630680964175**
Option 4 ID : **630680964176**
Status : **Answered**
Chosen Option : **4**

Q.31 ਮੁਹਾਵਰੇ ਵਿਚਲੀ ਖ਼ਾਲੀ ਥਾਂ ਭਰੋ: ਰਾਤ _____ ਵਿਚ ਲੰਘਾਉਣਾ

Ans
✘ 1. ਨੀਂਦ
✘ 2. ਉਡੀਕ
✘ 3. ਕੋਠੇ
✔ 4. ਅੱਖਾਂ

Question ID : **630680248476**
Option 1 ID : **630680964049**
Option 2 ID : **630680964047**
Option 3 ID : **630680964048**
Option 4 ID : **630680964050**
Status : **Answered**
Chosen Option : **4**

Q.32 'ਥੋੜ੍ਹੀ ਜਿਹੀ ਮਿਹਨਤ ਨਾਲ ਬਹੁਤ ਲਾਭ ਹੋਣਾ' ਇਸ ਅਰਥ ਲਈ ਯੋਗ ਅਖਾਣ ਚੁਣੋ

Ans
✘ 1. ਹਾਥੀ ਲੰਘ ਗਿਆ ਪੂਛ ਰਹਿ ਗਈ
✘ 2. ਘਰ ਕੀੜੀ ਦੇ ਨਰਾਇਣ ਆਏ
✘ 3. ਸੱਪ ਵੀ ਮਰ ਗਿਆ ਤੇ ਲਾਠੀ ਵੀ ਬਚ ਗਈ
✔ 4. ਹਿੰਗ ਲੱਗੇ ਨਾ ਫਟਕੜੀ ਰੰਗ ਚੋਖਾ ਆਏ

Question ID : **630680248482**
Option 1 ID : **630680964071**
Option 2 ID : **630680964073**
Option 3 ID : **630680964074**
Option 4 ID : **630680964072**
Status : **Answered**
Chosen Option : **3**

Website - www.dailyjobalert.in

Q.33 29 ਨੂੰ ਪੰਜਾਬੀ ਵਿਚ ਲਿਖੋ।

Ans
1. ਉਨਤਾਲੀ
2. ਅਠੱਤੀ
3. ਉਣੱਤੀ
4. ਉਣਾਨਵੇਂ

Question ID : **630680248506**
Option 1 ID : **630680964170**
Option 2 ID : **630680964169**
Option 3 ID : **630680964168**
Option 4 ID : **630680964167**
Status : **Answered**
Chosen Option : **3**

Q.34 83 ਨੂੰ ਪੰਜਾਬੀ ਵਿਚ ਲਿਖੋ।

Ans
1. ਤਿਹੱਤਰ
2. ਪਚੱਤਰ
3. ਤਰਾਨਵੇਂ
4. ਤਰਿਆਸੀ

Question ID : **630680248507**
Option 1 ID : **630680964173**
Option 2 ID : **630680964172**
Option 3 ID : **630680964171**
Option 4 ID : **630680964174**
Status : **Answered**
Chosen Option : **4**

Q.35 ਅਖਾਣ ਵਿਚਲੀ ਖ਼ਾਲੀ ਥਾਂ ਭਰੋ: ਘਰ ਦੀ _____ ਦਾਲ ਬਰਾਬਰ

Ans
1. ਖੀਰ
2. ਮੁਰਗੀ
3. ਸਬਜ਼ੀ
4. ਦੌਲਤ

Question ID : **630680248483**
Option 1 ID : **630680964078**
Option 2 ID : **630680964075**
Option 3 ID : **630680964076**
Option 4 ID : **630680964077**
Status : **Answered**
Chosen Option : **2**

Q.36 'ਸਪੇਰਾ' ਸ਼ਬਦ ਦਾ ਲਿੰਗ ਬਦਲੋ:

Ans
1. ਸਪੇਰਨ
2. ਸਪੇਰੀ
3. ਸਪੇਰਨੀ
4. ਸਪੇਰੇ

Question ID : **630680248486**
Option 1 ID : **630680964089**
Option 2 ID : **630680964087**
Option 3 ID : **630680964088**
Option 4 ID : **630680964090**
Status : **Answered**
Chosen Option : **1**

Website - www.dailyjobalert.in

Q.37 'ਨਿਰਮਲ' ਦਾ ਵਿਰੋਧੀ ਸ਼ਬਦ ਹੈ:

Ans
1. ਸਵੱਛ
2. ਸਾਫ਼
3. ਮੈਲ਼ਾ
4. ਉੱਜਲ

Question ID : **630680248468**
Option 1 ID : **630680964016**
Option 2 ID : **630680964017**
Option 3 ID : **630680964018**
Option 4 ID : **630680964015**
Status : **Answered**
Chosen Option : **3**

Q.38 ਅੱਗੇ ਲਿਖੇ ਬਹੁਤੇ ਸ਼ਬਦਾਂ ਲਈ ਇਕ ਸ਼ਬਦ ਚੁਣੋ: ਜਿੱਥੇ ਪੈਸੇ ਜਾਂ ਸਿੱਕੇ ਬਣਾਏ ਜਾਂਦੇ ਹੋਣ

Ans
1. ਟਕਸਾਲ
2. ਖ਼ਜ਼ਾਨਾ
3. ਬੈਂਕ
4. ਸਰਕਾਰ

Question ID : **630680248470**
Option 1 ID : **630680964024**
Option 2 ID : **630680964025**
Option 3 ID : **630680964026**
Option 4 ID : **630680964023**
Status : **Answered**
Chosen Option : **1**

Q.39 Maintenance Allowance ਸ਼ਬਦ ਦਾ ਪੰਜਾਬੀ ਅਨੁਵਾਦ ਕੀ ਹੈ?

Ans
1. ਨਿਰਬਾਹ ਭੱਤਾ
2. ਮੁਸਾਫ਼ਰ ਭੱਤਾ
3. ਬਿਜਲੀ ਭੱਤਾ
4. ਸ਼ਪੈਸਲ ਭੱਤਾ

Question ID : **630680248503**
Option 1 ID : **630680964156**
Option 2 ID : **630680964158**
Option 3 ID : **630680964157**
Option 4 ID : **630680964155**
Status : **Answered**
Chosen Option : **1**

Q.40 'ਉਣਨਾ' ਦਾ ਵਿਰੋਧੀ ਸ਼ਬਦ ਹੈ:

Ans
1. ਓਪਰਾ
2. ਉਚਾਣ
3. ਉਧੇੜਨਾ
4. ਉਰਲਾ

Question ID : **630680248469**
Option 1 ID : **630680964019**
Option 2 ID : **630680964021**
Option 3 ID : **630680964022**
Option 4 ID : **630680964020**
Status : **Answered**
Chosen Option : **1**

Website - www.dailyjobalert.in

Q.41 'ਸਭਾ' ਦਾ ਵਚਨ ਬਦਲੋ:

Ans
1. ਸੰਭਾਵਨ
2. ਸਭਾਵੀਂ
3. ਸਭਾਵਾਂ ✔
4. ਸੰਭਾਵਨਾਵਾਂ

Question ID : **630680248491**
Option 1 ID : **630680964110**
Option 2 ID : **630680964109**
Option 3 ID : **630680964107**
Option 4 ID : **630680964108**
Status : **Answered**
Chosen Option : **3**

Q.42 ਅਖਾਣ ਵਿਚਲੀ ਖ਼ਾਲੀ ਥਾਂ ਭਰੋ: ਸੋਟਾ ਮਾਰਿਆ ਪਾਣੀ _____ ਨਹੀਂ ਹੁੰਦੇ

Ans
1. ਇਕ
2. ਸੁਹਾਵਣੇ
3. ਦੋ ✔
4. ਰੰਦੇ

Question ID : **630680248481**
Option 1 ID : **630680964069**
Option 2 ID : **630680964067**
Option 3 ID : **630680964070**
Option 4 ID : **630680964068**
Status : **Answered**
Chosen Option : **1**

Q.43 'ਅੰਤਰ' ਦਾ ਸਮਾਨਾਰਥਕ ਸ਼ਬਦ ਹੈ:

Ans
1. ਇੱਕੋ ਜਿਹਾ
2. ਨਿਰੰਤਰ
3. ਫ਼ਰਕ ✔
4. ਸਮਾਨਤਾ

Question ID : **630680248461**
Option 1 ID : **630680963988**
Option 2 ID : **630680963990**
Option 3 ID : **630680963989**
Option 4 ID : **630680963987**
Status : **Answered**
Chosen Option : **3**

Q.44 ਹੇਠ ਲਿਖਿਆਂ ਵਿੱਚੋਂ ਕਿਸ ਵਾਕ ਵਿਚ ਵਿਸਰਾਮ ਚਿੰਨ੍ਹਾਂ ਦੀ ਠੀਕ ਵਰਤੋਂ ਹੋਈ ਹੈ?

Ans
1. ਹਾਏ? ਮੇਰੇ ਚੰਨ ਪੁੱਤ ਨੂੰ ਕੀ ਹੋ ਗਿਆ।
2. ਹਾਏ ਮੇਰੇ! ਚੰਨ ਪੁੱਤ ਨੂੰ ਕੀ ਹੋ ਗਿਆ,
3. ਹਾਏ ਮੇਰੇ, ਚੰਨ ਪੁੱਤ? ਨੂੰ ਕੀ ਹੋ ਗਿਆ।।
4. ਹਾਏ! ਮੇਰੇ ਚੰਨ ਪੁੱਤ ਨੂੰ ਕੀ ਹੋ ਗਿਆ! ✔

Question ID : **630680248502**
Option 1 ID : **630680964154**
Option 2 ID : **630680964153**
Option 3 ID : **630680964152**
Option 4 ID : **630680964151**
Status : **Answered**
Chosen Option : **4**

DAILY JOB Alert ਪੰਜਾਬ
Website - www.dailyjobalert.in

Q.45 'ਹੱਸਣਾ' ਦਾ ਵਿਰੋਧੀ ਸ਼ਬਦ ਹੈ:

Ans
1. ਲੋਚਨ
2. ਮੁਸਕਰਾਣਾ
3. ਰੋਣਾ
4. ਸੰਝ

Question ID : **630680248466**
Option 1 ID : **630680964008**
Option 2 ID : **630680964009**
Option 3 ID : **630680964010**
Option 4 ID : **630680964007**
Status : **Answered**
Chosen Option : **3**

Q.46 ਹੇਠ ਲਿਖਿਆਂ ਵਿੱਚੋਂ ਕਿਸ ਵਾਕ ਵਿਚ ਵਿਸਰਾਮ ਚਿੰਨ੍ਹਾਂ ਦੀ ਠੀਕ ਵਰਤੋਂ ਹੋਈ ਹੈ?

Ans
1. ਸਕੂਲ ਨੂੰ ਛੁੱਟੀ ਕਦੋਂ ਹੁੰਦੀ ਹੈ?
2. ਸਕੂਲ ਨੂੰ! ਛੁੱਟੀ ਕਦੋਂ ਹੁੰਦੀ ਹੈ;
3. ਸਕੂਲ ਨੂੰ ਛੁੱਟੀ; ਕਦੋਂ ਹੁੰਦੀ ਹੈ!
4. ਸਕੂਲ, ਨੂੰ ਛੁੱਟੀ; ਕਦੋਂ ਹੁੰਦੀ ਹੈ।

Question ID : **630680248500**
Option 1 ID : **630680964145**
Option 2 ID : **630680964146**
Option 3 ID : **630680964144**
Option 4 ID : **630680964143**
Status : **Answered**
Chosen Option : **1**

Q.47 'ਤਿੱਤਰ' ਸ਼ਬਦ ਦਾ ਲਿੰਗ ਬਦਲੋ:

Ans
1. ਤਿੱਤਰਨ
2. ਤਿੱਤਰੀ
3. ਤਿੱਤਰਿਆ
4. ਤਿੱਤਰੇ

Question ID : **630680248485**
Option 1 ID : **630680964085**
Option 2 ID : **630680964086**
Option 3 ID : **630680964084**
Option 4 ID : **630680964083**
Status : **Answered**
Chosen Option : **2**

Q.48 'ਮੋਰ' ਸ਼ਬਦ ਦਾ ਵਚਨ ਬਦਲੋ:

Ans
1. ਮੋਰਾਂ
2. ਮੋਰਿਆ
3. ਮੋਰੀ
4. ਮੋਰਨੀ

Question ID : **630680248490**
Option 1 ID : **630680964105**
Option 2 ID : **630680964106**
Option 3 ID : **630680964103**
Option 4 ID : **630680964104**
Status : **Answered**
Chosen Option : **1**

Website - www.dailyjobalert.in

Q.49 'ਉਸਤਾਦੀ ਕਰਨਾ' ਮੁਹਾਵਰੇ ਦਾ ਅਰਥ ਹੈ:

Ans
- ✗ 1. ਪ੍ਰਧਾਨਗੀ ਕਰਨਾ
- ✗ 2. ਦਿਸ਼ਾ-ਨਿਰਦੇਸ਼ ਦੇਣਾ
- ✗ 3. ਉਸਤਾਦਗਿਰੀ ਕਰਨਾ
- ✓ 4. ਚਲਾਕੀ ਕਰਨਾ

Question ID : **630680248478**
Option 1 ID : **630680964057**
Option 2 ID : **630680964055**
Option 3 ID : **630680964058**
Option 4 ID : **630680964056**
Status : **Answered**
Chosen Option : **1**

Q.50 'ਅਮਨ' ਦਾ ਸਮਾਨਾਰਥਕ ਸ਼ਬਦ ਹੈ:

Ans
- ✗ 1. ਜੰਗ
- ✗ 2. ਯੁੱਧ
- ✓ 3. ਚੈਨ
- ✗ 4. ਲੜਾਈ

Question ID : **630680248462**
Option 1 ID : **630680963992**
Option 2 ID : **630680963993**
Option 3 ID : **630680963994**
Option 4 ID : **630680963991**
Status : **Answered**
Chosen Option : **3**

DAILY JOB Alert ਪੰਜਾਬ

PUNJAB POLICE

Police to its last particle is duty

Exam Name	Recruitment for the post of Sub Inspector in Cadres of District and Armed Police 20th Jun to 31st Jul 2023 Paper I
Application No	www.dailyjobalert.in
Roll No	Telegram - Daily Job Alert Punjab
Applicant Name	instagram - Daily Job Alert Punjab
Exam Date	14/07/2023
Shift	9:00 AM - 11:00 AM
Subject	Sub Inspector Paper I

Section : **General Awareness**

Q.1 In India, which of the following years was the Official Language Act passed, providing for the continuation of English as an associate official language in the Union?

Ans
✔ 1. 1963
✘ 2. 1948
✘ 3. 1950
✘ 4. 1973

Question ID : **63068078074**
Option 1 ID : **630680302357**
Option 2 ID : **630680302359**
Option 3 ID : **630680302358**
Option 4 ID : **630680302360**
Status : **Answered**
Chosen Option : **3**

Q.2 When did China adopt one-child policy?

Ans
✘ 1. 2000
✔ 2. 1980
✘ 3. 1990
✘ 4. 1960

Question ID : **630680111944**
Option 1 ID : **630680433505**
Option 2 ID : **630680433504**
Option 3 ID : **630680433503**
Option 4 ID : **630680433502**
Status : **Not Answered**
Chosen Option : **--**

Website - www.dailyjobalert.in

Q.3 **The Heritage Conservation Committee was established in 1983 under the presidency of Additional Secretary, _____.**

Ans
- ✗ 1. Ministry of Tourism
- ✓ 2. Ministry of Housing and Urban Affairs
- ✗ 3. Ministry of Home Affairs
- ✗ 4. Ministry of Education

Question ID : **630680138995**
Option 1 ID : **630680538090**
Option 2 ID : **630680538093**
Option 3 ID : **630680538091**
Option 4 ID : **630680538092**
Status : **Answered**
Chosen Option : **1**

Q.4 **Who won the 69th Miss Universe title in May 2021?**

Ans
- ✗ 1. Kimberly Perez
- ✗ 2. Julia Gama
- ✓ 3. Andrea Meza
- ✗ 4. Adline Quadros Castelino

Question ID : **63068091006**
Option 1 ID : **630680352785**
Option 2 ID : **630680352784**
Option 3 ID : **630680352782**
Option 4 ID : **630680352783**
Status : **Answered**
Chosen Option : **4**

Q.5 **Dhivehi is the official language of which of the following neighbouring countries of India?**

Ans
- ✗ 1. Sri Lanka
- ✗ 2. Bhutan
- ✓ 3. Maldives
- ✗ 4. Nepal

Question ID : **630680183680**
Option 1 ID : **630680711732**
Option 2 ID : **630680711731**
Option 3 ID : **630680711729**
Option 4 ID : **630680711730**
Status : **Not Answered**
Chosen Option : **--**

Website - www.dailyjobalert.in

Q.6 _____ ਵਜੋਂ ਜਾਣੀ ਜਾਂਦੀ, ਲੰਬੀ ਮਿਆਦ ਦੀ ਯੋਜਨਾ ਇਹ ਦਰਸਾਉਂਦੀ ਹੈ ਕਿ ਵੀਹ ਸਾਲਾਂ ਦੀ ਮਿਆਦ ਵਿੱਚ ਕੀ ਪ੍ਰਾਪਤ ਕਰਨਾ ਹੈ।

Ans
✗ 1. ਟੀਚਾ ਯੋਜਨਾ (goal plan)

✓ 2. ਪਰਿਪੇਖ ਯੋਜਨਾ (perspective plan)

✗ 3. ਅੰਤਰ ਯੋਜਨਾ (differential plan)

✗ 4. ਅਚਨਚੇਤ ਯੋਜਨਾ (contingency plan)

Question ID : **63068056646**
Option 1 ID : **630680218519**
Option 2 ID : **630680218518**
Option 3 ID : **630680218520**
Option 4 ID : **630680218521**
Status : **Not Answered**
Chosen Option : **--**

Q.7 ਹੇਠਾਂ ਦਿੱਤੇ ਜੋੜਿਆਂ ਵਿੱਚੋਂ ਕਿਹੜਾ ਗਲਤ ਹੈ?

ਲੜੀ ਸੰਖਿਆ	ਨਦੀ	ਲੜੀ ਸੰਖਿਆ	ਸਹਾਇਕ ਨਦੀ
1.	ਮਹਾਨਦੀ	a.	ਹਸਦੋ
2.	ਬ੍ਰਹਮਪੁੱਤਰ	b.	ਸਿਕੰਗ
3.	ਕਾਵੇਰੀ	c.	ਪੁਰਨਾ
4.	ਸਾਬਰਮਤੀ	d.	ਵਤਰਕ

Ans
✗ 1. 2-b
✗ 2. 4-d
✗ 3. 1-a
✓ 4. 3-c

Question ID : **630680115709**
Option 1 ID : **630680448175**
Option 2 ID : **630680448177**
Option 3 ID : **630680448174**
Option 4 ID : **630680448176**
Status : **Not Answered**
Chosen Option : **--**

DAILY JOB Alert ਪੰਜਾਬ

Q.8 **In 1950, a small-scale industrial unit in India was the one which invested a maximum of_____.**

Ans

✗ 1. ₹2 lakh

✗ 2. ₹10 lakh

✗ 3. ₹1 lakh

✓ 4. ₹5 lakh

Question ID : **63068056652**
Option 1 ID : **630680218544**
Option 2 ID : **630680218545**
Option 3 ID : **630680218543**
Option 4 ID : **630680218542**
Status : **Not Answered**
Chosen Option : **--**

Q.9 **What is the meaning of the Writ of Quo warranto?**

Ans

✗ 1. We command

✓ 2. what is your authority

✗ 3. To be informed

✗ 4. To stop

Question ID : **630680100455**
Option 1 ID : **630680390519**
Option 2 ID : **630680390516**
Option 3 ID : **630680390518**
Option 4 ID : **630680390517**
Status : **Answered**
Chosen Option : **1**

Q.10 ਪੰਜਾਬ ਵਿੱਚ ਪਿੰਡਾਂ ਦੀਆਂ ਗਲੀਆਂ ਵਿੱਚ ਵਿਆਹ ਤੋਂ ਇੱਕ ਦਿਨ ਪਹਿਲਾਂ ਕੁੜੀਆਂ ਦੁਆਰਾ ਕੀਤੇ ਨਾਚ ਨੂੰ _____ ਕਿਹਾ ਜਾਂਦਾ ਹੈ।

Ans

✗ 1. ਗਿੱਧਾ

✓ 2. ਜਾਗੋ

✗ 3. ਡੰਕਾਰਾ

✗ 4. ਤੀਆਂ

Question ID : **630680238605**
Option 1 ID : **630680925436**
Option 2 ID : **630680925437**
Option 3 ID : **630680925439**
Option 4 ID : **630680925438**
Status : **Answered**
Chosen Option : **2**

Website - www.dailyjobalert.in

Q.11 Consider the following pairs.
Broad categories of Fundamental Rights Articles under Constitution of India.
1. Right to Freedom : 19 - 22
2. Right against Exploitation : 23-24
3. Right to Freedom of Religion : 25 - 32
How many of the given pairs are correctly matched?

Ans
✗ 1. None of the three pairs
✗ 2. All three pairs
✗ 3. Only one pair
✓ 4. Only two pairs

Question ID : **630680133865**
Option 1 ID : **630680518397**
Option 2 ID : **630680518396**
Option 3 ID : **630680518394**
Option 4 ID : **630680518395**
Status : **Answered**
Chosen Option : **4**

Q.12 ਆਦਿ ਗ੍ਰੰਥ ਵਿੱਚ ਗੁਰੂ ਨਾਨਕ ਦੇਵ ਜੀ ਦੇ ਕਿੰਨੇ ਸ਼ਬਦ ਦਰਜ ਹਨ?

Ans
✓ 1. 976
✗ 2. 1026
✗ 3. 679
✗ 4. 62

Question ID : **630680238572**
Option 1 ID : **630680925306**
Option 2 ID : **630680925307**
Option 3 ID : **630680925305**
Option 4 ID : **630680925304**
Status : **Answered**
Chosen Option : **1**

Q.13 ਸੈਨ ਫਰਾਂਸਿਸਕੋ (ਯੂਐਸਏ) ਵਿੱਚ ਗਦਰ ਪਾਰਟੀ ਦੀ ਸਥਾਪਨਾ ਕਦੋਂ ਹੋਈ ਸੀ?

Ans
✗ 1. 1910
✗ 2. 1917
✓ 3. 1913
✗ 4. 1905

Question ID : **630680238561**
Option 1 ID : **630680925261**
Option 2 ID : **630680925263**
Option 3 ID : **630680925262**
Option 4 ID : **630680925260**
Status : **Answered**
Chosen Option : **3**

Website - www.dailyjobalert.in

Q.14 ਪਠਾਨਕੋਟ ਦੇ ਪਿੰਡ ਡੋਂਗ ਵਿੱਚ ਮੁਕਤੇਸ਼ਵਰ ਗੁਫਾ ਮੰਦਿਰ ਕਿਸ ਦੇਵਤੇ ਨੂੰ ਸਮਰਪਿਤ ਹੈ?

Ans
1. ✗ ਦੇਵੀ ਦੁਰਗਾ
2. ✗ ਭਗਵਾਨ ਇੰਦਰ
3. ✗ ਭਗਵਾਨ ਵਿਸ਼ਨੂੰ
4. ✓ ਭਗਵਾਨ ਸ਼ਿਵ

Question ID : **630680238462**
Option 1 ID : **630680924867**
Option 2 ID : **630680924866**
Option 3 ID : **630680924865**
Option 4 ID : **630680924864**
Status : **Not Answered**
Chosen Option : **--**

Q.15 ਭਾਰਤ ਸਰਕਾਰ ਦੁਆਰਾ ਘਰੇਲੂ ਹਿੰਸਾ ਤੋਂ ਔਰਤਾਂ ਦੀ ਸੁਰੱਖਿਆ ਐਕਟ (Protection of Women from Domestic Violence Act) ਕਿਸ ਸਾਲ ਵਿੱਚ ਲਾਗੂ ਕੀਤਾ ਗਿਆ ਸੀ?

Ans
1. ✗ 2000
2. ✓ 2005
3. ✗ 2007
4. ✗ 2010

Question ID : **630680238398**
Option 1 ID : **630680924608**
Option 2 ID : **630680924609**
Option 3 ID : **630680924611**
Option 4 ID : **630680924610**
Status : **Answered**
Chosen Option : **3**

Q.16 ਚੰਡੀਗੜ੍ਹ ਦਾ ਨੀਂਹ ਪੱਥਰ ਕਦੋਂ ਰੱਖਿਆ ਗਿਆ ਸੀ?

Ans
1. ✗ 1950
2. ✗ 1953
3. ✗ 1951
4. ✓ 1952

Question ID : **630680238505**
Option 1 ID : **630680925036**
Option 2 ID : **630680925039**
Option 3 ID : **630680925037**
Option 4 ID : **630680925038**
Status : **Answered**
Chosen Option : **1**

Website - www.dailyjobalert.in

Q.17 ਹੇਠਾਂ ਦਿੱਤੇ ਸ਼ਬਦਾਂ ਵਿੱਚੋਂ ਕਿਹੜਾ, 'ਦੂਜਿਆਂ ਲਈ ਜੀਉਣਾ ਅਤੇ ਆਪਣੇ ਆਪ ਦੀ ਪਰਵਾਹ ਨਾ ਕਰਨਾ ਸਹੀ ਚਾਲ-ਚਲਨ ਹੈ', ਦ੍ਰਿਸ਼ਟੀਕੋਣ ਦਾ ਸਭ ਤੋਂ ਵਧੀਆ ਵਰਣਨ ਕਰਦਾ ਹੈ

Ans
1. ਬੁੱਧੀਵਾਦ (Intellectualism)
2. ਪਰਉਪਕਾਰਵਾਦ (Altruism)
3. ਕਲਿਆਣਵਾਦ (Welfarism)
4. ਸਥਿਤੀ ਸੰਬੰਧੀ ਨੈਤਿਕਤਾ (Situational ethics)

Question ID : **630680238345**
Option 1 ID : **630680924398**
Option 2 ID : **630680924396**
Option 3 ID : **630680924397**
Option 4 ID : **630680924399**
Status : **Answered**
Chosen Option : **2**

Q.18 ਵਾਤਾਵਰਣ, ਜੰਗਲਾਤ ਅਤੇ ਜਲਵਾਯੂ ਪਰਿਵਰਤਨ ਮੰਤਰਾਲੇ (MoEFCC) ਨੇ ਭਾਰਤ ਵਿੱਚ ਰਾਸ਼ਟਰੀ ਸਵੱਛ ਹਵਾ ਪ੍ਰੋਗਰਾਮ (NCAP) ਦੀ ਸ਼ੁਰੂਆਤ _____ ਵਿੱਚ ਕੀਤੀ।

Ans
1. 2019
2. 2016
3. 2017
4. 2018

Question ID : **63068074825**
Option 1 ID : **630680289458**
Option 2 ID : **630680289455**
Option 3 ID : **630680289456**
Option 4 ID : **630680289457**
Status : **Not Answered**
Chosen Option : **--**

Q.19 ਦਸ ਸਿੱਖ ਗੁਰੂਆਂ ਵਿੱਚੋਂ ਕਿਸ ਨੇ ਕਿਹਾ ਸੀ ਕਿ "ਨਾ ਕੋਈ ਹਿੰਦੂ, ਨਾ ਮੁਸਲਮਾਨ"?

Ans
1. ਗੁਰੂ ਰਾਮਦਾਸ ਜੀ
2. ਗੁਰੂ ਗੋਬਿੰਦ ਸਿੰਘ ਜੀ
3. ਗੁਰੂ ਅਮਰਦਾਸ ਜੀ
4. ਗੁਰੂ ਨਾਨਕ ਦੇਵ ਜੀ

Question ID : **630680238555**
Option 1 ID : **630680925236**
Option 2 ID : **630680925238**
Option 3 ID : **630680925237**
Option 4 ID : **630680925239**
Status : **Answered**
Chosen Option : **4**

Website - www.dailyjobalert.in

Q.20 ਹੇਠ ਲਿਖਿਆਂ ਵਿੱਚੋਂ ਕਿਸ ਨੂੰ ਨੈਤਿਕਤਾ ਦੇ ਸੁਭਾਅ ਵਿੱਚੋਂ ਇੱਕ ਨਹੀਂ ਮੰਨਿਆ ਜਾ ਸਕਦਾ ਹੈ?

Ans
- ✗ 1. ਨੈਤਿਕ ਸਿਧਾਂਤਾਂ ਨੂੰ ਲਾਗੂ ਕਰਨਾ
- ✗ 2. ਦਰਸ਼ਨਸ਼ਾਸ਼ਤਰ ਦੀ ਸ਼ਾਖਾ
- ✗ 3. ਮਨੁੱਖੀ ਕਦਰਾਂ-ਕੀਮਤਾਂ ਵੱਲ ਧਿਆਨ
- ✓ 4. ਸਮਾਜਕ ਕਾਰਜ

Question ID : **630680238335**
Option 1 ID : **630680924359**
Option 2 ID : **630680924357**
Option 3 ID : **630680924356**
Option 4 ID : **630680924358**
Status : **Answered**
Chosen Option : **2**

Q.21 ਅਸ਼ੋਕ ਨੇ ਹੇਠ ਲਿਖੇ ਸ਼ਿਲਾਲੇਖਾਂ ਵਿੱਚੋਂ ਕਿਸ ਵਿੱਚ ਕਿਹਾ ਹੈ ਕਿ, "ਜਦੋਂ ਇੱਕ ਅਜਿੱਤ ਖੇਤਰ ਨੂੰ ਜਿੱਤ ਲਿਆ ਜਾਂਦਾ ਹੈ ਤਾਂ ਮੌਤ ਅਤੇ ਤਬਾਹੀ ਅਟੱਲ ਹੈ"?

Ans
- ✗ 1. ਸ਼ਿਲਾਲੇਖ IX
- ✗ 2. ਸ਼ਿਲਾਲੇਖ X
- ✓ 3. ਸ਼ਿਲਾਲੇਖ XIII
- ✗ 4. ਸ਼ਿਲਾਲੇਖ VIII

Question ID : **63068084293**
Option 1 ID : **630680326724**
Option 2 ID : **630680326725**
Option 3 ID : **630680326727**
Option 4 ID : **630680326726**
Status : **Answered**
Chosen Option : **4**

Q.22 Dr. Amit Singh, working at the Indian Institute of Science, was in the news for winning the _____ prize in 2021.

Ans
- ✗ 1. Shanti Swarup Bhatnagar Prize (SSB) for Mathematical Sciences
- ✗ 2. Shanti Swarup Bhatnagar Prize (SSB) for Chemical Sciences
- ✓ 3. Shanti Swarup Bhatnagar Prize (SSB) for Biological Sciences
- ✗ 4. Shanti Swarup Bhatnagar Prize (SSB) for Engineering Sciences

Question ID : **630680194392**
Option 1 ID : **630680754104**
Option 2 ID : **630680754102**
Option 3 ID : **630680754101**
Option 4 ID : **630680754103**
Status : **Not Answered**
Chosen Option : **--**

Website - www.dailyjobalert.in

Q.23 ਹੇਠਾਂ ਦਿੱਤੇ ਵਿੱਚੋਂ ਕੌਣ ਮੁੱਖ ਤੌਰ 'ਤੇ ਸ਼ਾਸਤਰੀ ਨਾਚ ਨਾਲ ਸੰਬੰਧਿਤ ਨਹੀਂ ਹੈ?

Ans
✗ 1. ਗੋਪੀ ਕ੍ਰਿਸ਼ਨ
✗ 2. ਅਮੁਬੀ ਸਿੰਘ
✓ 3. ਗੁਲਾਬੋ ਸਪੇਰਾ
✗ 4. ਰੁਕਮਣੀ ਦੇਵੀ ਅਰੁੰਡਲੇ

Question ID : **630680112712**
Option 1 ID : **630680436542**
Option 2 ID : **630680436544**
Option 3 ID : **630680436543**
Option 4 ID : **630680436545**
Status : **Answered**
Chosen Option : **2**

Q.24 ਓਪਰੇਸ਼ਨ ਫਲੱਡ _____ ਨਾਲ ਜੁੜਿਆ ਹੋਇਆ ਹੈ।

Ans
✓ 1. ਦੁੱਧ
✗ 2. ਪਾਣੀ
✗ 3. ਮੱਛੀ ਪਾਲਣ
✗ 4. ਨਾਰੀਅਲ

Question ID : **63068056705**
Option 1 ID : **630680218755**
Option 2 ID : **630680218754**
Option 3 ID : **630680218756**
Option 4 ID : **630680218757**
Status : **Answered**
Chosen Option : **1**

Q.25 ਹੇਠ ਦਿੱਤਿਆਂ ਵਿੱਚੋਂ ਕਿਹੜੇ ਦੇਸ਼ ਦੀ ਕਰੰਸੀ ਉੱਤੇ ਭਗਵਾਨ ਗਣੇਸ਼ ਦੀ ਤਸਵੀਰ ਛਪੀ ਹੋਈ ਹੈ?

Ans
✗ 1. ਨੇਪਾਲ
✗ 2. ਮਾਰੀਸ਼ਸ
✗ 3. ਫਿਜੀ
✓ 4. ਇੰਡੋਨੇਸ਼ੀਆ

Question ID : **630680164890**
Option 1 ID : **630680638640**
Option 2 ID : **630680638643**
Option 3 ID : **630680638641**
Option 4 ID : **630680638642**
Status : **Answered**
Chosen Option : **4**

Website - www.dailyjobalert.in

Q.26 What is the China's rank in the World Press Freedom Index 2022?

Ans
✔ 1. 175
✘ 2. 171
✘ 3. 169
✘ 4. 173

Question ID : **63068050619**
Option 1 ID : **630680194793**
Option 2 ID : **630680194791**
Option 3 ID : **630680194790**
Option 4 ID : **630680194792**
Status : **Answered**
Chosen Option : **2**

Q.27 Freedom fighter Bhagat Singh attended Dayanand Anglo Vedic High School, which was located in which of the following cities of the British province of Punjab?

Ans
✘ 1. Kasur
✔ 2. Lahore
✘ 3. Sargodha
✘ 4. Gujranwala

Question ID : **630680238483**
Option 1 ID : **630680924950**
Option 2 ID : **630680924948**
Option 3 ID : **630680924951**
Option 4 ID : **630680924949**
Status : **Answered**
Chosen Option : **2**

Q.28 What is the other name of social activist Anna Hazare?

Ans
✘ 1. Maruti Baburao Hazare
✔ 2. Kisan Baburao Hazare
✘ 3. Rajiv Baburao Hazare
✘ 4. Laxman Baburao Hazare

Question ID : **63068069118**
Option 1 ID : **630680267153**
Option 2 ID : **630680267150**
Option 3 ID : **630680267152**
Option 4 ID : **630680267151**
Status : **Not Answered**
Chosen Option : **--**

Website - www.dailyjobalert.in

Q.29 What was the main objective of the 'Bebe Nanki Laadli Beti Kalyan' scheme, launched by the Government of Punjab in 2011-12?

Ans

✔ 1. To improve the sex ratio

✘ 2. To improve language skills of girls

✘ 3. To improve the health status of girls

✘ 4. To improve the pass percentage of girls studying in government schools

Question ID : **630680238366**
Option 1 ID : **630680924483**
Option 2 ID : **630680924480**
Option 3 ID : **630680924481**
Option 4 ID : **630680924482**
Status : **Answered**
Chosen Option : **1**

Q.30 One of the largest fresh water lake 'Wular' is located in which State/Union Territory?

Ans

✘ 1. Tamil Nadu

✘ 2. Karnataka

✘ 3. Ladakh

✔ 4. Jammu and Kashmir

Question ID : **630680111986**
Option 1 ID : **630680433670**
Option 2 ID : **630680433672**
Option 3 ID : **630680433671**
Option 4 ID : **630680433673**
Status : **Answered**
Chosen Option : **4**

Q.31 The Pashupatinath Temple in Nepal is situated on the bank of _____ .

Ans

✘ 1. Tamur

✘ 2. Ghaghara

✔ 3. Bagmati

✘ 4. Trishuli

Question ID : **630680164889**
Option 1 ID : **630680638637**
Option 2 ID : **630680638638**
Option 3 ID : **630680638639**
Option 4 ID : **630680638636**
Status : **Not Answered**
Chosen Option : **--**

DAILY JOB Alert ਪੰਜਾਬ

Q.32 Maria Ressa was awarded the UNESCO/Guillermo Cano World Press Freedom Prize 2021. To which country does she belong?

Ans
✗ 1. Colombia
✗ 2. Egypt
✗ 3. Myanmar
✓ 4. Philippines

Question ID : **63068052422**
Option 1 ID : **630680201790**
Option 2 ID : **630680201792**
Option 3 ID : **630680201791**
Option 4 ID : **630680201793**
Status : **Not Answered**
Chosen Option : **--**

Q.33 Who among the following Indians won the United Nations' Land for Life Award 2021?

Ans
✓ 1. Shyam Sundar Jyani
✗ 2. Jadav Payeng
✗ 3. Sunita Narain
✗ 4. Sumaira Abdulali

Question ID : **63068099729**
Option 1 ID : **630680387612**
Option 2 ID : **630680387614**
Option 3 ID : **630680387613**
Option 4 ID : **630680387615**
Status : **Not Answered**
Chosen Option : **--**

Q.34 ਹੇਠ ਲਿਖਿਆਂ ਵਿੱਚੋਂ ਕਿਹੜਾ ਵੈਸੋਡੀਲੇਟਰ (vasodilator) ਹੈ?

Ans
✓ 1. ਹਿਸਟਾਮਾਈਨ (Histamine)
✗ 2. ਡੋਪਾਮਾਈਨ (Dopamine)
✗ 3. ਪੈਪਸਿਨ (Pepsin)
✗ 4. ਸਿਮੇਟਿਡਾਈਨ (Cimetidine)

Question ID : **63068074829**
Option 1 ID : **630680289472**
Option 2 ID : **630680289471**
Option 3 ID : **630680289473**
Option 4 ID : **630680289474**
Status : **Not Answered**
Chosen Option : **--**

DAILY JOB Alert ਪੰਜਾਬ

Q.35 **In which of the following dance forms of India is the Pung (a type of drum) an integral part?**

Ans
- ✗ 1. Kathakali
- ✗ 2. Odissi
- ✓ 3. Manipuri
- ✗ 4. Kuchipudi

Question ID : **63068087695**
Option 1 ID : **630680340168**
Option 2 ID : **630680340165**
Option 3 ID : **630680340166**
Option 4 ID : **630680340167**
Status : **Not Answered**
Chosen Option : **--**

Q.36 **ਭਾਰਤੀ ਸੰਵਿਧਾਨ ਦੇ ਹੇਠਾਂ ਦਿੱਤੇ ਅਨੁਛੇਦਾਂ ਵਿੱਚੋਂ ਕਿਹੜਾ ਦਿੱਲੀ ਦੇ ਸਬੰਧ ਵਿੱਚ ਵਿਸ਼ੇਸ਼ ਵਿਧਾਨ ਦੀ ਵਿਵਸਥਾ ਕਰਦਾ ਹੈ?**

Ans
- ✓ 1. ਅਨੁਛੇਦ 239AA
- ✗ 2. ਅਨੁਛੇਦ 239AB
- ✗ 3. ਅਨੁਛੇਦ 239A
- ✗ 4. ਅਨੁਛੇਦ 239B

Question ID : **630680133868**
Option 1 ID : **630680518409**
Option 2 ID : **630680518408**
Option 3 ID : **630680518406**
Option 4 ID : **630680518407**
Status : **Not Answered**
Chosen Option : **--**

Q.37 **Under which Article of the Constitution of India shall a Metropolitan Planning Committee be constituted in every metropolitan area to prepare a draft development plan for its metropolitan area?**

Ans
- ✗ 1. Article 243R
- ✗ 2. Article 243Q
- ✗ 3. Article 243Z
- ✓ 4. Article 243ZE

Question ID : **63068052961**
Option 1 ID : **630680203947**
Option 2 ID : **630680203946**
Option 3 ID : **630680203948**
Option 4 ID : **630680203949**
Status : **Answered**
Chosen Option : **2**

DAILY JOB Alert ਪੰਜਾਬ

Q.38 From which place did the Defence Research and Development Organisation conduct the maiden test of the new version of the Akash Missile called the 'Akash Prime' in September 2021?

Ans
✗ 1. Sriharikota, Andhra Pradesh
✓ 2. Chandipur, Odisha
✗ 3. Tarapur, Maharashtra
✗ 4. Thumba, Kerala

Question ID : **63068059862**
Option 1 ID : **630680231020**
Option 2 ID : **630680231018**
Option 3 ID : **630680231021**
Option 4 ID : **630680231019**
Status : **Not Answered**
Chosen Option : **--**

Q.39 Which of the following is NOT included in the tri-ratna of Jainism?

Ans
✓ 1. Samyag Ahimsa (Right Non-Violence)
✗ 2. Samyag Jnana (Right Knowledge)
✗ 3. Samyag Darshana (Right Faith)
✗ 4. Samyag Charita (Right Conduct)

Question ID : **63068052285**
Option 1 ID : **630680201245**
Option 2 ID : **630680201243**
Option 3 ID : **630680201242**
Option 4 ID : **630680201244**
Status : **Not Answered**
Chosen Option : **--**

Q.40 Which state hosted the first Physical National Yogasana Championship in India during November 2021?

Ans
✗ 1. Madhya Pradesh
✗ 2. Bihar
✓ 3. Odisha
✗ 4. Uttar Pradesh

Question ID : **630680134101**
Option 1 ID : **630680519301**
Option 2 ID : **630680519300**
Option 3 ID : **630680519298**
Option 4 ID : **630680519299**
Status : **Not Answered**
Chosen Option : **--**

Website - www.dailyjobalert.in

Q.41 ਪੰਜਾਬ ਵਿੱਚ ਹੇਠ ਲਿਖਿਆਂ ਵਿੱਚੋਂ ਕਿਸ ਮਹੀਨੇ ਵਿੱਚ ਲੋਹੜੀ ਮਨਾਈ ਜਾਂਦੀ ਹੈ?

Ans
✗ 1. ਨਵੰਬਰ
✗ 2. ਫਰਵਰੀ
✓ 3. ਜਨਵਰੀ
✗ 4. ਦਸੰਬਰ

Question ID : **630680238520**
Option 1 ID : **630680925096**
Option 2 ID : **630680925099**
Option 3 ID : **630680925098**
Option 4 ID : **630680925097**
Status : **Answered**
Chosen Option : **3**

Q.42 ਗੁਰੂ ਨਾਨਕ ਦੇਵ ਜੀ ਦਾ ਪ੍ਰਕਾਸ਼ ਦਿਹਾੜਾ ਹਰ ਸਾਲ _____ ਮਹੀਨੇ ਦੀ ਪੂਰਨਮਾਸ਼ੀ ਨੂੰ ਮਨਾਇਆ ਜਾਂਦਾ ਹੈ।

Ans
✗ 1. ਅੱਸੂ
✗ 2. ਚੇਤ
✓ 3. ਕੱਤਕ
✗ 4. ਵੈਸਾਖ

Question ID : **630680238438**
Option 1 ID : **630680924771**
Option 2 ID : **630680924769**
Option 3 ID : **630680924770**
Option 4 ID : **630680924768**
Status : **Answered**
Chosen Option : **3**

Q.43 **In the absence of the Speaker and the Deputy Speaker, who will preside over the sittings of Lok Sabha?**

Ans
✓ 1. Member from a panel of nominated Chairpersons
✗ 2. Senior most Judge of the Supreme Court
✗ 3. Senior most member of Lok Sabha
✗ 4. Prime Minister

Question ID : **630680114549**
Option 1 ID : **630680443564**
Option 2 ID : **630680443562**
Option 3 ID : **630680443563**
Option 4 ID : **630680443565**
Status : **Answered**
Chosen Option : **3**

Website - www.dailyjobalert.in

Q.44 **Which of the following British Viceroys of India launched the second Anglo–Afghan war in November 1878?**

Ans
- ✗ 1. Lord Northbrook
- ✗ 2. Lord Ripon
- ✗ 3. Lord Mayo
- ✓ 4. Lord Lytton

Question ID : **630680160037**
Option 1 ID : **630680619532**
Option 2 ID : **630680619533**
Option 3 ID : **630680619535**
Option 4 ID : **630680619534**
Status : **Answered**
Chosen Option : **3**

Q.45 ਕਿਲਾ ਮੁਬਾਰਕ ਪੰਜਾਬ ਦੇ _____ ਸ਼ਹਿਰ ਵਿੱਚ ਸਥਿਤ ਹੈ।

Ans
- ✓ 1. ਬਠਿੰਡਾ
- ✗ 2. ਲੁਧਿਆਣਾ
- ✗ 3. ਜਲੰਧਰ
- ✗ 4. ਅੰਮ੍ਰਿਤਸਰ

Question ID : **630680238527**
Option 1 ID : **630680925127**
Option 2 ID : **630680925125**
Option 3 ID : **630680925126**
Option 4 ID : **630680925124**
Status : **Answered**
Chosen Option : **1**

Q.46 ਰਾਜ ਸਭਾ ਦੇ ਮੈਂਬਰ ਦਾ ਕਾਰਜਕਾਲ _____ ਸਾਲਾਂ ਦਾ ਹੁੰਦਾ ਹੈ।

Ans
- ✗ 1. ਚਾਰ
- ✗ 2. ਪੰਜ
- ✓ 3. ਛੇ
- ✗ 4. ਤਿੰਨ

Question ID : **63068051522**
Option 1 ID : **630680198324**
Option 2 ID : **630680198322**
Option 3 ID : **630680198323**
Option 4 ID : **630680198325**
Status : **Answered**
Chosen Option : **3**

DAILY JOB Alert ਪੰਜਾਬ

Q.47 ਭਾਰਤ ਦੀ 2011 ਦੀ ਜਣਗਨਣਾ ਦੇ ਆਧਾਰ 'ਤੇ ਹੇਠ ਦਿੱਤਿਆਂ ਦਾ ਮਿਲਾਣ ਕਰੋ:

ਰਾਜ/ਕੇਂਦਰਸ਼ਾਸਿਤ ਪ੍ਰਦੇਸ਼	ਔਰਤਾਂ ਪ੍ਰਤੀ 1000 ਮਰਦ
1. ਕੇਰਲ	a. 1037
2. ਪੁੱਡੁਚੇਰੀ	b. 1084
3. ਦਿੱਲੀ	c. 879
4. ਹਰਿਆਣਾ	d. 868

Ans
✔ 1. 1-b, 2-a, 3-d, 4-c
✘ 2. 1-b, 2-a, 3-c, 4-d
✘ 3. 1-b, 2-c, 3-a, 4-d
✘ 4. 1-a, 2-b, 3-c, 4-d

Question ID : **630680119366**
Option 1 ID : **630680462554**
Option 2 ID : **630680462555**
Option 3 ID : **630680462556**
Option 4 ID : **630680462557**
Status : **Answered**
Chosen Option : **4**

Q.48 ਭਾਰਤ ਦੀ ਪਹਿਲੀ ਮਹਿਲਾ _____ਡਾ. ਮੰਮਬਾਲਿਕਾਲਤਿਲ ਸ਼ਾਰਦਾ ਮੇਨੋਨ (Mambalikalathil Sarada Menon) ਦਾ ਦੇਹਾਂਤ ਦਿਸੰਬਰ 2021 ਨੂੰ ਹੋਇਆ ਸੀ।

Ans
✔ 1. ਮਨੋਵਿਗਿਆਨੀ
✘ 2. ਲੇਖਿਕਾ
✘ 3. ਜੋਤਸ਼ੀ
✘ 4. ਹਿਰਦਾ-ਵਿਗਿਆਨੀ

Question ID : **630680145771**
Option 1 ID : **630680564011**
Option 2 ID : **630680564012**
Option 3 ID : **630680564010**
Option 4 ID : **630680564013**
Status : **Not Answered**
Chosen Option : **--**

Q.49 The President of which of the following countries was the Chief Guest of Republic Day Celebration 2023 in India?

Ans
✔ 1. Egypt
✘ 2. Libya
✘ 3. Israel
✘ 4. Indonesia

Question ID : **630680170375**
Option 1 ID : **630680660094**
Option 2 ID : **630680660095**
Option 3 ID : **630680660093**
Option 4 ID : **630680660096**
Status : **Answered**
Chosen Option : **1**

Website - www.dailyjobalert.in

Q.50 ਹੇਠ ਦਿੱਤਿਆਂ ਵਿੱਚੋਂ ਕਿਹੜੀ ਊਸ਼ਣ-ਖੰਡੀ ਪਤਝੜ ਵਾਲੇ ਜੰਗਲਾਂ ਵਿੱਚ ਸਭ ਤੋਂ ਵੱਧ ਪ੍ਰਭਾਵੀ ਜਾਤੀ ਹੈ?

Ans
✔ 1. ਟੀਕ (Teak)
✘ 2. ਦੇਵਦਾਰ (Deodar)
✘ 3. ਸਿਲਵਰ ਫਿਰ (Silver fir)
✘ 4. ਸੀਡਰ (Cedar)

Question ID : **630680111982**
Option 1 ID : **630680433655**
Option 2 ID : **630680433657**
Option 3 ID : **630680433654**
Option 4 ID : **630680433656**
Status : **Not Answered**
Chosen Option : **--**

Section : **Quantitative Aptitude and Numerical Skills**

Q.51 ਇੱਕ ਦਰਜ਼ੀ ਕੋਲ 87.5 ਮੀਟਰ ਕੱਪੜਾ ਹੈ ਅਤੇ ਉਸ ਨੂੰ ਇੱਕ ਮੀਟਰ ਕੱਪੜੇ ਵਿੱਚੋਂ 8 ਟੁਕੜੇ ਬਣਾਉਣੇ ਪੈਂਦੇ ਹਨ। ਕੱਪੜੇ ਦੇ ਕੁੱਲ ਕਿੰਨੇ ਟੁਕੜੇ ਬਣਾਏ ਜਾ ਸਕਦੇ ਹਨ?

Ans
✘ 1. 525
✔ 2. 700
✘ 3. 400
✘ 4. 375

Question ID : **63068084416**
Option 1 ID : **630680327219**
Option 2 ID : **630680327218**
Option 3 ID : **630680327216**
Option 4 ID : **630680327217**
Status : **Answered**
Chosen Option : **2**

Q.52 The least number that is divisible by 675 and 550 is equal to:

Ans
✘ 1. 270
✔ 2. 14850
✘ 3. 10
✘ 4. 220

Question ID : **63068084233**
Option 1 ID : **630680326461**
Option 2 ID : **630680326462**
Option 3 ID : **630680326460**
Option 4 ID : **630680326463**
Status : **Answered**
Chosen Option : **2**

Website - www.dailyjobalert.in

Q.53 Pinky bought 15 books at the rate of ₹12 each, 40 pens at the rate of ₹5 each and 12 pencils at the rate of ₹2 each. Calculate the average price of all the stationery.

Ans
1. ₹3.75
2. ₹4.85
3. ₹6.03
4. ₹6.85

Question ID : **630680108121**
Option 1 ID : **630680419562**
Option 2 ID : **630680419561**
Option 3 ID : **630680419560**
Option 4 ID : **630680419563**
Status : **Answered**
Chosen Option : **3**

Q.54 ਹੇਠਾਂ ਦਿੱਤੇ ਵਿਅੰਜਕ ਨੂੰ ਸਰਲ ਕਰੋ।

$$\frac{\frac{7}{2} \div \frac{5}{2} \times \frac{3}{2}}{\frac{7}{2} \div \frac{5}{2} \text{ of } \frac{3}{2}} \div \frac{15}{14}$$

Ans
1. $\frac{14}{15}$
2. $\frac{21}{10}$
3. $\frac{32}{10}$
4. $\frac{22}{20}$

Question ID : **630680107550**
Option 1 ID : **630680417520**
Option 2 ID : **630680417521**
Option 3 ID : **630680417523**
Option 4 ID : **630680417522**
Status : **Answered**
Chosen Option : **1**

Q.55 $\{\overline{4+3} + ((16 \div 8) \div 2)\} + 6 \times 9 \div 3 + 12$ ਦਾ ਮੁੱਲ ਪਤਾ ਕਰੋ।

Ans
1. 32
2. 38
3. 41
4. 36

Question ID : **63068070935**
Option 1 ID : **630680274350**
Option 2 ID : **630680274352**
Option 3 ID : **630680274353**
Option 4 ID : **630680274351**
Status : **Answered**
Chosen Option : **2**

Website - www.dailyjobalert.in

Q.56 ਇੱਕ ਭਿੰਨ ਦੇ ਅੰਸ਼ ਵਿੱਚ 2 ਜੋੜਨ 'ਤੇ ਅਤੇ ਹਰ ਵਿੱਚ 5 ਜੋੜਨ 'ਤੇ ਭਿੰਨ $\frac{1}{2}$ ਬਣ ਜਾਂਦੀ ਹੈ। ਅੰਸ਼ ਅਤੇ ਹਰ ਦੋਵਾਂ ਵਿੱਚੋਂ 2 ਘਟਾਉਣ ਨਾਲ ਇਹ $\frac{1}{3}$ ਬਣ ਜਾਂਦਾ ਹੈ। ਭਿੰਨ ਪਤਾ ਕਰੋ।

Ans

✗ 1. $\frac{8}{15}$

✓ 2. $\frac{3}{5}$

✗ 3. $\frac{1}{7}$

✗ 4. $\frac{4}{17}$

Question ID : **630680222902**
Option 1 ID : **630680865367**
Option 2 ID : **630680865368**
Option 3 ID : **630680865369**
Option 4 ID : **630680865370**
Status : **Answered**
Chosen Option : **2**

Q.57 A sum of ₹2,500 is invested in a bank at the rate of 6% interest per annum compounded annually. On maturity, the amount payable becomes ₹2,809. Find the time period of the investment.

Ans

✓ 1. 2 years

✗ 2. 1 year

✗ 3. 1.5 years

✗ 4. 2.5 years

Question ID : **630680206368**
Option 1 ID : **630680800249**
Option 2 ID : **630680800247**
Option 3 ID : **630680800250**
Option 4 ID : **630680800248**
Status : **Answered**
Chosen Option : **1**

Website - www.dailyjobalert.in

Q.58 6 cm ਵਿਆਸ ਦਾ ਇੱਕ ਗੋਲਾਕਾਰ ਬਰਫ਼ ਦਾ ਟੁਕੜਾ, ਇੱਕ ਅੰਸ਼ਕ ਤੌਰ 'ਤੇ ਪਾਣੀ ਨਾਲ ਭਰੇ ਵੇਲਣਾਕਾਰ ਬਰਤਨ ਵਿੱਚ ਪਾਇਆ ਜਾਂਦਾ ਹੈ। ਵੇਲਣਾਕਾਰ ਬਰਤਨ ਦਾ ਵਿਆਸ 12 cm ਹੈ। ਜੇਕਰ ਗੋਲਾ ਪਾਣੀ ਵਿੱਚ ਪੂਰੀ ਤਰ੍ਹਾਂ ਵਲੀਨ ਹੋ ਜਾਂਦਾ ਹੈ, ਤਾਂ ਬਰਤਨ ਵਿੱਚ ਪਾਣੀ ਦਾ ਪੱਧਰ ਕਿੰਨੇ ਸੈਂਟੀਮੀਟਰ ਤੱਕ ਵਧੇਗਾ?

Ans

✗ 1. 2

✗ 2. 2.5

✗ 3. 5

✓ 4. 1

Question ID : **630680108987**
Option 1 ID : **630680422828**
Option 2 ID : **630680422831**
Option 3 ID : **630680422830**
Option 4 ID : **630680422829**
Status : **Not Answered**
Chosen Option : **--**

Q.59 ਜੇਕਰ $\left(\frac{2}{3}\right)^{x} \times \left(\frac{3}{2}\right)^{2x} = \frac{243}{32}$, ਤਦ x ਦਾ ਮੁੱਲ ਪਤਾ ਕਰੋ।

Ans

✗ 1. 6

✗ 2. 7

✓ 3. 5

✗ 4. 4

Question ID : **63068078403**
Option 1 ID : **630680303675**
Option 2 ID : **630680303676**
Option 3 ID : **630680303673**
Option 4 ID : **630680303674**
Status : **Not Answered**
Chosen Option : **--**

Q.60 The fraction equivalent to $\frac{4}{5}\%$ is:

Ans

✗ 1. $\frac{1}{40}$

✗ 2. $\frac{1}{500}$

✗ 3. $\frac{1}{250}$

✓ 4. $\frac{1}{125}$

Question ID : **63068070910**
Option 1 ID : **630680274250**
Option 2 ID : **630680274253**
Option 3 ID : **630680274252**
Option 4 ID : **630680274251**
Status : **Answered**
Chosen Option : **4**

Website - www.dailyjobalert.in

Q.61 ਇੱਕ ਵਿਅਕਤੀ 64 km/h ਦੀ ਚਾਲ ਨਾਲ 160 km ਅਤੇ 80 km/h ਦੀ ਚਾਲ ਨਾਲ ਅਗਲੇ 160 km ਤੱਕ ਸਫ਼ਰ ਕਰਦਾ ਹੈ। ਯਾਤਰਾ ਦੇ ਪਹਿਲੇ 320 km ਲਈ, ਔਸਤ ਚਾਲ ਪਤਾ ਕਰੋ।

Ans
✗ 1. 68 km/h
✗ 2. 73.22 km/h
✗ 3. 75 km/h
✓ 4. 71.11 km/h

Question ID : **630680107644**
Option 1 ID : **630680417868**
Option 2 ID : **630680417870**
Option 3 ID : **630680417871**
Option 4 ID : **630680417869**
Status : **Answered**
Chosen Option : **4**

Q.62 ਇੱਕ ਵਪਾਰੀ ਖਰੀਦ ਮੁੱਲ ਤੋਂ 40% ਵੱਧ 'ਤੇ ਆਪਣੀਆਂ ਚੀਜ਼ਾਂ ਦਾ ਅੰਕਿਤ ਮੁੱਲ ਨਿਰਧਾਰਿਤ ਕਰਦਾ ਹੈ ਅਤੇ ਫਿਰ ਖਰੀਦਦਾਰਾਂ ਨੂੰ 15% ਛੋਟ ਦੀ ਪੇਸ਼ਕਸ਼ ਕਰਦਾ ਹੈ। ਵਪਾਰੀ ਦਾ ਲਾਭ ਪਤਾ ਕਰੋ।

Ans
✓ 1. 19%
✗ 2. 17%
✗ 3. 13%
✗ 4. 15%

Question ID : **630680107652**
Option 1 ID : **630680417900**
Option 2 ID : **630680417901**
Option 3 ID : **630680417903**
Option 4 ID : **630680417902**
Status : **Answered**
Chosen Option : **1**

Q.63 ਚਾਰ ਦੋਸਤਾਂ A, B, C ਅਤੇ D, ਨੇ ਇੱਕ ਕਾਰੋਬਾਰ ਸ਼ੁਰੂ ਕਰਨ ਲਈ ਇੱਕ ਹਿੱਸੇਦਾਰੀ ਕੀਤੀ। ਉਨ੍ਹਾਂ ਨੇ ਕ੍ਰਮਵਾਰ 4:7:9:13 ਦੇ ਵਿੱਚ ਨਿਵੇਸ਼ ਕੀਤਾ। ਉਹਨਾਂ ਦੇ ਹਫ਼ਤਾਵਾਰੀ ਲਾਭ ਦੇ ਆਧਾਰ 'ਤੇ, ਜੇਕਰ B ਨੂੰ ₹4,872 ਮਿਲਦਾ ਹੈ, ਤਾਂ ਲਾਭ ਵਿੱਚ A ਅਤੇ C ਦੀ ਕੁੱਲ ਹਿੱਸੇਦਾਰੀ ਕਿੰਨੀ ਹੋਵੇਗੀ?

Ans
✗ 1. ₹7,456
✓ 2. ₹9,048
✗ 3. ₹6,998
✗ 4. ₹9,784

Question ID : **630680131205**
Option 1 ID : **630680508089**
Option 2 ID : **630680508086**
Option 3 ID : **630680508087**
Option 4 ID : **630680508088**
Status : **Answered**
Chosen Option : **2**

Website - www.dailyjobalert.in

Q.64 ਦੋ ਲੰਬ ਚੱਕਰੀ ਸ਼ੰਕੂਆਂ ਦੀ ਉਚਾਈ 2 : 3 ਦੇ ਅਨੁਪਾਤ ਵਿੱਚ ਹੈ ਅਤੇ ਉਹਨਾਂ ਦੇ ਅਧਾਰਾਂ ਦੇ ਪਰਿਮਾਪ 5 : 7 ਦੇ ਅਨੁਪਾਤ ਵਿੱਚ ਹਨ। ਉਹਨਾਂ ਦੇ ਆਇਤਨਾ ਦਾ ਅਨੁਪਾਤ ਪਤਾ ਕਰੋ।

Ans

✗ 1. 50 : 142

✗ 2. 40 : 142

✓ 3. 50 : 147

✗ 4. 40 : 147

Question ID : **630680102973**
Option 1 ID : **630680400151**
Option 2 ID : **630680400154**
Option 3 ID : **630680400152**
Option 4 ID : **630680400153**
Status : **Answered**
Chosen Option : **3**

Q.65 2 cm ਅਰਧ-ਵਿਆਸ ਵਾਲੇ ਇੱਕ ਅਰਧ-ਗੋਲੇ ਦਾ ਆਇਤਨ ਪਤਾ ਕਰੋ।

Ans

✓ 1. $\frac{16\pi}{3}$ cm^3

✗ 2. $\frac{4\pi}{3}$ cm^3

✗ 3. $\frac{8\pi}{3}$ cm^3

✗ 4. 8π cm^3

Question ID : **63068071061**
Option 1 ID : **630680274840**
Option 2 ID : **630680274838**
Option 3 ID : **630680274839**
Option 4 ID : **630680274841**
Status : **Answered**
Chosen Option : **2**

DAILY JOB Alert ਪੰਜਾਬ

Q.66 ਇੱਕ ਵਪਾਰੀ ਕਣਕ ਦੀਆਂ ਤਿੰਨ ਕਿਸਮਾਂ A, B ਅਤੇ C ਵੇਚਦਾ ਹੈ। ਉਹ ਕ੍ਰਮਵਾਰ 100 kg ਕਿਸਮ A ਨੂੰ ₹79/kg ਦੀ ਦਰ ਨਾਲ, 80 kg ਕਿਸਮ B ਨੂੰ ₹70/kg ਦੀ ਦਰ ਨਾਲ ਅਤੇ 120 kg ਕਿਸਮ C ਨੂੰ ₹60/kg ਦੀ ਦਰ ਨਾਲ ਵੇਚਦਾ ਹੈ। ਵਪਾਰੀ ਦੁਆਰਾ ਵੇਚੀ ਗਈ ਕਣਕ ਦੀ ਪ੍ਰਤੀ kg (₹ ਵਿੱਚ) ਔਸਤ ਮੁੱਲ ਕਿੰਨਾ ਹੋਵੇਗਾ?

Ans
1. 66
2. 71
3. 74
4. 69

Question ID : **630680180132**
Option 1 ID : **630680698272**
Option 2 ID : **630680698273**
Option 3 ID : **630680698274**
Option 4 ID : **630680698275**
Status : **Answered**
Chosen Option : **4**

Q.67 What annual payment will discharge a debt of ₹4,350 due in 5 years at 3% simple interest?

Ans
1. ₹740.24
2. ₹840.45
3. ₹820.75
4. ₹1,011.63

Question ID : **630680131497**
Option 1 ID : **630680509234**
Option 2 ID : **630680509236**
Option 3 ID : **630680509235**
Option 4 ID : **630680509237**
Status : **Answered**
Chosen Option : **4**

Q.68 ਸੰਖਿਆ 6×30+135×14+105×12 _____ ਨਾਲ ਭਾਗਯੋਗ ਹੈ।

Ans
1. 37
2. 19
3. 23
4. 29

Question ID : **63068094936**
Option 1 ID : **630680368439**
Option 2 ID : **630680368440**
Option 3 ID : **630680368441**
Option 4 ID : **630680368442**
Status : **Answered**
Chosen Option : **1**

Website - www.dailyjobalert.in

Q.69 ਉਸ ਘਣ ਦਾ ਆਇਤਨ ਕਿੰਨਾ ਹੋਵੇਗਾ ਜਿਸਦਾ ਪਾਸਵੀਂ ਸਤ੍ਹਾ ਦਾ ਖੇਤਰਫ਼ਲ 196 cm^2 ਹੈ?

Ans

✗ 1. 216 cm^3

✓ 2. 343 cm^3

✗ 3. 256 cm^3

✗ 4. 512 cm^3

Question ID : **63068076132**
Option 1 ID : **630680294636**
Option 2 ID : **630680294634**
Option 3 ID : **630680294635**
Option 4 ID : **630680294633**
Status : **Not Answered**
Chosen Option : **--**

Q.70 ਜੇਕਰ $\frac{3}{5} \times \left(x \div \frac{6}{5} - 2 \div 3\right)5 = 3y$ ਅਤੇ $y = 4\left(4 \div \frac{2}{5} \times 2 - 2 \div \frac{5}{3}\right) \div \frac{4}{5}$, ਤਦ ਹੇਠ ਲਿਖਿਆਂ ਵਿੱਚੋਂ ਸੰਪੂਰਨ ਸੰਖਿਆ ਕਿਹੜੀ ਹੈ?

Ans

✗ 1. $3x + \frac{y}{5}$

✗ 2. $x + \frac{y+2}{5}$

✓ 3. $x + \frac{y+3}{5}$

✗ 4. $x + \frac{y+1}{5}$

Question ID : **63068091893**
Option 1 ID : **630680356309**
Option 2 ID : **630680356306**
Option 3 ID : **630680356308**
Option 4 ID : **630680356307**
Status : **Not Answered**
Chosen Option : **--**

Q.71 **Two pipes A and B can fill a cistern in 4 hours and 6 hours, respectively. These pipes are opened alternatively for 1 hour each, beginning with A. In how much time will they fill the cistern?**

Ans

✗ 1. 4 hours 30 min

✗ 2. 4 hours 10 min

✗ 3. 4 hours 20 min

✓ 4. 4 hours 40 min

Question ID : **630680135911**
Option 1 ID : **630680526352**
Option 2 ID : **630680526350**
Option 3 ID : **630680526351**
Option 4 ID : **630680526353**
Status : **Answered**
Chosen Option : **4**

Website - www.dailyjobalert.in

Q.72 ਇਰਫਾਨ ਨੇ 15 ਮਿੰਟ ਵਿੱਚ 250 m ਲੰਬਾ ਪੁਲ ਪਾਰ ਕੀਤਾ। km/h ਵਿੱਚ ਉਸਦੀ ਚਾਲ ਕਿੰਨੀ ਹੈ?

Ans
✔ 1. 1
✘ 2. 2
✘ 3. 1.2
✘ 4. 2.1

Question ID : **630680103723**
Option 1 ID : **630680403123**
Option 2 ID : **630680403125**
Option 3 ID : **630680403124**
Option 4 ID : **630680403126**
Status : **Answered**
Chosen Option : **1**

Q.73 ਕਿਸੇ ਖਾਸ ਸ਼ਹਿਰ ਵਿੱਚ ਸਿਰਫ਼ ਦੋ ਅਖ਼ਬਾਰ A ਅਤੇ B ਪ੍ਰਕਾਸ਼ਿਤ ਹੁੰਦੇ ਹਨ। ਇਹ ਪਤਾ ਲੱਗਦਾ ਹੈ ਕਿ ਸ਼ਹਿਰ ਦੀ 25% ਆਬਾਦੀ, A ਪੜ੍ਹਦੀ ਹੈ ਅਤੇ 20%, B ਪੜ੍ਹਦੀ ਹੈ, ਜਦੋਂ ਕਿ 8%, A ਅਤੇ B ਦੋਵੇਂ ਪੜ੍ਹਦੀ ਹੈ। ਇਹ ਵੀ ਪਤਾ ਲੱਗਦਾ ਹੈ ਕਿ 30% ਲੋਕ ਜੋ A ਪੜ੍ਹਦੇ ਹਨ ਉਹ B ਨਹੀਂ ਪੜ੍ਹਦੇ ਹਨ, ਉਹ ਇਸ਼ਤਿਹਾਰ ਪੜ੍ਹਦੇ ਹਨ ਅਤੇ 40% ਉਹ ਜੋ B ਪੜ੍ਹਦੇ ਹਨ ਪਰ A ਨਹੀਂ, ਉਹ ਇਸ਼ਤਿਹਾਰ ਪੜ੍ਹਦੇ ਹਨ, ਜਦੋਂ ਕਿ 50% ਉਹ ਜੋ A ਅਤੇ B ਦੋਵੇਂ ਪੜ੍ਹਦੇ ਹਨ, ਉਹ ਇਸ਼ਤਿਹਾਰ ਪੜ੍ਹਦੇ ਹਨ। ਆਬਾਦੀ ਦਾ ਕਿੰਨਾ ਪ੍ਰਤੀਸ਼ਤ ਇਸ਼ਤਿਹਾਰ ਪੜ੍ਹਦਾ ਹੈ?

Ans
✔ 1. 13.90%
✘ 2. 13.70%
✘ 3. 13.80%
✘ 4. 13.20%

Question ID : **630680115653**
Option 1 ID : **630680447965**
Option 2 ID : **630680447964**
Option 3 ID : **630680447963**
Option 4 ID : **630680447962**
Status : **Not Answered**
Chosen Option : **--**

Q.74 ਇੱਕ ਪ੍ਰੋਜੈਕਟ 120 ਕਾਮਿਆਂ ਦੁਆਰਾ 30 ਦਿਨਾਂ ਵਿੱਚ ਪੂਰਾ ਕੀਤਾ ਜਾ ਸਕਦਾ ਹੈ। ਹਾਲਾਂਕਿ, ਪ੍ਰੋਜੈਕਟ ਮੈਨੇਜਰ 16 ਦਿਨਾਂ ਬਾਅਦ 20 ਹੋਰ ਕਾਮੇ ਲਿਆਉਂਦਾ ਹੈ। ਬਾਕੀ ਬਚਿਆ ਕੰਮ ਕਿੰਨੇ ਦਿਨਾਂ ਵਿੱਚ ਪੂਰਾ ਹੋਵੇਗਾ?

Ans
✘ 1. 14
✔ 2. 12
✘ 3. 10
✘ 4. 15

Question ID : **630680125159**
Option 1 ID : **630680485416**
Option 2 ID : **630680485414**
Option 3 ID : **630680485415**
Option 4 ID : **630680485417**
Status : **Answered**
Chosen Option : **3**

Website - www.dailyjobalert.in

Q.75 ਦਿੱਤੇ ਗਏ ਵਿਅੰਜਕ ਨੂੰ ਸਰਲ ਕਰੋ।

$$(3^2 - 3) + (2^2 - 7) + (7^2 - 5^2) + (9^2 - 1)$$

Ans
1. 131
2. 100
3. 414
4. 107

Question ID : **630680138450**
Option 1 ID : **630680536007**
Option 2 ID : **630680536009**
Option 3 ID : **630680536008**
Option 4 ID : **630680536006**
Status : **Answered**
Chosen Option : **4**

Q.76 ਇੱਕ ਠੋਸ ਲੰਬ ਚੱਕਰੀ ਸ਼ੰਕੂ-ਆਕਾਰੀ ਖਾਲੀ ਟੈਂਕ ਦਾ ਅਰਧ-ਵਿਆਸ r ਫੁੱਟ ਅਤੇ ਉਚਾਈ h ਫੁੱਟ ਹੈ। ਇਹ ਟੈਂਕ ਪਾਣੀ ਨਾਲ W ਘਣ ਫੁੱਟ ਪ੍ਰਤੀ ਸੈਕਿੰਡ ਦੀ ਦਰ 'ਤੇ ਭਰਿਆ ਜਾਂਦਾ ਹੈ। r, h, ਅਤੇ w ਦੇ ਸੰਬੰਧ ਵਿੱਚ, ਹੇਠਾ ਦਿੱਤੇ ਵਿਅੰਜਕਾਂ ਵਿੱਚੋਂ ਕਿਹੜਾ ਟੈਂਕ ਦੇ ਪੂਰੀ ਤਰ੍ਹਾਂ ਭਰ ਜਾਣ ਤੱਕ ਮਿੰਟਾਂ ਦੀ ਗਿਣਤੀ ਨੂੰ ਦਰਸਾਉਂਦਾ ਹੈ?

Ans
1. $\frac{\pi r^2 h}{180\ w}$
2. $\frac{\pi r^2 h}{60\ w}$
3. $\frac{\pi r^2 h}{3w}$
4. $\frac{\pi r^2 h}{120\ w}$

Question ID : **630680101507**
Option 1 ID : **630680394550**
Option 2 ID : **630680394549**
Option 3 ID : **630680394548**
Option 4 ID : **630680394551**
Status : **Not Answered**
Chosen Option : **--**

DAILY JOB Alert ਪੰਜਾਬ

Q.77 ਇੱਕ ਵਿਕਰੇਤਾ ਇੱਕ ਵਸਤੂ 'ਤੇ ਖਰੀਦਦਾਰਾਂ ਲਈ ਹੇਠ ਲਿਖੀਆਂ ਛੋਟ ਸਕੀਮਾਂ ਦੀ ਪੇਸ਼ਕਸ਼ ਕਰਦਾ ਹੈ।

i. 10% ਅਤੇ 5% ਦੀਆਂ ਕ੍ਰਮਵਾਰ ਛੋਟਾਂ।

ii. 20% ਦੀ ਇੱਕ ਛੋਟ।

iii. 15% ਦੀ ਛੂਟ ਤੋਂ ਬਾਅਦ 10% ਦੀ ਛੋਟ।

ਉਪਰੋਕਤ ਜਾਣਕਾਰੀ ਦੇ ਆਧਾਰ 'ਤੇ, ਸਹੀ ਵਿਕਲਪ ਦੀ ਚੋਣ ਕਰੋ, ਕਿਸ ਸਕੀਮ ਦੇ ਤਹਿਤ ਵੇਚ-ਮੁੱਲ ਘੱਟੋ-ਘੱਟ ਹੋਵੇਗਾ?

Ans
✗ 1. ਸਿਰਫ਼ i

✗ 2. ਸਿਰਫ਼ ii

✗ 3. ii ਅਤੇ iii ਦੋਵੇਂ

✓ 4. ਸਿਰਫ਼ iii

Question ID : **630680178047**
Option 1 ID : **630680690304**
Option 2 ID : **630680690305**
Option 3 ID : **630680690307**
Option 4 ID : **630680690306**
Status : **Answered**
Chosen Option : **4**

Q.78 If 12, m and 27 are in continued proportion, then the value of m is:

Ans
✓ 1. 18

✗ 2. 3

✗ 3. 6

✗ 4. 9

Question ID : **630680205676**
Option 1 ID : **630680797515**
Option 2 ID : **630680797518**
Option 3 ID : **630680797516**
Option 4 ID : **630680797517**
Status : **Answered**
Chosen Option : **2**

Q.79 ਇੱਕ ਦੁਕਾਨਦਾਰ ਇੱਕੋ ਵਿਅਕਤੀ ਨੂੰ ਇੱਕ ਲੈਪਟਾਪ ਅਤੇ ਇੱਕ ਸੈਲ ਫ਼ੋਨ ਵੇਚਦਾ ਹੈ। ਲੈਪਟਾਪ ਦਾ ਖਰੀਦ ਮੁੱਲ (cost price) ₹35,000 ਹੈ, ਜਦੋਂ ਕਿ ਸੈੱਲ ਫ਼ੋਨ ਦਾ ਖਰੀਦ ਮੁੱਲ (cost price) ₹12,000 ਹੈ। ਉਸਨੂੰ ਲੈਪਟਾਪ 'ਤੇ 9% ਦਾ ਲਾਭ ਹੁੰਦਾ ਹੈ ਪਰ ਸੈੱਲ ਫ਼ੋਨ 'ਤੇ 8% ਦੀ ਹਾਨੀ ਹੁੰਦੀ ਹੈ। ਉਸਦੀ ਅਸਲ ਲਾਭ/ਹਾਨੀ ਕੀ ਹੋਵੇਗੀ?

Ans
✗ 1. ₹2,190 ਦੀ ਹਾਨੀ

✓ 2. ₹2,190 ਦਾ ਲਾਭ

✗ 3. ₹3,150 ਦਾ ਲਾਭ

✗ 4. ₹3,150 ਦੀ ਹਾਨੀ

Question ID : **630680131261**
Option 1 ID : **630680508310**
Option 2 ID : **630680508311**
Option 3 ID : **630680508313**
Option 4 ID : **630680508312**
Status : **Answered**
Chosen Option : **2**

Website - www.dailyjobalert.in

Q.80 ਅੰਕੜੇ 20, 36, 13, (x + 3), 31, 35, (x – 4), 31, 36, 4, 13, 20, 5 ਲਈ, ਜੇਕਰ ਮੱਧਮਾਨ 23 ਹੈ, ਤਾਂ ਅੰਕੜਿਆਂ ਦਾ ਬਹੁਲਕ ਕਿੰਨਾ ਹੋਵੇਗਾ?

Ans
✗ 1. 36
✗ 2. 13
✓ 3. 31
✗ 4. 20

Question ID : **630680151942**
Option 1 ID : **630680587813**
Option 2 ID : **630680587812**
Option 3 ID : **630680587815**
Option 4 ID : **630680587814**
Status : **Not Answered**
Chosen Option : **--**

Section : **Punjabi Language**

Q.81 "Fossilize" ਦਾ ਸਹੀ ਪੰਜਾਬੀ ਅਨੁਵਾਦ ਹੈ:-

Ans
✓ 1. ਪਥਰਾਉਣਾ
✗ 2. ਪਾਲਣਾ
✗ 3. ਪੋਸ਼ਣ ਕਰਨਾ
✗ 4. ਪਾਲਕ

Question ID : **630680241226**
Option 1 ID : **630680935353**
Option 2 ID : **630680935354**
Option 3 ID : **630680935352**
Option 4 ID : **630680935351**
Status : **Answered**
Chosen Option : **3**

Q.82 "ਜਿਹੜਾ ਕੀਤੇ ਨੂੰ ਜਾਣਨ ਵਾਲਾ ਹੋਵੇ" ਲਈ ਕਿਸੇ ਇਕ ਸਹੀ ਸ਼ਬਦ ਦੀ ਚੋਣ ਕਰੋ:-

Ans
✗ 1. ਅਕਿਰਤਘਣ
✗ 2. ਇਮਾਨਦਾਰ
✓ 3. ਕ੍ਰਿਤੱਗ
✗ 4. ਸ਼ਾਹਕਾਰ

Question ID : **630680241223**
Option 1 ID : **630680935339**
Option 2 ID : **630680935341**
Option 3 ID : **630680935340**
Option 4 ID : **630680935342**
Status : **Answered**
Chosen Option : **3**

Website - www.dailyjobalert.in

Q.83 ਹੇਠ ਲਿਖਿਆਂ ਵਿੱਚ ਕਿਹੜਾ ਸ਼ਬਦ "ਓਪਰਾ" ਦਾ ਸਮਾਨਾਰਥਕ ਨਹੀਂ ਹੈ?

Ans
✔ 1. ਗਵਾਰ
✘ 2. ਪਰਾਇਆ
✘ 3. ਬੇਗਾਨਾ
✘ 4. ਗ਼ੈਰ

Question ID : **630680241221**
Option 1 ID : **630680935334**
Option 2 ID : **630680935332**
Option 3 ID : **630680935331**
Option 4 ID : **630680935333**
Status : **Answered**
Chosen Option : **1**

Q.84 ਵਾਕ ਵਿੱਚ ਸੰਬੰਧਕ ਦੀ ਵਰਤੋਂ ਕਿੱਥੇ ਹੁੰਦੀ ਹੈ?

Ans
✘ 1. ਕਿਰਿਆ ਵਿਸ਼ੇਸ਼ਣ ਤੋਂ ਪਿੱਛੋਂ
✔ 2. ਨਾਂਵ ਜਾਂ ਪੜਨਾਂਵ ਸ਼ਬਦਾਂ ਤੋਂ ਪਿੱਛੋ
✘ 3. ਵਿਸ਼ੇਸ਼ਣ ਤੋਂ ਪਿੱਛੋਂ
✘ 4. ਕਿਰਿਆ ਤੋਂ ਪਿੱਛੋਂ

Question ID : **630680241213**
Option 1 ID : **630680935300**
Option 2 ID : **630680935301**
Option 3 ID : **630680935299**
Option 4 ID : **630680935302**
Status : **Answered**
Chosen Option : **4**

Q.85 "ਢਿੱਲਾ" ਦਾ ਵਿਪਰੀਤਾਰਥਕ ਸ਼ਬਦ ਹੈ:-

Ans
✘ 1. ਖੁੱਲਾ
✔ 2. ਕੱਸਿਆ
✘ 3. ਕਮਜ਼ੋਰ
✘ 4. ਸੁਸਤ

Question ID : **630680241220**
Option 1 ID : **630680935330**
Option 2 ID : **630680935329**
Option 3 ID : **630680935327**
Option 4 ID : **630680935328**
Status : **Answered**
Chosen Option : **2**

Website - www.dailyjobalert.in

Q.86 "ਰਾਹ ਪਿਆ ਜਾਈਏ ਜਾਂ ਵਾਹ ਪਿਆ ਜਾਈਏ।" ਵਾਕ ਦੀ ਕਿਸਮ ਹੈ:-

Ans
✔ 1. ਸੰਯੁਕਤ ਵਾਕ
✘ 2. ਮਿਸ਼ਰਤ ਵਾਕ
✘ 3. ਸਧਾਰਨ ਵਾਕ
✘ 4. ਕਰਮਣੀ ਵਾਕ

Question ID : **630680241215**
Option 1 ID : **630680935309**
Option 2 ID : **630680935308**
Option 3 ID : **630680935307**
Option 4 ID : **630680935310**
Status : **Answered**
Chosen Option : **1**

Q.87 ਹੇਠ ਲਿਖਿਆਂ ਵਿੱਚੋਂ ਅਸ਼ੁੱਧ ਸ਼ਬਦ ਦੀ ਚੋਣ ਕਰੋ:-

Ans
✘ 1. ਠਰ੍ਹੰਮਾ
✘ 2. ਸੁਥਰਾ
✘ 3. ਨਿਰਮਲ
✔ 4. ਧਿਰਜ

Question ID : **630680241218**
Option 1 ID : **630680935321**
Option 2 ID : **630680935322**
Option 3 ID : **630680935320**
Option 4 ID : **630680935319**
Status : **Answered**
Chosen Option : **4**

Q.88 'ਉਚਾਟ' ਦਾ ਸਮਾਨਾਰਥਕ ਸ਼ਬਦ ਹੈ:

Ans
✘ 1. ਮੀਨ
✘ 2. ਸਰਲ
✔ 3. ਉਦਾਸ
✘ 4. ਦੁਖੀ

Question ID : **630680241219**
Option 1 ID : **630680935326**
Option 2 ID : **630680935324**
Option 3 ID : **630680935323**
Option 4 ID : **630680935325**
Status : **Answered**
Chosen Option : **1**

Website - www.dailyjobalert.in

Q.89 "ਜਿਸ ਥਾਂ ਪੈਸੇ, ਰੁਪਏ ਆਦਿ ਦੇ ਸਿੱਕੇ ਬਣਾਏ ਜਾਂਦੇ ਹਨ" ਲਈ ਕਿਸੇ ਇਕ ਸਹੀ ਸ਼ਬਦ ਦੀ ਚੋਣ ਕਰੋ:-

Ans
1. ✗ ਚੁਪਾਇਆ
2. ✓ ਟਕਸਾਲ
3. ✗ ਸਿੱਕਾ ਸਥਾਨ
4. ✗ ਟਕਸਾਲੀ

Question ID : **630680241222**
Option 1 ID : **630680935336**
Option 2 ID : **630680935337**
Option 3 ID : **630680935338**
Option 4 ID : **630680935335**
Status : **Answered**
Chosen Option : **2**

Q.90 ਹੇਠ ਲਿਖੇ ਵਿਕਲਪਾਂ 'ਚੋਂ ਖਾਲੀ ਸਥਾਨ ਭਰੋ। "ਚੁਫੇਰਗੜ੍ਹੀਏ ਬੰਦੇ 'ਤੇ .....ਨਹੀਂ ਕੀਤਾ ਜਾ ਸਕਦਾ।"

Ans
1. ✗ ਜੁਗਾੜ
2. ✗ ਅਵਿਸ਼ਵਾਸ
3. ✗ ਆਸਰਾ
4. ✓ ਯਕੀਨ

Question ID : **630680241224**
Option 1 ID : **630680935343**
Option 2 ID : **630680935345**
Option 3 ID : **630680935346**
Option 4 ID : **630680935344**
Status : **Answered**
Chosen Option : **4**

Q.91 "Social media is next phase of journalism" ਵਾਕ ਦਾ ਸਹੀ ਅਨੁਵਾਦ ਹੈ:-

Ans
1. ✗ ਸੋਸ਼ਲ ਮੀਡੀਆ ਪੱਤਰਕਾਰੀ ਦਾ ਅਗਲਾ ਧੁਰਾ ਹੈ।
2. ✓ ਸੋਸ਼ਲ ਮੀਡੀਆ ਪੱਤਰਕਾਰੀ ਦਾ ਅਗਲਾ ਪੜਾਅ ਹੈ।
3. ✗ ਸੋਸ਼ਲ ਮੀਡੀਆ ਪੱਤਰਕਾਰੀ ਦਾ ਚਲਦਾ ਮਰਕਜ਼ ਹੈ।
4. ✗ ਸੋਸ਼ਲ ਮੀਡੀਆ ਪੱਤਰਕਾਰੀ ਦਾ ਅਗਲਾ ਕੇਂਦਰ ਹੈ।

Question ID : **630680241228**
Option 1 ID : **630680935362**
Option 2 ID : **630680935359**
Option 3 ID : **630680935361**
Option 4 ID : **630680935360**
Status : **Answered**
Chosen Option : **2**

DAILY JOB Alert ਪੰਜਾਬ

Q.92 ਹੇਠ ਲਿਖੇ ਵਿਕਲਪਾਂ 'ਚੋਂ ਖਾਲੀ ਸਥਾਨ ਭਰੋ। "ਇੰਨੀ ਕੁ.....ਨਾਲ ਅੱਜ ਕੱਲ ਗੁਜ਼ਾਰਾ ਕਰਨਾ ਮੁਸ਼ਕਿਲ ਹੈ।"

Ans
✗ 1. ਮਿਹਨਤਕਸ਼
✗ 2. ਮਹਿੰਗਾਈ
✓ 3. ਕਮਾਈ
✗ 4. ਪੈਸਿਆਂ

Question ID : **630680241225**
Option 1 ID : **630680935349**
Option 2 ID : **630680935348**
Option 3 ID : **630680935347**
Option 4 ID : **630680935350**
Status : **Answered**
Chosen Option : **3**

Q.93 ਹੇਠ ਲਿਖਿਆਂ 'ਚੋਂ ਸ਼ੁੱਧ ਸ਼ਬਦ ਚੁਣੋ:-

Ans
✗ 1. ਸੰਮਾਪਤੀ
✓ 2. ਸਮਾਪਤੀ
✗ 3. ਸਮਾਪਤਿ
✗ 4. ਸਾਮਪਤੀ

Question ID : **630680241217**
Option 1 ID : **630680935318**
Option 2 ID : **630680935316**
Option 3 ID : **630680935315**
Option 4 ID : **630680935317**
Status : **Answered**
Chosen Option : **2**

Q.94 "ਅਸੀਂ ਆਪਣੇ ਦੇਸ਼ ਨੂੰ ਪਿਆਰ ਕਰਦੇ ਹਾਂ" ਵਾਕ ਦੀ ਕਾਰਜ ਦੇ ਆਧਾਰ 'ਤੇ ਕਿਸਮ ਹੈ:-

Ans
✗ 1. ਨਾਂਹ-ਵਾਚਕ
✗ 2. ਵਿਸਮੈ-ਵਾਚਕ
✓ 3. ਹਾਂ-ਵਾਚਕ
✗ 4. ਪ੍ਰਸ਼ਨ-ਵਾਚਕ

Question ID : **630680241216**
Option 1 ID : **630680935312**
Option 2 ID : **630680935311**
Option 3 ID : **630680935314**
Option 4 ID : **630680935313**
Status : **Answered**
Chosen Option : **3**

Website - www.dailyjobalert.in

Q.95 "Distinctive" ਦਾ ਸਹੀ ਪੰਜਾਬੀ ਅਨੁਵਾਦ ਹੈ:-

Ans
✔ 1. ਨਿਵੇਕਲਾ
✘ 2. ਨਿਖੇੜ
✘ 3. ਵਡਿਆਈ
✘ 4. ਮਰਤਬਾ

Question ID : **630680241227**
Option 1 ID : **630680935358**
Option 2 ID : **630680935355**
Option 3 ID : **630680935356**
Option 4 ID : **630680935357**
Status : **Answered**
Chosen Option : **1**

Q.96 ਵਾਕਾਂ ਦੀ ਕਾਰਜ ਦੇ ਆਧਾਰ 'ਤੇ ਵਾਕ-ਵੰਡ ਕਿੰਨੇ ਪ੍ਰਕਾਰ ਦੀ ਹੁੰਦੀ ਹੈ?

Ans
✘ 1. ਪੰਜ
✔ 2. ਛੇ
✘ 3. ਤਿੰਨ
✘ 4. ਚਾਰ

Question ID : **630680241214**
Option 1 ID : **630680935306**
Option 2 ID : **630680935305**
Option 3 ID : **630680935303**
Option 4 ID : **630680935304**
Status : **Answered**
Chosen Option : **3**

Comprehension:

ਜਿਸ ਸਰੀਰ ਨੇ ਕਦੇ ਖੇਚਲ, ਮਿਹਨਤ ਤੇ ਕਸ਼ਟ ਦਾ ਮੂੰਹ ਨਹੀਂ ਦੇਖਿਆ ਉਸ ਵਿੱਚ ਬਰਕਤ ਜਾਂ ਰੌਣਕ ਕਿਵੇਂ ਹੋ ਸਕਦੀ ਹੈ? ਜਿਸ ਬਿਰਖ ਨੂੰ ਨਾ ਫੁੱਲ ਹੈ ਨਾ ਫਲ ਹੈ ਨਾ ਉਸਦੀ ਠੰਡੀ ਛਾਂ ਹੈ, ਆਮ ਕਰਕੇ ਉਹ ਬਾਲਣ ਬਣਾ ਕੇ ਚੁਲ੍ਹੇ ਵਿੱਚ ਫੂਕ ਦਿੱਤਾ ਜਾਂਦਾ ਹੈ। ਮਨੁੱਖੀ ਸਰੀਰ ਕੰਮ ਲਈ ਬਣਿਆ ਹੈ। ਕੰਮ ਨਾ ਕਰਨਾ ਮਨੁੱਖੀ ਸਰੀਰ ਨੂੰ ਅਕਾਰਥ ਗੁਆਉਣਾ ਹੈ। ਕੌਣ ਮੁੱਕਰ ਸਕਦਾ ਹੈ, ਇਸ ਗੱਲੋਂ ਕਿ ਜਿਹੜਾ ਸਰੀਰ ਮੁਸ਼ੱਕਤ ਵਿੱਚ ਨਹੀਂ ਪੈਂਦਾ, ਕਦੇ ਅਰੋਗ ਨਹੀਂ ਰਹਿ ਸਕਦਾ। ਇਕ ਪਾਸੇ ਲੋਕ ਹੱਥੀ ਕੰਮ ਕਰਨ ਤੋਂ ਭੱਜਦੇ ਹਨ ਤੇ ਦੂਸਰੇ ਪਾਸੇ ਸਰੀਰ ਨੂੰ ਠੀਕ ਰੱਖਣ ਲਈ ਕਸਰਤ ਕਰਦੇ ਹਨ, ਜੋ ਕਿ ਵਿਹਲਾ ਕੰਮ ਹੈ; ਇਕ ਤਰ੍ਹਾਂ ਦਾ ਮੀਸਣਾਪਣ ਹੈ-ਜ਼ੋਰ ਤੇ ਸਮਾਂ, ਜਿਸ ਨਾਲ ਕੁਝ ਦੌਲਤ ਰਚੀ ਜਾ ਸਕਦੀ ਹੈ ਉਸਨੂੰ ਦੂਜਿਆਂ ਲਈ ਵਰਤਣ ਦੀ ਥਾਂ ਖਾਸ ਆਪਣੇ ਬਣਾਉਟੀ ਸਵਾਰਥ ਲਈ ਵਰਤਣਾ। ਸਰੀਰ ਜੋ ਕੰਮ ਨਹੀਂ ਕਰਦਾ, ਕੁਦਰਤ ਤੋਂ ਉਕਾ ਵਿਰੁੱਧ ਹੈ। ਕਿਉਂਕਿ ਕੰਮ ਹੀ ਸਰੀਰ ਦੇ ਸਾਰੇ ਅੰਗਾਂ ਨੂੰ ਚੰਗੀ ਤਰ੍ਹਾਂ ਕੁਦਰਤੀ ਹਿਲ-ਜੁਲ ਵਿੱਚ ਪਾ ਕੇ ਅਰੋਗ, ਸੁੰਦਰ ਤੇ ਸੁਡੌਲ ਰੱਖ ਸਕਦਾ ਹੈ।

SubQuestion No : 97

Q.97 ਸਰੀਰ ਦੇ ਗੁਣ ਨੂੰ ਅਕਾਰਥ ਕਿਵੇਂ ਗੁਆਇਆ ਜਾਂਦਾ ਹੈ?

Ans
✘ 1. ਜਦੋਂ ਜ਼ੋਰ ਨਾਲ ਕੰਮ ਕੀਤਾ ਜਾਵੇ
✔ 2. ਜਦੋਂ ਕੰਮ ਕਰਨ ਲਈ ਬਣੇ ਸਰੀਰ ਤੋਂ ਕੰਮ ਨਾ ਲਿਆ ਜਾਵੇ
✘ 3. ਜਦੋਂ ਕੁਦਰਤ ਦੀ ਨਿਆਮਤ ਦਾ ਆਨੰਦ ਨਾ ਮਾਣਿਆਂ ਜਾਵੇ
✘ 4. ਜਦੋਂ ਕਸਰਤ ਨਾ ਕੀਤੀ ਜਾਵੇ

Question ID : **630680241231**
Option 1 ID : **630680935368**
Option 2 ID : **630680935370**
Option 3 ID : **630680935367**
Option 4 ID : **630680935369**
Status : **Answered**
Chosen Option : **2**

Website - www.dailyjobalert.in

Comprehension:

ਜਿਸ ਸਰੀਰ ਨੇ ਕਦੇ ਖੇਚਲ, ਮਿਹਨਤ ਤੇ ਕਸ਼ਟ ਦਾ ਮੂੰਹ ਨਹੀਂ ਦੇਖਿਆ ਉਸ ਵਿੱਚ ਬਰਕਤ ਜਾਂ ਰੌਣਕ ਕਿਵੇਂ ਹੋ ਸਕਦੀ ਹੈ? ਜਿਸ ਬਿਰਖ ਨੂੰ ਨਾ ਫੁੱਲ ਹੈ ਨਾ ਫਲ ਹੈ ਨਾ ਉਸਦੀ ਠੰਡੀ ਛਾਂ ਹੈ, ਆਮ ਕਰਕੇ ਉਹ ਬਾਲਣ ਬਣਾ ਕੇ ਚੁਲ੍ਹੇ ਵਿੱਚ ਫੂਕ ਦਿੱਤਾ ਜਾਂਦਾ ਹੈ। ਮਨੁੱਖੀ ਸਰੀਰ ਕੰਮ ਲਈ ਬਣਿਆ ਹੈ। ਕੰਮ ਨਾ ਕਰਨਾ ਮਨੁੱਖੀ ਸਰੀਰ ਨੂੰ ਅਕਾਰਥ ਗੁਆਉਣਾ ਹੈ। ਕੌਣ ਮੁੱਕਰ ਸਕਦਾ ਹੈ, ਇਸ ਗੱਲੋਂ ਕਿ ਜਿਹੜਾ ਸਰੀਰ ਮੁਸ਼ੱਕਤ ਵਿੱਚ ਨਹੀਂ ਪੈਂਦਾ, ਕਦੇ ਅਰੋਗ ਨਹੀਂ ਰਹਿ ਸਕਦਾ। ਇਕ ਪਾਸੇ ਲੋਕ ਹੱਥੀ ਕੰਮ ਕਰਨ ਤੋਂ ਭੱਜਦੇ ਹਨ ਤੇ ਦੂਸਰੇ ਪਾਸੇ ਸਰੀਰ ਨੂੰ ਠੀਕ ਰੱਖਣ ਲਈ ਕਸਰਤ ਕਰਦੇ ਹਨ, ਜੋ ਕਿ ਵਿਹਲਾ ਕੰਮ ਹੈ; ਇਕ ਤਰ੍ਹਾਂ ਦਾ ਮੀਸਣਾਪਣ ਹੈ-ਜ਼ੋਰ ਤੇ ਸਮਾਂ, ਜਿਸ ਨਾਲ ਕੁਝ ਦੌਲਤ ਰਚੀ ਜਾ ਸਕਦੀ ਹੈ ਉਸਨੂੰ ਦੂਜਿਆਂ ਲਈ ਵਰਤਣ ਦੀ ਥਾਂ ਖਾਸ ਆਪਣੇ ਬਣਾਉਟੀ ਸਵਾਰਥ ਲਈ ਵਰਤਣਾ। ਸਰੀਰ ਜੋ ਕੰਮ ਨਹੀਂ ਕਰਦਾ, ਕੁਦਰਤ ਤੋਂ ਉਕਾ ਵਿਰੁੱਧ ਹੈ। ਕਿਉਂਕਿ ਕੰਮ ਹੀ ਸਰੀਰ ਦੇ ਸਾਰੇ ਅੰਗਾਂ ਨੂੰ ਚੰਗੀ ਤਰ੍ਹਾਂ ਕੁਦਰਤੀ ਹਿਲ-ਜੁਲ ਵਿੱਚ ਪਾ ਕੇ ਅਰੋਗ, ਸੁੰਦਰ ਤੇ ਸੁਡੌਲ ਰੱਖ ਸਕਦਾ ਹੈ।

SubQuestion No : 98

Q.98 ਉਪਰੋਕਤ ਪੈਰੇ ਦਾ ਸਿਰਲੇਖ ਹੈ:-

Ans
✔ 1. ਮੁਸ਼ੱਕਤ ਦੇ ਫਾਇਦੇ
✘ 2. ਅਰੋਗਤਾ ਦੇ ਲੱਛਣ
✘ 3. ਕਸਰਤ ਦੇ ਲਾਭ
✘ 4. ਮੀਸਣਾਪਣ

Question ID : **630680241230**
Option 1 ID : **630680935364**
Option 2 ID : **630680935365**
Option 3 ID : **630680935363**
Option 4 ID : **630680935366**
Status : **Answered**
Chosen Option : **1**

Comprehension:

ਜਿਸ ਸਰੀਰ ਨੇ ਕਦੇ ਖੇਚਲ, ਮਿਹਨਤ ਤੇ ਕਸ਼ਟ ਦਾ ਮੂੰਹ ਨਹੀਂ ਦੇਖਿਆ ਉਸ ਵਿੱਚ ਬਰਕਤ ਜਾਂ ਰੌਣਕ ਕਿਵੇਂ ਹੋ ਸਕਦੀ ਹੈ? ਜਿਸ ਬਿਰਖ ਨੂੰ ਨਾ ਫੁੱਲ ਹੈ ਨਾ ਫਲ ਹੈ ਨਾ ਉਸਦੀ ਠੰਡੀ ਛਾਂ ਹੈ, ਆਮ ਕਰਕੇ ਉਹ ਬਾਲਣ ਬਣਾ ਕੇ ਚੁਲ੍ਹੇ ਵਿੱਚ ਫੂਕ ਦਿੱਤਾ ਜਾਂਦਾ ਹੈ। ਮਨੁੱਖੀ ਸਰੀਰ ਕੰਮ ਲਈ ਬਣਿਆ ਹੈ। ਕੰਮ ਨਾ ਕਰਨਾ ਮਨੁੱਖੀ ਸਰੀਰ ਨੂੰ ਅਕਾਰਥ ਗੁਆਉਣਾ ਹੈ। ਕੌਣ ਮੁੱਕਰ ਸਕਦਾ ਹੈ, ਇਸ ਗੱਲੋਂ ਕਿ ਜਿਹੜਾ ਸਰੀਰ ਮੁਸ਼ੱਕਤ ਵਿੱਚ ਨਹੀਂ ਪੈਂਦਾ, ਕਦੇ ਅਰੋਗ ਨਹੀਂ ਰਹਿ ਸਕਦਾ। ਇਕ ਪਾਸੇ ਲੋਕ ਹੱਥੀ ਕੰਮ ਕਰਨ ਤੋਂ ਭੱਜਦੇ ਹਨ ਤੇ ਦੂਸਰੇ ਪਾਸੇ ਸਰੀਰ ਨੂੰ ਠੀਕ ਰੱਖਣ ਲਈ ਕਸਰਤ ਕਰਦੇ ਹਨ, ਜੋ ਕਿ ਵਿਹਲਾ ਕੰਮ ਹੈ; ਇਕ ਤਰ੍ਹਾਂ ਦਾ ਮੀਸਣਾਪਣ ਹੈ-ਜ਼ੋਰ ਤੇ ਸਮਾਂ, ਜਿਸ ਨਾਲ ਕੁਝ ਦੌਲਤ ਰਚੀ ਜਾ ਸਕਦੀ ਹੈ ਉਸਨੂੰ ਦੂਜਿਆਂ ਲਈ ਵਰਤਣ ਦੀ ਥਾਂ ਖਾਸ ਆਪਣੇ ਬਣਾਉਟੀ ਸਵਾਰਥ ਲਈ ਵਰਤਣਾ। ਸਰੀਰ ਜੋ ਕੰਮ ਨਹੀਂ ਕਰਦਾ, ਕੁਦਰਤ ਤੋਂ ਉਕਾ ਵਿਰੁੱਧ ਹੈ। ਕਿਉਂਕਿ ਕੰਮ ਹੀ ਸਰੀਰ ਦੇ ਸਾਰੇ ਅੰਗਾਂ ਨੂੰ ਚੰਗੀ ਤਰ੍ਹਾਂ ਕੁਦਰਤੀ ਹਿਲ-ਜੁਲ ਵਿੱਚ ਪਾ ਕੇ ਅਰੋਗ, ਸੁੰਦਰ ਤੇ ਸੁਡੌਲ ਰੱਖ ਸਕਦਾ ਹੈ।

SubQuestion No : 99

Q.99 ਮੁਸ਼ੱਕਤ ਨਾ ਕਰਨ ਵਾਲੇ ਸਰੀਰ 'ਤੇ ਕੀ ਪ੍ਰਭਾਵ ਪੈਂਦਾ ਹੈ?

Ans
✘ 1. ਸਰੀਰ ਨਿਰੋਗ ਰਹਿੰਦਾ ਹੈ
✔ 2. ਅਜਿਹਾ ਸਰੀਰ ਅਰੋਗ ਨਹੀਂ ਰਹਿੰਦਾ
✘ 3. ਕਮਾਈ ਹੁੰਦੀ ਹੈ
✘ 4. ਸਰੀਰ 'ਤੇ ਰੌਣਕ ਰਹਿੰਦੀ ਹੈ

Question ID : **630680241232**
Option 1 ID : **630680935371**
Option 2 ID : **630680935373**
Option 3 ID : **630680935372**
Option 4 ID : **630680935374**
Status : **Answered**
Chosen Option : **2**

Website - www.dailyjobalert.in

Comprehension:

ਜਿਸ ਸਰੀਰ ਨੇ ਕਦੇ ਖੇਚਲ, ਮਿਹਨਤ ਤੇ ਕਸ਼ਟ ਦਾ ਮੂੰਹ ਨਹੀਂ ਦੇਖਿਆ ਉਸ ਵਿੱਚ ਬਰਕਤ ਜਾਂ ਰੌਣਕ ਕਿਵੇਂ ਹੋ ਸਕਦੀ ਹੈ? ਜਿਸ ਬਿਰਖ ਨੂੰ ਨਾ ਫੁੱਲ ਹੈ ਨਾ ਫਲ ਹੈ ਨਾ ਉਸਦੀ ਠੰਡੀ ਛਾਂ ਹੈ, ਆਮ ਕਰਕੇ ਉਹ ਬਾਲਣ ਬਣਾ ਕੇ ਚੁਲ੍ਹੇ ਵਿੱਚ ਫੂਕ ਦਿੱਤਾ ਜਾਂਦਾ ਹੈ। ਮਨੁੱਖੀ ਸਰੀਰ ਕੰਮ ਲਈ ਬਣਿਆ ਹੈ। ਕੰਮ ਨਾ ਕਰਨਾ ਮਨੁੱਖੀ ਸਰੀਰ ਨੂੰ ਅਕਾਰਥ ਗੁਆਉਣਾ ਹੈ। ਕੌਣ ਮੁੱਕਰ ਸਕਦਾ ਹੈ, ਇਸ ਗੱਲੋਂ ਕਿ ਜਿਹੜਾ ਸਰੀਰ ਮੁਸ਼ੱਕਤ ਵਿੱਚ ਨਹੀਂ ਪੈਂਦਾ, ਕਦੇ ਅਰੋਗ ਨਹੀਂ ਰਹਿ ਸਕਦਾ। ਇਕ ਪਾਸੇ ਲੋਕ ਹੱਥੀ ਕੰਮ ਕਰਨ ਤੋਂ ਭੱਜਦੇ ਹਨ ਤੇ ਦੂਸਰੇ ਪਾਸੇ ਸਰੀਰ ਨੂੰ ਠੀਕ ਰੱਖਣ ਲਈ ਕਸਰਤ ਕਰਦੇ ਹਨ, ਜੋ ਕਿ ਵਿਹਲਾ ਕੰਮ ਹੈ; ਇਕ ਤਰ੍ਹਾਂ ਦਾ ਮੀਸਣਾਪਣ ਹੈ-ਜ਼ੋਰ ਤੇ ਸਮਾਂ, ਜਿਸ ਨਾਲ ਕੁਝ ਦੌਲਤ ਰਚੀ ਜਾ ਸਕਦੀ ਹੈ ਉਸਨੂੰ ਦੂਜਿਆਂ ਲਈ ਵਰਤਣ ਦੀ ਥਾਂ ਖਾਸ ਆਪਣੇ ਬਣਾਉਟੀ ਸਵਾਰਥ ਲਈ ਵਰਤਣਾ। ਸਰੀਰ ਜੋ ਕੰਮ ਨਹੀਂ ਕਰਦਾ, ਕੁਦਰਤ ਤੋਂ ਉਕਾ ਵਿਰੁੱਧ ਹੈ। ਕਿਉਂਕਿ ਕੰਮ ਹੀ ਸਰੀਰ ਦੇ ਸਾਰੇ ਅੰਗਾਂ ਨੂੰ ਚੰਗੀ ਤਰ੍ਹਾਂ ਕੁਦਰਤੀ ਹਿਲ-ਜੁਲ ਵਿੱਚ ਪਾ ਕੇ ਅਰੋਗ, ਸੁੰਦਰ ਤੇ ਸੁਡੌਲ ਰੱਖ ਸਕਦਾ ਹੈ।

SubQuestion No : 100

Q.100 ਕਿਹੜੇ ਸਰੀਰ 'ਤੇ ਬਰਕਤ ਨਹੀਂ ਰਹਿੰਦੀ?

Ans

✔ 1. ਜਿਹੜਾ ਕਦੇ ਖੇਚਲ, ਕਸ਼ਟ ਤੇ ਮਿਹਨਤ ਨਹੀਂ ਕਰਦਾ

✘ 2. ਜਿਹੜਾ ਉਪਜਾਊ ਹੁੰਦਾ ਹੈ

✘ 3. ਜਿਹੜਾ ਸਕਾਰਥ ਹੋ ਜਾਂਦਾ ਹੈ

✘ 4. ਜਿਹੜਾ ਵਿਹਲਾ ਨਹੀਂ ਰਹਿੰਦਾ

Question ID : **630680241233**
Option 1 ID : **630680935376**
Option 2 ID : **630680935377**
Option 3 ID : **630680935375**
Option 4 ID : **630680935378**
Status : **Answered**
Chosen Option : **1**

DAILY JOB Alert ਪੰਜਾਬ

PUNJAB POLICE

Police to its last particle is duty

Exam Name	Recruitment for the post of Sub Inspector in Cadres of District and Armed Police 20th Jun to 31st Jul 2023 Paper I
Application No	www.dailyjobalert.in
Roll No	Telegram - Daily Job Alert Punjab
Applicant Name	instagram - Daily Job Alert Punjab
Exam Date	14/07/2023
Shift	12:30 PM - 2:30 PM
Subject	Sub Inspector Paper I

Section : **General Awareness**

Q.1 In the context of rural credit, NABARD stands for _____.

Ans

✗ 1. National Bank for Agriculture and Refinance Development

✗ 2. National Bank of Agriculture and Refinance Development

✓ 3. National Bank for Agriculture and Rural Development

✗ 4. National Bank of Agriculture and Rural Development

Question ID : **63068059097**
Option 1 ID : **630680228012**
Option 2 ID : **630680228011**
Option 3 ID : **630680228013**
Option 4 ID : **630680228010**
Status : **Answered**
Chosen Option : **3**

Q.2 'Nangal dam' has been constructed across which of the following rivers in Punjab?

Ans

✗ 1. Ravi

✓ 2. Satluj

✗ 3. Gaggar

✗ 4. Beas

Question ID : **630680238591**
Option 1 ID : **630680925380**
Option 2 ID : **630680925382**
Option 3 ID : **630680925383**
Option 4 ID : **630680925381**
Status : **Answered**
Chosen Option : **2**

Website - www.dailyjobalert.in

Q.3 PM WANI framework is a _____.

Ans
✔ 1. public Wi-Fi plan
✘ 2. PM man ki baat
✘ 3. public TV plan
✘ 4. public radio plan

Question ID : **630680181648**
Option 1 ID : **630680703837**
Option 2 ID : **630680703835**
Option 3 ID : **630680703836**
Option 4 ID : **630680703834**
Status : **Answered**
Chosen Option : **1**

Q.4 India's independent regional navigation satellite system is known as:

Ans
✘ 1. Bhuvan
✘ 2. VEDAS
✘ 3. CMS-01
✔ 4. NavIC

Question ID : **630680139330**
Option 1 ID : **630680539397**
Option 2 ID : **630680539395**
Option 3 ID : **630680539396**
Option 4 ID : **630680539394**
Status : **Answered**
Chosen Option : **2**

Q.5 The Crafts Mela (Rangla Punjab Craft) held at the Sheesh Mahal Art Gallary in February 2023 is organised in which of the following districts?

Ans
✘ 1. Ludhiana
✔ 2. Patiala
✘ 3. Kapurthala
✘ 4. Amritsar

Question ID : **630680238582**
Option 1 ID : **630680925347**
Option 2 ID : **630680925345**
Option 3 ID : **630680925344**
Option 4 ID : **630680925346**
Status : **Answered**
Chosen Option : **2**

Website - www.dailyjobalert.in

Q.6 **In India, which of the following constitutional articles give minorities the right to establish and administer educational institutions of their choice?**

Ans
- ✗ 1. Article 31
- ✗ 2. Article 28
- ✓ 3. Article 30
- ✗ 4. Article 29

Question ID : **630680152732**
Option 1 ID : **630680590923**
Option 2 ID : **630680590920**
Option 3 ID : **630680590922**
Option 4 ID : **630680590921**
Status : **Answered**
Chosen Option : **4**

Q.7 **The localised downpours, accompanied by severe winds, torrential precipitation, rarely carried by the hail storm that occur in West Bengal is known as:**

Ans
- ✗ 1. blossom shower
- ✗ 2. mango showers
- ✗ 3. dust storms
- ✓ 4. nor'westers

Question ID : **630680111981**
Option 1 ID : **630680433651**
Option 2 ID : **630680433652**
Option 3 ID : **630680433650**
Option 4 ID : **630680433653**
Status : **Answered**
Chosen Option : **2**

Q.8 **The type of goods India exports and imports is called the _____ of trade.**

Ans
- ✗ 1. direction
- ✗ 2. balance
- ✓ 3. composition
- ✗ 4. character

Question ID : **63068059048**
Option 1 ID : **630680227815**
Option 2 ID : **630680227817**
Option 3 ID : **630680227814**
Option 4 ID : **630680227816**
Status : **Answered**
Chosen Option : **2**

DAILY JOB Alert ਪੰਜਾਬ

Q.9 **Hirakud, world's longest dam is located on the _____ River.**

Ans
✔ 1. Mahanadi
✘ 2. Penganga
✘ 3. Godavari
✘ 4. Krishna

Question ID : **630680125226**
Option 1 ID : **630680485671**
Option 2 ID : **630680485670**
Option 3 ID : **630680485672**
Option 4 ID : **630680485673**
Status : **Answered**
Chosen Option : **1**

Q.10 **Which of the following dance forms is performed by the Abuj Maria tribe?**

Ans
✘ 1. Bhooti dance
✔ 2. Kaksar Dance
✘ 3. Nati dance
✘ 4. Tapu dance

Question ID : **630680119743**
Option 1 ID : **630680464050**
Option 2 ID : **630680464052**
Option 3 ID : **630680464053**
Option 4 ID : **630680464051**
Status : **Answered**
Chosen Option : **3**

Q.11 Netaji Subhash National Institute of Sports is housed in which of the following monuments complex?

Ans
✔ 1. Moti Bagh Palace
✘ 2. Bhadurgarh Fort
✘ 3. Sheesh Mahal
✘ 4. Qila Mubarak

Question ID : **630680238457**
Option 1 ID : **630680924844**
Option 2 ID : **630680924847**
Option 3 ID : **630680924846**
Option 4 ID : **630680924845**
Status : **Answered**
Chosen Option : **2**

DAILY JOB Alert ਪੰਜਾਬ

Q.12 **In 1938, Congress sent a medical mission to China during the China-Japan war. Who among the following was the person leading the mission?**

Ans
✔ 1. Dwarkanath Kotnis
✘ 2. Debesh Mukherjee
✘ 3. BK Basu
✘ 4. M Atal

Question ID : **630680146039**
Option 1 ID : **630680565056**
Option 2 ID : **630680565054**
Option 3 ID : **630680565055**
Option 4 ID : **630680565057**
Status : **Answered**
Chosen Option : **3**

Q.13 Who among the following Chief Ministers of Punjab, later on, became the President of India too?

Ans
✘ 1. Giani Gurmuh Singh Musafir
✘ 2. Rajinder Kaur Bhattal
✘ 3. Beant Singh
✔ 4. Giani Zail Singh

Question ID : **630680238418**
Option 1 ID : **630680924691**
Option 2 ID : **630680924690**
Option 3 ID : **630680924688**
Option 4 ID : **630680924689**
Status : **Answered**
Chosen Option : **4**

Q.14 Who among the following was the last queen of the Sikh Empire from 1843 until 1846?

Ans
✘ 1. Maharani Aagya Kaur
✘ 2. Maharani Gurkiran Kaur
✔ 3. Maharani Jindan Kaur
✘ 4. Maharani Arshpreet Kaur

Question ID : **630680238484**
Option 1 ID : **630680924952**
Option 2 ID : **630680924953**
Option 3 ID : **630680924955**
Option 4 ID : **630680924954**
Status : **Answered**
Chosen Option : **3**

Website - www.dailyjobalert.in

Q.15 Match the following associations/institutions with their respective founders.

(a). Brahmo Samaj	(i). Durgaram Mehtaji
(b). Paramhans Mandali	(ii). Ram Mohan Roy
(c). Arya Samaj	(iii). Sayyad Ahmad Khan
(d). Scientific Society	(iv). Dayanand Saraswati

Ans
- ✗ 1. a (i), b (ii), c (iii), d (iv)
- ✗ 2. a (iv), b (iii), c (ii), d (i)
- ✓ 3. a (ii), b (i), c (iv), d (iii)
- ✗ 4. a (iii), b (iv), c (i), d (ii)

Question ID : **630680146033**
Option 1 ID : **630680565031**
Option 2 ID : **630680565033**
Option 3 ID : **630680565032**
Option 4 ID : **630680565030**
Status : **Answered**
Chosen Option : **2**

Q.16 Why do we measure Biological Oxygen Demand in sewage water?

Ans
- ✗ 1. To estimate the amount of non-biodegradable organic matter in sewage water.
- ✗ 2. To estimate the amount of chemicals in sewage water.
- ✗ 3. To estimate the amount of biodegradable inorganic matter in sewage water.
- ✓ 4. To estimate the amount of biodegradable organic matter in sewage water.

Question ID : **63068049661**
Option 1 ID : **630680191074**
Option 2 ID : **630680191077**
Option 3 ID : **630680191075**
Option 4 ID : **630680191076**
Status : **Answered**
Chosen Option : **1**

Q.17 In a major boost to exports of Geographical Indications (GI) products from the north-eastern region, a consignment of _____was exported from Nagaland to London for the first time.

Ans
- ✓ 1. Raja Mircha
- ✗ 2. Gulbarga Tur Dal
- ✗ 3. Khola Chilli
- ✗ 4. Tirur Betel Leaf

Question ID : **63068049544**
Option 1 ID : **630680190607**
Option 2 ID : **630680190606**
Option 3 ID : **630680190608**
Option 4 ID : **630680190609**
Status : **Not Answered**
Chosen Option : **--**

Website - www.dailyjobalert.in

Q.18 At which of the following places were Guru Gobind Singh younger sons bricked alive?

Ans
✔ 1. Sirhind
✘ 2. Firozpur
✘ 3. Quila Raipur
✘ 4. Anandpur Sahib

Question ID : **630680238569**
Option 1 ID : **630680925295**
Option 2 ID : **630680925292**
Option 3 ID : **630680925294**
Option 4 ID : **630680925293**
Status : **Answered**
Chosen Option : **1**

Q.19 What is the meaning of the original name 'Puducheri', the French interpretation of 'Puducherry'?

Ans
✘ 1. New harmony
✘ 2. New peace
✔ 3. New settlement
✘ 4. New initiative

Question ID : **630680100485**
Option 1 ID : **630680390639**
Option 2 ID : **630680390638**
Option 3 ID : **630680390637**
Option 4 ID : **630680390636**
Status : **Answered**
Chosen Option : **1**

Q.20 Which country's prime minister was conferred with the 'SDG Progress Award' in 2021 for steady progress in achieving the Sustainable Development Goals (SDGs) set by the UN sponsored Sustainable Development Solutions Network (SDSN)?

Ans
✘ 1. India
✘ 2. Pakistan
✘ 3. Nepal
✔ 4. Bangladesh

Question ID : **63068053267**
Option 1 ID : **630680205170**
Option 2 ID : **630680205172**
Option 3 ID : **630680205173**
Option 4 ID : **630680205171**
Status : **Answered**
Chosen Option : **1**

Website - www.dailyjobalert.in

Q.21 **What was the theme of the 75th Independence Day of India?**

Ans
- ✗ 1. Atmanirbhar Bharat
- ✓ 2. Nation First, Always First
- ✗ 3. One Country, One People
- ✗ 4. Yaad Karo Kurbani

Question ID : **63068090259**
Option 1 ID : **630680349813**
Option 2 ID : **630680349811**
Option 3 ID : **630680349812**
Option 4 ID : **630680349810**
Status : **Answered**
Chosen Option : **1**

Q.22 **Which ministry brought The Commission for Air Quality Management in National Capital Region and Adjoining Areas Ordinance, 2021?**

Ans
- ✗ 1. Social Justice and Empowerment
- ✗ 2. Chemicals and Fertilizers
- ✗ 3. Earth Sciences
- ✓ 4. Environment, Forests and Climate Change

Question ID : **630680112113**
Option 1 ID : **630680434178**
Option 2 ID : **630680434180**
Option 3 ID : **630680434179**
Option 4 ID : **630680434181**
Status : **Answered**
Chosen Option : **4**

Q.23 **Which of the following terms of the Preamble is NOT explicitly stated under any Article of the Indian Constitution?**

Ans
- ✓ 1. Brotherhood
- ✗ 2. Liberty
- ✗ 3. Justice
- ✗ 4. Equality of status

Question ID : **630680146498**
Option 1 ID : **630680566876**
Option 2 ID : **630680566877**
Option 3 ID : **630680566874**
Option 4 ID : **630680566875**
Status : **Answered**
Chosen Option : **1**

Website - www.dailyjobalert.in

Q.24 Under the Financial Assistance to Widows and Destitute Women Scheme of the Government of Punjab, financial assistance is provided to widows/destitute women aged below _____ years.

Ans
✗ 1. 60
✓ 2. 58
✗ 3. 70
✗ 4. 75

Question ID : **630680238383**
Option 1 ID : **630680924549**
Option 2 ID : **630680924548**
Option 3 ID : **630680924550**
Option 4 ID : **630680924551**
Status : **Answered**
Chosen Option : **2**

Q.25 ਮੀਰਾਬਾਈ ਚਾਨੂੰ ਨੇ ਟੋਕੀਓ ਓਲੰਪਿਕਸ-2020 ਵਿੱਚ ਵੇਟਲਿਫਟਿੰਗ ਦੀ ਹੇਠਾਂ ਦਿੱਤਿਆਂ ਵਿੱਚੋਂ ਕਿਹੜੀ ਸ਼੍ਰੇਣੀ ਵਿੱਚ ਚਾਂਦੀ ਦਾ ਤਮਗਾ ਜਿੱਤਿਆ?

Ans
✓ 1. 49 Kg
✗ 2. 50 Kg
✗ 3. 55 Kg
✗ 4. 60 Kg

Question ID : **630680112701**
Option 1 ID : **630680436498**
Option 2 ID : **630680436499**
Option 3 ID : **630680436500**
Option 4 ID : **630680436501**
Status : **Answered**
Chosen Option : **3**

Q.26 **Who among the following Indian personalities said, "I am proud to belong to a religion which has taught the world tolerance and universal acceptance. We not only believe in universal toleration, but accept all the religions as true," at the World Parliament of Religions held in Chicago in 1893?**

Ans
✗ 1. Ram Mohan Roy
✗ 2. Keshub Chandra Sen
✗ 3. Ramakrishna Parmahansa
✓ 4. Swami Vivekananda

Question ID : **630680115740**
Option 1 ID : **630680448298**
Option 2 ID : **630680448299**
Option 3 ID : **630680448301**
Option 4 ID : **630680448300**
Status : **Answered**
Chosen Option : **4**

Website - www.dailyjobalert.in

Q.27 Consider the following pairs:

	Books	Author
1	Unhappy India	Lala Lajpat Rai
2	Annihilation of Caste	Bal Gangadhar Tilak
3	Why I am an Atheist	Chittaranjan Das

Which of the above pairs is/are correctly matched?

Ans
✗ 1. Only 3
✗ 2. Only 1 and 2
✗ 3. Only 1 and 3
✓ 4. Only 1

Question ID : **630680176079**
Option 1 ID : **630680682562**
Option 2 ID : **630680682561**
Option 3 ID : **630680682563**
Option 4 ID : **630680682560**
Status : **Answered**
Chosen Option : **2**

Q.28 As of October 2021, how many official languages were listed in the Eighth Schedule of the Indian Constitution?

Ans
✗ 1. 121
✗ 2. 2
✗ 3. 6
✓ 4. 22

Question ID : **63068081538**
Option 1 ID : **630680316187**
Option 2 ID : **630680316184**
Option 3 ID : **630680316186**
Option 4 ID : **630680316185**
Status : **Answered**
Chosen Option : **4**

Q.29 In the year _____, Kisan Mehta of Prakruti (an NGO) first suggested that cotton, one of the biggest user of chemical pesticides, could be grown organically.

Ans
✗ 1. 1992
✗ 2. 1996
✗ 3. 1999
✓ 4. 1995

Question ID : **63068056707**
Option 1 ID : **630680218763**
Option 2 ID : **630680218765**
Option 3 ID : **630680218764**
Option 4 ID : **630680218762**
Status : **Answered**
Chosen Option : **1**

Website - www.dailyjobalert.in

Q.30 Who among the following is a notable Bharatanatyam and Kuchipudi dancer?

Ans
✗ 1. Mrinalini Sarabhai
✗ 2. Sonal Mansingh
✗ 3. Kalamandalam Kalyanikutty Amma
✓ 4. Yamini Krishnamurthy

Question ID : **63068089800**
Option 1 ID : **630680347974**
Option 2 ID : **630680347975**
Option 3 ID : **630680347977**
Option 4 ID : **630680347976**
Status : **Answered**
Chosen Option : **3**

Q.31 Which of the following derives its name from the temple of 'ChandiMadir' and was planned by Le Corbusier?

Ans
✓ 1. Chandigarh
✗ 2. Chaksu
✗ 3. Chaumahla
✗ 4. Chittoor

Question ID : **630680100484**
Option 1 ID : **630680390634**
Option 2 ID : **630680390632**
Option 3 ID : **630680390633**
Option 4 ID : **630680390635**
Status : **Answered**
Chosen Option : **1**

Q.32 According to the Jain tradition, the twenty-third Tirthankara, Parshvanatha, was the son of_____.

Ans
✗ 1. a rich merchant of Shravasti
✗ 2. King Sursen of Vajji
✗ 3. a rich merchant of Kosala
✓ 4. King Asvasena of Varanasi

Question ID : **63068084283**
Option 1 ID : **630680326684**
Option 2 ID : **630680326687**
Option 3 ID : **630680326686**
Option 4 ID : **630680326685**
Status : **Answered**
Chosen Option : **1**

Website - www.dailyjobalert.in

Q.33 Which of the following countries has the 110th rank according to the Global Gender Gap Index 2022?

Ans
✗ 1. Nepal
✓ 2. Sri Lanka
✗ 3. China
✗ 4. Pakistan

Question ID : **630680117308**
Option 1 ID : **630680454519**
Option 2 ID : **630680454521**
Option 3 ID : **630680454518**
Option 4 ID : **630680454520**
Status : **Not Answered**
Chosen Option : **--**

Q.34 Which of the following companies commissioned the first carbon capture plant in India that extracts CO2 at once from the blast furnace gas, as of September 2021?

Ans
✗ 1. Essar Steel
✗ 2. Jindal Steel
✗ 3. SAIL
✓ 4. Tata Steel

Question ID : **630680100130**
Option 1 ID : **630680389216**
Option 2 ID : **630680389218**
Option 3 ID : **630680389219**
Option 4 ID : **630680389217**
Status : **Answered**
Chosen Option : **3**

Q.35 Painted Gray Ware (PGW) culture was first identified at _____ in the 1940s.

Ans
✗ 1. Bhagwanpura
✗ 2. Mathura
✗ 3. Jognakhera
✓ 4. Ahichchhatra

Question ID : **63068052284**
Option 1 ID : **630680201239**
Option 2 ID : **630680201238**
Option 3 ID : **630680201240**
Option 4 ID : **630680201241**
Status : **Answered**
Chosen Option : **3**

Website - www.dailyjobalert.in

Q.36 In which of the following dances of Punjab two women dancers hold each other's hand and whirl and twirl each other around?

Ans
✔ 1. Kikli Dance
✗ 2. Giddha Dance
✗ 3. Sammi Dance
✗ 4. Jaago Dance

Question ID : **630680238544**
Option 1 ID : **630680925195**
Option 2 ID : **630680925193**
Option 3 ID : **630680925194**
Option 4 ID : **630680925192**
Status : **Answered**
Chosen Option : **1**

Q.37 Sikh Sangat Area was divided into '22 Manjis' by _____.

Ans
✔ 1. Guru Amardas Ji
✗ 2. Guru Angad Dev Ji
✗ 3. Guru Arjan Dev Ji
✗ 4. Guru Ramdas Ji

Question ID : **630680238430**
Option 1 ID : **630680924737**
Option 2 ID : **630680924736**
Option 3 ID : **630680924739**
Option 4 ID : **630680924738**
Status : **Answered**
Chosen Option : **1**

Q.38 Mela Hazrat Sheikh Sadr-ud-Din' is held at Malerkotla in the memory of Sheikh Sadr-un-Din who founded Malerkotla State during the reign of _____.

Ans
✔ 1. Bahlul Lodi
✗ 2. Akbar
✗ 3. Ibrahim Lodi
✗ 4. Ghiyasuddin Khilji

Question ID : **630680238446**
Option 1 ID : **630680924802**
Option 2 ID : **630680924803**
Option 3 ID : **630680924800**
Option 4 ID : **630680924801**
Status : **Answered**
Chosen Option : **2**

Website - www.dailyjobalert.in

Q.39 **Which of the following countries was NOT included in the 'Grey List' of the Financial Action Task Force (FATF) released in June 2021?**

Ans
✗ 1. Haiti
✓ 2. Ghana
✗ 3. Philippines
✗ 4. South Sudan

Question ID : **63068091008**
Option 1 ID : **630680352793**
Option 2 ID : **630680352791**
Option 3 ID : **630680352790**
Option 4 ID : **630680352792**
Status : **Answered**
Chosen Option : **2**

Q.40 What do you call the branch of ethics that seeks to understand the nature of ethical properties, statements and judgements?

Ans
✗ 1. Normative ethics
✗ 2. Comparative ethics
✓ 3. Metaethics
✗ 4. Applied ethics

Question ID : **630680238338**
Option 1 ID : **630680924369**
Option 2 ID : **630680924368**
Option 3 ID : **630680924371**
Option 4 ID : **630680924370**
Status : **Answered**
Chosen Option : **4**

Q.41 **Which of the following is the international agreement that sets targets for industrialised countries to cut their greenhouse gas emissions?**

Ans
✗ 1. Montreal Protocol
✓ 2. The Kyoto Protocol
✗ 3. Agenda 21
✗ 4. United Nations Framework Convention on Climate Change

Question ID : **63068049671**
Option 1 ID : **630680191114**
Option 2 ID : **630680191117**
Option 3 ID : **630680191115**
Option 4 ID : **630680191116**
Status : **Answered**
Chosen Option : **3**

Website - www.dailyjobalert.in

Q.42 ਹੇਠਾਂ ਦਿੱਤੇ ਵਿੱਚੋਂ ਕਿਹੜਾ ਭਾਰਤ ਵਿੱਚ ਸਥਾਪਿਤ ਜਨਤਕ ਖੇਤਰ ਦਾ ਪਹਿਲਾ ਸਟੀਲ ਪਲਾਂਟ ਸੀ?

Ans
- ✗ 1. ਦੁਰਦੁਗਾਪੁਰ ਸਟੀਲ ਪਲਾਂਟ
- ✗ 2. ਭਿਲਾਈ ਸਟੀਲ ਪਲਾਂਟ
- ✓ 3. ਰੁੜਕੇਲਾ ਸਟੀਲ ਪਲਾਂਟ
- ✗ 4. ਵਾਈਜੈਗ ਸਟੀਲ ਪਲਾਂਟ

Question ID : **63068054208**
Option 1 ID : **630680208875**
Option 2 ID : **630680208874**
Option 3 ID : **630680208876**
Option 4 ID : **630680208877**
Status : **Answered**
Chosen Option : **2**

Q.43 The Constitution of India guarantees freedom to move throughout the territory of India under Article _____ and thus, promotes a sense of unity in diversity.

Ans
- ✗ 1. 19 (1)-(a)
- ✗ 2. 19 (1)-(c)
- ✗ 3. 19 (1)-(b)
- ✓ 4. 19 (1)-(d)

Question ID : **630680238342**
Option 1 ID : **630680924387**
Option 2 ID : **630680924385**
Option 3 ID : **630680924386**
Option 4 ID : **630680924384**
Status : **Not Answered**
Chosen Option : **--**

Q.44 **According to the Balwant Rai Mehta Committee, the District Collector should be:**

Ans
- ✗ 1. kept out of the zila parishad
- ✓ 2. the chairman of the zila parishad
- ✗ 3. a member of the zila parishad with the right to vote
- ✗ 4. a non-voting member of the zila parishad

Question ID : **63068052964**
Option 1 ID : **630680203958**
Option 2 ID : **630680203961**
Option 3 ID : **630680203960**
Option 4 ID : **630680203959**
Status : **Answered**
Chosen Option : **2**

DAILY JOB Alert ਪੰਜਾਬ

Q.45 In which year did the Government of Punjab launch the 'Mai Bhago Vidya Scheme' for girl students?

Ans
✗ 1. 2007
✓ 2. 2011
✗ 3. 2015
✗ 4. 2013

Question ID : **630680238369**
Option 1 ID : **630680924495**
Option 2 ID : **630680924492**
Option 3 ID : **630680924494**
Option 4 ID : **630680924493**
Status : **Answered**
Chosen Option : **1**

Q.46 In India, what is the maximum time duration between two sessions of the State Legislature?

Ans
✓ 1. 6 months
✗ 2. 1 year
✗ 3. 8 months
✗ 4. 3 months

Question ID : **63068099122**
Option 1 ID : **630680385193**
Option 2 ID : **630680385195**
Option 3 ID : **630680385194**
Option 4 ID : **630680385192**
Status : **Answered**
Chosen Option : **1**

Q.47 In which part of the temple is the main icon or the statue of the deity kept for prayers?

Ans
✓ 1. Garbhagriha
✗ 2. Shikhara
✗ 3. Vihara
✗ 4. Mandapa

Question ID : **630680162573**
Option 1 ID : **630680629588**
Option 2 ID : **630680629591**
Option 3 ID : **630680629590**
Option 4 ID : **630680629589**
Status : **Answered**
Chosen Option : **2**

Website - www.dailyjobalert.in

Q.48 Who among the following is considered as the pioneer of 'Kafi' Poetry in Punjab'?

Ans
✔ 1. Shah Hussain
✘ 2. Waris Shah
✘ 3. Bulleh Shah
✘ 4. Sheikh Farid

Question ID : **630680238477**
Option 1 ID : **630680924924**
Option 2 ID : **630680924926**
Option 3 ID : **630680924927**
Option 4 ID : **630680924925**
Status : **Answered**
Chosen Option : **4**

Q.49 Identify the INCORRECT pair of forest type and its related trees from the following options.

Ans
✘ 1. Tropical Evergreen Forests – Ebony
✔ 2. Mangrove Forests – Juniper
✘ 3. Montane Forests – Silver fir
✘ 4. Tropical Deciduous Forests – Sandalwood

Question ID : **630680117186**
Option 1 ID : **630680454030**
Option 2 ID : **630680454031**
Option 3 ID : **630680454032**
Option 4 ID : **630680454033**
Status : **Answered**
Chosen Option : **2**

Q.50 In November 2021, which country's President was impeached by the lower house of the country's congress over 'Pandora Papers' revelation?

Ans
✘ 1. Venezuela
✘ 2. Argentina
✔ 3. Chile
✘ 4. Colombia

Question ID : **63068058428**
Option 1 ID : **630680225407**
Option 2 ID : **630680225409**
Option 3 ID : **630680225406**
Option 4 ID : **630680225408**
Status : **Answered**
Chosen Option : **1**

Section : **Quantitative Aptitude and Numerical Skills**

Website - www.dailyjobalert.in

Q.51 **Baarish is 8 years older than Radha. In five years, the sum of their ages will be 82. What are their present ages?**

Ans
- ✗ 1. 33, 41
- ✗ 2. 31, 39
- ✓ 3. 32, 40
- ✗ 4. 34, 42

Question ID : **630680156481**
Option 1 ID : **630680605586**
Option 2 ID : **630680605584**
Option 3 ID : **630680605585**
Option 4 ID : **630680605587**
Status : **Answered**
Chosen Option : **2**

Q.52 The value of $\frac{(2.697-0.498)^2+(2.697+0.498)^2}{2.697\times2.697+0.498\times0.498}$ is:

Ans
- ✗ 1. 0.5
- ✗ 2. 2.198
- ✗ 3. 3.195
- ✓ 4. 2

Question ID : **63068070911**
Option 1 ID : **630680274254**
Option 2 ID : **630680274256**
Option 3 ID : **630680274257**
Option 4 ID : **630680274255**
Status : **Answered**
Chosen Option : **1**

Q.53 **A shopkeeper marks his goods 25% above the C.P. and allows a discount of 40%. If he loses ₹20, find the C.P.**

Ans
- ✗ 1. ₹95
- ✓ 2. ₹80
- ✗ 3. ₹75
- ✗ 4. ₹60

Question ID : **630680135716**
Option 1 ID : **630680525582**
Option 2 ID : **630680525584**
Option 3 ID : **630680525585**
Option 4 ID : **630680525583**
Status : **Answered**
Chosen Option : **2**

Website - www.dailyjobalert.in

Q.54 If $(8^k \times 8^3) - 1540 = 31228$, then the value of k is:

Ans
- ✗ 1. 3
- ✗ 2. 4
- ✗ 3. 5
- ✓ 4. 2

Question ID : **630680208120**
Option 1 ID : **630680806713**
Option 2 ID : **630680806714**
Option 3 ID : **630680806711**
Option 4 ID : **630680806712**
Status : **Answered**
Chosen Option : **2**

Q.55 **Gopi has a certain amount. He gives 15% of it to his son, 12% of the remaining amount to his daughter, 10% of the still remaining amount he donates to charity, and he is left with ₹6,732. What was the initial amount that he had?**

Ans
- ✓ 1. ₹10,000
- ✗ 2. ₹13,000
- ✗ 3. ₹12,500
- ✗ 4. ₹12,000

Question ID : **630680115627**
Option 1 ID : **630680447858**
Option 2 ID : **630680447861**
Option 3 ID : **630680447860**
Option 4 ID : **630680447859**
Status : **Answered**
Chosen Option : **3**

Q.56 **Find the sum of the curved surface area and the total surface area of a cylinder whose diameter of the base is 14 cm and height is 20 cm.**

Ans
- ✗ 1. 2038 cm^2
- ✓ 2. 2068 cm^2
- ✗ 3. 1188 cm^2
- ✗ 4. 880 cm^2

Question ID : **630680125181**
Option 1 ID : **630680485505**
Option 2 ID : **630680485503**
Option 3 ID : **630680485502**
Option 4 ID : **630680485504**
Status : **Answered**
Chosen Option : **4**

Website - www.dailyjobalert.in

Q.57 **X, Y and Z are three partners sharing profit in the ratio of 15 : 16 : 36. Investment of X, Y and Z are ₹55,000, ₹88,000 and ₹99,000 respectively. If X and Y invest their money for 6 months and 4 months respectively, then for how many months Z invest his money?**

Ans
- ✗ 1. 3 months
- ✗ 2. 5 months
- ✗ 3. 6 months
- ✓ 4. 8 months

Question ID : **63068091865**
Option 1 ID : **630680356196**
Option 2 ID : **630680356197**
Option 3 ID : **630680356195**
Option 4 ID : **630680356194**
Status : **Answered**
Chosen Option : **4**

Q.58 **Five bells start to toll together at intervals of 30, 36, 40, 48, and 60 minutes. If they start to toll at 9:00 a.m., at what time will they toll together again?**

Ans
- ✗ 1. 12 midnight
- ✓ 2. 9:00 p.m.
- ✗ 3. 4:00 p.m.
- ✗ 4. 12 noon

Question ID : **63068076097**
Option 1 ID : **630680294493**
Option 2 ID : **630680294496**
Option 3 ID : **630680294495**
Option 4 ID : **630680294494**
Status : **Answered**
Chosen Option : **2**

Q.59 **The integer 'x' is the median of seven different integers 23, 19, 16, 21, 25, 17 and x. Find the value of 'x'.**

Ans
- ✗ 1. 24
- ✗ 2. 22
- ✗ 3. 18
- ✓ 4. 20

Question ID : **630680196633**
Option 1 ID : **630680762834**
Option 2 ID : **630680762833**
Option 3 ID : **630680762831**
Option 4 ID : **630680762832**
Status : **Answered**
Chosen Option : **3**

Website - www.dailyjobalert.in

Q.60

The value of $\dfrac{\left(\frac{6}{7}\right)^4+\left(\frac{7}{6}\right)^4+1}{\left(\frac{6}{7}\right)^2+\left(\frac{7}{6}\right)^2-1}$ is:

Ans

✗ 1. $2\frac{173}{1764}$

✗ 2. $3\frac{119}{1764}$

✓ 3. $3\frac{169}{1764}$

✗ 4. $3\frac{1565}{1764}$

Question ID : **63068085694**
Option 1 ID : **630680332237**
Option 2 ID : **630680332238**
Option 3 ID : **630680332236**
Option 4 ID : **630680332239**
Status : **Not Answered**
Chosen Option : **--**

Q.61 If the compound interest is calculated half-yearly for $5\frac{1}{2}$ years,then n=_____.

(Where $CI = P(1+i)^n - P$ and $i = \frac{R}{100}$ and rate of interest is 2R% per annum)

Ans

✗ 1. 9

✗ 2. 10

✓ 3. 11

✗ 4. 12

Question ID : **630680144671**
Option 1 ID : **630680559732**
Option 2 ID : **630680559730**
Option 3 ID : **630680559731**
Option 4 ID : **630680559733**
Status : **Not Answered**
Chosen Option : **--**

Q.62 A dealer in a city buys some goods worth ₹5,000 from the same city. If the rate of GST is 20%,then how much does the dealer pay for the goods bought?

Ans

✗ 1. ₹5,800

✗ 2. ₹5,200

✓ 3. ₹6,000

✗ 4. ₹5,500

Question ID : **630680135733**
Option 1 ID : **630680525652**
Option 2 ID : **630680525650**
Option 3 ID : **630680525653**
Option 4 ID : **630680525651**
Status : **Answered**
Chosen Option : **2**

Website - www.dailyjobalert.in

Q.63 **Which of the following is the smallest number of 4 digits that is completely divisible by 11?**

Ans
✔ 1. 1001
✘ 2. 9900
✘ 3. 1232
✘ 4. 1210

Question ID : **63068085699**
Option 1 ID : **630680332258**
Option 2 ID : **630680332259**
Option 3 ID : **630680332256**
Option 4 ID : **630680332257**
Status : **Answered**
Chosen Option : **2**

Q.64

What is the value of the following? $\frac{3+3\times3}{3\times3\times3} \div \frac{\frac{1}{4}\div\frac{1}{4} \text{ of } \frac{1}{4}}{\frac{1}{4}\div\frac{1}{4}\times\frac{1}{4}}$

Ans
✘ 1. $\frac{64}{9}$
✘ 2. $\frac{9}{4}$
✘ 3. $\frac{4}{9}$
✔ 4. $\frac{1}{36}$

Question ID : **630680112892**
Option 1 ID : **630680437191**
Option 2 ID : **630680437190**
Option 3 ID : **630680437192**
Option 4 ID : **630680437193**
Status : **Answered**
Chosen Option : **3**

Q.65 **The volume of a sphere is to be reduced to 92.6859% of the initial volume. How much should the radius be reduced to do so?**

Ans
✘ 1. 2.25%
✘ 2. 1.5%
✔ 3. 2.5%
✘ 4. 2.75%

Question ID : **63068079162**
Option 1 ID : **630680306685**
Option 2 ID : **630680306688**
Option 3 ID : **630680306686**
Option 4 ID : **630680306687**
Status : **Not Answered**
Chosen Option : **--**

Website - www.dailyjobalert.in

Q.66 **A person travels equal distances at speeds of 2 km/h, 3 km/h and 4 km/h, respectively, and takes a total time of 52 minutes. The average speed is:**

Ans

✗ 1. $2\frac{7}{23}$ km/h

✓ 2. $2\frac{10}{13}$ km/h

✗ 3. $1\frac{9}{13}$ km/h

✗ 4. $1\frac{11}{13}$ km/h

Question ID : **630680111629**
Option 1 ID : **630680432252**
Option 2 ID : **630680432250**
Option 3 ID : **630680432251**
Option 4 ID : **630680432253**
Status : **Not Answered**
Chosen Option : **--**

Q.67 **The volume of a cone having radius 4 cm and slant height 5cm is:**

Ans

✗ 1. 26.67π cm^3

✓ 2. 16π cm^3

✗ 3. 26π cm^3

✗ 4. 16.67π cm^3

Question ID : **63068060106**
Option 1 ID : **630680231995**
Option 2 ID : **630680231994**
Option 3 ID : **630680231996**
Option 4 ID : **630680231997**
Status : **Not Answered**
Chosen Option : **--**

Website - www.dailyjobalert.in

Q.68 A, B, C ਅਤੇ D ਨੇ ਹਿੱਸੇਦਾਰੀ ਵਿੱਚ ਕਾਰੋਬਾਰ ਸ਼ੁਰੂ ਕੀਤਾ। ਸ਼ੁਰੂ ਵਿੱਚ A ਨੇ ₹60,000 ਦਾ ਨਿਵੇਸ਼ ਕੀਤਾ, B ਅਤੇ C ਹਰੇਕ ਨੇ ₹40,000 ਦਾ ਨਿਵੇਸ਼ ਕੀਤਾ, ਅਤੇ D ਨੇ ₹50,000 ਦਾ ਨਿਵੇਸ਼ ਕੀਤਾ। 4 ਮਹੀਨਿਆਂ ਬਾਅਦ, A ਅਤੇ B ਹਰੇਕ ਨੇ ₹ 5,000 ਕਢਵਾ ਲਏ। 6 ਮਹੀਨਿਆਂ ਦੇ ਅੰਤ ਵਿੱਚ, C ਅਤੇ D ਨੇ ਕ੍ਰਮਵਾਰ ₹10,000 ਅਤੇ ₹20,000 ਹੋਰ ਨਿਵੇਸ਼ ਕੀਤੇ। ਸਾਲ ਦੇ ਅੰਤ ਵਿੱਚ ₹3,57,000 ਦੇ ਲਾਭ ਵਿੱਚ B ਦੇ ਹਿੱਸੇ ਦੇ 40% ਅਤੇ D ਦੇ ਹਿੱਸੇ ਦੇ 50% ਦਾ ਅਨੁਪਾਤ ਕੀ ਹੈ?

Ans
✗ 1. 36 : 41
✓ 2. 22 : 45
✗ 3. 45 : 22
✗ 4. 41 : 36

Question ID : **630680122778**
Option 1 ID : **630680476024**
Option 2 ID : **630680476022**
Option 3 ID : **630680476023**
Option 4 ID : **630680476025**
Status : **Not Answered**
Chosen Option : **--**

Q.69 The volume of a right circular cylinder is 1232 m^3 . If the circumference of the base is 44 m, then find the curved surface area of the cylinder.

Ans
✗ 1. 242 m^2
✓ 2. 352 m^2
✗ 3. 252 m^2
✗ 4. 282 m2

Question ID : **630680119791**
Option 1 ID : **630680464232**
Option 2 ID : **630680464230**
Option 3 ID : **630680464233**
Option 4 ID : **630680464231**
Status : **Not Answered**
Chosen Option : **--**

Q.70 What is the remainder when $(x^7 + 1)$ n is divided by $(x + 1)$?

Ans
✗ 1. 1
✗ 2. −1
✓ 3. 0
✗ 4. 2

Question ID : **63068094330**
Option 1 ID : **630680366015**
Option 2 ID : **630680366016**
Option 3 ID : **630680366018**
Option 4 ID : **630680366017**
Status : **Not Answered**
Chosen Option : **--**

Website - www.dailyjobalert.in

Q.71 **If the arithmetic mean of x, y and 9 is 12, what is the arithmetic mean of x + 2, y − 6 and 10?**

Ans

✗ 1. 9

✓ 2. 11

✗ 3. 12

✗ 4. 10

Question ID : **630680181978**
Option 1 ID : **630680705134**
Option 2 ID : **630680705136**
Option 3 ID : **630680705137**
Option 4 ID : **630680705135**
Status : **Not Answered**
Chosen Option : **--**

Q.72 **A sum of money triples itself in 12 years at simple interest. Find the rate of interest.**

Ans

✗ 1. $15\frac{2}{3}\%$

✓ 2. $16\frac{2}{3}\%$

✗ 3. $12\frac{1}{2}\%$

✗ 4. $14\frac{4}{7}\%$

Question ID : **630680167820**
Option 1 ID : **630680649910**
Option 2 ID : **630680649911**
Option 3 ID : **630680649908**
Option 4 ID : **630680649909**
Status : **Not Answered**
Chosen Option : **--**

Q.73 The value of $\left[3\frac{1}{4} \div \left\{1\frac{1}{4} - \frac{1}{2}\left(2\frac{1}{2} - \frac{1}{4} - \frac{1}{6}\right)\right\}\right] \div \left(\frac{1}{2} \text{ of } 4\frac{1}{3}\right)$ is:

Ans

✗ 1. $5\frac{1}{3}$

✗ 2. $8\frac{1}{7}$

✓ 3. $7\frac{1}{5}$

✗ 4. $7\frac{3}{5}$

Question ID : **630680136570**
Option 1 ID : **630680528894**
Option 2 ID : **630680528896**
Option 3 ID : **630680528895**
Option 4 ID : **630680528897**
Status : **Not Answered**
Chosen Option : **--**

Website - www.dailyjobalert.in

Q.74 If the diameter of the sphere is 12 cm, then its volume is:

Ans

✗ 1. $144\pi\ cm^3$

✗ 2. $216\pi\ cm^3$

✓ 3. $288\pi\ cm^3$

✗ 4. $72\pi\ cm^3$

Question ID : **630680103398**
Option 1 ID : **630680401836**
Option 2 ID : **630680401837**
Option 3 ID : **630680401838**
Option 4 ID : **630680401835**
Status : **Answered**
Chosen Option : **1**

Q.75 For any two numbers a, b; $(a + b) : (a - b) = 4 : 3$. Find the value of $\frac{1}{a} : \frac{1}{b}$.

Ans

✗ 1.
$3 : 4$

✗ 2.
$4 : 3$

✓ 3.
$1 : 7$

✗ 4.
$7 : 1$

Question ID : **630680119832**
Option 1 ID : **630680464394**
Option 2 ID : **630680464397**
Option 3 ID : **630680464396**
Option 4 ID : **630680464395**
Status : **Answered**
Chosen Option : **4**

Q.76 ਦੋ ਪਾਈਪਾਂ A ਅਤੇ B ਇੱਕ ਟੈਂਕ ਨੂੰ ਕ੍ਰਮਵਾਰ 15 ਮਿੰਟ ਅਤੇ 30 ਮਿੰਟ ਵਿੱਚ ਭਰ ਸਕਦੀਆਂ ਹਨ। ਦੋਵੇਂ ਪਾਈਪਾਂ ਇੱਕੋ ਸਮੇਂ ਖੋਲ੍ਹੀਆਂ ਜਾਂਦੀਆਂ ਹਨ। ਹਾਲਾਂਕਿ, 6 ਮਿੰਟ ਬਾਅਦ, ਪਾਈਪ A ਬੰਦ ਹੋ ਜਾਂਦੀ ਹੈ। ਟੈਂਕ ਨੂੰ ਭਰਨ ਲਈ ਕੁੱਲ ਕਿੰਨਾ ਸਮਾਂ ਚਾਹੀਦਾ ਹੈ?

Ans

✗ 1. 36 ਮਿੰਟ

✗ 2. 30 ਮਿੰਟ

✓ 3. 18 ਮਿੰਟ

✗ 4. 12 ਮਿੰਟ

Question ID : **630680153251**
Option 1 ID : **630680592939**
Option 2 ID : **630680592938**
Option 3 ID : **630680592937**
Option 4 ID : **630680592936**
Status : **Answered**
Chosen Option : **3**

Website - www.dailyjobalert.in

Q.77 If the marked price is ₹.650 and discount 10%, then the selling price is:

Ans
✗ 1. ₹.600
✗ 2. ₹.595
✓ 3. ₹.585
✗ 4. ₹.575

Question ID : **63068070210**
Option 1 ID : **630680271479**
Option 2 ID : **630680271481**
Option 3 ID : **630680271480**
Option 4 ID : **630680271478**
Status : **Answered**
Chosen Option : **1**

Q.78 If a tourist travels by car to a place 120km away at an average speed of 45km/h and returns at a speed of 30km/h, then the average speed of the tourist for the whole journey is:

Ans
✗ 1. 37 km/h
✓ 2. 36 km/h
✗ 3. 38 km/h
✗ 4. 42 km/h

Question ID : **630680108575**
Option 1 ID : **630680421258**
Option 2 ID : **630680421256**
Option 3 ID : **630680421257**
Option 4 ID : **630680421259**
Status : **Answered**
Chosen Option : **2**

Q.79 A 150-m-long train is running at a speed of 54 km/h. How long will it take to pass a telegraph post?

Ans
✗ 1. 12 sec
✓ 2. 10 sec
✗ 3. 15 sec
✗ 4. 9 sec

Question ID : **630680101754**
Option 1 ID : **630680395378**
Option 2 ID : **630680395377**
Option 3 ID : **630680395379**
Option 4 ID : **630680395376**
Status : **Answered**
Chosen Option : **3**

DAILY JOB Alert ਪੰਜਾਬ

Q.80 The HCF and LCM of two numbers are 4 and 1008, respectively. If one of the numbers is 112, then the other is:

Ans
✔ 1. 36
✘ 2. 48
✘ 3. 128
✘ 4. 64

Question ID : **63068070929**
Option 1 ID : **630680274326**
Option 2 ID : **630680274328**
Option 3 ID : **630680274329**
Option 4 ID : **630680274327**
Status : **Answered**
Chosen Option : **2**

Section : **Punjabi Language**

Q.81 "ਜਿਉਂਦੀ ਮੱਛੀ ਵਹਿਣ ਦੇ ਵਿਰੁੱਧ ਚਲਦੀ ਹੈ ਪਰ ਮਰੀ ਹੋਈ ਮੱਛੀ ਵਹਿਣ ਦੇ ਨਾਲ ਚਲਦੀ ਹੈ" ਵਾਕ ਹੈ:-

Ans
✘ 1. ਵਿਸਮਕ ਵਾਕ
✘ 2. ਮਿਸ਼ਰਤ ਵਾਕ
✘ 3. ਸਧਾਰਨ ਵਾਕ
✔ 4. ਸੰਯੁਕਤ ਵਾਕ

Question ID : **630680241237**
Option 1 ID : **630680935391**
Option 2 ID : **630680935392**
Option 3 ID : **630680935394**
Option 4 ID : **630680935393**
Status : **Answered**
Chosen Option : **1**

Q.82 "Incur loss" ਦਾ ਸਹੀ ਪੰਜਾਬੀ ਅਨੁਵਾਦ ਹੈ:-

Ans
✔ 1. ਨੁਕਸਾਨ ਝੱਲਣਾ
✘ 2. ਖ਼ਰਚ ਤੋਂ ਡਰਨਾ
✘ 3. ਹਾਨੀ ਕਰਨਾ
✘ 4. ਖ਼ਰਚ ਚੁੱਕਣਾ

Question ID : **630680241248**
Option 1 ID : **630680935437**
Option 2 ID : **630680935438**
Option 3 ID : **630680935436**
Option 4 ID : **630680935435**
Status : **Answered**
Chosen Option : **1**

Website - www.dailyjobalert.in

Q.83 "ਸਲਾਹੁਣਾ" ਦਾ ਵਿਪਰੀਤਾਰਥਕ ਸ਼ਬਦ ਹੈ:-

Ans
1. ਵਿਗਾੜਨਾ
2. ਸੁਆਰਨਾ
3. ਉਲਝਾਉਣਾ
4. ਨਿੰਦਣਾ

Question ID : **630680241241**
Option 1 ID : **630680935407**
Option 2 ID : **630680935408**
Option 3 ID : **630680935410**
Option 4 ID : **630680935409**
Status : **Answered**
Chosen Option : **4**

Q.84 ਹੇਠ ਲਿਖਿਆਂ ਵਿੱਚੋਂ ਸ਼ੁੱਧ ਸ਼ਬਦ ਦੀ ਚੋਣ ਕਰੋ:-

Ans
1. ਲਿਅੰਣ
2. ਲਇਆਉਣ
3. ਲਿਆਉਣ
4. ਲਿਆਓਣ

Question ID : **630680241239**
Option 1 ID : **630680935401**
Option 2 ID : **630680935399**
Option 3 ID : **630680935400**
Option 4 ID : **630680935402**
Status : **Answered**
Chosen Option : **3**

Q.85 "ਜਿਸਦੀ ਉਲਾਦ ਨਾ ਹੋਵੇ।" ਲਈ ਕਿਸੇ ਇਕ ਸਹੀ ਸ਼ਬਦ ਦੀ ਚੋਣ ਕਰੋ:-

Ans
1. ਅੰਤਰਾ
2. ਯਤੀਮ
3. ਕੰਜਰ
4. ਨਿਪੁੱਤਾ

Question ID : **630680241243**
Option 1 ID : **630680935416**
Option 2 ID : **630680935415**
Option 3 ID : **630680935418**
Option 4 ID : **630680935417**
Status : **Answered**
Chosen Option : **4**

Website - www.dailyjobalert.in

Q.86 "ਤੇਰੀ ਦੇਹ ਨਰੋਈ ਰਹੇ।" ਵਾਕ ਦੀ ਕਾਰਜ ਦੇ ਆਧਾਰ 'ਤੇ ਕਿਸਮ ਹੈ:-

Ans
✗ 1. ਪ੍ਰਸ਼ਨਵਾਚਕ
✗ 2. ਵਿਸਮਿਕ
✗ 3. ਆਗਿਆਵਾਚਕ
✓ 4. ਇੱਛਾਵਾਚਕ

Question ID : **630680241236**
Option 1 ID : **630680935389**
Option 2 ID : **630680935390**
Option 3 ID : **630680935387**
Option 4 ID : **630680935388**
Status : **Answered**
Chosen Option : **2**

Q.87 ਹੇਠ ਲਿਖਿਆਂ ਵਿੱਚ ਕਿਹੜਾ ਸ਼ਬਦ 'ਉਪਕਾਰ' ਦਾ ਸਮਾਨਾਰਥਕ ਨਹੀਂ ਹੈ?

Ans
✗ 1. ਮਿਹਰਬਾਨੀ
✓ 2. ਉਪਹਾਰ
✗ 3. ਭਲਾਈ
✗ 4. ਨੇਕੀ

Question ID : **630680241240**
Option 1 ID : **630680935405**
Option 2 ID : **630680935406**
Option 3 ID : **630680935403**
Option 4 ID : **630680935404**
Status : **Answered**
Chosen Option : **2**

Q.88 "Substitute"ਦਾ ਸਹੀ ਪੰਜਾਬੀ ਅਨੁਵਾਦ ਹੈ:-

Ans
✗ 1. ਸਥਾਨਾਤਰਣ
✗ 2. ਪਰਿਵਰਤਨ
✓ 3. ਵਿਕਲਪ
✗ 4. ਬਦਲਾਅ

Question ID : **630680241247**
Option 1 ID : **630680935432**
Option 2 ID : **630680935434**
Option 3 ID : **630680935431**
Option 4 ID : **630680935433**
Status : **Answered**
Chosen Option : **1**

Website - www.dailyjobalert.in

Q.89 ਵਾਕਾਂ ਦੀ ਬਣਤਰ ਦੇ ਆਧਾਰ 'ਤੇ ਵਾਕ-ਵੰਡ ਕਿੰਨੇ ਪ੍ਰਕਾਰ ਦੀ ਹੁੰਦੀ ਹੈ?

Ans
✔ 1. ਤਿੰਨ
✘ 2. ਚਾਰ
✘ 3. ਛੇ
✘ 4. ਪੰਜ

Question ID : **630680241235**
Option 1 ID : **630680935383**
Option 2 ID : **630680935384**
Option 3 ID : **630680935385**
Option 4 ID : **630680935386**
Status : **Answered**
Chosen Option : **1**

Q.90 ਹੇਠ ਲਿਖੇ ਵਿਕਲਪਾਂ 'ਚੋਂ ਖਾਲੀ ਸਥਾਨ ਭਰੋ। "ਲੇਖ ਲਿਖਣ ਲਈ ਲੋੜੀਂਦੀ .....ਲਾਇਬ੍ਰੇਰੀ ਤੋਂ ਮਿਲ ਸਕਦੀ ਹੈ।"

Ans
✘ 1. ਕਲਮ
✘ 2. ਕਹਾਣੀ
✔ 3. ਸਮੱਗਰੀ
✘ 4. ਸਿਰਲੇਖ

Question ID : **630680241246**
Option 1 ID : **630680935430**
Option 2 ID : **630680935427**
Option 3 ID : **630680935429**
Option 4 ID : **630680935428**
Status : **Answered**
Chosen Option : **3**

Q.91 "ਜਿਹੜਾ ਹਰ ਥਾਂ ਮੌਜੂਦ ਹੋਵੇ" ਲਈ ਕਿਸੇ ਇਕ ਸਹੀ ਸ਼ਬਦ ਦੀ ਚੋਣ ਕਰੋ:-

Ans
✘ 1. ਸਰਬ ਸਲਾਹੀ
✔ 2. ਸਰਬ ਵਿਆਪੀ
✘ 3. ਵਿਸ਼ਵੀ
✘ 4. ਚੁਫੇਰਗੜੀਆਂ

Question ID : **630680241244**
Option 1 ID : **630680935420**
Option 2 ID : **630680935422**
Option 3 ID : **630680935421**
Option 4 ID : **630680935419**
Status : **Answered**
Chosen Option : **2**

Website - www.dailyjobalert.in

Q.92 ਹੇਠ ਲਿਖੇ ਵਿਕਲਪਾਂ ਚੋਂ ਖਾਲੀ ਸਥਾਨ ਭਰੋ। "ਕਿਸੇ ਵਾਪਰੀ ਘਟਨਾ ਦਾ ਕ੍ਰਮ ਅਨੁਸਾਰ ਵੇਰਵਾ ਪੇਸ਼ ਕਰਨ ਨੂੰ..... ਆਖਦੇ ਹਨ।"

Ans

✗ 1. ਸਵੈ-ਜੀਵਨੀ

✗ 2. ਜੀਵਨੀ

✗ 3. ਨਜ਼ਾਰਾ

✓ 4. ਬਿਰਤਾਂਤ

Question ID : **630680241245**
Option 1 ID : **630680935425**
Option 2 ID : **630680935424**
Option 3 ID : **630680935426**
Option 4 ID : **630680935423**
Status : **Answered**
Chosen Option : **4**

Q.93 ਵਿਆਕਰਣ ਵਿੱਚ ਵਾਕ ਨੂੰ.....ਵਿੱਚ ਵੰਡ ਕੇ ਅਧਿਐਨ ਕੀਤਾ ਜਾਂਦਾ ਹੈ? ਖਾਲੀ ਸਥਾਨ ਭਰਨ ਲਈ ਸਹੀ ਵਿਕਲਪ ਚੁਣੋ:-

Ans

✓ 1. ਉਦੇਸ਼ ਤੇ ਵਿਧੇਅ

✗ 2. ਕਰਤਾ ਤੇ ਕਰਮ

✗ 3. ਵਿਧੇਅ ਤੇ ਕਰਤਾ

✗ 4. ਉਦੇਸ਼ ਤੇ ਕਰਮ

Question ID : **630680241234**
Option 1 ID : **630680935382**
Option 2 ID : **630680935380**
Option 3 ID : **630680935381**
Option 4 ID : **630680935379**
Status : **Answered**
Chosen Option : **2**

Q.94 "Capital Punishment" ਦਾ ਸਹੀ ਪੰਜਾਬੀ ਅਨੁਵਾਦ ਹੈ:-

Ans

✓ 1. ਮੌਤ ਦੀ ਸਜ਼ਾ

✗ 2. ਜੁਰਮਾਨਾ

✗ 3. ਦੇਸ਼ ਨਿਕਾਲਾ

✗ 4. ਕਾਨੂੰਨੀ ਸਜ਼ਾ

Question ID : **630680241249**
Option 1 ID : **630680935442**
Option 2 ID : **630680935439**
Option 3 ID : **630680935440**
Option 4 ID : **630680935441**
Status : **Answered**
Chosen Option : **3**

Website - www.dailyjobalert.in

Q.95 'ਹੇਠ ਲਿਖਿਆਂ' ਚੋਂ ਅਸ਼ੁੱਧ ਸ਼ਬਦ ਚੁਣੋ:-

Ans
1. ਅਹਿਸਾਨ
2. ਸਭਿਆਚਾਰਕ
3. ਚਿੰਤਾਤਰ
4. ਫਿਕਰਮੰਧ

Question ID : **630680241238**
Option 1 ID : **630680935398**
Option 2 ID : **630680935395**
Option 3 ID : **630680935396**
Option 4 ID : **630680935397**
Status : **Answered**
Chosen Option : **3**

Q.96 ਹੇਠ ਲਿਖਿਆਂ ਵਿੱਚ ਕਿਹੜਾ ਸ਼ਬਦ "ਚੰਗਿਆਈ" ਦਾ ਵਿਪਰੀਤਾਰਥਕ ਹੈ?

Ans
1. ਘਟੀਆ
2. ਬੁਰਿਆਈ
3. ਅਵਗੁਣੀ
4. ਬੁਰੀ

Question ID : **630680241242**
Option 1 ID : **630680935412**
Option 2 ID : **630680935413**
Option 3 ID : **630680935414**
Option 4 ID : **630680935411**
Status : **Answered**
Chosen Option : **2**

Website - www.dailyjobalert.in

Comprehension:

ਅਜਿਹੀ ਕੋਈ ਸਮੱਸਿਆ ਨਹੀਂ ਜਿਹੜੀ ਵਿੱਦਿਆ ਦੁਆਰਾ ਸੁਲਝਾਈ ਨਾ ਜਾ ਸਕੇ। ਵਿੱਦਿਆ ਇਕ ਅਜਿਹੀ ਕੁੰਜੀ ਹੈ ਜੋ ਹਰ ਮੁਸ਼ਕਿਲ ਰੂਪੀ ਜਿੰਦਰੇ ਨੂੰ ਖੋਹਲ ਸਕਦੀ ਹੈ, ਪਰ ਇਹ ਤਾਂ ਹੀ ਸੰਭਵ ਹੈ ਜੇਕਰ ਅਸੀਂ ਠੀਕ ਢੰਗ ਦੀ ਵਿੱਦਿਆ ਪ੍ਰਾਪਤ ਕਰੀਏ। ਜਿਹੜੀ ਸਿੱਖਿਆ ਵੇਲੇ ਦੇ ਸਮਾਜ ਨਾਲੋਂ ਟੁੱਟੀ ਹੋਵੇਗੀ ਉਹ ਸਾਡਾ ਭਲਾ ਨਹੀਂ ਕਰ ਸਕਦੀ। ਸਮਾਜਿਕ ਬੁਰਾਈਆਂ ਦੂਰ ਕਰਨ ਲਈ ਵੀ ਠੀਕ ਢੰਗ ਵਾਲੀ ਸਿੱਖਿਆ ਹੀ ਕੰਮ ਆਉਂਦੀ ਹੈ। ਸਿੱਖਿਆ ਵਿਸ਼ਾਲ ਅਤੇ ਸਰਬੱਤ ਦੇ ਭਲੇ ਲਈ ਹੀ ਹੋਵੇ। ਸਾਡੀਆਂ ਬਹੁਤ ਸਾਰੀਆਂ ਸਮੱਸਿਆਵਾਂ ਇਹੋ ਜਿਹੀਆਂ ਹਨ ਜੋ ਕੇਵਲ ਅਗਿਆਨਤਾ ਅਤੇ ਅਨਪੜ੍ਹਤਾ ਕਾਰਣ ਹੀ ਹਨ, ਜਿਵੇਂ : ਛੂਤ-ਛਾਤ, ਇਸਤਰੀ ਦੀ ਦਸ਼ਾ, ਬਾਲ-ਵਿਆਹ, ਭਰੂਣ ਹੱਤਿਆ ਅਤੇ ਵਧ ਰਹੀ ਅਬਾਦੀ ਦੀਆਂ ਸਮੱਸਿਆਵਾਂ ਕੁਝ ਅਜਿਹੀਆਂ ਸਮੱਸਿਆਵਾਂ ਹਨ ਜੋ ਅੰਧ-ਵਿਸ਼ਵਾਸ ਕਰਕੇ ਹੀ ਚਲੀਆਂ ਆਉਂਦੀਆਂ ਹਨ। ਅਸੀਂ ਵੇਖ ਰਹੇ ਹਾਂ ਕਿ ਜਿਵੇਂ-ਜਿਵੇਂ ਵਿੱਦਿਆ ਦਾ ਚਾਨਣ ਵਧ ਰਿਹਾ ਹੈ, ਇਹ ਸਮੱਸਿਆਵਾਂ ਤਿਵੇਂ ਤਿਵੇਂ ਘਟ ਰਹੀਆਂ ਹਨ। ਜਿਹੜੀਆਂ ਥਾਵਾਂ 'ਤੇ ਵਿੱਦਿਆਂ ਸੰਕੀਰਨ ਅਤੇ ਗ਼ਲਤ ਢੰਗ ਦੀ ਹੈ, ਉਥੇ ਉਹ ਸਮੱਸਿਆਵਾਂ ਨੂੰ ਸੁਲਝਾਉਣ ਵਿੱਚ ਸਫਲ ਨਹੀਂ ਰਹੀ। ਇਸ ਲਈ ਜ਼ਰੂਰੀ ਹੈ ਕਿ ਅਸੀਂ ਆਪਣੀ ਸਿੱਖਿਆ ਪ੍ਰਣਾਲੀ ਨੂੰ ਸਮਾਜਿਕ, ਆਰਥਿਕ, ਸਭਿਆਚਾਰਕ ਅਤੇ ਸੰਬੰਧਿਤ ਵਾਤਾਵਰਣ ਨਾਲ ਜੋੜਨ ਲਈ ਯਤਨਸ਼ੀਲ ਹੋਈਏ।

SubQuestion No : 97

Q.97 ਸਮੱਸਿਆਵਾਂ ਕਿਵੇਂ ਘਟਦੀਆਂ ਹਨ?

Ans
- ✗ 1. ਮੁਸ਼ੱਕਤ ਕਰਕੇ
- ✓ 2. ਵਿੱਦਿਆ ਦਾ ਪਸਾਰ ਕਰਕੇ
- ✗ 3. ਲੋਕਾਂ ਨੂੰ ਜੋੜ ਕੇ
- ✗ 4. ਅੰਧ -ਵਿਸ਼ਵਾਸ ਦਾ ਤਿਆਗ਼ ਕਰਕੇ

Question ID : **630680241254**
Option 1 ID : **630680935455**
Option 2 ID : **630680935457**
Option 3 ID : **630680935458**
Option 4 ID : **630680935456**
Status : **Answered**
Chosen Option : **2**

Comprehension:

ਅਜਿਹੀ ਕੋਈ ਸਮੱਸਿਆ ਨਹੀਂ ਜਿਹੜੀ ਵਿੱਦਿਆ ਦੁਆਰਾ ਸੁਲਝਾਈ ਨਾ ਜਾ ਸਕੇ। ਵਿੱਦਿਆ ਇਕ ਅਜਿਹੀ ਕੁੰਜੀ ਹੈ ਜੋ ਹਰ ਮੁਸ਼ਕਿਲ ਰੂਪੀ ਜਿੰਦਰੇ ਨੂੰ ਖੋਹਲ ਸਕਦੀ ਹੈ, ਪਰ ਇਹ ਤਾਂ ਹੀ ਸੰਭਵ ਹੈ ਜੇਕਰ ਅਸੀਂ ਠੀਕ ਢੰਗ ਦੀ ਵਿੱਦਿਆ ਪ੍ਰਾਪਤ ਕਰੀਏ। ਜਿਹੜੀ ਸਿੱਖਿਆ ਵੇਲੇ ਦੇ ਸਮਾਜ ਨਾਲੋਂ ਟੁੱਟੀ ਹੋਵੇਗੀ ਉਹ ਸਾਡਾ ਭਲਾ ਨਹੀਂ ਕਰ ਸਕਦੀ। ਸਮਾਜਿਕ ਬੁਰਾਈਆਂ ਦੂਰ ਕਰਨ ਲਈ ਵੀ ਠੀਕ ਢੰਗ ਵਾਲੀ ਸਿੱਖਿਆ ਹੀ ਕੰਮ ਆਉਂਦੀ ਹੈ। ਸਿੱਖਿਆ ਵਿਸ਼ਾਲ ਅਤੇ ਸਰਬੱਤ ਦੇ ਭਲੇ ਲਈ ਹੀ ਹੋਵੇ। ਸਾਡੀਆਂ ਬਹੁਤ ਸਾਰੀਆਂ ਸਮੱਸਿਆਵਾਂ ਇਹੋ ਜਿਹੀਆਂ ਹਨ ਜੋ ਕੇਵਲ ਅਗਿਆਨਤਾ ਅਤੇ ਅਨਪੜ੍ਹਤਾ ਕਾਰਣ ਹੀ ਹਨ, ਜਿਵੇਂ : ਛੂਤ-ਛਾਤ, ਇਸਤਰੀ ਦੀ ਦਸ਼ਾ, ਬਾਲ-ਵਿਆਹ, ਭਰੂਣ ਹੱਤਿਆ ਅਤੇ ਵਧ ਰਹੀ ਅਬਾਦੀ ਦੀਆਂ ਸਮੱਸਿਆਵਾਂ ਕੁਝ ਅਜਿਹੀਆਂ ਸਮੱਸਿਆਵਾਂ ਹਨ ਜੋ ਅੰਧ-ਵਿਸ਼ਵਾਸ ਕਰਕੇ ਹੀ ਚਲੀਆਂ ਆਉਂਦੀਆਂ ਹਨ। ਅਸੀਂ ਵੇਖ ਰਹੇ ਹਾਂ ਕਿ ਜਿਵੇਂ-ਜਿਵੇਂ ਵਿੱਦਿਆ ਦਾ ਚਾਨਣ ਵਧ ਰਿਹਾ ਹੈ, ਇਹ ਸਮੱਸਿਆਵਾਂ ਤਿਵੇਂ ਤਿਵੇਂ ਘਟ ਰਹੀਆਂ ਹਨ। ਜਿਹੜੀਆਂ ਥਾਵਾਂ 'ਤੇ ਵਿੱਦਿਆਂ ਸੰਕੀਰਨ ਅਤੇ ਗ਼ਲਤ ਢੰਗ ਦੀ ਹੈ, ਉਥੇ ਉਹ ਸਮੱਸਿਆਵਾਂ ਨੂੰ ਸੁਲਝਾਉਣ ਵਿੱਚ ਸਫਲ ਨਹੀਂ ਰਹੀ। ਇਸ ਲਈ ਜ਼ਰੂਰੀ ਹੈ ਕਿ ਅਸੀਂ ਆਪਣੀ ਸਿੱਖਿਆ ਪ੍ਰਣਾਲੀ ਨੂੰ ਸਮਾਜਿਕ, ਆਰਥਿਕ, ਸਭਿਆਚਾਰਕ ਅਤੇ ਸੰਬੰਧਿਤ ਵਾਤਾਵਰਣ ਨਾਲ ਜੋੜਨ ਲਈ ਯਤਨਸ਼ੀਲ ਹੋਈਏ।

SubQuestion No : 98

Q.98 ਸਿੱਖਿਆ ਦਾ ਮੁਖ ਮੰਤਵ ਕੀ ਹੈ?

Ans
- ✓ 1. ਮਨੁੱਖ ਦੀ ਹਰ ਮੁਸ਼ਕਿਲ ਦਾ ਹੱਲ ਕਰਨਾ
- ✗ 2. ਨੌਕਰੀ ਪ੍ਰਾਪਤ ਕਰਨਾ
- ✗ 3. ਮਨੁੱਖ ਨੂੰ ਪੜ੍ਹਾਉਣਾ
- ✗ 4. ਰੁਜ਼ਗਾਰ ਲੱਭਣਾ

Question ID : **630680241253**
Option 1 ID : **630680935453**
Option 2 ID : **630680935451**
Option 3 ID : **630680935454**
Option 4 ID : **630680935452**
Status : **Answered**
Chosen Option : **1**

Website - www.dailyjobalert.in

Comprehension:

ਅਜਿਹੀ ਕੋਈ ਸਮੱਸਿਆ ਨਹੀਂ ਜਿਹੜੀ ਵਿੱਦਿਆ ਦੁਆਰਾ ਸੁਲਝਾਈ ਨਾ ਜਾ ਸਕੇ। ਵਿੱਦਿਆ ਇਕ ਅਜਿਹੀ ਕੁੰਜੀ ਹੈ ਜੋ ਹਰ ਮੁਸ਼ਕਿਲ ਰੂਪੀ ਜਿੰਦਰੇ ਨੂੰ ਖੋਹਲ ਸਕਦੀ ਹੈ, ਪਰ ਇਹ ਤਾਂ ਹੀ ਸੰਭਵ ਹੈ ਜੇਕਰ ਅਸੀਂ ਠੀਕ ਢੰਗ ਦੀ ਵਿੱਦਿਆ ਪ੍ਰਾਪਤ ਕਰੀਏ। ਜਿਹੜੀ ਸਿੱਖਿਆ ਵੇਲੇ ਦੇ ਸਮਾਜ ਨਾਲੋਂ ਟੁੱਟੀ ਹੋਵੇਗੀ ਉਹ ਸਾਡਾ ਭਲਾ ਨਹੀਂ ਕਰ ਸਕਦੀ। ਸਮਾਜਿਕ ਬੁਰਾਈਆਂ ਦੂਰ ਕਰਨ ਲਈ ਵੀ ਠੀਕ ਢੰਗ ਵਾਲੀ ਸਿੱਖਿਆ ਹੀ ਕੰਮ ਆਉਂਦੀ ਹੈ। ਸਿੱਖਿਆ ਵਿਸ਼ਾਲ ਅਤੇ ਸਰਬੱਤ ਦੇ ਭਲੇ ਲਈ ਹੀ ਹੋਵੇ। ਸਾਡੀਆਂ ਬਹੁਤ ਸਾਰੀਆਂ ਸਮੱਸਿਆਵਾਂ ਇਹੋ ਜਿਹੀਆਂ ਹਨ ਜੋ ਕੇਵਲ ਅਗਿਆਨਤਾ ਅਤੇ ਅਨਪੜ੍ਹਤਾ ਕਾਰਣ ਹੀ ਹਨ, ਜਿਵੇਂ : ਛੂਤ-ਛਾਤ, ਇਸਤਰੀ ਦੀ ਦਸ਼ਾ, ਬਾਲ-ਵਿਆਹ, ਭਰੂਣ ਹੱਤਿਆ ਅਤੇ ਵਧ ਰਹੀ ਅਬਾਦੀ ਦੀਆਂ ਸਮੱਸਿਆਵਾਂ ਕੁਝ ਅਜਿਹੀਆਂ ਸਮੱਸਿਆਵਾਂ ਹਨ ਜੋ ਅੰਧ-ਵਿਸ਼ਵਾਸ ਕਰਕੇ ਹੀ ਚਲੀਆਂ ਆਉਂਦੀਆਂ ਹਨ। ਅਸੀਂ ਵੇਖ ਰਹੇ ਹਾਂ ਕਿ ਜਿਵੇਂ-ਜਿਵੇਂ ਵਿੱਦਿਆ ਦਾ ਚਾਨਣ ਵਧ ਰਿਹਾ ਹੈ, ਇਹ ਸਮੱਸਿਆਵਾਂ ਤਿਵੇਂ ਤਿਵੇਂ ਘਟ ਰਹੀਆਂ ਹਨ। ਜਿਹੜੀਆਂ ਥਾਵਾਂ 'ਤੇ ਵਿੱਦਿਆਂ ਸੰਕੀਰਨ ਅਤੇ ਗ਼ਲਤ ਢੰਗ ਦੀ ਹੈ, ਉਥੇ ਉਹ ਸਮੱਸਿਆਵਾਂ ਨੂੰ ਸੁਲਝਾਉਣ ਵਿੱਚ ਸਫਲ ਨਹੀਂ ਰਹੀ। ਇਸ ਲਈ ਜ਼ਰੂਰੀ ਹੈ ਕਿ ਅਸੀਂ ਆਪਣੀ ਸਿੱਖਿਆ ਪ੍ਰਣਾਲੀ ਨੂੰ ਸਮਾਜਿਕ, ਆਰਥਿਕ, ਸਭਿਆਚਾਰਕ ਅਤੇ ਸੰਬੰਧਿਤ ਵਾਤਾਵਰਣ ਨਾਲ ਜੋੜਨ ਲਈ ਯਤਨਸ਼ੀਲ ਹੋਈਏ।

SubQuestion No : 99

Q.99 ਸਮਾਜਿਕ ਸਮੱਸਿਆਵਾਂ ਦੇ ਫੈਲਣ ਦਾ ਕੀ ਕਾਰਣ ਹੈ?

Ans
- ✗ 1. ਵਾਤਾਵਰਨਕ ਸੰਕਟ
- ✗ 2. ਸਹੀ ਵਿਦਿਆ ਪ੍ਰਣਾਲੀ
- ✗ 3. ਵਿਸ਼ਵਾਸ
- ✓ 4. ਵਿੱਦਿਆ ਦਾ ਗ਼ਲਤ ਸਰੂਪ

Question ID : **630680241252**
Option 1 ID : **630680935449**
Option 2 ID : **630680935448**
Option 3 ID : **630680935450**
Option 4 ID : **630680935447**
Status : **Answered**
Chosen Option : **4**

Comprehension:

ਅਜਿਹੀ ਕੋਈ ਸਮੱਸਿਆ ਨਹੀਂ ਜਿਹੜੀ ਵਿੱਦਿਆ ਦੁਆਰਾ ਸੁਲਝਾਈ ਨਾ ਜਾ ਸਕੇ। ਵਿੱਦਿਆ ਇਕ ਅਜਿਹੀ ਕੁੰਜੀ ਹੈ ਜੋ ਹਰ ਮੁਸ਼ਕਿਲ ਰੂਪੀ ਜਿੰਦਰੇ ਨੂੰ ਖੋਹਲ ਸਕਦੀ ਹੈ, ਪਰ ਇਹ ਤਾਂ ਹੀ ਸੰਭਵ ਹੈ ਜੇਕਰ ਅਸੀਂ ਠੀਕ ਢੰਗ ਦੀ ਵਿੱਦਿਆ ਪ੍ਰਾਪਤ ਕਰੀਏ। ਜਿਹੜੀ ਸਿੱਖਿਆ ਵੇਲੇ ਦੇ ਸਮਾਜ ਨਾਲੋਂ ਟੁੱਟੀ ਹੋਵੇਗੀ ਉਹ ਸਾਡਾ ਭਲਾ ਨਹੀਂ ਕਰ ਸਕਦੀ। ਸਮਾਜਿਕ ਬੁਰਾਈਆਂ ਦੂਰ ਕਰਨ ਲਈ ਵੀ ਠੀਕ ਢੰਗ ਵਾਲੀ ਸਿੱਖਿਆ ਹੀ ਕੰਮ ਆਉਂਦੀ ਹੈ। ਸਿੱਖਿਆ ਵਿਸ਼ਾਲ ਅਤੇ ਸਰਬੱਤ ਦੇ ਭਲੇ ਲਈ ਹੀ ਹੋਵੇ। ਸਾਡੀਆਂ ਬਹੁਤ ਸਾਰੀਆਂ ਸਮੱਸਿਆਵਾਂ ਇਹੋ ਜਿਹੀਆਂ ਹਨ ਜੋ ਕੇਵਲ ਅਗਿਆਨਤਾ ਅਤੇ ਅਨਪੜ੍ਹਤਾ ਕਾਰਣ ਹੀ ਹਨ, ਜਿਵੇਂ : ਛੂਤ-ਛਾਤ, ਇਸਤਰੀ ਦੀ ਦਸ਼ਾ, ਬਾਲ-ਵਿਆਹ, ਭਰੂਣ ਹੱਤਿਆ ਅਤੇ ਵਧ ਰਹੀ ਅਬਾਦੀ ਦੀਆਂ ਸਮੱਸਿਆਵਾਂ ਕੁਝ ਅਜਿਹੀਆਂ ਸਮੱਸਿਆਵਾਂ ਹਨ ਜੋ ਅੰਧ-ਵਿਸ਼ਵਾਸ ਕਰਕੇ ਹੀ ਚਲੀਆਂ ਆਉਂਦੀਆਂ ਹਨ। ਅਸੀਂ ਵੇਖ ਰਹੇ ਹਾਂ ਕਿ ਜਿਵੇਂ-ਜਿਵੇਂ ਵਿੱਦਿਆ ਦਾ ਚਾਨਣ ਵਧ ਰਿਹਾ ਹੈ, ਇਹ ਸਮੱਸਿਆਵਾਂ ਤਿਵੇਂ ਤਿਵੇਂ ਘਟ ਰਹੀਆਂ ਹਨ। ਜਿਹੜੀਆਂ ਥਾਵਾਂ 'ਤੇ ਵਿੱਦਿਆਂ ਸੰਕੀਰਨ ਅਤੇ ਗ਼ਲਤ ਢੰਗ ਦੀ ਹੈ, ਉਥੇ ਉਹ ਸਮੱਸਿਆਵਾਂ ਨੂੰ ਸੁਲਝਾਉਣ ਵਿੱਚ ਸਫਲ ਨਹੀਂ ਰਹੀ। ਇਸ ਲਈ ਜ਼ਰੂਰੀ ਹੈ ਕਿ ਅਸੀਂ ਆਪਣੀ ਸਿੱਖਿਆ ਪ੍ਰਣਾਲੀ ਨੂੰ ਸਮਾਜਿਕ, ਆਰਥਿਕ, ਸਭਿਆਚਾਰਕ ਅਤੇ ਸੰਬੰਧਿਤ ਵਾਤਾਵਰਣ ਨਾਲ ਜੋੜਨ ਲਈ ਯਤਨਸ਼ੀਲ ਹੋਈਏ।

SubQuestion No : 100

Q.100 ਉਪਰੋਕਤ ਪੈਰੇ ਦਾ ਸਿਰਲੇਖ ਹੈ:-

Ans
- ✓ 1. ਸਿੱਖਿਆ ਅਤੇ ਸਮਾਜ: ਅੰਤਰ ਸੰਬੰਧ
- ✗ 2. ਅਗਿਆਨਤਾ ਅਤੇ ਸਰਬੱਤ ਦਾ ਭਲਾ
- ✗ 3. ਸਮਾਜਿਕ ਬੁਰਾਈਆਂ ਦਾ ਕਾਰਣ: ਸਾਡਾ ਵਾਤਾਵਰਣ
- ✗ 4. ਸਮਾਜ ਦੀ ਸਿੱਖਿਆ

Question ID : **630680241251**
Option 1 ID : **630680935445**
Option 2 ID : **630680935444**
Option 3 ID : **630680935446**
Option 4 ID : **630680935443**
Status : **Answered**
Chosen Option : **4**

Website - www.dailyjobalert.in

PUNJAB POLICE

Police to its last particle is duty

Exam Name	Recruitment for the post of Sub Inspector in Cadres of District and Armed Police 20th Jun to 31st Jul 2023 S2 Paper II and III
Application No	www.dailyjobalert.in
Roll No	Telegram - Daily Job Alert Punjab
Applicant Name	instagram - Daily Job Alert Punjab
Exam Date	14/07/2023
Shift	4:00 PM - 7:00 PM
Subject	Sub Inspector Paper II and III

Section : **Logical and Analytical Reasoning and Data Interpretation**

Q.1 Read the given statements and conclusions carefully. Assuming that the information given in the statements is true, even if it appears to be at variance with commonly known facts, decide which of the given conclusions logically follow(s) from the statements.

Statements:
No flower is apple.
No apple is orange.
Some orange is flower.
Conclusions:
I. Some flower is orange.
II. All flower is apple.
III. No flower is orange.

Ans
✗ 1. None of the conclusions follow
✗ 2. Only conclusions I and II follow
✓ 3. Only conclusion I follows
✗ 4. Only conclusions I and III follow

Question ID : **630680105908**
Option 1 ID : **630680411575**
Option 2 ID : **630680411577**
Option 3 ID : **630680411578**
Option 4 ID : **630680411576**
Status : **Answered**
Chosen Option : **3**

Website - www.dailyjobalert.in

Q.2 **Select the letter-cluster from among the given options that can replace the question mark (?) in the following series.**
CFE, DFF, EFG, FFH,?

Ans
✗ 1. FFG
✗ 2. GHI
✓ 3. GFI
✗ 4. GFH

Question ID : **63068050806**
Option 1 ID : **630680195534**
Option 2 ID : **630680195536**
Option 3 ID : **630680195535**
Option 4 ID : **630680195537**
Status : **Answered**
Chosen Option : **3**

Q.3 **Select the number from among the given options that can replace the question mark (?) in the following series.**
15, 19, 24, ?, 37

Ans
✗ 1. 28
✓ 2. 30
✗ 3. 31
✗ 4. 33

Question ID : **63068050379**
Option 1 ID : **630680193839**
Option 2 ID : **630680193838**
Option 3 ID : **630680193840**
Option 4 ID : **630680193841**
Status : **Answered**
Chosen Option : **2**

Q.4 **Sharda was born on 13 September 1972 and died on 24 March 2018. Find her exact age.**

Ans
✗ 1. 65 y 6 m 30 d
✗ 2. 35 y 2 m 12 d
✗ 3. 49 y 7m 3 d
✓ 4. 45 y 6 m 12 d

Question ID : **630680127070**
Option 1 ID : **630680492778**
Option 2 ID : **630680492781**
Option 3 ID : **630680492779**
Option 4 ID : **630680492780**
Status : **Answered**
Chosen Option : **4**

Website - www.dailyjobalert.in

Q.5 **What should come in place of the question mark (?) in the given series in order to make it logically complete?**
E3V, H8S, K15P, N24M, ?

Ans
✔ 1. Q35J
✘ 2. P34R
✘ 3. P35I
✘ 4. Q34R

Question ID : **630680127182**
Option 1 ID : **630680493157**
Option 2 ID : **630680493160**
Option 3 ID : **630680493158**
Option 4 ID : **630680493159**
Status : **Answered**
Chosen Option : **1**

Q.6 **Select the letter-cluster from among the given options that can replace the question mark (?) in the following series.**
AEF, BHI, CKL, ?, EQR

Ans
✘ 1. DOP
✘ 2. DNP
✘ 3. DON
✔ 4. DNO

Question ID : **63068048591**
Option 1 ID : **630680186976**
Option 2 ID : **630680186975**
Option 3 ID : **630680186977**
Option 4 ID : **630680186974**
Status : **Answered**
Chosen Option : **4**

Q.7 **ਨਿਮਨਲਿਖਤ ਦੋ ਤਿੱਕੜੀਆਂ ਵਿੱਚ, ਅੱਖਰਾਂ ਦਾ ਹਰੇਕ ਸਮੂਹ ਇੱਕ ਖਾਸ ਤਰਕ ਦੀ ਪਾਲਣਾ ਕਰਦੇ ਹੋਏ ਬਾਅਦ ਵਿੱਚ ਆਉਣ ਵਾਲੇ ਇੱਕ ਸਮੂਹ ਨਾਲ ਸੰਬੰਧਿਤ ਹੈ। ਦਿੱਤੇ ਗਏ ਵਿਕਲਪਾਂ ਵਿੱਚੋਂ ਉਸਦੀ ਚੋਣ ਕਰੋ, ਜੋ ਸਮਾਨ ਤਰਕ ਦੀ ਪਾਲਣਾ ਕਰਦਾ ਹੈ।**
ਤਿੱਕੜੀ 1: TRIP - KRVT - RVTK
ਤਿੱਕੜੀ 2: PLOT - QVRN - VRNQ

Ans
✔ 1. MESH - UJOG – JOGU
✘ 2. BRAG - DTCJ – TCJD
✘ 3. BULK - NMEX – MEXN
✘ 4. ONES - QPCR – PCRQ

Question ID : **63068077056**
Option 1 ID : **630680298324**
Option 2 ID : **630680298321**
Option 3 ID : **630680298322**
Option 4 ID : **630680298323**
Status : **Answered**
Chosen Option : **1**

Website - www.dailyjobalert.in

Q.8 **What should come in place of the question mark(?) in the given series?**
2, 5, 17, 65, ?

Ans
✗ 1. 256
✗ 2. 258
✓ 3. 257
✗ 4. 255

Question ID : **630680127798**
Option 1 ID : **630680495365**
Option 2 ID : **630680495367**
Option 3 ID : **630680495364**
Option 4 ID : **630680495366**
Status : **Answered**
Chosen Option : **3**

Q.9 **A certain number of people are sitting in a row, facing the north. Y is to the immediate right of M. Exactly three people sit between S and F. Only four people sit between S and M. E is third to the left of F. Both M and F occupy the extreme ends in the row. If no other person is sitting in the row, then what is the total number of people seated?**

Ans
✗ 1. 11
✗ 2. 12
✓ 3. 10
✗ 4. 13

Question ID : **630680112287**
Option 1 ID : **630680434863**
Option 2 ID : **630680434864**
Option 3 ID : **630680434862**
Option 4 ID : **630680434865**
Status : **Answered**
Chosen Option : **3**

Q.10 **Three of the given options are alike in a certain way and thus form a group. Which is the one that does NOT belong to that group?**

Ans
✗ 1. HGKB
✗ 2. VUYP
✓ 3. VUZQ
✗ 4. MLPG

Question ID : **630680104908**
Option 1 ID : **630680407764**
Option 2 ID : **630680407765**
Option 3 ID : **630680407766**
Option 4 ID : **630680407763**
Status : **Answered**
Chosen Option : **3**

Website - www.dailyjobalert.in

Q.11 In a row of people all facing north, Julie is 6th from the right end. Alex is 18th from the right end. Alex is exactly between Rohan and Julie. If Rohan is 5th from the left end of the row, then how many people in total are there in the row?

Ans
✗ 1. 33
✗ 2. 35
✗ 3. 32
✓ 4. 34

Question ID : **630680107008**
Option 1 ID : **630680415497**
Option 2 ID : **630680415499**
Option 3 ID : **630680415496**
Option 4 ID : **630680415498**
Status : **Answered**
Chosen Option : **4**

Q.12 ਹੇਠਾਂ ਦਿੱਤੀ ਅੱਖਰ ਲੜੀ ਵੇਖੋ ਅਤੇ ਪ੍ਰਸ਼ਨ ਦਾ ਉੱਤਰ ਦਿਓ।
(ਖੱਬਾ ਪਾਸਾ) N, C, B, S, A, C, K, R, Z, J, T, O, I, F, X, V, H (ਸੱਜਾ ਪਾਸਾ)।
ਜੇਕਰ ਦਿੱਤੀ ਗਈ ਅੱਖਰ ਲੜੀ ਨੂੰ ਉਲਟ ਕ੍ਰਮ ਵਿੱਚ ਇਸ ਤਰ੍ਹਾਂ ਕ੍ਰਮਵਾਰ ਲਿਖਿਆ ਜਾਵੇ ਕਿ ਸੱਜੇ ਪਾਸੇ ਦਾ ਆਖਰੀ ਅੱਖਰ, ਖੱਬੇ ਪਾਸੇ ਦਾ ਪਹਿਲਾ ਅੱਖਰ ਬਣ ਜਾਵੇ, ਤਾਂ ਸੱਜੇ ਪਾਸੇ ਤੋਂ ਦਸਵੇਂ ਅੱਖਰ ਦੇ ਖੱਬੇ ਪਾਸੇ, ਚੌਥਾ ਅੱਖਰ ਕਿਹੜਾ ਹੋਵੇਗਾ?

Ans
✗ 1. O
✗ 2. I
✗ 3. J
✓ 4. F

Question ID : **630680221092**
Option 1 ID : **630680858220**
Option 2 ID : **630680858219**
Option 3 ID : **630680858217**
Option 4 ID : **630680858218**
Status : **Answered**
Chosen Option : **4**

Q.13 The test result of D, E, F, G, H and I is declared. Each of them scored different marks. G scored better than E and I only. F scored better than D and H. Who among the following scored the maximum?

Ans
✗ 1. I
✗ 2. G
✗ 3. H
✓ 4. F

Question ID : **630680138942**
Option 1 ID : **630680537921**
Option 2 ID : **630680537918**
Option 3 ID : **630680537920**
Option 4 ID : **630680537919**
Status : **Answered**
Chosen Option : **4**

Website - www.dailyjobalert.in

Q.14 **Select the option in which the numbers are related in the same way as are the numbers in the given triad.**
(1234 : 4321 : 10)

Ans
✗ 1. (1234 : 1234 : 10)
✗ 2. (1234 : 4321 : 24)
✗ 3. (3124 : 4213 : 14)
✓ 4. (3124 : 4213 : 10)

Question ID : **63068062251**
Option 1 ID : **630680240301**
Option 2 ID : **630680240300**
Option 3 ID : **630680240298**
Option 4 ID : **630680240299**
Status : **Answered**
Chosen Option : **4**

Q.15 **Refer to the following number series and answer the question.**
9, 6, 5, 4, 1, 3, 5, 6, 8, 7, 9, 6, 4, 8, 5, 3, 7, 5, 2, 4, 6, 7, 2, 1, 3.
How many odd numbers are immediately preceded by three even numbers?

Ans
✗ 1. One
✗ 2. Three
✓ 3. Two
✗ 4. Four

Question ID : **630680221093**
Option 1 ID : **630680858223**
Option 2 ID : **630680858221**
Option 3 ID : **630680858224**
Option 4 ID : **630680858222**
Status : **Answered**
Chosen Option : **1**

Q.16 **Shivani ranked 12th in a class of 59 students. What is her rank from the last?**

Ans
✗ 1. 49
✗ 2. 47
✗ 3. 46
✓ 4. 48

Question ID : **630680196458**
Option 1 ID : **630680762154**
Option 2 ID : **630680762153**
Option 3 ID : **630680762151**
Option 4 ID : **630680762152**
Status : **Answered**
Chosen Option : **4**

Website - www.dailyjobalert.in

Q.17 **Three of the following four are alike in a certain way and thus form a group. Which is the one that does NOT belong to that group?**

Ans
✔ 1. TSWN
✘ 2. UTYP
✘ 3. FEJA
✘ 4. MLQH

Question ID : **630680104902**
Option 1 ID : **630680407741**
Option 2 ID : **630680407742**
Option 3 ID : **630680407739**
Option 4 ID : **630680407740**
Status : **Answered**
Chosen Option : **1**

Q.18 **In a row of 48 officers facing the North, Nirupaman is 6th to the left of Priyanshu. If Priyanshu is 18th from the left end of the row, how far is Nirupaman from the right end of the row, what is the position of Nirupaman from the right end of the row?**

Ans
✔ 1. 37
✘ 2. 35
✘ 3. 34
✘ 4. 36

Question ID : **630680107153**
Option 1 ID : **630680416008**
Option 2 ID : **630680416010**
Option 3 ID : **630680416009**
Option 4 ID : **630680416011**
Status : **Answered**
Chosen Option : **1**

Q.19 **In a code language, 'GRAPH' is coded as HUFWG and 'FLECK' is coded as KOJJF. How will 'WAVED' be coded in the same language?**

Ans
✔ 1. DDALW
✘ 2. DEBLX
✘ 3. EDALV
✘ 4. EFBKW

Question ID : **630680147842**
Option 1 ID : **630680572085**
Option 2 ID : **630680572082**
Option 3 ID : **630680572083**
Option 4 ID : **630680572084**
Status : **Answered**
Chosen Option : **1**

Website - www.dailyjobalert.in

Q.20 Select the option that will come in place of the question mark (?)in the given series in order to make it logically complete.
AF12 BG24 CH36 DI48 ?

Ans
1. EK56
2. JK60
3. EJ60
4. EJ54

Question ID : **630680107954**
Option 1 ID : **630680418997**
Option 2 ID : **630680418999**
Option 3 ID : **630680418996**
Option 4 ID : **630680418998**
Status : **Answered**
Chosen Option : **3**

Q.21 In a code language, 'PROBE' is coded as EBORR and 'PLUMB' is coded as BMULR.
How will 'WOVEN' be coded in the same language?

Ans
1. NEVOW
2. EVNOW
3. ENVOY
4. NEVOY

Question ID : **630680147835**
Option 1 ID : **630680572055**
Option 2 ID : **630680572054**
Option 3 ID : **630680572056**
Option 4 ID : **630680572057**
Status : **Answered**
Chosen Option : **4**

Q.22 ਕੁਝ ਕੋਡਾਂ ਵਿੱਚ (a) 'Ram better go' ਨੂੰ '260' ਵੱਜੋਂ ਲਿਖਿਆ ਗਿਆ ਹੈ, (b) 'better is here' ਨੂੰ '278' ਵੱਜੋਂ ਲਿਖਿਆ ਗਿਆ ਹੈ, (c) 'Ram is here' ਨੂੰ '678' ਵੱਜੋਂ ਲਿਖਿਆ ਗਿਆ ਹੈ, (d) 'better Ram here' ਨੂੰ '267' ਵੱਜੋਂ ਲਿਖਿਆ ਗਿਆ ਹੈ, (e) 'is and go' ਨੂੰ '480' ਵੱਜੋਂ ਲਿਖਿਆ ਗਿਆ ਹੈ। ਉਸੇ ਕੋਡ ਵਿੱਚ 'better' ਨੂੰ ਕਿਵੇਂ ਲਿਖਣਾ ਹੈ, ਇਹ ਸਮਝਣ ਲਈ ਹੇਠ ਲਿਖੇ ਵਿੱਚੋਂ ਘੱਟੋ-ਘੱਟ ਕਥਨਾਂ ਦਾ ਕਿਹੜਾ ਸੈੱਟ ਜ਼ਰੂਰੀ ਹੈ?

Ans
1. (a) ਅਤੇ (d)
2. (b), (e) ਅਤੇ (d)
3. (a) ਅਤੇ (b)
4. (b) ਅਤੇ (d)

Question ID : **630680104895**
Option 1 ID : **630680407712**
Option 2 ID : **630680407714**
Option 3 ID : **630680407713**
Option 4 ID : **630680407711**
Status : **Answered**
Chosen Option : **3**

Website - www.dailyjobalert.in

Q.23 **Select the combination of letters that when sequentially placed in the blanks of the given series will complete the series.**
_QS_V BD_H_ _RT_W D_HJ_ _U_YZ

Ans
✔ 1. OUFIPVFKSW
✘ 2. PUFIPVFKTW
✘ 3. OUEIPVFKSW
✘ 4. PUEIPVFKTW

Question ID : **63068060464**
Option 1 ID : **630680233390**
Option 2 ID : **630680233393**
Option 3 ID : **630680233391**
Option 4 ID : **630680233392**
Status : **Answered**
Chosen Option : **1**

Q.24 **A is the father of B; B is the sister of C; C is the father of D. How is A related to D?**

Ans
✘ 1. Mother's father
✘ 2. Father's mother
✔ 3. Father's father
✘ 4. Mother's mother

Question ID : **630680161855**
Option 1 ID : **630680626730**
Option 2 ID : **630680626728**
Option 3 ID : **630680626729**
Option 4 ID : **630680626731**
Status : **Answered**
Chosen Option : **3**

DAILY JOB Alert ਪੰਜਾਬ

Q.25 **Study the following pie-chart and answer the given question.**
The following pie chart depicts the number of orders placed in four months, out of the total number of orders placed (which is 900) in the given four months together.

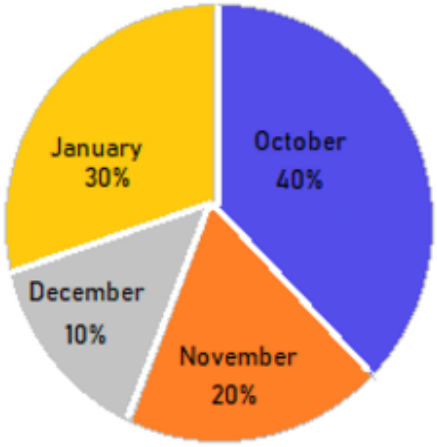

The number of orders placed in February was 96 more than the number of orders placed in November. What is the average number of orders placed in December, January and February?

Ans
✗ 1. 216
✗ 2. 214
✓ 3. 212
✗ 4. 213

Question ID : **630680172685**
Option 1 ID : **630680669160**
Option 2 ID : **630680669161**
Option 3 ID : **630680669162**
Option 4 ID : **630680669163**
Status : **Answered**
Chosen Option : **3**

Q.26 **Town K is to the south-west of Town I. Town H is to the east of Town G. Town I is to the south of Town G. Town J is to the east of Town K. What is the position of Town H with respect to Town K?**

Ans
✓ 1. North-east
✗ 2. North-west
✗ 3. South-west
✗ 4. South-east

Question ID : **630680189127**
Option 1 ID : **630680733317**
Option 2 ID : **630680733318**
Option 3 ID : **630680733320**
Option 4 ID : **630680733319**
Status : **Answered**
Chosen Option : **2**

Website - www.dailyjobalert.in

Q.27 Select the option in which the numbers are related in the same way as are the numbers in the given triad.
(79 : 62 : 47)

Ans
1. (14 : 12 : 11)
2. (81 : 64 :49)
3. (167 : 142 : 119)
4. (90 : 80 : 70)

Question ID : **63068062249**
Option 1 ID : **630680240293**
Option 2 ID : **630680240291**
Option 3 ID : **630680240292**
Option 4 ID : **630680240290**
Status : **Answered**
Chosen Option : **2**

Q.28 ਛੇ ਦੋਸਤ ਮ੍ਰਿਦੁਲਾ, ਦੁਰਗੇਸ਼, ਗੌਰੀ, ਵਰੁਣ, ਰਜਤ ਅਤੇ ਅਨਾਇਆ ਹਨ, ਹਰੇਕ ਦੀ ਉਮਰ ਵੱਖਰੀ ਹੈ। ਮ੍ਰਿਦੁਲਾ ਦੁਰਗੇਸ਼ ਤੋਂ ਵੱਡੀ ਹੈ ਪਰ ਰਜਤ ਤੋਂ ਛੋਟੀ ਹੈ। ਅਨਾਇਆ ਗੌਰੀ ਤੋਂ ਵੱਡੀ ਹੈ ਪਰ ਮ੍ਰਿਦੁਲਾ ਤੋਂ ਛੋਟੀ ਹੈ। ਵਰੁਣ ਸਾਰਿਆਂ ਵਿੱਚੋਂ ਸਭ ਤੋਂ ਛੋਟਾ ਹੈ। ਸਾਰਿਆਂ ਵਿੱਚੋਂ ਸਭ ਤੋਂ ਵੱਡਾ ਕੌਣ ਹੈ?

Ans
1. ਅਨਾਇਆ
2. ਗੌਰੀ
3. ਮ੍ਰਿਦੁਲਾ
4. ਰਜਤ

Question ID : **630680106316**
Option 1 ID : **630680413092**
Option 2 ID : **630680413093**
Option 3 ID : **630680413090**
Option 4 ID : **630680413091**
Status : **Answered**
Chosen Option : **4**

Q.29 Three of the given options are alike in a certain way and thus form a group. Which is the one that does NOT belong to that group?

Ans
1. HKMOS
2. BEGIM
3. EHJLP
4. KNPRT

Question ID : **63068049948**
Option 1 ID : **630680192116**
Option 2 ID : **630680192115**
Option 3 ID : **630680192114**
Option 4 ID : **630680192117**
Status : **Answered**
Chosen Option : **2**

Website - www.dailyjobalert.in

Q.30 **ERTY is related to GTVA in a certain way based on the English alphabetical order. In the same way, MDIO is related to OFKQ. To which of the following is HSWL related, following the same logic?**

Ans
✗ 1. JUXN
✗ 2. KUXN
✗ 3. KUYN
✓ 4. JUYN

Question ID : **63068057328**
Option 1 ID : **630680221156**
Option 2 ID : **630680221155**
Option 3 ID : **630680221154**
Option 4 ID : **630680221157**
Status : **Answered**
Chosen Option : **4**

Q.31 **Select the option in which the numbers are related in the same way as are the numbers in the given triad.**
(123 : 6 : 738)

Ans
✓ 1. (111 : 3 : 333)
✗ 2. (111 : 3 : 233)
✗ 3. (111 : 2 : 223)
✗ 4. (111 : 2 : 322)

Question ID : **63068062254**
Option 1 ID : **630680240311**
Option 2 ID : **630680240312**
Option 3 ID : **630680240313**
Option 4 ID : **630680240310**
Status : **Answered**
Chosen Option : **1**

Q.32 **G is the daughter of A. D is married to A. A is the son of B. E is married to B. B is the mother of F. How is G related to F?**

Ans
✗ 1. Brother's wife
✓ 2. Brother's daughter
✗ 3. Father's sister
✗ 4. Mother's sister

Question ID : **630680163324**
Option 1 ID : **630680632481**
Option 2 ID : **630680632480**
Option 3 ID : **630680632483**
Option 4 ID : **630680632482**
Status : **Answered**
Chosen Option : **3**

Website - www.dailyjobalert.in

Q.33 A, B, C, D, E, and F are standing together in a ground. D's height is greater than that of B and F. F's height is greater than that of B, A, and C. E is the tallest of the six. Who is the second tallest among these six?

Ans
✔ 1. D
✘ 2. F
✘ 3. A
✘ 4. B

Question ID : **630680118368**
Option 1 ID : **630680458606**
Option 2 ID : **630680458607**
Option 3 ID : **630680458608**
Option 4 ID : **630680458609**
Status : **Answered**
Chosen Option : **3**

Q.34 ਅਰੁਣ ਅਤੇ ਵਰੁਨ ਆਪਣੇ ਦਫ਼ਤਰ ਤੋਂ ਚੱਲੇ ਅਤੇ ਉਲਟ ਦਿਸ਼ਾਵਾਂ ਵਿੱਚ ਯਾਤਰਾ ਕੀਤੀ। ਅਰੁਣ 10 km ਚੱਲਿਆ ਅਤੇ ਵਰੁਨ 12 km ਚੱਲਿਆ। ਬਾਅਦ ਵਿੱਚ, ਅਰੁਣ ਸੱਜੇ ਮੁੜਿਆ ਅਤੇ 2 km ਚੱਲਿਆ, ਜਦੋਂ ਕਿ ਵਰੁਨ ਖੱਬੇ ਮੁੜਿਆ ਅਤੇ 2 km ਚੱਲਿਆ। ਹੁਣ ਉਹ ਇਕ ਦੂਜੇ ਤੋਂ ਕਿੰਨੀ ਦੂਰੀ 'ਤੇ ਹਨ?

Ans
✔ 1. 22 km
✘ 2. 26 km
✘ 3. 2 km
✘ 4. 24 km

Question ID : **630680106034**
Option 1 ID : **630680412035**
Option 2 ID : **630680412037**
Option 3 ID : **630680412036**
Option 4 ID : **630680412038**
Status : **Answered**
Chosen Option : **3**

Q.35 ਇੱਕ ਖਾਸ ਢੰਗ ਨਾਲ 6 MRP, 216 RTO ਨਾਲ ਸੰਬੰਧਿਤ ਹੈ। ਇਸੇ ਤਰ੍ਹਾਂ 7 SVX, 343 ZXU ਨਾਲ ਸੰਬੰਧਿਤ ਹੈ। ਉਸੇ ਤਰਕ ਦੀ ਵਰਤੋਂ ਕਰਦੇ ਹੋਏ, ਹੇਠਾਂ ਦਿੱਤਿਆਂ ਵਿੱਚੋਂ 5 LPG ਕਿਸ ਨਾਲ ਸੰਬੰਧਿਤ ਹੈ?

Ans
✘ 1. 525 IRN
✘ 2. 25 IRN
✘ 3. 125 NRI
✔ 4. 125 IRN

Question ID : **63068062324**
Option 1 ID : **630680240542**
Option 2 ID : **630680240545**
Option 3 ID : **630680240543**
Option 4 ID : **630680240544**
Status : **Answered**
Chosen Option : **4**

Website - www.dailyjobalert.in

Q.36 If 1 January,2021 was Friday, then what was the day of the week on 1 January,2022?

Ans
✔ 1. Saturday
✘ 2. Friday
✘ 3. Thursday
✘ 4. Sunday

Question ID : **630680117482**
Option 1 ID : **630680455175**
Option 2 ID : **630680455174**
Option 3 ID : **630680455176**
Option 4 ID : **630680455177**
Status : **Answered**
Chosen Option : **1**

Comprehension:

Read the information given below and answer the following questions.

In the first row: P, Q, R, S are sitting facing south.
In the second row: M, N, O, X are sitting facing north.
Q is sitting facing the one who is exactly between M and N.
P is sitting third to the left of R.
R is facing the one who is sitting third to the left of M.
X is facing the one who is sitting to the immediate right of S.

SubQuestion No : 37

Q.37 Which of the following pairs sits at the extreme ends of the row?

Ans
✔ 1. (P, R)
✘ 2. (Q, S)
✘ 3. (M, N)
✘ 4. (O, X)

Question ID : **630680131432**
Option 1 ID : **630680508974**
Option 2 ID : **630680508975**
Option 3 ID : **630680508976**
Option 4 ID : **630680508977**
Status : **Answered**
Chosen Option : **1**

Website - www.dailyjobalert.in

Comprehension:

Read the information given below and answer the following questions.

In the first row: P, Q, R, S are sitting facing south.
In the second row: M, N, O, X are sitting facing north.
Q is sitting facing the one who is exactly between M and N.
P is sitting third to the left of R.
R is facing the one who is sitting third to the left of M.
X is facing the one who is sitting to the immediate right of S.

SubQuestion No : 38

Q.38 Who among the following faces N?

Ans
✗ 1. P
✗ 2. R
✓ 3. S
✗ 4. Q

Question ID : **630680131431**
Option 1 ID : **630680508971**
Option 2 ID : **630680508973**
Option 3 ID : **630680508970**
Option 4 ID : **630680508972**
Status : **Answered**
Chosen Option : **3**

Comprehension:

ਦਿੱਤੀ ਜਾਣਕਾਰੀ ਦਾ ਅਧਿਐਨ ਕਰੋ ਅਤੇ ਦਿੱਤੇ ਸਵਾਲਾਂ ਦੇ ਜਵਾਬ ਦਿਓ।

P, Q, R, S, T, U ਅਤੇ V ਇੱਕੋ ਬਿਲਡਿੰਗ ਵਿੱਚ ਸੱਤ ਵਖਰੀ ਮੰਜ਼ਿਲਾਂ 'ਤੇ ਰਹਿੰਦੇ ਹਨ। ਸਭਤੋਂ ਹੇਠਾਂ ਦੀ ਮੰਜ਼ਿਲ ਦਾ ਨੰਬਰ ਹੈ 1, ਉਸਦੇ ਉਪਰ ਦੀ ਮੰਜ਼ਿਲ ਦਾ ਨੰਬਰ ਹੈ 2, ਅਤੇ ਇਸ ਤਰ੍ਹਾਂ ਸਭਤੋਂ ਉਪਰਲੀ ਮੰਜ਼ਿਲ ਤੱਕ ਹੈ ਜਿਸਦਾ ਨੰਬਰ ਹੈ 7.
P ਇੱਕ ਜਿਸਤ ਨੰਬਰ ਦੀ ਮੰਜ਼ਿਲ 'ਤੇ ਰਹਿੰਦਾ ਹੈ ਜੋ V ਦੇ ਠੀਕ ਹੇਠਾਂ ਹੈ। T ਠੀਕ ਮੱਧ ਦੀ ਮੰਜ਼ਿਲ 'ਤੇ ਰਹਿੰਦਾ ਹੈ। T ਅਤੇ R ਦੇ ਵਿੱਚਕਾਰ ਸਿਰਫ ਦੋ ਜਣੇ ਰਹਿੰਦੇ ਹਨ। R, T ਦੇ ਹੇਠਾਂ ਕਿਸੀ ਇੱਕ ਮੰਜ਼ਿਲ 'ਤੇ ਰਹਿੰਦਾ ਹੈ। U ਸਭਤੋਂ ਉਪਰਲੀ ਮੰਜ਼ਿਲ 'ਤੇ ਰਹਿੰਦਾ ਹੈ। S ਇੱਕ ਜਿਸਤ ਨੰਬਰ ਦੀ ਮੰਜ਼ਿਲ 'ਤੇ ਰਹਿੰਦਾ ਹੈ।

SubQuestion No : 39

Q.39 P ਅਤੇ S ਵਿਚਕਾਰ ਕਿੰਨੇ ਲੋਕ ਰਹਿੰਦੇ ਹਨ?

Ans
✓ 1. ਤਿੰਨ
✗ 2. ਚਾਰ
✗ 3. ਇੱਕ
✗ 4. ਦੋ

Question ID : **630680108036**
Option 1 ID : **630680419249**
Option 2 ID : **630680419248**
Option 3 ID : **630680419251**
Option 4 ID : **630680419250**
Status : **Answered**
Chosen Option : **1**

Website - www.dailyjobalert.in

Comprehension:

Read the information given below and answer the following questions.

P, Q, R, S, T, U and V live on seven different floors in the same building. The lowermost floor in the building is numbered 1, the floor above it, number 2 and so on till the topmost floor numbered 7.
P lives on an even numbered floor immediately below V. T lives exactly on the middle floor. Only two people live between T and R. R lives on one of the floors below T. U lives on the topmost floor. S lives on an even numbered floor.

SubQuestion No : 40

Q.40 On which floor does Q live?

Ans
✗ 1. Floor number 2
✗ 2. Floor number 3
✓ 3. Floor number 5
✗ 4. Floor number 6

Question ID : **630680108037**
Option 1 ID : **630680419254**
Option 2 ID : **630680419255**
Option 3 ID : **630680419252**
Option 4 ID : **630680419253**
Status : **Answered**
Chosen Option : **2**

Comprehension:

Study the given diagram carefully and answer the questions that follow. The numbers in the different sections indicate the number of food items.

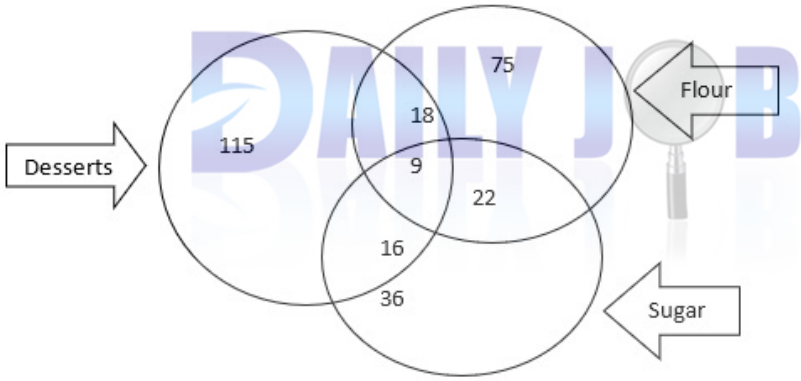

SubQuestion No : 41

Q.41 How many sugarless desserts are available?

Ans
✗ 1. 16
✗ 2. 115
✗ 3. 18
✓ 4. 133

Question ID : **630680105571**
Option 1 ID : **630680410333**
Option 2 ID : **630680410332**
Option 3 ID : **630680410331**
Option 4 ID : **630680410334**
Status : **Answered**
Chosen Option : **4**

Website - www.dailyjobalert.in

Comprehension:

Study the given diagram carefully and answer the questions that follow. The numbers in the different sections indicate the number of food items.

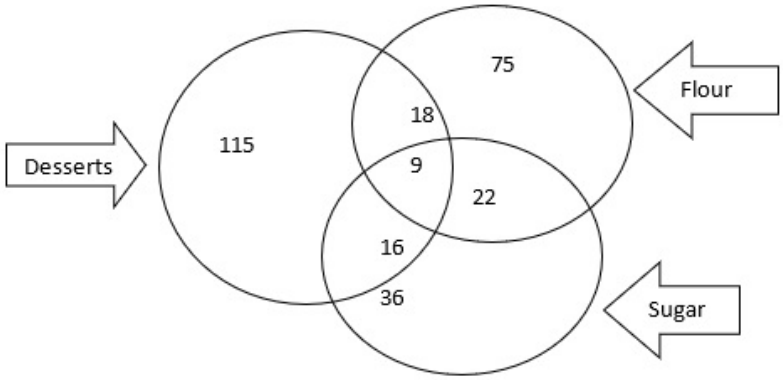

SubQuestion No : 42

Q.42 How many food items are available that do NOT contain any flour?

Ans
1. 16
2. 167 ✔
3. 52
4. 115

Question ID : **630680105572**
Option 1 ID : **630680410336**
Option 2 ID : **630680410337**
Option 3 ID : **630680410338**
Option 4 ID : **630680410335**
Status : **Answered**
Chosen Option : **2**

Comprehension:

In a certain code language, 'Man is angry' is coded as 'tum ftr bin', 'Girl is playing' is coded as 'nem jok tum' and 'There is angry girl' is coded as 'ftr tum jok has'.

SubQuestion No : 43

Q.43 Which of the following is the code for 'there'?

Ans
1. has ✔
2. jok
3. tum
4. ftr

Question ID : **63068058660**
Option 1 ID : **630680226278**
Option 2 ID : **630680226280**
Option 3 ID : **630680226279**
Option 4 ID : **630680226281**
Status : **Answered**
Chosen Option : **1**

Website - www.dailyjobalert.in

Comprehension:

In a certain code language, 'Man is angry' is coded as 'tum ftr bin', 'Girl is playing' is coded as 'nem jok tum' and 'There is angry girl' is coded as 'ftr tum jok has'.

SubQuestion No : 44

Q.44 Which of the following is the code for 'angry'?

Ans
✗ 1. jok
✗ 2. has
✓ 3. ftr
✗ 4. tum

Question ID : **63068058659**
Option 1 ID : **630680226274**
Option 2 ID : **630680226276**
Option 3 ID : **630680226275**
Option 4 ID : **630680226277**
Status : **Answered**
Chosen Option : **3**

Comprehension:

The following pie chart shows the percentage of the expenditure incurred on different entities with respect to total income by family

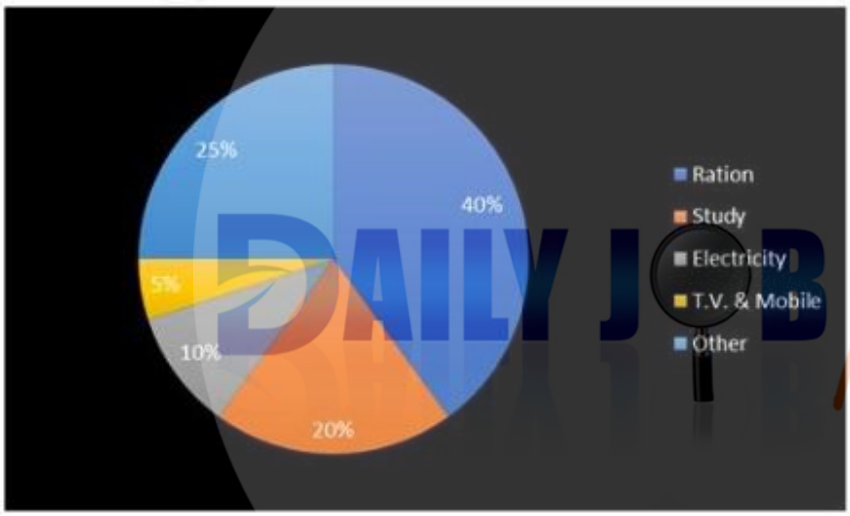

SubQuestion No : 45

Q.45 If monthly income of family is 50,000 then what is the expenditure of family on electricity?

Ans
✗ 1. Rs. 5300
✗ 2. Rs. 3000
✓ 3. Rs. 5000
✗ 4. Rs. 4200

Question ID : **63068082716**
Option 1 ID : **630680320779**
Option 2 ID : **630680320777**
Option 3 ID : **630680320778**
Option 4 ID : **630680320776**
Status : **Answered**
Chosen Option : **3**

Website - www.dailyjobalert.in

Comprehension:

The following pie chart shows the percentage of the expenditure incurred on different entities with respect to total income by family

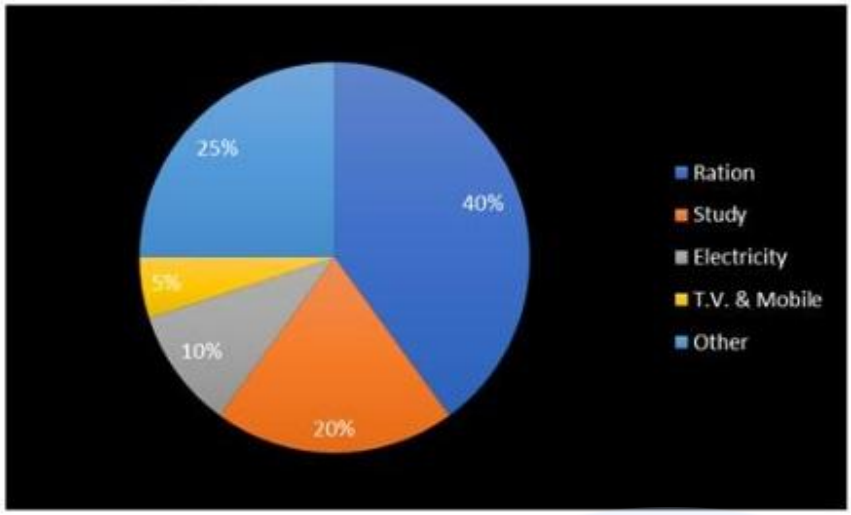

SubQuestion No : 46

Q.46 What is the ratio of maximum to minimum expenditure?

Ans

✗ 1. 13 : 5

✓ 2. 8 : 1

✗ 3. 8 : 11

✗ 4. 4 : 3

Question ID : **63068082715**
Option 1 ID : **630680320775**
Option 2 ID : **630680320772**
Option 3 ID : **630680320774**
Option 4 ID : **630680320773**
Status : **Answered**
Chosen Option : **2**

Website - www.dailyjobalert.in

Comprehension:

Study the given table and answer the questions

Year	Types of cars / Sales (in thousands)					
	Sedan	Luxury	SUV	Minivan	Truck	Total
2001	76	143	115	102	107	543
2002	91	125	100	86	124	526
2003	95	115	76	104	130	520
2004	100	95	140	100	75	510
2005	90	75	135	75	90	465
2006	100	60	170	45	120	495
2007	130	100	130	100	140	600

Sales of cars manufactured by a company over the years

SubQuestion No : 47

Q.47 Which type of car has maximum total sales over all the years?

Ans

✗ 1. Luxury

✓ 2. SUV

✗ 3. Truck

✗ 4. Sedan

Question ID : **63068060547**
Option 1 ID : **630680233655**
Option 2 ID : **630680233656**
Option 3 ID : **630680233657**
Option 4 ID : **630680233654**
Status : **Answered**
Chosen Option : **2**

Website - www.dailyjobalert.in

Comprehension:

ਦਿੱਤੇ ਟੇਬਲ ਦਾ ਅਧਿਐਨ ਕਰੋ ਅਤੇ ਦਿੱਤੇ ਸਵਾਲਾਂ ਦਾ ਜਵਾਬ ਦਿਓ।

ਸਾਲ	ਕਾਰਾਂ ਦੀ ਕਿਸਮ / ਵਿਕਰੀ (ਹਜ਼ਾਰਾਂ ਵਿੱਚ)					
	ਸੇਡਾਨ	ਲਗਜ਼ਰੀ	ਐਸਯੂਵੀ	ਮਿੰਨੀਵੈਨ	ਟਰੱਕ	ਕੁੱਲ
2001	76	143	115	102	107	543
2002	91	125	100	86	124	526
2003	95	115	76	104	130	520
2004	100	95	140	100	75	510
2005	90	75	135	75	90	465
2006	100	60	170	45	120	495
2007	130	100	130	100	140	600

ਸਾਲਾਂ ਦੌਰਾਨ ਇਕ ਕੰਪਨੀ ਦੁਆਰਾ ਨਿਰਮਿਤ ਕਾਰਾਂ ਦੀ ਵਿਕਰੀ

SubQuestion No : 48

Q.48 ਕਿਸ ਕਿਸਮ ਦੀ ਕਾਰ ਦੀ ਵਿਕਰੀ ਵਿੱਚ 2001 ਤੋਂ 2006 ਤੱਕ ਲਗਾਤਾਰ ਕਮੀ ਆਈ ਹੈ?

Ans

✗ 1. ਟਰੱਕ

✗ 2. ਮਿੰਨੀਵੈਨ

✗ 3. ਸੇਡਾਨ

✓ 4. ਲਗਜ਼ਰੀ

Question ID : **63068060546**
Option 1 ID : **630680233652**
Option 2 ID : **630680233650**
Option 3 ID : **630680233651**
Option 4 ID : **630680233653**
Status : **Answered**
Chosen Option : **4**

Website - www.dailyjobalert.in

Comprehension:

Read the given passage and answer the questions that follow.

The Right of Children to Free and Compulsory Education Act or Right to Education Act (RTE), is an Act of the Parliament of India enacted on 4 August 2009, which describes the modalities of the importance of free and compulsory education for children between 6 and 14 in India under Article 21A of the Indian Constitution. India became one of 135 countries to make education a fundamental right of every child when the Act came into force on 1 April 2010.

SubQuestion No : 49

Q.49 Right to Education is part of which of the following?

Ans

✔ 1. Article 21A

✘ 2. National Education Policy

✘ 3. Article 24

✘ 4. Article 39

Question ID : **630680248135**
Option 1 ID : **630680962715**
Option 2 ID : **630680962718**
Option 3 ID : **630680962716**
Option 4 ID : **630680962717**
Status : **Answered**
Chosen Option : **1**

Comprehension:

ਦਿੱਤੇ ਗਏ ਪੈਰੇ ਨੂੰ ਪੜ੍ਹੋ ਅਤੇ ਅਗਲੇ ਸਵਾਲਾਂ ਦੇ ਉੱਤਰ ਦਿਓ।

ਬੱਚਿਆਂ ਦਾ ਮੁਫਤ ਅਤੇ ਲਾਜ਼ਮੀ ਸਿੱਖਿਆ ਦਾ ਅਧਿਕਾਰ ਐਕਟ ਜਾਂ ਸਿੱਖਿਆ ਅਧਿਕਾਰ ਐਕਟ (RTE), 4 ਅਗਸਤ 2009 ਨੂੰ ਲਾਗੂ ਕੀਤਾ ਗਿਆ ਭਾਰਤ ਦੀ ਸੰਸਦ ਦਾ ਇੱਕ ਐਕਟ ਹੈ ਜੋ 6 ਤੋਂ 14 ਸਾਲ ਦੇ ਬੱਚਿਆਂ ਲਈ ਮੁਫਤ ਅਤੇ ਲਾਜ਼ਮੀ ਸਿੱਖਿਆ ਦੇ ਮਹੱਤਵ ਦੀਆਂ ਰੂਪ-ਰੇਖਾਵਾਂ ਦਾ ਵਰਣਨ ਕਰਦਾ ਹੈ। ਭਾਰਤੀ ਸੰਵਿਧਾਨ ਦੇ ਅਨੁਛੇਦ 21A ਦੇ ਤਹਿਤ ਭਾਰਤ ਵਿੱਚ ਜਦੋਂ 1 ਅਪ੍ਰੈਲ 2010 ਨੂੰ ਐਕਟ ਲਾਗੂ ਹੋਇਆ ਤਾਂ ਭਾਰਤ, ਸਿੱਖਿਆ ਨੂੰ ਹਰੇਕ ਬੱਚੇ ਦਾ ਮੌਲਿਕ ਅਧਿਕਾਰ ਬਣਾਉਣ ਵਾਲੇ 135 ਦੇਸ਼ਾਂ ਵਿੱਚੋਂ ਇੱਕ ਬਣ ਗਿਆ।

SubQuestion No : 50

Q.50 ਭਾਰਤ ਵਿੱਚ ਸਿੱਖਿਆ ਦਾ ਅਧਿਕਾਰ _____ ਹੈ।

Ans

✔ 1. ਇੱਕ ਮੌਲਿਕ ਅਧਿਕਾਰ

✘ 2. ਇੱਕ ਸੰਵਿਧਾਨਕ ਅਧਿਕਾਰ

✘ 3. ਇੱਕ ਕਾਨੂੰਨੀ ਅਧਿਕਾਰ

✘ 4. ਇੱਕ ਵਿਦਿਅਕ ਅਧਿਕਾਰ

Question ID : **630680248134**
Option 1 ID : **630680962712**
Option 2 ID : **630680962714**
Option 3 ID : **630680962713**
Option 4 ID : **630680962711**
Status : **Answered**
Chosen Option : **1**

Section : **Digital Literacy and Computer Awareness**

Website - www.dailyjobalert.in

Q.51 MS-Excel 2016 ਵਿੱਚ, ਇੱਕ _____ ਇੱਕ ਰੋਅ ਅਤੇ ਇੱਕ ਕਾਲਮ ਦਾ ਇੰਟਰਸੈਕਸ਼ਨ ਹੈ।

Ans
1. ਬੌਕਸ (box)
2. ਟੈਬ (tab)
3. ਫੀਲਡ (field)
4. ਸੈੱਲ (cell)

Question ID : **630680247926**
Option 1 ID : **630680961912**
Option 2 ID : **630680961914**
Option 3 ID : **630680961913**
Option 4 ID : **630680961911**
Status : **Answered**
Chosen Option : **4**

Q.52 _____ ਇੱਕ ਅਜਿਹਾ ਸਾਫਟਵੇਅਰ ਹੈ ਜੋ ਹਾਰਡਵੇਅਰ ਡਿਵਾਈਸਾਂ ਨੂੰ ਨੁਕਸਾਨ ਪਹੁੰਚਾਉਣ, ਡੇਟਾ ਚੋਰੀ ਕਰਨ ਜਾਂ ਵਰਤੋਂਕਾਰ ਲਈ ਕਿਸੇ ਵੀ ਤਰ੍ਹਾਂ ਦੀ ਸਮੱਸਿਆ ਪੈਦਾ ਕਰਨ ਦੇ ਇਰਾਦੇ ਨਾਲ ਵਿਕਸਤ ਕੀਤਾ ਜਾਂਦਾ ਹੈ।

Ans
1. ਵਾਇਰਸ (Virus)
2. ਮਾਲਵੇਅਰ (Malware)
3. ਵੋਰਮ (Worm)
4. ਟਰੋਜਨ (Trojan)

Question ID : **630680247944**
Option 1 ID : **630680961984**
Option 2 ID : **630680961985**
Option 3 ID : **630680961983**
Option 4 ID : **630680961986**
Status : **Answered**
Chosen Option : **1**

Q.53 ਰਨ ਡਾਇਲਾਗ ਬਾਕਸ ਵਿੱਚ, ਵਿੰਡੋਜ਼ ਓਪਰੇਟਿੰਗ ਸਿਸਟਮ ਸੰਸਕਰਣ ਦੀ ਪਛਾਣ ਕਰਨ ਲਈ ਕਿਹੜੀ ਕਮਾਂਡ ਵਰਤੀ ਜਾਂਦੀ ਹੈ?

Ans
1. getver
2. version
3. winver
4. getinfo

Question ID : **630680247922**
Option 1 ID : **630680961897**
Option 2 ID : **630680961896**
Option 3 ID : **630680961898**
Option 4 ID : **630680961895**
Status : **Answered**
Chosen Option : **3**

Website - www.dailyjobalert.in

Q.54 _____ ਇੱਕ ਨੈੱਟਵਰਕ ਅਡੈਪਟਰ ਹੈ ਜੋ ਇੱਕ ਤਾਰ ਵਾਲੇ ਨੈੱਟਵਰਕ ਨੂੰ ਸਥਾਪਤ ਕਰਨ ਲਈ ਵਰਤਿਆ ਜਾਂਦਾ ਹੈ।

Ans
✔ 1. ਈਥਰਨੈੱਟ ਕਾਰਡ (Ethernet card)
✘ 2. ਇੰਟਰਾਨੈੱਟ ਕਾਰਡ (Intranet card)
✘ 3. ਨੈੱਟਵਰਕ ਕਾਰਡ (Network card)
✘ 4. ਇੰਟਰਨੈੱਟ ਕਾਰਡ (Internet card)

Question ID : **630680247933**
Option 1 ID : **630680961940**
Option 2 ID : **630680961941**
Option 3 ID : **630680961942**
Option 4 ID : **630680961939**
Status : **Answered**
Chosen Option : **2**

Q.55 In MS-Excel 2016, which of the following keyboard shortcuts is used to go to the top of the worksheet or cell A1?

Ans
✘ 1. Ctrl+A
✘ 2. Alt+A
✔ 3. Ctrl+Home
✘ 4. Alt+Home

Question ID : **630680247927**
Option 1 ID : **630680961916**
Option 2 ID : **630680961918**
Option 3 ID : **630680961915**
Option 4 ID : **630680961917**
Status : **Answered**
Chosen Option : **3**

Q.56 ਵਿੰਡੋਜ਼ ਓਪਰੇਟਿੰਗ ਸਿਸਟਮ ਵਿੱਚ, ਪੂਰੀ ਵਿੰਡੋ ਦਾ ਸਕ੍ਰੀਨਸ਼ੌਟ ਲੈਣ ਲਈ ਕੀਬੋਰਡ ਦੀ ਕਿਹੜੀ ਕੀਅ ਦਬਾਈ ਜਾਂਦੀ ਹੈ?

Ans
✘ 1. Print
✔ 2. Ptr Scrn
✘ 3. Insert
✘ 4. Ctrl+P

Question ID : **630680247921**
Option 1 ID : **630680961893**
Option 2 ID : **630680961891**
Option 3 ID : **630680961894**
Option 4 ID : **630680961892**
Status : **Answered**
Chosen Option : **2**

Website - www.dailyjobalert.in

Q.57 What is the full form of 'LAN'?

Ans
- ✗ 1. Least Area Network
- ✓ 2. Local Area Network
- ✗ 3. Live Area Network
- ✗ 4. Large Area Network

Question ID : **630680247932**
Option 1 ID : **630680961937**
Option 2 ID : **630680961935**
Option 3 ID : **630680961938**
Option 4 ID : **630680961936**
Status : **Answered**
Chosen Option : **2**

Q.58 Which of the following is an input device?

Ans
- ✗ 1. Printer
- ✗ 2. Projector
- ✗ 3. Speaker
- ✓ 4. Touch screen

Question ID : **630680247918**
Option 1 ID : **630680961882**
Option 2 ID : **630680961881**
Option 3 ID : **630680961879**
Option 4 ID : **630680961880**
Status : **Answered**
Chosen Option : **4**

Q.59 Which of the following is an exclusive videoconferencing application?

Ans
- ✓ 1. Skype
- ✗ 2. LinkedIn
- ✗ 3. Facebook
- ✗ 4. Twitter

Question ID : **630680247942**
Option 1 ID : **630680961975**
Option 2 ID : **630680961978**
Option 3 ID : **630680961976**
Option 4 ID : **630680961977**
Status : **Answered**
Chosen Option : **2**

Q.60 ਹੇਠ ਦਿੱਤਿਆਂ ਵਿੱਚੋਂ ਕਿਹੜਾ ਇੱਕ VoIP ਸੇਵਾ ਪ੍ਰਦਾਨਕ ਨਹੀਂ ਹੈ?

Ans
- ✓ 1. ਨੇਵਰ (Naver)
- ✗ 2. ਗ੍ਰਾਸਹੋਪਰ (Grasshopper)
- ✗ 3. ਵੋਨੇਜ (Vonage)
- ✗ 4. ਨੈਕਸਟਿਵਾ (Nextiva)

Question ID : **630680247940**
Option 1 ID : **630680961968**
Option 2 ID : **630680961969**
Option 3 ID : **630680961970**
Option 4 ID : **630680961967**
Status : **Not Answered**
Chosen Option : **--**

Website - www.dailyjobalert.in

Q.61 Which of the following tools in MS-Word 2016 is NOT a toggle button?

Ans
✗ 1. Italic
✗ 2. Underline
✓ 3. Font style
✗ 4. Bold

Question ID : **630680247925**
Option 1 ID : **630680961908**
Option 2 ID : **630680961909**
Option 3 ID : **630680961910**
Option 4 ID : **630680961907**
Status : **Answered**
Chosen Option : **2**

Q.62 Google downloads text, images and videos from the pages it has found on the internet with the help of automated programs called _____.

Ans
✗ 1. finders
✗ 2. rooters
✗ 3. indexing
✓ 4. crawlers

Question ID : **630680247935**
Option 1 ID : **630680961948**
Option 2 ID : **630680961949**
Option 3 ID : **630680961947**
Option 4 ID : **630680961950**
Status : **Not Answered**
Chosen Option : **--**

Q.63 _____ is a computer-based technology that facilitates the sharing of ideas, thoughts and information through virtual networks and communities.

Ans
✗ 1. Internet
✓ 2. Social media
✗ 3. Intranet
✗ 4. Local network

Question ID : **630680247937**
Option 1 ID : **630680961956**
Option 2 ID : **630680961955**
Option 3 ID : **630680961957**
Option 4 ID : **630680961958**
Status : **Answered**
Chosen Option : **2**

Website - www.dailyjobalert.in

Q.64 macOS 'ਤੇ ਚੱਲਣ ਵਾਲੇ ਸਿਸਟਮਾਂ ਲਈ ਕਿਹੜਾ ਵੈੱਬ ਬ੍ਰਾਊਜ਼ਰ ਸਭ ਤੋਂ ਵਧੀਆ ਹੈ?

Ans
- ✗ 1. ਮਾਈਕ੍ਰੋਸੱਫਟ ਐੱਜ (Microsoft Edge)
- ✗ 2. ਮੋਜ਼ੀਲਾ ਫਾਇਰਫਾਕਸ (Mozilla Firefox)
- ✗ 3. ਓਪੇਰਾ (Opera)
- ✓ 4. ਸਫਾਰੀ (Safari)

Question ID : **630680247936**
Option 1 ID : **630680961952**
Option 2 ID : **630680961953**
Option 3 ID : **630680961954**
Option 4 ID : **630680961951**
Status : **Answered**
Chosen Option : **1**

Q.65 Which of the following is NOT a search engine?

Ans
- ✗ 1. Bing
- ✓ 2. Page
- ✗ 3. Baidu
- ✗ 4. Google

Question ID : **630680247934**
Option 1 ID : **630680961944**
Option 2 ID : **630680961945**
Option 3 ID : **630680961946**
Option 4 ID : **630680961943**
Status : **Answered**
Chosen Option : **2**

Q.66 _____ ਨੂੰ ਪ੍ਰੋਗਰਾਮਿੰਗ ਵੱਲ ਪਹਿਲਾ ਕਦਮ ਮੰਨਿਆ ਜਾਂਦਾ ਹੈ ਅਤੇ ਇਸਨੂੰ ਹਰਮਨ ਹੋਲੇਰਿਥ (Herman Hollerith) ਦੁਆਰਾ ਡਿਜ਼ਾਈਨ ਕੀਤਾ ਗਿਆ ਸੀ।

Ans
- ✗ 1. ਪਾਸਕਲਿਨ
- ✓ 2. ਟੇਬੁਲੇਟਿੰਗ ਮਸ਼ੀਨ
- ✗ 3. ENIAC
- ✗ 4. ਐਨਾਲਿਟਿਕ ਇੰਜਣ

Question ID : **630680247917**
Option 1 ID : **630680961877**
Option 2 ID : **630680961875**
Option 3 ID : **630680961876**
Option 4 ID : **630680961878**
Status : **Answered**
Chosen Option : **3**

Website - www.dailyjobalert.in

Q.67 ਹੇਠ ਦਿੱਤਿਆਂ ਵਿੱਚੋਂ ਕਿਹੜੀ ਸੋਸ਼ਲ ਮੀਡੀਆ ਐਪਲੀਕੇਸ਼ਨ ਵਰਤਮਾਨ ਵਿੱਚ ਔਨਲਾਈਨ ਵੀਡੀਓ ਲੈਂਡਸਕੇਪ ਉੱਤੇ ਹਾਵੀ ਹੈ?

Ans
✔ 1. ਯੂਟਿਊਬ (YouTube)
✘ 2. ਡੇਲੀਮੋਸ਼ਨ (Dailymotion)
✘ 3. ਟਵਿੱਚ (Twitch)
✘ 4. ਵਿਸਟੀਆ (Wistia)

Question ID : **630680247938**
Option 1 ID : **630680961962**
Option 2 ID : **630680961960**
Option 3 ID : **630680961961**
Option 4 ID : **630680961959**
Status : **Answered**
Chosen Option : **1**

Q.68 In MS-PowerPoint 2016, _____ is the place where the slide can be designed by typing, formatting, etc.

Ans
✘ 1. Slide Sorter Pane
✔ 2. Slide Pane
✘ 3. Notes Pane
✘ 4. Task Pane

Question ID : **630680247929**
Option 1 ID : **630680961924**
Option 2 ID : **630680961925**
Option 3 ID : **630680961923**
Option 4 ID : **630680961926**
Status : **Answered**
Chosen Option : **1**

Q.69 Which of the following social media apps is a community-focused content aggregator?

Ans
✘ 1. Snapchat
✔ 2. Reddit
✘ 3. Pinterest
✘ 4. LinkedIn

Question ID : **630680247939**
Option 1 ID : **630680961963**
Option 2 ID : **630680961965**
Option 3 ID : **630680961964**
Option 4 ID : **630680961966**
Status : **Answered**
Chosen Option : **4**

Website - www.dailyjobalert.in

Q.70 _____ ਇੱਕ ਸਟੈਂਡਅਲੋਨ ਐਪਲੀਕੇਸ਼ਨ ਜਾਂ ਏਮਬੈਡਡ ਸੌਫਟਵੇਅਰ ਦੁਆਰਾ ਨੀਅਰ-ਰੀਅਲ-ਟਾਈਮ ਸੰਦੇਸ਼ਾਂ ਦਾ ਆਦਾਨ-ਪ੍ਰਦਾਨ ਹੈ।

Ans
1. SMS
2. ਵੀਡੀਓ ਕਾਲਿੰਗ
3. ਇੰਸਟੈਂਟ ਮੈਸੇਜਿੰਗ
4. ਚੈਟਿੰਗ

Question ID : **630680247943**
Option 1 ID : **630680961981**
Option 2 ID : **630680961982**
Option 3 ID : **630680961980**
Option 4 ID : **630680961979**
Status : **Answered**
Chosen Option : **3**

Q.71 MS-Excel 2016 ਵਿੱਚ, ਵੱਖ-ਵੱਖ ਫਾਰਮੈਟਾਂ ਦੇ ਨਾਲ ਜਲਦੀ ਅਤੇ ਆਸਾਨੀ ਨਾਲ ਮਨਮੋਹਕ ਵਰਕਸ਼ੀਟਾਂ ਬਣਾਉਣ ਲਈ _____ ਟੂਲ ਦੀ ਵਰਤੋਂ ਕੀਤੀ ਜਾਂਦੀ ਹੈ।

Ans
1. ਅਲਾਈਨਮੈਂਟਸ (Alignments)
2. ਡਿਜ਼ਾਈਨ (Designs)
3. ਆਟੋ ਫਾਰਮੈਟ (Auto Format)
4. ਟੈਂਪਲੇਟ (Template)

Question ID : **630680247928**
Option 1 ID : **630680961922**
Option 2 ID : **630680961921**
Option 3 ID : **630680961920**
Option 4 ID : **630680961919**
Status : **Answered**
Chosen Option : **3**

Q.72 _____ ਵਿੱਚ ਡੇਟਾ ਐਸੈਟਸ (data assets) ਨੂੰ ਸੰਭਾਲਣ ਅਤੇ ਸੁਰੱਖਿਅਤ ਕਰਨ ਬਾਰੇ ਪ੍ਰਕਿਰਿਆ ਕਰਨਾ ਅਤੇ ਫੈਸਲੇ ਲੈਣਾ ਸ਼ਾਮਲ ਹੈ।

Ans
1. ਕਲਾਉਡ ਸਕਿਉਰਿਟੀ
2. ਮੋਬਾਈਲ ਸਕਿਉਰਿਟੀ
3. ਔਪਰੇਸ਼ਨਲ ਸਕਿਉਰਿਟੀ
4. ਐਪਲੀਕੇਸ਼ਨ ਸਕਿਉਰਿਟੀ

Question ID : **630680247946**
Option 1 ID : **630680961992**
Option 2 ID : **630680961994**
Option 3 ID : **630680961991**
Option 4 ID : **630680961993**
Status : **Answered**
Chosen Option : **1**

Website - www.dailyjobalert.in

Q.73 ਇੱਕ ਆਪਰੇਟਿੰਗ ਸਿਸਟਮ ਨੂੰ _____ ਅਤੇ _____ ਵਿਚਕਾਰ ਇੱਕ ਇੰਟਰਫੇਸ ਵਜੋਂ ਪਰਿਭਾਸ਼ਿਤ ਕੀਤਾ ਜਾ ਸਕਦਾ ਹੈ।

Ans
1. ਯੂਜ਼ਰ; ਐਪਲੀਕੇਸ਼ਨ
2. ਸੋਫਟਵੇਅਰ; ਹਾਰਡਵੇਅਰ
3. ਯੂਜ਼ਰ; ਹਾਰਡਵੇਅਰ
4. ਐਪਲੀਕੇਸ਼ਨ; ਹਾਰਡਵੇਅਰ

Question ID : **630680247920**
Option 1 ID : **630680961889**
Option 2 ID : **630680961890**
Option 3 ID : **630680961888**
Option 4 ID : **630680961887**
Status : **Answered**
Chosen Option : **1**

Q.74 MS-PowerPoint 2016 ਵਿੱਚ, ਪ੍ਰੇਜ਼ੇਂਟੇਸ਼ਨ ਵਿੱਚ ਸਿਰਫ਼ ਸਲਾਈਡਾਂ ਦੇ ਟੈਕਸਟ ਨੂੰ ਦੇਖਣ ਦੀ ਇਜਾਜ਼ਤ ਹੇਠ ਲਿਖਿਆਂ ਵਿੱਚੋਂ ਕਿਹੜਾ ਵਿਊ ਦਿੰਦਾ ਹੈ?

Ans
1. ਆਉਟਲਾਈਨ ਸ਼ੋਅ
2. ਸਲਾਈਡ ਸੌਰਟਰ ਵਿਊ
3. ਸਲਾਈਡ ਸ਼ੋਅ
4. ਨੋਰਮਲ ਸ਼ੋਅ

Question ID : **630680247930**
Option 1 ID : **630680961930**
Option 2 ID : **630680961927**
Option 3 ID : **630680961928**
Option 4 ID : **630680961929**
Status : **Answered**
Chosen Option : **2**

Q.75 In MS-Word 2016, which of the following provides information about the current document?

Ans
1. Standard toolbar
2. Status bar
3. Menu bar
4. View buttons

Question ID : **630680247923**
Option 1 ID : **630680961902**
Option 2 ID : **630680961901**
Option 3 ID : **630680961899**
Option 4 ID : **630680961900**
Status : **Answered**
Chosen Option : **2**

Website - www.dailyjobalert.in

Q.76 What is full form of 'SIM'?

Ans
✗ 1. Subscriber Information Module
✗ 2. Subscriber Identity Media
✓ 3. Subscriber Identity Module
✗ 4. Social Identity Module

Question ID : **630680247941**
Option 1 ID : **630680961974**
Option 2 ID : **630680961973**
Option 3 ID : **630680961971**
Option 4 ID : **630680961972**
Status : **Answered**
Chosen Option : **3**

Q.77 ਡੇਟਾ ਇਨਕ੍ਰਿਪਸ਼ਨ, ਡੇਟਾ ਦੀ ਗੁਪਤਤਾ ਨੂੰ _____ ਵਿੱਚ ਬਦਲ ਕੇ ਸੁਰੱਖਿਅਤ ਰੱਖਣ ਦਾ ਇੱਕ ਤਰੀਕਾ ਹੈ, ਜਿਸ ਨੂੰ ਕੇਵਲ ਇਨਕ੍ਰਿਪਸ਼ਨ ਦੇ ਸਮੇਂ ਜਾਂ ਇਸ ਤੋਂ ਪਹਿਲਾਂ ਤਿਆਰ ਕੀਤੀ ਇੱਕ ਵਿਲੱਖਣ ਡੀਕ੍ਰਿਪਸ਼ਨ ਕੀਅ ਦੀ ਵਰਤੋਂ ਕਰਕੇ ਡੀਕੋਡ ਕੀਤਾ ਜਾ ਸਕਦਾ ਹੈ।

Ans
✓ 1. ਸਿਫਰਟੈਕਸਟ (ciphertext)
✗ 2. ਕੋਡਡ ਟੈਕਸਟ (coded text)
✗ 3. ਸੀਕਰਟ ਟੈਕਸਟ (secret text)
✗ 4. ਕ੍ਰਿਪਟੋ ਟੈਕਸਟ (crypto text)

Question ID : **630680247945**
Option 1 ID : **630680961987**
Option 2 ID : **630680961988**
Option 3 ID : **630680961989**
Option 4 ID : **630680961990**
Status : **Answered**
Chosen Option : **4**

Q.78 ਭੌਤਿਕ ਰੂਪ ਵਿੱਚ ਆਉਟਪੁੱਟ ਪ੍ਰਾਪਤ ਕਰਨ ਲਈ ਇੱਕ _____ ਸਭ ਤੋਂ ਵੱਧ ਵਰਤੀ ਜਾਂ ਵਾਲੀ ਡਿਵਾਇਸ ਹੈ।

Ans
✗ 1. ਮਾਨੀਟਰ
✗ 2. ਸਕੈਨਰ
✗ 3. ਪ੍ਰੋਜੈਕਟਰ
✓ 4. ਪ੍ਰਿੰਟਰ

Question ID : **630680247919**
Option 1 ID : **630680961883**
Option 2 ID : **630680961884**
Option 3 ID : **630680961886**
Option 4 ID : **630680961885**
Status : **Answered**
Chosen Option : **4**

DAILY JOB Alert ਪੰਜਾਬ

Q.79 _____ decides the appearance of characters in an MS-Word 2016 document.

Ans
✔ 1. Font
✘ 2. Design
✘ 3. Layout
✘ 4. View

Question ID : **630680247924**
Option 1 ID : **630680961904**
Option 2 ID : **630680961906**
Option 3 ID : **630680961905**
Option 4 ID : **630680961903**
Status : **Answered**
Chosen Option : **4**

Q.80 In MS-PowerPoint 2016, the very first slide in a new presentation is called the _____.

Ans
✔ 1. title slide
✘ 2. first slide
✘ 3. content slide
✘ 4. starting slide

Question ID : **630680247931**
Option 1 ID : **630680961931**
Option 2 ID : **630680961934**
Option 3 ID : **630680961933**
Option 4 ID : **630680961932**
Status : **Answered**
Chosen Option : **3**

Section : **English Language**

Q.81 Select the most appropriate option to fill in the blank.

_____ Nehrus have made a mark in Indian history.

Ans
✘ 1. That
✘ 2. A
✔ 3. The
✘ 4. An

Question ID : **63068060268**
Option 1 ID : **630680232629**
Option 2 ID : **630680232626**
Option 3 ID : **630680232628**
Option 4 ID : **630680232627**
Status : **Answered**
Chosen Option : **3**

Website - www.dailyjobalert.in

Q.82 "ਮੇਰੀਆਂ ਨਜ਼ਰਾਂ ਤੋਂ ਦੂਰ ਹੋ ਜਾ" ਇਸ ਵਾਕ ਦਾ ਅੰਗਰੇਜ਼ੀ ਅਨੁਵਾਦ ਹੈ:-

Ans
1. Went far of my sight.
2. Get out of my sight.
3. Go far out of my eye.
4. Get out to my eyes.

Question ID : **630680248104**
Option 1 ID : **630680962624**
Option 2 ID : **630680962625**
Option 3 ID : **630680962623**
Option 4 ID : **630680962626**
Status : **Answered**
Chosen Option : **3**

Q.83 Select the most appropriate option to fill in the blank.

She turned off the table lamp but remained sitting _____ in bed.

Ans
1. over
2. around
3. down
4. up

Question ID : **630680115234**
Option 1 ID : **630680446304**
Option 2 ID : **630680446305**
Option 3 ID : **630680446303**
Option 4 ID : **630680446302**
Status : **Answered**
Chosen Option : **2**

Q.84 Choose the ANTONYM of the underlined word in the given conversation:

Suraj: I think <u>charity</u> begins at home.
Jyoti: Yes, Suraj! We should follow the path of kindness, benevolence, forgiveness and not selfishness.

Ans
1. Selfishness
2. Benevolence
3. Kindness
4. Forgiveness

Question ID : **63068078085**
Option 1 ID : **630680302401**
Option 2 ID : **630680302404**
Option 3 ID : **630680302403**
Option 4 ID : **630680302402**
Status : **Answered**
Chosen Option : **1**

DAILY JOB Alert ਪੰਜਾਬ

Q.85 **Select the most appropriate ANTONYM of the word 'Prosperous' in the given sentence.**
Before independence, the British were living a lavish and luxurious life, whereas Indians were harassed, exploited and destitute of wealth.

Ans
✗ 1. exploited
✓ 2. destitute
✗ 3. lavish
✗ 4. harassed

Question ID : **63068085849**
Option 1 ID : **630680332858**
Option 2 ID : **630680332859**
Option 3 ID : **630680332856**
Option 4 ID : **630680332857**
Status : **Answered**
Chosen Option : **4**

Q.86 **Select the option that correctly rearranges the given set of disarranged fragments into a logical and meaningful sentence.**
the state government / it wants to / the poll dates / going by the speed/ the tablets / is planning to complete / at which / the process and distribute, / before the announcement of / it seems that complete the whole process

Ans
✗ 1. Going by the speed at which the state government is planning to complete the whole process, it seems that it wants to before complete the process and distribute the tablets the announcement of the poll dates.
✓ 2. Going by the speed at which the state government is planning to complete the process and distribute the tablets, it seems that it wants to complete the whole process before the announcement of the poll dates.
✗ 3. Going by the speed the state government is planning to complete the process and at which distribute the tablets, the whole process it seems that it wants to complete before the announcement of the poll dates.
✗ 4. The state government is planning to complete the process and distribute the tablets going by the speed at which it seems to complete the whole process before the announcement of the poll dates that it wants.

Question ID : **630680113797**
Option 1 ID : **630680440716**
Option 2 ID : **630680440717**
Option 3 ID : **630680440715**
Option 4 ID : **630680440714**
Status : **Answered**
Chosen Option : **3**

Q.87 **Select the option that can be used as a one-word substitute for the given group of words.**

An animal story with a moral.

Ans
✗ 1. Fiction
✗ 2. Mythology
✓ 3. Fable
✗ 4. Anecdote

Question ID : **630680129689**
Option 1 ID : **630680502363**
Option 2 ID : **630680502362**
Option 3 ID : **630680502364**
Option 4 ID : **630680502365**
Status : **Answered**
Chosen Option : **3**

Website - www.dailyjobalert.in

Q.88 **The following sentence has been divided into three segments. One of them may contain an error. Select the segment that contains the error from the given options. If you don't find any error, mark 'No error' as your answer.**

None but cowards / is scared / of darkness.

Ans
- ✗ 1. None but cowards
- ✗ 2. of darkness
- ✓ 3. is scared
- ✗ 4. No error

Question ID : **630680130696**
Option 1 ID : **630680506078**
Option 2 ID : **630680506080**
Option 3 ID : **630680506079**
Option 4 ID : **630680506081**
Status : **Answered**
Chosen Option : **4**

Q.89 **Select the most appropriate ANTONYM of the given word.**
Follow

Ans
- ✓ 1. Disregard
- ✗ 2. Obey
- ✗ 3. Praise
- ✗ 4. Observe

Question ID : **630680167288**
Option 1 ID : **630680647926**
Option 2 ID : **630680647925**
Option 3 ID : **630680647927**
Option 4 ID : **630680647924**
Status : **Answered**
Chosen Option : **2**

Q.90 **The following sentence has been split into four segments. Identify the segment that contains a grammatical error.**
The grandfather bought/ a dozen bananas/ and distributed them/ between his six grandchildren.

Ans
- ✗ 1. and distributed them
- ✗ 2. a dozen bananas
- ✓ 3. between his six grandchildren
- ✗ 4. the grandfather bought

Question ID : **630680176551**
Option 1 ID : **630680684430**
Option 2 ID : **630680684429**
Option 3 ID : **630680684431**
Option 4 ID : **630680684428**
Status : **Answered**
Chosen Option : **1**

Website - www.dailyjobalert.in

Q.91 Sentences of a paragraph are given below in jumbled order. Arrange the sentences in the correct order to form a meaningful and coherent paragraph.
P. To achieve this, the phrase 'reduce, reuse, recycle' is often presented as a strategy with which to approach these problems.
Q. This can be achieved by being more aware of our day-to-day resource use, such as reducing the number of electrical items on standby, using less water and avoiding motorised transport.
R. This has many potential consequences for the billions of people who live on Earth.
S. The main idea behind reducing the amount of resource we use is clear: namely that each individual should use less.
T. In recent years, both individuals and governments have become more interested in better managing the world's resources.
U. The world's natural resources are being used at an alarming rate, not only fossil fuels such as coal, oil and gas, but also water, wood, metals and minerals.

Ans
✗ 1. URPTQS
✓ 2. URTPSQ
✗ 3. TPQSRU
✗ 4. PTURSQ

Question ID : **63068084584**
Option 1 ID : **630680327873**
Option 2 ID : **630680327875**
Option 3 ID : **630680327872**
Option 4 ID : **630680327874**
Status : **Answered**
Chosen Option : **3**

Q.92 Select the most appropriate ANTONYM of the given word.
Tender

Ans
✓ 1. Rough
✗ 2. Smooth
✗ 3. Tend
✗ 4. Soft

Question ID : **630680158106**
Option 1 ID : **630680611955**
Option 2 ID : **630680611953**
Option 3 ID : **630680611952**
Option 4 ID : **630680611954**
Status : **Answered**
Chosen Option : **1**

Q.93 Select the option that can be used as a one-word substitute for the given group of words.

One who is unable to pay debts

Ans
✗ 1. Spendthrift
✓ 2. Insolvent
✗ 3. Miser
✗ 4. Solvent

Question ID : **630680129650**
Option 1 ID : **630680502209**
Option 2 ID : **630680502208**
Option 3 ID : **630680502206**
Option 4 ID : **630680502207**
Status : **Answered**
Chosen Option : **3**

Website - www.dailyjobalert.in

Q.94 The following sentence has been split into four segments. Identify the segment that contains a grammatical error.
Mahatma Gandhi, who is revered / as the father of Indian nation, / was a strongly supporter / of non-violence.

Ans
✗ 1. Mahatma Gandhi, who is revered
✗ 2. as the father of Indian nation,
✗ 3. of non-violence
✓ 4. was a strongly supporter

Question ID : **630680162349**
Option 1 ID : **630680628692**
Option 2 ID : **630680628693**
Option 3 ID : **630680628695**
Option 4 ID : **630680628694**
Status : **Answered**
Chosen Option : **1**

Q.95 Select the sentence in which all the words are spelt correctly.

Ans
✗ 1. The college administration tried to find out more details on the ragging alleggations.
✓ 2. The college administration tried to find out more details on the ragging allegations.
✗ 3. The collage administration tried to find out more details on the raging ellegations .
✗ 4. The college administration tried to find out more details on the ragging aleggations.

Question ID : **630680131757**
Option 1 ID : **630680510240**
Option 2 ID : **630680510238**
Option 3 ID : **630680510239**
Option 4 ID : **630680510241**
Status : **Answered**
Chosen Option : **2**

Comprehension:

Read the given passage and answer the questions that follow.
The UN's Framework for the Immediate Socio-Economic Response to the COVID-19 Crisis warns that the COVID-19 pandemic is far more than a health crisis: it is affecting societies and economies at their core. While the impact of the pandemic will vary from country to country, it will most likely increase poverty and inequalities at a global scale, making the achievement of SDGs even more urgent.
Assessing the impacts of the COVID-19 crisis on societies, economies and vulnerable groups is fundamental to inform and tailor the responses of governments and partners to recover from the crisis and ensure that no one is left behind in this effort.
Without urgent socio-economic responses, global suffering will escalate, jeopardising lives and livelihoods for years to come. Immediate development responses in this crisis must be undertaken with an eye to the future. Development trajectories in the long term will be affected by the choices countries make now and the support they receive.

SubQuestion No : 96

Q.96 What is the ANTONYM of the word 'jeopardise' in the passage?

Ans
✗ 1. Highlight
✓ 2. Safeguard
✗ 3. Smoothen
✗ 4. Cease

Question ID : **630680184909**
Option 1 ID : **630680716592**
Option 2 ID : **630680716589**
Option 3 ID : **630680716591**
Option 4 ID : **630680716590**
Status : **Answered**
Chosen Option : **3**

Website - www.dailyjobalert.in

Comprehension:

Read the given passage and answer the questions that follow.
The UN's Framework for the Immediate Socio-Economic Response to the COVID-19 Crisis warns that the COVID-19 pandemic is far more than a health crisis: it is affecting societies and economies at their core. While the impact of the pandemic will vary from country to country, it will most likely increase poverty and inequalities at a global scale, making the achievement of SDGs even more urgent.
Assessing the impacts of the COVID-19 crisis on societies, economies and vulnerable groups is fundamental to inform and tailor the responses of governments and partners to recover from the crisis and ensure that no one is left behind in this effort.
Without urgent socio-economic responses, global suffering will escalate, jeopardising lives and livelihoods for years to come. Immediate development responses in this crisis must be undertaken with an eye to the future. Development trajectories in the long term will be affected by the choices countries make now and the support they receive.

SubQuestion No : 97

Q.97 What is the ANTONYM of the word 'escalate' in the passage?

Ans
✔ 1. Shrink
✘ 2. Rise
✘ 3. Go up
✘ 4. Eradicate

Question ID : **630680184907**
Option 1 ID : **630680716582**
Option 2 ID : **630680716583**
Option 3 ID : **630680716584**
Option 4 ID : **630680716581**
Status : **Answered**
Chosen Option : **1**

Comprehension:

Read the given passage and answer the questions that follow.
The UN's Framework for the Immediate Socio-Economic Response to the COVID-19 Crisis warns that the COVID-19 pandemic is far more than a health crisis: it is affecting societies and economies at their core. While the impact of the pandemic will vary from country to country, it will most likely increase poverty and inequalities at a global scale, making the achievement of SDGs even more urgent.
Assessing the impacts of the COVID-19 crisis on societies, economies and vulnerable groups is fundamental to inform and tailor the responses of governments and partners to recover from the crisis and ensure that no one is left behind in this effort.
Without urgent socio-economic responses, global suffering will escalate, jeopardising lives and livelihoods for years to come. Immediate development responses in this crisis must be undertaken with an eye to the future. Development trajectories in the long term will be affected by the choices countries make now and the support they receive.

SubQuestion No : 98

Q.98 Which of the following most accurately states the central idea of the passage?

Ans
✘ 1. Sustainable development goal
✔ 2. Impact of COVID-19
✘ 3. United Nations
✘ 4. Pandemic

Question ID : **630680184905**
Option 1 ID : **630680716573**
Option 2 ID : **630680716576**
Option 3 ID : **630680716574**
Option 4 ID : **630680716575**
Status : **Answered**
Chosen Option : **2**

Website - www.dailyjobalert.in

Comprehension:

Read the given passage and answer the questions that follow.
The UN's Framework for the Immediate Socio-Economic Response to the COVID-19 Crisis warns that the COVID-19 pandemic is far more than a health crisis: it is affecting societies and economies at their core. While the impact of the pandemic will vary from country to country, it will most likely increase poverty and inequalities at a global scale, making the achievement of SDGs even more urgent.
Assessing the impacts of the COVID-19 crisis on societies, economies and vulnerable groups is fundamental to inform and tailor the responses of governments and partners to recover from the crisis and ensure that no one is left behind in this effort.
Without urgent socio-economic responses, global suffering will escalate, jeopardising lives and livelihoods for years to come. Immediate development responses in this crisis must be undertaken with an eye to the future. Development trajectories in the long term will be affected by the choices countries make now and the support they receive.

SubQuestion No : 99

Q.99 Which of the following represents the structure of the passage?

Ans
✔ 1. Cause and effect
✘ 2. Compare and contrast
✘ 3. Chronological
✘ 4. Spatial

Question ID : **630680184908**
Option 1 ID : **630680716586**
Option 2 ID : **630680716585**
Option 3 ID : **630680716587**
Option 4 ID : **630680716588**
Status : **Not Answered**
Chosen Option : **--**

Comprehension:

Read the given passage and answer the questions that follow.
The UN's Framework for the Immediate Socio-Economic Response to the COVID-19 Crisis warns that the COVID-19 pandemic is far more than a health crisis: it is affecting societies and economies at their core. While the impact of the pandemic will vary from country to country, it will most likely increase poverty and inequalities at a global scale, making the achievement of SDGs even more urgent.
Assessing the impacts of the COVID-19 crisis on societies, economies and vulnerable groups is fundamental to inform and tailor the responses of governments and partners to recover from the crisis and ensure that no one is left behind in this effort.
Without urgent socio-economic responses, global suffering will escalate, jeopardising lives and livelihoods for years to come. Immediate development responses in this crisis must be undertaken with an eye to the future. Development trajectories in the long term will be affected by the choices countries make now and the support they receive.

SubQuestion No : 100

Q.100 Which of the following is the best description of the tone of the passage?

Ans
✔ 1. Humanistic
✘ 2. Biased
✘ 3. Euphemistic
✘ 4. Cynical

Question ID : **630680184906**
Option 1 ID : **630680716577**
Option 2 ID : **630680716578**
Option 3 ID : **630680716580**
Option 4 ID : **630680716579**
Status : **Not Answered**
Chosen Option : **--**

Section : **Qualifying Test of Punjabi Language**

Website - www.dailyjobalert.in

Q.1 ਚਿੱਤਰਸ਼ਾਲਾ ਸ਼ਬਦ ਵਿਚ ਪਿਛੇਤਰ ਹੈ:

Ans
- ✗ 1. ਆ
- ✗ 2. ਲਾ
- ✗ 3. ਆਲਾ
- ✓ 4. ਸ਼ਾਲਾ

Question ID : **630680248533**
Option 1 ID : **630680964278**
Option 2 ID : **630680964277**
Option 3 ID : **630680964275**
Option 4 ID : **630680964276**
Status : **Answered**
Chosen Option : **4**

Q.2 ਪਤੀਲਾ ਸ਼ਬਦ ਦਾ ਲਿੰਗ ਬਦਲੋ

Ans
- ✗ 1. ਪਤੀਲੇ
- ✓ 2. ਪਤੀਲੀ
- ✗ 3. ਪਤੀਲਨ
- ✗ 4. ਪਤੀਲੀਆਂ

Question ID : **630680248528**
Option 1 ID : **630680964257**
Option 2 ID : **630680964258**
Option 3 ID : **630680964255**
Option 4 ID : **630680964256**
Status : **Answered**
Chosen Option : **2**

Q.3 ਹੈਂ! ਇਸਤਰੀ ਨੇ ਡਾਕੂ ਮਾਰ ਭਜਾ ਦਿੱਤੇ! ਇਸ ਵਾਕ ਦੇ ਅੰਤ ਵਿਚ ਲੱਗੇ ਵਿਸਰਾਮ ਚਿੰਨ੍ਹ ! ਨੂੰ ਪੰਜਾਬੀ ਵਿਚ ਕੀ ਕਹਿੰਦੇ ਹਨ?

Ans
- ✗ 1. ਬਿੰਦੀ ਡੰਡੀ
- ✗ 2. ਪੂਰਨ ਵਿਸਰਾਮ
- ✓ 3. ਵਿਸਮਕ ਚਿੰਨ੍ਹ
- ✗ 4. ਪ੍ਰਸ਼ਨ ਚਿੰਨ੍ਹ

Question ID : **630680248549**
Option 1 ID : **630680964342**
Option 2 ID : **630680964340**
Option 3 ID : **630680964341**
Option 4 ID : **630680964339**
Status : **Answered**
Chosen Option : **3**

DAILY JOB Alert ਪੰਜਾਬ

Q.4 ਅਖਰੀਲਾ ਸ਼ਬ ਵਿਚ ਪਿਛੇਤਰ ਹੈ:

Ans
1. ਰੀਲਆ
2. ਰੀਲਾ
3. ਲਾ
4. ਰਈਲਾ

Question ID : **630680248535**
Option 1 ID : **630680964283**
Option 2 ID : **630680964285**
Option 3 ID : **630680964286**
Option 4 ID : **630680964284**
Status : **Answered**
Chosen Option : **2**

Q.5 ਗ਼ੈਰਕਨੂੰਨੀ ਸ਼ਬਦ ਵਿਚ ਅਗੇਤਰ ਹੈ:

Ans
1. ਗ਼ੈਰ
2. ਗ਼ੈ
3. ਗ਼ੈਰਕ
4. ਨੀ

Question ID : **630680248531**
Option 1 ID : **630680964268**
Option 2 ID : **630680964267**
Option 3 ID : **630680964269**
Option 4 ID : **630680964270**
Status : **Answered**
Chosen Option : **1**

Q.6 ਔਰਤ ਦਾ ਸਮਾਨਾਰਥਕ ਸ਼ਬਦ ਹੈ:

Ans
1. ਹੁਸਨ
2. ਤ੍ਰੀਮਤ
3. ਪ੍ਰਤਿੱਗਿਆ
4. ਇਨਸਾਨ

Question ID : **630680248513**
Option 1 ID : **630680964198**
Option 2 ID : **630680964197**
Option 3 ID : **630680964195**
Option 4 ID : **630680964196**
Status : **Answered**
Chosen Option : **2**

Q.7 ਅਖਾਣ ਵਿਚਲੀ ਖ਼ਾਲੀ ਥਾਂ ਭਰੋ: _____ ਦੀ ਜੁੱਲੀ ਰੇਸ਼ਮ ਦਾ ਬਖੀਆ

Ans
1. ਸੀਮੇਂਟ
2. ਵਾਣ
3. ਲੱਕੜ
4. ਟਾਟ

Question ID : **630680248544**
Option 1 ID : **630680964322**
Option 2 ID : **630680964319**
Option 3 ID : **630680964321**
Option 4 ID : **630680964320**
Status : **Answered**
Chosen Option : **2**

Website - www.dailyjobalert.in

Q.8 ਮੁਹਾਵਰੇ ਵਿਚਲੀ ਖ਼ਾਲੀ ਥਾਂ ਭਰੋ: ਕਲੇਜੇ _____ ਬਲਣੇ

Ans
1. ਸੱਪ
2. ਦੁੱਧ
3. ਭਾਂਬੜ
4. ਰਾੜ

Question ID : **630680248547**
Option 1 ID : **630680964332**
Option 2 ID : **630680964334**
Option 3 ID : **630680964333**
Option 4 ID : **630680964331**
Status : **Answered**
Chosen Option : **3**

Q.9 Abbreviation ਸ਼ਬਦ ਦਾ ਪੰਜਾਬੀ ਅਨੁਵਾਦ ਕੀ ਹੈ?

Ans
1. ਸੰਖੇਪ
2. ਫੁਟਕਲ
3. ਮੁਆਵਜ਼ਾ
4. ਸਮਝੌਤਾ

Question ID : **630680248555**
Option 1 ID : **630680964363**
Option 2 ID : **630680964366**
Option 3 ID : **630680964365**
Option 4 ID : **630680964364**
Status : **Answered**
Chosen Option : **1**

Q.10 ਵਲੈਤੀਆ ਸ਼ਬਦ ਦਾ ਲਿੰਗ ਬਦਲੋ

Ans
1. ਵਿਦੇਸ਼ਣ
2. ਵਲੈਤਣ
3. ਵਲੈਤੀਨ
4. ਵਲੈਤੀ

Question ID : **630680248526**
Option 1 ID : **630680964249**
Option 2 ID : **630680964250**
Option 3 ID : **630680964248**
Option 4 ID : **630680964247**
Status : **Answered**
Chosen Option : **2**

Q.11 ਭਿੱਜਣਾ ਦਾ ਵਿਰੋਧੀ ਸ਼ਬਦ ਹੈ:

Ans
1. ਗਿੱਲਾ
2. ਸੁੱਚਾ
3. ਤਰ
4. ਸੁੱਕਣਾ

Question ID : **630680248515**
Option 1 ID : **630680964203**
Option 2 ID : **630680964206**
Option 3 ID : **630680964204**
Option 4 ID : **630680964205**
Status : **Answered**
Chosen Option : **4**

Website - www.dailyjobalert.in

Q.12 ਸ਼ੁੱਧ ਸ਼ਬਦ ਜੋੜ ਚੁਣੋ:

Ans
1. ਬੋਧੀਕ
2. ਬੌਧਿਕ
3. ਬੋਧਕਿ
4. ਬੋਦੀਕ

Question ID : **630680248537**
Option 1 ID : **630680964294**
Option 2 ID : **630680964293**
Option 3 ID : **630680964292**
Option 4 ID : **630680964291**
Status : **Answered**
Chosen Option : **2**

Q.13 ਅਪਮਾਨਜਨਕ ਸ਼ਬਦ ਵਿਚ ਪਿਛੇਤਰ ਹੈ:

Ans
1. ਕ
2. ਨਕ
3. ਜਨਕ
4. ਨਜਨਕ

Question ID : **630680248532**
Option 1 ID : **630680964271**
Option 2 ID : **630680964272**
Option 3 ID : **630680964274**
Option 4 ID : **630680964273**
Status : **Answered**
Chosen Option : **3**

Q.14 ਅੱਗੇ ਲਿਖੇ ਬਹੁਤੇ ਸ਼ਬਦਾਂ ਲਈ ਇਕ ਸ਼ਬਦ ਚੁਣੋ: ਚਹੁੰ ਪੈਰਾਂ ਵਾਲਾ ਪਸੂ

Ans
1. ਚੁਪਾਇਆ
2. ਚਮੁਖੀਆ
3. ਚੌਤਰਫ਼ਾ
4. ਚਾਰਪੈਰੀ

Question ID : **630680248520**
Option 1 ID : **630680964226**
Option 2 ID : **630680964225**
Option 3 ID : **630680964223**
Option 4 ID : **630680964224**
Status : **Answered**
Chosen Option : **1**

Q.15 ਕੰਨ ਖੜ੍ਹੇ ਹੋਣਾ- ਮੁਹਾਵਰੇ ਦਾ ਅਰਥ ਹੈ:

Ans
1. ਧੱਕਾ ਲੱਗਣਾ
2. ਗੁੱਸੇ ਵਿਚ ਆਉਣਾ
3. ਦੁੱਖੀ ਹੋਣਾ
4. ਚੌਕਸ ਹੋਣਾ

Question ID : **630680248546**
Option 1 ID : **630680964330**
Option 2 ID : **630680964328**
Option 3 ID : **630680964329**
Option 4 ID : **630680964327**
Status : **Answered**
Chosen Option : **4**

Website - www.dailyjobalert.in

Q.16 ਪ੍ਰਸੰਸਾ ਦਾ ਸਮਾਨਾਰਥਕ ਸ਼ਬਦ ਹੈ:

Ans
1. ਲਾਭ
2. ਯੋਗ
3. ਉਪਰਾਲਾ
4. ਵਡਿਆਈ

Question ID : **630680248510**
Option 1 ID : **630680964186**
Option 2 ID : **630680964183**
Option 3 ID : **630680964185**
Option 4 ID : **630680964184**
Status : **Answered**
Chosen Option : **4**

Q.17 ਹੇਠ ਲਿਖਿਆਂ ਵਿੱਚੋਂ ਕਿਸ ਵਾਕ ਵਿਚ ਵਿਸਰਾਮ ਚਿੰਨ੍ਹਾਂ ਦੀ ਠੀਕ ਵਰਤੋਂ ਹੋਈ ਹੈ?

Ans
1. ਬਲਜਿੰਦਰ ਨੇ ਕਿਹਾ। "ਪਿਤਾ ਜੀ ਮੈਂ ਜਮਾਤ ਵਿੱਚੋਂ ਫ਼ਸਟ ਆਈ ਹਾਂ।"
2. ਬਲਜਿੰਦਰ ਨੇ ਕਿਹਾ! ਪਿਤਾ ਜੀ, ਮੈਂ ਜਮਾਤ ਵਿੱਚੋਂ ਫ਼ਸਟ ਆਈ ਹਾਂ।
3. ਬਲਜਿੰਦਰ ਨੇ ਕਿਹਾ, "ਪਿਤਾ ਜੀ, ਮੈਂ ਜਮਾਤ ਵਿੱਚੋਂ ਫ਼ਸਟ ਆਈ ਹਾਂ।"
4. ਬਲਜਿੰਦਰ ਨੇ ਕਿਹਾ "ਪਿਤਾ ਜੀ! ਮੈਂ ਜਮਾਤ ਵਿੱਚੋਂ ਫ਼ਸਟ ਆਈ ਹਾਂ।"

Question ID : **630680248551**
Option 1 ID : **630680964347**
Option 2 ID : **630680964349**
Option 3 ID : **630680964350**
Option 4 ID : **630680964348**
Status : **Answered**
Chosen Option : **3**

Q.18 ਅੱਗੇ ਲਿਖੇ ਬਹੁਤੇ ਸ਼ਬਦਾਂ ਲਈ ਇਕ ਸ਼ਬਦ ਚੁਣੋ: ਦੂਜਿਆ ਦਾ ਉਪਕਾਰ ਕਰਨ ਵਾਲਾ

Ans
1. ਨੇਤਾ
2. ਪਰਉਪਕਾਰੀ
3. ਅਮੀਰ
4. ਸ਼ਾਹੂਕਾਰ

Question ID : **630680248519**
Option 1 ID : **630680964222**
Option 2 ID : **630680964219**
Option 3 ID : **630680964220**
Option 4 ID : **630680964221**
Status : **Answered**
Chosen Option : **2**

Q.19 ਕੈ ਦਾ ਬਹੁਵਚਨ ਹੈ:

Ans
1. ਕੈਨੀ
2. ਕੈਨਿਆ
3. ਕੈਨੇ
4. ਕੈਆਂ

Question ID : **630680248522**
Option 1 ID : **630680964231**
Option 2 ID : **630680964232**
Option 3 ID : **630680964233**
Option 4 ID : **630680964234**
Status : **Answered**
Chosen Option : **2**

Website - www.dailyjobalert.in

Q.20 ਸ਼ਰਮੀਲਾ ਸ਼ਬਦ ਵਿਚ ਪਿਛੇਤਰ ਹੈ:

Ans
✔ 1. ਈਲਾ
✘ 2. ਰਮੀਲਾ
✘ 3. ਮਿਲਾ
✘ 4. ਲਾ

Question ID : **630680248536**
Option 1 ID : **630680964289**
Option 2 ID : **630680964287**
Option 3 ID : **630680964288**
Option 4 ID : **630680964290**
Status : **Answered**
Chosen Option : **1**

Q.21 ਕਬਰ ਕਿਨਾਰੇ ਹੋਣਾ- ਮੁਹਾਵਰੇ ਦਾ ਅਰਥ ਹੈ:

Ans
✘ 1. ਤਿਆਰ-ਬਰ ਤਿਆਰ ਹੋਣਾ
✘ 2. ਡਰ ਜਾਣਾ
✔ 3. ਮੌਤ ਦੇ ਨੇੜੇ ਹੋਣਾ
✘ 4. ਕਬਰ ਪੁੱਟਣਾ

Question ID : **630680248545**
Option 1 ID : **630680964325**
Option 2 ID : **630680964326**
Option 3 ID : **630680964324**
Option 4 ID : **630680964323**
Status : **Answered**
Chosen Option : **3**

Q.22 ਹਵਾ ਦਾ ਬਹੁਵਚਨ ਹੈ:

Ans
✘ 1. ਹਵਾਈਆਂ
✘ 2. ਹਵਾਏ
✘ 3. ਹਾਵਾਦਾਰ
✔ 4. ਹਵਾਵਾਂ

Question ID : **630680248523**
Option 1 ID : **630680964237**
Option 2 ID : **630680964236**
Option 3 ID : **630680964238**
Option 4 ID : **630680964235**
Status : **Answered**
Chosen Option : **4**

Q.23 ਬਨੈਣ ਦਾ ਬਹੁਵਚਨ ਹੈ:

Ans
✘ 1. ਬਨੈਣੇ
✔ 2. ਬਨੈਣਾਂ
✘ 3. ਬਨੈਣੀਆਂ
✘ 4. ਬਨੈਣੀ

Question ID : **630680248521**
Option 1 ID : **630680964227**
Option 2 ID : **630680964228**
Option 3 ID : **630680964230**
Option 4 ID : **630680964229**
Status : **Answered**
Chosen Option : **2**

Website - www.dailyjobalert.in

Q.24 ਅੱਗੇ ਲਿਖੇ ਬਹੁਤੇ ਸ਼ਬਦਾਂ ਲਈ ਇਕ ਸ਼ਬਦ ਚੁਣੋ: ਕੁਝ ਵਿਅਕਤੀਆਂ ਵੱਲੋਂ ਰਾਏ ਦੇਣ ਲਈ ਚੁਣਿਆ ਵਿਅਕਤੀ

Ans
1. ਵਾਰਿਸ
2. ਪ੍ਰਤਿਨਿਧ
3. ਪਲੇਠਾ
4. ਪ੍ਰਮੁੱਖ

Question ID : **630680248518**
Option 1 ID : **630680964215**
Option 2 ID : **630680964217**
Option 3 ID : **630680964216**
Option 4 ID : **630680964218**
Status : **Answered**
Chosen Option : **2**

Q.25 ਅਖਾਣ ਵਿਚਲੀ ਖ਼ਾਲੀ ਥਾਂ ਭਰੋ: ਸੱਦੀ ਨਾ_____ ਮੈਂ_____ ਦੀ ਤਾਈ

Ans
1. ਬੁਲਾਈ, ਲਾੜੇ
2. ਬੁਲਾਈ, ਮੁੰਡੇ
3. ਪੁੱਛੀ, ਲਾੜੀ
4. ਬੁਲਾਈ, ਕੁੜੀ

Question ID : **630680248542**
Option 1 ID : **630680964314**
Option 2 ID : **630680964311**
Option 3 ID : **630680964313**
Option 4 ID : **630680964312**
Status : **Answered**
Chosen Option : **1**

Q.26 ਅੱਗੇ ਲਿਖੇ ਬਹੁਤੇ ਸ਼ਬਦਾਂ ਲਈ ਇਕ ਸ਼ਬਦ ਚੁਣੋ: ਕੀਤੇ ਨੂੰ ਜਾਣਨ ਵਾਲਾ

Ans
1. ਵਰਿਆਮ
2. ਅਕ੍ਰਿਤਘਣ
3. ਕ੍ਰਿੱਤਗ
4. ਅਣਥੱਕ

Question ID : **630680248517**
Option 1 ID : **630680964213**
Option 2 ID : **630680964214**
Option 3 ID : **630680964212**
Option 4 ID : **630680964211**
Status : **Answered**
Chosen Option : **3**

Q.27 ਅਖਾਣ ਪੂਰਾ ਕਰੋ: ਆਪਣਾ_____ ਪਰਾਇਆ ਢੀਂਗਰ

Ans
1. ਨੀਂਗਰ
2. ਬੇਗ਼ਾਨਾ
3. ਪੁੱਤਰ
4. ਮਿੱਤਰ

Question ID : **630680248541**
Option 1 ID : **630680964310**
Option 2 ID : **630680964307**
Option 3 ID : **630680964308**
Option 4 ID : **630680964309**
Status : **Answered**
Chosen Option : **1**

Website - www.dailyjobalert.in

Q.28 ਅਗਾੜੀ ਦਾ ਵਿਰੋਧੀ ਸ਼ਬਦ ਹੈ:

Ans
✔ 1. ਪਿਛਾੜੀ
✘ 2. ਅੱਗੇ
✘ 3. ਰਿਕਸ਼ਾ
✘ 4. ਅਗਾਂਹ

Question ID : **630680248516**
Option 1 ID : **630680964210**
Option 2 ID : **630680964208**
Option 3 ID : **630680964209**
Option 4 ID : **630680964207**
Status : **Answered**
Chosen Option : **1**

Q.29 59 ਨੂੰ ਪੰਜਾਬੀ ਵਿਚ ਕਹਿੰਦੇ ਹਨ:

Ans
✘ 1. ਉਨਾਸੀ
✔ 2. ਉਨਾਹਠ
✘ 3. ਉਨ੍ਹੱਤਰ
✘ 4. ਉਨਾਨਵੇਂ

Question ID : **630680248556**
Option 1 ID : **630680964367**
Option 2 ID : **630680964369**
Option 3 ID : **630680964368**
Option 4 ID : **630680964370**
Status : **Answered**
Chosen Option : **2**

Q.30 ਲਾਵਾਰਸ ਸ਼ਬਦ ਵਿਚ ਅਗੇਤਰ ਹੈ:

Ans
✘ 1. ਲਆ
✔ 2. ਲਾ
✘ 3. ਲਾਵਾ
✘ 4. ਲਾਵਾਰ

Question ID : **630680248529**
Option 1 ID : **630680964261**
Option 2 ID : **630680964259**
Option 3 ID : **630680964260**
Option 4 ID : **630680964262**
Status : **Answered**
Chosen Option : **2**

Q.31 ਸ਼ੁੱਧ ਸ਼ਬਦ ਜੋੜ ਚੁਣੋ:

Ans
✔ 1. ਡੁੰਘਾਈ
✘ 2. ਡਘਾਈ
✘ 3. ਡੁਗਾਈ
✘ 4. ਡਿਘਾਈ

Question ID : **630680248540**
Option 1 ID : **630680964303**
Option 2 ID : **630680964304**
Option 3 ID : **630680964306**
Option 4 ID : **630680964305**
Status : **Answered**
Chosen Option : **1**

Website - www.dailyjobalert.in

Q.32 ਸ਼ੁੱਧ ਸ਼ਬਦ ਜੋੜ ਚੁਣੋ:

Ans
- ✗ 1. ਚਲਕ
- ✓ 2. ਚਲਾਕ
- ✗ 3. ਚਲਕਿ
- ✗ 4. ਚਲਿਕ

Question ID : **630680248538**
Option 1 ID : **630680964296**
Option 2 ID : **630680964295**
Option 3 ID : **630680964298**
Option 4 ID : **630680964297**
Status : **Answered**
Chosen Option : **2**

Q.33 ਮੁਹਾਵਰੇ ਵਿਚਲੀ ਖ਼ਾਲੀ ਥਾਂ ਭਰੋ: ਇੱਕੋ ਤੱਕੜੀ ਦੇ _____ ਹੋਣਾ

Ans
- ✓ 1. ਵੱਟੇ
- ✗ 2. ਛਾਬੇ
- ✗ 3. ਡੰਡੀ
- ✗ 4. ਰੱਸੇ

Question ID : **630680248548**
Option 1 ID : **630680964336**
Option 2 ID : **630680964335**
Option 3 ID : **630680964338**
Option 4 ID : **630680964337**
Status : **Answered**
Chosen Option : **1**

Q.34 ਸ਼ੀਂਹ ਸ਼ਬਦ ਦਾ ਲਿੰਗ ਬਦਲੋ

Ans
- ✗ 1. ਸ਼ੀਂਆਂ
- ✓ 2. ਸ਼ੀਂਹਣੀ
- ✗ 3. ਸ਼ੀਂਹੀ
- ✗ 4. ਸ਼ੀਂਹਨਣ

Question ID : **630680248524**
Option 1 ID : **630680964242**
Option 2 ID : **630680964241**
Option 3 ID : **630680964239**
Option 4 ID : **630680964240**
Status : **Answered**
Chosen Option : **2**

Q.35 ਅਰੰਭ ਦਾ ਸਮਾਨਾਰਥਕ ਸ਼ਬਦ ਹੈ:

Ans
- ✗ 1. ਅੰਤ
- ✓ 2. ਮੁੱਢ
- ✗ 3. ਸਜਗ
- ✗ 4. ਗਰਜ਼

Question ID : **630680248512**
Option 1 ID : **630680964191**
Option 2 ID : **630680964194**
Option 3 ID : **630680964192**
Option 4 ID : **630680964193**
Status : **Answered**
Chosen Option : **2**

Website - www.dailyjobalert.in

Q.36 ਪੁਰਖ ਸ਼ਬਦ ਦਾ ਲਿੰਗ ਬਦਲੋ

Ans
- ✗ 1. ਪੁਰਖੇ
- ✓ 2. ਇਸਤਰੀ
- ✗ 3. ਆਦਮੀ
- ✗ 4. ਮਰਦ

Question ID : **630680248527**
Option 1 ID : **630680964253**
Option 2 ID : **630680964252**
Option 3 ID : **630680964251**
Option 4 ID : **630680964254**
Status : **Answered**
Chosen Option : **2**

Q.37 Director ਸ਼ਬਦ ਦਾ ਪੰਜਾਬੀ ਅਨੁਵਾਦ ਕੀ ਹੈ?

Ans
- ✓ 1. ਨਿਰਦੇਸ਼ਕ
- ✗ 2. ਉਤਾਰਾ
- ✗ 3. ਅਹੁਦਾ
- ✗ 4. ਰੋਜ਼ਨਾਮਚਾ

Question ID : **630680248553**
Option 1 ID : **630680964356**
Option 2 ID : **630680964358**
Option 3 ID : **630680964355**
Option 4 ID : **630680964357**
Status : **Answered**
Chosen Option : **1**

Q.38 ਚੱਲਣਹਾਰ ਸ਼ਬਦ ਵਿਚ ਪਿਛੇਤਰ ਹੈ:

Ans
- ✓ 1. ਹਾਰ
- ✗ 2. ਣਹਾਰ
- ✗ 3. ਆਰ
- ✗ 4. ਲਣਹਾਰ

Question ID : **630680248534**
Option 1 ID : **630680964281**
Option 2 ID : **630680964280**
Option 3 ID : **630680964282**
Option 4 ID : **630680964279**
Status : **Answered**
Chosen Option : **1**

Q.39 57 ਨੂੰ ਪੰਜਾਬੀ ਵਿਚ ਕਹਿੰਦੇ ਹਨ:

Ans
- ✗ 1. ਸਤਾਹਠ
- ✗ 2. ਸਤਾਸੀ
- ✓ 3. ਸਤਵੰਜਾ
- ✗ 4. ਸਤੱਤਰ

Question ID : **630680248557**
Option 1 ID : **630680964372**
Option 2 ID : **630680964374**
Option 3 ID : **630680964371**
Option 4 ID : **630680964373**
Status : **Answered**
Chosen Option : **3**

DAILY JOB Alert ਪੰਜਾਬ
Website - www.dailyjobalert.in

Q.40 ਹੇਠ ਲਿਖਿਆਂ ਵਿੱਚੋਂ ਕਿਸ ਵਾਕ ਵਿਚ ਵਿਸਰਾਮ ਚਿੰਨ੍ਹਾਂ ਦੀ ਠੀਕ ਵਰਤੋਂ ਹੋਈ ਹੈ?

Ans
- ✗ 1. ਨਹੀਂ! ਤੁਸੀਂ ਇਸ ਤਰ੍ਹਾਂ ਬਿਨਾਂ ਕੁਝ ਖਾਧੇ-ਪੀਤੇ ਨਹੀਂ ਜਾ ਸਕਦੇ!
- ✗ 2. ਨਹੀਂ? ਤੁਸੀਂ ਇਸ ਤਰ੍ਹਾਂ ਬਿਨਾਂ ਕੁਝ, ਖਾਧੇ-ਪੀਤੇ ਨਹੀਂ ਜਾ ਸਕਦੇ;
- ✗ 3. ਨਹੀਂ ਤੁਸੀਂ! ਇਸ ਤਰ੍ਹਾਂ ਬਿਨਾਂ ਕੁਝ ਖਾਧੇ-ਪੀਤੇ ਨਹੀਂ ਜਾ ਸਕਦੇ?
- ✓ 4. ਨਹੀਂ, ਤੁਸੀਂ ਇਸ ਤਰ੍ਹਾਂ ਬਿਨਾਂ ਕੁਝ ਖਾਧੇ-ਪੀਤੇ ਨਹੀਂ ਜਾ ਸਕਦੇ।

Question ID : **630680248550**
Option 1 ID : **630680964343**
Option 2 ID : **630680964345**
Option 3 ID : **630680964346**
Option 4 ID : **630680964344**
Status : **Answered**
Chosen Option : **4**

Q.41 ਸ਼ੁੱਧ ਸ਼ਬਦ ਜੋੜ ਚੁਣੋ:

Ans
- ✗ 1. ਵਣਜਿ
- ✓ 2. ਵਣਜ
- ✗ 3. ਵਨਜ਼
- ✗ 4. ਵਨਜ

Question ID : **630680248539**
Option 1 ID : **630680964299**
Option 2 ID : **630680964302**
Option 3 ID : **630680964300**
Option 4 ID : **630680964301**
Status : **Answered**
Chosen Option : **2**

Q.42 ਉਤਰਨਾ ਦਾ ਵਿਰੋਧੀ ਸ਼ਬਦ ਹੈ:

Ans
- ✗ 1. ਉਲਝਣਾ
- ✗ 2. ਉੱਸਰਨਾ
- ✗ 3. ਹੇਠਲਾ
- ✓ 4. ਚੜ੍ਹਨਾ

Question ID : **630680248514**
Option 1 ID : **630680964202**
Option 2 ID : **630680964201**
Option 3 ID : **630680964199**
Option 4 ID : **630680964200**
Status : **Answered**
Chosen Option : **4**

Q.43 ਬਦਅਸੀਸ ਸ਼ਬਦ ਵਿਚ ਅਗੇਤਰ ਹੈ:

Ans
- ✓ 1. ਬਦ
- ✗ 2. ਬ
- ✗ 3. ਬਦਅ
- ✗ 4. ਸੀਸ

Question ID : **630680248530**
Option 1 ID : **630680964263**
Option 2 ID : **630680964265**
Option 3 ID : **630680964264**
Option 4 ID : **630680964266**
Status : **Answered**
Chosen Option : **1**

Website - www.dailyjobalert.in

Q.44 ਫੱਗਣ ਦੇ ਮਗਰੋਂ _____ ਮਹੀਨਾ ਹੁੰਦਾ ਹੈ?

Ans
1. ਫੱਗਣ
2. ਅੱਸੂ
3. ਚੇਤ
4. ਮੱਘਰ

Question ID : **630680248559**
Option 1 ID : **630680964380**
Option 2 ID : **630680964381**
Option 3 ID : **630680964379**
Option 4 ID : **630680964382**
Status : **Answered**
Chosen Option : **2**

Q.45 Adhoc ਸ਼ਬਦ ਦਾ ਪੰਜਾਬੀ ਅਨੁਵਾਦ ਕੀ ਹੈ?

Ans
1. ਲੇਖਾਕਾਰੀ
2. ਪ੍ਰਸ਼ਾਸਕ
3. ਪ੍ਰਸ਼ਾਸਨ
4. ਤਦ-ਅਰਥ

Question ID : **630680248552**
Option 1 ID : **630680964352**
Option 2 ID : **630680964354**
Option 3 ID : **630680964353**
Option 4 ID : **630680964351**
Status : **Answered**
Chosen Option : **2**

Q.46 Reserve ਸ਼ਬਦ ਦਾ ਪੰਜਾਬੀ ਅਨੁਵਾਦ ਕੀ ਹੈ?

Ans
1. ਗਬਨ
2. ਰਾਖਵੀਂ
3. ਨਿਯੁਕਤੀ
4. ਪਾਤਰਤਾ

Question ID : **630680248554**
Option 1 ID : **630680964359**
Option 2 ID : **630680964362**
Option 3 ID : **630680964360**
Option 4 ID : **630680964361**
Status : **Answered**
Chosen Option : **2**

Q.47 ਸ਼ੇਰ ਸ਼ਬਦ ਦਾ ਲਿੰਗ ਬਦਲੋ

Ans
1. ਸ਼ੇਰਨੀ
2. ਸ਼ੇਰੀ
3. ਬਾਘਣ
4. ਸ਼ੇਰਨ

Question ID : **630680248525**
Option 1 ID : **630680964243**
Option 2 ID : **630680964244**
Option 3 ID : **630680964246**
Option 4 ID : **630680964245**
Status : **Answered**
Chosen Option : **1**

Website - www.dailyjobalert.in

Q.48 ਅਖਾਣ ਵਿਚਲੀ ਖ਼ਾਲੀ ਥਾਂ ਭਰੋ: ਕੱਲੀ ਤਾਂ _____ ਵੀ ਨਹੀਂ ਬਲਦੀ

Ans
- ✗ 1. ਦੇਹ
- ✗ 2. ਗੈਸ
- ✓ 3. ਲੱਕੜ
- ✗ 4. ਪਾਥੀ

Question ID : **630680248543**
Option 1 ID : **630680964317**
Option 2 ID : **630680964318**
Option 3 ID : **630680964315**
Option 4 ID : **630680964316**
Status : **Answered**
Chosen Option : **1**

Q.49 ਤਹਿਜ਼ੀਬ ਸ਼ਬਦ ਦਾ ਅਰਥ ਹੈ:

Ans
- ✗ 1. ਖ਼ੂਬਸੂਰਤ
- ✓ 2. ਸਭਿਅਤਾ
- ✗ 3. ਤ੍ਰੀਮਤ
- ✗ 4. ਪ੍ਰਸੰਨਤਾ

Question ID : **630680248558**
Option 1 ID : **630680964376**
Option 2 ID : **630680964375**
Option 3 ID : **630680964377**
Option 4 ID : **630680964378**
Status : **Answered**
Chosen Option : **1**

Q.50 ਉਮੰਗ ਦਾ ਸਮਾਨਾਰਥਕ ਸ਼ਬਦ ਹੈ:

Ans
- ✓ 1. ਤਾਂਘ
- ✗ 2. ਨਿਰਮਲ
- ✗ 3. ਠੀਕ
- ✗ 4. ਉਪਮਾ

Question ID : **630680248511**
Option 1 ID : **630680964189**
Option 2 ID : **630680964190**
Option 3 ID : **630680964187**
Option 4 ID : **630680964188**
Status : **Answered**
Chosen Option : **1**

DAILY JOB Alert ਪੰਜਾਬ

PUNJAB POLICE

Police to its last particle is duty

Exam Name	Recruitment for the post of Sub Inspector in Cadres of District and Armed Police 20th Jun to 31st Jul 2023 Paper I
Application No	www.dailyjobalert.in
Roll No	Telegram - Daily Job Alert Punjab
Applicant Name	instagram - Daily Job Alert Punjab
Exam Date	15/07/2023
Shift	9:00 AM - 11:00 AM
Subject	Sub Inspector Paper I

Section : **General Awareness**

Q.1 ਭਾਰਤੀ ਸੰਵਿਧਾਨ ਦੇ ਕਿਹੜੇ ਅਨੁਛੇਦ ਵਿੱਚ ਸੋਧ ਕਰਕੇ ਰਾਸ਼ਟਰੀ ਅਨੁਸੂਚਿਤ ਜਨਜਾਤੀ ਕਮਿਸ਼ਨ (NCST) ਦੀ ਸਥਾਪਨਾ ਕੀਤੀ ਗਈ ਸੀ?

Ans

✗ 1. ਅਨੁਛੇਦ 334

✗ 2. ਅਨੁਛੇਦ 332

✗ 3. ਅਨੁਛੇਦ 336

✓ 4. ਅਨੁਛੇਦ 338

Question ID : **630680238397**
Option 1 ID : **630680924604**
Option 2 ID : **630680924607**
Option 3 ID : **630680924605**
Option 4 ID : **630680924606**
Status : **Answered**
Chosen Option : **3**

Q.2 ਅਗਸਤ 2021 ਵਿੱਚ ਇਹਨਾਂ ਵਿੱਚੋਂ ਕਿਸ ਦੇਸ਼ ਨੇ ਔਨਲਾਈਨ ਉਪਭੋਗਤਾ ਡੇਟਾ ਗੋਪਨੀਯਤਾ ਦੀ ਸੁਰੱਖਿਆ ਲਈ ਇੱਕ ਕਾਨੂੰਨ ਪਾਸ ਕੀਤਾ ਸੀ?

Ans

✓ 1. ਚੀਨ

✗ 2. ਫਰਾਂਸ

✗ 3. ਜਪਾਨ

✗ 4. ਭਾਰਤ

Question ID : **63068091007**
Option 1 ID : **630680352787**
Option 2 ID : **630680352789**
Option 3 ID : **630680352786**
Option 4 ID : **630680352788**
Status : **Answered**
Chosen Option : **4**

Website - www.dailyjobalert.in

Q.3 ਹੇਠ ਲਿਖਿਆਂ ਵਿੱਚੋਂ ਕਿਸ ਸਿੱਖ ਗੁਰੂ ਨੇ 'ਮੰਜੀ ਪ੍ਰਥਾ' ਦੀ ਸ਼ੁਰੂਆਤ ਕੀਤੀ?

Ans
1. ਗੁਰੂ ਰਾਮਦਾਸ ਜੀ
2. ਗੁਰੂ ਅਮਰਦਾਸ ਜੀ
3. ਗੁਰੂ ਹਰ ਰਾਏ ਜੀ
4. ਗੁਰੂ ਅਰਜਨ ਦੇਵ ਜੀ

Question ID : **630680238548**
Option 1 ID : **630680925210**
Option 2 ID : **630680925209**
Option 3 ID : **630680925211**
Option 4 ID : **630680925208**
Status : **Answered**
Chosen Option : **2**

Q.4 ਬਾਲ ਗੰਗਾਧਰ ਤਿਲਕ ਦੇ ਸਬੰਧ ਵਿੱਚ ਹੇਠਾਂ ਦਿੱਤੇ ਕਥਨਾਂ ਉੱਤੇ ਗੌਰ ਕਰੋ।
1. ਨਾਅਰਾ 'ਆਜ਼ਾਦੀ ਸਾਡਾ ਜਨਮ ਸਿੱਧ ਅਧਿਕਾਰ ਹੈ ਅਤੇ ਇਹ ਸਾਨੂੰ ਮਿਲਣਾ ਚਾਹੀਦਾ ਹੈ' ਉਸ ਦੁਆਰਾ ਦਿੱਤਾ ਗਿਆ ਹੈ।
2. ਉਸਨੇ 1916 ਵਿੱਚ ਮੁਹੰਮਦ ਅਲੀ ਜਿਨਾਹ ਨਾਲ ਭਾਰਤੀ ਰਾਸ਼ਟਰੀ ਕਾਂਗਰਸ ਦੀ ਤਰਫੋਂ ਲਖਨਊ ਸਮਝੌਤੇ 'ਤੇ ਦਸਤਖਤ ਕੀਤੇ।
3. ਉਹ ਭਾਰਤੀ ਰਾਸ਼ਟਰੀ ਕਾਂਗਰਸ ਦੇ ਕੱਟੜਪੰਥੀ ਨੇਤਾਵਾਂ ਵਿੱਚੋਂ ਇੱਕ ਸੀ।
ਉੱਪਰ ਦਿੱਤੇ ਗਏ ਕਥਨਾਂ ਵਿੱਚੋਂ ਕਿਹੜਾ/ਕਿਹੜੇ ਸਹੀ ਹੈ/ਹਨ?

Ans
1. ਕੇਵਲ 2
2. 2 ਅਤੇ 3 ਦੋਵੇਂ
3. ਕੇਵਲ 1 ਅਤੇ 2
4. 1, 2 ਅਤੇ 3

Question ID : **630680176080**
Option 1 ID : **630680682565**
Option 2 ID : **630680682564**
Option 3 ID : **630680682566**
Option 4 ID : **630680682567**
Status : **Answered**
Chosen Option : **2**

Q.5 ਭਿਲਾਈ ਸਟੀਲ ਪਲਾਂਟ _____ ਦੇ ਸਹਿਯੋਗ ਨਾਲ ਸਥਾਪਿਤ ਕੀਤਾ ਗਿਆ ਸੀ।

Ans
1. ਯੂ.ਐਸ.ਏ.(USA)
2. ਯੂ.ਐਸ.ਐਸ.ਆਰ. (USSR)
3. ਆਸਟ੍ਰੇਲੀਆ (Australia)
4. ਜਰਮਨੀ (Germany)

Question ID : **63068050592**
Option 1 ID : **630680194682**
Option 2 ID : **630680194683**
Option 3 ID : **630680194685**
Option 4 ID : **630680194684**
Status : **Answered**
Chosen Option : **4**

Website - www.dailyjobalert.in

Q.6 ਭਾਰਤ ਵਿੱਚ, ਪਹਿਲੀ ਵਾਰ ਜ਼ਿਲ੍ਹਾ ਕੁਲੈਕਟਰ ਦਾ ਅਹੁਦਾ ਕਦੋਂ ਬਣਾਇਆ ਗਿਆ ਸੀ?

Ans
- ✗ 1. 1786
- ✗ 2. 1773
- ✓ 3. 1772
- ✗ 4. 1781

Question ID : **63068052963**
Option 1 ID : **630680203957**
Option 2 ID : **630680203955**
Option 3 ID : **630680203954**
Option 4 ID : **630680203956**
Status : **Answered**
Chosen Option : **1**

Q.7 ਭਾਰਤ ਦੇ ਸੰਵਿਧਾਨ ਦੇ ਆਰਟੀਕਲ 170 ਦੇ ਅਨੁਸਾਰ ਕਿਸੇ ਰਾਜ ਦੀ ਵਿਧਾਨ ਸਭਾ ਦੇ ਮੈਂਬਰਾਂ ਦੀ ਵੱਧ ਤੋਂ ਵੱਧ ਗਿਣਤੀ ਕਿੰਨੀ ਹੁੰਦੀ ਹੈ?

Ans
- ✗ 1. 515
- ✗ 2. 510
- ✗ 3. 505
- ✓ 4. 500

Question ID : **630680125218**
Option 1 ID : **630680485641**
Option 2 ID : **630680485640**
Option 3 ID : **630680485639**
Option 4 ID : **630680485638**
Status : **Answered**
Chosen Option : **4**

Q.8 ਹੇਠ ਲਿਖੀਆਂ ਨਦੀਆਂ ਵਿੱਚੋਂ ਕਿਹੜੀ ਨਦੀ 'ਪੰਜਨਦ' ਵਿੱਚ ਸ਼ਾਮਲ ਨਹੀਂ ਹੈ?

Ans
- ✗ 1. ਜੇਹਲਮ
- ✗ 2. ਰਾਵੀ
- ✓ 3. ਸਿੰਧ
- ✗ 4. ਚਨਾਬ

Question ID : **63068085275**
Option 1 ID : **630680330607**
Option 2 ID : **630680330605**
Option 3 ID : **630680330604**
Option 4 ID : **630680330606**
Status : **Answered**
Chosen Option : **2**

Website - www.dailyjobalert.in

Q.9 ਹੇਠ ਲਿਖੇ ਮੁਗਲ ਬਾਦਸ਼ਾਹਾਂ ਵਿੱਚੋਂ ਕਿਸ ਨੇ ਗੁਰੂ ਅਰਜਨ ਦੇਵ ਜੀ ਨੂੰ ਕਤਲ ਕਰਨ ਦਾ ਹੁਕਮ ਦਿੱਤਾ ਸੀ?

Ans
✗ 1. ਅਕਬਰ
✗ 2. ਸ਼ਾਹਜਹਾਂ
✓ 3. ਜਹਾਂਗੀਰ
✗ 4. ਬਾਬਰ

Question ID : **630680238559**
Option 1 ID : **630680925252**
Option 2 ID : **630680925255**
Option 3 ID : **630680925254**
Option 4 ID : **630680925253**
Status : **Answered**
Chosen Option : **4**

Q.10 ਕਿਲ੍ਹਾ ਗੋਬਿੰਦਗੜ੍ਹ ਪੰਜਾਬ ਦੇ ਕਿਹੜੇ ਜ਼ਿਲ੍ਹੇ ਵਿੱਚ ਹੈ?

Ans
✗ 1. ਗੁਰਦਾਸਪੁਰ
✓ 2. ਅੰਮ੍ਰਿਤਸਰ
✗ 3. ਪਟਿਆਲਾ
✗ 4. ਜਲੰਧਰ

Question ID : **630680238601**
Option 1 ID : **630680925423**
Option 2 ID : **630680925421**
Option 3 ID : **630680925420**
Option 4 ID : **630680925422**
Status : **Answered**
Chosen Option : **2**

DAILY JOB Alert ਪੰਜਾਬ

Q.11 ਸੂਚੀ I ਵਿੱਚ ਦਿੱਤੇ ਖਣਿਜਾਂ ਦਾ ਸੂਚੀ II ਵਿੱਚ ਦਿੱਤੇ ਖਦਾਨ ਸਥਾਨਾਂ ਨਾਲ ਮਿਲਾਣ ਕਰੋ:

ਖਣਿਜ (ਸੂਚੀ I)	ਖਦਾਨ ਸਥਾਨ (ਸੂਚੀ II)
1. ਲੋਹ ਕੱਚੀ ਧਾਤ	a. ਰਾਣੀਗੰਜ
2. ਕੋਲਾ	b. ਸੁੰਦਰਗੜ੍ਹ
3. ਬਕਸਾਈਟ	c. ਕਾਲਾਹਾਂਡੀ
4. ਪੈਟਰੋਲੀਅਮ	d. ਡਿਗਬੋਈ

Ans
✔ 1. 1-b, 2-a, 3-c, 4-d
✘ 2. 1-a, 2-b, 3-c, 4-d
✘ 3. 1-b, 2-a, 3-d, 4-c
✘ 4. 1-b, 2-c, 3-a, 4-d

Question ID : **630680134503**
Option 1 ID : **630680520830**
Option 2 ID : **630680520832**
Option 3 ID : **630680520831**
Option 4 ID : **630680520833**
Status : **Answered**
Chosen Option : **3**

Q.12 ਚੀਨ ਵਿੱਚ, ਹੇਠ ਲਿਖੀਆਂ ਵਿੱਚੋਂ ਕਿਹੜੀ ਜਾਤੀ ਆਬਾਦੀ ਦਾ 92% ਬਣਦੀ ਹੈ?

Ans
✔ 1. ਹਾਨ
✘ 2. ਮਾਂਚੂ
✘ 3. ਹੁਈ
✘ 4. ਮਾਓ

Question ID : **63068059759**
Option 1 ID : **630680230609**
Option 2 ID : **630680230606**
Option 3 ID : **630680230607**
Option 4 ID : **630680230608**
Status : **Answered**
Chosen Option : **4**

DAILY JOB Alert ਪੰਜਾਬ

Q.13 ਭਾਰਤ ਵਿੱਚ ਹੇਠ ਲਿਖਿਆਂ ਵਿੱਚੋਂ ਕਿਹੜੇ ਟਾਈਗਰ ਰਿਜ਼ਰਵ ਨੂੰ ਜੁਲਾਈ 2021 ਵਿੱਚ ਗਲੋਬਲ ਕੰਜ਼ਰਵੇਸ਼ਨ ਅਸ਼ੋਰਡ ਟਾਈਗਰ ਸਟੈਂਡਰਡਜ਼ ਦੀ ਮਾਨਤਾ ਪ੍ਰਾਪਤ ਨਹੀਂ ਹੋਈ ਹੈ?

Ans
1. ਪੰਨਾ
2. ਓਰੰਗ
3. ਨਾਮੇਰੀ
4. ਮਾਨਸ

Question ID : **630680158429**
Option 1 ID : **630680613246**
Option 2 ID : **630680613245**
Option 3 ID : **630680613247**
Option 4 ID : **630680613244**
Status : **Answered**
Chosen Option : **2**

Q.14 ਮਾਣਕ _____ ਸੀਲ, ਇੱਕ 2×2 ਵਰਗ ਇੰਚ ਦੀ ਵਰਗ ਸਲੈਬ ਸੀ, ਜੋ ਸਟੀਟਾਈਟ ਦੀ ਬਣੀ ਹੋਈ ਸੀ।

Ans
1. ਆਰੀਅਨ
2. ਗੁਪਤਾ
3. ਮੌਰੀਆ
4. ਹੜੱਪਾ

Question ID : **630680164657**
Option 1 ID : **630680637740**
Option 2 ID : **630680637743**
Option 3 ID : **630680637741**
Option 4 ID : **630680637742**
Status : **Not Answered**
Chosen Option : **--**

Q.15 ਪਲੈਟੋ ਨੇ ਚਾਰ ਮੁੱਖ ਗੁਣਾਂ ਨੂੰ ਮਾਨਤਾ ਦਿੱਤੀ, ਜੋ ਕਿ ਬੁੱਧੀ, ਹਿੰਮਤ, ਸੰਜਮ ਅਤੇ _____ ਹਨ।

Ans
1. ਸਤਿਕਾਰ
2. ਨਿਆਂ
3. ਸੱਚਾਈ
4. ਵਫ਼ਾਦਾਰੀ

Question ID : **630680238337**
Option 1 ID : **630680924367**
Option 2 ID : **630680924364**
Option 3 ID : **630680924365**
Option 4 ID : **630680924366**
Status : **Answered**
Chosen Option : **4**

Website - www.dailyjobalert.in

Q.16 2011 ਦੀ ਮਰਦਮਸ਼ੁਮਾਰੀ ਦੇ ਅਨੁਸਾਰ, ਪੰਜਾਬ ਦੀ ਆਬਾਦੀ ਵਿੱਚ ਕਿੰਨੇ ਪ੍ਰਤੀਸ਼ਤ ਹਿੰਦੂ ਹਨ?

Ans
✗ 1. 40.21%
✓ 2. 38.49%
✗ 3. 22.23%
✗ 4. 30.21%

Question ID : **630680238507**
Option 1 ID : **630680925047**
Option 2 ID : **630680925046**
Option 3 ID : **630680925044**
Option 4 ID : **630680925045**
Status : **Answered**
Chosen Option : **1**

Q.17 ਹੇਠ ਲਿਖਿਆਂ ਵਿੱਚੋਂ ਕਿਹੜਾ ਹਰੀ ਕ੍ਰਾਂਤੀ ਨਾਲ ਜੁੜਿਆ ਖਤਰਾ ਨਹੀਂ ਹੈ?

Ans
✓ 1. ਨਿਰਵਾਹ ਯੋਗ ਖੇਤੀ ਤੋਂ ਵਪਾਰਕ ਖੇਤੀ ਵਿੱਚ ਸਥਾਨਅੰਤਰਿਤ ਹੋਣਾ।
✗ 2. ਛੋਟੇ ਅਤੇ ਵੱਡੇ ਕਿਸਾਨਾਂ ਵਿੱਚ ਅਸਮਾਨਤਾ ਵਧਦੀ ਹੈ।
✗ 3. ਕਣਕ ਅਤੇ ਚਾਵਲ ਵਰਗੀਆਂ ਸੀਮਤ ਫਸਲਾਂ ਦੇ ਉਤਪਾਦਨ ਵਿੱਚ ਵਾਧਾ।
✗ 4. HYV ਫਸਲਾਂ 'ਤੇ ਕੀੜਿਆਂ ਦੇ ਹਮਲੇ ਦਾ ਖਤਰਾ ਜ਼ਿਆਦਾ ਸੀ।

Question ID : **63068056650**
Option 1 ID : **630680218537**
Option 2 ID : **630680218534**
Option 3 ID : **630680218536**
Option 4 ID : **630680218535**
Status : **Answered**
Chosen Option : **1**

Q.18 ਡੇਵਿਡ ਡਿਓਪ (David Diop) ਨੂੰ ਉਸਦੇ ਕਿਸ ਨਾਵਲ ਲਈ ਅੰਤਰਰਾਸ਼ਟਰੀ ਬੁਕਰ ਪੁਰਸਕਾਰ 2021 ਮਿਲਿਆ ਹੈ?

Ans
✗ 1. ਆਈ' ਅਟਰੈਕਸ਼ਨ ਯੂਨੀਵਰਸਲ(l'Attraction universelle)
✗ 2. ਕਉਪਸ ਡੇ ਪੀਲੋਨ (Coups de Pilon)
✓ 3. ਐਟ ਨਾਈਟ ਆਲ ਬਲੱਡ ਇਜ਼ ਬਲੈਕ (At Night All Blood Is Black)
✗ 4. ਹੈਮਰ ਬਲੋਅਸ (Hammer Blows)

Question ID : **63068091005**
Option 1 ID : **630680352781**
Option 2 ID : **630680352780**
Option 3 ID : **630680352778**
Option 4 ID : **630680352779**
Status : **Answered**
Chosen Option : **2**

Website - www.dailyjobalert.in

Q.19 _____ ਨੇ 'ਭਾਰਤ-ਨ੍ਰਿਤਿਅਮ' ਵਜੋਂ ਜਾਣੀ ਜਾਂਦੀ ਇੱਕ ਨਵੀਂ ਸ਼ੈਲੀ ਦੀ ਖੋਜ ਅਤੇ ਨਿਰਮਾਣ ਕੀਤਾ, ਅਤੇ ਉਹ ਕਾਰਨਾਟਿਕ ਸੰਗੀਤ ਵਿੱਚ ਮਾਸਟਰ ਡਿਗਰੀ ਦੇ ਨਾਲ ਇੱਕ ਸੰਗੀਤਕਾਰ ਵੀ ਹੈ।

Ans
✗ 1. ਸੋਨਲ ਮਾਨਸਿੰਘ
✗ 2. ਯਾਮਿਨੀ ਕ੍ਰਿਸ਼ਨਾਮੂਰਤੀ
✗ 3. ਤੰਜੌਰ ਬਾਲਾਸਰਸਵਤ
✓ 4. ਪਦਮ ਸੁਬ੍ਰਾਹਮਣੀਅਮ

Question ID : **630680114143**
Option 1 ID : **630680441975**
Option 2 ID : **630680441976**
Option 3 ID : **630680441977**
Option 4 ID : **630680441974**
Status : **Answered**
Chosen Option : **2**

Q.20 ਹੇਠ ਲਿਖਿਆਂ ਵਿੱਚੋਂ ਕਿਸ ਨੂੰ ਖਾਲਸਾ ਪੰਥ ਦੇ ਸਥਾਪਨਾ ਦਿਵਸ ਵਜੋਂ ਜਾਣਿਆ ਜਾਂਦਾ ਹੈ?

Ans
✗ 1. ਬਸੰਤ ਪੰਚਮੀ
✗ 2. ਲੋਹੜੀ
✗ 3. ਛਪਾਰ ਦਾ ਮੇਲਾ
✓ 4. ਵਿਸਾਖੀ

Question ID : **630680238588**
Option 1 ID : **630680925370**
Option 2 ID : **630680925369**
Option 3 ID : **630680925371**
Option 4 ID : **630680925368**
Status : **Answered**
Chosen Option : **4**

Q.21 ਪਾਰਵਤੀ ਮੰਦਰ ਦਾ ਨਿਰਮਾਣ ਗੁਪਤ ਕਾਲ ਦੌਰਾਨ _____ ਵਿਖੇ ਹੋਇਆ ਸੀ।

Ans
✗ 1. ਦੇਵਗੜ੍ਹ
✗ 2. ਰਾਜਘਾਟ
✓ 3. ਨਚਨਾ-ਕੁਠਾਰਾ
✗ 4. ਤਿਗਾਵਾ

Question ID : **63068069634**
Option 1 ID : **630680269202**
Option 2 ID : **630680269205**
Option 3 ID : **630680269203**
Option 4 ID : **630680269204**
Status : **Answered**
Chosen Option : **1**

DAILY JOB Alert ਪੰਜਾਬ

Q.22 ਹੇਠਾਂ ਦਿੱਤੇ ਵਿੱਚੋਂ ਕੌਣ ਇਹ ਮੰਨਦਾ ਹੈ ਕਿ ਮਨੁੱਖਜਾਤੀ ਦੀ ਖੁਸ਼ੀ ਜੀਵਨ ਦੁਆਰਾ ਪ੍ਰਦਾਨ ਕੀਤੀ ਜਾ ਸਕਣ ਵਾਲੇ ਆਨੰਦ ਦੀ ਪ੍ਰਾਪਤੀ ਵਿੱਚ ਹੈ ਅਤੇ ਇਸ ਤਰ੍ਹਾਂ, ਆਨੰਦ ,ਮਨੁੱਖੀ ਕੰਮਾਂ ਦਾ ਅੰਤਮ ਉਦੇਸ਼ ਹੈ?

Ans
- ✗ 1. ਭੌਤਿਕਵਾਦ
- ✓ 2. ਸੁੱਖਵਾਦ
- ✗ 3. ਵੈਰਾਗ
- ✗ 4. ਮਾਨਵਤਾਵਾਦ

Question ID : **630680238353**
Option 1 ID : **630680924428**
Option 2 ID : **630680924429**
Option 3 ID : **630680924430**
Option 4 ID : **630680924431**
Status : **Answered**
Chosen Option : **2**

Q.23 ਬੰਗਲਾਦੇਸ਼ ਦੀ ਰਾਸ਼ਟਰੀ ਭਾਸ਼ਾ ਹੈ -

Ans
- ✗ 1. ਉਰਦੂ
- ✓ 2. ਬੰਗਾਲੀ
- ✗ 3. ਅਸਮੀਜ਼
- ✗ 4. ਪਾਲੀ

Question ID : **63068091000**
Option 1 ID : **630680352759**
Option 2 ID : **630680352760**
Option 3 ID : **630680352758**
Option 4 ID : **630680352761**
Status : **Answered**
Chosen Option : **2**

Q.24 ਭਾਰਤੀ ਸੰਵਿਧਾਨ ਦਾ ਕਿਹੜਾ ਅਨੁਛੇਦ ਅਨੁਸੂਚਿਤ ਜਾਤੀਆਂ ਅਤੇ ਅਨੁਸੂਚਿਤ ਜਨਜਾਤੀਆਂ ਲਈ ਪੰਚਾਇਤਾਂ ਵਿੱਚ 33% ਸੀਟਾਂ ਦਾ ਰਾਖਵਾਂਕਰਨ ਪ੍ਰਦਾਨ ਕਰਦਾ ਹੈ?

Ans
- ✗ 1. ਅਨੁਛੇਦ 213D
- ✗ 2. ਅਨੁਛੇਦ 223D
- ✗ 3. ਅਨੁਛੇਦ 233D
- ✓ 4. ਅਨੁਛੇਦ 243D

Question ID : **630680238372**
Option 1 ID : **630680924504**
Option 2 ID : **630680924505**
Option 3 ID : **630680924506**
Option 4 ID : **630680924507**
Status : **Answered**
Chosen Option : **3**

Website - www.dailyjobalert.in

Q.25 ਹੇਠਾਂ ਦਿੱਤੇ ਸ਼ਾਸਤਰੀ ਨਾਚਾਂ ਵਿੱਚੋਂ ਕਿਹੜਾ ਉੱਤਰੀ ਭਾਰਤ ਦਾ ਹੈ?

Ans
1. ਕੁਚੀਪੁੜੀ
2. ਕੱਥਕ
3. ਓਡੀਸੀ
4. ਕਥਕਲੀ

Question ID : **63068087697**
Option 1 ID : **630680340175**
Option 2 ID : **630680340173**
Option 3 ID : **630680340176**
Option 4 ID : **630680340174**
Status : **Answered**
Chosen Option : **4**

Q.26 ਰਿਗਵੈਦਿਕ ਕਾਲ ਵਿੱਚ ਬਹੁਤ ਸਾਰੇ ਕਬੀਲਿਆਂ (ਵਿਸ) ਨੇ ਇੱਕ _____ ਦਾ ਗਠਨ ਕੀਤਾ।

Ans
1. ਜਣ
2. ਕੁਲ
3. ਕੁਲਪ
4. ਗ੍ਰਾਮ

Question ID : **63068053051**
Option 1 ID : **630680204307**
Option 2 ID : **630680204306**
Option 3 ID : **630680204309**
Option 4 ID : **630680204308**
Status : **Answered**
Chosen Option : **2**

Q.27 _____, ਵਿਸ਼ਵ ਸਿਹਤ ਸੰਗਠਨ ਦੇ ਇੱਕ ਡਿਪਟੀ ਡਾਇਰੈਕਟਰ-ਜਨਰਲ ਨੂੰ ਮਾਰਚ 2019 ਵਿੱਚ WHO ਦਾ ਮੁੱਖ ਵਿਗਿਆਨੀ ਨਿਯੁਕਤ ਕੀਤਾ ਗਿਆ ਹੈ।

Ans
1. ਡਾ.ਵਿਜੇਲਕਸ਼ਮੀ ਰਵਿੰਦਰਨਾਥ
2. ਡਾ.ਬਲਰਾਮ ਭਾਰਗਵ
3. ਡਾ.ਹਰਸ਼ ਵਰਧਨ
4. ਡਾ.ਸੋਮਿਆ ਸਵਾਮੀਨਾਥਨ

Question ID : **63068053898**
Option 1 ID : **630680207654**
Option 2 ID : **630680207656**
Option 3 ID : **630680207655**
Option 4 ID : **630680207657**
Status : **Answered**
Chosen Option : **1**

Website - www.dailyjobalert.in

Q.28 ਚੀਨ ਵਿੱਚ 1958 ਵਿੱਚ GDP ਵਿਕਾਸ ਨੂੰ ਉਤਸ਼ਾਹਿਤ ਕਰਨ ਲਈ ਇੱਕ ਮੁਹਿੰਮ ਸ਼ੁਰੂ ਕੀਤੀ ਗਈ ਸੀ ਜਿਸ ਨੂੰ _____ ਕਿਹਾ ਜਾਂਦਾ ਸੀ।

Ans
✗ 1. ਜੰਪ ਫਾਰਵਰਡ (Jump Forward)

✗ 2. ਗ੍ਰੇਟ ਇਕਨੋਮਿਕ ਬੂਸਟ (Great Economic Boost)

✗ 3. ਬਿੱਗ ਇਕਨੋਮਿਕ ਪੁਸ਼ (Big Economic Push)

✓ 4. ਗ੍ਰੇਟ ਲੀਪ ਫਾਰਵਰਡ (Great Leap Forward)

Question ID : **63068056723**
Option 1 ID : **630680218828**
Option 2 ID : **630680218827**
Option 3 ID : **630680218829**
Option 4 ID : **630680218826**
Status : **Answered**
Chosen Option : **2**

Q.29 ਹੇਠ ਲਿਖਿਆਂ ਵਿੱਚੋਂ ਕਿਹੜਾ ਸ਼ਬਦ ਭਾਰਤੀ ਸੰਵਿਧਾਨ ਦੀ ਮੂਲ ਪ੍ਰਸਤਾਵਨਾ ਵਿੱਚ ਨਹੀਂ ਸੀ?

Ans
✓ 1. ਸਮਾਜਵਾਦੀ

✗ 2. ਲੋਕਤੰਤਰੀ

✗ 3. ਸੁਤੰਤਰਤਾ

✗ 4. ਨਿਆਂ

Question ID : **630680100451**
Option 1 ID : **630680390501**
Option 2 ID : **630680390503**
Option 3 ID : **630680390500**
Option 4 ID : **630680390502**
Status : **Answered**
Chosen Option : **1**

Q.30 ਹੇਠ ਲਿਖੇ ਪ੍ਰਬੰਧਾਂ ਵਿੱਚੋਂ ਕਿਹੜਾ ਭਾਰਤ ਦੇ ਸੰਵਿਧਾਨ ਦਾ ਅਨਿੱਖੜਵਾਂ ਅੰਗ ਹੈ?

Ans
✗ 1. ਨਿਵਾਰਕ ਖ਼ਾਤਮਾ (Preventive elimination)

✗ 2. ਨਿਵਾਰਕ ਖੰਡਨ (Preventive evasion)

✗ 3. ਨਿਵਾਰਕ ਬਾਈਕਾਟ (Preventive exclusion)

✓ 4. ਨਿਵਾਰਕ ਨਜ਼ਰਬੰਦੀ (Preventive detention)

Question ID : **630680160046**
Option 1 ID : **630680619569**
Option 2 ID : **630680619570**
Option 3 ID : **630680619571**
Option 4 ID : **630680619568**
Status : **Answered**
Chosen Option : **1**

Website - www.dailyjobalert.in

Q.31 ਜਗਰਾਓਂ ਵਿੱਚ ਪੀਰ ਬਾਬਾ ਮੋਹਕਮਦੀਨ ਦੀ ਮਜ਼ਾਰ 'ਤੇ ਹੇਠ ਲਿਖੇ ਵਿੱਚੋਂ ਕਿਹੜਾ ਮੇਲਾ ਲਗਦਾ ਹੈ ਜੋ ਤਿੰਨ ਦਿਨ ਚੱਲਦਾ ਹੈ?

Ans
✗ 1. ਕਿਲਾ ਰਾਏਪੁਰ ਖੇਡ ਮੇਲਾ
✓ 2. ਰੋਸ਼ਨੀ ਮੇਲਾ
✗ 3. ਬਠਿੰਡਾ ਵਿਰਾਸਤ ਮੇਲਾ
✗ 4. ਸੰਗਰੂਰ ਵਿਰਾਸਤੀ ਮੇਲਾ

Question ID : **630680238583**
Option 1 ID : **630680925350**
Option 2 ID : **630680925351**
Option 3 ID : **630680925349**
Option 4 ID : **630680925348**
Status : **Answered**
Chosen Option : **1**

Q.32 ਹੇਠ ਲਿਖੇ ਸੰਵਿਧਾਨਕ ਸੰਸ਼ੋਧਨ ਐਕਟਾਂ ਵਿੱਚੋਂ ਕਿਹੜੇ ਨੇ ਇੱਕੋ ਵਿਅਕਤੀ ਨੂੰ ਦੋ ਜਾਂ ਦੋ ਤੋਂ ਵੱਧ ਰਾਜਾਂ ਲਈ ਰਾਜਪਾਲ ਵਜੋਂ ਨਿਯੁਕਤ ਕਰਨ ਦੀ ਸਹੂਲਤ ਦਿੱਤੀ?

Ans
✓ 1. ਸੱਤਵੇਂ
✗ 2. ਨੌਵੇਂ
✗ 3. ਛੇਵੇਂ
✗ 4. ਅੱਠਵੇਂ

Question ID : **63068099220**
Option 1 ID : **630680385585**
Option 2 ID : **630680385587**
Option 3 ID : **630680385584**
Option 4 ID : **630680385586**
Status : **Answered**
Chosen Option : **2**

Q.33 ਦਸੰਬਰ 2020 ਵਿੱਚ ਫਾਰਮੂਲਾ 2 ਰੇਸ ਜਿੱਤਣ ਵਾਲਾ ਸਭ ਤੋਂ ਪਹਿਲਾ ਭਾਰਤੀ ਕੌਣ ਬਣਿਆ?

Ans
✓ 1. ਜੇਹਾਨ ਦਾਰੂਵਾਲਾ
✗ 2. ਅਰਜੁਨ ਮੈਨੀ
✗ 3. ਕਰੁਣ ਚੰਡੋਕ
✗ 4. ਮਹਾਵੀਰ ਰਘੁਨਾਥਨ

Question ID : **630680112686**
Option 1 ID : **630680436438**
Option 2 ID : **630680436441**
Option 3 ID : **630680436439**
Option 4 ID : **630680436440**
Status : **Answered**
Chosen Option : **2**

Website - www.dailyjobalert.in

Q.34 ਸੰਘ ਦੀ ਅਧਿਕਾਰਤ ਭਾਸ਼ਾ ਦੇਵਨਾਗਰੀ ਲਿਪੀ ਵਿੱਚ ਹਿੰਦੀ ਹੋਵੇਗੀ। ਸੰਘ ਦੇ ਅਧਿਕਾਰਤ ਉਦੇਸ਼ਾਂ ਲਈ ਵਰਤੇ ਜਾਣ ਵਾਲੇ ਅੰਕਾਂ ਦਾ ਰੂਪ ਭਾਰਤੀ ਅੰਕਾਂ ਦਾ ਅੰਤਰਰਾਸ਼ਟਰੀ ਰੂਪ ਹੋਵੇਗਾ। ਇਹ ਭਾਰਤੀ ਸੰਵਿਧਾਨ ਦੇ ਕਿਸ ਅਨੁਛੇਦ ਅਧੀਨ ਵਰਣਨ ਕੀਤਾ ਗਿਆ ਹੈ?

Ans

✗ 1. ਅਨੁਛੇਦ 13

✗ 2. ਅਨੁਛੇਦ 370 (2)

✓ 3. ਅਨੁਛੇਦ 343(1)

✗ 4. ਅਨੁਛੇਦ 354(1)

Question ID : **630680212775**
Option 1 ID : **630680825237**
Option 2 ID : **630680825236**
Option 3 ID : **630680825235**
Option 4 ID : **630680825238**
Status : **Answered**
Chosen Option : **1**

Q.35 ਹੇਠ ਦਿੱਤਿਆਂ ਵਿੱਚੋਂ ਕਿਸ ਨੇ 'ਗੁਰੂ ਨਾਨਕ ਨੈਵੀਗੇਸ਼ਨ ਕੰਪਨੀ' ਦੀ ਸਥਾਪਨਾ ਕੀਤੀ, ਜਿਸ ਨੇ 24 ਮਾਰਚ 1914 ਨੂੰ ਜਪਾਨ ਤੋਂ ਕਾਮਾਗਾਟਾਮਾਰੂ ਜਹਾਜ਼ ਕਿਰਾਏ ਉੱਤੇ ਲਿਆ ਸੀ?

Ans

✗ 1. ਬਾਬਾ ਦਿਆਲ ਸਿੰਘ

✗ 2. ਸੁੰਦਰ ਸਿੰਘ ਮਜੀਠੀਆ

✓ 3. ਬਾਬਾ ਗੁਰਦਿੱਤ ਸਿੰਘ

✗ 4. ਸਰਦਾਰ ਠਾਕੁਰ ਸਿੰਘ ਸੰਧਾਵਾਲੀਆ

Question ID : **630680238567**
Option 1 ID : **630680925284**
Option 2 ID : **630680925286**
Option 3 ID : **630680925285**
Option 4 ID : **630680925287**
Status : **Answered**
Chosen Option : **3**

Q.36 ਹੇਠ ਲਿਖਿਆਂ ਵਿੱਚੋਂ ਕਿਹੜਾ ਭਾਰਤੀ ਪੰਜਾਬ ਖੇਤਰ ਵਿੱਚ ਔਰਤਾਂ ਦਾ ਪ੍ਰਸਿੱਧ ਲੋਕ ਨਾਚ ਹੈ?

Ans

✗ 1. ਕੋਇਰੀਆ ਨਾਚ

✗ 2. ਲੋਰ ਨਾਚ

✗ 3. ਬਾਗੜ ਨਾਚ

✓ 4. ਗਿੱਧਾ ਨਾਚ

Question ID : **630680238541**
Option 1 ID : **630680925182**
Option 2 ID : **630680925181**
Option 3 ID : **630680925180**
Option 4 ID : **630680925183**
Status : **Answered**
Chosen Option : **4**

Website - www.dailyjobalert.in

Q.37 22 ਨਵੰਬਰ, 2021 ਨੂੰ ਸਕੂਲੀ ਬੱਚਿਆਂ ਲਈ ਭਾਰਤ ਦੀ ਪਹਿਲੀ ਵਰਚੁਅਲ ਸਾਇੰਸ ਲੈਬ ਕਿਸ ਯੋਜਨਾ ਦੇ ਤਹਿਤ ਸ਼ੁਰੂ ਕੀਤੀ ਗਈ?

Ans
✔ 1. CSIR ਜਿਗਿਆਸਾ
✘ 2. ਕਿਸ਼ੋਰ ਵਿਗਿਆਨਕ ਪ੍ਰੋਤਸਾਹਨ ਯੋਜਨਾ (KVPY)
✘ 3. ਇੰਸਪਾਇਰ ਮਾਨਕ ਅਵਾਰਡ ਪ੍ਰੋਗਰਾਮ
✘ 4. ਵਿਗਿਆਨ ਜਯੋਤੀ ਪ੍ਰੋਗਰਾਮ

Question ID : **630680112008**
Option 1 ID : **630680433758**
Option 2 ID : **630680433759**
Option 3 ID : **630680433760**
Option 4 ID : **630680433761**
Status : **Answered**
Chosen Option : **2**

Q.38 ਨੇਪਾਲ ਦੇ ਹੇਠਲੇ ਸ਼ਾਸਕਾਂ ਵਿੱਚੋਂ ਕਿਸ ਨੇ 1857 ਦੇ ਵਿਦਰੋਹ ਵਿੱਚ ਈਸਟ ਇੰਡੀਆ ਕੰਪਨੀ ਦੀ ਮਦਦ ਲਈ ਆਪਣੀ ਫੌਜ ਭੇਜੀ ਸੀ?

Ans
✘ 1. ਪਦਮ ਸ਼ਮਸ਼ੇਰ ਜੰਗ
✘ 2. ਰਾਣਾ ਬਹਾਦਰ
✘ 3. ਭੀਮਸੇਨ ਥਾਪਾ
✔ 4. ਜੰਗ ਬਹਾਦਰ ਰਾਣਾ

Question ID : **630680146036**
Option 1 ID : **630680565044**
Option 2 ID : **630680565045**
Option 3 ID : **630680565042**
Option 4 ID : **630680565043**
Status : **Answered**
Chosen Option : **3**

Q.39 ਬੱਚਿਆਂ ਵਿੱਚ ਕ੍ਰੇਟੀਨਿਜਮ (cretinism) ਦੇ ਰੂਪ ਵਿੱਚ ਪ੍ਰਗਟ ਹੋਣ ਵਾਲੀ ਸਥਿਤੀ ਨੂੰ ਕੀ ਕਿਹਾ ਜਾਂਦਾ ਹੈ?

Ans
✔ 1. ਗੋਇਟਰ (Goitre)
✘ 2. ਲੇਥਾਰਗੀ (Lethargy)
✘ 3. ਅਨੀਮੀਆ (Anaemia)
✘ 4. ਸ਼ਾਰਟਨੈਸ ਆਫ ਬ੍ਰੀਦ (Shortness of breath)

Question ID : **63068054933**
Option 1 ID : **630680211763**
Option 2 ID : **630680211762**
Option 3 ID : **630680211764**
Option 4 ID : **630680211765**
Status : **Answered**
Chosen Option : **3**

Website - www.dailyjobalert.in

Q.40 ਪਲਾਸਟਿਕ ਵੇਸਟ ਮੈਨੇਜਮੈਂਟ ਸੋਧ ਨਿਯਮ 2021 ਦੇ ਤਹਿਤ ਹੇਠਾਂ ਦਿੱਤਿਆਂ ਵਿੱਚੋਂ ਕਿਸ ਦਾ ਐਲਾਨ ਕੀਤਾ ਗਿਆ ਹੈ?

Ans

✗ 1. 2025 ਤੱਕ ਪਲਾਸਟਿਕ ਦੇ ਉਤਪਾਦਾਂ ਦੀ ਵਰਤੋਂ ਉੱਤੇ ਰੋਕ

✓ 2. 2022 ਤੱਕ ਚਿੰਨ੍ਹਿਤ ਇਕਹਿਰੀ ਵਰਤੋਂ ਵਾਲੀਆਂ ਪਲਾਸਟਿਕ ਵਸਤੂਆਂ 'ਤੇ ਰੋਕ

✗ 3. 2025 ਤੱਕ ਪਲਾਸਟਿਕ ਕੂੜੇ ਨੂੰ ਜਲਾਉਣ 'ਤੇ ਪਾਬੰਦੀ

✗ 4. 2023 ਤੱਕ ਸਮੁੰਦਰੀ ਕੂੜੇ ਉੱਤੇ ਰੋਕ

Question ID : **630680112114**
Option 1 ID : **630680434185**
Option 2 ID : **630680434184**
Option 3 ID : **630680434182**
Option 4 ID : **630680434183**
Status : **Answered**
Chosen Option : **1**

Q.41 12 ਅਗਸਤ 2021 ਨੂੰ, DRDO ਨੇ ਮੱਧ ਦੂਰੀ ਦੀ ਕਿਹੜੀ ਸਬਸੋਨਿਕ ਕਰੂਜ਼ ਮਿਸਾਇਲ ਦਾ ਸਫਲਤਾਪੂਰਵਕ ਪ੍ਰੀਖਣ ਕੀਤਾ?

Ans

✓ 1. ਨਿਰਭੈ (NIRBHAY)

✗ 2. ਬ੍ਰਹਮੋਸ (BRAHMOS)

✗ 3. ਅਗਨੀ VI (AGNI VI)

✗ 4. ਨਾਗ (NAG)

Question ID : **630680100129**
Option 1 ID : **630680389212**
Option 2 ID : **630680389215**
Option 3 ID : **630680389213**
Option 4 ID : **630680389214**
Status : **Answered**
Chosen Option : **2**

Q.42 ਕਿਸਾਨ ਕ੍ਰੈਡਿਟ ਕਾਰਡ ਸਕੀਮ, 1998-99 ਵਿੱਚ ਕਿਸਾਨਾਂ ਨੂੰ _____ ਕਰਜ ਪ੍ਰਦਾਨ ਕਰਨ ਲਈ ਸ਼ੁਰੂ ਕੀਤੀ ਗਈ ਸੀ।

Ans

✓ 1. ਲਘੂ-ਕਾਲੀਨ

✗ 2. ਆਵਧਿਕ ਕਰਜ਼

✗ 3. ਦੀਰਘ-ਕਾਲੀਨ

✗ 4. ਬੀਜਾਂ 'ਤੇ

Question ID : **63068050623**
Option 1 ID : **630680194808**
Option 2 ID : **630680194809**
Option 3 ID : **630680194806**
Option 4 ID : **630680194807**
Status : **Answered**
Chosen Option : **4**

Website - www.dailyjobalert.in

Q.43 ਹੇਠ ਦਿੱਤਿਆਂ ਵਿੱਚੋਂ ਕਿਹੜੇ ਸਾਲ, ਭਾਰਤੀ ਰਾਸ਼ਟਰੀ ਕਾਂਗਰਸ ਦਾ ਇਜਲਾਸ ਲਖਨਊ ਵਿੱਚ ਹੋਇਆ, ਜਿੱਥੇ ਜਵਾਹਰ ਲਾਲ ਨਹਿਰੂ ਪ੍ਰਧਾਨ ਸਨ?

Ans
1. 1938
2. 1936
3. 1935
4. 1939

Question ID : **630680160033**
Option 1 ID : **630680619518**
Option 2 ID : **630680619517**
Option 3 ID : **630680619516**
Option 4 ID : **630680619519**
Status : **Answered**
Chosen Option : **2**

Q.44 _____ ਦੀ ਸਥਾਪਨਾ ਭਾਰਤ ਵਿੱਚ ਕਿਸਾਨਾਂ ਨੂੰ ਲਾਭ ਪਹੁੰਚਾਉਣ ਲਈ ਖੇਤੀਬਾੜੀ ਉਤਪਾਦਾਂ ਦੀ ਸਹਿਕਾਰੀ ਮੰਡੀਕਰਨ ਨੂੰ ਉਤਸ਼ਾਹਿਤ ਕਰਨ ਦੇ ਉਦੇਸ਼ ਨਾਲ ਕੀਤੀ ਗਈ ਸੀ।

Ans
1. ICAR
2. NAFED
3. NABARD
4. ICMR

Question ID : **630680134673**
Option 1 ID : **630680521513**
Option 2 ID : **630680521510**
Option 3 ID : **630680521511**
Option 4 ID : **630680521512**
Status : **Not Answered**
Chosen Option : **--**

Q.45 ਜਦੋਂ ਸਥੂਲ ਪੋਸ਼ਕ ਤੱਤਾਂ (macronutrients?) ਦੀ ਉੱਚਿਤ ਮਾਤਰਾ ਗ੍ਰਹਿਣ ਨਾ ਕੀਤੀ ਜਾਵੇ, ਤਾਂ ਕੀ ਹੁੰਦਾ ਹੈ?

Ans
1. ਪ੍ਰੋਟੀਨ ਊਰਜਾ ਕੁਪੋਸ਼ਣ (Protein energy malnutrition)
2. ਜਿਗਰ ਦੀ ਸੋਜ (Hepatitis)
3. ਬਚਪਨ ਦਾ ਅੰਨ੍ਹਾਪਨ (Childhood blindness)
4. ਬੌਨਾਪਨ (Stunting)

Question ID : **63068059478**
Option 1 ID : **630680229519**
Option 2 ID : **630680229518**
Option 3 ID : **630680229521**
Option 4 ID : **630680229520**
Status : **Answered**
Chosen Option : **1**

Website - www.dailyjobalert.in

Q.46 ਪਟਿਆਲਾ ਐਂਡ ਈਸਟ ਪੰਜਾਬ ਸਟੇਟਸ ਯੂਨੀਅਨ (PEPSU) ਦੀ ਸਥਾਪਨਾ ਹੇਠ ਲਿਖਿਆਂ ਵਿੱਚੋਂ ਕਿਸ ਸਾਲ ਹੋਈ ਸੀ?

Ans
✗ 1. 1951
✓ 2. 1948
✗ 3. 1950
✗ 4. 1949

Question ID : **630680238498**
Option 1 ID : **630680925011**
Option 2 ID : **630680925008**
Option 3 ID : **630680925010**
Option 4 ID : **630680925009**
Status : **Answered**
Chosen Option : **1**

Q.47 ਸ੍ਰੀ ਹਰਿਮੰਦਰ ਸਾਹਿਬ _____ ਦੇ ਨਾਂ ਨਾਲ ਮਸ਼ਹੂਰ ਹੈ।

Ans
✓ 1. ਗੋਲਡਨ ਟੈਂਪਲ
✗ 2. ਡਾਇਮੰਡ ਟੈਂਪਲ
✗ 3. ਲੋਟਸ ਟੈਂਪਲ
✗ 4. ਸਿਲਵਰ ਟੈਂਪਲ

Question ID : **630680238530**
Option 1 ID : **630680925137**
Option 2 ID : **630680925138**
Option 3 ID : **630680925139**
Option 4 ID : **630680925136**
Status : **Answered**
Chosen Option : **1**

Q.48 ਕਿਲਿਯੂਰ ਝਰਨਾ (Kiliyur waterfall) ਕਿੱਥੇ ਸਥਿਤ ਹੈ?

Ans
✗ 1. ਝਾਰਖੰਡ
✗ 2. ਕਰਨਾਟਕ
✓ 3. ਤਾਮਿਲਨਾਡੂ
✗ 4. ਕੇਰਲ

Question ID : **630680115192**
Option 1 ID : **630680446135**
Option 2 ID : **630680446136**
Option 3 ID : **630680446137**
Option 4 ID : **630680446134**
Status : **Answered**
Chosen Option : **4**

Website - www.dailyjobalert.in

Q.49 ਭਾਰਤ ਵਿੱਚ, ਹਰੇਕ ਰਾਜ ਦਾ ਰਾਜਪਾਲ ਇੱਕ ਅਜਿਹੇ ਵਿਅਕਤੀ ਨੂੰ ਰਾਜ ਦਾ _____ ਨਿਯੁਕਤ ਕਰੇਗਾ ਜੋ ਕਿਸੇ ਉੱਚ ਅਦਾਲਤ ਦਾ ਜੱਜ ਨਿਯੁਕਤ ਕੀਤੇ ਜਾਣ ਦੇ ਯੋਗ ਹੈ।

Ans

✗ 1. ਅਕਾਊਂਟੈਂਟ ਜਨਰਲ

✗ 2. ਕਾਨੂੰਨ ਕਮਿਸ਼ਨਰ

✗ 3. ਚੀਫ਼ ਜਸਟਿਸ

✓ 4. ਐਡਵੋਕੇਟ-ਜਨਰਲ

Question ID : **63068051533**
Option 1 ID : **630680198368**
Option 2 ID : **630680198366**
Option 3 ID : **630680198367**
Option 4 ID : **630680198369**
Status : **Answered**
Chosen Option : **3**

Q.50 2021 ਵਿੱਚ ਕਿਸ ਸੰਸਥਾ ਦੇ ਨਾਲ ਭਾਰਤ ਸਰਕਾਰ ਦੇ ਝਾਰਖੰਡ ਰਾਜ ਦੇ ਚਾਰ ਸ਼ਹਿਰਾਂ ਵਿੱਚ ਪਾਣੀ ਦੀ ਪੂਰਤੀ ਦੇ ਬੁਨਿਆਦੀ ਢਾਂਚੇ ਨੂੰ ਵਿਕਸਿਤ ਕਰਨ ਅਤੇ ਸ਼ਹਿਰੀ ਸਥਾਨਕ ਸੰਸਥਾਵਾਂ ਦੀ ਸਮਰੱਥਾ ਨੂੰ ਮਜ਼ਬੂਤ ਬਣਾਉਣ ਲਈ 112 ਮਿਲਿਅਨ ਡਾਲਰ ਦੇ ਕਰਜ਼ੇ 'ਤੇ ਹਸਤਾਖਰ ਕੀਤੇ?

Ans

✓ 1. ਏਸ਼ੀਅਨ ਡਿਵੈਲਪਮੈਂਟ ਬੈਂਕ (Asian Development Bank)

✗ 2. ਅੰਤਰਰਾਸ਼ਟਰੀ ਮੁਦਰਾ ਫੰਡ (International Monetary Fund)

✗ 3. ਵਿਸ਼ਵ ਬੈਂਕ (World Bank)

✗ 4. ਪੁਨਰ-ਨਿਰਮਾਣ ਅਤੇ ਵਿਕਾਸ ਲਈ ਅੰਤਰਰਾਸ਼ਟਰੀ ਬੈਂਕ (International Bank for Reconstruction and Development)

Question ID : **63068053269**
Option 1 ID : **630680205180**
Option 2 ID : **630680205181**
Option 3 ID : **630680205178**
Option 4 ID : **630680205179**
Status : **Answered**
Chosen Option : **3**

DAILY JOB Alert ਪੰਜਾਬ

Section : **Quantitative Aptitude and Numerical Skills**

Q.51 ਜੇਕਰ $\frac{(\sqrt{1455}-\sqrt{1239})^{\frac{2}{3}}\times(\sqrt{1239}+\sqrt{1455})^{\frac{2}{3}}}{\left(\sqrt[6]{8}+\frac{1}{\sqrt[6]{8}}\right)\left(\sqrt[3]{8}-1+\frac{1}{\sqrt[3]{8}}\right)\left(\sqrt[6]{8}-\frac{1}{\sqrt[6]{8}}\right)\left(\sqrt[3]{8}+1+\frac{1}{\sqrt[3]{8}}\right)} = m\frac{m}{n}$, ਜਿੱਥੇ m ਅਤੇ n ਪ੍ਰਾਕ੍ਰਿਤਕ ਸੰਖਿਆਵਾਂ ਹਨ, ਤਾਂ $2m(n+1)-n^2$ ਦਾ ਮੁੱਲ ਪਤਾ ਕਰੋ?

Ans

✗ 1. 16

✗ 2. 12

✗ 3. 21

✓ 4. 15

Question ID : **63068060152**
Option 1 ID : **630680232176**
Option 2 ID : **630680232177**
Option 3 ID : **630680232175**
Option 4 ID : **630680232174**
Status : **Not Answered**
Chosen Option : **--**

Q.52 ਉਹ ਸਭ ਤੋਂ ਛੋਟੀ ਸੰਖਿਆ ਪਤਾ ਕਰੋ ਜਿਸਨੂੰ 5,6,8,9 ਅਤੇ 15 ਨਾਲ ਭਾਗ ਕਰਨ 'ਤੇ ਹਰੇਕ ਸਥਿਤੀ ਵਿੱਚ 1 ਬਾਕੀ ਬਚਦਾ ਹੈ, ਪਰੰਤੂ 13 ਨਾਲ ਭਾਗ ਕਰਨ 'ਤੇ ਕੁਝ ਵੀ ਬਾਕੀ ਨਹੀਂ ਬਚਦਾ ਹੈ।

Ans
1. 3668
2. 3501
3. 3601
4. 4201

Question ID : **63068085708**
Option 1 ID : **630680332293**
Option 2 ID : **630680332292**
Option 3 ID : **630680332294**
Option 4 ID : **630680332295**
Status : **Answered**
Chosen Option : **1**

Q.53 ਇੱਕ ਰੋਲਰ ਦਾ ਵਿਆਸ 98 cm ਹੈ ਅਤੇ ਇਸਦੀ ਲੰਬਾਈ 90 cm ਹੈ। ਇੱਕ ਖੇਡ ਦੇ ਮੈਦਾਨ ਨੂੰ ਪੱਧਰਾ ਕਰਨ ਲਈ ਇਹ ਪੂਰੇ 100 ਚੱਕਰ (revolution) ਘੁੰਮਦਾ ਹੈ। ₹10 ਪ੍ਰਤੀ m^2 ਦੀ ਦਰ ਨਾਲ ਪੱਧਰੀਕਰਨ ਦੀ ਲਾਗਤ ਪਤਾ ਕਰੋ।

Ans
1. ₹ 2,772
2. ₹ 2,544
3. ₹ 2,472
4. ₹ 2,684

Question ID : **630680112613**
Option 1 ID : **630680436147**
Option 2 ID : **630680436149**
Option 3 ID : **630680436148**
Option 4 ID : **630680436146**
Status : **Not Answered**
Chosen Option : **--**

Q.54 ਇੱਕ ਦੁਕਾਨਦਾਰ ਨੇ ਅੰਕਿਤ ਮੁੱਲ 'ਤੇ 5% ਦੀ ਛੋਟ ਦੇਣ ਤੋਂ ਬਾਅਦ ਹੇਰਕ ਸਾੜੀ ਨੂੰ ₹266 ਵਿੱਚ ਵੇਚਿਆ। ਜੇਕਰ ਉਸਨੇ ਛੋਟ ਨਾ ਦਿੱਤੀ ਹੁੰਦੀ, ਤਾਂ ਉਸਨੂੰ ਖਰੀਦ ਮੁੱਲ 'ਤੇ 12% ਦਾ ਲਾਭ ਹੁੰਦਾ। ਹਰੇਕ ਸਾੜੀ ਦਾ ਖਰੀਦ ਮੁੱਲ ਕਿੰਨਾ ਸੀ?

Ans
1. ₹200
2. ₹280
3. ₹220
4. ₹250

Question ID : **630680105250**
Option 1 ID : **630680409080**
Option 2 ID : **630680409079**
Option 3 ID : **630680409081**
Option 4 ID : **630680409082**
Status : **Answered**
Chosen Option : **2**

Website - www.dailyjobalert.in

Q.55 ₹970 ਦੀ ਰਕਮ ਨੂੰ A, B ਅਤੇ C ਵਿੱਚ ਇਸ ਤਰ੍ਹਾਂ ਵੰਡਿਆ ਜਾਣਾ ਹੈ ਕਿ ਜੇਕਰ ਉਹਨਾਂ ਨੂੰ ਕ੍ਰਮਵਾਰ ₹2, ₹5, ₹7 ਵੱਧ ਮਿਲਦੇ ਹਨ, ਤਾਂ ਉਹਨਾਂ ਦੀਆਂ ਹਿੱਸੇਦਾਰੀਆਂ 3 : 4 : 5 ਦੇ ਅਨੁਪਾਤ ਵਿੱਚ ਹੋਣਗੀਆਂ। B (₹ ਵਿੱਚ) ਦਾ ਹਿੱਸਾ ਕੀ ਹੋਵੇਗਾ?

Ans
1. 403
2. 323 ✔
3. 452
4. 244

Question ID : **630680116183**
Option 1 ID : **630680450062**
Option 2 ID : **630680450064**
Option 3 ID : **630680450065**
Option 4 ID : **630680450063**
Status : **Answered**
Chosen Option : **2**

Q.56 100 cm ਉਚਾਈ ਅਤੇ 15 cm ਅਰਧ-ਵਿਆਸ ਵਾਲੇ ਇੱਕ ਠੋਸ ਧਾਤਵੀ ਸ਼ੰਕੂ ਨੂੰ, 5 cm ਅਰਧ-ਵਿਆਸ ਵਾਲੀਆਂ ਗੋਲਾਕਾਰ ਗੇਂਦਾ ਬਣਾਉਣ ਲਈ ਪਿਘਲਾਇਆ ਜਾਂਦਾ ਹੈ। ਅਜਿਹੀਆਂ ਕਿੰਨੀਆਂ ਗੇਂਦਾਂ ਬਣਾਈਆਂ ਜਾ ਸਕਦੀਆਂ ਹਨ?

Ans
1. 54
2. 45 ✔
3. 50
4. 40

Question ID : **630680101884**
Option 1 ID : **630680395895**
Option 2 ID : **630680395894**
Option 3 ID : **630680395892**
Option 4 ID : **630680395893**
Status : **Answered**
Chosen Option : **2**

Q.57 25 ਵਿਦਿਆਰਥੀਆਂ ਦੀ ਇੱਕ ਜਮਾਤ ਦਾ ਔਸਤ ਭਾਰ 42 kg ਹੈ। ਜਦੋਂ ਅਧਿਆਪਕ ਦਾ ਭਾਰ ਵੀ ਸ਼ਾਮਲ ਕੀਤਾ ਜਾਂਦਾ ਹੈ, ਤਾਂ ਔਸਤ ਭਾਰ 2 kg ਵੱਧਦਾ ਹੈ। ਅਧਿਆਪਕ ਦਾ ਭਾਰ ਕਿੰਨਾ ਹੈ?

Ans
1. 68
2. 45
3. 56
4. 94 ✔

Question ID : **630680116245**
Option 1 ID : **630680450303**
Option 2 ID : **630680450305**
Option 3 ID : **630680450304**
Option 4 ID : **630680450302**
Status : **Answered**
Chosen Option : **2**

Website - www.dailyjobalert.in

Q.58 ਇੱਕ ਦੁਕਾਨਦਾਰ ₹300 ਦੀ ਇੱਕ ਵਸਤੂ 'ਤੇ ਕ੍ਰਮਵਾਰ 20% ਅਤੇ 10% ਦੀ ਛੋਟ ਦੀ ਪੇਸ਼ਕਸ਼ ਕਰਦਾ ਹੈ। ਵਸਤੂ ਦਾ ਵੇਚਮੁੱਲ ਪਤਾ ਕਰੋ।

Ans
✔ 1. ₹216

✗ 2. ₹210

✗ 3. ₹220

✗ 4. ₹200

Question ID : **630680119755**
Option 1 ID : **630680464099**
Option 2 ID : **630680464098**
Option 3 ID : **630680464100**
Option 4 ID : **630680464101**
Status : **Answered**
Chosen Option : **3**

Q.59 $\frac{2}{3}, \frac{4}{5}$ ਅਤੇ $\frac{6}{7}$ ਦਾ LCM ਹੈ:

Ans
✔ 1. 12

✗ 2. $\frac{1}{12}$

✗ 3. 24

✗ 4. $\frac{1}{24}$

Question ID : **63068085706**
Option 1 ID : **630680332286**
Option 2 ID : **630680332287**
Option 3 ID : **630680332285**
Option 4 ID : **630680332284**
Status : **Answered**
Chosen Option : **1**

DAILY JOB Alert ਪੰਜਾਬ

Q.60 ਰਾਜੀਵ 10.5% ਸਲਾਨਾ ਦਰ ਨਾਲ ਮਿਸ਼ਰਿਤ ਵਿਆਜ ਦੇ ਹਿਸਾਬ ਨਾਲ ₹1,000 ਉਧਾਰ ਦਿੰਦਾ ਹੈ, ਜਿੱਥੇ ਵਿਆਜ ਸਲਾਨਾ ਜੋੜਿਆ ਜਾਂਦਾ ਹੈ ਅਤੇ ਕਪਿਲ 10% ਸਲਾਨਾ ਦਰ ਨਾਲ ਮਿਸ਼ਰਿਤ ਵਿਆਜ ਦੇ ਹਿਸਾਬ ਨਾਲ ਓਨੀ ਹੀ ਰਕਮ ਉਧਾਰ ਦਿੰਦਾ ਹੈ, ਜਿੱਥੇ ਵਿਆਜ ਛਿਮਾਹੀ ਵਜੋਂ ਜੋੜਿਆ ਜਾਂਦਾ ਹੈ। ਸਾਲ ਦੇ ਅੰਤ 'ਤੇ, ਕੌਣ ਜ਼ਿਆਦਾ ਅਤੇ ਕਿੰਨੀ ਜਿਆਦਾ ਕਮਾਈ ਕਰਦਾ ਹੈ?

Ans
✗ 1. ਕਪਿਲ ₹5
✓ 2. ਰਾਜੀਵ ₹2.50
✗ 3. ਕਪਿਲ ₹2.50
✗ 4. ਰਾਜੀਵ ₹5

Question ID : **630680151900**
Option 1 ID : **630680587647**
Option 2 ID : **630680587644**
Option 3 ID : **630680587645**
Option 4 ID : **630680587646**
Status : **Answered**
Chosen Option : **2**

Q.61 ਇੱਕ ਵਿਅਕਤੀ 400 ਅੰਬਾਂ ਦੇ ਖਰੀਦ ਮੁੱਲ 'ਤੇ 320 ਅੰਬ ਵੇਚਦਾ ਹੈ। ਉਸਦਾ ਲਾਭ ਪ੍ਰਤੀਸ਼ਤ ਪਤਾ ਕਰੋ।

Ans
✓ 1. 25%
✗ 2. 10%
✗ 3. 20%
✗ 4. 15%

Question ID : **630680222915**
Option 1 ID : **630680865422**
Option 2 ID : **630680865419**
Option 3 ID : **630680865421**
Option 4 ID : **630680865420**
Status : **Answered**
Chosen Option : **4**

Q.62 ਜੇਕਰ ਦੋ ਗੋਲਿਆਂ ਦੇ ਅਰਧ-ਵਿਆਸ ਦਾ ਅਨੁਪਾਤ 5 : 4 ਹੈ, ਤਾਂ ਉਹਨਾਂ ਦੇ ਆਇਤਨ _____ ਦੇ ਅਨੁਪਾਤ ਵਿੱਚ ਹੋਣਗੇ।

Ans
✓ 1. 125 : 64
✗ 2. 64 : 125
✗ 3. 4 : 5
✗ 4. 5 : 4

Question ID : **630680108222**
Option 1 ID : **630680419950**
Option 2 ID : **630680419951**
Option 3 ID : **630680419948**
Option 4 ID : **630680419949**
Status : **Answered**
Chosen Option : **1**

Website - www.dailyjobalert.in

Q.63 29758 ਨੂੰ ਇਕ ਸੰਖਿਆ ਦੁਆਰਾ ਭਾਗ ਕਰਨ 'ਤੇ, ਭਾਗਫਲ ਦੇ ਰੂਪ ਵਿੱਚ 234 ਪ੍ਰਾਪਤ ਹੁੰਦਾ ਹੈ ਅਤੇ ਬਾਕੀ ਦੇ ਰੂਪ ਵਿੱਚ 40 ਪ੍ਰਾਪਤ ਹੁੰਦਾ ਹੈ। ਭਾਜਕ ਪਤਾ ਕਰੋ

Ans
✔ 1. 127
✘ 2. 143
✘ 3. 137
✘ 4. 153

Question ID : **630680102028**
Option 1 ID : **630680396468**
Option 2 ID : **630680396470**
Option 3 ID : **630680396469**
Option 4 ID : **630680396471**
Status : **Answered**
Chosen Option : **1**

Q.64 ਹੇਠਾਂ ਦਿੱਤੇ ਨੂੰ ਸਰਲ ਕਰੋ।
12.0737 − [5 + 0.05 of (4.1 − 1.3 × 2.02)]

Ans
✔ 1. 7.0
✘ 2. 7.3
✘ 3. 7.1
✘ 4. 7.2

Question ID : **630680103462**
Option 1 ID : **630680402091**
Option 2 ID : **630680402094**
Option 3 ID : **630680402092**
Option 4 ID : **630680402093**
Status : **Answered**
Chosen Option : **4**

Q.65 $1 \div \frac{3}{7}$ of $(6 + 8 \times 1) + \left[\frac{1}{5} \div \frac{7}{25} - 1\right]$ ਦਾ ਮੁੱਲ ਪਤਾ ਕਰੋ।

Ans
✔ 1. $-\frac{5}{42}$
✘ 2. $\frac{5}{42}$
✘ 3. $-\frac{1}{42}$
✘ 4. $-\frac{5}{47}$

Question ID : **630680137266**
Option 1 ID : **630680531660**
Option 2 ID : **630680531659**
Option 3 ID : **630680531658**
Option 4 ID : **630680531661**
Status : **Answered**
Chosen Option : **3**

Website - www.dailyjobalert.in

Q.66 ਕਿਸੇ ਸੰਖਿਆ ਦਾ ਤਿੰਨ ਗੁਣਾ 12 ਨਾਲ ਭਾਗਯੋਗ ਹੈ ਅਤੇ ਸੰਖਿਆ ਦਾ ਦੋ ਗੁਣਾ 18 ਨਾਲ ਭਾਗਯੋਗ ਹੈ। ਸੰਖਿਆ _____ ਨਾਲ ਭਾਗਯੋਗ ਹੈ।

Ans
1. 38
2. 42
3. 30
4. 36

Question ID : **63068094937**
Option 1 ID : **630680368444**
Option 2 ID : **630680368445**
Option 3 ID : **630680368446**
Option 4 ID : **630680368443**
Status : **Answered**
Chosen Option : **2**

Q.67 ₹23,76,250 ਦਾ ਲਾਭ ਤਿੰਨ ਭਾਈਵਾਲਾਂ ਆਦਿਤਿਆ, ਬਾਲੂ ਅਤੇ ਚਿਰੰਤ ਵਿੱਚ ਅਨੁਪਾਤ 2 : 3 : 5 ਵਿੱਚ ਵੰਡਿਆ ਗਿਆ ਹੈ। ਲਾਭ ਵਿੱਚ ਬਾਲੂ ਦਾ ਹਿੱਸਾ (₹ ਵਿੱਚ) ਪਤਾ ਕਰੋ।

Ans
1. 7,12,875
2. 4,75,250
3. 7,21,875
4. 11,88,125

Question ID : **630680121165**
Option 1 ID : **630680469624**
Option 2 ID : **630680469623**
Option 3 ID : **630680469625**
Option 4 ID : **630680469622**
Status : **Answered**
Chosen Option : **4**

Q.68 ਹੇਠਾਂ ਦਿੱਤੇ ਅੰਕੜਿਆਂ ਦਾ ਬਹੁਲਕ ਪਤਾ ਕਰੋ।
15, 17, 26, 28, 16, 10, 28, 16, 28 ਅਤੇ 16

Ans
1. 16
2. 15
3. 10
4. 17

Question ID : **630680200483**
Option 1 ID : **630680777289**
Option 2 ID : **630680777287**
Option 3 ID : **630680777290**
Option 4 ID : **630680777288**
Status : **Answered**
Chosen Option : **1**

Website - www.dailyjobalert.in

Q.69 ਕਿਸੇ ਵਿਅਕਤੀ ਦੀ ਉਮਰ, ਉਸ ਦੀਆਂ ਦੋ ਪੁੱਤਰੀਆਂ ਦੀ ਉਮਰ ਦੇ ਜੋੜ ਦਾ ਚਾਰ ਗੁਣਾ ਹੈ। ਛੇ ਸਾਲ ਬਾਅਦ, ਉਸਦੀ ਉਮਰ, ਉਸਦੀਆਂ ਪੁੱਤਰੀਆਂ ਦੀ ਉਮਰ ਦੇ ਜੋੜ ਦਾ ਤਿੰਨ ਗੁਣਾ ਹੋ ਜਾਵੇਗੀ। ਵਿਅਕਤੀ ਦੀ ਵਰਤਮਾਨ ਉਮਰ ਪਤਾ ਕਰੋ।

Ans
✔ 1. 120 ਸਾਲ
✘ 2. 110 ਸਾਲ
✘ 3. 100 ਸਾਲ
✘ 4. 105 ਸਾਲ

Question ID : **630680195489**
Option 1 ID : **630680758428**
Option 2 ID : **630680758427**
Option 3 ID : **630680758425**
Option 4 ID : **630680758426**
Status : **Answered**
Chosen Option : **4**

Q.70 ਇੱਕ ਬਾਈਕ ਮਾਲਕ ਨੇ ਲਗਾਤਾਰ ਤਿੰਨ ਸਾਲਾਂ ਤੱਕ ₹4, ₹5 ਅਤੇ ₹6 ਪ੍ਰਤੀ ਲੀਟਰ ਦੇ ਹਿਸਾਬ ਨਾਲ ਪੈਟਰੋਲ ਖਰੀਦਿਆ। ਜੇਕਰ ਉਹ ਹਰ ਸਾਲ ₹1,000 ਖਰਚ ਕਰਦਾ ਹੈ ਤਾਂ ਪ੍ਰਤੀ ਲੀਟਰ ਪੈਟਰੋਲ ਦਾ ਔਸਤ ਮੁੱਲ ਪਤਾ ਕਰੋ।

Ans
✘ 1. ₹4.54
✘ 2. ₹5.86
✔ 3. ₹4.86
✘ 4. ₹5.57

Question ID : **630680114252**
Option 1 ID : **630680442411**
Option 2 ID : **630680442413**
Option 3 ID : **630680442410**
Option 4 ID : **630680442412**
Status : **Answered**
Chosen Option : **3**

Q.71 ਇੱਕ ਘਣ ਦੇ ਪਾਸਿਆਂ ਦੀ ਲੰਬਾਈ 1.4 cm ਹੈ। ਇਸਦਾ ਆਇਤਨ ਕਿੰਨਾ ਹੋਵੇਗਾ?

Ans
✘ 1. 16.64 cm^3
✘ 2. 1.6 cm^3
✘ 3. 2.8 cm^3
✔ 4. 2.744 cm^3

Question ID : **630680105280**
Option 1 ID : **630680409197**
Option 2 ID : **630680409195**
Option 3 ID : **630680409198**
Option 4 ID : **630680409196**
Status : **Answered**
Chosen Option : **1**

Website - www.dailyjobalert.in

Q.72 ਇੱਕ ਪਾਈਪ ਇੱਕ ਟੈਂਕ ਨੂੰ ਦੂਜੀ ਪਾਈਪ ਨਾਲੋਂ 11 ਗੁਣਾ ਤੇਜ਼ੀ ਨਾਲ ਭਰ ਸਕਦੀ ਹੈ। ਜੇਕਰ ਦੋਵੇਂ ਪਾਈਪਾਂ ਮਿਲ ਕੇ 33 ਮਿੰਟਾਂ ਵਿੱਚ ਇਸ ਟੈਂਕ ਨੂੰ ਭਰ ਸਕਦੀਆਂ ਹਨ, ਤਾਂ ਇਕੱਲੀ ਤੇਜ਼ ਪਾਈਪ _____ ਵਿੱਚ ਟੈਂਕ ਨੂੰ ਭਰਨ ਦੇ ਯੋਗ ਹੋਵੇਗੀ।

Ans
✔ 1. 36 ਮਿੰਟ
✘ 2. 81 ਮਿੰਟ
✘ 3. 121 ਮਿੰਟ
✘ 4. 396 ਮਿੰਟ

Question ID : **630680153252**
Option 1 ID : **630680592943**
Option 2 ID : **630680592940**
Option 3 ID : **630680592942**
Option 4 ID : **630680592941**
Status : **Not Answered**
Chosen Option : **--**

Q.73 ਇੱਕ ਵਾਈਨ ਬੈਰਲ ਵਿੱਚ 3 : 1 ਦੇ ਅਨੁਪਾਤ ਵਿੱਚ 24 ਲੀਟਰ ਵਾਈਨ ਅਤੇ ਪਾਣੀ ਦਾ ਮਿਸ਼ਰਣ ਹੈ। ਵਾਈਨ ਅਤੇ ਪਾਣੀ ਦੀ ਮਾਤਰਾ ਨੂੰ ਬਰਾਬਰ ਬਣਾਉਣ ਲਈ, ਮਿਸ਼ਰਣ ਦਾ 'x' ਲੀਟਰ ਕੱਢ ਕੇ 11 ਲੀਟਰ ਪਾਣੀ ਮਿਲਾਇਆ ਜਾਂਦਾ ਹੈ। 'x' (ਲੀਟਰ ਵਿੱਚ) ਦਾ ਮੁੱਲ ਕੀ ਹੋਵੇਗਾ?

Ans
✘ 1. 1
✘ 2. 3
✘ 3. 5
✔ 4. 2

Question ID : **630680131586**
Option 1 ID : **630680509582**
Option 2 ID : **630680509584**
Option 3 ID : **630680509583**
Option 4 ID : **630680509585**
Status : **Answered**
Chosen Option : **4**

Q.74 ਜੇਕਰ 'P', '+' ਨੂੰ , 'Q', '−' ਨੂੰ, 'R', '×' ਨੂੰ ਅਤੇ 'S', '÷' ਨੂੰ ਦਰਸਾਉਂਦਾ ਹੈ, ਤਾਂ 70 Q 5 R 81 S 9 P 20 ਦਾ ਮੁੱਲ ਕੀ ਹੋਵੇਗਾ?

Ans
✘ 1. 55
✔ 2. 45
✘ 3. 58
✘ 4. 48

Question ID : **63068084409**
Option 1 ID : **630680327190**
Option 2 ID : **630680327191**
Option 3 ID : **630680327189**
Option 4 ID : **630680327188**
Status : **Answered**
Chosen Option : **3**

Website - www.dailyjobalert.in

Q.75 ਵੰਡ ਦਾ ਬਹੁਲਕ 8.1 ਦਿੱਤਾ ਗਿਆ ਹੈ ਅਤੇ ਵੰਡ ਦੀ ਮੱਧਿਕਾ 9.9 ਦਿੱਤੀ ਗਈ ਹੈ। ਅੰਕਗਣਿਤਿਕ ਮੱਧਮਾਨ, ਮੱਧਿਕਾ ਤੇ ਬਹੁਲਕ ਦੇ ਵਿਚਕਾਰ ਪ੍ਰਯੋਗਸਿੱਧ ਸੰਬੰਧ ਦੀ ਵਰਤੋਂ ਕਰਦੇ ਹੋਏ ਦਿੱਤੀ ਗਈ ਵੰਡ ਦਾ ਅੰਕਗਣਿਤਕ ਮੱਧਮਾਨ (arithmetic mean) ਪਤਾ ਕਰੋ।

Ans
1. 10.6
2. 10.9
3. 10.7
4. 10.8

Question ID : **630680196062**
Option 1 ID : **630680760638**
Option 2 ID : **630680760635**
Option 3 ID : **630680760637**
Option 4 ID : **630680760636**
Status : **Not Answered**
Chosen Option : **--**

Q.76 ₹10,000 'ਤੇ 20% ਦੀ ਛੋਟ ਅਤੇ ਉਸੇ ਰਕਮ 'ਤੇ 15% ਅਤੇ 5% ਦੀਆਂ ਕ੍ਰਮਵਾਰ ਦੋ ਛੋਟਾਂ ਵਿਚਕਾਰ ਕਿੰਨਾ ਅੰਤਰ ਹੈ?

Ans
1. ₹80
2. ₹105
3. ₹90
4. ₹75

Question ID : **630680167822**
Option 1 ID : **630680649916**
Option 2 ID : **630680649919**
Option 3 ID : **630680649918**
Option 4 ID : **630680649917**
Status : **Answered**
Chosen Option : **4**

Q.77 7 ਦਾ ਸਭ ਤੋਂ ਛੋਟਾ ਗੁਣਜ (multiple), ਜਿਸਨੂੰ 9,18,6 ਅਤੇ 15 ਨਾਲ ਭਾਗ ਕਰਨ 'ਤੇ 4 ਬਾਕੀ ਬਚਦਾ ਹੈ:

Ans
1. 362
2. 360
3. 366
4. 364

Question ID : **63068094396**
Option 1 ID : **630680366281**
Option 2 ID : **630680366280**
Option 3 ID : **630680366282**
Option 4 ID : **630680366279**
Status : **Answered**
Chosen Option : **3**

Website - www.dailyjobalert.in

Q.78 ਸਾਧਾਰਨ ਵਿਆਜ ਦੀ 3% ਸਲਾਨਾ ਦਰ 'ਤੇ ਉਧਾਰ ਦਿੱਤੀ ₹4,000 ਦੀ ਧਨਰਾਸ਼ੀ ਕਿੰਨੇ ਸਮੇਂ ਵਿੱਚ, ਸਾਧਾਰਨ ਵਿਆਜ ਦੀ 4% ਸਲਾਨਾ ਦਰ 'ਤੇ ₹5,000 ਦੇ ਮੂਲ-ਧਨ 'ਤੇ ਮਿਲਣ ਵਾਲੇ ਵਿਆਜ ਬਰਾਬਰ ਵਿਆਜ ਕਮਾ ਸਕੇਗੀ?

Ans

✗ 1. $7\frac{1}{2}$ ਸਾਲ

✗ 2. 9 ਸਾਲ

✓ 3. $8\frac{1}{3}$ ਸਾਲ

✗ 4. $7\frac{1}{3}$ ਸਾਲ

Question ID : **63068070181**
Option 1 ID : **630680271362**
Option 2 ID : **630680271365**
Option 3 ID : **630680271364**
Option 4 ID : **630680271363**
Status : **Not Answered**
Chosen Option : **--**

Q.79 ਇੱਕ ਵਿਅਕਤੀ ਸ਼ੁਰੂਆਤੀ ਬਿੰਦੂ ਤੋਂ 90 km/h ਦੀ ਚਾਲ ਨਾਲ ਇੱਕ ਨਿਸ਼ਚਿਤ ਦੂਰੀ ਨੂੰ ਪੂਰਾ ਕਰਦਾ ਹੈ ਅਤੇ 70 km/h ਦੀ ਚਾਲ ਨਾਲ ਸ਼ੁਰੂਆਤੀ ਬਿੰਦੂ 'ਤੇ ਵਾਪਸ ਆਉਂਦਾ ਹੈ। ਪੂਰੇ ਸਫ਼ਰ ਦੌਰਾਨ ਵਿਅਕਤੀ ਦੀ ਔਸਤ ਚਾਲ ਪਤਾ ਕਰੋ।

Ans

✗ 1. 75 km/h

✓ 2. 78.75 km/h

✗ 3. 74.7 km/h

✗ 4. 80 km/h

Question ID : **63068094354**
Option 1 ID : **630680366111**
Option 2 ID : **630680366113**
Option 3 ID : **630680366112**
Option 4 ID : **630680366114**
Status : **Answered**
Chosen Option : **4**

Q.80 $5\sqrt{5}$ m ਅਰਧ-ਵਿਆਸ ਵਾਲੇ ਕਿਸੇ ਸ਼ੰਕੂ ਦੀ ਉਚਾਈ 10 m ਹੈ। ਇਸ ਸ਼ੰਕੂ ਦੀ ਤਿਰਛੀ ਉਚਾਈ ਪਤਾ ਕਰੋ।

Ans

✗ 1. 18 m

✓ 2. 15 m

✗ 3. 12 m

✗ 4. 20 m

Question ID : **630680104382**
Option 1 ID : **630680405736**
Option 2 ID : **630680405737**
Option 3 ID : **630680405738**
Option 4 ID : **630680405735**
Status : **Answered**
Chosen Option : **4**

Website - www.dailyjobalert.in

Q.81 "ਘਰ ਵਿੱਚ ਪੈਦਾ ਹੋਇਆ ਪਹਿਲਾ ਪੁੱਤਰ" ਲਈ ਕਿਸੇ ਇਕ ਸਹੀ ਸ਼ਬਦ ਦੀ ਚੋਣ ਕਰੋ:-

Ans

✗ 1. ਮੁਹਰੀ

✗ 2. ਛਿੰਦਾ

✓ 3. ਪਲੇਠਾ

✗ 4. ਤਰਸੇਵਾਂ

Question ID : **630680241265**
Option 1 ID : **630680935502**
Option 2 ID : **630680935501**
Option 3 ID : **630680935500**
Option 4 ID : **630680935499**
Status : **Answered**
Chosen Option : **2**

Q.82 "ਨਿਰਮਲ" ਦਾ ਵਿਪਰੀਤਾਰਥਕ ਸ਼ਬਦ ਹੈ:-

Ans

✗ 1. ਸਵੱਛ

✗ 2. ਸ਼ੁੱਧ

✓ 3. ਦੂਸ਼ਿਤ

✗ 4. ਸਾਫ਼

Question ID : **630680241262**
Option 1 ID : **630680935488**
Option 2 ID : **630680935490**
Option 3 ID : **630680935487**
Option 4 ID : **630680935489**
Status : **Answered**
Chosen Option : **3**

Q.83 ਹੇਠ ਲਿਖਿਆਂ 'ਚੋਂ ਸ਼ੁੱਧ ਸ਼ਬਦ ਚੁਣੋ:-

Ans

✗ 1. ਦੁਪੈਹਰ

✗ 2. ਦੁਪ੍ਹੈਰ

✓ 3. ਦੁਪਹਿਰ

✗ 4. ਦੋਪਹਿਰ

Question ID : **630680241259**
Option 1 ID : **630680935475**
Option 2 ID : **630680935477**
Option 3 ID : **630680935478**
Option 4 ID : **630680935476**
Status : **Answered**
Chosen Option : **3**

Website - www.dailyjobalert.in

Q.84 "ਮਿਹਨਤੀ ਬੰਦੇ ਹਮੇਸ਼ਾ ਸੁੱਖ ਪਾਉਂਦੇ ਹਨ" ਵਾਕ ਹੈ:-

Ans
1. ✗ ਵਿਸਮੈ-ਵਾਚਕ
2. ✗ ਆਗਿਆ-ਵਾਚਕ
3. ✓ ਹਾਂ-ਵਾਚਕ
4. ✗ ਇੱਛਾ-ਵਾਚਕ

Question ID : **630680241258**
Option 1 ID : **630680935471**
Option 2 ID : **630680935472**
Option 3 ID : **630680935473**
Option 4 ID : **630680935474**
Status : **Answered**
Chosen Option : **3**

Q.85 "ਉਹ ਥਾਂ ਜਿਹੜੀ ਸਾਰੇ ਪਿੰਡ ਦੀ ਸਾਂਝੀ ਹੋਵੇ।" ਲਈ ਕਿਸੇ ਇਕ ਸਹੀ ਸ਼ਬਦ ਦੀ ਚੋਣ ਕਰੋ:-

Ans
1. ✗ ਪੰਚਾਇਤ
2. ✗ ਸੱਥ
3. ✓ ਸ਼ਾਮਲਾਟ
4. ✗ ਸੱਥਰ

Question ID : **630680241264**
Option 1 ID : **630680935497**
Option 2 ID : **630680935495**
Option 3 ID : **630680935498**
Option 4 ID : **630680935496**
Status : **Answered**
Chosen Option : **2**

Q.86 "ਜੇ ਤੁਸੀਂ ਮਿਹਨਤ ਕਰੋਗੇ ਤਾਂ ਪਾਸ ਹੋ ਜਾਓਗੇ।" ਵਾਕ ਵਿੱਚ ਯੋਜਕ ਹੈ:-

Ans
1. ✗ ਤੁਸੀਂ
2. ✓ ਜੇ-ਤਾਂ
3. ✗ ਤਾਂ
4. ✗ ਪਾਸ

Question ID : **630680241255**
Option 1 ID : **630680935460**
Option 2 ID : **630680935461**
Option 3 ID : **630680935459**
Option 4 ID : **630680935462**
Status : **Answered**
Chosen Option : **2**

Website - www.dailyjobalert.in

Q.87 ਹੇਠ ਲਿਖਿਆਂ ਵਿੱਚ ਕਿਹੜਾ ਸ਼ਬਦ 'ਅਲੌਕਿਕ' ਦਾ ਸਮਾਨਾਰਥਕ ਨਹੀਂ ਹੈ?

Ans
✗ 1. ਅਦਭੁੱਤ
✓ 2. ਨਿਰਮੂਲ
✗ 3. ਅਨੂਠਾ
✗ 4. ਅਲੋਕਾਰ

Question ID : **630680241261**
Option 1 ID : **630680935484**
Option 2 ID : **630680935485**
Option 3 ID : **630680935483**
Option 4 ID : **630680935486**
Status : **Answered**
Chosen Option : **2**

Q.88 " This is a very monotonous book" ਦਾ ਸਹੀ ਪੰਜਾਬੀ ਅਨੁਵਾਦ ਹੈ:-

Ans
✗ 1. ਇਹ ਪੁਸਤਕ ਬੜੀ ਬੋਰਿੰਗ ਹੈ।
✗ 2. ਇਹ ਬਹੁਤ ਈਸ਼ਵਰਵਾਦੀ ਪੁਸਤਕ ਹੈ।
✗ 3. ਇਹ ਬੜੀ ਅਨੋਖੀ ਪੁਸਤਕ ਹੈ।
✓ 4. ਇਹ ਬਹੁਤ ਨੀਰਸ ਪੁਸਤਕ ਹੈ।

Question ID : **630680241270**
Option 1 ID : **630680935519**
Option 2 ID : **630680935521**
Option 3 ID : **630680935522**
Option 4 ID : **630680935520**
Status : **Answered**
Chosen Option : **3**

Q.89 ਹੇਠ ਲਿਖੇ ਵਿਕਲਪਾਂ 'ਚੋਂ ਖਾਲੀ ਸਥਾਨ ਭਰੋ। "ਇਹ .....ਉਲਟੀ ਵੀ ਪਈ ਜਾ ਸਕਦੀ ਹੈ ਤੇ ਸਿੱਧੀ ਵੀ।"

Ans
✓ 1. ਸਵੈਟਰ
✗ 2. ਸਮੱਗਰੀ
✗ 3. ਕਾਰ
✗ 4. ਵੰਗ

Question ID : **630680241267**
Option 1 ID : **630680935508**
Option 2 ID : **630680935509**
Option 3 ID : **630680935510**
Option 4 ID : **630680935507**
Status : **Answered**
Chosen Option : **4**

DAILY JOB Alert ਪੰਜਾਬ

Q.90 ਕੁਝ ਬੱਚੇ ਅਜਿਹੇ ਵੀ ਹੁੰਦੇ ਹਨ ਜਿਹੜੇ ਮਾਂ ਬਾਪ ਦੀ ਸੇਵਾ ਕਰਦੇ ਹਨ ? ਵਾਕ ਦੀ ਕਿਸਮ ਹੈ:-

Ans
✔ 1. ਮਿਸ਼ਰਤ ਵਾਕ
✘ 2. ਸੰਯੁਕਤ ਵਾਕ
✘ 3. ਵਿਸਮਿਕ ਵਾਕ
✘ 4. ਸਧਾਰਨ ਵਾਕ

Question ID : **630680241256**
Option 1 ID : **630680935464**
Option 2 ID : **630680935465**
Option 3 ID : **630680935466**
Option 4 ID : **630680935463**
Status : **Answered**
Chosen Option : **4**

Q.91 ਹੇਠ ਲਿਖਿਆਂ ਵਿੱਚੋਂ ਸ਼ੁੱਧ ਸ਼ਬਦ ਦੀ ਚੋਣ ਕਰੋ:-

Ans
✘ 1. ਚਨ ਮੁੱਖੜਾ
✔ 2. ਚੰਨ ਮੁਖੜਾ
✘ 3. ਚਨ ਮੁਖੜਾ
✘ 4. ਚੰਨ੍ਹ ਮੁਖੜਾ

Question ID : **630680241260**
Option 1 ID : **630680935481**
Option 2 ID : **630680935480**
Option 3 ID : **630680935479**
Option 4 ID : **630680935482**
Status : **Answered**
Chosen Option : **2**

Q.92 ਹੇਠ ਲਿਖੇ ਵਿਕਲਪਾਂ 'ਚੋਂ ਖਾਲੀ ਸਥਾਨ ਭਰੋ। "ਇਸ ਸਕੂਲ ਦਾ ਮੁੱਖ.....ਉਤਰ ਵੱਲ ਹੈ।"

Ans
✘ 1. ਮਹਿਮਾਨ
✘ 2. ਵਿਦਿਆਰਥੀ
✔ 3. ਦਰਵਾਜ਼ਾ
✘ 4. ਅਧਿਆਪਕ

Question ID : **630680241266**
Option 1 ID : **630680935506**
Option 2 ID : **630680935505**
Option 3 ID : **630680935503**
Option 4 ID : **630680935504**
Status : **Answered**
Chosen Option : **3**

Website - www.dailyjobalert.in

Q.93 "ਜੇ ਤੁਸੀਂ ਮੇਰੀ ਮਦਦ ਕਰੋਗੇ ਤਾਂ ਮੈਂ ਤੁਹਾਡਾ ਧੰਨਵਾਦੀ ਹੋਵਾਂਗਾ।" ਵਾਕ ਦੀ ਕਿਸਮ ਹੈ:-

Ans
1. ਗੁੰਝਲਦਾਰ ਵਾਕ
2. ਸੰਯੁਕਤ ਵਾਕ
3. ਸਧਾਰਨ ਵਾਕ
4. ਮਿਸ਼ਰਤ ਵਾਕ

Question ID : **630680241257**
Option 1 ID : **630680935470**
Option 2 ID : **630680935468**
Option 3 ID : **630680935467**
Option 4 ID : **630680935469**
Status : **Answered**
Chosen Option : **4**

Q.94 "Junket"ਦਾ ਸਹੀ ਪੰਜਾਬੀ ਅਨੁਵਾਦ ਹੈ:-

Ans
1. ਕਬਾੜ
2. ਨਿਉਂਦਾ
3. ਕੱਪੜੇ ਦੀ ਗੁੱਡੀ
4. ਪੁਰਾਣਾ ਮਾਲ

Question ID : **630680241268**
Option 1 ID : **630680935513**
Option 2 ID : **630680935514**
Option 3 ID : **630680935511**
Option 4 ID : **630680935512**
Status : **Answered**
Chosen Option : **4**

Q.95 "Observatory" ਦਾ ਸਹੀ ਪੰਜਾਬੀ ਅਨੁਵਾਦ ਹੈ:-

Ans
1. ਚਾਪਲੂਸੀ
2. ਪੜਚੋਲ
3. ਨੀਝਸ਼ਾਲਾ
4. ਨਿਰੀਖਣ

Question ID : **630680241269**
Option 1 ID : **630680935518**
Option 2 ID : **630680935516**
Option 3 ID : **630680935517**
Option 4 ID : **630680935515**
Status : **Answered**
Chosen Option : **3**

Website - www.dailyjobalert.in

Q.96 ਹੇਠ ਲਿਖਿਆਂ ਵਿੱਚ ਕਿਹੜਾ ਸ਼ਬਦ "ਦੁਰਾਚਾਰ" ਦਾ ਵਿਪਰੀਤਾਰਥਕ ਹੈ?

Ans
1. ਮੱਕਾਰ
2. ਬੇਈਮਾਨ
3. ਖਚਰਾ
4. ਸਦਾਚਾਰ ✔

Question ID : **630680241263**
Option 1 ID : **630680935491**
Option 2 ID : **630680935492**
Option 3 ID : **630680935494**
Option 4 ID : **630680935493**
Status : **Answered**
Chosen Option : **4**

Comprehension:

ਗਹਿਣੇ ਹਮੇਸ਼ਾ ਮਨੁੱਖੀ ਸ਼ਿੰਗਾਰ ਦੇ ਕੇਂਦਰੀ ਬਿੰਦੂ ਰਹੇ ਨੇ। ਪੰਜਾਬੀ ਸਭਿਆਚਾਰ ਨਾਲ ਜੁੜੇ ਹਰ ਧਰਮ,ਜਾਤ ਅਤੇ ਹਰ ਉਮਰ ਦੇ ਮਰਦ ਤੇ ਇਸਤਰੀਆਂ, ਆਪਣੀ ਸਮਰਥਾ ਅਨੁਸਾਰ ਸੋਨੇ, ਚਾਂਦੀ ਅਤੇ ਪਿੱਤਲ ਦੇ ਗਹਿਣੇ ਪਹਿਨਦੇ ਨੇ। ਪੁਰਾਤਨ ਸਮਿਆਂ ਵਿਚ ਔਰਤਾਂ ਸਿਰ ਤੋਂ ਲੈ ਕੇ ਪੈਰਾਂ ਤੱਕ, ਲਗਭਗ ਹਰੇਕ ਅੰਗ ਤੇ ਗਹਿਣੇ ਪਹਿਨਦੀਆਂ ਸਨ। ਅਕਸਰ ਕਿਹਾ ਜਾਂਦਾ ਏ ਕਿ ਪੁਰਾਤਨ ਪੰਜਾਬੀ ਔਰਤਾਂ, ਸੌ ਤੋਂ ਵੀ ਵੱਧ ਗਹਿਣੇ ਪਹਿਨ ਕੇ ਆਪਣਾ ਰੂਪ ਸ਼ਿੰਗਾਰਦੀਆਂ ਸਨ। ਗਹਿਣੇ ਅਸਲ ਵਿਚ, ਕਿਸੇ ਵੀ ਮਨੁੱਖ ਦੀ ਆਰਥਿਕ ਖੁਸ਼ਹਾਲੀ, ਪਿਆਰ-ਮੁਹੱਬਤ ਅਤੇ ਸੁਹਜ-ਤ੍ਰਿਪਤੀ ਦਾ ਪ੍ਰਤੀਕ ਹੁੰਦੇ ਨੇ। ਹੌਲੀ ਹੌਲੀ ਇਨ੍ਹਾਂ ਗਹਿਣਿਆਂ ਦਾ ਸਰੂਪ ਅਤੇ ਡਿਜ਼ਾਈਨ ਬਦਲ ਰਹੇ ਨੇ। ਹੁਣ ਤਾਂ ਪਰੰਪਰਕ ਧਾਤਾਂ ਦੀ ਥਾਂ ਹੀਰੇ ਮੋਤੀਆਂ ਦੇ ਗਹਿਣਿਆਂ ਨੇ ਲੈ ਲਈ ਏ, ਅਤੇ ਜੋ ਅਜਿਹੇ ਕੀਮਤੀ ਗਹਿਣੇ ਖਰੀਦਣ ਦੇ ਸਮਰਥ ਨਹੀਂ, ਉਹਨਾਂ ਲਈ ਬਾਜ਼ਾਰ ਵਿਚ ਆਰਟੀਫੀਸ਼ਲ ਗਹਿਣਿਆਂ ਦੀ ਕਮੀ ਨਹੀਂ ਰਹੀ। ਪਰ ਇਨ੍ਹਾਂ ਗਹਿਣਿਆਂ ਦੀ ਡਿਜ਼ਾਇਨਕਾਰੀ ਅਤੇ ਘਾੜਤ ਆਪਣੇ ਆਪ ਵਿਚ ਇਕ ਦਿਲਚਸਪ ਵਿਸ਼ਾ ਏ।

SubQuestion No : 97

Q.97 ਸਮਰਥਾ ਨਾ ਹੋਣ ਦੀ ਸੂਰਤ ਵਿਚ ਕਿਹੜੇ ਗਹਿਣੇ ਪਹਿਨੇ ਜਾਂਦੇ ਹਨ?

Ans
1. ਪਿੱਤਲ ਦੇ
2. ਚਾਂਦੀ ਦੇ
3. ਸਟੀਲ ਦੇ
4. ਆਰਟੀਫੀਸ਼ਲ ✔

Question ID : **630680241274**
Option 1 ID : **630680935532**
Option 2 ID : **630680935531**
Option 3 ID : **630680935534**
Option 4 ID : **630680935533**
Status : **Answered**
Chosen Option : **4**

DAILY JOB Alert ਪੰਜਾਬ

Comprehension:

ਗਹਿਣੇ ਹਮੇਸ਼ਾ ਮਨੁੱਖੀ ਸ਼ਿੰਗਾਰ ਦੇ ਕੇਂਦਰੀ ਬਿੰਦੂ ਰਹੇ ਨੇ। ਪੰਜਾਬੀ ਸਭਿਆਚਾਰ ਨਾਲ ਜੁੜੇ ਹਰ ਧਰਮ,ਜਾਤ ਅਤੇ ਹਰ ਉਮਰ ਦੇ ਮਰਦ ਤੇ ਇਸਤਰੀਆਂ, ਆਪਣੀ ਸਮਰਥਾ ਅਨੁਸਾਰ ਸੋਨੇ, ਚਾਂਦੀ ਅਤੇ ਪਿੱਤਲ ਦੇ ਗਹਿਣੇ ਪਹਿਨਦੇ ਨੇ। ਪੁਰਾਤਨ ਸਮਿਆਂ ਵਿਚ ਔਰਤਾਂ ਸਿਰ ਤੋਂ ਲੈ ਕੇ ਪੈਰਾਂ ਤੱਕ, ਲਗਭਗ ਹਰੇਕ ਅੰਗ ਤੇ ਗਹਿਣੇ ਪਹਿਨਦੀਆਂ ਸਨ। ਅਕਸਰ ਕਿਹਾ ਜਾਂਦਾ ਏ ਕਿ ਪੁਰਾਤਨ ਪੰਜਾਬੀ ਔਰਤਾਂ, ਸੌ ਤੋਂ ਵੀ ਵੱਧ ਗਹਿਣੇ ਪਹਿਨ ਕੇ ਆਪਣਾ ਰੂਪ ਸ਼ਿੰਗਾਰਦੀਆਂ ਸਨ। ਗਹਿਣੇ ਅਸਲ ਵਿਚ, ਕਿਸੇ ਵੀ ਮਨੁੱਖ ਦੀ ਆਰਥਿਕ ਖੁਸ਼ਹਾਲੀ, ਪਿਆਰ-ਮੁਹੱਬਤ ਅਤੇ ਸੁਹਜ-ਤ੍ਰਿਪਤੀ ਦਾ ਪ੍ਰਤੀਕ ਹੁੰਦੇ ਨੇ। ਹੌਲੀ ਹੌਲੀ ਇਨ੍ਹਾਂ ਗਹਿਣਿਆਂ ਦਾ ਸਰੂਪ ਅਤੇ ਡਿਜ਼ਾਈਨ ਬਦਲ ਰਹੇ ਨੇ। ਹੁਣ ਤਾਂ ਪਰੰਪਰਕ ਧਾਤਾਂ ਦੀ ਥਾਂ ਹੀਰੇ ਮੋਤੀਆਂ ਦੇ ਗਹਿਣਿਆਂ ਨੇ ਲੈ ਲਈ ਏ, ਅਤੇ ਜੋ ਅਜਿਹੇ ਕੀਮਤੀ ਗਹਿਣੇ ਖਰੀਦਣ ਦੇ ਸਮਰਥ ਨਹੀਂ, ਉਹਨਾਂ ਲਈ ਬਾਜ਼ਾਰ ਵਿਚ ਆਰਟੀਫੀਸ਼ਲ ਗਹਿਣਿਆਂ ਦੀ ਕਮੀ ਨਹੀਂ ਰਹੀ। ਪਰ ਇਨ੍ਹਾਂ ਗਹਿਣਿਆਂ ਦੀ ਡਿਜ਼ਾਇਨਕਾਰੀ ਅਤੇ ਘਾੜਤ ਆਪਣੇ ਆਪ ਵਿਚ ਇਕ ਦਿਲਚਸਪ ਵਿਸ਼ਾ ਏ।

SubQuestion No : 98

Q.98 ਉਪਰੋਕਤ ਪੈਰੇ ਦਾ ਸਿਰਲੇਖ ਹੈ:-

Ans
✔ 1. ਗਹਿਣੇ ਅਤੇ ਘਾੜਤ
✘ 2. ਨਵੇਂ ਗਹਿਣੇ
✘ 3. ਗਹਿਣਿਆਂ ਦਾ ਮਹੱਤਵ
✘ 4. ਗਹਿਣੇ ਅਤੇ ਮਰਦ ਸਮਾਜ

Question ID : **630680241272**
Option 1 ID : **630680935525**
Option 2 ID : **630680935526**
Option 3 ID : **630680935524**
Option 4 ID : **630680935523**
Status : **Answered**
Chosen Option : **1**

Comprehension:

ਗਹਿਣੇ ਹਮੇਸ਼ਾ ਮਨੁੱਖੀ ਸ਼ਿੰਗਾਰ ਦੇ ਕੇਂਦਰੀ ਬਿੰਦੂ ਰਹੇ ਨੇ। ਪੰਜਾਬੀ ਸਭਿਆਚਾਰ ਨਾਲ ਜੁੜੇ ਹਰ ਧਰਮ,ਜਾਤ ਅਤੇ ਹਰ ਉਮਰ ਦੇ ਮਰਦ ਤੇ ਇਸਤਰੀਆਂ, ਆਪਣੀ ਸਮਰਥਾ ਅਨੁਸਾਰ ਸੋਨੇ, ਚਾਂਦੀ ਅਤੇ ਪਿੱਤਲ ਦੇ ਗਹਿਣੇ ਪਹਿਨਦੇ ਨੇ। ਪੁਰਾਤਨ ਸਮਿਆਂ ਵਿਚ ਔਰਤਾਂ ਸਿਰ ਤੋਂ ਲੈ ਕੇ ਪੈਰਾਂ ਤੱਕ, ਲਗਭਗ ਹਰੇਕ ਅੰਗ ਤੇ ਗਹਿਣੇ ਪਹਿਨਦੀਆਂ ਸਨ। ਅਕਸਰ ਕਿਹਾ ਜਾਂਦਾ ਏ ਕਿ ਪੁਰਾਤਨ ਪੰਜਾਬੀ ਔਰਤਾਂ, ਸੌ ਤੋਂ ਵੀ ਵੱਧ ਗਹਿਣੇ ਪਹਿਨ ਕੇ ਆਪਣਾ ਰੂਪ ਸ਼ਿੰਗਾਰਦੀਆਂ ਸਨ। ਗਹਿਣੇ ਅਸਲ ਵਿਚ, ਕਿਸੇ ਵੀ ਮਨੁੱਖ ਦੀ ਆਰਥਿਕ ਖੁਸ਼ਹਾਲੀ, ਪਿਆਰ-ਮੁਹੱਬਤ ਅਤੇ ਸੁਹਜ-ਤ੍ਰਿਪਤੀ ਦਾ ਪ੍ਰਤੀਕ ਹੁੰਦੇ ਨੇ। ਹੌਲੀ ਹੌਲੀ ਇਨ੍ਹਾਂ ਗਹਿਣਿਆਂ ਦਾ ਸਰੂਪ ਅਤੇ ਡਿਜ਼ਾਈਨ ਬਦਲ ਰਹੇ ਨੇ। ਹੁਣ ਤਾਂ ਪਰੰਪਰਕ ਧਾਤਾਂ ਦੀ ਥਾਂ ਹੀਰੇ ਮੋਤੀਆਂ ਦੇ ਗਹਿਣਿਆਂ ਨੇ ਲੈ ਲਈ ਏ, ਅਤੇ ਜੋ ਅਜਿਹੇ ਕੀਮਤੀ ਗਹਿਣੇ ਖਰੀਦਣ ਦੇ ਸਮਰਥ ਨਹੀਂ, ਉਹਨਾਂ ਲਈ ਬਾਜ਼ਾਰ ਵਿਚ ਆਰਟੀਫੀਸ਼ਲ ਗਹਿਣਿਆਂ ਦੀ ਕਮੀ ਨਹੀਂ ਰਹੀ। ਪਰ ਇਨ੍ਹਾਂ ਗਹਿਣਿਆਂ ਦੀ ਡਿਜ਼ਾਇਨਕਾਰੀ ਅਤੇ ਘਾੜਤ ਆਪਣੇ ਆਪ ਵਿਚ ਇਕ ਦਿਲਚਸਪ ਵਿਸ਼ਾ ਏ।

SubQuestion No : 99

Q.99 ਪੁਰਾਤਨ ਸਮਿਆਂ ਵਿੱਚ ਔਰਤਾਂ ਕਿਸ ਅੰਗ 'ਤੇ ਗਹਿਣੇ ਪਹਿਨਦੀਆਂ ਸਨ?

Ans
✔ 1. ਲਗਭਗ ਹਰੇਕ ਅੰਗ 'ਤੇ
✘ 2. ਸਿਰ ਅਤੇ ਪੈਰਾਂ 'ਤੇ
✘ 3. ਗਲ ਅਤੇ ਕੰਨਾਂ ਵਿੱਚ
✘ 4. ਸਮਰਥਾ ਅਨੁਸਾਰ

Question ID : **630680241275**
Option 1 ID : **630680935538**
Option 2 ID : **630680935537**
Option 3 ID : **630680935535**
Option 4 ID : **630680935536**
Status : **Answered**
Chosen Option : **1**

Website - www.dailyjobalert.in

Comprehension:

ਗਹਿਣੇ ਹਮੇਸ਼ਾ ਮਨੁੱਖੀ ਸ਼ਿੰਗਾਰ ਦੇ ਕੇਂਦਰੀ ਬਿੰਦੂ ਰਹੇ ਨੇ। ਪੰਜਾਬੀ ਸਭਿਆਚਾਰ ਨਾਲ ਜੁੜੇ ਹਰ ਧਰਮ,ਜਾਤ ਅਤੇ ਹਰ ਉਮਰ ਦੇ ਮਰਦ ਤੇ ਇਸਤਰੀਆਂ, ਆਪਣੀ ਸਮਰਥਾ ਅਨੁਸਾਰ ਸੋਨੇ, ਚਾਂਦੀ ਅਤੇ ਪਿੱਤਲ ਦੇ ਗਹਿਣੇ ਪਹਿਨਦੇ ਨੇ। ਪੁਰਾਤਨ ਸਮਿਆਂ ਵਿਚ ਔਰਤਾਂ ਸਿਰ ਤੋਂ ਲੈ ਕੇ ਪੈਰਾਂ ਤੱਕ, ਲਗਭਗ ਹਰੇਕ ਅੰਗ ਤੇ ਗਹਿਣੇ ਪਹਿਨਦੀਆਂ ਸਨ। ਅਕਸਰ ਕਿਹਾ ਜਾਂਦਾ ਏ ਕਿ ਪੁਰਾਤਨ ਪੰਜਾਬੀ ਔਰਤਾਂ, ਸੌ ਤੋਂ ਵੀ ਵੱਧ ਗਹਿਣੇ ਪਹਿਨ ਕੇ ਆਪਣਾ ਰੂਪ ਸ਼ਿੰਗਾਰਦੀਆਂ ਸਨ। ਗਹਿਣੇ ਅਸਲ ਵਿਚ, ਕਿਸੇ ਵੀ ਮਨੁੱਖ ਦੀ ਆਰਥਿਕ ਖੁਸ਼ਹਾਲੀ, ਪਿਆਰ-ਮੁਹੱਬਤ ਅਤੇ ਸੁਹਜ-ਤ੍ਰਿਪਤੀ ਦਾ ਪ੍ਰਤੀਕ ਹੁੰਦੇ ਨੇ। ਹੌਲੀ ਹੌਲੀ ਇਨ੍ਹਾਂ ਗਹਿਣਿਆਂ ਦਾ ਸਰੂਪ ਅਤੇ ਡਿਜ਼ਾਈਨ ਬਦਲ ਰਹੇ ਨੇ। ਹੁਣ ਤਾਂ ਪਰੰਪਰਕ ਧਾਤਾਂ ਦੀ ਥਾਂ ਹੀਰੇ ਮੋਤੀਆਂ ਦੇ ਗਹਿਣਿਆਂ ਨੇ ਲੈ ਲਈ ਏ, ਅਤੇ ਜੋ ਅਜਿਹੇ ਕੀਮਤੀ ਗਹਿਣੇ ਖਰੀਦਣ ਦੇ ਸਮਰਥ ਨਹੀਂ, ਉਹਨਾਂ ਲਈ ਬਾਜ਼ਾਰ ਵਿਚ ਆਰਟੀਫੀਸ਼ਲ ਗਹਿਣਿਆਂ ਦੀ ਕਮੀ ਨਹੀਂ ਰਹੀ। ਪਰ ਇਨ੍ਹਾਂ ਗਹਿਣਿਆਂ ਦੀ ਡਿਜ਼ਾਇਨਕਾਰੀ ਅਤੇ ਘਾੜਤ ਆਪਣੇ ਆਪ ਵਿਚ ਇਕ ਦਿਲਚਸਪ ਵਿਸ਼ਾ ਏ।

SubQuestion No : 100

Q.100 ਔਰਤਾਂ ਗਹਿਣੇ ਕਿਉਂ ਪਹਿਨਦੀਆਂ ਹਨ?

Ans

✗ 1. ਦਿਖਾਵੇ ਲਈ

✗ 2. ਰੁਹਬ ਦਿਖਾਉਣ ਲਈ

✗ 3. ਵਿਸ਼ਵਾਸ ਲਈ

✓ 4. ਰੂਪ ਸ਼ਿੰਗਾਰ ਲਈ

Question ID : **630680241273**
Option 1 ID : **630680935529**
Option 2 ID : **630680935528**
Option 3 ID : **630680935530**
Option 4 ID : **630680935527**
Status : **Answered**
Chosen Option : **4**

DAILY JOB Alert ਪੰਜਾਬ

PUNJAB POLICE

Police to its last particle is duty

Exam Name	Recruitment for the post of Sub Inspector in Cadres of District and Armed Police 20th Jun to 31st Jul 2023 S2 Paper II and III
Application No	www.dailyjobalert.in
Roll No	Telegram - Daily Job Alert Punjab
Applicant Name	instagram - Daily Job Alert Punjab
Exam Date	15/07/2023
Shift	12:30 PM - 3:30 PM
Subject	Sub Inspector Paper II and III

Section : **Logical and Analytical Reasoning and Data Interpretation**

Q.1 Select the option in which the words share the same relationship as that shared by the given pair of words.

Gambler : Casino

Ans
- ✗ 1. Chef : Cook
- ✓ 2. Umpire : Pitch
- ✗ 3. Waiter : Serve
- ✗ 4. Film : Actor

Question ID : **63068063305**
Option 1 ID : **630680244387**
Option 2 ID : **630680244389**
Option 3 ID : **630680244388**
Option 4 ID : **630680244386**
Status : **Answered**
Chosen Option : **4**

Q.2 Select the option in which the words share the same relationship as that shared by the given pair of words.

Escape : Abscond

Ans
- ✗ 1. Brim : Centre
- ✗ 2. Flaw : Advantage
- ✗ 3. Abduct : Abscond
- ✓ 4. Dearth : Scarcity

Question ID : **63068063303**
Option 1 ID : **630680244379**
Option 2 ID : **630680244378**
Option 3 ID : **630680244381**
Option 4 ID : **630680244380**
Status : **Answered**
Chosen Option : **3**

Website - www.dailyjobalert.in

Q.3 **Select the option in which the letter-clusters share the same relationship as that shared by the given pair of letter-clusters.**

MKH : GEB

Ans
✗ 1. QOM : WUT
✗ 2. XVT : HFC
✗ 3. ZXV : FEG
✓ 4. PNK : JHE

Question ID : **63068048682**
Option 1 ID : **630680187339**
Option 2 ID : **630680187338**
Option 3 ID : **630680187341**
Option 4 ID : **630680187340**
Status : **Answered**
Chosen Option : **4**

Q.4 **If 25 November 2002 was Monday, then what was the day of the week on 25 November 2014?**

Ans
✗ 1. Sunday
✗ 2. Wednesday
✗ 3. Monday
✓ 4. Tuesday

Question ID : **630680159728**
Option 1 ID : **630680618372**
Option 2 ID : **630680618373**
Option 3 ID : **630680618374**
Option 4 ID : **630680618375**
Status : **Answered**
Chosen Option : **2**

Q.5 **Which of the following letters is to the immediate left of the sixth letter from the extreme left end?**
(Left) E, M, T, F, I, A, D, C, Q, R, J (Right)

Ans
✗ 1. C
✓ 2. I
✗ 3. F
✗ 4. D

Question ID : **630680172736**
Option 1 ID : **630680669344**
Option 2 ID : **630680669347**
Option 3 ID : **630680669345**
Option 4 ID : **630680669346**
Status : **Answered**
Chosen Option : **4**

DAILY JOB Alert ਪੰਜਾਬ

Q.6 **Four letter-clusters have been given, out of which three are alike in some manner and one is different. Select the one that is different.**

Ans
✔ 1. FJIL
✘ 2. HLKO
✘ 3. PTSW
✘ 4. YCBF

Question ID : **630680105010**
Option 1 ID : **630680408152**
Option 2 ID : **630680408151**
Option 3 ID : **630680408153**
Option 4 ID : **630680408154**
Status : **Answered**
Chosen Option : **1**

Q.7 **Following a certain logic, if 14 is related to 225 and 17 is related to 324, to which of the following is 15 related?**

Ans
✘ 1. 245
✘ 2. 250
✘ 3. 236
✔ 4. 256

Question ID : **63068057013**
Option 1 ID : **630680219984**
Option 2 ID : **630680219982**
Option 3 ID : **630680219985**
Option 4 ID : **630680219983**
Status : **Answered**
Chosen Option : **4**

Q.8 **In a code language, 'TWINE' is coded as WNWIH and 'WIRED' is coded as ZEIRG. How will 'BLACK' be coded in the same language?**

Ans
✔ 1. ECLAN
✘ 2. DDKZM
✘ 3. FCKBN
✘ 4. FBKZM

Question ID : **630680147841**
Option 1 ID : **630680572079**
Option 2 ID : **630680572078**
Option 3 ID : **630680572081**
Option 4 ID : **630680572080**
Status : **Answered**
Chosen Option : **1**

Website - www.dailyjobalert.in

Q.9 **10 soldiers are standing in a straight line. There is twice the number of soldiers standing in front of Nishal as behind him. The number of soldiers standing in front of Gulshan is equal to the number of soldiers standing behind Nishal. How many soldiers are standing behind Gulshan?**

Ans
✗ 1. 8
✗ 2. 7
✓ 3. 6
✗ 4. 5

Question ID : **630680107148**
Option 1 ID : **630680415989**
Option 2 ID : **630680415988**
Option 3 ID : **630680415990**
Option 4 ID : **630680415991**
Status : **Not Answered**
Chosen Option : **--**

Q.10 **Following a certain logic, if 10 is related to 90 and 13 is related to 156, to which of the following is 16 related?**

Ans
✗ 1. 225
✗ 2. 205
✓ 3. 240
✗ 4. 219

Question ID : **63068057022**
Option 1 ID : **630680220021**
Option 2 ID : **630680220018**
Option 3 ID : **630680220020**
Option 4 ID : **630680220019**
Status : **Answered**
Chosen Option : **3**

Q.11 **In a poem recitation competition, Amyra ranked 4th from the top and her friend Syma ranked 5th from the bottom. Nihal ranked exactly in-between Amyra and Syma. If there were 4 students ranked between Amyra and Nihal, how many students were there in all?**

Ans
✗ 1. 13
✗ 2. 17
✓ 3. 18
✗ 4. 12

Question ID : **630680138935**
Option 1 ID : **630680537891**
Option 2 ID : **630680537893**
Option 3 ID : **630680537890**
Option 4 ID : **630680537892**
Status : **Not Answered**
Chosen Option : **--**

Website - www.dailyjobalert.in

Q.12 ਦਿੱਤੇ ਗਏ ਅੱਖਰ-ਸਮੂਹ ਵਿੱਚ, ਖੱਬੇ ਸਿਰੇ ਤੋਂ ਚੌਥੇ ਅੱਖਰ ਦੇ ਠੀਕ ਖੱਬੇ ਪਾਸੇ ਕਿਹੜਾ ਅੱਖਰ ਹੈ?

(ਖੱਬੇ) R P X Z B J E G H I M (ਸੱਜੇ)

Ans
1. H
2. X
3. Z
4. G

Question ID : **630680172155**
Option 1 ID : **630680667056**
Option 2 ID : **630680667058**
Option 3 ID : **630680667057**
Option 4 ID : **630680667059**
Status : **Answered**
Chosen Option : **3**

Q.13 Study the following piechart and answer the given question.
The following pie chart depicts the number of children who participated in an Olympiad from five schools (A, B, C, D and E), out of the total number of children (which is 900) who participated in the Olympiad from the given five schools together.

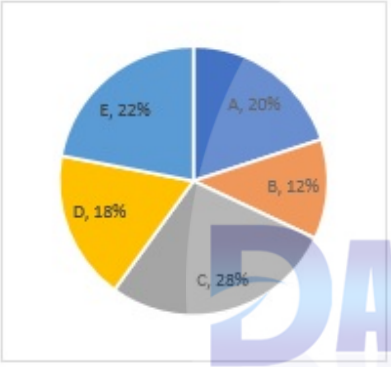

What is the difference between the average number of children who participated from schools D and E combined and the average number of children who participated from schools A and B combined?

Ans
1. 36
2. 20
3. 48
4. 24

Question ID : **630680196472**
Option 1 ID : **630680762210**
Option 2 ID : **630680762207**
Option 3 ID : **630680762209**
Option 4 ID : **630680762208**
Status : **Not Answered**
Chosen Option : **--**

Website - www.dailyjobalert.in

Q.14 **Arvind walked 6 km towards the west from his house. He then turned left and walked 14 km. He then turned towards the east and walked 26 km. Finally, he turned left and covered 14 km. How far is he now from his house in a straight line? (Consider all the turns to be of 90°.)**

Ans
- ✗ 1. 26 km
- ✗ 2. 14 km
- ✓ 3. 20 km
- ✗ 4. 32 km

Question ID : **630680172189**
Option 1 ID : **630680667193**
Option 2 ID : **630680667192**
Option 3 ID : **630680667194**
Option 4 ID : **630680667195**
Status : **Not Answered**
Chosen Option : **--**

Q.15 **Select the alphanumeric-cluster from among the given options that can replace the question mark (?) in the following series.**
A3, D9, G81, ?

Ans
- ✓ 1. J6561
- ✗ 2. M6551
- ✗ 3. K6560
- ✗ 4. L5561

Question ID : **63068048833**
Option 1 ID : **630680187878**
Option 2 ID : **630680187881**
Option 3 ID : **630680187879**
Option 4 ID : **630680187880**
Status : **Answered**
Chosen Option : **1**

Q.16 **Pointing to a boy, Lakshmi said to Rani, "The mother of his father is the wife of your mother's father." How is Rani related to that boy?**

Ans
- ✗ 1. Mother's brother's son
- ✗ 2. Wife
- ✓ 3. Father's sister's daughter
- ✗ 4. Sister

Question ID : **630680125629**
Option 1 ID : **630680487181**
Option 2 ID : **630680487179**
Option 3 ID : **630680487180**
Option 4 ID : **630680487178**
Status : **Answered**
Chosen Option : **1**

DAILY JOB Alert

Q.17 In the following two triads, each group of letters is related to the subsequent one following a certain logic. Select from the given options, the one which does NOT follow the same logic.
Triad 1: CRAB - BARC - DDVH
Triad 2: SINK - KNIS - MQMX

Ans
1. GRIP - PIRG – RLVL
2. RUST - TSUR – VVXV
3. BART - TRAB – VUEG
4. MONK - KNOM – MQSR

Question ID : **63068077058**
Option 1 ID : **630680298330**
Option 2 ID : **630680298329**
Option 3 ID : **630680298332**
Option 4 ID : **630680298331**
Status : **Answered**
Chosen Option : **2**

Q.18 There are six people X, A, B, C, D, E. B's age is 30% more than A's age, which is 10% of C's age. D's age 2 years later will be 2 times the age of E. Also, the product of D's age and A's age is 10 times that B's age and C's age is 12 times that of X's age. E's age is 1.5 times that of X's age, which is the square root of 25. What is C's age?

Ans
1. 35
2. 55
3. 70
4. 60

Question ID : **630680166745**
Option 1 ID : **630680645895**
Option 2 ID : **630680645894**
Option 3 ID : **630680645893**
Option 4 ID : **630680645892**
Status : **Not Answered**
Chosen Option : **--**

Q.19 ਅੰਗਰੇਜ਼ੀ ਵਰਣਮਾਲਾ ਦੇ ਕ੍ਰਮ ਦੇ ਆਧਾਰ 'ਤੇ ਇੱਕ ਖਾਸ ਢੰਗ ਨਾਲ TEAM, YIDO ਨਾਲ ਸੰਬੰਧਿਤ ਹੈ। ਇਸੇ ਤਰ੍ਹਾਂ RTXV, WXAX ਨਾਲ ਸੰਬੰਧਿਤ ਹੈ। ਉਸੇ ਤਰਕ ਦੀ ਵਰਤੋਂ ਕਰਦੇ ਹੋਏ, ਹੇਠਾਂ ਦਿੱਤਿਆਂ ਵਿੱਚੋਂ PNQO ਕਿਸ ਨਾਲ ਸੰਬੰਧਿਤ ਹੈ?

Ans
1. URTP
2. TRTQ
3. VSUR
4. URTQ

Question ID : **63068058593**
Option 1 ID : **630680226020**
Option 2 ID : **630680226019**
Option 3 ID : **630680226018**
Option 4 ID : **630680226021**
Status : **Answered**
Chosen Option : **1**

Website - www.dailyjobalert.in

Q.20 Which of the following numbers will replace the question mark (?) in the given series?
20, 40, 65, 100, 150, 220, ?

Ans
✗ 1. 320
✗ 2. 310
✗ 3. 325
✓ 4. 315

Question ID : **630680157530**
Option 1 ID : **630680609650**
Option 2 ID : **630680609649**
Option 3 ID : **630680609651**
Option 4 ID : **630680609648**
Status : **Answered**
Chosen Option : **2**

Q.21 One day in the morning Ram and Shyam are facing each other. If the shadow of Ram is in the front of Shyam, then in which direction Ram is facing?

Ans
✓ 1. East
✗ 2. West
✗ 3. South
✗ 4. North

Question ID : **630680106026**
Option 1 ID : **630680412003**
Option 2 ID : **630680412004**
Option 3 ID : **630680412006**
Option 4 ID : **630680412005**
Status : **Answered**
Chosen Option : **2**

Q.22 What should come in place of the question mark (?) in the given series in order to make it logically complete?
Y17B, W13D, U9F, S5H, ?

Ans
✓ 1. Q1J
✗ 2. O1P
✗ 3. R7P
✗ 4. S7T

Question ID : **630680127178**
Option 1 ID : **630680493142**
Option 2 ID : **630680493141**
Option 3 ID : **630680493143**
Option 4 ID : **630680493144**
Status : **Answered**
Chosen Option : **1**

Website - www.dailyjobalert.in

Q.23 **Six letters A, B, C, D, E and F are written on different faces of a dice. Two positions of this dice are shown in the following figure. Find the letter on the face opposite to A.**

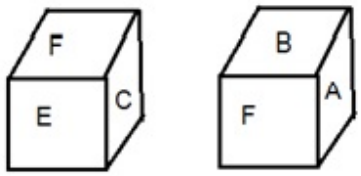

Ans
✗ 1. C
✗ 2. F
✓ 3. E
✗ 4. D

Question ID : **630680187298**
Option 1 ID : **630680726142**
Option 2 ID : **630680726141**
Option 3 ID : **630680726144**
Option 4 ID : **630680726143**
Status : **Answered**
Chosen Option : **1**

Q.24 **'A # B' means 'A is the brother of B'**
'A @ B' means 'A is the daughter of B'
'A & B' means 'A is the husband of B'
'A % B' means 'A is the wife of B'
If 'Q @ H & S @ M % K # L % J', then how is Q related to M?

Ans
✗ 1. Mother's father
✗ 2. Wife's mother
✗ 3. Son's daughter
✓ 4. Daughter's daughter

Question ID : **630680147852**
Option 1 ID : **630680572122**
Option 2 ID : **630680572124**
Option 3 ID : **630680572125**
Option 4 ID : **630680572123**
Status : **Not Answered**
Chosen Option : **--**

Q.25 **Which year will have the same calendar as that of 2016?**

Ans
✗ 1. 2040
✗ 2. 2032
✗ 3. 2024
✓ 4. 2044

Question ID : **63068058558**
Option 1 ID : **630680225878**
Option 2 ID : **630680225880**
Option 3 ID : **630680225881**
Option 4 ID : **630680225879**
Status : **Answered**
Chosen Option : **2**

Website - www.dailyjobalert.in

Q.26 **Read the given statements and conclusions carefully. Assuming that the information given in the statements is true, even if it appears to be at variance with commonly known facts, decide which of the given conclusions logically follow(s) from the statements.**
Statements:
All erasers are sharpeners.
Some sharpener is pencil.
Some pencils are pen.
Conclusions:
I. Some sharpeners are erasers.
II. All erasers are pencils.
III. No pencils are pen.

Ans
✔ 1. Only conclusion I follows
✘ 2. Only conclusions I and III follow
✘ 3. Only conclusions I and II follow
✘ 4. None of the conclusions follow

Question ID : **630680105906**
Option 1 ID : **630680411570**
Option 2 ID : **630680411568**
Option 3 ID : **630680411569**
Option 4 ID : **630680411567**
Status : **Answered**
Chosen Option : **2**

Q.27 **In a certain code language, 'AGE' is written as 'CJG' and 'CAB' is written as 'EDD'. How will 'EON' be written in that language?**

Ans
✔ 1. GRP
✘ 2. FPP
✘ 3. GSP
✘ 4. GQP

Question ID : **630680158222**
Option 1 ID : **630680612418**
Option 2 ID : **630680612419**
Option 3 ID : **630680612416**
Option 4 ID : **630680612417**
Status : **Answered**
Chosen Option : **1**

Q.28 **What should come in place of ? in the given series in order to make it logically complete?**
VS4, RO9, NK15, JG22, ?

Ans
✔ 1. FC30
✘ 2. FD30
✘ 3. CF29
✘ 4. FB32

Question ID : **630680109266**
Option 1 ID : **630680423844**
Option 2 ID : **630680423846**
Option 3 ID : **630680423847**
Option 4 ID : **630680423845**
Status : **Answered**
Chosen Option : **2**

Website - www.dailyjobalert.in

Q.29 **Which of the following numbers will replace the question mark (?) in the given series?**
118, 125, 132, 139, 146, ?

Ans
✗ 1. 154
✗ 2. 152
✓ 3. 153
✗ 4. 155

Question ID : **630680157528**
Option 1 ID : **630680609643**
Option 2 ID : **630680609640**
Option 3 ID : **630680609642**
Option 4 ID : **630680609641**
Status : **Answered**
Chosen Option : **3**

Q.30 **PGDN is related to TKBL in a certain way based on the English alphabetical order. In the same way, LACK is related to PEAI. To which of the following is BNHM related, following the same logic?**

Ans
✗ 1. EPTS
✗ 2. EPFK
✗ 3. FRJK
✓ 4. FRFK

Question ID : **63068057340**
Option 1 ID : **630680221202**
Option 2 ID : **630680221204**
Option 3 ID : **630680221205**
Option 4 ID : **630680221203**
Status : **Answered**
Chosen Option : **4**

Q.31 **Select the option that will come in place of the question mark (?)in the given series in order to make it logically complete.**
BD16 GI25 MO36 ?

Ans
✗ 1. TU42
✗ 2. SV49
✗ 3. RT64
✓ 4. TV49

Question ID : **630680107953**
Option 1 ID : **630680418995**
Option 2 ID : **630680418992**
Option 3 ID : **630680418994**
Option 4 ID : **630680418993**
Status : **Answered**
Chosen Option : **2**

Website - www.dailyjobalert.in

Q.32 **Select the alphanumeric-cluster from among the given options that can replace the question mark (?) in the following series.**
A81B, C64D, E49F, G36H, ?

Ans
✗ 1. I20J
✓ 2. I25J
✗ 3. J25I
✗ 4. K20L

Question ID : **63068048349**
Option 1 ID : **630680186058**
Option 2 ID : **630680186059**
Option 3 ID : **630680186060**
Option 4 ID : **630680186061**
Status : **Answered**
Chosen Option : **2**

Q.33 **L, M, N, O, P and Q are cousins having different ages. The age of L is two times of P and that of Q is four times that of P. Age of N is one-fourth of L. Age of O is one and half times of M and age of M is three times that of L. Who among them is at the 3rd position in order of age from highest to lowest?**

Ans
✗ 1. M
✗ 2. P
✗ 3. O
✓ 4. Q

Question ID : **630680120174**
Option 1 ID : **630680465731**
Option 2 ID : **630680465733**
Option 3 ID : **630680465732**
Option 4 ID : **630680465730**
Status : **Not Answered**
Chosen Option : **--**

Q.34 **Select the option that is related to the fifth number in the same way as the fourth number is related to the third number and the second number is related to the first number.**
99 : 120 :: 63 : 80 :: 48 : ?

Ans
✓ 1. 63
✗ 2. 61
✗ 3. 66
✗ 4. 65

Question ID : **63068062312**
Option 1 ID : **630680240496**
Option 2 ID : **630680240495**
Option 3 ID : **630680240494**
Option 4 ID : **630680240497**
Status : **Answered**
Chosen Option : **1**

Website - www.dailyjobalert.in

Q.35 **L, M, N, O, P and Q are of different ages. L is older than Q but not the oldest among all. Only three persons are younger than Q. N is older than O but younger than P. Only three persons are older than P. Who is the oldest among all?**

Ans
✗ 1. Q
✗ 2. P
✓ 3. M
✗ 4. N

Question ID : **630680189100**
Option 1 ID : **630680733210**
Option 2 ID : **630680733211**
Option 3 ID : **630680733209**
Option 4 ID : **630680733212**
Status : **Not Answered**
Chosen Option : **--**

Q.36 **A certain number of people are sitting in a row, facing the north. G is fifth to the left of M. Exactly three people sit between S and F. Only four people sit between S and M. E is third to the left of F. Both G and F occupy the extreme ends in the row. Y is to the immediate right of M. If no other person is sitting in the row, then what is the total number of people seated?**

Ans
✓ 1. 15
✗ 2. 14
✗ 3. 17
✗ 4. 16

Question ID : **630680112288**
Option 1 ID : **630680434867**
Option 2 ID : **630680434866**
Option 3 ID : **630680434869**
Option 4 ID : **630680434868**
Status : **Not Answered**
Chosen Option : **--**

Comprehension:

Read the given information and answer the following questions.
Seven people A, B, C, D, X, Y and Z are sitting in a straight line and all of them are facing north.
A sits third from the left end of the line. Only one person sits between A and B. Only three people sit between B and X. Only two people sit between X and Y. As many people sit to the left of Y as to the right of D. C does not sit at any of the extreme ends.

SubQuestion No : 37

Q.37 **If all the people are made to sit as per the English alphabetical order from left to right, the position(s) of how many people will remain unchanged?**

Ans
✗ 1. Three
✓ 2. Two
✗ 3. One
✗ 4. None

Question ID : **63068063591**
Option 1 ID : **630680245515**
Option 2 ID : **630680245516**
Option 3 ID : **630680245514**
Option 4 ID : **630680245517**
Status : **Not Answered**
Chosen Option : **--**

Website - www.dailyjobalert.in

Comprehension:

Read the given information and answer the following questions.
Seven people A, B, C, D, X, Y and Z are sitting in a straight line and all of them are facing north.
A sits third from the left end of the line. Only one person sits between A and B. Only three people sit between B and X. Only two people sit between X and Y. As many people sit to the left of Y as to the right of D. C does not sit at any of the extreme ends.

SubQuestion No : 38

Q.38 How many people sit between A and C in the given arrangement?

Ans
✔ 1. None
✘ 2. More than two
✘ 3. Two
✘ 4. One

Question ID : **63068063590**
Option 1 ID : **630680245510**
Option 2 ID : **630680245513**
Option 3 ID : **630680245512**
Option 4 ID : **630680245511**
Status : **Not Answered**
Chosen Option : **--**

Comprehension:

Read the given information and answer the following questions.
Each of the halls numbered 1, 2, 3, 4, 5 and 6 will be used for assembly in a school on a different day of a week, starting from Monday and ending on Saturday of the same week. Hall 6 will be used on Tuesday and hall 1 will be used on the last day. Hall 3 will be used immediately before 1. Hall 4 will be used immediately after hall 6. Four halls will be used between halls 2 and 1.

SubQuestion No : 39

Q.39 How many halls will be used between halls 6 and 5?

Ans
✘ 1. Four
✘ 2. Two
✔ 3. One
✘ 4. Three

Question ID : **63068083590**
Option 1 ID : **630680324019**
Option 2 ID : **630680324017**
Option 3 ID : **630680324016**
Option 4 ID : **630680324018**
Status : **Not Answered**
Chosen Option : **--**

Website - www.dailyjobalert.in

Comprehension:

Read the given information and answer the following questions.
Each of the halls numbered 1, 2, 3, 4, 5 and 6 will be used for assembly in a school on a different day of a week, starting from Monday and ending on Saturday of the same week. Hall 6 will be used on Tuesday and hall 1 will be used on the last day. Hall 3 will be used immediately before 1. Hall 4 will be used immediately after hall 6. Four halls will be used between halls 2 and 1.

SubQuestion No : 40

Q.40 On which of the following days will hall 5 be used?

Ans
✔ 1. Thursday
✘ 2. Saturday
✘ 3. Wednesday
✘ 4. Friday

Question ID : **63068083589**
Option 1 ID : **630680324014**
Option 2 ID : **630680324012**
Option 3 ID : **630680324015**
Option 4 ID : **630680324013**
Status : **Not Answered**
Chosen Option : **--**

Comprehension:

Study the given diagram carefully and answer the questions that follow.

The numbers in different sections indicate the number of persons who belong to that section.

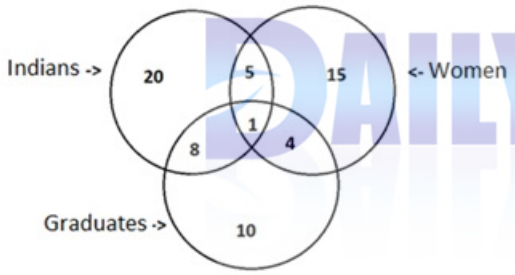

SubQuestion No : 41

Q.41 What is the number of Indian women who are NOT graduates?

Ans
✘ 1. 20
✘ 2. 1
✘ 3. 6
✔ 4. 5

Question ID : **630680124405**
Option 1 ID : **630680482469**
Option 2 ID : **630680482466**
Option 3 ID : **630680482468**
Option 4 ID : **630680482467**
Status : **Not Answered**
Chosen Option : **--**

Website - www.dailyjobalert.in

Comprehension:

Study the given diagram carefully and answer the questions that follow.

The numbers in different sections indicate the number of persons who belong to that section.

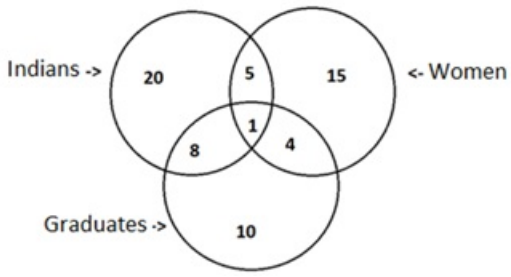

SubQuestion No : 42

Q.42 How many graduates are also women?

Ans

✗ 1. 10

✓ 2. 5

✗ 3. 4

✗ 4. 6

Question ID : **630680124404**
Option 1 ID : **630680482465**
Option 2 ID : **630680482463**
Option 3 ID : **630680482462**
Option 4 ID : **630680482464**
Status : **Not Answered**
Chosen Option : **--**

Comprehension:

In a certain code,
'king and queen' is coded as 'sk gf ho',
'long live king' is coded as 'ho sa ru',
'queen long gown' is coded as 'sa wc gf'.

SubQuestion No : 43

Q.43 What is the code for 'long'?

Ans

✗ 1. wc

✗ 2. gf

✓ 3. sa

✗ 4. ru

Question ID : **630680109058**
Option 1 ID : **630680423080**
Option 2 ID : **630680423081**
Option 3 ID : **630680423082**
Option 4 ID : **630680423083**
Status : **Answered**
Chosen Option : **1**

Website - www.dailyjobalert.in

Comprehension:

In a certain code,
'king and queen' is coded as 'sk gf ho',
'long live king' is coded as 'ho sa ru',
'queen long gown' is coded as 'sa wc gf'.

SubQuestion No : 44

Q.44 What is the code for 'queen'?

Ans
✗ 1. ho
✗ 2. sk
✗ 3. wc
✓ 4. gf

Question ID : **630680109059**
Option 1 ID : **630680423085**
Option 2 ID : **630680423087**
Option 3 ID : **630680423086**
Option 4 ID : **630680423084**
Status : **Answered**
Chosen Option : **1**

Comprehension:

The given pie chart shows the production of oranges (in kg) by different states of India. A total of 3000 kg of oranges is produced in India. Study the pie chart and answer the following questions.

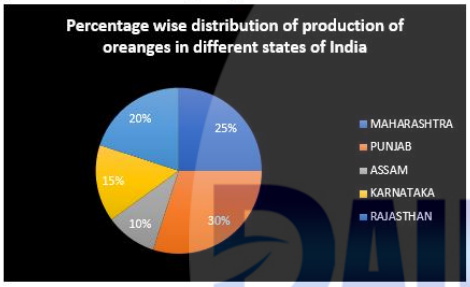

SubQuestion No : 45

Q.45 Orange production in Maharashtra is how many kg more than that in Karnataka?

Ans
✗ 1. 400
✓ 2. 300
✗ 3. 550
✗ 4. 1000

Question ID : **630680110423**
Option 1 ID : **630680427973**
Option 2 ID : **630680427974**
Option 3 ID : **630680427972**
Option 4 ID : **630680427971**
Status : **Not Answered**
Chosen Option : **--**

Website - www.dailyjobalert.in

Comprehension:

The given pie chart shows the production of oranges (in kg) by different states of India. A total of 3000 kg of oranges is produced in India. Study the pie chart and answer the following questions.

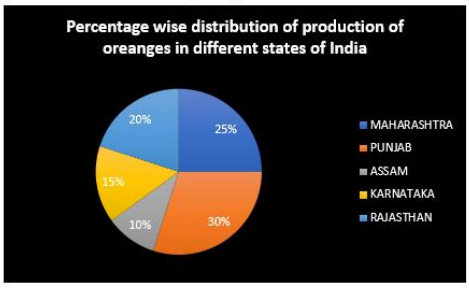

SubQuestion No : 46

Q.46 How many kg of oranges is produced in Rajasthan and Punjab?

Ans
✗ 1. 2000
✓ 2. 1500
✗ 3. 2500
✗ 4. 1000

Question ID : **630680110422**
Option 1 ID : **630680427967**
Option 2 ID : **630680427968**
Option 3 ID : **630680427969**
Option 4 ID : **630680427970**
Status : **Not Answered**
Chosen Option : **--**

Comprehension:

The given table shows the number of students from different schools who got admission, and the number of students who took a T.C. or passed out from 2015 to 2019. Study the table and answer the following questions.

SCHOOL	YEAR									
	2015		2016		2017		2018		2019	
	GOT ADMISSION	PASSED OUT OR TOOK T.C.	GOT ADMISSION	PASSED OUT OR TOOK T.C.	GOT ADMISSION	PASSED OUT OR TOOK T.C.	GOT ADMISSION	PASSED OUT OR TOOK T.C.	GOT ADMISSION	PASSED OUT OR TOOK T.C.
A	250	102	261	120	240	110	290	107	278	114
B	190	152	165	109	129	101	184	111	157	129
C	137	98	140	100	151	112	169	127	175	130
D	142	125	133	102	120	88	159	117	178	129
E	123	91	129	95	132	99	143	113	127	104

SubQuestion No : 47

Q.47 In which year is the difference between the number of students who got admission in school B and the number of students who took a T.C. or passed out from the school B is maximum?

Ans
✗ 1. 2019
✓ 2. 2018
✗ 3. 2017
✗ 4. 2016

Question ID : **630680110449**
Option 1 ID : **630680428042**
Option 2 ID : **630680428041**
Option 3 ID : **630680428040**
Option 4 ID : **630680428039**
Status : **Not Answered**
Chosen Option : **--**

Website - www.dailyjobalert.in

Comprehension:

The given table shows the number of students from different schools who got admission, and the number of students who took a T.C. or passed out from 2015 to 2019. Study the table and answer the following questions.

SCHOOL	YEAR									
	2015		2016		2017		2018		2019	
	GOT ADMISSION	PASSED OUT OR TOOK T.C.	GOT ADMISSION	PASSED OUT OR TOOK T.C.	GOT ADMISSION	PASSED OUT OR TOOK T.C.	GOT ADMISSION	PASSED OUT OR TOOK T.C.	GOT ADMISSION	PASSED OUT OR TOOK T.C.
A	250	102	261	120	240	110	290	107	278	114
B	190	152	165	109	129	101	184	111	157	129
C	137	98	140	100	151	112	169	127	175	130
D	142	125	133	102	120	88	159	117	178	129
E	123	91	129	95	132	99	143	113	127	104

SubQuestion No : 48

Q.48 What is the percentage increase in the number of students who got admission in C from 2016 to 2017?

Ans

✗ 1. 7.52%

✓ 2. 7.86%

✗ 3. 9.23%

✗ 4. 8.99%

Question ID : **630680110450**
Option 1 ID : **630680428043**
Option 2 ID : **630680428044**
Option 3 ID : **630680428046**
Option 4 ID : **630680428045**
Status : **Not Answered**
Chosen Option : **--**

Comprehension:

Read the given passage and answer the questions that follow.

UNICEF strongly believes that all children have the right to grow in a safe and nurturing family environment. Yet, across the world, children continue to be separated or are at a risk of being separated from their families. These include, children living on the streets, at transport terminals, and childcare institutions as well as child workers or child victims of human trafficking.
In the absence of viable options, institutional care is the primary response for children in such situations. However, research studies show that children who grow up in institutional care demonstrate long-term adverse outcomes in terms of physical, cognitive, and mental health.

SubQuestion No : 49

Q.49 When do children face negative outcomes in terms of their overall growth comparatively?

Ans

✗ 1. When in societal care

✓ 2. When in institutional care

✗ 3. When in school care

✗ 4. When in family care

Question ID : **630680248138**
Option 1 ID : **630680962726**
Option 2 ID : **630680962725**
Option 3 ID : **630680962724**
Option 4 ID : **630680962723**
Status : **Answered**
Chosen Option : **2**

Website - www.dailyjobalert.in

Comprehension:

Read the given passage and answer the questions that follow.

UNICEF strongly believes that all children have the right to grow in a safe and nurturing family environment. Yet, across the world, children continue to be separated or are at a risk of being separated from their families. These include, children living on the streets, at transport terminals, and childcare institutions as well as child workers or child victims of human trafficking.
In the absence of viable options, institutional care is the primary response for children in such situations. However, research studies show that children who grow up in institutional care demonstrate long-term adverse outcomes in terms of physical, cognitive, and mental health.

SubQuestion No : 50

Q.50 Which of the following agencies works for the welfare of children globally?

Ans
✗ 1. UNHCR
✓ 2. UNICEF
✗ 3. WHO
✗ 4. WTO

Question ID : **630680248137**
Option 1 ID : **630680962722**
Option 2 ID : **630680962721**
Option 3 ID : **630680962719**
Option 4 ID : **630680962720**
Status : **Answered**
Chosen Option : **2**

Section : **Digital Literacy and Computer Awareness**

Q.51 Google analyses the text, images and video files on a page and stores the information in Google _____, which is a large database.

Ans
✗ 1. Drive
✓ 2. Index
✗ 3. Page
✗ 4. Inbox

Question ID : **630680247966**
Option 1 ID : **630680962072**
Option 2 ID : **630680962073**
Option 3 ID : **630680962074**
Option 4 ID : **630680962071**
Status : **Answered**
Chosen Option : **4**

Q.52 Which of the following operating systems does NOT support touch-based interfaces?

Ans
✗ 1. Windows 7
✓ 2. Windows XP
✗ 3. Windows Vista
✗ 4. Windows 10

Question ID : **630680247950**
Option 1 ID : **630680962008**
Option 2 ID : **630680962007**
Option 3 ID : **630680962010**
Option 4 ID : **630680962009**
Status : **Answered**
Chosen Option : **4**

Website - www.dailyjobalert.in

Q.53 What is the full form of 'PAN'?

Ans
✗ 1. Private Area Network
✗ 2. Protected Area Network
✓ 3. Personal Area Network
✗ 4. Public Area Network

Question ID : **630680247963**
Option 1 ID : **630680962060**
Option 2 ID : **630680962061**
Option 3 ID : **630680962059**
Option 4 ID : **630680962062**
Status : **Answered**
Chosen Option : **1**

Q.54 In MS-Word 2016, which of the following layouts shows the formatting options?

Ans
✗ 1. Web Layout
✓ 2. Normal Layout
✗ 3. Reading Layout
✗ 4. Format Layout

Question ID : **630680247953**
Option 1 ID : **630680962022**
Option 2 ID : **630680962019**
Option 3 ID : **630680962021**
Option 4 ID : **630680962020**
Status : **Answered**
Chosen Option : **4**

Q.55 A _____is a document on the WWW that is viewed in a web browser.

Ans
✓ 1. web page
✗ 2. web content
✗ 3. website
✗ 4. web server

Question ID : **630680247965**
Option 1 ID : **630680962070**
Option 2 ID : **630680962069**
Option 3 ID : **630680962067**
Option 4 ID : **630680962068**
Status : **Answered**
Chosen Option : **1**

Q.56 The quality of a voice call over a computer network depends on the _____of the internet connection.

Ans
✗ 1. provider
✓ 2. speed
✗ 3. latency
✗ 4. service provider

Question ID : **630680247971**
Option 1 ID : **630680962093**
Option 2 ID : **630680962091**
Option 3 ID : **630680962092**
Option 4 ID : **630680962094**
Status : **Answered**
Chosen Option : **2**

Website - www.dailyjobalert.in

Q.57 The WhatsApp messaging service is owned by _____.

Ans
1. Microsoft ✗
2. Meta ✓
3. Apple ✗
4. Oracle ✗

Question ID : **630680247968**
Option 1 ID : **630680962081**
Option 2 ID : **630680962080**
Option 3 ID : **630680962082**
Option 4 ID : **630680962079**
Status : **Answered**
Chosen Option : **2**

Q.58 _____is a type of malware that spies on a person or an organisation by gathering information about them without the knowledge of the user.

Ans
1. Adware ✗
2. Trojan ✗
3. Spyware ✓
4. Spam ✗

Question ID : **630680247974**
Option 1 ID : **630680962104**
Option 2 ID : **630680962106**
Option 3 ID : **630680962103**
Option 4 ID : **630680962105**
Status : **Not Answered**
Chosen Option : **--**

Q.59 Which of the following is NOT an example of system software?

Ans
1. Word processor ✓
2. Compiler ✗
3. Translator ✗
4. Interpreter ✗

Question ID : **630680247949**
Option 1 ID : **630680962006**
Option 2 ID : **630680962003**
Option 3 ID : **630680962005**
Option 4 ID : **630680962004**
Status : **Answered**
Chosen Option : **1**

Q.60 _____ is a social networking website where users can post questions and answers.

Ans
1. Pinterest ✗
2. Quora ✓
3. Telegram ✗
4. Snapchat ✗

Question ID : **630680247967**
Option 1 ID : **630680962077**
Option 2 ID : **630680962075**
Option 3 ID : **630680962076**
Option 4 ID : **630680962078**
Status : **Answered**
Chosen Option : **2**

Website - www.dailyjobalert.in

Q.61 What is the full form of 'HTTP'?

Ans
✗ 1. Hyper Text Trade Protocol
✗ 2. Hyper Text Transition Protocol
✗ 3. Heavy Text Transfer Protocol
✓ 4. Hyper Text Transfer Protocol

Question ID : **630680247964**
Option 1 ID : **630680962065**
Option 2 ID : **630680962066**
Option 3 ID : **630680962063**
Option 4 ID : **630680962064**
Status : **Answered**
Chosen Option : **1**

Q.62 Which of the following keyboard shortcuts is used to print a document?

Ans
✗ 1. Alt+P
✓ 2. Ctrl+P
✗ 3. Shift+P
✗ 4. Tab+P

Question ID : **630680247952**
Option 1 ID : **630680962015**
Option 2 ID : **630680962016**
Option 3 ID : **630680962017**
Option 4 ID : **630680962018**
Status : **Answered**
Chosen Option : **2**

Q.63 An instant messenger provides its clients with the capability to see whether their contacts are online and connected through the selected service. This capability is known as _____.

Ans
✗ 1. visibility
✓ 2. presence
✗ 3. authenticity
✗ 4. availability

Question ID : **630680247972**
Option 1 ID : **630680962096**
Option 2 ID : **630680962095**
Option 3 ID : **630680962098**
Option 4 ID : **630680962097**
Status : **Answered**
Chosen Option : **4**

Website - www.dailyjobalert.in

Q.64 In MS-Excel 2016, which of the following option is NOT available on a delete dialog box?

Ans
✗ 1. Entire column
✗ 2. Entire row
✓ 3. Shift cells right
✗ 4. Shift cells left

Question ID : **630680247958**
Option 1 ID : **630680962042**
Option 2 ID : **630680962040**
Option 3 ID : **630680962041**
Option 4 ID : **630680962039**
Status : **Not Answered**
Chosen Option : **--**

Q.65 In the year 1947, vacuum tubes were replaced by _____, developed at Bell Labs by using semiconductor materials.

Ans
✗ 1. punched cards
✗ 2. capacitors
✓ 3. transistors
✗ 4. integrated circuits

Question ID : **630680247947**
Option 1 ID : **630680961996**
Option 2 ID : **630680961998**
Option 3 ID : **630680961995**
Option 4 ID : **630680961997**
Status : **Not Answered**
Chosen Option : **--**

Q.66 Which of the following keyboard shortcuts can be used to activate a system monitor program that provides information about the processes being executed in a computer?

Ans
✗ 1. Alt+Tab+Delete
✓ 2. Alt+Ctrl+Delete
✗ 3. Alt+Shift+Delete
✗ 4. Shift+Delete

Question ID : **630680247951**
Option 1 ID : **630680962013**
Option 2 ID : **630680962011**
Option 3 ID : **630680962014**
Option 4 ID : **630680962012**
Status : **Not Answered**
Chosen Option : **--**

DAILY JOB ALERT ਪੰਜਾਬ

Q.67 The full form of 'MAC' is:

Ans
1. Media Application Control
2. Media Access Control
3. Medium Access Control
4. Multimedia Access Control

Question ID : **630680247962**
Option 1 ID : **630680962055**
Option 2 ID : **630680962057**
Option 3 ID : **630680962058**
Option 4 ID : **630680962056**
Status : **Answered**
Chosen Option : **1**

Q.68 In MS-PowerPoint 2016, the places on the slide where you can click and type text for a presentation are called '_____'.

Ans
1. Content panes
2. Task panes
3. Placeholders
4. Title panes

Question ID : **630680247959**
Option 1 ID : **630680962044**
Option 2 ID : **630680962045**
Option 3 ID : **630680962043**
Option 4 ID : **630680962046**
Status : **Not Answered**
Chosen Option : **--**

Q.69 In MS-Excel 2016, which of the following keyboard shortcuts is used to go to the end of the worksheet or to the last cell containing data?

Ans
1. Alt+End
2. Ctrl+End
3. Shift+End
4. Fn+End

Question ID : **630680247956**
Option 1 ID : **630680962032**
Option 2 ID : **630680962031**
Option 3 ID : **630680962033**
Option 4 ID : **630680962034**
Status : **Not Answered**
Chosen Option : **--**

Website - www.dailyjobalert.in

Q.70 Which of the following is NOT a type of alignment in an MS-Word 2016 document?

Ans
✔ 1. Top Alignment
✘ 2. Right Alignment
✘ 3. Left Alignment
✘ 4. Justify

Question ID : **630680247955**
Option 1 ID : **630680962029**
Option 2 ID : **630680962028**
Option 3 ID : **630680962027**
Option 4 ID : **630680962030**
Status : **Not Answered**
Chosen Option : **--**

Q.71 Which of the following is NOT an option available in the Clear sub-menu in MS-Excel 2016?

Ans
✔ 1. Texts
✘ 2. Comments
✘ 3. Contents
✘ 4. Formats

Question ID : **630680247957**
Option 1 ID : **630680962038**
Option 2 ID : **630680962037**
Option 3 ID : **630680962036**
Option 4 ID : **630680962035**
Status : **Not Answered**
Chosen Option : **--**

Q.72 Usage of magnetic tapes as output and input devices started in the _____of generation computers.

Ans
✘ 1. third
✘ 2. fourth
✘ 3. second
✔ 4. first

Question ID : **630680247948**
Option 1 ID : **630680962002**
Option 2 ID : **630680962000**
Option 3 ID : **630680961999**
Option 4 ID : **630680962001**
Status : **Not Answered**
Chosen Option : **--**

Website - www.dailyjobalert.in

Q.73 Social media typically features _____ content and personalised profiles that lend themselves to engagement via likes, shares, comments and discussion.

Ans
✔ 1. user-generated
✘ 2. auto-generated
✘ 3. digital marketing
✘ 4. pre-defined

Question ID : **630680247969**
Option 1 ID : **630680962086**
Option 2 ID : **630680962084**
Option 3 ID : **630680962085**
Option 4 ID : **630680962083**
Status : **Answered**
Chosen Option : **1**

Q.74 Which of the following social media platforms is considered as the ultimate visual inspiration discovery tool?

Ans
✘ 1. YouTube
✘ 2. Snapchat
✔ 3. Pinterest
✘ 4. Reddit

Question ID : **630680247973**
Option 1 ID : **630680962099**
Option 2 ID : **630680962101**
Option 3 ID : **630680962100**
Option 4 ID : **630680962102**
Status : **Answered**
Chosen Option : **1**

Q.75 In MS-PowerPoint 2016, the _____pane allows to decide on the order in which the slides will be shown during the slide show.

Ans
✘ 1. Notes
✔ 2. Slide Sorter
✘ 3. View
✘ 4. Slide

Question ID : **630680247960**
Option 1 ID : **630680962049**
Option 2 ID : **630680962050**
Option 3 ID : **630680962047**
Option 4 ID : **630680962048**
Status : **Not Answered**
Chosen Option : **--**

Website - www.dailyjobalert.in

Q.76 In MS-Word 2016, _____is the space left on one side of a document for stitching and binding.

Ans
✗ 1. indent
✓ 2. gutter
✗ 3. line space
✗ 4. margin

Question ID : **630680247954**
Option 1 ID : **630680962025**
Option 2 ID : **630680962023**
Option 3 ID : **630680962026**
Option 4 ID : **630680962024**
Status : **Not Answered**
Chosen Option : **--**

Q.77 What is the full form of 'DES'?

Ans
✗ 1. Discrete Encryption Standard
✗ 2. Data Encoding Standard
✓ 3. Data Encryption Standard
✗ 4. Dynamic Encryption Standard

Question ID : **630680247975**
Option 1 ID : **630680962108**
Option 2 ID : **630680962109**
Option 3 ID : **630680962107**
Option 4 ID : **630680962110**
Status : **Answered**
Chosen Option : **2**

Q.78 Which of the following is NOT an antivirus solution for smartphones?

Ans
✓ 1. Compass
✗ 2. Norton
✗ 3. Bit Defender
✗ 4. Kaspersky

Question ID : **630680247976**
Option 1 ID : **630680962114**
Option 2 ID : **630680962112**
Option 3 ID : **630680962111**
Option 4 ID : **630680962113**
Status : **Not Answered**
Chosen Option : **--**

Website - www.dailyjobalert.in

Q.79 In MS-PowerPoint 2016, which key on the keyboard is to be pressed to go to the previous slide?

Ans
✗ 1. Tab
✓ 2. Page Up
✗ 3. Enter
✗ 4. Down Arrow

Question ID : **630680247961**
Option 1 ID : **630680962051**
Option 2 ID : **630680962052**
Option 3 ID : **630680962053**
Option 4 ID : **630680962054**
Status : **Not Answered**
Chosen Option : **--**

Q.80 _____ allows voice transmission over a computer network rather than through the regular telephone network.

Ans
✓ 1. VoIP
✗ 2. HTTP
✗ 3. TCP
✗ 4. UDP

Question ID : **630680247970**
Option 1 ID : **630680962089**
Option 2 ID : **630680962088**
Option 3 ID : **630680962087**
Option 4 ID : **630680962090**
Status : **Answered**
Chosen Option : **1**

Section : **English Language**

Q.81 Identify the grammatical error in the following sentence.
There is a film in noon that we could see together.

Ans
✓ 1. in
✗ 2. that
✗ 3. together
✗ 4. could

Question ID : **63068057640**
Option 1 ID : **630680222402**
Option 2 ID : **630680222403**
Option 3 ID : **630680222405**
Option 4 ID : **630680222404**
Status : **Answered**
Chosen Option : **4**

Website - www.dailyjobalert.in

Q.82 Select the sentence in which all the words are spelt correctly.

Ans
✗ 1. The emphasis on primary education has negatively afected secondary and post-secondary education.

✗ 2. The emphasis on primary education has negatively effacted secondary and post-secondary education.

✗ 3. The emphasis on primary education has negatively afacted secondary and post-secondary education.

✓ 4. The emphasis on primary education has negatively affected secondary and post-secondary education.

Question ID : **630680131754**
Option 1 ID : **630680510229**
Option 2 ID : **630680510226**
Option 3 ID : **630680510227**
Option 4 ID : **630680510228**
Status : **Answered**
Chosen Option : **2**

Q.83 Select the most appropriate ANTONYM of the word 'Innocuous' in the given sentence.
Our coach said, "Trekking in the mountainous region can be memorable, entertaining, adventurous or perilous in nature."

Ans
✗ 1. memorable

✗ 2. adventurous

✓ 3. perilous

✗ 4. entertaining

Question ID : **63068085851**
Option 1 ID : **630680332864**
Option 2 ID : **630680332866**
Option 3 ID : **630680332867**
Option 4 ID : **630680332865**
Status : **Answered**
Chosen Option : **3**

Q.84 "ਮਣਕੂ ਅਜਿਹਾ ਇਨਸਾਨ ਹੈ ਕਿ ਹਰ ਕਿਸੇ ਦੀ ਮਦਦ ਕਰਦਾ ਹੈ।" ਇਸ ਵਾਕ ਦਾ ਅੰਗਰੇਜ਼ੀ ਅਨੁਵਾਦ ਹੈ:-

Ans
✗ 1. Manku is a good person who helps everyone .

✓ 2. Manku is such a person who helps everyone.

✗ 3. Manku is such a person who want to helps everyone.

✗ 4. Manku is such a man who helped all.

Question ID : **630680248105**
Option 1 ID : **630680962629**
Option 2 ID : **630680962627**
Option 3 ID : **630680962628**
Option 4 ID : **630680962630**
Status : **Answered**
Chosen Option : **2**

Website - www.dailyjobalert.in

Q.85 **Select the most appropriate ANTONYM of the underlined word.**

"But what became of the Miller?" asked the Water-rat. "Oh! I really don't know," replied the Linnet; "and I am sure that I don't care." "It is quite evident then that you have no sympathy in your nature," said the Water-rat.

Ans
- ✗ 1. Initiative
- ✓ 2. Indifference
- ✗ 3. Passion
- ✗ 4. Pity

Question ID : **630680131059**
Option 1 ID : **630680507516**
Option 2 ID : **630680507514**
Option 3 ID : **630680507517**
Option 4 ID : **630680507515**
Status : **Answered**
Chosen Option : **1**

Q.86 **Parts of a sentence are given below in jumbled order. Arrange the parts in the correct order to form a meaningful sentence.**
A.that is the alma mater
B.we are privileged to
C. in this prestigious institution
D.to great alumni
E.have received education

Ans
- ✗ 1. B, E, D, A, C
- ✗ 2. A, C, B, D, A
- ✓ 3. B, E, C, A, D
- ✗ 4. D, A, C, B, E

Question ID : **630680113205**
Option 1 ID : **630680438383**
Option 2 ID : **630680438384**
Option 3 ID : **630680438385**
Option 4 ID : **630680438382**
Status : **Answered**
Chosen Option : **3**

Q.87 **Select the most appropriate option to fill in the blank.**

There's___ bottle of orange juice in the fridge.

Ans
- ✗ 1. the
- ✗ 2. some
- ✗ 3. an
- ✓ 4. a

Question ID : **63068067330**
Option 1 ID : **630680260142**
Option 2 ID : **630680260145**
Option 3 ID : **630680260144**
Option 4 ID : **630680260143**
Status : **Answered**
Chosen Option : **2**

Website - www.dailyjobalert.in

Q.88 Select the option that can be used as a one-word substitute for the given group of words.

A long journey to visit a religious place

Ans
1. Horde
2. Pilgrimage
3. Flock
4. Congregation

Question ID : **630680129647**
Option 1 ID : **630680502196**
Option 2 ID : **630680502194**
Option 3 ID : **630680502197**
Option 4 ID : **630680502195**
Status : **Answered**
Chosen Option : **1**

Q.89 Select the most appropriate ANTONYM of the word 'Condemn' in the given sentence.
Sushma doesn't adhere to Ram's belief that modernity has acquired our daily life and forced us to create a false world.

Ans
1. acquire
2. force
3. adhere
4. create

Question ID : **63068085850**
Option 1 ID : **630680332861**
Option 2 ID : **630680332862**
Option 3 ID : **630680332860**
Option 4 ID : **630680332863**
Status : **Answered**
Chosen Option : **3**

Q.90 Select the option that can be used as a one-word substitute for the given group of words.

It is a measure taken in advance to avoid something unpleasant.

Ans
1. Precaution
2. Care
3. Substitution
4. Delivery

Question ID : **630680129753**
Option 1 ID : **630680502610**
Option 2 ID : **630680502612**
Option 3 ID : **630680502613**
Option 4 ID : **630680502611**
Status : **Answered**
Chosen Option : **1**

Website - www.dailyjobalert.in

Q.91 **The following sentence has been divided into parts. One of them may contain an error. Select the part that contains the error from the given options. If you don't find any error, mark 'No error' as your answer.**
When the hunter aimed for the beautiful bird,/ his wife requested him/ not to shoot.

Ans
✗ 1. His wife requested him
✓ 2. When the hunter aimed for the beautiful bird
✗ 3. No error
✗ 4. Not to shoot

Question ID : **630680176548**
Option 1 ID : **630680684417**
Option 2 ID : **630680684416**
Option 3 ID : **630680684419**
Option 4 ID : **630680684418**
Status : **Answered**
Chosen Option : **4**

Q.92 **Select the most appropriate ANTONYM of the capitalised word in the given sentence.**
He has CHRONIC depression.

Ans
✓ 1. Temporary
✗ 2. Substantiate
✗ 3. Precise
✗ 4. Recurring

Question ID : **630680118352**
Option 1 ID : **630680458543**
Option 2 ID : **630680458545**
Option 3 ID : **630680458542**
Option 4 ID : **630680458544**
Status : **Answered**
Chosen Option : **3**

Q.93 **Sentences of a paragraph are given below in jumbled order. Arrange the sentences in the correct order to form a meaningful and coherent paragraph.**
P. In recent years, there has been a general trend for new buildings to be more environmentally friendly.
Q. Howe Dell primary school has its own wind turbine to generate energy, uses rainwater to flush toilets, and uses desks and sinks made from materials such as old drainpipes and yoghurt pots.
R. These buildings use energy and water efficiently, reducing waste and pollution.
S. One school in the UK has shown us that ecological principles are just as relevant for small-scale projects as large-scale ones.
T. However, installing features like solar panels and water-recycling systems involves higher construction costs than in a traditional building.
U. The question is whether customers are willing to pay these extra costs.

Ans
✗ 1. PRUTQS
✗ 2. URTPSQ
✗ 3. PSRTQU
✓ 4. PRTUSQ

Question ID : **63068084585**
Option 1 ID : **630680327879**
Option 2 ID : **630680327877**
Option 3 ID : **630680327878**
Option 4 ID : **630680327876**
Status : **Not Answered**
Chosen Option : **--**

Website - www.dailyjobalert.in

Q.94 **The following sentence has been split into four segments. Identify the segment that contains a grammatical error.**

When my niece / was three, / she can already / read very well.

Ans
- ✗ 1. was three
- ✓ 2. she can already
- ✗ 3. read very well
- ✗ 4. When my niece

Question ID : **630680129264**
Option 1 ID : **630680500683**
Option 2 ID : **630680500684**
Option 3 ID : **630680500685**
Option 4 ID : **630680500682**
Status : **Answered**
Chosen Option : **2**

Q.95 **Select the correct/standard collocation to complete the following sentence.**

He _____ some ointment on the cut.

Ans
- ✗ 1. laid
- ✓ 2. put
- ✗ 3. lay
- ✗ 4. set

Question ID : **63068069791**
Option 1 ID : **630680269824**
Option 2 ID : **630680269823**
Option 3 ID : **630680269825**
Option 4 ID : **630680269822**
Status : **Answered**
Chosen Option : **2**

DAILY JOB Alert

Comprehension:

Read the given passage and answer the questions that follow.

Since plastics used in packaging form a highly visible part (approximately 20% by volume but less than 10% by weight) of the waste stream, most recycling efforts have focused on containers. Almost all bottles, food trays, cups and dishes made of the major commodity plastics now bear an identifying number enclosed in a triangle together with an abbreviation. In addition to such labeling, in many localities consumers are encouraged to return empty beverage containers to the place of purchase by being required to pay a deposit on each unit at the time of purchase. This system helps to solve two of the major problems associated with economical recycling, since the consumer seeking return of the deposit does the sorting and the stores gather the plastics into central locations. An added attraction of deposit laws is a notable decrease in roadside litter. However, while such measures have helped to raise dramatically the recycling rate of plastic bottles—especially those made of polyethylene terephthalate (PET) and high-density polyethylene (HDPE)—less than 10% of all plastic products are recycled after first use. On the other hand, most plastics are used in long-term applications such as construction, appliances and home furnishings, for which efficient recycling is difficult.In general, thermoplastic materials can be recycled more readily than thermosets. Still, there are inherent limitations on the recycling of even these materials. First, a recyclable plastic may be contaminated by non plastics or by different polymers making up the original product. Even within a single polymer type, there are differences in molecular weight. For instance, a supplier of polystyrene may produce a material of high molecular weight for sheet-formed food trays, since that forming process favours a high melt viscosity and elasticity. At the same time, the supplier may offer a low-molecular-weight polystyrene for the injection molding of disposable dinnerware, since injection molding works best with a melt of low viscosity and very little elasticity. If the polymers from both types of product are mixed in a recycling operation, the mixed material will not be very suitable for either of the original applications.

SubQuestion No : 96

Q.96 The most appropriate synonym of the word 'disposable' is:

Ans

✗ 1. opaque

✗ 2. SME: Options 2 and 3 are incongruent with the stem.

✓ 3. throwaway

✗ 4. accumulation

Question ID : **630680104634**
Option 1 ID : **630680406700**
Option 2 ID : **630680406701**
Option 3 ID : **630680406702**
Option 4 ID : **630680406699**
Status : **Answered**
Chosen Option : **3**

Website - www.dailyjobalert.in

Comprehension:

Read the given passage and answer the questions that follow.

Since plastics used in packaging form a highly visible part (approximately 20% by volume but less than 10% by weight) of the waste stream, most recycling efforts have focused on containers. Almost all bottles, food trays, cups and dishes made of the major commodity plastics now bear an identifying number enclosed in a triangle together with an abbreviation. In addition to such labeling, in many localities consumers are encouraged to return empty beverage containers to the place of purchase by being required to pay a deposit on each unit at the time of purchase. This system helps to solve two of the major problems associated with economical recycling, since the consumer seeking return of the deposit does the sorting and the stores gather the plastics into central locations. An added attraction of deposit laws is a notable decrease in roadside litter. However, while such measures have helped to raise dramatically the recycling rate of plastic bottles—especially those made of polyethylene terephthalate (PET) and high-density polyethylene (HDPE)—less than 10% of all plastic products are recycled after first use. On the other hand, most plastics are used in long-term applications such as construction, appliances and home furnishings, for which efficient recycling is difficult.In general, thermoplastic materials can be recycled more readily than thermosets. Still, there are inherent limitations on the recycling of even these materials. First, a recyclable plastic may be contaminated by non plastics or by different polymers making up the original product. Even within a single polymer type, there are differences in molecular weight. For instance, a supplier of polystyrene may produce a material of high molecular weight for sheet-formed food trays, since that forming process favours a high melt viscosity and elasticity. At the same time, the supplier may offer a low-molecular-weight polystyrene for the injection molding of disposable dinnerware, since injection molding works best with a melt of low viscosity and very little elasticity. If the polymers from both types of product are mixed in a recycling operation, the mixed material will not be very suitable for either of the original applications.

SubQuestion No : 97

Q.97 Which of the following is NOT related to the summary of the passage?

Ans

✗ 1. Recycled plastics are used for manufacturing new plastic bottles, containers. etc.

✗ 2. Recycling reduces the amount of waste sent to landfills.

✗ 3. Polyethylene terephthalate (PET) and high-density polyethylene (HDPE), and polystyrene are used for food packaging in modern days

✓ 4. Polycarbonate is the strongest plastic that is used for food packaging in modern days.

Question ID : **630680104635**
Option 1 ID : **630680406703**
Option 2 ID : **630680406706**
Option 3 ID : **630680406704**
Option 4 ID : **630680406705**
Status : **Answered**
Chosen Option : **4**

Website - www.dailyjobalert.in

Comprehension:

Read the given passage and answer the questions that follow.

Since plastics used in packaging form a highly visible part (approximately 20% by volume but less than 10% by weight) of the waste stream, most recycling efforts have focused on containers. Almost all bottles, food trays, cups and dishes made of the major commodity plastics now bear an identifying number enclosed in a triangle together with an abbreviation. In addition to such labeling, in many localities consumers are encouraged to return empty beverage containers to the place of purchase by being required to pay a deposit on each unit at the time of purchase. This system helps to solve two of the major problems associated with economical recycling, since the consumer seeking return of the deposit does the sorting and the stores gather the plastics into central locations. An added attraction of deposit laws is a notable decrease in roadside litter. However, while such measures have helped to raise dramatically the recycling rate of plastic bottles—especially those made of polyethylene terephthalate (PET) and high-density polyethylene (HDPE)—less than 10% of all plastic products are recycled after first use. On the other hand, most plastics are used in long-term applications such as construction, appliances and home furnishings, for which efficient recycling is difficult.In general, thermoplastic materials can be recycled more readily than thermosets. Still, there are inherent limitations on the recycling of even these materials. First, a recyclable plastic may be contaminated by non plastics or by different polymers making up the original product. Even within a single polymer type, there are differences in molecular weight. For instance, a supplier of polystyrene may produce a material of high molecular weight for sheet-formed food trays, since that forming process favours a high melt viscosity and elasticity. At the same time, the supplier may offer a low-molecular-weight polystyrene for the injection molding of disposable dinnerware, since injection molding works best with a melt of low viscosity and very little elasticity. If the polymers from both types of product are mixed in a recycling operation, the mixed material will not be very suitable for either of the original applications.

SubQuestion No : 98

Q.98 The percentage of plastic use for packaging mentioned in the passage is _____.

Ans

✗ 1. almost 1.5 billion plastic bottles are made.

✗ 2. estimated 14.5 million tons of plastic containers and packaging are generated.

✓ 3. approximately 20% by volume but less than 10% by weight.

✗ 4. more than 70% of all plastic products are recycled after first use.

Question ID : **630680104631**
Option 1 ID : **630680406688**
Option 2 ID : **630680406687**
Option 3 ID : **630680406689**
Option 4 ID : **630680406690**
Status : **Answered**
Chosen Option : **3**

Website - www.dailyjobalert.in

Comprehension:

Read the given passage and answer the questions that follow.

Since plastics used in packaging form a highly visible part (approximately 20% by volume but less than 10% by weight) of the waste stream, most recycling efforts have focused on containers. Almost all bottles, food trays, cups and dishes made of the major commodity plastics now bear an identifying number enclosed in a triangle together with an abbreviation. In addition to such labeling, in many localities consumers are encouraged to return empty beverage containers to the place of purchase by being required to pay a deposit on each unit at the time of purchase. This system helps to solve two of the major problems associated with economical recycling, since the consumer seeking return of the deposit does the sorting and the stores gather the plastics into central locations. An added attraction of deposit laws is a notable decrease in roadside litter. However, while such measures have helped to raise dramatically the recycling rate of plastic bottles—especially those made of polyethylene terephthalate (PET) and high-density polyethylene (HDPE)—less than 10% of all plastic products are recycled after first use. On the other hand, most plastics are used in long-term applications such as construction, appliances and home furnishings, for which efficient recycling is difficult.In general, thermoplastic materials can be recycled more readily than thermosets. Still, there are inherent limitations on the recycling of even these materials. First, a recyclable plastic may be contaminated by non plastics or by different polymers making up the original product. Even within a single polymer type, there are differences in molecular weight. For instance, a supplier of polystyrene may produce a material of high molecular weight for sheet-formed food trays, since that forming process favours a high melt viscosity and elasticity. At the same time, the supplier may offer a low-molecular-weight polystyrene for the injection molding of disposable dinnerware, since injection molding works best with a melt of low viscosity and very little elasticity. If the polymers from both types of product are mixed in a recycling operation, the mixed material will not be very suitable for either of the original applications.

SubQuestion No : 99

Q.99 What is the first step in recycling plastic mentioned in the passage?

Ans

✗ 1. Single-use plastics does not actually get recycled

✓ 2. Collecting the plastic material to be recycled from the consumers

✗ 3. Sorting and categorising

✗ 4. Increases the amount of waste sent to landfills

Question ID : **630680104633**
Option 1 ID : **630680406697**
Option 2 ID : **630680406695**
Option 3 ID : **630680406698**
Option 4 ID : **630680406696**
Status : **Answered**
Chosen Option : **2**

Website - www.dailyjobalert.in

Comprehension:

Read the given passage and answer the questions that follow.

Since plastics used in packaging form a highly visible part (approximately 20% by volume but less than 10% by weight) of the waste stream, most recycling efforts have focused on containers. Almost all bottles, food trays, cups and dishes made of the major commodity plastics now bear an identifying number enclosed in a triangle together with an abbreviation. In addition to such labeling, in many localities consumers are encouraged to return empty beverage containers to the place of purchase by being required to pay a deposit on each unit at the time of purchase. This system helps to solve two of the major problems associated with economical recycling, since the consumer seeking return of the deposit does the sorting and the stores gather the plastics into central locations. An added attraction of deposit laws is a notable decrease in roadside litter. However, while such measures have helped to raise dramatically the recycling rate of plastic bottles—especially those made of polyethylene terephthalate (PET) and high-density polyethylene (HDPE)—less than 10% of all plastic products are recycled after first use. On the other hand, most plastics are used in long-term applications such as construction, appliances and home furnishings, for which efficient recycling is difficult.In general, thermoplastic materials can be recycled more readily than thermosets. Still, there are inherent limitations on the recycling of even these materials. First, a recyclable plastic may be contaminated by non plastics or by different polymers making up the original product. Even within a single polymer type, there are differences in molecular weight. For instance, a supplier of polystyrene may produce a material of high molecular weight for sheet-formed food trays, since that forming process favours a high melt viscosity and elasticity. At the same time, the supplier may offer a low-molecular-weight polystyrene for the injection molding of disposable dinnerware, since injection molding works best with a melt of low viscosity and very little elasticity. If the polymers from both types of product are mixed in a recycling operation, the mixed material will not be very suitable for either of the original applications.

SubQuestion No : 100

Q.100 A low-molecular-weight polystyrene is _____ for the injection molding

Ans

✗ 1. buy more packaged food products

✗ 2. the recyclers melt the plastic and they make them into old products

✓ 3. used to produce large numbers of disposable consumer goods

✗ 4. rarely performed with thermoplastic polymers

Question ID : **630680104632**
Option 1 ID : **630680406694**
Option 2 ID : **630680406691**
Option 3 ID : **630680406692**
Option 4 ID : **630680406693**
Status : **Answered**
Chosen Option : **4**

Section : **Qualifying Test of Punjabi Language**

Q.1 ਮਾਮੀ ਦਾ ਬਹੁਵਚਨ ਹੈ:

Ans

✗ 1. ਮਾਮੀਏ

✗ 2. ਮਾਮਿਆਂ

✓ 3. ਮਾਮੀਆਂ

✗ 4. ਮਾਮਾ

Question ID : **630680248572**
Option 1 ID : **630680964433**
Option 2 ID : **630680964432**
Option 3 ID : **630680964431**
Option 4 ID : **630680964434**
Status : **Answered**
Chosen Option : **3**

Website - www.dailyjobalert.in

Q.2 ਅੱਗੇ ਲਿਖੇ ਬਹੁਤੇ ਸ਼ਬਦਾਂ ਲਈ ਇਕ ਸ਼ਬਦ ਚੁਣੋ: ਉਲਟਾ ਨੁਕਸਾਨ ਪਹੁੰਚਾਉਣ ਵਾਲ਼ਾ

Ans
1. ਚੁਪਾਇਆ
2. ਵਿਸ਼ਵਾਸ-ਪਾਤਰ
3. ਵਿਸ਼ਵਾਸ-ਘਾਤੀ
4. ਆਗਿਆਕਾਰ

Question ID : **630680248571**
Option 1 ID : **630680964430**
Option 2 ID : **630680964427**
Option 3 ID : **630680964428**
Option 4 ID : **630680964429**
Status : **Answered**
Chosen Option : **3**

Q.3 ਅੱਗੇ ਲਿਖੇ ਬਹੁਤੇ ਸ਼ਬਦਾਂ ਲਈ ਇਕ ਸ਼ਬਦ ਚੁਣੋ: ਜਿਹੜੀ ਗੱਲ ਬਹੁਤ ਵਧਾ-ਚੜ੍ਹਾ ਕੇ ਆਖੀ ਜਾਵੇ

Ans
1. ਵਰਿਆਮ
2. ਕ੍ਰਿਤੱਗ
3. ਅੱਤਕਥਨੀ
4. ਅਣਥੱਕ

Question ID : **630680248568**
Option 1 ID : **630680964417**
Option 2 ID : **630680964416**
Option 3 ID : **630680964418**
Option 4 ID : **630680964415**
Status : **Answered**
Chosen Option : **3**

Q.4 ਬਦੀ ਦਾ ਵਿਰੋਧੀ ਸ਼ਬਦ ਹੈ:

Ans
1. ਹਾਨੀ
2. ਨੇਕੀ
3. ਪਰਦੇਸ
4. ਸੋਗ

Question ID : **630680248566**
Option 1 ID : **630680964409**
Option 2 ID : **630680964408**
Option 3 ID : **630680964410**
Option 4 ID : **630680964407**
Status : **Answered**
Chosen Option : **1**

Q.5 ਅਖਾਣ ਵਿਚਲੀ ਖ਼ਾਲੀ ਥਾਂ ਭਰੋ: ਉਹ ਕਿਹੜੀ ਗਲ਼ੀ ਜਿੱਥੇ_____ ਨਹੀਂ ਖਲੀ

Ans
1. ਮਿੰਦੋ
2. ਛਿੰਦੋ
3. ਭਾਗੋ
4. ਜੀਤੋ

Question ID : **630680248590**
Option 1 ID : **630680964505**
Option 2 ID : **630680964504**
Option 3 ID : **630680964506**
Option 4 ID : **630680964503**
Status : **Answered**
Chosen Option : **1**

Website - www.dailyjobalert.in

Q.6 ਦੇਸੀ ਸਾਲ ਦਾ ਆਖ਼ਰੀ ਮਹੀਨਾ ਕਿਹੜਾ ਹੈ?

Ans
- ✗ 1. ਮੱਘਰ
- ✓ 2. ਫੱਗਣ
- ✗ 3. ਚੇਤ
- ✗ 4. ਅੱਸੂ

Question ID : **630680248609**
Option 1 ID : **630680964582**
Option 2 ID : **630680964579**
Option 3 ID : **630680964580**
Option 4 ID : **630680964581**
Status : **Answered**
Chosen Option : **1**

Q.7 ਹੇਠ ਲਿਖਿਆਂ ਵਿੱਚੋਂ ਕਿਸ ਵਾਕ ਵਿਚ ਵਿਸਰਾਮ ਚਿੰਨ੍ਹਾਂ ਦੀ ਠੀਕ ਵਰਤੋਂ ਹੋਈ ਹੈ?

Ans
- ✗ 1. ਮਾਸਟਰ ਜੀ, ਸੁਰਿੰਦਰ, ਤੂੰ ਅੱਜ ਦੇਰ ਨਾਲ ਕਿਉਂ ਆਇਆ ਹੈਂ !
- ✗ 2. ਮਾਸਟਰ ਜੀ : ਸੁਰਿੰਦਰ "ਤੂੰ ਅੱਜ ਦੇਰ ਨਾਲ ਕਿਉਂ ਆਇਆ ਹੈਂ ।"
- ✓ 3. ਮਾਸਟਰ ਜੀ : ਸੁਰਿੰਦਰ, ਤੂੰ ਅੱਜ ਦੇਰ ਨਾਲ ਕਿਉਂ ਆਇਆ ਹੈਂ?
- ✗ 4. ਮਾਸਟਰ ਜੀ ; ਸੁਰਿੰਦਰ! ਤੂੰ ਅੱਜ ਦੇਰ ਨਾਲ ਕਿਉਂ ਆਇਆ ਹੈਂ?

Question ID : **630680248598**
Option 1 ID : **630680964537**
Option 2 ID : **630680964538**
Option 3 ID : **630680964536**
Option 4 ID : **630680964535**
Status : **Answered**
Chosen Option : **3**

Q.8 ਮੁਹਾਵਰੇ ਵਿਚਲੀ ਖ਼ਾਲੀ ਥਾਂ ਭਰੋ: ਜੜ੍ਹੀਂ _____ ਦੇਣਾ

Ans
- ✗ 1. ਖਾਦ
- ✗ 2. ਗੋਡੀ
- ✓ 3. ਤੇਲ
- ✗ 4. ਪਾਣੀ

Question ID : **630680248594**
Option 1 ID : **630680964519**
Option 2 ID : **630680964520**
Option 3 ID : **630680964521**
Option 4 ID : **630680964522**
Status : **Answered**
Chosen Option : **4**

Q.9 ਠਰ੍ਹੰਮਾ ਸ਼ਬਦ ਦਾ ਅਰਥ ਹੈ:

Ans
- ✓ 1. ਧੀਰਜ
- ✗ 2. ਸ਼ੁੱਧ
- ✗ 3. ਜੁੱਸਾ
- ✗ 4. ਬਲ

Question ID : **630680248606**
Option 1 ID : **630680964570**
Option 2 ID : **630680964568**
Option 3 ID : **630680964569**
Option 4 ID : **630680964567**
Status : **Answered**
Chosen Option : **1**

Website - www.dailyjobalert.in

Q.10 ਲਾਪਰਵਾਹ ਸ਼ਬਦ ਵਿਚ ਅਗੇਤਰ ਹੈ:

Ans
- ✗ 1. ਲਾਪ
- ✗ 2. ਵਾਹ
- ✓ 3. ਲਾ
- ✗ 4. ਲਾਪਰਵ

Question ID : **630680248582**
Option 1 ID : **630680964472**
Option 2 ID : **630680964474**
Option 3 ID : **630680964471**
Option 4 ID : **630680964473**
Status : **Answered**
Chosen Option : **3**

Q.11 ਦੁਪਰਤੀ ਸ਼ਬਦ ਵਿਚ ਅਗੇਤਰ ਹੈ:

Ans
- ✓ 1. ਦੁ
- ✗ 2. ਦੁਪਰ
- ✗ 3. ਦੁਪ
- ✗ 4. ਰਤੀ

Question ID : **630680248583**
Option 1 ID : **630680964475**
Option 2 ID : **630680964477**
Option 3 ID : **630680964476**
Option 4 ID : **630680964478**
Status : **Answered**
Chosen Option : **1**

Q.12 ਲੰਬੜਦਾਰ ਸ਼ਬਦ ਦਾ ਲਿੰਗ ਬਦਲੋ

Ans
- ✗ 1. ਲੰਬੜਦਾਰੜੀ
- ✓ 2. ਲੰਬੜਦਾਰਨੀ
- ✗ 3. ਲੰਬੜਦਾਰੀ
- ✗ 4. ਲੰਬੜਦਾਰਨ

Question ID : **630680248578**
Option 1 ID : **630680964458**
Option 2 ID : **630680964455**
Option 3 ID : **630680964456**
Option 4 ID : **630680964457**
Status : **Answered**
Chosen Option : **2**

Q.13 ਹਮਸ਼ਕਲ ਸ਼ਬਦ ਵਿਚ ਅਗੇਤਰ ਹੈ:

Ans
- ✗ 1. ਹ
- ✓ 2. ਹਮ
- ✗ 3. ਸ਼ਕਲ
- ✗ 4. ਹਮਸ਼

Question ID : **630680248581**
Option 1 ID : **630680964467**
Option 2 ID : **630680964468**
Option 3 ID : **630680964470**
Option 4 ID : **630680964469**
Status : **Answered**
Chosen Option : **2**

Website - www.dailyjobalert.in

Q.14 ਮਿੱਤਰ ਸ਼ਬਦ ਦਾ ਲਿੰਗ ਬਦਲੋ

Ans
- ✗ 1. ਮਿਤੱਰਤਾ
- ✓ 2. ਸਹੇਲੀ
- ✗ 3. ਮਿੱਤਰੋ
- ✗ 4. ਮਿੱਤਰੀ

Question ID : **630680248579**
Option 1 ID : **630680964460**
Option 2 ID : **630680964459**
Option 3 ID : **630680964462**
Option 4 ID : **630680964461**
Status : **Answered**
Chosen Option : **2**

Q.15 ਜੇਠ ਤੋਂ ਪਹਿਲਾਂ ਕਿਹੜਾ ਮਹੀਨਾ ਆਉਂਦਾ ਹੈ?

Ans
- ✗ 1. ਹਾੜ
- ✗ 2. ਭਾਦੋਂ
- ✗ 3. ਚੇਤ
- ✓ 4. ਵਿਸਾਖ

Question ID : **630680248608**
Option 1 ID : **630680964577**
Option 2 ID : **630680964578**
Option 3 ID : **630680964575**
Option 4 ID : **630680964576**
Status : **Answered**
Chosen Option : **4**

Q.16 ਸ਼ੁੱਧ ਸ਼ਬਦ ਜੋੜ ਚੁਣੋ:

Ans
- ✗ 1. ਏਵਜਾਨਾ
- ✗ 2. ਇਵਜਾਨਾ
- ✗ 3. ਏਵਜ਼ਾਨਾ
- ✓ 4. ਇਵਜ਼ਾਨਾ

Question ID : **630680248588**
Option 1 ID : **630680964496**
Option 2 ID : **630680964495**
Option 3 ID : **630680964497**
Option 4 ID : **630680964498**
Status : **Answered**
Chosen Option : **4**

Q.17 ਹੇਠ ਲਿਖਿਆਂ ਵਿੱਚੋਂ ਕਿਸ ਵਾਕ ਵਿਚ ਵਿਸਰਾਮ ਚਿੰਨ੍ਹਾਂ ਦੀ ਠੀਕ ਵਰਤੋਂ ਹੋਈ ਹੈ?

Ans
- ✓ 1. ਇਹ ਕਿਤਾਬ, ਜਿਹੜੀ ਤੁਹਾਡੇ ਹੱਥ ਵਿਚ ਹੈ, ਮੈਨੂੰ ਇਨਾਮ ਵਿਚ ਮਿਲ਼ੀ ਸੀ।
- ✗ 2. ਇਹ ਕਿਤਾਬ ! ਜਿਹੜੀ ਤੁਹਾਡੇ ਹੱਥ ਵਿਚ ਹੈ: ਮੈਨੂੰ ਇਨਾਮ ਵਿਚ ਮਿਲ਼ੀ ਸੀ।
- ✗ 3. ਇਹ ਕਿਤਾਬ; ਜਿਹੜੀ, ਤੁਹਾਡੇ ਹੱਥ ਵਿਚ ਹੈ, ਮੈਨੂੰ ਇਨਾਮ ਵਿਚ ਮਿਲ਼ੀ ਸੀ।
- ✗ 4. ਇਹ ਕਿਤਾਬ, "ਜਿਹੜੀ ਤੁਹਾਡੇ ਹੱਥ ਵਿਚ ਹੈ", ਮੈਨੂੰ ਇਨਾਮ ਵਿਚ ਮਿਲ਼ੀ ਸੀ।

Question ID : **630680248597**
Option 1 ID : **630680964531**
Option 2 ID : **630680964534**
Option 3 ID : **630680964532**
Option 4 ID : **630680964533**
Status : **Answered**
Chosen Option : **1**

DAILY JOB Alert ਪੰਜਾਬ
Website - www.dailyjobalert.in

Q.18 ਗ਼ੈਰਸਰਕਾਰੀ ਸ਼ਬਦ ਵਿਚ ਅਗੇਤਰ ਹੈ:

Ans
1. ਗ਼ੈ
2. ਗ਼ੈਰਸਰ
3. ਗ਼ੈਰ
4. ਗ਼ੈਰਸ

Question ID : **630680248584**
Option 1 ID : **630680964479**
Option 2 ID : **630680964482**
Option 3 ID : **630680964480**
Option 4 ID : **630680964481**
Status : **Answered**
Chosen Option : **3**

Q.19 ਸੋਹਣਾ ਦਾ ਸਮਾਨਾਰਥਕ ਸ਼ਬਦ ਹੈ:

Ans
1. ਸੁੰਦਰ
2. ਸਰੂਰ
3. ਗੌਂ
4. ਤਹਿਜ਼ੀਬ

Question ID : **630680248563**
Option 1 ID : **630680964397**
Option 2 ID : **630680964398**
Option 3 ID : **630680964396**
Option 4 ID : **630680964395**
Status : **Answered**
Chosen Option : **1**

Q.20 ਖ਼ਾਕ ਛਾਣਨਾ - ਮੁਹਾਵਰੇ ਦਾ ਅਰਥ ਹੈ:

Ans
1. ਪਰੇਸ਼ਾਨ ਹੋਣਾ
2. ਬਹੁਤ ਜ਼ਿਆਦਾ ਅਸਰ ਹੋਣਾ
3. ਵਿਅਰਥ ਯਤਨ ਕਰਨਾ
4. ਉਦਾਸ ਹੋਣਾ

Question ID : **630680248593**
Option 1 ID : **630680964516**
Option 2 ID : **630680964518**
Option 3 ID : **630680964515**
Option 4 ID : **630680964517**
Status : **Answered**
Chosen Option : **1**

Q.21 69 ਨੂੰ ਪੰਜਾਬੀ ਵਿਚ ਕਹਿੰਦੇ ਹਨ:

Ans
1. ਉਨਾਸੀ
2. ਉੱਣਤਰ
3. ਉਨਾਨਵੇਂ
4. ਉਨਾਹਠ

Question ID : **630680248604**
Option 1 ID : **630680964561**
Option 2 ID : **630680964560**
Option 3 ID : **630680964562**
Option 4 ID : **630680964559**
Status : **Answered**
Chosen Option : **2**

Website - www.dailyjobalert.in

Q.22 ਸੰਜੋਗ ਦਾ ਸਮਾਨਾਰਥਕ ਸ਼ਬਦ ਹੈ:

Ans
✗ 1. ਅਕਲ
✓ 2. ਮੇਲ
✗ 3. ਕੋਮਲ
✗ 4. ਸ਼ਾਂਤੀ

Question ID : **630680248561**
Option 1 ID : **630680964387**
Option 2 ID : **630680964389**
Option 3 ID : **630680964390**
Option 4 ID : **630680964388**
Status : **Answered**
Chosen Option : **2**

Q.23 ਲੱਤ ਦਾ ਬਹੁਵਚਨ ਹੈ:

Ans
✓ 1. ਲੱਤਾਂ
✗ 2. ਲੱਤੀਆਂ
✗ 3. ਲੱਤੇਂ
✗ 4. ਲੱਤੋਂ

Question ID : **630680248573**
Option 1 ID : **630680964438**
Option 2 ID : **630680964437**
Option 3 ID : **630680964435**
Option 4 ID : **630680964436**
Status : **Answered**
Chosen Option : **1**

Q.24 ਅਖਾਣ ਪੂਰਾ ਕਰੋ: ਕੋਲਿਆਂ ਦੀ ਦਲਾਲੀ ਵਿਚ_____

Ans
✗ 1. ਹੱਥ ਕਾਲ਼ੇ
✓ 2. ਮੂੰਹ ਕਾਲ਼ਾ
✗ 3. ਪੈਰ ਕਾਲ਼ੇ
✗ 4. ਸਭ ਕਾਲ਼ਾ

Question ID : **630680248591**
Option 1 ID : **630680964508**
Option 2 ID : **630680964507**
Option 3 ID : **630680964509**
Option 4 ID : **630680964510**
Status : **Answered**
Chosen Option : **2**

Q.25 ਅੱਗੇ ਲਿਖੇ ਬਹੁਤੇ ਸ਼ਬਦਾਂ ਲਈ ਇਕ ਸ਼ਬਦ ਚੁਣੋ: ਕਿਸੇ ਲੇਖਕ ਜਾਂ ਕਲਾਕਾਰ ਦੀ ਸਭ ਤੋਂ ਉੱਤਮ ਰਚਨਾ

Ans
✗ 1. ਵਿਲੱਖਣ
✗ 2. ਪੱਖਪਾਤੀ
✗ 3. ਨਿਰਪੱਖ
✓ 4. ਸ਼ਾਹਕਾਰ

Question ID : **630680248570**
Option 1 ID : **630680964423**
Option 2 ID : **630680964424**
Option 3 ID : **630680964426**
Option 4 ID : **630680964425**
Status : **Answered**
Chosen Option : **1**

Website - www.dailyjobalert.in

Q.26 ਉੱਤਰਨਾ ਦਾ ਵਿਰੋਧੀ ਸ਼ਬਦ ਹੈ:

Ans
1. ਢੱਠਣਾ
2. ਜਿੱਤਣਾ
3. ਚੜ੍ਹਨਾ
4. ਉੱਜੜਨਾ

Question ID : **630680248564**
Option 1 ID : **630680964402**
Option 2 ID : **630680964401**
Option 3 ID : **630680964400**
Option 4 ID : **630680964399**
Status : **Answered**
Chosen Option : **3**

Q.27 ਮੁਹਾਵਰੇ ਵਿਚਲੀ ਖ਼ਾਲੀ ਥਾਂ ਭਰੋ: _____ ਜਾਲਣੇ

Ans
1. ਜ਼ਫ਼ਰ
2. ਘਰ
3. ਕੱਪੜੇ
4. ਕਾਗਜ਼

Question ID : **630680248595**
Option 1 ID : **630680964525**
Option 2 ID : **630680964526**
Option 3 ID : **630680964523**
Option 4 ID : **630680964524**
Status : **Answered**
Chosen Option : **1**

Q.28 ਕੜਛਾ ਸ਼ਬਦ ਦਾ ਲਿੰਗ ਬਦਲੋ

Ans
1. ਕੜਛਨੀ
2. ਕੜਛੀਆਂ
3. ਕੜਛਨ
4. ਕੜਛੀ

Question ID : **630680248580**
Option 1 ID : **630680964465**
Option 2 ID : **630680964464**
Option 3 ID : **630680964463**
Option 4 ID : **630680964466**
Status : **Answered**
Chosen Option : **4**

Q.29 ਸ਼ੁੱਧ ਸ਼ਬਦ ਜੋੜ ਚੁਣੋ:

Ans
1. ਸਬਜੀ
2. ਸ਼ਬਜੀ
3. ਸਬਜ਼ੀ
4. ਸ਼ਬਜ਼ੀ

Question ID : **630680248589**
Option 1 ID : **630680964500**
Option 2 ID : **630680964502**
Option 3 ID : **630680964499**
Option 4 ID : **630680964501**
Status : **Answered**
Chosen Option : **2**

Website - www.dailyjobalert.in

Q.30 ਸੰਤ ਸ਼ਬਦ ਦਾ ਲਿੰਗ ਬਦਲੋ

Ans
- ✗ 1. ਸੰਤੇ
- ✓ 2. ਸੰਤਣੀ
- ✗ 3. ਸੰਤੀ
- ✗ 4. ਸੰਤਣ

Question ID : **630680248577**
Option 1 ID : **630680964451**
Option 2 ID : **630680964454**
Option 3 ID : **630680964452**
Option 4 ID : **630680964453**
Status : **Answered**
Chosen Option : **2**

Q.31 ਆਦਰ ਦਾ ਸਮਾਨਾਰਥਕ ਸ਼ਬਦ ਹੈ:

Ans
- ✗ 1. ਸਬਰ
- ✗ 2. ਅੰਤ
- ✓ 3. ਸਤਿਕਾਰ
- ✗ 4. ਅੜਚਨ

Question ID : **630680248562**
Option 1 ID : **630680964394**
Option 2 ID : **630680964391**
Option 3 ID : **630680964392**
Option 4 ID : **630680964393**
Status : **Answered**
Chosen Option : **3**

Q.32 Intimation ਸ਼ਬਦ ਦਾ ਪੰਜਾਬੀ ਅਨੁਵਾਦ ਕੀ ਹੈ?

Ans
- ✓ 1. ਸੂਚਨਾ
- ✗ 2. ਫੁਟਕਲ
- ✗ 3. ਰਾਸ਼ੀ
- ✗ 4. ਮੁਆਵਜ਼ਾ

Question ID : **630680248603**
Option 1 ID : **630680964556**
Option 2 ID : **630680964558**
Option 3 ID : **630680964555**
Option 4 ID : **630680964557**
Status : **Answered**
Chosen Option : **1**

Q.33 ਖ਼ੁਸ਼ਬੋ ਦਾ ਬਹੁਵਚਨ ਹੈ:

Ans
- ✓ 1. ਖ਼ੁਸ਼ਬੋਆਂ
- ✗ 2. ਖ਼ੁਸ਼ਬੋਏਂ
- ✗ 3. ਖ਼ੁਸ਼ਬੋਈ
- ✗ 4. ਖ਼ੁਸ਼ਬੋਇਆਂ

Question ID : **630680248575**
Option 1 ID : **630680964446**
Option 2 ID : **630680964443**
Option 3 ID : **630680964445**
Option 4 ID : **630680964444**
Status : **Answered**
Chosen Option : **1**

Website - www.dailyjobalert.in

Q.34 ਸਭਾ ਦਾ ਬਹੁਵਚਨ ਹੈ:

Ans
- ✗ 1. ਸਭਾਓ
- ✓ 2. ਸਭਾਵਾਂ
- ✗ 3. ਸਭਾਏਂ
- ✗ 4. ਸਭਾਈਆਂ

Question ID : **630680248576**
Option 1 ID : **630680964449**
Option 2 ID : **630680964447**
Option 3 ID : **630680964448**
Option 4 ID : **630680964450**
Status : **Answered**
Chosen Option : **2**

Q.35 ਉੱਦਮ ਦਾ ਵਿਰੋਧੀ ਸ਼ਬਦ ਹੈ:

Ans
- ✓ 1. ਆਲਸ
- ✗ 2. ਵੇਚਣਾ
- ✗ 3. ਗੁਆਚਣਾ
- ✗ 4. ਸੁਆਰਨਾ

Question ID : **630680248565**
Option 1 ID : **630680964403**
Option 2 ID : **630680964405**
Option 3 ID : **630680964406**
Option 4 ID : **630680964404**
Status : **Answered**
Chosen Option : **1**

Q.36 ਉਚਿਤ ਦਾ ਸਮਾਨਾਰਥਕ ਸ਼ਬਦ ਹੈ:

Ans
- ✗ 1. ਸ਼ਲਾਘਾ
- ✗ 2. ਲਾਭ
- ✓ 3. ਯੋਗ
- ✗ 4. ਉਪਰਾਲਾ

Question ID : **630680248560**
Option 1 ID : **630680964385**
Option 2 ID : **630680964386**
Option 3 ID : **630680964383**
Option 4 ID : **630680964384**
Status : **Answered**
Chosen Option : **3**

Q.37 ਕ੍ਰਿਤੱਗ ਦਾ ਵਿਰੋਧੀ ਸ਼ਬਦ ਹੈ:

Ans
- ✗ 1. ਉਪਰਾਂਤ
- ✗ 2. ਦੁਖੀ
- ✓ 3. ਅਕ੍ਰਿਤਘਣ
- ✗ 4. ਨਿਰਾਸ਼ਾ

Question ID : **630680248567**
Option 1 ID : **630680964412**
Option 2 ID : **630680964413**
Option 3 ID : **630680964411**
Option 4 ID : **630680964414**
Status : **Answered**
Chosen Option : **3**

DAILY JOB Alert ਪੰਜਾਬ
Website - www.dailyjobalert.in

Q.38 ਇਕਰਾਰ ਸ਼ਬਦ ਦਾ ਅਰਥ ਹੈ:

Ans
✔ 1. ਵਚਨ
✘ 2. ਪ੍ਰਸੰਨਤਾ
✘ 3. ਤ੍ਰਿਪਤੀ
✘ 4. ਖ਼ੂਬਸੂਰਤ

Question ID : **630680248607**
Option 1 ID : **630680964571**
Option 2 ID : **630680964574**
Option 3 ID : **630680964573**
Option 4 ID : **630680964572**
Status : **Answered**
Chosen Option : **1**

Q.39 Circular ਸ਼ਬਦ ਦਾ ਪੰਜਾਬੀ ਅਨੁਵਾਦ ਕੀ ਹੈ?

Ans
✘ 1. ਚਿੱਠੀ
✘ 2. ਇਵਜ਼ੀ ਚਿੱਠੀ
✘ 3. ਇਤਫ਼ਾਕੀਆ ਚਿੱਠੀ
✔ 4. ਗਸ਼ਤੀ-ਚਿੱਠੀ

Question ID : **630680248600**
Option 1 ID : **630680964544**
Option 2 ID : **630680964546**
Option 3 ID : **630680964545**
Option 4 ID : **630680964543**
Status : **Answered**
Chosen Option : **2**

Q.40 ਕਿਸੇ ਸ਼ਬਦ, ਵਾਕਾਂਸ਼ ਜਾਂ ਉਪਵਾਕ ਦੀ ਵਿਆਖਿਆ ਜਾਂ ਵੇਰਵੇ ਤੋਂ ਪਹਿਲਾਂ ਕਿਹੜੇ ਵਿਸ਼ਰਾਮ ਚਿੰਨ੍ਹ ਦੀ ਵਰਤੋਂ ਕੀਤੀ ਜਾਂਦੀ ਹੈ?

Ans
✘ 1. ਬਿੰਦੀ ਡੰਡੀ
✘ 2. ਬਿੰਦੀ ਕਾਮਾ
✘ 3. ਬਿੰਦੀ
✔ 4. ਦੁਬਿੰਦੀ

Question ID : **630680248596**
Option 1 ID : **630680964530**
Option 2 ID : **630680964529**
Option 3 ID : **630680964527**
Option 4 ID : **630680964528**
Status : **Answered**
Chosen Option : **2**

Website - www.dailyjobalert.in

Q.41 Approval ਸ਼ਬਦ ਦਾ ਪੰਜਾਬੀ ਅਨੁਵਾਦ ਕੀ ਹੈ?

Ans
- ✗ 1. ਅਪ੍ਰਵਾਨ
- ✗ 2. ਅਪ੍ਰਵਾਨਗੀ ਉਪਰੰਤ
- ✓ 3. ਪ੍ਰਵਾਨਗੀ
- ✗ 4. ਪ੍ਰਵਾਨਗੀ ਉਪਰੰਤ

Question ID : **630680248599**
Option 1 ID : **630680964539**
Option 2 ID : **630680964540**
Option 3 ID : **630680964541**
Option 4 ID : **630680964542**
Status : **Answered**
Chosen Option : **3**

Q.42 ਅੱਗੇ ਲਿਖੇ ਬਹੁਤੇ ਸ਼ਬਦਾਂ ਲਈ ਇਕ ਸ਼ਬਦ ਚੁਣੋ: ਇਕ ਦੇਸ ਦੀ ਹਕੂਮਤ ਵੱਲੋਂ ਹੋਰ ਦੇਸਾਂ ਉੱਪਰ ਹਕੂਮਤ ਕਰਨ ਦਾ ਸਿਧਾਂਤ

Ans
- ✗ 1. ਲੋਕਤੰਤਰ
- ✓ 2. ਸਾਮਰਾਜਵਾਦ
- ✗ 3. ਰਾਜਤੰਤਰ
- ✗ 4. ਤਾਨਾਸ਼ਾਹੀ

Question ID : **630680248569**
Option 1 ID : **630680964419**
Option 2 ID : **630680964420**
Option 3 ID : **630680964422**
Option 4 ID : **630680964421**
Status : **Answered**
Chosen Option : **2**

Q.43 ਰਚਨਹਾਰ ਸ਼ਬਦ ਵਿਚ ਪਿਛੇਤਰ ਹੈ:

Ans
- ✓ 1. ਹਾਰ
- ✗ 2. ਆਰ
- ✗ 3. ਨਹਾਰ
- ✗ 4. ਚਨਹਾਰ

Question ID : **630680248585**
Option 1 ID : **630680964485**
Option 2 ID : **630680964486**
Option 3 ID : **630680964484**
Option 4 ID : **630680964483**
Status : **Answered**
Chosen Option : **1**

DAILY JOB Alert ਪੰਜਾਬ

Q.44 Compensation ਸ਼ਬਦ ਦਾ ਪੰਜਾਬੀ ਅਨੁਵਾਦ ਕੀ ਹੈ?

Ans
✗ 1. ਰੋਜ਼ਨਾਮਚਾ
✗ 2. ਉਤਾਰਾ
✗ 3. ਨਵਿਰਤੀ
✓ 4. ਮੁਆਵਜ਼ਾ

Question ID : **630680248601**
Option 1 ID : **630680964549**
Option 2 ID : **630680964548**
Option 3 ID : **630680964547**
Option 4 ID : **630680964550**
Status : **Answered**
Chosen Option : **2**

Q.45 ਉਪਰਾਮਤਾ ਸ਼ਬਦ ਵਿਚ ਪਿਛੇਤਰ ਹੈ:

Ans
✗ 1. ਰਾਮਤਾ
✓ 2. ਤਾ
✗ 3. ਪਰਾਮਤਾ
✗ 4. ਮਤਾ

Question ID : **630680248586**
Option 1 ID : **630680964488**
Option 2 ID : **630680964490**
Option 3 ID : **630680964487**
Option 4 ID : **630680964489**
Status : **Answered**
Chosen Option : **2**

Q.46 ਅਖਾਣ ਵਿਚਲੀ ਖ਼ਾਲੀ ਥਾਂ ਭਰੋ: ਦੁੱਧ ਦਾ ਸੜਿਆ _____ ਨੂੰ ਵੀ ਫੂਕ-ਫੂਕ ਪੀਂਦਾ ਹੈ

Ans
✗ 1. ਪਾਣੀ
✗ 2. ਚਾਹ
✓ 3. ਲੱਸੀ
✗ 4. ਸ਼ਿਕੰਜਵੀ

Question ID : **630680248592**
Option 1 ID : **630680964511**
Option 2 ID : **630680964513**
Option 3 ID : **630680964512**
Option 4 ID : **630680964514**
Status : **Answered**
Chosen Option : **1**

Q.47 77 ਨੂੰ ਪੰਜਾਬੀ ਵਿਚ ਕਹਿੰਦੇ ਹਨ:

Ans
✗ 1. ਸਤਾਹਠ
✗ 2. ਸਤਾਸੀ
✗ 3. ਸਤਵਿੰਜਾ
✓ 4. ਸਤੱਤਰ

Question ID : **630680248605**
Option 1 ID : **630680964564**
Option 2 ID : **630680964566**
Option 3 ID : **630680964563**
Option 4 ID : **630680964565**
Status : **Answered**
Chosen Option : **4**

Website - www.dailyjobalert.in

Q.48 ਸ਼ੁੱਧ ਸ਼ਬਦ ਜੋੜ ਚੁਣੋ:

Ans
- ✗ 1. ਬਹੇਤਰ
- ✗ 2. ਬੈਹਤਰ
- ✗ 3. ਬਹਿਤਰ
- ✓ 4. ਬਿਹਤਰ

Question ID : **630680248587**
Option 1 ID : **630680964494**
Option 2 ID : **630680964493**
Option 3 ID : **630680964492**
Option 4 ID : **630680964491**
Status : **Answered**
Chosen Option : **4**

Q.49 Evaluation ਸ਼ਬਦ ਦਾ ਪੰਜਾਬੀ ਅਨੁਵਾਦ ਕੀ ਹੈ?

Ans
- ✗ 1. ਗਬਨ
- ✗ 2. ਅਨੁਦਾਨ
- ✗ 3. ਪਾਤਰਤਾ
- ✓ 4. ਮੁਲਾਂਕਣ

Question ID : **630680248602**
Option 1 ID : **630680964551**
Option 2 ID : **630680964552**
Option 3 ID : **630680964554**
Option 4 ID : **630680964553**
Status : **Answered**
Chosen Option : **1**

Q.50 ਸ਼ੈ ਦਾ ਬਹੁਵਚਨ ਹੈ:

Ans
- ✗ 1. ਸ਼ੈਣਾਂ
- ✗ 2. ਸ਼ੈਣੀਆਂ
- ✗ 3. ਸ਼ੈਓ
- ✓ 4. ਸ਼ੈਆਂ

Question ID : **630680248574**
Option 1 ID : **630680964439**
Option 2 ID : **630680964442**
Option 3 ID : **630680964440**
Option 4 ID : **630680964441**
Status : **Answered**
Chosen Option : **4**

DAILY JOB Alert ਪੰਜਾਬ

PUNJAB POLICE

Police to its last particle is duty

Exam Name	Recruitment for the post of Sub Inspector in Cadres of District and Armed Police 15th 31st July 2023 S3 Paper II and III
Application No	www.dailyjobalert.in
Roll No	Telegram - Daily Job Alert Punjab
Applicant Name	instagram - Daily Job Alert Punjab
Exam Date	15/07/2023
Shift	5:00 PM - 8:00 PM
Subject	Sub Inspector Paper II and III

Section : **Logical and Analytical Reasoning and Data Interpretation**

Q.1 ਦਿੱਤੇ ਗਏ ਕਥਨਾਂ ਅਤੇ ਸਿੱਟਿਆਂ ਨੂੰ ਧਿਆਨ ਨਾਲ ਪੜ੍ਹੋ। ਇਹ ਮੰਨਦੇ ਹੋਏ ਕਿ ਕਥਨਾਂ ਵਿੱਚ ਦਿੱਤੀ ਗਈ ਜਾਣਕਾਰੀ ਸਹੀ ਹੈ, ਭਾਵੇਂ ਇਹ ਆਮ ਤੌਰ 'ਤੇ ਗਿਆਤ ਤੱਥਾਂ ਨਾਲੋਂ ਭਿੰਨ ਲਗਦੀ ਹੋਵੇ, ਇਹ ਫੈਸਲਾ ਕਰੋ ਕਿ ਦਿੱਤੇ ਗਏ ਸਿੱਟਿਆਂ ਵਿੱਚੋਂ ਕਿਹੜੇ, ਕਥਨਾਂ ਦੀ ਤਰਕਪੂਰਨ ਢੰਗ ਨਾਲ ਪਾਲਣਾ ਕਰਦੇ ਹਨ।

ਕਥਨ:
ਜ਼ਿਆਦਾਤਰ ਤਿਕੋਣ, ਚੱਕਰ ਹਨ।
ਕੋਈ ਚੱਕਰ, ਵਰਗ ਨਹੀਂ ਹਨ।
ਸਾਰੇ ਵਰਗ, ਤਿਕੋਣ ਹਨ।
ਸਿੱਟੇ:
I. ਕੁਝ ਚੱਕਰ, ਤਿਕੋਣ ਹਨ।
II. ਸਾਰੇ ਤਿਕੋਣ, ਵਰਗ ਹਨ।
III. ਕੋਈ ਵੀ ਵਰਗ, ਚੱਕਰ ਨਹੀਂ ਹਨ।

Ans

✗ 1. ਕੋਈ ਵੀ ਸਿੱਟਾ ਪਾਲਣਾ ਨਹੀਂ ਕਰਦਾ ਹੈ

✗ 2. ਸਿਰਫ਼ ਸਿੱਟਾ II ਪਾਲਣਾ ਕਰਦਾ ਹੈ

✗ 3. ਸਿਰਫ਼ ਸਿੱਟਾ I ਅਤੇ II ਪਾਲਣਾ ਕਰਦਾ ਹੈ

✓ 4. ਸਿਰਫ਼ ਸਿੱਟਾ I ਅਤੇ III ਪਾਲਣਾ ਕਰਦਾ ਹੈ

Question ID : **630680105905**
Option 1 ID : **630680411563**
Option 2 ID : **630680411566**
Option 3 ID : **630680411565**
Option 4 ID : **630680411564**
Status : **Answered**
Chosen Option : **2**

Website - www.dailyjobalert.in

Q.2 ਉਹ ਵਿਕਲਪ ਦੀ ਚੋਣ ਕਰੋ ਜਿਸ ਵਿੱਚ ਅੱਖਰ-ਸਮੂਹ (letter-clusters) ਉਹੀ ਸੰਬੰਧ ਸਾਂਝੇ ਕਰਦੇ ਹਨ ਜੋ ਅੱਖਰ-ਸਮੂਹ ਦੇ ਦਿੱਤੇ ਜੋੜੇ ਦੁਆਰਾ ਸਾਂਝਾ ਕੀਤਾ ਗਿਆ ਹੈ।

MKH : GEB

Ans

✗ 1. XVT : HFC

✓ 2. PNK : JHE

✗ 3. ZXV : FEG

✗ 4. QOM : WUT

Question ID : **63068049451**
Option 1 ID : **630680190234**
Option 2 ID : **630680190236**
Option 3 ID : **630680190237**
Option 4 ID : **630680190235**
Status : **Answered**
Chosen Option : **1**

Q.3 ਕਾਗਜ਼ ਦੇ ਟੁਕੜੇ ਨੂੰ ਤਹਿ ਕਰਨ ਦੀ ਸਿਲਸਲੇਵਾਰ ਤਰਤੀਬ ਅਤੇ ਤਹਿ ਕੀਤੇ ਕਾਗਜ਼ ਨੂੰ ਕੱਟਣ ਦਾ ਤਰੀਕਾ ਹੇਠਾਂ ਦਿੱਤੇ ਚਿੱਤਰਾਂ ਵਿੱਚ ਦਿਖਾਇਆ ਗਿਆ ਹੈ। ਜਦੋਂ ਇਸ ਪੇਪਰ ਦੀ ਤਹਿ ਹਟਾਈ ਜਾਂਦੀ ਹੈ ਤਾਂ ਇਹ ਕਿਸ ਤਰ੍ਹਾਂ ਦਾ ਦਿਖਾਈ ਦੇਵੇਗਾ?

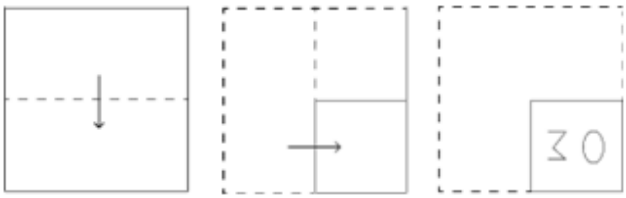

Ans

✗ 1.

✗ 2.

✓ 3.

✗ 4.

Question ID : **630680196459**
Option 1 ID : **630680762156**
Option 2 ID : **630680762158**
Option 3 ID : **630680762155**
Option 4 ID : **630680762157**
Status : **Answered**
Chosen Option : **1**

Website - www.dailyjobalert.in

Q.4 A, B, C, E, F ਅਤੇ G ਛੇ ਦੋਸਤ ਹਨ ਜਿਨ੍ਹਾਂ ਨੇ ਇੱਕ ਪ੍ਰੀਖਿਆ ਵਿੱਚ ਵੱਖ-ਵੱਖ ਅੰਕ ਪ੍ਰਾਪਤ ਕੀਤੇ ਹਨ।
E ਨੇ B ਤੋਂ ਘੱਟ ਪਰ A ਤੋਂ ਵੱਧ ਅੰਕ ਪ੍ਰਾਪਤ ਕੀਤੇ ਹਨ।
F ਨੇ B ਤੋਂ ਵੱਧ ਪਰ G ਤੋਂ ਘੱਟ ਅੰਕ ਪ੍ਰਾਪਤ ਕੀਤੇ ਹਨ।
G ਨੇ C ਤੋਂ ਘੱਟ ਅੰਕ ਪ੍ਰਾਪਤ ਕੀਤੇ ਹਨ।
A ਨੇ ਸਭ ਤੋਂ ਘੱਟ ਅੰਕ ਪ੍ਰਾਪਤ ਕੀਤੇ ਹਨ।
ਕਿੰਨੇ ਵਿਅਕਤੀਆਂ ਨੇ B ਤੋਂ ਘੱਟ ਅੰਕ ਪ੍ਰਾਪਤ ਕੀਤੇ ਹਨ?

Ans
✔ 1. 2
✘ 2. 4
✘ 3. 1
✘ 4. 3

Question ID : **630680105768**
Option 1 ID : **630680411075**
Option 2 ID : **630680411077**
Option 3 ID : **630680411076**
Option 4 ID : **630680411078**
Status : **Answered**
Chosen Option : **1**

Q.5 ਜੇਕਰ ਦਿੱਤੇ ਗਏ ਅੱਖਰ-ਸਮੂਹ ਨੂੰ ਉਲਟ ਕ੍ਰਮ ਵਿੱਚ ਤਰਤੀਬਬੱਧ ਕੀਤਾ ਜਾਵੇ, ਤਾਂ ਨਵੀਂ ਤਰਤੀਬ ਵਿੱਚ ਖੱਬੇ ਸਿਰੇ ਤੋਂ ਚੌਥਾ ਅੱਖਰ ਕਿਹੜਾ ਹੋਵੇਗਾ?
(ਖੱਬਾ ਪਾਸਾ) C, V, M, I, K, S, D, J, V, A, Q, R, Z, G (ਸੱਜਾ ਪਾਸਾ)

Ans
✔ 1. Q
✘ 2. I
✘ 3. A
✘ 4. K

Question ID : **630680172735**
Option 1 ID : **630680669341**
Option 2 ID : **630680669342**
Option 3 ID : **630680669343**
Option 4 ID : **630680669340**
Status : **Answered**
Chosen Option : **1**

Q.6 ਦਿੱਤੀ ਗਈ ਲੜੀ ਵਿੱਚ, ਲੜੀ ਨੂੰ ਤਾਰਕਿਕ ਤੌਰ 'ਤੇ ਪੂਰਾ ਕਰਨ ਲਈ ਪ੍ਰਸ਼ਨ ਚਿੰਨ੍ਹ (?) ਦੇ ਸਥਾਨ 'ਤੇ ਕੀ ਆਉਣਾ ਚਾਹੀਦਾ ਹੈ?
TQ112, RO104, PM96, ?

Ans
✔ 1. NK88
✘ 2. LI86
✘ 3. KG88
✘ 4. JG86

Question ID : **630680105827**
Option 1 ID : **630680411282**
Option 2 ID : **630680411281**
Option 3 ID : **630680411280**
Option 4 ID : **630680411279**
Status : **Answered**
Chosen Option : **1**

Website - www.dailyjobalert.in

Q.7 5 ਇੱਕ ਨਿਸ਼ਚਿਤ ਤਰਕ ਅਨੁਸਾਰ 630 ਨਾਲ ਸੰਬੰਧਿਤ ਹੈ। ਉਸੇ ਤਰਕ ਅਨੁਸਾਰ 7, 2408 ਨਾਲ ਸੰਬੰਧਿਤ ਹੈ। ਉਸੇ ਤਰਕ ਦੀ ਵਰਤੋਂ ਕਰਦੇ ਹੋਏ 4 ਹੇਠ ਲਿਖਿਆਂ ਵਿੱਚੋਂ ਕਿਸ ਨਾਲ ਸੰਬੰਧਿਤ ਹੈ?

Ans
✔ 1. 260
✘ 2. 278
✘ 3. 264
✘ 4. 250

Question ID : **63068058975**
Option 1 ID : **630680227524**
Option 2 ID : **630680227525**
Option 3 ID : **630680227523**
Option 4 ID : **630680227522**
Status : **Answered**
Chosen Option : **3**

Q.8 ਦਿੱਤੀ ਗਈ ਵਿਵਸਥਾ ਵਿੱਚ ਕਿੰਨੇ ਵਿਅੰਜਨ ਹਨ, ਜਿਨ੍ਹਾਂ ਵਿੱਚੋਂ ਹਰੇਕ ਦੇ ਠੀਕ ਬਾਅਦ ਇੱਕ ਸਵਰ ਹੁੰਦਾ ਹੈ?

(ਖੱਬਾ) P, R, S, E, V, T, Q, U, L, M, N, B, D, F, I, Y, Z (ਸੱਜਾ)

Ans
✘ 1. ਚਾਰ
✘ 2. ਇਕ
✘ 3. ਦੋ
✔ 4. ਤਿੰਨ

Question ID : **63068058171**
Option 1 ID : **630680224411**
Option 2 ID : **630680224412**
Option 3 ID : **630680224413**
Option 4 ID : **630680224410**
Status : **Answered**
Chosen Option : **3**

Q.9 ਇੱਕ ਖਾਸ ਕੋਡ ਭਾਸ਼ਾ ਵਿੱਚ, 'AB12' ਨੂੰ 'ZYZY' ਵੱਜੋਂ ਲਿਖਿਆ ਗਿਆ ਹੈ, ਅਤੇ 'CD34' ਨੂੰ 'XWXW' ਵੱਜੋਂ ਲਿਖਿਆ ਗਿਆ ਹੈ। ਉਸ ਭਾਸ਼ਾ ਵਿੱਚ 'EF56' ਕਿਵੇਂ ਲਿਖਿਆ ਜਾਵੇਗਾ?

Ans
✘ 1. VVVV
✔ 2. VUVU
✘ 3. UUUU
✘ 4. UVUV

Question ID : **63068057458**
Option 1 ID : **630680221674**
Option 2 ID : **630680221675**
Option 3 ID : **630680221676**
Option 4 ID : **630680221677**
Status : **Answered**
Chosen Option : **2**

Website - www.dailyjobalert.in

Q.10 ਰੋਹਨ, ਚੈਰੀ, ਮੋਹਨ, ਸੋਹਨ, ਪੀਆ, ਆਨਿਆ ਨਾਮ ਦੇ ਦੋਸਤਾਂ ਦੇ ਇੱਕ ਸਮੂਹ ਵਿੱਚੋਂ ਹਰੇਕ ਦੀ ਉਮਰ ਵੱਖ-ਵੱਖ ਹੈ। ਰੋਹਨ, ਸਿਰਫ ਆਪਣੇ ਦੋ ਦੋਸਤਾਂ ਤੋਂ ਵੱਡਾ ਹੈ। ਪਿਯਾ, ਸਿਰਫ ਆਪਣੇ ਪੰਜ ਦੋਸਤਾਂ ਤੋਂ ਵੱਡੀ ਹੈ। ਜੇਕਰ ਆਨਿਆ, ਸਿਰਫ ਪੀਆ ਤੋਂ ਛੋਟੀ ਹੈ, ਤਾਂ ਕਿੰਨੇ ਦੋਸਤ ਆਨਿਆ ਤੋਂ ਛੋਟੇ ਹਨ? ਧਿਆਨ ਰੱਖੋ ਕਿ ਕੋਈ ਵੀ ਸਮਾਨ ਉਮਰ ਦਾ ਨਹੀਂ ਹੈ।

Ans
✔ 1. 4
✘ 2. 2
✘ 3. 3
✘ 4. 5

Question ID : **630680138939**
Option 1 ID : **630680537907**
Option 2 ID : **630680537909**
Option 3 ID : **630680537906**
Option 4 ID : **630680537908**
Status : **Answered**
Chosen Option : **1**

Q.11 ਕਿਸੇ ਖਾਸ ਕੋਡ ਭਾਸ਼ਾ ਵਿੱਚ, 'FACED' ਨੂੰ BCEAZ ਵਜੋਂ ਅਤੇ 'CHIME' ਨੂੰ YIMHA ਵਜੋਂ ਕੋਡਬੱਧ ਕੀਤਾ ਗਿਆ ਹੈ। ਉਸੇ ਭਾਸ਼ਾ ਵਿੱਚ 'FRESH' ਨੂੰ ਕਿਵੇਂ ਕੋਡ ਕੀਤਾ ਜਾਵੇਗਾ?

Ans
✔ 1. BESRD
✘ 2. BDTQE
✘ 3. ADTRF
✘ 4. AERQD

Question ID : **630680158159**
Option 1 ID : **630680612166**
Option 2 ID : **630680612164**
Option 3 ID : **630680612165**
Option 4 ID : **630680612167**
Status : **Answered**
Chosen Option : **1**

DAILY JOB Alert

Q.12 ਪ੍ਰਵੇਸ਼ ਪ੍ਰੀਖਿਆ ਵਿੱਚ ਪ੍ਰਾਪਤ ਕੀਤੇ ਅੰਕਾਂ ਦੇ ਅਨੁਸਾਰ, P, Q, R, S, T ਅਤੇ U ਨੂੰ ਯੂਨੀਵਰਸਿਟੀ ਵਿੱਚ ਦਾਖਲਾ ਇੰਟਰਵਿਊ ਲਈ ਚੁਣਿਆ ਜਾਂਦਾ ਹੈ। ਪ੍ਰੀਖਿਆ 140 ਅੰਕਾਂ ਵਿੱਚੋਂ ਸੀ, ਜਿਸ ਵਿੱਚ 40 ਅੰਕਾਂ ਦੇ ਬਹੁ-ਵਿਕਲਪੀ ਪ੍ਰਸ਼ਨ, 40 ਅੰਕਾਂ ਦੇ ਛੋਟੇ ਉੱਤਰ ਵਾਲੇ ਪ੍ਰਸ਼ਨ ਅਤੇ 60 ਅੰਕਾਂ ਦੇ ਲੰਮੇ ਉੱਤਰ ਵਾਲੇ ਪ੍ਰਸ਼ਨ ਸ਼ਾਮਲ ਸਨ। R ਨੇ ਬਹੁ-ਵਿਕਲਪੀ ਪ੍ਰਸ਼ਨਾਂ ਵਿਚੋਂ ਪੂਰੇ ਅੰਕ, ਛੋਟੇ ਉੱਤਰ ਵਾਲੇ ਪ੍ਰਸ਼ਨਾਂ ਵਿਚੋਂ ਅੱਧੇ ਅੰਕ ਅਤੇ ਲੰਮੇ ਉੱਤਰਾਂ ਵਾਲੇ ਪ੍ਰਸ਼ਨਾਂ ਵਿੱਚ P ਨੂੰ ਜੋ ਅੰਕ ਪ੍ਰਾਪਤ ਹੋਏ ਉਸ ਦਾ 30% ਪ੍ਰਾਪਤ ਕੀਤੇ। T ਅਤੇ U ਨੇ ਛੋਟੇ ਉੱਤਰਾਂ ਅਤੇ ਬਹੁ-ਵਿਕਲਪੀ ਪ੍ਰਸ਼ਨਾਂ ਵਿਚੋਂ ਕੁੱਲ ਅੰਕਾਂ ਦੇ 50% ਅੰਕ ਪ੍ਰਾਪਤ ਕੀਤੇ। S ਨੇ ਛੋਟੇ ਉੱਤਰਾਂ ਅਤੇ ਬਹੁ-ਵਿਕਲਪੀ ਪ੍ਰਸ਼ਨਾਂ ਵਿਚੋਂ T ਅਤੇ U ਨਾਲੋਂ 10 ਵੱਧ ਅੰਕ ਪ੍ਰਾਪਤ ਕੀਤੇ। T, U ਅਤੇ S ਹਰੇਕ ਨੇ ਲੰਮੇ ਉੱਤਰ ਵਾਲੇ ਪ੍ਰਸ਼ਨਾਂ ਵਿਚੋਂ 50 ਅੰਕ ਪ੍ਰਾਪਤ ਕੀਤੇ, ਅਤੇ P ਨੇ ਲੰਮੇ ਉੱਤਰ ਵਾਲੇ ਪ੍ਰਸ਼ਨਾਂ ਵਿਚੋਂ U ਨਾਲੋਂ 10% ਵੱਧ ਅੰਕ ਪ੍ਰਾਪਤ ਕੀਤੇ, ਅਤੇ ਛੋਟੇ ਉੱਤਰ ਅਤੇ ਬਹੁ-ਵਿਕਲਪੀ ਪ੍ਰਸ਼ਨਾਂ ਵਿਚੋਂ ਕੁੱਲ 60 ਅੰਕ ਪ੍ਰਾਪਤ ਕੀਤੇ। Q ਨੇ P ਤੋਂ 20 ਘੱਟ ਅੰਕ ਹਾਸਲ ਕੀਤੇ।
P ਅਤੇ R ਦੇ ਅੰਕਾਂ ਵਿੱਚ ਕਿੰਨਾ ਅੰਤਰ ਹੈ?

Ans
✗ 1. 25.5
✓ 2. 38.5
✗ 3. 115
✗ 4. 65.5

Question ID : **630680166741**
Option 1 ID : **630680645876**
Option 2 ID : **630680645877**
Option 3 ID : **630680645879**
Option 4 ID : **630680645878**
Status : **Answered**
Chosen Option : **2**

Q.13 ਸਰਿਤਾ ਆਪਣੇ ਘਰ (ਸ਼ੁਰੂਆਤੀ ਬਿੰਦੂ) ਤੋਂ ਚਲਦੀ ਹੈ ਅਤੇ ਦੱਖਣ ਵੱਲ 20 km ਤੱਕ ਚੱਲਦੀ ਹੈ। ਉਹ ਫਿਰ ਸੱਜੇ ਪਾਸੇ ਮੁੜਦੀ ਹੈ ਅਤੇ 19 km ਤੱਕ ਚੱਲਦੀ ਹੈ, ਜਿਸ ਤੋਂ ਬਾਅਦ ਉਹ ਸੱਜੇ ਪਾਸੇ ਮੁੜਦੀ ਹੈ ਅਤੇ 20 km ਤੱਕ ਚੱਲਦੀ ਹੈ। ਅੰਤ ਵਿੱਚ, ਉਹ ਸੱਜੇ ਪਾਸੇ ਮੁੜਦੀ ਹੈ ਅਤੇ ਹੋਰ 13 km ਤੱਕ ਚੱਲਦੀ ਹੈ। ਉਹ ਇੱਕ ਸਿੱਧੀ ਲਾਈਨ ਵਿੱਚ ਆਪਣੇ ਸ਼ੁਰੂਆਤੀ ਬਿੰਦੂ ਤੋਂ ਕਿੰਨੀ ਦੂਰੀ 'ਤੇ ਹੈ?
(ਸਾਰੇ ਮੋੜ 90° ਦੇ ਹਨ।)

Ans
✗ 1. 19 km
✗ 2. 20 km
✓ 3. 6 km
✗ 4. 13 km

Question ID : **630680172190**
Option 1 ID : **630680667198**
Option 2 ID : **630680667197**
Option 3 ID : **630680667199**
Option 4 ID : **630680667196**
Status : **Answered**
Chosen Option : **2**

DAILY JOB Alert ਪੰਜਾਬ

Q.14 ਉਸ ਵਿਕਲਪ ਦੀ ਚੋਣ ਕਰੋ ਜੋ ਦਿੱਤੀ ਗਈ ਲੜੀ ਨੂੰ ਤਾਰਕਿਕ ਤੌਰ 'ਤੇ ਪੂਰਾ ਕਰਨ ਲਈ ਪ੍ਰਸ਼ਨ ਚਿੰਨ੍ਹ (?) ਦੀ ਥਾਂ 'ਤੇ ਆਵੇਗਾ।
AZ24 CX30 EV36 GT42 ?

Ans
✗ 1. JP48
✗ 2. IQ42
✗ 3. JQ54
✓ 4. IR48

Question ID : **630680107949**
Option 1 ID : **630680418979**
Option 2 ID : **630680418976**
Option 3 ID : **630680418978**
Option 4 ID : **630680418977**
Status : **Answered**
Chosen Option : **4**

Q.15 ਜੇਕਰ 19 ਜੁਲਾਈ 2000 ਨੂੰ ਬੁੱਧਵਾਰ ਹੈ ਤਾਂ 28 ਮਈ 2013 ਨੂੰ ਹਫ਼ਤੇ ਦਾ ਕਿਹੜਾ ਦਿਨ ਹੋਵੇਗਾ?

Ans
✓ 1. ਮੰਗਲਵਾਰ
✗ 2. ਸ਼ੁੱਕਰਵਾਰ
✗ 3. ਸੋਮਵਾਰ
✗ 4. ਸ਼ਨੀਵਾਰ

Question ID : **630680145941**
Option 1 ID : **630680564663**
Option 2 ID : **630680564664**
Option 3 ID : **630680564662**
Option 4 ID : **630680564665**
Status : **Answered**
Chosen Option : **2**

Q.16 ਜੇਕਰ 13 ਅਪ੍ਰੈਲ 2002 ਨੂੰ ਸ਼ਨੀਵਾਰ ਸੀ, ਤਾਂ 9 ਮਾਰਚ 2014 ਨੂੰ ਹਫ਼ਤੇ ਦਾ ਕਿਹੜਾ ਦਿਨ ਸੀ?

Ans
✗ 1. ਸ਼ਨੀਵਾਰ
✗ 2. ਸ਼ੁੱਕਰਵਾਰ
✓ 3. ਐਤਵਾਰ
✗ 4. ਸੋਮਵਾਰ

Question ID : **630680159733**
Option 1 ID : **630680618393**
Option 2 ID : **630680618392**
Option 3 ID : **630680618394**
Option 4 ID : **630680618395**
Status : **Not Answered**
Chosen Option : **--**

Website - www.dailyjobalert.in

Q.17 ਦਿੱਤੇ ਗਏ ਵਿਕਲਪਾਂ ਵਿੱਚੋਂ ਅੱਖਰ-ਸਮੂਹ (letter-cluster) ਚੁਣੋ ਜੋ ਹੇਠਾਂ ਦਿੱਤੀ ਲੜੀ ਵਿੱਚ ਪ੍ਰਸ਼ਨ ਚਿੰਨ੍ਹ (?) ਨੂੰ ਬਦਲ ਸਕਦਾ ਹੈ।
CFI, FIL, ?, LOR, ORU

Ans
1. LIR
2. ILO
3. ILR
4. OLR

Question ID : **63068048598**
Option 1 ID : **630680187005**
Option 2 ID : **630680187003**
Option 3 ID : **630680187002**
Option 4 ID : **630680187004**
Status : **Answered**
Chosen Option : **2**

Q.18 ਚਾਰ ਅੱਖਰ-ਸਮੂਹ (letter-clusters) ਦਿੱਤੇ ਗਏ ਹਨ, ਜਿਨ੍ਹਾਂ ਵਿੱਚੋਂ ਤਿੰਨ ਕਿਸੇ ਨਾ ਕਿਸੇ ਢੰਗ ਨਾਲ ਇੱਕੋ ਜਿਹੇ ਹਨ ਅਤੇ ਇੱਕ ਵੱਖਰਾ ਹੈ। ਉਸ ਇੱਕ ਦੀ ਚੋਣ ਕਰੋ ਜੋ ਵੱਖਰਾ ਹੈ।

Ans
1. PQTX
2. MNQV
3. TUXC
4. BCFK

Question ID : **630680105000**
Option 1 ID : **630680408112**
Option 2 ID : **630680408113**
Option 3 ID : **630680408111**
Option 4 ID : **630680408114**
Status : **Answered**
Chosen Option : **3**

Q.19 ਅੱਖਰ-ਜੋੜਾ ਚੁਣੋ ਜੋ ਹੇਠਾਂ ਦਿੱਤੀ ਲੜੀ ਵਿੱਚ ਅੱਗੇ ਆਵੇਗਾ।
AA, BA, DB, GB, KC, __

Ans
1. RC
2. QC
3. PC
4. OC

Question ID : **63068048597**
Option 1 ID : **630680186999**
Option 2 ID : **630680186998**
Option 3 ID : **630680187001**
Option 4 ID : **630680187000**
Status : **Answered**
Chosen Option : **4**

Website - www.dailyjobalert.in

Q.20 ਜੇਕਰ M, N ਦਾ ਭਰਾ ਹੈ; N, O ਦੀ ਭੈਣ ਹੈ; ਅਤੇ O, P ਦਾ ਪਿਤਾ ਹੈ, ਫਿਰ N ਦਾ P ਨਾਲ ਕੀ ਰਿਸ਼ਤਾ ਹੈ?

Ans
1. ਚਾਚਾ/ਤਾਇਆ (Father's brother)
2. ਭੂਆ (Father's sister)
3. ਮਾਸੀ (Mother's sister)
4. ਮਾਮਾ (Mother's brother)

Question ID : **630680161854**
Option 1 ID : **630680626724**
Option 2 ID : **630680626725**
Option 3 ID : **630680626727**
Option 4 ID : **630680626726**
Status : **Answered**
Chosen Option : **2**

Q.21 ਕਿਸੇ ਕੋਡ ਭਾਸ਼ਾ ਵਿੱਚ, 'BLAME' ਨੂੰ LBWEM ਵਜੋਂ ਅਤੇ 'MORPH' ਨੂੰ OMNHP ਵਜੋਂ ਕੋਡਬੱਧ ਕੀਤਾ ਗਿਆ ਹੈ। ਉਸੇ ਭਾਸ਼ਾ ਵਿੱਚ 'FETCH' ਨੂੰ ਕਿਵੇਂ ਕੋਡਬੱਧ ਕੀਤਾ ਜਾਵੇਗਾ?

Ans
1. EFPHC
2. FEQGD
3. FFPHQ
4. EFPGQ

Question ID : **630680147833**
Option 1 ID : **630680572047**
Option 2 ID : **630680572046**
Option 3 ID : **630680572048**
Option 4 ID : **630680572049**
Status : **Answered**
Chosen Option : **4**

Q.22 ਸੀਤਾ ਨੇ ਆਪਣੀ ਜਮਾਤ ਵਿੱਚ ਸਿਖਰ ਤੋਂ 6ਵਾਂ ਅਤੇ ਹੇਠਾਂ ਤੋਂ 10ਵਾਂ ਸਥਾਨ ਪ੍ਰਾਪਤ ਕੀਤਾ। ਕਲਾਸ ਵਿੱਚ ਕਿੰਨੇ ਵਿਦਿਆਰਥੀ ਹਨ?

Ans
1. 14
2. 16
3. 17
4. 15

Question ID : **63068049483**
Option 1 ID : **630680190363**
Option 2 ID : **630680190364**
Option 3 ID : **630680190362**
Option 4 ID : **630680190365**
Status : **Answered**
Chosen Option : **4**

Website - www.dailyjobalert.in

Q.23 ਅਭਿਆਸ ਸੈਸ਼ਨ ਵਿੱਚ ਕ੍ਰਿਕਟ ਖਿਡਾਰੀ ਇੱਕ ਲਾਈਨ ਵਿੱਚ ਖੜ੍ਹੇ ਹਨ। ਟੀਮ ਦਾ ਸਭ ਤੋਂ ਲੰਬਾ ਖਿਡਾਰੀ ਦੋਵਾਂ ਸਿਰਿਆਂ ਤੋਂ ਕ੍ਰਮ ਵਿੱਚ ਚੌਦਵੇਂ ਨੰਬਰ 'ਤੇ ਹੈ। ਟੀਮ ਵਿੱਚ ਕਿੰਨੇ ਖਿਡਾਰੀ ਹਨ?

Ans
1. 26
2. 25
3. 24
4. 27 ✔

Question ID : **630680107151**
Option 1 ID : **630680416000**
Option 2 ID : **630680416003**
Option 3 ID : **630680416002**
Option 4 ID : **630680416001**
Status : **Answered**
Chosen Option : **4**

Q.24 ਸਮੀਰ ਨੇ ਇਕ ਸ਼ੁਰੂਆਤੀ ਬਿੰਦੂ ਤੋਂ ਚੱਲਣਾ ਸ਼ੁਰੂ ਕੀਤਾ ਅਤੇ ਪੂਰਬ ਦਿਸ਼ਾ ਵੱਲ 5 km ਦੀ ਯਾਤਰਾ ਕੀਤੀ। ਉਹ ਖੱਬੇ ਮੁੜਦਾ ਹੈ ਅਤੇ 5 km ਦੀ ਦੂਰੀ ਤੈਅ ਕਰਦਾ ਹੈ। ਉਹ ਫਿਰ ਖੱਬੇ ਮੁੜਦਾ ਹੈ ਅਤੇ 5 km ਦੀ ਦੂਰੀ ਤੈਅ ਕਰਦਾ ਹੈ। ਹੁਣ ਉਹ ਆਪਣੇ ਸ਼ੁਰੂਆਤੀ ਬਿੰਦੂ ਤੋਂ ਕਿੰਨੀ ਦੂਰੀ 'ਤੇ ਹੈ?

Ans
1. 20 km
2. 0 km
3. 5 km ✔
4. 10 km

Question ID : **630680106035**
Option 1 ID : **630680412039**
Option 2 ID : **630680412042**
Option 3 ID : **630680412041**
Option 4 ID : **630680412040**
Status : **Answered**
Chosen Option : **2**

Q.25 ਦਿੱਤੀ ਗਈ ਲੜੀ ਵਿੱਚ ਪ੍ਰਸ਼ਨ ਚਿੰਨ੍ਹ (?) ਦੇ ਸਥਾਨ 'ਤੇ ਕੀ ਆਵੇਗਾ?
8, 16, 23, 29, 34, ?

Ans
1. 38 ✔
2. 44
3. 36
4. 40

Question ID : **630680122733**
Option 1 ID : **630680475845**
Option 2 ID : **630680475842**
Option 3 ID : **630680475843**
Option 4 ID : **630680475844**
Status : **Answered**
Chosen Option : **4**

Website - www.dailyjobalert.in

Q.26 ਇੱਕ ਵਿਸ਼ੇਸ਼ ਤਰਕ ਅਨੁਸਾਰ, ਜੇਕਰ $\frac{1}{3}$, $\frac{1}{18}$ ਨਾਲ ਅਤੇ $\frac{1}{9}$, $\frac{1}{162}$ ਨਾਲ ਸੰਬੰਧਿਤ ਹੈ, ਤਾਂ ਹੇਠ ਲਿਖਿਆਂ ਵਿੱਚੋਂ ਕਿਹੜਾ $\frac{1}{7}$ ਨਾਲ ਸੰਬੰਧਿਤ ਹੈ?

Ans

✗ 1. $\frac{1}{58}$

✓ 2. $\frac{1}{98}$

✗ 3. $\frac{1}{78}$

✗ 4. $\frac{1}{86}$

Question ID : **63068057019**
Option 1 ID : **630680220009**
Option 2 ID : **630680220007**
Option 3 ID : **630680220008**
Option 4 ID : **630680220006**
Status : **Answered**
Chosen Option : **1**

Q.27 ਕੁਝ ਵਿਅਕਤੀ ਇੱਕ ਕਤਾਰ ਵਿੱਚ ਉੱਤਰ ਵੱਲ ਮੂੰਹ ਕਰਕੇ ਬੈਠੇ ਹਨ। A, B ਦੇ ਖੱਬੇ ਪਾਸੇ ਇੱਕ ਸਥਾਨ 'ਤੇ ਬੈਠਾ ਹੈ। G ਅਤੇ D ਦੋਵੇਂ ਜਣੇ, ਕਤਾਰ ਦੇ ਸਿਰਿਆਂ 'ਤੇ ਬੈਠੇ ਹਨ। G, E ਦੇ ਖੱਬੇ ਪਾਸੇ ਚੌਥੇ ਸਥਾਨ 'ਤੇ ਬੈਠਾ ਹੈ। C ਅਤੇ D ਦੇ ਵਿਚਕਾਰ ਸਿਰਫ਼ ਇੱਕ ਵਿਅਕਤੀ ਬੈਠਾ ਹੈ ਅਤੇ A ਅਤੇ B ਦੇ ਵਿਚਕਾਰ ਵੀ ਸਿਰਫ਼ ਇੱਕ ਵਿਅਕਤੀ ਬੈਠਾ ਹੈ। E, A ਦੇ ਠੀਕ ਖੱਬੇ ਪਾਸੇ ਬੈਠਾ ਹੈ। C, B ਦੇ ਸੱਜੇ ਪਾਸੇ ਚੌਥੇ ਸਥਾਨ 'ਤੇ ਬੈਠਾ ਹੈ। ਜੇਕਰ ਕਤਾਰ ਵਿੱਚ ਕੋਈ ਹੋਰ ਵਿਅਕਤੀ ਨਹੀਂ ਬੈਠਾ ਹੈ, ਫਿਰ ਕੁੱਲ ਕਿੰਨੇ ਵਿਅਕਤੀ ਕਤਾਰ ਵਿੱਚ ਬੈਠੇ ਹਨ?

Ans

✗ 1. 15

✗ 2. 13

✗ 3. 12

✓ 4. 14

Question ID : **630680112290**
Option 1 ID : **630680434877**
Option 2 ID : **630680434875**
Option 3 ID : **630680434874**
Option 4 ID : **630680434876**
Status : **Answered**
Chosen Option : **1**

Website - www.dailyjobalert.in

Q.28 ਇੱਕ ਖਾਸ ਢੰਗ ਨਾਲ GO13F, ER9K ਨਾਲ ਸੰਬੰਧਿਤ ਹੈ। ਉਸੇ ਤਰੀਕੇ ਨਾਲ, L12PK, J15LP ਨਾਲ ਸੰਬੰਧਿਤ ਹੈ। ਇਸੇ ਤਰ੍ਹਾਂ, ਉਸੇ ਪੈਟਰਨ ਦੀ ਪਾਲਣਾ ਕਰਦੇ ਹੋਏ, EPH23, CSD28 ਨਾਲ ਸੰਬੰਧਿਤ ਹੈ। ਸਮਾਨ ਤਰਕ ਦੀ ਪਾਲਣਾ ਕਰਦੇ ਹੋਏ, SW18B ਕਿਸ ਨਾਲ ਸੰਬੰਧਿਤ ਹੈ?

Ans
1. PZ14H
2. QZ14G
3. QY15G
4. PY15H

Question ID : **63068077038**
Option 1 ID : **630680298250**
Option 2 ID : **630680298252**
Option 3 ID : **630680298251**
Option 4 ID : **630680298249**
Status : **Answered**
Chosen Option : **3**

Q.29 ਉਸ ਵਿਕਲਪ ਦੀ ਚੋਣ ਕਰੋ ਜੋ ਦਿੱਤੀ ਗਈ ਲੜੀ ਨੂੰ ਤਾਰਕਿਕ ਤੌਰ 'ਤੇ ਪੂਰਾ ਕਰਨ ਲਈ ਪ੍ਰਸ਼ਨ ਚਿੰਨ੍ਹ (?) ਦੀ ਥਾਂ 'ਤੇ ਆਵੇਗਾ।
AY16 CW24 EU32 GS40 IQ48 ?

Ans
1. LN64
2. JP56
3. KP54
4. KO56

Question ID : **630680107950**
Option 1 ID : **630680418983**
Option 2 ID : **630680418982**
Option 3 ID : **630680418981**
Option 4 ID : **630680418980**
Status : **Answered**
Chosen Option : **1**

Q.30 A # B' ਦਾ ਮਤਲਬ ਹੈ ਕਿ 'A, B ਦਾ ਭਰਾ ਹੈ'
'A@B' ਦਾ ਮਤਲਬ ਹੈ ਕਿ 'A, B ਦੀ ਧੀ ਹੈ'
'A & B' ਦਾ ਮਤਲਬ ਹੈ ਕਿ 'A, B ਦਾ ਪਤੀ ਹੈ'
'A % B' ਦਾ ਮਤਲਬ ਹੈ ਕਿ 'A, B ਦੀ ਪਤਨੀ ਹੈ'
ਜੇ 'P # Q @ R & M @ L & K', ਤਾਂ L ਦਾ Q ਨਾਲ ਕੀ ਰਿਸ਼ਤਾ ਹੈ?

Ans
1. ਨਾਨਾ (Mother's father)
2. ਨਾਨੀ (Mother's mother)
3. ਸਹੁਰਾ (Husband's father)
4. ਭਾਬੀ (Brother's wife)

Question ID : **630680147855**
Option 1 ID : **630680572137**
Option 2 ID : **630680572135**
Option 3 ID : **630680572134**
Option 4 ID : **630680572136**
Status : **Answered**
Chosen Option : **4**

Website - www.dailyjobalert.in

Q.31 ਵਿਵੇਕ ਸਕੂਲ ਦੇ ਵਿਦਿਆਰਥੀਆਂ ਦੀ ਲਾਈਨ ਦੇ ਸੱਜੇ ਸਿਰੇ ਤੋਂ 37ਵਾਂ ਅਤੇ ਖੱਬੇ ਸਿਰੇ ਤੋਂ 27ਵਾਂ ਹੈ। ਕਤਾਰ ਵਿੱਚ ਕਿੰਨੇ ਵਿਦਿਆਰਥੀ ਸ਼ਾਮਲ ਕੀਤੇ ਜਾਣੇ ਚਾਹੀਦੇ ਹਨ, ਤਾਂ ਜੋ ਲਾਈਨ ਵਿੱਚ 70 ਵਿਦਿਆਰਥੀ ਹੋਣ?

Ans
✗ 1. 43
✗ 2. 33
✗ 3. 63
✓ 4. 7

Question ID : **630680106171**
Option 1 ID : **630680412584**
Option 2 ID : **630680412583**
Option 3 ID : **630680412586**
Option 4 ID : **630680412585**
Status : **Answered**
Chosen Option : **3**

Q.32 ਚਾਰ ਅੱਖਰ-ਸਮੂਹ ਦਿੱਤੇ ਗਏ ਹਨ, ਜਿਨ੍ਹਾਂ ਵਿੱਚੋਂ ਤਿੰਨ ਕਿਸੇ ਨਾ ਕਿਸੇ ਰੂਪ ਵਿੱਚ ਇੱਕੋ ਜਿਹੇ ਹਨ ਅਤੇ ਇੱਕ ਵੱਖਰਾ ਹੈ। ਉਸਦੀ ਚੋਣ ਕਰੋ ਜੋ ਬਾਕੀ ਨਾਲੋਂ ਵੱਖਰਾ ਹੈ।

Ans
✗ 1. LONM
✗ 2. DWFU
✓ 3. ITLO
✗ 4. AZCX

Question ID : **630680107460**
Option 1 ID : **630680417198**
Option 2 ID : **630680417197**
Option 3 ID : **630680417199**
Option 4 ID : **630680417196**
Status : **Answered**
Chosen Option : **4**

Q.33 ਦਿੱਤੇ ਗਏ ਵਿਕਲਪਾਂ ਵਿੱਚੋਂ ਸੰਖਿਆ ਦੀ ਚੋਣ ਕਰੋ ਜੋ ਹੇਠਾਂ ਦਿੱਤੀ ਲੜੀ ਵਿੱਚ ਪ੍ਰਸ਼ਨ ਚਿੰਨ੍ਹ (?) ਦੇ ਸਥਾਨ 'ਤੇ ਆ ਸਕਦੀ ਹੈ।
22, 47, 96, 177, ?

Ans
✓ 1. 298
✗ 2. 273
✗ 3. 285
✗ 4. 261

Question ID : **63068050392**
Option 1 ID : **630680193890**
Option 2 ID : **630680193892**
Option 3 ID : **630680193891**
Option 4 ID : **630680193893**
Status : **Answered**
Chosen Option : **2**

Website - www.dailyjobalert.in

Q.34 ਅੰਗਰੇਜ਼ੀ ਵਰਣਮਾਲਾ ਦੇ ਕ੍ਰਮ ਦੇ ਅਧਾਰ 'ਤੇ ਇੱਕ ਖਾਸ ਢੰਗ ਨਾਲ JHPE, NDTA ਨਾਲ ਸੰਬੰਧਿਤ ਹੈ। ਇਸੇ ਤਰ੍ਹਾਂ, DGVQ, HCZM ਨਾਲ ਸੰਬੰਧਿਤ ਹੈ। ਉਸੇ ਤਰਕ ਦੀ ਪਾਲਣਾ ਕਰਦੇ ਹੋਏ, ਹੇਠਾਂ ਦਿੱਤਿਆਂ ਵਿੱਚੋਂ PRON ਕਿਸ ਨਾਲ ਸੰਬੰਧਿਤ ਹੈ?

Ans
✔ 1. TNSJ
✘ 2. TMSK
✘ 3. SMTK
✘ 4. SNTJ

Question ID : **63068077031**
Option 1 ID : **630680298222**
Option 2 ID : **630680298221**
Option 3 ID : **630680298223**
Option 4 ID : **630680298224**
Status : **Answered**
Chosen Option : **2**

Q.35 ਚਾਰ ਅੱਖਰ-ਸਮੂਹ (letter-clusters) ਦਿੱਤੇ ਗਏ ਹਨ ਜਿਨ੍ਹਾਂ ਵਿੱਚੋਂ ਤਿੰਨ ਕਿਸੇ ਨਾ ਕਿਸੇ ਢੰਗ ਨਾਲ ਇੱਕੋ ਜਿਹੇ ਹਨ ਅਤੇ ਇੱਕ ਵੱਖਰਾ ਹੈ। ਉਹ ਇੱਕ ਚੁਣੋ, ਜੋ ਵੱਖਰਾ ਹੈ।

Ans
✘ 1. PLS
✘ 2. VRY
✘ 3. HDK
✔ 4. QLU

Question ID : **63068077069**
Option 1 ID : **630680298376**
Option 2 ID : **630680298373**
Option 3 ID : **630680298375**
Option 4 ID : **630680298374**
Status : **Answered**
Chosen Option : **2**

Website - www.dailyjobalert.in

Q.36 ਦਿੱਤੇ ਪਾਈ ਚਾਰਟ ਦਾ ਅਧਿਐਨ ਕਰੋ ਅਤੇ ਦਿੱਤੇ ਸਵਾਲ ਦਾ ਜਵਾਬ ਦਿਓ।

ਦਿੱਤਾ ਪਾਈ ਚਾਰਟ, ਇਕੱਠੇ ਚਾਰ ਸਾਲਾਂ ਵਿੱਚ ਵੇਚੇ ਗਏ ਲੈਪਟਾਪਾਂ ਦੀ ਕੁਲ ਸੰਖਿਆ (ਜੋ 800 ਹੈ) ਵਿੱਚੋਂ, ਚਾਰ ਸਾਲਾਂ ਵਿੱਚ ਵੇਚੇ ਗਏ ਲੈਪਟਾਪਾਂ ਦੀ ਸੰਖਿਆ ਨੂੰ ਦਰਸਾਉਂਦਾ ਹੈ।

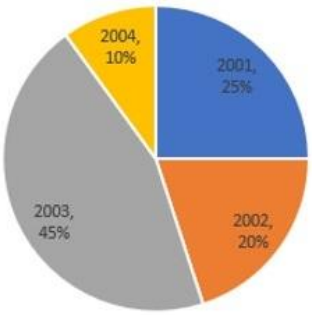

2001 ਅਤੇ 2002 ਵਿੱਚ ਵੇਚੇ ਗਏ ਲੈਪਟਾਪਾਂ ਦੀ ਔਸਤ ਸੰਖਿਆ ਅਤੇ 2003 ਅਤੇ 2004 ਵਿੱਚ ਵੇਚੇ ਗਏ ਲੈਪਟਾਪਾਂ ਦੀ ਔਸਤ ਸੰਖਿਆ ਵਿੱਚਕਾਰ ਕੀ ਅੰਤਰ ਹੈ?

Ans
✗ 1. 60
✓ 2. 40
✗ 3. 50
✗ 4. 30

Question ID : **630680172681**
Option 1 ID : **630680669146**
Option 2 ID : **630680669145**
Option 3 ID : **630680669144**
Option 4 ID : **630680669147**
Status : **Answered**
Chosen Option : **2**

Comprehension:

A, B, C, D, E, F, G ਅਤੇ H ਨਾਮ ਦੇ ਅੱਠ ਵਿਅਕਤੀ ਇੱਕ ਚੱਲ ਰਹੀ ਮਹਾਂਮਾਰੀ ਪਰਿਸਥਿਤੀ 'ਤੇ ਇੱਕ ਕਾਨਫਰੰਸ ਲਈ ਇੱਕ ਗੋਲ-ਮੇਜ਼ ਦੁਆਲੇ ਬੈਠੇ ਹਨ। ਸਿਰਫ਼ ਅੱਠ ਕੁਰਸੀਆਂ ਉਪਲਬਧ ਹਨ ਅਤੇ ਹਰੇਕ ਕੁਰਸੀ ਦੀ ਉਨ੍ਹਾਂ ਵਿਚੋਂ ਹਰ ਦੂਜੀ ਕੁਰਸੀ ਤੋਂ 2-ਗਜ਼ ਦੀ ਦੂਰੀ ਹੈ।
ਹੇਠਾਂ ਬੈਠਣ ਦੀ ਵਿਵਸਥਾ ਦਰਸਾਈ ਗਈ ਹੈ ਅਤੇ ਉਸ ਅਨੁਸਾਰ ਅੱਗੇ ਦਿੱਤੇ ਪ੍ਰਸ਼ਨ ਦਾ ਉੱਤਰ ਦਿਓ।
E ਉੱਤਰ ਦਿਸ਼ਾ ਵਿੱਚ ਬੈਠਾ ਹੈ। ਕ੍ਰਮਵਾਰ, E ਦੇ ਠੀਕ ਸੱਜੇ ਪਾਸੇ A ਅਤੇ E ਦੇ ਠੀਕ ਖੱਬੇ ਪਾਸੇ F ਬੈਠੇ ਹਨ। D ਦਾ ਮੂੰਹ ਠੀਕ ਉੱਤਰ ਵੱਲ ਹੈ ਅਤੇ ਉਸਦੇ ਕ੍ਰਮਵਾਰ ਠੀਕ ਸੱਜੇ ਪਾਸੇ G ਅਤੇ ਉਸਦੇ ਠੀਕ ਖੱਬੇ ਪਾਸੇ H ਬੈਠੇ ਹੋਏ ਹਨ। C, D ਦੇ ਖੱਬੇ ਪਾਸੇ ਦੂਸਰੇ ਸਥਾਨ 'ਤੇ ਬੈਠਾ ਹੈ। B ਮੇਜ਼ ਦੁਆਲੇ C ਦੇ ਠੀਕ ਸਾਹਮਣੇ ਬੈਠਾ ਹੈ।

SubQuestion No : 37

Q.37 **F ਕਿਸ ਦਿਸ਼ਾ ਵਿੱਚ ਬੈਠਾ ਹੈ?**

Ans
✗ 1. ਉੱਤਰ-ਪੱਛਮ
✗ 2. ਦੱਖਣ-ਪੂਰਬ
✓ 3. ਉੱਤਰ-ਪੂਰਬ
✗ 4. ਦੱਖਣ-ਪੱਛਮ

Question ID : **630680109297**
Option 1 ID : **630680423950**
Option 2 ID : **630680423949**
Option 3 ID : **630680423948**
Option 4 ID : **630680423951**
Status : **Answered**
Chosen Option : **4**

Website - www.dailyjobalert.in

Comprehension:

A, B, C, D, E, F, G ਅਤੇ H ਨਾਮ ਦੇ ਅੱਠ ਵਿਅਕਤੀ ਇੱਕ ਚੱਲ ਰਹੀ ਮਹਾਂਮਾਰੀ ਪਰਿਸਥਿਤੀ 'ਤੇ ਇੱਕ ਕਾਨਫਰੰਸ ਲਈ ਇੱਕ ਗੋਲ-ਮੇਜ਼ ਦੁਆਲੇ ਬੈਠੇ ਹਨ। ਸਿਰਫ਼ ਅੱਠ ਕੁਰਸੀਆਂ ਉਪਲਬਧ ਹਨ ਅਤੇ ਹਰੇਕ ਕੁਰਸੀ ਦੀ ਉਨ੍ਹਾਂ ਵਿਚੋਂ ਹਰ ਦੂਜੀ ਕੁਰਸੀ ਤੋਂ 2-ਗਜ਼ ਦੀ ਦੂਰੀ ਹੈ।
ਹੇਠਾਂ ਬੈਠਣ ਦੀ ਵਿਵਸਥਾ ਦਰਸਾਈ ਗਈ ਹੈ ਅਤੇ ਉਸ ਅਨੁਸਾਰ ਅੱਗੇ ਦਿੱਤੇ ਪ੍ਰਸ਼ਨ ਦਾ ਉੱਤਰ ਦਿਓ।
E ਉੱਤਰ ਦਿਸ਼ਾ ਵਿੱਚ ਬੈਠਾ ਹੈ। ਕ੍ਰਮਵਾਰ, E ਦੇ ਠੀਕ ਸੱਜੇ ਪਾਸੇ A ਅਤੇ E ਦੇ ਠੀਕ ਖੱਬੇ ਪਾਸੇ F ਬੈਠੇ ਹਨ। D ਦਾ ਮੂੰਹ ਠੀਕ ਉੱਤਰ ਵੱਲ ਹੈ ਅਤੇ ਉਸਦੇ ਕ੍ਰਮਵਾਰ ਠੀਕ ਸੱਜੇ ਪਾਸੇ G ਅਤੇ ਉਸਦੇ ਠੀਕ ਖੱਬੇ ਪਾਸੇ H ਬੈਠੇ ਹੋਏ ਹਨ। C, D ਦੇ ਖੱਬੇ ਪਾਸੇ ਦੂਸਰੇ ਸਥਾਨ 'ਤੇ ਬੈਠਾ ਹੈ। B ਮੇਜ਼ ਦੁਆਲੇ C ਦੇ ਠੀਕ ਸਾਹਮਣੇ ਬੈਠਾ ਹੈ।

SubQuestion No : 38

Q.38 D ਦੇ ਖੱਬੇ ਪਾਸੇ ਤੋਂ E ਅਤੇ D ਵਿਚਕਾਰ ਕਿੰਨੇ ਵਿਅਕਤੀ ਬੈਠੇ ਹੋਏ ਹਨ?

Ans
✗ 1. ਚਾਰ
✓ 2. ਤਿੰਨ
✗ 3. ਦੋ
✗ 4. ਪੰਜ

Question ID : **630680109298**
Option 1 ID : **630680423954**
Option 2 ID : **630680423953**
Option 3 ID : **630680423952**
Option 4 ID : **630680423955**
Status : **Answered**
Chosen Option : **3**

Comprehension:

ਹੇਠਾਂ ਦਿੱਤੀ ਜਾਣਕਾਰੀ ਨੂੰ ਧਿਆਨ ਨਾਲ ਪੜ੍ਹੋ ਅਤੇ ਅੱਗੇ ਆਉਣ ਵਾਲੇ ਪ੍ਰਸ਼ਨਾਂ ਦੇ ਉੱਤਰ ਦਿਓ।
ਚਾਕਲੇਟਾਂ ਦੇ ਹਰੇਕ ਪੈਕੇਟ 1,2,3,4,5 ਅਤੇ 6 ਨੂੰ ਇਕ ਵਿਅਕਤੀ ਵੱਲੋਂ ਸੋਮਵਾਰ ਤੋਂ ਸ਼ੁਰੂ ਹੋ ਕੇ ਉਸੇ ਹਫ਼ਤੇ ਦੇ ਸ਼ਨੀਵਾਰ ਤੱਕ ਖ਼ਤਮ ਹੋਣ ਵਾਲੇ ਹਫ਼ਤੇ ਦੇ ਵੱਖ-ਵੱਖ ਦਿਨ ਨੂੰ ਖਾਧੇ ਜਾਣਗੇ। ਵੀਰਵਾਰ ਨੂੰ ਪੈਕੇਟ 1 ਦੀ ਖਪਤ ਹੋਵੇਗੀ। ਪੈਕੇਟ 6 ਅਤੇ 1 ਦੇ ਵਿਚਕਾਰ ਦੋ ਤੋਂ ਘੱਟ ਪੈਕੇਟਾਂ ਦੀ ਖਪਤ ਨਹੀਂ ਹੋਵੇਗੀ। 6 ਅਤੇ 5 ਦੇ ਵਿਚਕਾਰ ਜਿੰਨੇ ਪੈਕੇਟਾਂ ਦੀ ਖਪਤ, 5 ਅਤੇ 3 ਦੇ ਵਿਚਕਾਰ ਖਪਤ ਕੀਤੇ ਪੈਕੇਟਾਂ ਜਿੰਨੀ ਹੈ। ਸ਼ਨੀਵਾਰ ਨੂੰ ਪੈਕੇਟ 4 ਦੀ ਖਪਤ ਨਹੀਂ ਕੀਤੀ ਜਾਵੇਗੀ। ਪੈਕੇਟ 5 ਦੀ ਖਪਤ, ਪੈਕੇਟ 1 ਤੋਂ ਠੀਕ ਪਹਿਲਾਂ ਵਾਲੇ ਦਿਨ ਕੀਤੀ ਜਾਵੇਗੀ।

SubQuestion No : 39

Q.39 ਇਹਨਾਂ ਵਿੱਚੋਂ ਕਿਸ ਪੈਕੇਟ ਦੀ ਖਪਤ ਮੰਗਲਵਾਰ ਨੂੰ ਹੋਵੇਗੀ?

Ans
✗ 1. 2
✗ 2. 6
✓ 3. 4
✗ 4. 5

Question ID : **630680106362**
Option 1 ID : **630680413269**
Option 2 ID : **630680413266**
Option 3 ID : **630680413267**
Option 4 ID : **630680413268**
Status : **Answered**
Chosen Option : **3**

Website - www.dailyjobalert.in

Comprehension:

ਹੇਠਾਂ ਦਿੱਤੀ ਜਾਣਕਾਰੀ ਨੂੰ ਧਿਆਨ ਨਾਲ ਪੜ੍ਹੋ ਅਤੇ ਅੱਗੇ ਆਉਣ ਵਾਲੇ ਪ੍ਰਸ਼ਨਾਂ ਦੇ ਉੱਤਰ ਦਿਓ।
ਚਾਕਲੇਟਾਂ ਦੇ ਹਰੇਕ ਪੈਕੇਟ 1,2,3,4,5 ਅਤੇ 6 ਨੂੰ ਇਕ ਵਿਅਕਤੀ ਵੱਲੋਂ ਸੋਮਵਾਰ ਤੋਂ ਸ਼ੁਰੂ ਹੋ ਕੇ ਉਸੇ ਹਫ਼ਤੇ ਦੇ ਸ਼ਨੀਵਾਰ ਤੱਕ ਖ਼ਤਮ ਹੋਣ ਵਾਲੇ ਹਫ਼ਤੇ ਦੇ ਵੱਖ-ਵੱਖ ਦਿਨ ਨੂੰ ਖਾਧੇ ਜਾਣਗੇ। ਵੀਰਵਾਰ ਨੂੰ ਪੈਕੇਟ 1 ਦੀ ਖਪਤ ਹੋਵੇਗੀ। ਪੈਕੇਟ 6 ਅਤੇ 1 ਦੇ ਵਿਚਕਾਰ ਦੋ ਤੋਂ ਘੱਟ ਪੈਕੇਟਾਂ ਦੀ ਖਪਤ ਨਹੀਂ ਹੋਵੇਗੀ। 6 ਅਤੇ 5 ਦੇ ਵਿਚਕਾਰ ਜਿੰਨੇ ਪੈਕੇਟਾਂ ਦੀ ਖਪਤ, 5 ਅਤੇ 3 ਦੇ ਵਿਚਕਾਰ ਖਪਤ ਕੀਤੇ ਪੈਕੇਟਾਂ ਜਿੰਨੀ ਹੈ। ਸ਼ਨੀਵਾਰ ਨੂੰ ਪੈਕੇਟ 4 ਦੀ ਖਪਤ ਨਹੀਂ ਕੀਤੀ ਜਾਵੇਗੀ। ਪੈਕੇਟ 5 ਦੀ ਖਪਤ, ਪੈਕੇਟ 1 ਤੋਂ ਠੀਕ ਪਹਿਲਾਂ ਵਾਲੇ ਦਿਨ ਕੀਤੀ ਜਾਵੇਗੀ।

SubQuestion No : 40

Q.40 ਹੇਠ ਲਿਖਿਆਂ ਵਿੱਚੋਂ ਕਿਸ ਦਿਨ ਪੈਕੇਟ 3 ਦੀ ਖਪਤ ਕੀਤੀ ਜਾਵੇਗੀ?

Ans
✗ 1. ਬੁੱਧਵਾਰ
✓ 2. ਸ਼ੁੱਕਰਵਾਰ
✗ 3. ਸੋਮਵਾਰ
✗ 4. ਸ਼ਨੀਵਾਰ

Question ID : **630680106363**
Option 1 ID : **630680413270**
Option 2 ID : **630680413272**
Option 3 ID : **630680413273**
Option 4 ID : **630680413271**
Status : **Answered**
Chosen Option : **4**

Comprehension:

ਦਿੱਤੇ ਗਏ ਚਿੱਤਰ ਦਾ ਧਿਆਨ ਨਾਲ ਅਧਿਐਨ ਕਰੋ ਅਤੇ ਅੱਗੇ ਆਉਣ ਵਾਲੇ ਪ੍ਰਸ਼ਨਾਂ ਦੇ ਉੱਤਰ ਦਿਓ। ਵੱਖ-ਵੱਖ ਭਾਗਾਂ ਵਿਚਲੀਆਂ ਸੰਖਿਆਵਾਂ ਵੱਖ-ਵੱਖ ਪੀਣ ਵਾਲੇ ਪਦਾਰਥਾਂ ਦਾ ਸੇਵਨ ਕਰਨ ਵਾਲੇ ਵਿਅਕਤੀਆਂ ਦੀ ਗਿਣਤੀ ਨੂੰ ਦਰਸਾਉਂਦੀਆਂ ਹਨ।

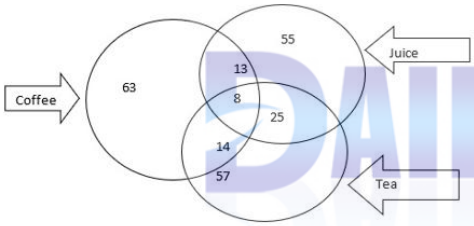

Coffee = ਕੌਫੀ Juice = ਜੂਸ Tea = ਚਾਹ

SubQuestion No : 41

Q.41 ਕਿੰਨੇ ਲੋਕ ਕੌਫੀ ਨਹੀਂ ਪੀਂਦੇ ਹਨ?

Ans
✓ 1. 137
✗ 2. 57
✗ 3. 82
✗ 4. 25

Question ID : **630680105578**
Option 1 ID : **630680410353**
Option 2 ID : **630680410351**
Option 3 ID : **630680410352**
Option 4 ID : **630680410354**
Status : **Answered**
Chosen Option : **1**

Website - www.dailyjobalert.in

Comprehension:

ਦਿੱਤੇ ਗਏ ਚਿੱਤਰ ਦਾ ਧਿਆਨ ਨਾਲ ਅਧਿਐਨ ਕਰੋ ਅਤੇ ਅੱਗੇ ਆਉਣ ਵਾਲੇ ਪ੍ਰਸ਼ਨਾਂ ਦੇ ਉੱਤਰ ਦਿਓ। ਵੱਖ-ਵੱਖ ਭਾਗਾਂ ਵਿਚਲੀਆਂ ਸੰਖਿਆਵਾਂ ਵੱਖ-ਵੱਖ ਪੀਣ ਵਾਲੇ ਪਦਾਰਥਾਂ ਦਾ ਸੇਵਨ ਕਰਨ ਵਾਲੇ ਵਿਅਕਤੀਆਂ ਦੀ ਗਿਣਤੀ ਨੂੰ ਦਰਸਾਉਂਦੀਆਂ ਹਨ।

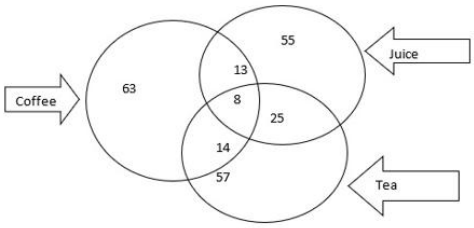

Coffee = ਕੌਫੀ Juice = ਜੂਸ Tea = ਚਾਹ

SubQuestion No : 42

Q.42 ਕਿੰਨੇ ਲੋਕ ਚਾਹ ਅਤੇ ਕੌਫੀ ਪੀਂਦੇ ਹਨ ਪਰ ਜੂਸ ਨਹੀਂ ਪੀਂਦੇ ਹਨ?

Ans
✗ 1. 120
✓ 2. 14
✗ 3. 65
✗ 4. 8

Question ID : **630680105577**
Option 1 ID : **630680410348**
Option 2 ID : **630680410347**
Option 3 ID : **630680410349**
Option 4 ID : **630680410350**
Status : **Answered**
Chosen Option : **1**

Comprehension:

ਇੱਕ ਖਾਸ ਕੋਡ ਵਿੱਚ,
'road runner rocks' ਨੂੰ 'sf hu ki' ਵਜੋਂ ਕੋਡਬੱਧ ਕੀਤਾ ਗਿਆ ਹੈ,
'goat cheese road' ਨੂੰ 'hu cb zo' ਵਜੋਂ ਕੋਡਬੱਧ ਕੀਤਾ ਗਿਆ ਹੈ,
'runner goat won' ਨੂੰ 'zo ki ma' ਵਜੋਂ ਕੋਡਬੱਧ ਕੀਤਾ ਗਿਆ ਹੈ।

SubQuestion No : 43

Q.43 'goat' ਲਈ ਕੋਡ ਕੀ ਹੋਵੇਗਾ?

Ans
✓ 1. zo
✗ 2. cb
✗ 3. hu
✗ 4. ki

Question ID : **630680109074**
Option 1 ID : **630680423124**
Option 2 ID : **630680423126**
Option 3 ID : **630680423125**
Option 4 ID : **630680423127**
Status : **Answered**
Chosen Option : **3**

Website - www.dailyjobalert.in

Comprehension:

ਇੱਕ ਖਾਸ ਕੋਡ ਵਿੱਚ,
'road runner rocks' ਨੂੰ 'sf hu ki' ਵਜੋਂ ਕੋਡਬੱਧ ਕੀਤਾ ਗਿਆ ਹੈ,
'goat cheese road' ਨੂੰ 'hu cb zo' ਵਜੋਂ ਕੋਡਬੱਧ ਕੀਤਾ ਗਿਆ ਹੈ,
'runner goat won' ਨੂੰ 'zo ki ma' ਵਜੋਂ ਕੋਡਬੱਧ ਕੀਤਾ ਗਿਆ ਹੈ।

SubQuestion No : 44

Q.44 'road' ਲਈ ਕੋਡ ਕੀ ਹੋਵੇਗਾ?

Ans
✗ 1. sf
✗ 2. cb
✗ 3. ki
✓ 4. hu

Question ID : **630680109073**
Option 1 ID : **630680423120**
Option 2 ID : **630680423123**
Option 3 ID : **630680423122**
Option 4 ID : **630680423121**
Status : **Answered**
Chosen Option : **1**

Comprehension:

ਇੱਕ ਕੁੜੀ ਨੇ ₹10000 ਦੀ ਧਨਰਾਸ਼ੀ ਸ਼ਾਪਿੰਗ 'ਤੇ ਖਰਚ ਕੀਤੀ। ਪਾਈ-ਚਾਰਟ, ਵੱਖ-ਵੱਖ ਚੀਜ਼ਾਂ 'ਤੇ ਕੀਤਾ ਗਿਆ ਖਰਚ ਦਰਸਾਉਂਦਾ ਹੈ। ਪਾਈ-ਚਾਰਟ ਦਾ ਅਧਿਐਨ ਕਰੋ ਅਤੇ ਦਿੱਤੇ ਗਏ ਪ੍ਰਸ਼ਨਾਂ ਦਾ ਉੱਤਰ ਦਿਓ।
ਇੱਕ ਕੁੜੀ ਨੇ ₹10000 ਦੀ ਸ਼ਾਪਿੰਗ ਕਰਦੇ ਹੋਏ, ਹੇਠਾਂ ਦਰਸਾਈ ਗਈ ਵੰਡ ਅਨੁਸਾਰ ਵੱਖ-ਵੱਖ ਚੀਜ਼ਾਂ 'ਤੇ ਡਿਗਰੀ ਅਨੁਸਾਰ ਖਰਚਾ ਕੀਤਾ।

Other=ਹੋਰ, Clothing=ਕੱਪੜੇ, Make up Accessories=ਮੈਕ-ਅੱਪ ਸਮੱਗਰੀ, Artificial Jewelry=ਆਰਟੀਫਿਸ਼ੀਅਲ ਜ਼ੇਵਰ, Footwear=ਬੂਟ, Other=ਹੋਰ

SubQuestion No : 45

Q.45 ਕੁੜੀ ਨੇ ਮੇਕਅੱਪ ਦੇ ਸਮਾਨ 'ਤੇ ਕਿੰਨਾ ਖਰਚ ਕੀਤਾ ਹੈ?

Ans
✗ 1. Rs.2,500
✗ 2. Rs.1,200
✗ 3. Rs.1,560
✓ 4. Rs.2,000

Question ID : **630680110416**
Option 1 ID : **630680427953**
Option 2 ID : **630680427954**
Option 3 ID : **630680427951**
Option 4 ID : **630680427952**
Status : **Answered**
Chosen Option : **3**

Website - www.dailyjobalert.in

Comprehension:

ਇੱਕ ਕੁੜੀ ਨੇ ₹10000 ਦੀ ਧਨਰਾਸ਼ੀ ਸਾਪਿੰਗ 'ਤੇ ਖਰਚ ਕੀਤੀ। ਪਾਈ-ਚਾਰਟ, ਵੱਖ-ਵੱਖ ਚੀਜ਼ਾਂ 'ਤੇ ਕੀਤਾ ਗਿਆ ਖਰਚ ਦਰਸਾਉਂਦਾ ਹੈ। ਪਾਈ-ਚਾਰਟ ਦਾ ਅਧਿਐਨ ਕਰੋ ਅਤੇ ਦਿੱਤੇ ਗਏ ਪ੍ਰਸ਼ਨਾਂ ਦਾ ਉੱਤਰ ਦਿਓ।

ਇੱਕ ਕੁੜੀ ਨੇ ₹10000 ਦੀ ਸ਼ਾਪਿੰਗ ਕਰਦੇ ਹੋਏ, ਹੇਠਾਂ ਦਰਸਾਈ ਗਈ ਵੰਡ ਅਨੁਸਾਰ ਵੱਖ-ਵੱਖ ਚੀਜ਼ਾਂ 'ਤੇ ਡਿਗਰੀ ਅਨੁਸਾਰ ਖਰਚਾ ਕੀਤਾ।

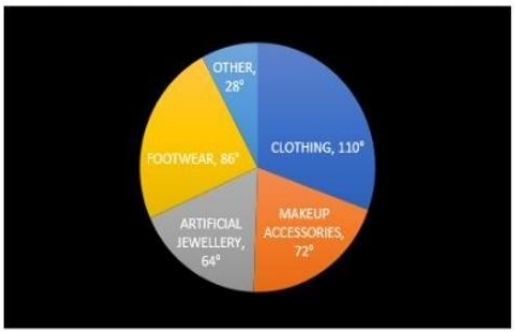

Other=ਹੋਰ, Clothing=ਕੱਪੜੇ, Make up Accessories=ਮੈਕ-ਅੱਪ ਸਮੱਗਰੀ, Artificial Jewelry=ਆਰਟੀਫਿਸ਼ੀਅਲ ਜ਼ੇਵਰ, Footwear=ਬੂਟ, Other=ਹੋਰ

SubQuestion No : 46

Q.46 ਕੁੱਲ ਖਰਚੇ ਦੇ ਸਬੰਧ ਵਿੱਚ ਕੁੜੀ ਦੁਆਰਾ ਕੱਪੜਿਆਂ, ਬੂਟਾਂ ਅਤੇ ਗਹਿਣਿਆਂ 'ਤੇ ਕੁੱਲ ਰਕਮ ਦਾ ਕਿੰਨੇ ਪ੍ਰਤੀਸ਼ਤ ਖਰਚ ਕੀਤਾ ਗਿਆ ਹੈ?

Ans

✗ 1. 75%

✓ 2. 72.22%

✗ 3. 84.22%

✗ 4. 81%

Question ID : **630680110417**
Option 1 ID : **630680427956**
Option 2 ID : **630680427955**
Option 3 ID : **630680427958**
Option 4 ID : **630680427957**
Status : **Answered**
Chosen Option : **3**

DAILY JOB Alert ਪੰਜਾਬ

Comprehension:

ਦਿੱਤਾ ਗਿਆ ਬਾਰ ਗਰਾਫ਼ ਵੱਖ-ਵੱਖ ਖੇਡਾਂ ਵਿੱਚ ਹਿੱਸਾ ਲੈਣ ਵਾਲੇ ਖਿਡਾਰੀਆਂ ਦੀ ਗਿਣਤੀ ਨੂੰ ਦਰਸਾਉਂਦਾ ਹੈ। ਬਾਰ ਗਰਾਫ਼ ਦਾ ਅਧਿਐਨ ਕਰੋ ਅਤੇ ਪ੍ਰਸ਼ਨਾਂ ਦੇ ਉੱਤਰ ਦਿਓ।

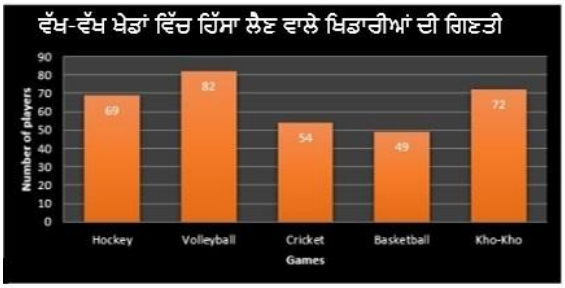

(Number of players=ਖਿਡਾਰੀਆਂ ਦੀ ਗਿਣਤੀ, Games=ਖੇਡਾਂ, Hockey=ਹਾਕੀ, Volleyball=ਵਾਲੀਬਾਲ, Cricket=ਕ੍ਰਿਕਟ, Basketball=ਬਾਸਕਟਬਾਲ, Kho-Kho=ਖੋ-ਖੋ)

SubQuestion No : 47

Q.47 ਕ੍ਰਿਕਟ ਵਿੱਚ ਭਾਗ ਲੈਣ ਵਾਲੇ ਖਿਡਾਰੀਆਂ ਦੀ ਸੰਖਿਆ ਅਤੇ ਖੋ-ਖੋ ਵਿੱਚ ਭਾਗ ਲੈਣ ਵਾਲੇ ਖਿਡਾਰੀਆਂ ਦੀ ਸੰਖਿਆ ਦਾ ਅਨੁਪਾਤ ਕੀ ਹੈ?

Ans

✗ 1. 7:9

✗ 2. 9:13

✓ 3. 3:4

✗ 4. 5:6

Question ID : **630680105695**
Option 1 ID : **630680410810**
Option 2 ID : **630680410807**
Option 3 ID : **630680410808**
Option 4 ID : **630680410809**
Status : **Answered**
Chosen Option : **4**

DAILY JOB Alert ਪੰਜਾਬ

Comprehension:

ਦਿੱਤਾ ਗਿਆ ਬਾਰ ਗਰਾਫ਼ ਵੱਖ-ਵੱਖ ਖੇਡਾਂ ਵਿੱਚ ਹਿੱਸਾ ਲੈਣ ਵਾਲੇ ਖਿਡਾਰੀਆਂ ਦੀ ਗਿਣਤੀ ਨੂੰ ਦਰਸਾਉਂਦਾ ਹੈ। ਬਾਰ ਗਰਾਫ਼ ਦਾ ਅਧਿਐਨ ਕਰੋ ਅਤੇ ਪ੍ਰਸ਼ਨਾਂ ਦੇ ਉੱਤਰ ਦਿਓ।

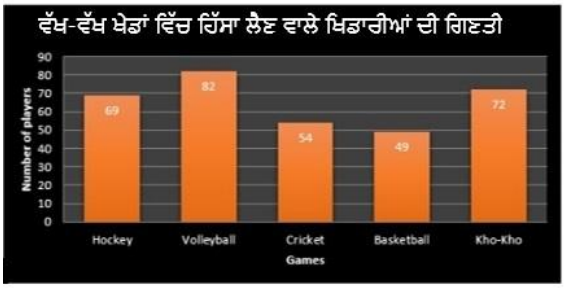

(Number of players=ਖਿਡਾਰੀਆਂ ਦੀ ਗਿਣਤੀ, Games=ਖੇਡਾਂ, Hockey=ਹਾਕੀ, Volleyball=ਵਾਲੀਬਾਲ, Cricket=ਕ੍ਰਿਕਟ, Basketball=ਬਾਸਕਟਬਾਲ, Kho-Kho=ਖੋ-ਖੋ)

SubQuestion No : 48

Q.48 ਵਾਲੀਬਾਲ ਅਤੇ ਬਾਸਕਟਬਾਲ ਵਿੱਚ ਭਾਗ ਲੈਣ ਵਾਲੇ ਖਿਡਾਰੀਆਂ ਦੀ ਸੰਖਿਆ ਵਿੱਚ ਕਿੰਨਾਂ ਅੰਤਰ ਹੈ?

Ans
✗ 1. 40
✗ 2. 28
✓ 3. 33
✗ 4. 42

Question ID : **630680105694**
Option 1 ID : **630680410804**
Option 2 ID : **630680410806**
Option 3 ID : **630680410803**
Option 4 ID : **630680410805**
Status : **Answered**
Chosen Option : **3**

Comprehension:

ਦਿੱਤੇ ਗਏ ਪੈਰੇ ਨੂੰ ਪੜ੍ਹੋ ਅਤੇ ਅਗਲੇ ਸਵਾਲਾਂ ਦੇ ਉੱਤਰ ਦਿਓ।

ਘਰੇਲੂ ਹਿੰਸਾ, ਜਿਸਨੂੰ ਘਰੇਲੂ ਦੁਰਵਿਵਹਾਰ ਜਾਂ ਗ੍ਰਹਿਸਥੀ ਜੀਵਨ ਸਾਥੀ ਹਿੰਸਾ ਵੀ ਕਿਹਾ ਜਾਂਦਾ ਹੈ, ਵਿਵਹਾਰ ਦਾ ਕੋਈ ਵੀ ਪੈਟਰਨ, ਜੋ ਕਿਸੇ ਗ੍ਰਹਿਸਥੀ ਜੀਵਨ ਸਾਥੀ 'ਤੇ ਸ਼ਕਤੀ ਅਤੇ ਨਿਯੰਤਰਣ ਪ੍ਰਾਪਤ ਕਰਨ ਜਾਂ ਕਾਇਮ ਰੱਖਣ ਲਈ ਵਰਤਿਆ ਜਾਂਦਾ ਹੈ। ਇਸ ਵਿੱਚ ਸਾਰੀਆਂ ਸਰੀਰਕ, ਜਿਨਸੀ, ਭਾਵਨਾਤਮਕ, ਆਰਥਿਕ ਅਤੇ ਮਨੋਵਿਗਿਆਨਕ ਕਾਰਵਾਈਆਂ ਜਾਂ ਕਿਸੇ ਹੋਰ ਵਿਅਕਤੀ ਨੂੰ ਪ੍ਰਭਾਵਿਤ ਕਰਨ ਵਾਲੀਆਂ ਕਾਰਵਾਈਆਂ ਦੀਆਂ ਧਮਕੀਆਂ ਸ਼ਾਮਲ ਹਨ। ਇਹ ਵਿਸ਼ਵ ਪੱਧਰ 'ਤੇ ਔਰਤਾਂ ਦੁਆਰਾ ਅਨੁਭਵ ਕੀਤੀ ਜਾਂਦੀ ਹਿੰਸਾ ਦੇ ਸਭ ਤੋਂ ਆਮ ਰੂਪਾਂ ਵਿੱਚੋਂ ਇੱਕ ਹੈ। ਘਰੇਲੂ ਹਿੰਸਾ ਵਿੱਚ ਹੇਠ ਲਿਖੇ ਸ਼ਾਮਲ ਹੋ ਸਕਦੇ ਹਨ - ਆਰਥਿਕ ਹਿੰਸਾ, ਮਨੋਵਿਗਿਆਨਕ ਹਿੰਸਾ, ਭਾਵਨਾਤਮਕ ਹਿੰਸਾ, ਸਰੀਰਕ ਹਿੰਸਾ, ਜਿਨਸੀ ਹਿੰਸਾ ਆਦਿ।
'ਘਰੇਲੂ ਹਿੰਸਾ' ਸ਼ਬਦ ਦੀ ਵਰਤੋਂ ਉਦੋਂ ਕੀਤੀ ਜਾਂਦੀ ਹੈ ਜਦੋਂ ਪੀੜਤ ਅਤੇ ਅਪਰਾਧੀ ਵਿਚਕਾਰ ਨਜ਼ਦੀਕੀ ਸਬੰਧ ਹੁੰਦੇ ਹਨ। ਆਮ ਤੌਰ 'ਤੇ ਪੀੜਤ ਅਤੇ ਅਪਰਾਧੀ ਵਿਚਕਾਰ ਤਾਕਤ ਦਾ ਅੰਤਰ ਹੁੰਦਾ ਹੈ। ਘਰੇਲੂ ਹਿੰਸਾ ਇੱਕ ਪ੍ਰਮੁੱਖ ਜਨਤਕ ਸਿਹਤ ਮੁੱਦਾ ਹੈ, ਇਹ ਵੱਡੀ ਸੰਖਿਆ ਵਿੱਚ ਵਿਅਕਤੀਆਂ ਨੂੰ ਪ੍ਰਭਾਵਿਤ ਕਰਦੀ ਹੈ ਅਤੇ ਕਈ ਵਾਰ ਸਰੀਰਕ, ਮਾਨਸਿਕ ਅਤੇ ਆਰਥਿਕ ਸੱਟਾਂ ਅਤੇ ਇੱਥੋਂ ਤੱਕ ਕਿ ਮੌਤਾਂ ਵੀ ਹੋ ਜਾਂਦੀ ਹੈ।

SubQuestion No : 49

Q.49 ਘਰੇਲੂ ਹਿੰਸਾ ਦੇ ਹੋਣ ਲਈ, ਹੇਠ ਲਿਖਿਆਂ ਵਿੱਚੋਂ ਕਿਹੜਾ ਜ਼ਰੂਰੀ ਹੈ?

Ans
✗ 1. ਘੱਟੋ-ਘੱਟ 10 ਸਾਲ ਪੁਰਾਣਾ ਸਬੰਧ
✓ 2. ਅਪਰਾਧੀ ਅਤੇ ਪੀੜਤ ਵਿਚਕਾਰ ਨਜ਼ਦੀਕੀ ਸਬੰਧ
✗ 3. ਵਿਆਹੁਤਾ ਸਬੰਧ
✗ 4. ਕਾਨੂੰਨੀ ਸਬੰਧ

Question ID : **630680248141**
Option 1 ID : **630680962734**
Option 2 ID : **630680962733**
Option 3 ID : **630680962731**
Option 4 ID : **630680962732**
Status : **Answered**
Chosen Option : **2**

Website - www.dailyjobalert.in

Comprehension:

ਦਿੱਤੇ ਗਏ ਪੈਰੇ ਨੂੰ ਪੜ੍ਹੋ ਅਤੇ ਅਗਲੇ ਸਵਾਲਾਂ ਦੇ ਉੱਤਰ ਦਿਓ।

ਘਰੇਲੂ ਹਿੰਸਾ, ਜਿਸਨੂੰ ਘਰੇਲੂ ਦੁਰਵਿਵਹਾਰ ਜਾਂ ਗ੍ਰਹਿਸਥੀ ਜੀਵਨ ਸਾਥੀ ਹਿੰਸਾ ਵੀ ਕਿਹਾ ਜਾਂਦਾ ਹੈ, ਵਿਵਹਾਰ ਦਾ ਕੋਈ ਵੀ ਪੈਟਰਨ, ਜੋ ਕਿਸੇ ਗ੍ਰਹਿਸਥੀ ਜੀਵਨ ਸਾਥੀ 'ਤੇ ਸ਼ਕਤੀ ਅਤੇ ਨਿਯੰਤਰਣ ਪ੍ਰਾਪਤ ਕਰਨ ਜਾਂ ਕਾਇਮ ਰੱਖਣ ਲਈ ਵਰਤਿਆ ਜਾਂਦਾ ਹੈ। ਇਸ ਵਿੱਚ ਸਾਰੀਆਂ ਸਰੀਰਕ, ਜਿਨਸੀ, ਭਾਵਨਾਤਮਕ, ਆਰਥਿਕ ਅਤੇ ਮਨੋਵਿਗਿਆਨਕ ਕਾਰਵਾਈਆਂ ਜਾਂ ਕਿਸੇ ਹੋਰ ਵਿਅਕਤੀ ਨੂੰ ਪ੍ਰਭਾਵਿਤ ਕਰਨ ਵਾਲੀਆਂ ਕਾਰਵਾਈਆਂ ਦੀਆਂ ਧਮਕੀਆਂ ਸ਼ਾਮਲ ਹਨ। ਇਹ ਵਿਸ਼ਵ ਪੱਧਰ 'ਤੇ ਔਰਤਾਂ ਦੁਆਰਾ ਅਨੁਭਵ ਕੀਤੀ ਜਾਂਦੀ ਹਿੰਸਾ ਦੇ ਸਭ ਤੋਂ ਆਮ ਰੂਪਾਂ ਵਿੱਚੋਂ ਇੱਕ ਹੈ। ਘਰੇਲੂ ਹਿੰਸਾ ਵਿੱਚ ਹੇਠ ਲਿਖੇ ਸ਼ਾਮਲ ਹੋ ਸਕਦੇ ਹਨ - ਆਰਥਿਕ ਹਿੰਸਾ, ਮਨੋਵਿਗਿਆਨਕ ਹਿੰਸਾ, ਭਾਵਨਾਤਮਕ ਹਿੰਸਾ, ਸਰੀਰਕ ਹਿੰਸਾ, ਜਿਨਸੀ ਹਿੰਸਾ ਆਦਿ।
'ਘਰੇਲੂ ਹਿੰਸਾ' ਸ਼ਬਦ ਦੀ ਵਰਤੋਂ ਉਦੋਂ ਕੀਤੀ ਜਾਂਦੀ ਹੈ ਜਦੋਂ ਪੀੜਤ ਅਤੇ ਅਪਰਾਧੀ ਵਿਚਕਾਰ ਨਜ਼ਦੀਕੀ ਸਬੰਧ ਹੁੰਦੇ ਹਨ। ਆਮ ਤੌਰ 'ਤੇ ਪੀੜਤ ਅਤੇ ਅਪਰਾਧੀ ਵਿਚਕਾਰ ਤਾਕਤ ਦਾ ਅੰਤਰ ਹੁੰਦਾ ਹੈ। ਘਰੇਲੂ ਹਿੰਸਾ ਇੱਕ ਪ੍ਰਮੁੱਖ ਜਨਤਕ ਸਿਹਤ ਮੁੱਦਾ ਹੈ, ਇਹ ਵੱਡੀ ਸੰਖਿਆ ਵਿੱਚ ਵਿਅਕਤੀਆਂ ਨੂੰ ਪ੍ਰਭਾਵਿਤ ਕਰਦੀ ਹੈ ਅਤੇ ਕਈ ਵਾਰ ਸਰੀਰਕ, ਮਾਨਸਿਕ ਅਤੇ ਆਰਥਿਕ ਸੱਟਾਂ ਅਤੇ ਇੱਥੋਂ ਤੱਕ ਕਿ ਮੌਤਾਂ ਵੀ ਹੋ ਜਾਂਦੀ ਹੈ।

SubQuestion No : 50

Q.50 ਆਪਣੇ ਜੀਵਨ ਸਾਥੀ ਉੱਤੇ ਨਿਯੰਤਰਣ ਪ੍ਰਾਪਤ ਕਰਨ ਦੀ ਕਾਰਵਾਈ ਨੂੰ _____ ਕਿਹਾ ਜਾਂਦਾ ਹੈ।

Ans
- ✗ 1. ਪਰੇਸ਼ਾਨੀ
- ✗ 2. ਬੇਲੋੜਾ ਪ੍ਰਭਾਵ
- ✓ 3. ਘਰੇਲੂ ਹਿੰਸਾ
- ✗ 4. ਦਬਾਅ

Question ID : **630680248140**
Option 1 ID : **630680962728**
Option 2 ID : **630680962729**
Option 3 ID : **630680962730**
Option 4 ID : **630680962727**
Status : **Answered**
Chosen Option : **3**

Section : **Digital Literacy and Computer Awareness**

Q.51 ਕਿਸੇ ਸਪ੍ਰੈਡਸ਼ੀਟ ਵਿੱਚ ਇੱਕ ਸੈੱਲ ਵਿੱਚ _____ਸ਼ਾਮਲ ਨਹੀਂ ਹੋ ਸਕਦਾ।

Ans
- ✓ 1. ਇਨਵੇਲੋਪਸ (envelops)
- ✗ 2. ਨੰਬਰ (numbers)
- ✗ 3. ਫਾਰਮੂਲੇ (formulas)
- ✗ 4. ਲੇਬਲ (labels)

Question ID : **630680247986**
Option 1 ID : **630680962153**
Option 2 ID : **630680962152**
Option 3 ID : **630680962154**
Option 4 ID : **630680962151**
Status : **Answered**
Chosen Option : **1**

Website - www.dailyjobalert.in

Q.52 MS PowerPoint 2010 ਵਿੱਚ ਹੈਂਡਆਉਟ ਮਾਸਟਰ (Handout Master) ਵਿੱਚ _____ ਦੇ ਲਈ ਕੋਈ ਪਲੇਸਹੋਲਡਰ ਨਹੀਂ ਹੁੰਦਾ ਹੈ।

Ans
- ✔ 1. ਆਉਟਲਾਈਨ (Outline)
- ✘ 2. ਹੈਡਰ (Header)
- ✘ 3. ਡੇਟ (Date)
- ✘ 4. ਫੁੱਟਰ (Footer)

Question ID : **630680247990**
Option 1 ID : **630680962169**
Option 2 ID : **630680962167**
Option 3 ID : **630680962170**
Option 4 ID : **630680962168**
Status : **Answered**
Chosen Option : **2**

Q.53 ਗੂਗਲ (Google) ਦੁਆਰਾ ਪ੍ਰਦਾਨ ਇੱਕ ਉੱਚ-ਗੁਣਵੱਤਾ ਵੀਡੀਓ ਮੀਟਿੰਗ ਐਪਲੀਕੇਸ਼ਨ _____ ਹੈ।

Ans
- ✘ 1. ਗੂਗਲ ਲੈਂਸ (Google Lens)
- ✔ 2. ਗੂਗਲ ਮੀਟ (Google Meet)
- ✘ 3. ਗੂਗਲ ਡਰਾਈਵ (Google Drive)
- ✘ 4. ਗੂਗਲ ਕਲਾਸ (Google Class)

Question ID : **630680248002**
Option 1 ID : **630680962217**
Option 2 ID : **630680962215**
Option 3 ID : **630680962218**
Option 4 ID : **630680962216**
Status : **Answered**
Chosen Option : **2**

Q.54 ਹੇਠ ਦਿੱਤਿਆਂ ਵਿੱਚੋਂ ਕਿਹੜਾ ਇੱਕ ਸੋਸ਼ਲ ਮੀਡੀਆ ਪਲੇਟਫਾਰਮ ਨਹੀਂ ਹੈ?

Ans
- ✘ 1. ਟਵਿੱਟਰ (Twitter)
- ✘ 2. ਲਿੰਕਡਇਨ (LinkedIn)
- ✘ 3. ਸਨੈਪਚੈਟ (Snapchat)
- ✔ 4. ਕਰੋਮ (Chrome)

Question ID : **630680247998**
Option 1 ID : **630680962202**
Option 2 ID : **630680962199**
Option 3 ID : **630680962200**
Option 4 ID : **630680962201**
Status : **Answered**
Chosen Option : **4**

DAILY JOB Alert ਪੰਜਾਬ

Q.55 MS Word 2010 ਦੇ 'ਵਿਊ (View)' ਮੀਨੂ ਵਿੱਚ ਹੇਠ ਦਿੱਤਿਆਂ ਵਿੱਚੋਂ ਕਿਹੜਾ ਵਿਕਲਪ ਮੌਜੂਦ ਨਹੀਂ ਹੁੰਦਾ ਹੈ?

Ans
- ✗ 1. ਸਪਲਿਟ (Split)
- ✓ 2. ਟੇਬਲ (Tables)
- ✗ 3. ਫੁੱਲ ਸਕ੍ਰੀਨ ਰੀਡਿੰਗ (Full Screen Reading)
- ✗ 4. ਜ਼ੂਮ (Zoom)

Question ID : **630680247985**
Option 1 ID : **630680962147**
Option 2 ID : **630680962148**
Option 3 ID : **630680962150**
Option 4 ID : **630680962149**
Status : **Answered**
Chosen Option : **3**

Q.56 ਵਰਲਡ ਵਾਈਡ ਵੈੱਬ ਦੀ ਖੋਜ _____ ਦੁਆਰਾ ਕੀਤੀ ਗਈ ਸੀ।

Ans
- ✗ 1. ਐਲੋਨ ਮਸਕ (Elon Musk)
- ✗ 2. ਬਿਲ ਗੇਟਸ (Bill Gates)
- ✓ 3. ਟਿਮ ਬਰਨਰਸ-ਲੀ (Tim Berners-Lee)
- ✗ 4. ਸਟੀਵ ਜੌਬਸ (Steve Jobs)

Question ID : **630680247992**
Option 1 ID : **630680962175**
Option 2 ID : **630680962178**
Option 3 ID : **630680962177**
Option 4 ID : **630680962176**
Status : **Answered**
Chosen Option : **3**

Q.57 ਸੋਸ਼ਲ ਮੀਡੀਆ ਪਲੇਟਫਾਰਮਾਂ ਦੁਆਰਾ ਪ੍ਰਦਾਨ ਕੀਤੀਆਂ ਜਾਂਦੀਆਂ ਸੇਵਾਵਾਂ ਦੇ ਸੰਬੰਧ ਵਿੱਚ ਇਹ ਦੱਸੋ ਕਿ ਹੇਠ ਦਿੱਤਿਆਂ ਵਿੱਚੋਂ ਕਿਹੜਾ ਕਥਨ ਸਹੀ ਜਾਂ ਗਲਤ ਹੈ?

(i) ਐਮੇਜ਼ੋਨ ਵੈੱਬ ਸਰਵਿਸਸ (Amazon Web Services) ਉਹਨਾਂ ਲੋਕਾਂ ਲਈ ਇੱਕ ਪੇਸ਼ੇਵਰ ਨੈੱਟਵਰਕਿੰਗ ਸਾਈਟ ਹੈ ਜੋ ਆਪਣੇ ਕਰੀਅਰ ਵਿੱਚ ਅੱਗੇ ਵਧਣਾ ਚਾਹੁੰਦੇ ਹਨ।
(ii) ਯੂਟਿਊਬ (YouTube) ਇੱਕ ਫੋਟੋ-ਸ਼ੇਅਰਿੰਗ ਪਲੇਟਫਾਰਮ ਹੈ।

Ans
- ✓ 1. (i) ਗਲਤ, (ii) ਗਲਤ
- ✗ 2. (i) ਗਲਤ, (ii) ਸਹੀ
- ✗ 3. (i) ਸਹੀ, (ii) ਸਹੀ
- ✗ 4. (i) ਸਹੀ, (ii) ਗਲਤ

Question ID : **630680247999**
Option 1 ID : **630680962206**
Option 2 ID : **630680962205**
Option 3 ID : **630680962203**
Option 4 ID : **630680962204**
Status : **Answered**
Chosen Option : **4**

DAILY JOB Alert ਪੰਜਾਬ

Q.58 ਮਾਈਕ੍ਰੋਸਾੱਫਟ ਵਰਡ ਪ੍ਰੋਸੈਸਰ ਵਿੱਚ ਹੇਠ ਦਿੱਤਿਆਂ ਵਿੱਚੋਂ ਕਿਹੜਾ ਪੈਰਾਗ੍ਰਾਫ ਫਾਰਮੈਟਿੰਗ ਟੂਲ ਉਪਲਬਧ ਨਹੀਂ ਹੁੰਦਾ ਹੈ?

Ans
- ✗ 1. ਬੁੱਲੇਟਸ (Bullets)
- ✗ 2. ਲਾਈਨ ਸਪੇਸਿੰਗ (Line Spacing)
- ✓ 3. ਕੰਡੀਸ਼ਨਲ ਫਾਰਮੈਟਿੰਗ (Conditional Formatting)
- ✗ 4. ਅਲਾਈਨਮੈਂਟ (Alignment)

Question ID : **630680247983**
Option 1 ID : **630680962140**
Option 2 ID : **630680962139**
Option 3 ID : **630680962142**
Option 4 ID : **630680962141**
Status : **Answered**
Chosen Option : **1**

Q.59 MS PowerPoint 2010 ਦੀ ਵਰਤੋਂ ਕਰਦਿਆਂ ਇੱਕ ਸਲਾਈਡਸ਼ੋਅ ਸ਼ੁਰੂ ਕਰਨ ਲਈ ਹੇਠ ਦਿੱਤਿਆਂ ਵਿੱਚੋਂ ਕਿਸ ਕੀਬੋਰਡ ਸ਼ਾਰਟਕੱਟ ਦੀ ਵਰਤੋਂ ਕੀਤੀ ਜਾਂਦੀ ਹੈ?

Ans
- ✓ 1. F5
- ✗ 2. F12
- ✗ 3. F11
- ✗ 4. F1

Question ID : **630680247989**
Option 1 ID : **630680962164**
Option 2 ID : **630680962166**
Option 3 ID : **630680962165**
Option 4 ID : **630680962163**
Status : **Answered**
Chosen Option : **4**

Q.60 _____ ਇੱਕ ਤਕਨੀਕ ਹੈ ਜੋ ਕਿਸੇ ਬ੍ਰੌਡਬੈਂਡ ਇੰਟਰਨੈਟ ਕਨੈਕਸ਼ਨ ਦੀ ਵਰਤੋਂ ਕਰਕੇ ਵੌਇਸ ਕਾਲ ਕਰਨ ਦੀ ਸੁਵਿਧਾ ਦਿੰਦੀ ਹੈ।

Ans
- ✗ 1. ਵੌਇਸ ਓਵਰ ਇੰਟਰਨਲ ਪ੍ਰੋਸੈੱਸ
- ✗ 2. ਵੈਲਿਊ ਓਵਰ ਇੰਟਰਨੈੱਟ ਪੌਲਿਸੀ
- ✓ 3. ਵੌਇਸ ਓਵਰ ਇੰਟਰਨੈੱਟ ਪ੍ਰੋਟੋਕੋਲ
- ✗ 4. ਵੈਲੀਉ ਓਵਰ ਇੰਟਰਨੈੱਟ ਪ੍ਰੋਟੋਕੋਲ

Question ID : **630680248000**
Option 1 ID : **630680962207**
Option 2 ID : **630680962209**
Option 3 ID : **630680962208**
Option 4 ID : **630680962210**
Status : **Answered**
Chosen Option : **3**

DAILY JOB ALERT ਪੰਜਾਬ

Q.61 MS Excel 2010 ਵਿੱਚ 'ਵਿਊ (View)' ਮੀਨੂ ਦੁਆਰਾ ਹੇਠ ਦਿੱਤਿਆਂ ਵਿੱਚੋਂ ਕਿਹੜਾ ਵਿਊ ਵਿਕਲਪ ਪ੍ਰਦਾਨ ਨਹੀਂ ਕੀਤਾ ਗਿਆ ਹੈ?

Ans
- ✔ 1. ਲਿੰਕਡ ਵਿਊਜ਼ (Linked Views)
- ✘ 2. ਪੇਜ਼ ਬ੍ਰੇਕ ਪ੍ਰੀਵਿਊ (Page Break Preview)
- ✘ 3. ਪੇਜ਼ ਲੇਆਊਟ (Page Layout)
- ✘ 4. ਕਸਟਮ ਵਿਊਜ਼ (Custom Views)

Question ID : **630680247987**
Option 1 ID : **630680962158**
Option 2 ID : **630680962156**
Option 3 ID : **630680962155**
Option 4 ID : **630680962157**
Status : **Answered**
Chosen Option : **1**

Q.62 ਕੰਪਿਊਟਰ ਸਿਸਟਮ ਦੇ ਸੰਬੰਧ ਵਿੱਚ BIOS ਦਾ ਪੂਰਾ ਨਾਮ ਕੀ ਹੈ?

Ans
- ✘ 1. ਬਾਈਨਰੀ ਇਨਪੁੱਟ ਆਉਟਪੁੱਟ ਸਿਸਟਮ (Binary Input Output System)
- ✘ 2. ਬਾਈਨਰੀ ਇੰਟਰਨਲ ਆਉਟਪੁੱਟ ਸਿਸਟਮ (Binary Internal Output System)
- ✔ 3. ਬੇਸਿਕ ਇਨਪੁੱਟ ਆਉਟਪੁੱਟ ਸਿਸਟਮ (Basic Input Output System)
- ✘ 4. ਬੇਸਿਕ ਇੰਟਰਨਲ ਓਪਨ ਸਿਸਟਮ (Basic Internal Open System)

Question ID : **630680247980**
Option 1 ID : **630680962127**
Option 2 ID : **630680962130**
Option 3 ID : **630680962128**
Option 4 ID : **630680962129**
Status : **Answered**
Chosen Option : **3**

Q.63 MS Word 2010 ਡੋਕਿਓਮੈਂਟ ਵਿੱਚ ਚੁਣੇ ਹੋਏ ਟੈਕਸਟ ਨੂੰ ਸੈਂਟਰ ਅਲਾਈਨ ਕਰਨ ਲਈ ਕਿਹੜੀ ਕੀਬੋਰਡ ਸ਼ਾਰਟਕੱਟ ਕੀਅ ਵਰਤੀ ਜਾਂਦੀ ਹੈ?

Ans
- ✘ 1. Ctrl + P
- ✘ 2. Ctrl + C
- ✘ 3. Ctrl + N
- ✔ 4. Ctrl + E

Question ID : **630680247984**
Option 1 ID : **630680962144**
Option 2 ID : **630680962146**
Option 3 ID : **630680962143**
Option 4 ID : **630680962145**
Status : **Answered**
Chosen Option : **2**

DAILY JOB Alert ਪੰਜਾਬ

Q.64 ਗੂਗਲ ਕਰੋਮ ਦੀ 'ਪ੍ਰਾਇਵੇਸੀ ਐਂਡ ਸਕਿਉਰਿਟੀ (Privacy and Security)' ਸੈਟਿੰਗ ਦੇ ਸੰਬੰਧ ਵਿੱਚ ਇਹ ਪਤਾ ਕਰੋ ਕਿ ਹੇਠ ਦਿੱਤਿਆਂ ਵਿੱਚੋਂ ਕਿਹੜਾ ਕਥਨ ਸਹੀ ਜਾਂ ਗਲਤ ਹੈ?

(i) ਕ੍ਰੋਮ ਨੇ ਕਿਸੇ ਸਾਈਟ ਲਈ ਸਮੱਗਰੀ ਅਤੇ ਇਜਾਜ਼ਤਾਂ ਨੂੰ ਕਿਵੇਂ ਪ੍ਰਬੰਧਿਤ ਕਰਨਾ ਹੈ, ਇਹ ਨਿਯੰਤਰਣ ਕਰਨ ਲਈ ਸਾਈਟ ਸੈਟਿੰਗਾਂ (Site Settings) 'ਤੇ ਕਲਿੱਕ ਕਰੋ।
(ii) ਕ੍ਰੋਮ ਨੇ ਕੂਕੀਜ਼ ਅਤੇ ਟ੍ਰੈਕਿੰਗ ਨੂੰ ਕਿਵੇਂ ਪ੍ਰਬੰਧਿਤ ਕਰਨਾ ਹੈ, ਇਹ ਨਿਯੰਤਰਣ ਕਰਨ ਲਈ ਕੂਕੀਜ਼ ਐਂਡ ਅਦਰ ਸਾਈਟ ਡੇਟਾ (Cookies and other site data) 'ਤੇ ਕਲਿੱਕ ਕਰੋ।
(iii) ਸੁਰੱਖਿਅਤ ਬ੍ਰਾਊਜ਼ਿੰਗ ਅਤੇ ਰੱਖਿਆ ਪ੍ਰਬੰਧਨ ਲਈ, ਕਲੀਅਰ ਬ੍ਰਾਊਜ਼ਿੰਗ ਡੇਟਾ (Clear browsing data) 'ਤੇ ਕਲਿੱਕ ਕਰੋ।

Ans
✗ 1. (i) ਸਹੀ, (ii) ਗਲਤ, (iii) ਸਹੀ
✓ 2. (i) ਸਹੀ, (ii) ਸਹੀ, (iii) ਗਲਤ
✗ 3. (i) ਸਹੀ, (ii) ਸਹੀ, (iii) ਸਹੀ
✗ 4. (i) ਗਲਤ, (ii) ਸਹੀ, (iii) ਸਹੀ

Question ID : **630680247996**
Option 1 ID : **630680962193**
Option 2 ID : **630680962192**
Option 3 ID : **630680962191**
Option 4 ID : **630680962194**
Status : **Answered**
Chosen Option : **3**

Q.65 _____ ਇੱਕ ਸਾਫਟਵੇਅਰ ਸਿਸਟਮ ਹੈ ਜੋ ਵਰਤੋਂਕਾਰ ਨੂੰ ਵਰਲਡ ਵਾਈਡ ਵੈੱਬ 'ਤੇ ਜਾਣਕਾਰੀ ਦੀ ਖੋਜ ਕਰਨ ਦੀ ਇਜਾਜ਼ਤ ਦਿੰਦਾ ਹੈ।

Ans
✓ 1. ਸਰਚ ਇੰਜਣ
✗ 2. ਡੇਟਾ ਸੈਂਟਰ
✗ 3. ਵੈੱਬ ਸਰਵਰ
✗ 4. ਕੰਪਿਊਟਰ ਨੈੱਟਵਰਕ

Question ID : **630680247994**
Option 1 ID : **630680962185**
Option 2 ID : **630680962184**
Option 3 ID : **630680962183**
Option 4 ID : **630680962186**
Status : **Answered**
Chosen Option : **2**

Q.66 ਇੰਸਟੈਂਟ ਮੈਸੇਜਿੰਗ ਐਪਲੀਕੇਸ਼ਨ ਦੀ ਵਰਤੋਂ ਕਰਨ ਦੀ ਇੱਕ ਹਾਨੀ ਹੇਠ ਦਿੱਤਿਆਂ ਵਿੱਚੋਂ ਕਿਹੜੀ ਹੈ?

Ans
✗ 1. ਇਹ ਈਮੇਲ ਨਾਲੋਂ ਜ਼ਿਆਦਾ ਦਿਖਣਯੋਗ ਹੈ
✓ 2. ਇਹ ਕੰਮ ਵਾਲੀ ਥਾਂ 'ਤੇ ਧਿਆਨ ਭਟਕਾਉਂਦਾ ਹੈ
✗ 3. ਇਹ ਵਰਤਣ ਵਿੱਚ ਆਸਾਨ ਹੈ
✗ 4. ਇਹ ਸਥਾਨ ਦੀ ਪਰਵਾਹ ਕੀਤੇ ਬਿਨਾਂ ਲੋਕਾਂ ਨੂੰ ਜੋੜਦਾ ਹੈ

Question ID : **630680248003**
Option 1 ID : **630680962219**
Option 2 ID : **630680962221**
Option 3 ID : **630680962222**
Option 4 ID : **630680962220**
Status : **Answered**
Chosen Option : **2**

Website - www.dailyjobalert.in

Q.67 ਇੰਟਰਨੈੱਟ OSI ਮਾਡਲ ਵਿੱਚ, OSI ਦਾ ਪੂਰਾ ਨਾਮ ਕੀ ਹੈ?

Ans
✔ 1. ਓਪਨ ਸਿਸਟਮ ਇੰਟਰਕਨੈਕਸ਼ਨ (Open System Interconnection)
✘ 2. ਓਪਨ ਸਰਵਿਸ ਇੰਟਰਨੈਸ਼ਨਲ (Open Service International)
✘ 3. ਓਪਨ ਸਪੇਸ ਇੰਟਰਐਕਸ਼ਨ (Open Space Interaction)
✘ 4. ਓਪਨ ਸਾਫਟਵੇਅਰ ਇੰਟਰਨੈੱਟ (Open Software Internet)

Question ID : **630680247993**
Option 1 ID : **630680962182**
Option 2 ID : **630680962180**
Option 3 ID : **630680962181**
Option 4 ID : **630680962179**
Status : **Answered**
Chosen Option : **1**

Q.68 ਪ੍ਰੋਗਰਾਮ ਦੇ ਡਿਵੈਲਪਮੈਂਟ ਨੂੰ ਸਰਲ ਬਣਾਉਣ ਲਈ ਟੈਕਸਟ ਐਡੀਟਰ, ਬਿਲਡਿੰਗ ਟੂਲ ਅਤੇ ਡੀਬਗਰ ਯੁਕਤ ਸੌਫਟਵੇਅਰ ਨੂੰ _____ ਕਿਹਾ ਜਾਂਦਾ ਹੈ।

Ans
✘ 1. ਇੰਟਰਨਲ ਪ੍ਰੋਗਰਾਮ ਡਿਵੈਲਪਮੈਂਟ
✘ 2. ਇੰਟੀਗ੍ਰੇਟਿਡ ਡਿਵਾਇਸ ਇੰਜਣ
✔ 3. ਇੰਟੀਗ੍ਰੇਟਿਡ ਡਿਵੈਲਪਮੈਂਟ ਇਨਵਾਇਰਨਮੈਂਟ
✘ 4. ਇੰਟਰਨਲ ਪ੍ਰੋਗਰਾਮ ਇਨਵਾਇਰਨਮੈਂਟ

Question ID : **630680247979**
Option 1 ID : **630680962123**
Option 2 ID : **630680962125**
Option 3 ID : **630680962124**
Option 4 ID : **630680962126**
Status : **Answered**
Chosen Option : **1**

Q.69 ਇੱਕ ਇੰਟਰਨੈਟ ਪਲੇਟਫਾਰਮ ਜੋ ਵਰਤੋਂਕਾਰਾਂ ਨੂੰ ਗੱਲਬਾਤ ਕਰਨ, ਜਾਣਕਾਰੀ ਸਾਂਝੀ ਕਰਨ ਅਤੇ ਵੈੱਬ ਸਮੱਗਰੀ ਬਣਾਉਣ ਦੀ ਇਜਾਜ਼ਤ ਦਿੰਦਾ ਹੈ, ਉਸਨੂੰ _____ ਕਿਹਾ ਜਾਂਦਾ ਹੈ।

Ans
✔ 1. ਸੋਸ਼ਲ ਮੀਡੀਆ
✘ 2. ਡੇਟਾ ਸੈਂਟਰ
✘ 3. ਗੂਗਲ ਸਰਚ
✘ 4. ਯੂਜ਼ਰ ਇੰਟਰਫੇਸ

Question ID : **630680247997**
Option 1 ID : **630680962195**
Option 2 ID : **630680962197**
Option 3 ID : **630680962196**
Option 4 ID : **630680962198**
Status : **Answered**
Chosen Option : **1**

Website - www.dailyjobalert.in

Q.70 ਅਸਮਿਟ੍ਰਿਕ ਇਨਕ੍ਰਿਪਸ਼ਨ ਦੋ ਵੱਖ-ਵੱਖ ਕੀਜ਼ ਦੀ ਵਰਤੋਂ ਕਰਦੇ ਹੋਏ ਡੇਟਾ ਨੂੰ ਇਨਕ੍ਰਿਪਟ ਅਤੇ ਡੀਕ੍ਰਿਪਟ ਕਰਦਾ ਹੈ। ਇਹ ਦੋ ਕੀਜ਼ _____ ਵਜੋਂ ਜਾਣੀਆਂ ਜਾਂਦੀਆਂ ਹਨ।

Ans
✔ 1. ਪਬਲਿਕ ਕੀਅ ਅਤੇ ਪ੍ਰਾਈਵੇਟ ਕੀਅ (public key and private key)
✘ 2. ਪ੍ਰਾਈਵੇਟ ਕੀਅ ਅਤੇ ਪਰਸਨਲ ਕੀਅ (private key and personal key)
✘ 3. ਯੂਜ਼ਰ ਕੀਅ ਅਤੇ ਐਡਮਿਨ ਕੀਅ (user key and admin key)
✘ 4. ਸਿੰਗਲ ਕੀਅ ਅਤੇ ਡਬਲ ਕੀਅ (single key and double key)

Question ID : **630680248004**
Option 1 ID : **630680962223**
Option 2 ID : **630680962225**
Option 3 ID : **630680962226**
Option 4 ID : **630680962224**
Status : **Answered**
Chosen Option : **1**

Q.71 ਹੇਠ ਦਿੱਤਿਆਂ ਵਿੱਚੋਂ _____ਨੂੰ ਛੱਡ ਕੇ ਬਾਕੀ ਸਾਰੇ ਕੰਪਿਊਟਰ ਨੂੰ ਬਣਾਉਣ ਵਾਲੇ ਭੌਤਿਕ ਭਾਗ ਹਨ।

Ans
✘ 1. ਸੈਂਟਰਲ ਪ੍ਰੋਸੈਸਿੰਗ ਯੂਨਿਟ
✔ 2. ਸੌਫਟਵੇਅਰ
✘ 3. ਵਿਜ਼ੂਅਲ ਡਿਸਪਲੇ ਯੂਨਿਟ
✘ 4. ਸਟੋਰੇਜ਼ ਡਿਵਾਇਸ

Question ID : **630680247978**
Option 1 ID : **630680962119**
Option 2 ID : **630680962122**
Option 3 ID : **630680962120**
Option 4 ID : **630680962121**
Status : **Answered**
Chosen Option : **2**

Q.72 ਇਹ ਦੱਸੋ ਕਿ ਹੇਠ ਦਿੱਤਿਆਂ ਵਿੱਚੋਂ ਕਿਹੜਾ ਕਥਨ ਸਹੀ ਜਾਂ ਗਲਤ ਹੈ?

VoIP ਲਈ ਇੱਕ ਹਾਈ-ਸਪੀਡ ਇੰਟਰਨੈਟ ਕਨੈਕਸ਼ਨ ਦੀ ਲੋੜ ਹੁੰਦੀ ਹੈ। ਇਹ _____ ਦੁਆਰਾ ਪ੍ਰਦਾਨ ਕੀਤੀ ਜਾ ਸਕਦੀ ਹੈ।

(i) ਕੇਬਲ ਮੋਡਮ
(ii) ਹਾਈ-ਸਪੀਡ ਸੇਵਾਵਾਂ ਜਿਵੇਂ ਕਿ DSL
(iii)ਲੋਕਲ ਏਰੀਆ ਨੈੱਟਵਰਕ

Ans
✘ 1. (i) ਸਹੀ, (ii) ਗਲਤ, (iii) ਸਹੀ
✔ 2. (i) ਸਹੀ, (ii) ਸਹੀ, (iii) ਸਹੀ
✘ 3. (i) ਗਲਤ, (ii) ਸਹੀ, (iii) ਸਹੀ
✘ 4. (i) ਸਹੀ, (ii) ਸਹੀ, (iii) ਗਲਤ

Question ID : **630680248001**
Option 1 ID : **630680962213**
Option 2 ID : **630680962211**
Option 3 ID : **630680962214**
Option 4 ID : **630680962212**
Status : **Answered**
Chosen Option : **3**

DAILY JOB Alert ਪੰਜਾਬ

Q.73 ਵਰਤੋਂਕਾਰਾਂ ਨੂੰ ਇੱਕ ਸਮੇਂ ਵਿੱਚ ਇੱਕ ਤੋਂ ਵੱਧ ਕਾਰਜ, ਜਾਂ ਐਪਲੀਕੇਸ਼ਨ ਪ੍ਰੋਗਰਾਮ ਨੂੰ ਸ਼ੁਰੂ ਕਰਨ ਜਾਂ ਚਲਾਉਣ ਦੀ ਇਜਾਜ਼ਤ ਦੇਣ ਲਈ ਕਿਸੇ ਕੰਪਿਊਟਰ ਸਿਸਟਮ ਦੀ ਸਮਰੱਥਾ ਨੂੰ _____ਕਿਹਾ ਜਾਂਦਾ ਹੈ।

Ans
✗ 1. ਓਵਰਲੋਡਿੰਗ
✗ 2. ਰੀਡਿੰਗ
✗ 3. ਸਕੈਨਿੰਗ
✓ 4. ਮਲਟੀਟਾਸਕਿੰਗ

Question ID : **630680247981**
Option 1 ID : **630680962131**
Option 2 ID : **630680962132**
Option 3 ID : **630680962134**
Option 4 ID : **630680962133**
Status : **Answered**
Chosen Option : **4**

Q.74 MS Excel 2010 ਸਟੇਟਸ ਬਾਰ ਵਿੱਚ ਹੇਠ ਦਿੱਤਿਆਂ ਵਿੱਚੋਂ _____ਨੂੰ ਛੱਡ ਕੇ ਬਾਕੀ ਸਾਰੇ ਸੈੱਲ ਮੋਡ ਸਟੇਟਸ ਦਿਖਾਈ ਦਿੰਦੇ ਹਨ।

Ans
✓ 1. ਸਟਾਰਟ (Start)
✗ 2. ਰੇਡੀ (Ready)
✗ 3. ਐਡਿਟ (Edit)
✗ 4. ਇੰਟਰ (Enter)

Question ID : **630680247988**
Option 1 ID : **630680962159**
Option 2 ID : **630680962160**
Option 3 ID : **630680962161**
Option 4 ID : **630680962162**
Status : **Answered**
Chosen Option : **2**

Q.75 ਹੇਠ ਲਿਖੀਆਂ ਵਿੱਚੋਂ ਕਿਹੜਾ ਕਿਸੇ ਸੰਗਠਨ ਵਿੱਚ ਡੇਟਾ ਇਨਕ੍ਰਿਪਸ਼ਨ ਦਾ ਲਾਭ ਨਹੀਂ ਹੈ?

Ans
✗ 1. ਇਹ ਡੇਟਾ ਗੋਪਨੀਯਤਾ ਪ੍ਰਦਾਨ ਕਰਦਾ ਹੈ
✓ 2. ਇਹ ਅਟੈਕਰਾਂ ਨੂੰ ਡੇਟਾ ਸੋਧਣ ਦੀ ਆਗਿਆ ਦਿੰਦਾ ਹੈ
✗ 3. ਇਹ ਡੇਟਾ ਦੀ ਅਖੰਡਤਾ ਨੂੰ ਯਕੀਨੀ ਬਣਾਉਂਦਾ ਹੈ
✗ 4. ਇਹ ਡੇਟਾ ਤੱਕ ਅਣਅਧਿਕਾਰਤ ਪਹੁੰਚ ਨੂੰ ਰੋਕਦਾ ਹੈ

Question ID : **630680248005**
Option 1 ID : **630680962227**
Option 2 ID : **630680962230**
Option 3 ID : **630680962229**
Option 4 ID : **630680962228**
Status : **Answered**
Chosen Option : **1**

DAILY JOB ALERT ਪੰਜਾਬ

Q.76 ਕਿਸ ਕਿਸਮ ਦੀ ਕੰਪਿਊਟਰ ਸਟੋਰੇਜ ਵਿੱਚ ਡੇਟਾ ਅਤੇ ਪ੍ਰੋਗਰਾਮਾਂ ਨੂੰ ਸਥਾਈ ਤੌਰ 'ਤੇ ਫਾਈਲਾਂ ਦੇ ਰੂਪ ਵਿੱਚ ਸਟੋਰ ਕੀਤਾ ਜਾਂਦਾ ਹੈ?

Ans
- ✗ 1. ਕੈਸ਼ੇ ਸਟੋਰੇਜ
- ✓ 2. ਸੈਕੰਡਰੀ ਸਟੋਰੇਜ
- ✗ 3. ਪ੍ਰਾਇਮਰੀ ਸਟੋਰੇਜ
- ✗ 4. ਯੂਨੀਕ ਸਟੋਰੇਜ਼

Question ID : **630680247982**
Option 1 ID : **630680962136**
Option 2 ID : **630680962138**
Option 3 ID : **630680962135**
Option 4 ID : **630680962137**
Status : **Answered**
Chosen Option : **3**

Q.77 Microsoft PowerPoint 2010 ਵਿੱਚ, ਯੂਜ਼ ਪ੍ਰੈਜ਼ੈਂਟਰ ਵਿਊ ਮੋਡ ਵਿੱਚ, ਹੇਠ ਦਿੱਤਿਆਂ ਵਿੱਚੋਂ ਕਿਹੜਾ ਵਿਕਲਪ ਪ੍ਰਦਾਨ ਨਹੀਂ ਕੀਤਾ ਗਿਆ ਹੈ?

Ans
- ✓ 1. ਲਿਸਨਰ ਨੋਟਸ (Listener notes)
- ✗ 2. ਕਰੰਟ ਸਲਾਈਡ (Current slide)
- ✗ 3. ਨੈਕਸਟ ਸਲਾਈਡ (Next slide)
- ✗ 4. ਸਪੀਕਰ ਨੋਟਸ (Speaker notes)

Question ID : **630680247991**
Option 1 ID : **630680962174**
Option 2 ID : **630680962171**
Option 3 ID : **630680962172**
Option 4 ID : **630680962173**
Status : **Answered**
Chosen Option : **4**

Q.78 ਸਾਈਬਰ ਸੁਰੱਖਿਆ ਕਾਰਜਪ੍ਰਣਾਲੀ ਵਿੱਚ ਜਾਣਕਾਰੀ ਦੇ ਜੋਖਮਾਂ ਦੇ ਸੰਬੰਧ ਵਿੱਚ ਹੇਠ ਦਿੱਤਿਆਂ ਵਿੱਚੋਂ ਕੀ ਸ਼ਾਮਿਲ ਨਹੀਂ ਹੁੰਦਾ ਹੈ।

Ans
- ✗ 1. ਰੁਕਾਵਟ (interception)
- ✗ 2. ਡੇਟਾ ਦਾ ਨੁਕਸਾਨ (data destruction)
- ✓ 3. ਅਧਿਕਾਰਤ ਖੁਲਾਸਾ (authorised disclosure)
- ✗ 4. ਅਣਅਧਿਕਾਰਤ ਪਹੁੰਚ (unauthorised access)

Question ID : **630680248006**
Option 1 ID : **630680962233**
Option 2 ID : **630680962234**
Option 3 ID : **630680962232**
Option 4 ID : **630680962231**
Status : **Answered**
Chosen Option : **2**

Website - www.dailyjobalert.in

Q.79 ਇੰਟਰਨੈੱਟ ਬ੍ਰਾਊਜ਼ਰਾਂ ਅਤੇ ਉਹਨਾਂ ਦੇ ਪ੍ਰਦਾਤਾਵਾਂ ਦੇ ਸੰਬੰਧ ਵਿੱਚ ਇਹ ਪਤਾ ਕਰੋ ਕਿ ਹੇਠ ਦਿੱਤਿਆਂ ਵਿੱਚੋਂ ਕਿਹੜਾ ਕਥਨ ਸਹੀ ਜਾਂ ਗਲਤ ਹੈ।

(i) ਡਿਫ਼ਾਲਟ ਵਜੋਂ (By default), ਮਾਈਕ੍ਰੋਸੌਫਟ ਐੱਜ ਵਿੰਡੋਜ਼ 10 ਦੇ ਨਾਲ ਆਉਂਦਾ ਹੈ।
(ii) ਮੋਜ਼ੀਲਾ ਫਾਇਰਫਾਕਸ ਐਮਾਜ਼ਾਨ ਵੈੱਬ ਸਰਵਿਸਸ ਦੁਆਰਾ ਪ੍ਰਦਾਨ ਕੀਤੀ ਜਾਂਦੀ ਹੈ।

Ans
✗ 1. (i) ਗਲਤ, (ii) ਗਲਤ
✓ 2. (i) ਸਹੀ, (ii) ਗਲਤ
✗ 3. (i) ਗਲਤ, (ii) ਸਹੀ
✗ 4. (i) ਸਹੀ, (ii) ਸਹੀ

Question ID : **630680247995**
Option 1 ID : **630680962189**
Option 2 ID : **630680962188**
Option 3 ID : **630680962190**
Option 4 ID : **630680962187**
Status : **Answered**
Chosen Option : **1**

Q.80 ਇੰਟਰਨਲ ਮੈਮਰੀ ਅਤੇ ਪ੍ਰੋਸੈਸਿੰਗ ਚਿਪਸ ਦੇ ਨਾਲ, ਇੱਕ ਸਿੰਗਲ ਮਸ਼ੀਨ ਦੇ ਰੂਪ ਵਿੱਚ ਕੰਪਿਊਟਰ _____ ਦੇ ਵੀ ਬਣੇ ਹੁੰਦੇ ਹਨ।

Ans
✗ 1. ਕੰਪਿਊਟਰ ਨੈੱਟਵਰਕ
✗ 2. ਸਰਵਰ
✓ 3. I/O ਡਿਵਾਇਸਾਂ ਅਤੇ ਪੈਰੀਫਿਰਲ
✗ 4. ਡੇਟਾ ਸੈਂਟਰ

Question ID : **630680247977**
Option 1 ID : **630680962118**
Option 2 ID : **630680962117**
Option 3 ID : **630680962115**
Option 4 ID : **630680962116**
Status : **Answered**
Chosen Option : **3**

Section : **English Language**

Q.81 In the given sentence, four words have been underlined and the underlined words are given as options. Select the option that contains an error.
Upon hearing the lightning, Ramappa ran into take shelter under a tree, not knowing he was better off out in the open.

Ans
✗ 1. under
✗ 2. out
✗ 3. Upon
✓ 4. into

Question ID : **63068054072**
Option 1 ID : **630680208343**
Option 2 ID : **630680208345**
Option 3 ID : **630680208342**
Option 4 ID : **630680208344**
Status : **Answered**
Chosen Option : **2**

Website - www.dailyjobalert.in

Q.82 Select the most appropriate ANTONYM of the given word to fill in the blank.
Exiguous
My mother planted a _____ lemon tree in the garden.

Ans
✗ 1. miniature

✓ 2. large

✗ 3. tiny

✗ 4. beautiful

Question ID : **630680157356**
Option 1 ID : **630680608956**
Option 2 ID : **630680608957**
Option 3 ID : **630680608958**
Option 4 ID : **630680608959**
Status : **Answered**
Chosen Option : **4**

Q.83 Identity the spelling error in the given sentence.

He has been repeatedly informed to carry necessary and relevant documents.

Ans
✗ 1. necessary

✗ 2. repeatedly

✓ 3. relevent

✗ 4. informed

Question ID : **63068087420**
Option 1 ID : **630680339066**
Option 2 ID : **630680339065**
Option 3 ID : **630680339067**
Option 4 ID : **630680339068**
Status : **Answered**
Chosen Option : **1**

Q.84 Select the option that correctly rearranges the given set of disarranged fragments into a logical and meaningful sentence.
unfold / we have not / the century is / just starting / the full range / demographic and political / and seen / of expected environmental, challenges

Ans
✗ 1. The century have not seen the full range of expected is just starting environmental, demographic and political challenges and we unfold.

✓ 2. The century is just starting and we have not seen the full range of expected environmental, demographic and political challenges unfold.

✗ 3. We have not seen the century is just starting unfold and the full range of expected environmental, demographic and political challenges.

✗ 4. We have not seen the full range of expected environmental, demographic and political challenges the century is just starting and unfold.

Question ID : **630680113796**
Option 1 ID : **630680440712**
Option 2 ID : **630680440711**
Option 3 ID : **630680440710**
Option 4 ID : **630680440713**
Status : **Answered**
Chosen Option : **3**

Website - www.dailyjobalert.in

Q.85 Select the most appropriate option to fill in the blank.

Radha asked Ramita, "Can you _____ me a favour?"

Ans
✗ 1. give
✗ 2. bring
✓ 3. do
✗ 4. let

Question ID : **630680124895**
Option 1 ID : **630680484388**
Option 2 ID : **630680484387**
Option 3 ID : **630680484389**
Option 4 ID : **630680484386**
Status : **Answered**
Chosen Option : **2**

Q.86 Select the most appropriate ANTONYM of the underlined word.

"He is weeping for a red rose," said the Nightingale. "For a red rose?" they cried; "how very <u>ridiculous</u>!" and the little Lizard, who was something of a cynic, laughed outright.

Ans
✓ 1. Reasonable
✗ 2. Kind
✗ 3. Hilarious
✗ 4. Emotional

Question ID : **630680131056**
Option 1 ID : **630680507502**
Option 2 ID : **630680507503**
Option 3 ID : **630680507505**
Option 4 ID : **630680507504**
Status : **Answered**
Chosen Option : **3**

Q.87 "ਲੋਕ ਰਾਏ ਮੇਰੇ ਹੱਕ ਵਿਚ ਹੈ।" ਇਸ ਵਾਕ ਦਾ ਅੰਗਰੇਜ਼ੀ ਅਨੁਵਾਦ ਹੈ:-

Ans
✗ 1. People's chair is in my favour.
✗ 2. People's vote is in my favor,
✗ 3. Public's opinion is in my side.
✓ 4. Public opinion is in my favor.

Question ID : **630680248106**
Option 1 ID : **630680962633**
Option 2 ID : **630680962631**
Option 3 ID : **630680962632**
Option 4 ID : **630680962634**
Status : **Answered**
Chosen Option : **4**

Website - www.dailyjobalert.in

Q.88 Select the most appropriate ANTONYM of the given word.
Adroit

Ans
✗ 1. Proficient

✓ 2. Inept

✗ 3. Stubborn

✗ 4. Alien

Question ID : **630680167664**
Option 1 ID : **630680649286**
Option 2 ID : **630680649284**
Option 3 ID : **630680649285**
Option 4 ID : **630680649287**
Status : **Answered**
Chosen Option : **3**

Q.89 Select the option that can be used as a one-word substitute for the given group of words.

A person who lives in solitude

Ans
✗ 1. Sociable

✓ 2. Recluse

✗ 3. Refugee

✗ 4. Migrant

Question ID : **630680129651**
Option 1 ID : **630680502211**
Option 2 ID : **630680502210**
Option 3 ID : **630680502212**
Option 4 ID : **630680502213**
Status : **Answered**
Chosen Option : **3**

Q.90 Select the most appropriate adjective to fill in the blank.
I have visited Jodhpur _____.

Ans
✓ 1. many times

✗ 2. a many times

✗ 3. many a times

✗ 4. a lot many times

Question ID : **630680144499**
Option 1 ID : **630680559063**
Option 2 ID : **630680559064**
Option 3 ID : **630680559062**
Option 4 ID : **630680559065**
Status : **Answered**
Chosen Option : **1**

Website - www.dailyjobalert.in

Q.91 **Select the option that can be used as a one-word substitute for the given group of words.**

Government by the representatives of the people.

Ans
✗ 1. Monarchy

✓ 2. Democracy

✗ 3. Dictatorship

✗ 4. Despotism

Question ID : **630680129692**
Option 1 ID : **630680502376**
Option 2 ID : **630680502377**
Option 3 ID : **630680502374**
Option 4 ID : **630680502375**
Status : **Answered**
Chosen Option : **2**

Q.92 **Select the most appropriate ANTONYM of the capitalised word in the given sentence.**
Man is full of FOLLY.

Ans
✗ 1. Attract

✗ 2. Secure

✓ 3. Wisdom

✗ 4. Simple

Question ID : **630680118350**
Option 1 ID : **630680458537**
Option 2 ID : **630680458535**
Option 3 ID : **630680458536**
Option 4 ID : **630680458534**
Status : **Answered**
Chosen Option : **1**

Q.93 **Parts of a paragraph are given below in jumbled order. Arrange the parts in the correct order to form a meaningful and coherent paragraph.**

A.And more is obtained from life in the humble cottage
B. As a rule there is more genuine satisfaction in life
C. Who is attended to by servants and attendants
D. Of the poor man than in the palace of the rich man

Ans
✗ 1. CABD

✗ 2. CDAB

✓ 3. BADC

✗ 4. BACD

Question ID : **630680115759**
Option 1 ID : **630680448376**
Option 2 ID : **630680448377**
Option 3 ID : **630680448375**
Option 4 ID : **630680448374**
Status : **Answered**
Chosen Option : **2**

Website - www.dailyjobalert.in

Q.94 **The given sentence is divided into four segments. Select the option that has the segment with a grammatical error.**
My father's letter, / which he posts / last month, / reached me late.

Ans
✔ 1. which he posts

✘ 2. reached me late.

✘ 3. last month,

✘ 4. my father's letter,

Question ID : **630680162122**
Option 1 ID : **630680627797**
Option 2 ID : **630680627799**
Option 3 ID : **630680627798**
Option 4 ID : **630680627796**
Status : **Answered**
Chosen Option : **2**

Q.95 **Select the most appropriate article to fill in the blank.**

German is _____ easy language to learn.

Ans
✔ 1. an

✘ 2. No article required

✘ 3. the

✘ 4. a

Question ID : **63068067350**
Option 1 ID : **630680260222**
Option 2 ID : **630680260225**
Option 3 ID : **630680260224**
Option 4 ID : **630680260223**
Status : **Answered**
Chosen Option : **3**

Website - www.dailyjobalert.in

Comprehension:

Read the given passage and answer the questions that follow.
Malnutrition among under-five children is a major public health problem in India. This is reflected by the fact that the prevalence of under-weight children in India is among the highest in the world and is nearly double that of Sub-Saharan Africa. It is also observed that the malnutrition problem in India is a concentrated phenomenon, that is, a relatively small number of states, districts and villages account for a large share of the malnutrition burden—only 5 states and 50% of villages account for about 80% of the malnutrition burden. Each year, approximately 2.3 million deaths among children aged 6-60 months in developing countries are associated with malnutrition, which is about 41% of the total deaths in this age group. A recent study, among children aged between 3 months and 3 years of age conducted in 130 districts through Demographic and Health Surveys in 53 countries over a period from 1986 to 2006 found that variance in mild under-weight has a larger and more robust correlation with child mortality than the variance in severe under-weight. The study concluded that the prevalence of mild under-weight deserves greater attention as a useful signal of changing public health conditions among preschool children in developing countries. Therefore, it is important for the health system to detect malnutrition at an early stage for planning and implementing timely interventions at the community level. The need of the hour is to examine the burden of under-nutrition and obesity, study its determining factors and assess the effectiveness of the various approaches to combat malnutrition among under-five children.

SubQuestion No : 96

Q.96 Which of the following best states the central idea of the passage?

Ans

✗ 1. Health system

✗ 2. Health survey in India

✗ 3. Global public health

✓ 4. Malnutrition

Question ID : **630680184911**
Option 1 ID : **630680716596**
Option 2 ID : **630680716593**
Option 3 ID : **630680716595**
Option 4 ID : **630680716594**
Status : **Answered**
Chosen Option : **2**

DAILY JOB Alert ਪੰਜਾਬ

Comprehension:

Read the given passage and answer the questions that follow.
Malnutrition among under-five children is a major public health problem in India. This is reflected by the fact that the prevalence of under-weight children in India is among the highest in the world and is nearly double that of Sub-Saharan Africa. It is also observed that the malnutrition problem in India is a concentrated phenomenon, that is, a relatively small number of states, districts and villages account for a large share of the malnutrition burden—only 5 states and 50% of villages account for about 80% of the malnutrition burden. Each year, approximately 2.3 million deaths among children aged 6-60 months in developing countries are associated with malnutrition, which is about 41% of the total deaths in this age group. A recent study, among children aged between 3 months and 3 years of age conducted in 130 districts through Demographic and Health Surveys in 53 countries over a period from 1986 to 2006 found that variance in mild under-weight has a larger and more robust correlation with child mortality than the variance in severe under-weight. The study concluded that the prevalence of mild under-weight deserves greater attention as a useful signal of changing public health conditions among preschool children in developing countries. Therefore, it is important for the health system to detect malnutrition at an early stage for planning and implementing timely interventions at the community level. The need of the hour is to examine the burden of under-nutrition and obesity, study its determining factors and assess the effectiveness of the various approaches to combat malnutrition among under-five children.

SubQuestion No : 97

Q.97 What is the ANTONYM of the word 'prevalence' in the passage?

Ans

✗ 1. Number

✗ 2. Problem

✗ 3. Importance

✓ 4. Rarity

Question ID : **630680184913**
Option 1 ID : **630680716602**
Option 2 ID : **630680716604**
Option 3 ID : **630680716603**
Option 4 ID : **630680716601**
Status : **Answered**
Chosen Option : **2**

DAILY JOB Alert ਪੰਜਾਬ

Comprehension:

Read the given passage and answer the questions that follow.
Malnutrition among under-five children is a major public health problem in India. This is reflected by the fact that the prevalence of under-weight children in India is among the highest in the world and is nearly double that of Sub-Saharan Africa. It is also observed that the malnutrition problem in India is a concentrated phenomenon, that is, a relatively small number of states, districts and villages account for a large share of the malnutrition burden—only 5 states and 50% of villages account for about 80% of the malnutrition burden. Each year, approximately 2.3 million deaths among children aged 6-60 months in developing countries are associated with malnutrition, which is about 41% of the total deaths in this age group. A recent study, among children aged between 3 months and 3 years of age conducted in 130 districts through Demographic and Health Surveys in 53 countries over a period from 1986 to 2006 found that variance in mild under-weight has a larger and more robust correlation with child mortality than the variance in severe under-weight. The study concluded that the prevalence of mild under-weight deserves greater attention as a useful signal of changing public health conditions among preschool children in developing countries. Therefore, it is important for the health system to detect malnutrition at an early stage for planning and implementing timely interventions at the community level. The need of the hour is to examine the burden of under-nutrition and obesity, study its determining factors and assess the effectiveness of the various approaches to combat malnutrition among under-five children.

SubQuestion No : 98

Q.98 What is the ANTONYM of the word 'robust' in the passage?

Ans
✔ 1. Weak
✘ 2. Deeper
✘ 3. Wider
✘ 4. Good

Question ID : **630680184915**
Option 1 ID : **630680716610**
Option 2 ID : **630680716612**
Option 3 ID : **630680716611**
Option 4 ID : **630680716609**
Status : **Answered**
Chosen Option : **1**

DAILY JOB Alert ਪੰਜਾਬ

Comprehension:

Read the given passage and answer the questions that follow.
Malnutrition among under-five children is a major public health problem in India. This is reflected by the fact that the prevalence of under-weight children in India is among the highest in the world and is nearly double that of Sub-Saharan Africa. It is also observed that the malnutrition problem in India is a concentrated phenomenon, that is, a relatively small number of states, districts and villages account for a large share of the malnutrition burden—only 5 states and 50% of villages account for about 80% of the malnutrition burden. Each year, approximately 2.3 million deaths among children aged 6-60 months in developing countries are associated with malnutrition, which is about 41% of the total deaths in this age group. A recent study, among children aged between 3 months and 3 years of age conducted in 130 districts through Demographic and Health Surveys in 53 countries over a period from 1986 to 2006 found that variance in mild under-weight has a larger and more robust correlation with child mortality than the variance in severe under-weight. The study concluded that the prevalence of mild under-weight deserves greater attention as a useful signal of changing public health conditions among preschool children in developing countries. Therefore, it is important for the health system to detect malnutrition at an early stage for planning and implementing timely interventions at the community level. The need of the hour is to examine the burden of under-nutrition and obesity, study its determining factors and assess the effectiveness of the various approaches to combat malnutrition among under-five children.

SubQuestion No : 99

Q.99 Which of the following best describes the tone of the passage?

Ans

✗ 1. Laudatory

✗ 2. Biased

✓ 3. Humanistic

✗ 4. Introspective

Question ID : **630680184914**
Option 1 ID : **630680716608**
Option 2 ID : **630680716605**
Option 3 ID : **630680716606**
Option 4 ID : **630680716607**
Status : **Answered**
Chosen Option : **1**

DAILY JOB Alert ਪੰਜਾਬ

Comprehension:

Read the given passage and answer the questions that follow.
Malnutrition among under-five children is a major public health problem in India. This is reflected by the fact that the prevalence of under-weight children in India is among the highest in the world and is nearly double that of Sub-Saharan Africa. It is also observed that the malnutrition problem in India is a concentrated phenomenon, that is, a relatively small number of states, districts and villages account for a large share of the malnutrition burden—only 5 states and 50% of villages account for about 80% of the malnutrition burden. Each year, approximately 2.3 million deaths among children aged 6-60 months in developing countries are associated with malnutrition, which is about 41% of the total deaths in this age group. A recent study, among children aged between 3 months and 3 years of age conducted in 130 districts through Demographic and Health Surveys in 53 countries over a period from 1986 to 2006 found that variance in mild under-weight has a larger and more robust correlation with child mortality than the variance in severe under-weight. The study concluded that the prevalence of mild under-weight deserves greater attention as a useful signal of changing public health conditions among preschool children in developing countries. Therefore, it is important for the health system to detect malnutrition at an early stage for planning and implementing timely interventions at the community level. The need of the hour is to examine the burden of under-nutrition and obesity, study its determining factors and assess the effectiveness of the various approaches to combat malnutrition among under-five children.

SubQuestion No : 100

Q.100 Which of the following represents the structure of the passage?

Ans
✗ 1. Compare and contrast
✓ 2. Problem and solution
✗ 3. Spatial
✗ 4. Proposition

Question ID : **630680184912**
Option 1 ID : **630680716597**
Option 2 ID : **630680716600**
Option 3 ID : **630680716598**
Option 4 ID : **630680716599**
Status : **Answered**
Chosen Option : **2**

Section : **Qualifying Test of Punjabi Language**

Q.1 ਵਿੱਥ ਦਾ ਸਮਾਨਾਰਥਕ ਸ਼ਬਦ ਹੈ:

Ans
✓ 1. ਭੇਦ
✗ 2. ਲੋਚਨ
✗ 3. ਸੰਗਮ
✗ 4. ਸੰਝ

Question ID : **630680248611**
Option 1 ID : **630680964589**
Option 2 ID : **630680964588**
Option 3 ID : **630680964590**
Option 4 ID : **630680964587**
Status : **Answered**
Chosen Option : **1**

Website - www.dailyjobalert.in

Q.2 ਸੰਪੂਰਨ ਸ਼ਬਦ ਵਿਚ ਅਗੇਤਰ ਹੈ:

Ans
- ✗ 1. ਸੰਪੂ
- ✗ 2. ਸਮਪੂ
- ✗ 3. ਸਮ
- ✓ 4. ਸੰ

Question ID : **630680248633**
Option 1 ID : **630680964678**
Option 2 ID : **630680964677**
Option 3 ID : **630680964675**
Option 4 ID : **630680964676**
Status : **Answered**
Chosen Option : **4**

Q.3 ਅਖਾਣ ਵਿਚਲੀ ਖ਼ਾਲੀ ਥਾਂ ਭਰੋ: ਕੰਧਾਂ ਦੇ ਵੀ _____ ਹੁੰਦੇ ਹਨ

Ans
- ✓ 1. ਕੰਨ
- ✗ 2. ਅੱਖਾਂ
- ✗ 3. ਹੱਥ
- ✗ 4. ਭਾਵ

Question ID : **630680248643**
Option 1 ID : **630680964718**
Option 2 ID : **630680964717**
Option 3 ID : **630680964716**
Option 4 ID : **630680964715**
Status : **Answered**
Chosen Option : **1**

Q.4 ਨੇਤਰਹੀਣ ਸ਼ਬਦ ਵਿਚ ਪਿਛੇਤਰ ਹੈ:

Ans
- ✗ 1. ਰਈਣ
- ✗ 2. ਣ
- ✓ 3. ਹੀਣ
- ✗ 4. ਰਹੀਣ

Question ID : **630680248637**
Option 1 ID : **630680964692**
Option 2 ID : **630680964693**
Option 3 ID : **630680964694**
Option 4 ID : **630680964691**
Status : **Answered**
Chosen Option : **3**

Q.5 ਕਪੁੱਤਰ ਦਾ ਵਿਰੋਧੀ ਸ਼ਬਦ ਹੈ:

Ans
- ✓ 1. ਸਪੁੱਤਰ
- ✗ 2. ਧੀਰਾਣੀ
- ✗ 3. ਪੁੱਤ
- ✗ 4. ਤ੍ਰੀਮਤ

Question ID : **630680248616**
Option 1 ID : **630680964607**
Option 2 ID : **630680964609**
Option 3 ID : **630680964608**
Option 4 ID : **630680964610**
Status : **Answered**
Chosen Option : **1**

DAILY JOB Alert ਪੰਜਾਬ
Website - www.dailyjobalert.in

Q.6 ਜੂੰ ਦਾ ਬਹੁਵਚਨ ਹੈ:

Ans
- ✗ 1. ਜੂੰਓ
- ✗ 2. ਜੂੰਏ
- ✗ 3. ਜੂੰਣਾ
- ✓ 4. ਜੂੰਆਂ

Question ID : **630680248623**
Option 1 ID : **630680964636**
Option 2 ID : **630680964638**
Option 3 ID : **630680964635**
Option 4 ID : **630680964637**
Status : **Answered**
Chosen Option : **4**

Q.7 Cashier ਸ਼ਬਦ ਦਾ ਪੰਜਾਬੀ ਅਨੁਵਾਦ ਕੀ ਹੈ?

Ans
- ✗ 1. ਬਚਤ
- ✗ 2. ਬਕਾਇਆ
- ✗ 3. ਨਕਦ
- ✓ 4. ਖ਼ਜ਼ਾਨਚੀ

Question ID : **630680248651**
Option 1 ID : **630680964749**
Option 2 ID : **630680964750**
Option 3 ID : **630680964748**
Option 4 ID : **630680964747**
Status : **Answered**
Chosen Option : **4**

Q.8 ਦੁਹੱਥੜ ਸ਼ਬਦ ਵਿਚ ਅਗੇਤਰ ਹੈ:

Ans
- ✓ 1. ਦੁ
- ✗ 2. ਦੁਹੱਥ
- ✗ 3. ਦੁਹੱ
- ✗ 4. ੜ

Question ID : **630680248632**
Option 1 ID : **630680964671**
Option 2 ID : **630680964673**
Option 3 ID : **630680964672**
Option 4 ID : **630680964674**
Status : **Answered**
Chosen Option : **1**

Q.9 Scholar ਸ਼ਬਦ ਦਾ ਪੰਜਾਬੀ ਅਨੁਵਾਦ ਕੀ ਹੈ?

Ans
- ✓ 1. ਵਿਦਵਾਨ
- ✗ 2. ਮਾਹਰ
- ✗ 3. ਮੂਰਖ
- ✗ 4. ਚਲਾਕ

Question ID : **630680248652**
Option 1 ID : **630680964754**
Option 2 ID : **630680964753**
Option 3 ID : **630680964751**
Option 4 ID : **630680964752**
Status : **Answered**
Chosen Option : **1**

Website - www.dailyjobalert.in

Q.10 ਬੇਓੜਕ ਸ਼ਬਦ ਵਿਚ ਅਗੇਤਰ ਹੈ:

Ans
- ✗ 1. ਬੇਓ
- ✗ 2. ਬੇਓੜ
- ✗ 3. ਬਏ
- ✓ 4. ਬੇ

Question ID : **630680248630**
Option 1 ID : **630680964665**
Option 2 ID : **630680964666**
Option 3 ID : **630680964663**
Option 4 ID : **630680964664**
Status : **Answered**
Chosen Option : **4**

Q.11 ਹੇਠ ਲਿਖਿਆਂ ਵਿੱਚੋਂ ਕਿਸ ਵਾਕ ਵਿਚ ਵਿਸਰਾਮ ਚਿੰਨ੍ਹਾਂ ਦੀ ਠੀਕ ਵਰਤੋਂ ਹੋਈ ਹੈ?

Ans
- ✗ 1. ਚੰਗੇ! ਇਨਸਾਨ ਕਦੇ, ਮੱਥੇ 'ਤੇ ਵੱਟ ਨਹੀਂ ਪਾਉਂਦੇ:-
- ✓ 2. ਚੰਗੇ ਇਨਸਾਨ ਕਦੇ ਮੱਥੇ 'ਤੇ ਵੱਟ ਨਹੀਂ ਪਾਉਂਦੇ।
- ✗ 3. ਚੰਗੇ ਇਨਸਾਨ! ਕਦੇ ਮੱਥੇ ਤੇ ਵੱਟ ਨਹੀਂ ਪਾਉਂਦੇ?
- ✗ 4. ਚੰਗੇ ਇਨਸਾਨ? ਕਦੇ ਮੱਥੇ ਤੇ ਵੱਟ ਨਹੀਂ ਪਾਉਂਦੇ!

Question ID : **630680248649**
Option 1 ID : **630680964742**
Option 2 ID : **630680964739**
Option 3 ID : **630680964740**
Option 4 ID : **630680964741**
Status : **Answered**
Chosen Option : **2**

Q.12 ਸੁਹਾਗਣ ਦਾ ਵਿਰੋਧੀ ਸ਼ਬਦ ਹੈ:

Ans
- ✗ 1. ਲਾੜਾ
- ✗ 2. ਸੁਹਾਗਾ
- ✓ 3. ਵਿਧਵਾ
- ✗ 4. ਸੁਹਾਗ

Question ID : **630680248614**
Option 1 ID : **630680964602**
Option 2 ID : **630680964601**
Option 3 ID : **630680964599**
Option 4 ID : **630680964600**
Status : **Answered**
Chosen Option : **3**

Q.13 ਇੱਲ ਦਾ ਬਹੁਵਚਨ ਹੈ:

Ans
- ✗ 1. ਇੱਲਵਾਂ
- ✓ 2. ਇੱਲਾਂ
- ✗ 3. ਇਲੇ
- ✗ 4. ਇੱਲੀਆਂ

Question ID : **630680248624**
Option 1 ID : **630680964642**
Option 2 ID : **630680964639**
Option 3 ID : **630680964640**
Option 4 ID : **630680964641**
Status : **Answered**
Chosen Option : **2**

Website - www.dailyjobalert.in

Q.14 ਅਖਾਣ ਪੂਰਾ ਕਰੋ: ਕੁੱਤਾ ਭੌਂਕੇ _____ ਨੂੰ ਕੀ

Ans
- ✗ 1. ਸੂਰਜ
- ✗ 2. ਲੋਕਾਂ
- ✓ 3. ਚੰਨ
- ✗ 4. ਮਾਲਕ

Question ID : **630680248644**
Option 1 ID : **630680964720**
Option 2 ID : **630680964721**
Option 3 ID : **630680964719**
Option 4 ID : **630680964722**
Status : **Answered**
Chosen Option : **1**

Q.15 Folklore ਸ਼ਬਦ ਦਾ ਪੰਜਾਬੀ ਅਨੁਵਾਦ ਕੀ ਹੈ?

Ans
- ✗ 1. ਲੋਕਾਈ
- ✗ 2. ਸਭਿਆਚਾਰ
- ✗ 3. ਲੋਕ-ਹਿੱਤ
- ✓ 4. ਲੋਕ-ਧਾਰਾ

Question ID : **630680248650**
Option 1 ID : **630680964746**
Option 2 ID : **630680964743**
Option 3 ID : **630680964744**
Option 4 ID : **630680964745**
Status : **Answered**
Chosen Option : **2**

Q.16 ਸ਼ੁੱਧ ਸ਼ਬਦ ਜੋੜ ਚੁਣੋ:

Ans
- ✗ 1. ਸੁਨੈਹਰੀ
- ✗ 2. ਸਨੈਹਿਰੀ
- ✓ 3. ਸੁਨਹਿਰੀ
- ✗ 4. ਸਨੇਹਰੀ

Question ID : **630680248638**
Option 1 ID : **630680964697**
Option 2 ID : **630680964695**
Option 3 ID : **630680964698**
Option 4 ID : **630680964696**
Status : **Answered**
Chosen Option : **3**

Q.17 ਮੰਜਾ ਦਾ ਬਹੁਵਚਨ ਹੈ:

Ans
- ✗ 1. ਮੰਜੀਆਂ
- ✓ 2. ਮੰਜੇ
- ✗ 3. ਮੰਜਿਆ
- ✗ 4. ਮੰਜੀ

Question ID : **630680248621**
Option 1 ID : **630680964630**
Option 2 ID : **630680964627**
Option 3 ID : **630680964628**
Option 4 ID : **630680964629**
Status : **Answered**
Chosen Option : **2**

Website - www.dailyjobalert.in

Q.18 ਅਖਾਣ ਵਿਚਲੀ ਖ਼ਾਲੀ ਥਾਂ ਭਰੋ: ਉਹ ਦਿਨ ਡੁੱਬਾ ਜਦੋਂ _____ ਚੜ੍ਹਿਆ ਕੁੱਬਾ

Ans
1. ਹਾਥੀ
2. ਕਾਰ
3. ਘੋੜੀ
4. ਜਹਾਜ਼

Question ID : **630680248642**
Option 1 ID : **630680964712**
Option 2 ID : **630680964711**
Option 3 ID : **630680964714**
Option 4 ID : **630680964713**
Status : **Answered**
Chosen Option : **3**

Q.19 ਜਿਵੇਂ :- ਜਲੰਧਰ ਜਿਵੇਂ ਅਤੇ ਜਲੰਧਰ ਵਿਚਕਾਰ ਲੱਗੇ ਵਿਸਰਾਮ ਚਿੰਨ੍ਹ ਨੂੰ ਪੰਜਾਬੀ ਵਿਚ ਕੀ ਕਹਿੰਦੇ ਹਨ?

Ans
1. ਡੈਸ਼
2. ਬਿੰਦੀ
3. ਦੁਬਿੰਦੀ
4. ਦੁਬਿੰਦੀ ਡੈਸ਼

Question ID : **630680248648**
Option 1 ID : **630680964735**
Option 2 ID : **630680964736**
Option 3 ID : **630680964737**
Option 4 ID : **630680964738**
Status : **Answered**
Chosen Option : **4**

Q.20 ਦੇਸੀ ਸਾਲ ਦਾ ਛੇਵਾਂ ਮਹੀਨਾ ਕਿਹੜਾ ਹੈ?

Ans
1. ਭਾਦੋਂ
2. ਅੱਸੂ
3. ਮਾਘ
4. ਫੱਗਣ

Question ID : **630680248659**
Option 1 ID : **630680964779**
Option 2 ID : **630680964781**
Option 3 ID : **630680964780**
Option 4 ID : **630680964782**
Status : **Answered**
Chosen Option : **3**

Q.21 ਅੱਗੇ ਲਿਖੇ ਬਹੁਤੇ ਸ਼ਬਦਾਂ ਲਈ ਇਕ ਸ਼ਬਦ ਚੁਣੋ: ਜਿਹੜੀ ਗੱਲ ਬਹੁਤ ਵਧਾ-ਚੜ੍ਹਾ ਕੇ ਆਖੀ ਜਾਵੇ

Ans
1. ਅਣਥੱਕ
2. ਕ੍ਰਿਤੱਗ
3. ਅੱਤਕਥਨੀ
4. ਵਰਿਆਮ

Question ID : **630680248617**
Option 1 ID : **630680964611**
Option 2 ID : **630680964612**
Option 3 ID : **630680964614**
Option 4 ID : **630680964613**
Status : **Answered**
Chosen Option : **3**

Website - www.dailyjobalert.in

Q.22 ਮੁਹਾਵਰੇ ਵਿਚਲੀ ਖ਼ਾਲੀ ਥਾਂ ਭਰੋ: ਜੀਭ _____ ਕਰਨਾ

Ans
1. ਸੰਘ ਵੱਲ
2. ਸਾਫ਼
3. ਰੰਦੀ
4. ਦੰਦਾਂ ਵੱਲ

Question ID : **630680248647**
Option 1 ID : **630680964732**
Option 2 ID : **630680964731**
Option 3 ID : **630680964733**
Option 4 ID : **630680964734**
Status : **Answered**
Chosen Option : **3**

Q.23 ਅਖਾਣ ਵਿਚਲੀ ਖ਼ਾਲੀ ਥਾਂ ਭਰੋ: ਪੱਗ ਵੇਚ ਕੇ _____ ਨਹੀਂ ਖਾਈਦਾ

Ans
1. ਆਟਾ
2. ਘਿਓ
3. ਮਿਠਾ
4. ਜ਼ਹਿਰ

Question ID : **630680248645**
Option 1 ID : **630680964723**
Option 2 ID : **630680964724**
Option 3 ID : **630680964726**
Option 4 ID : **630680964725**
Status : **Answered**
Chosen Option : **3**

Q.24 ਸ਼ੁੱਧ ਸ਼ਬਦ ਜੋੜ ਚੁਣੋ:

Ans
1. ਰੈਹਣਾ
2. ਰੇਹਣਾ
3. ਰੈਹਿਣਾ
4. ਰਹਿਣਾ

Question ID : **630680248641**
Option 1 ID : **630680964710**
Option 2 ID : **630680964708**
Option 3 ID : **630680964707**
Option 4 ID : **630680964709**
Status : **Answered**
Chosen Option : **4**

Q.25 ਨਰ ਸ਼ਬਦ ਦਾ ਲਿੰਗ ਬਦਲੋ

Ans
1. ਨਰੀ
2. ਨਰਾਇਣ
3. ਕੰਨਿਆ
4. ਨਾਰੀ

Question ID : **630680248625**
Option 1 ID : **630680964644**
Option 2 ID : **630680964645**
Option 3 ID : **630680964643**
Option 4 ID : **630680964646**
Status : **Answered**
Chosen Option : **4**

Website - www.dailyjobalert.in

Q.26 ਸ਼ਰਮਨਾਕ ਸ਼ਬਦ ਵਿਚ ਪਿਛੇਤਰ ਹੈ:

Ans
1. ਸ਼ਰਮ
2. ਕ
3. ਨਾਕ
4. ਮਨਾਕ

Question ID : **630680248634**
Option 1 ID : **630680964682**
Option 2 ID : **630680964681**
Option 3 ID : **630680964680**
Option 4 ID : **630680964679**
Status : **Answered**
Chosen Option : **3**

Q.27 ਨਿਸੰਗ ਸ਼ਬਦ ਵਿਚ ਅਗੇਤਰ ਹੈ:

Ans
1. ਇਨ
2. ਨਿਸੰ
3. ਇ
4. ਨਿ

Question ID : **630680248629**
Option 1 ID : **630680964662**
Option 2 ID : **630680964661**
Option 3 ID : **630680964659**
Option 4 ID : **630680964660**
Status : **Answered**
Chosen Option : **4**

Q.28 ਲੱਜਿਆ ਸ਼ਬਦ ਦਾ ਅਰਥ ਹੈ:

Ans
1. ਸੰਝ
2. ਬਦਨ
3. ਥੁੜ
4. ਸੰਕੋਚ

Question ID : **630680248657**
Option 1 ID : **630680964773**
Option 2 ID : **630680964771**
Option 3 ID : **630680964772**
Option 4 ID : **630680964774**
Status : **Answered**
Chosen Option : **4**

Q.29 ਉਦਾਸ ਦਾ ਸਮਾਨਾਰਥਕ ਸ਼ਬਦ ਹੈ:

Ans
1. ਚਿੰਤਾਤਰ
2. ਤਾਂਘ
3. ਗੁੱਸਾ
4. ਲੋਅ

Question ID : **630680248610**
Option 1 ID : **630680964583**
Option 2 ID : **630680964586**
Option 3 ID : **630680964584**
Option 4 ID : **630680964585**
Status : **Answered**
Chosen Option : **1**

Website - www.dailyjobalert.in

Q.30 ਖੱਟਣਾ ਦਾ ਵਿਰੋਧੀ ਸ਼ਬਦ ਹੈ:

Ans
✔ 1. ਗੁਆਉਣਾ
✘ 2. ਖੱਟੀ
✘ 3. ਹਰਾਉਣਾ
✘ 4. ਕਮਾਉਣਾ

Question ID : **630680248615**
Option 1 ID : **630680964604**
Option 2 ID : **630680964603**
Option 3 ID : **630680964606**
Option 4 ID : **630680964605**
Status : **Answered**
Chosen Option : **1**

Q.31 29 ਨੂੰ ਪੰਜਾਬੀ ਵਿਚ ਕਹਿੰਦੇ ਹਨ:

Ans
✔ 1. ਉਣੱਤੀ
✘ 2. ਉਣੰਜਾ
✘ 3. ਉਣਤਾਲੀ
✘ 4. ਉਨਾਹਠ

Question ID : **630680248655**
Option 1 ID : **630680964764**
Option 2 ID : **630680964766**
Option 3 ID : **630680964765**
Option 4 ID : **630680964763**
Status : **Answered**
Chosen Option : **1**

Q.32 77 ਨੂੰ ਪੰਜਾਬੀ ਵਿਚ ਕਹਿੰਦੇ ਹਨ:

Ans
✘ 1. ਸਤਵੰਜਾ
✘ 2. ਸਤਾਸੀ
✘ 3. ਸਤਾਹਠ
✔ 4. ਸਤੱਤਰ

Question ID : **630680248656**
Option 1 ID : **630680964767**
Option 2 ID : **630680964770**
Option 3 ID : **630680964768**
Option 4 ID : **630680964769**
Status : **Answered**
Chosen Option : **4**

Q.33 ਸ਼ੁੱਧ ਸ਼ਬਦ ਜੋੜ ਚੁਣੋ:

Ans
✘ 1. ਕਹਿੜਾ
✔ 2. ਕਿਹੜਾ
✘ 3. ਕੇਹੜਾ
✘ 4. ਕੈਹੜਾ

Question ID : **630680248640**
Option 1 ID : **630680964706**
Option 2 ID : **630680964704**
Option 3 ID : **630680964703**
Option 4 ID : **630680964705**
Status : **Answered**
Chosen Option : **1**

Website - www.dailyjobalert.in

Q.34 ਅੱਗੇ ਲਿਖੇ ਬਹੁਤੇ ਸ਼ਬਦਾਂ ਲਈ ਇਕ ਸ਼ਬਦ ਚੁਣੋ: ਨਾਵਲ ਲਿਖਣ ਵਾਲਾ

Ans
1. ਨਾਟਕਕਾਰ
2. ਨਾਵਲਕਾਰ
3. ਪਦ
4. ਕਵੀ

Question ID : **630680248619**
Option 1 ID : **630680964620**
Option 2 ID : **630680964621**
Option 3 ID : **630680964622**
Option 4 ID : **630680964619**
Status : **Answered**
Chosen Option : **2**

Q.35 ਫੱਗਣ ਤੋਂ ਮਗਰੋਂ ਕਿਹੜਾ ਮਹੀਨਾ ਆਉਂਦਾ ਹੈ?

Ans
1. ਚੇਤ
2. ਭਾਦੋਂ
3. ਹਾੜ
4. ਜੇਠ

Question ID : **630680248658**
Option 1 ID : **630680964776**
Option 2 ID : **630680964778**
Option 3 ID : **630680964777**
Option 4 ID : **630680964775**
Status : **Answered**
Chosen Option : **1**

Q.36 Socialization ਸ਼ਬਦ ਦਾ ਪੰਜਾਬੀ ਅਨੁਵਾਦ ਕੀ ਹੈ?

Ans
1. ਸਮਾਜ
2. ਸਮਾਜੀਕਰਨ
3. ਮੁਕਤੀਕਰਨ
4. ਵਿਲੀਨੀਕਰਨ

Question ID : **630680248653**
Option 1 ID : **630680964758**
Option 2 ID : **630680964757**
Option 3 ID : **630680964756**
Option 4 ID : **630680964755**
Status : **Answered**
Chosen Option : **2**

Q.37 ਅੱਗੇ ਲਿਖੇ ਬਹੁਤੇ ਸ਼ਬਦਾਂ ਲਈ ਇਕ ਸ਼ਬਦ ਚੁਣੋ: ਪਿੰਡ ਦੇ ਝਗੜਿਆਂ ਦਾ ਫ਼ੈਸਲਾ ਕਰਨ ਵਾਲੀ ਸਭਾ

Ans
1. ਗ੍ਰਾਮ ਸੰਮਤੀ
2. ਬਲਾਕ ਸੰਮਤੀ
3. ਜ਼ਿਲ੍ਹਾਂ ਪ੍ਰੀਸ਼ਦ
4. ਪੰਚਾਇਤ

Question ID : **630680248618**
Option 1 ID : **630680964615**
Option 2 ID : **630680964617**
Option 3 ID : **630680964618**
Option 4 ID : **630680964616**
Status : **Answered**
Chosen Option : **4**

Website - www.dailyjobalert.in

Q.38 ਸ਼ੁੱਧ ਸ਼ਬਦ ਜੋੜ ਚੁਣੋ:

Ans
- ✗ 1. ਸ਼ੈਹਿਰ
- ✗ 2. ਸ਼ੇਹਰ
- ✓ 3. ਸ਼ਹਿਰ
- ✗ 4. ਸੈਹਰ

Question ID : **630680248639**
Option 1 ID : **630680964702**
Option 2 ID : **630680964701**
Option 3 ID : **630680964699**
Option 4 ID : **630680964700**
Status : **Answered**
Chosen Option : **3**

Q.39 ਨਾਨਾ ਸ਼ਬਦ ਦਾ ਲਿੰਗ ਬਦਲੋ

Ans
- ✗ 1. ਦੋਹਤਾ
- ✓ 2. ਨਾਨੀ
- ✗ 3. ਨਾਨਦ
- ✗ 4. ਨੈਣ

Question ID : **630680248628**
Option 1 ID : **630680964658**
Option 2 ID : **630680964655**
Option 3 ID : **630680964656**
Option 4 ID : **630680964657**
Status : **Answered**
Chosen Option : **2**

Q.40 ਪਰਹੇਜ਼ਗਾਰ ਸ਼ਬਦ ਵਿਚ ਪਿਛੇਤਰ ਹੈ:

Ans
- ✗ 1. ਪਰ
- ✓ 2. ਗਾਰ
- ✗ 3. ਆਰ
- ✗ 4. ਜ਼ਗਾਰ

Question ID : **630680248635**
Option 1 ID : **630680964686**
Option 2 ID : **630680964684**
Option 3 ID : **630680964683**
Option 4 ID : **630680964685**
Status : **Answered**
Chosen Option : **2**

Q.41 Sabotage ਸ਼ਬਦ ਦਾ ਪੰਜਾਬੀ ਅਨੁਵਾਦ ਕੀ ਹੈ?

Ans
- ✓ 1. ਤੋੜ-ਫੋੜ
- ✗ 2. ਰਾਏ-ਸ਼ੁਮਾਰੀ
- ✗ 3. ਰਾਜ-ਕਾਲ
- ✗ 4. ਸਵਾਸ-ਕਿਰਿਆ

Question ID : **630680248654**
Option 1 ID : **630680964760**
Option 2 ID : **630680964762**
Option 3 ID : **630680964761**
Option 4 ID : **630680964759**
Status : **Answered**
Chosen Option : **4**

Website - www.dailyjobalert.in

Q.42 ਅੱਗੇ ਲਿਖੇ ਬਹੁਤੇ ਸ਼ਬਦਾਂ ਲਈ ਇਕ ਸ਼ਬਦ ਚੁਣੋ: ਜੋ ਆਪ ਨਾਲ ਬੀਤੀ ਹੋਵੇ

Ans
✗ 1. ਘਰ ਬੀਤੀ
✓ 2. ਹੱਡਬੀਤੀ
✗ 3. ਜੱਗਬੀਤੀ
✗ 4. ਪੜੋਸੀਆਂ ਨਾਲ ਬੀਤੀ

Question ID : **630680248620**
Option 1 ID : **630680964626**
Option 2 ID : **630680964624**
Option 3 ID : **630680964623**
Option 4 ID : **630680964625**
Status : **Answered**
Chosen Option : **2**

Q.43 ਖ਼ੁਸ਼ੀ ਦਾ ਸਮਾਨਾਰਥਕ ਸ਼ਬਦ ਹੈ:

Ans
✗ 1. ਦੁਖੀ
✗ 2. ਸੰਗ
✗ 3. ਪ੍ਰਣ
✓ 4. ਸਰੂਰ

Question ID : **630680248613**
Option 1 ID : **630680964596**
Option 2 ID : **630680964598**
Option 3 ID : **630680964595**
Option 4 ID : **630680964597**
Status : **Answered**
Chosen Option : **4**

Q.44 ਪੋਠੋਹਾਰੀ ਸ਼ਬਦ ਦਾ ਲਿੰਗ ਬਦਲੋ

Ans
✓ 1. ਪੋਠੋਹਾਰਨ
✗ 2. ਪੋਠੋਹਾਰਨੀ
✗ 3. ਪੋਠਹਾਰ
✗ 4. ਪੋਠੋਹਾਰ

Question ID : **630680248627**
Option 1 ID : **630680964654**
Option 2 ID : **630680964653**
Option 3 ID : **630680964652**
Option 4 ID : **630680964651**
Status : **Answered**
Chosen Option : **4**

Q.45 ਕੀੜਾ ਦਾ ਬਹੁਵਚਨ ਹੈ:

Ans
✓ 1. ਕੀੜੇ
✗ 2. ਕੀੜੋ
✗ 3. ਕੀੜਿਆਂ
✗ 4. ਕੀੜੀਆਂ

Question ID : **630680248622**
Option 1 ID : **630680964634**
Option 2 ID : **630680964632**
Option 3 ID : **630680964631**
Option 4 ID : **630680964633**
Status : **Answered**
Chosen Option : **1**

Website - www.dailyjobalert.in

Q.46 ਜਸਵੰਤ ਸ਼ਬਦ ਵਿਚ ਪਿਛੇਤਰ ਹੈ:

Ans
✔ 1. ਵੰਤ
✘ 2. ਸਵੰਤ
✘ 3. ਤ
✘ 4. ਜਸ

Question ID : **630680248636**
Option 1 ID : **630680964689**
Option 2 ID : **630680964688**
Option 3 ID : **630680964690**
Option 4 ID : **630680964687**
Status : **Answered**
Chosen Option : **1**

Q.47 ਵਣਜਾਰਾ ਸ਼ਬਦ ਦਾ ਲਿੰਗ ਬਦਲੋ

Ans
✘ 1. ਔਰਤ
✘ 2. ਵਿਣਜਾਰੀ
✔ 3. ਵਣਜਾਰਨ
✘ 4. ਵਣਜਾਰੀ

Question ID : **630680248626**
Option 1 ID : **630680964650**
Option 2 ID : **630680964649**
Option 3 ID : **630680964647**
Option 4 ID : **630680964648**
Status : **Answered**
Chosen Option : **3**

Q.48 ਪਰਤੰਤਰ ਸ਼ਬਦ ਵਿਚ ਅਗੇਤਰ ਹੈ:

Ans
✘ 1. ਰ
✘ 2. ਪਰਤੰ
✔ 3. ਪਰ
✘ 4. ਪ

Question ID : **630680248631**
Option 1 ID : **630680964670**
Option 2 ID : **630680964668**
Option 3 ID : **630680964667**
Option 4 ID : **630680964669**
Status : **Answered**
Chosen Option : **3**

Q.49 ਕੱਲਰ ਦਾ ਕੰਵਲ ਹੋਣਾ- ਮੁਹਾਵਰੇ ਦਾ ਅਰਥ ਹੈ:

Ans
✘ 1. ਬੇਇਮਾਨ ਹੋਣਾ
✘ 2. ਮਾੜੀਆਂ ਗੱਲਾਂ ਕਰਨਾ
✘ 3. ਚੰਗੀਆਂ ਪਰਿਸਥਿਤੀਆਂ ਵਿਚ ਮਾੜਾ ਮਨੁੱਖ ਬਣ ਜਾਣਾ
✔ 4. ਭੈੜੀਆਂ ਤੋਂ ਭੈੜੀਆਂ ਪਰਿਸਥਿਤੀਆਂ ਵਿਚ ਚੰਗਾ ਮਨੁੱਖ ਬਣ ਸਕਣਾ

Question ID : **630680248646**
Option 1 ID : **630680964727**
Option 2 ID : **630680964729**
Option 3 ID : **630680964728**
Option 4 ID : **630680964730**
Status : **Answered**
Chosen Option : **1**

DAILY JOB Alert ਪੰਜਾਬ
Website - www.dailyjobalert.in

Q.50 ਜਿਸਮ ਦਾ ਸਮਾਨਾਰਥਕ ਸ਼ਬਦ ਹੈ:

Ans

✗ 1. ਕੁਸਮ

✗ 2. ਬਲ

✓ 3. ਦੇਹ

✗ 4. ਵਾਯੂ

Question ID : **630680248612**
Option 1 ID : **630680964594**
Option 2 ID : **630680964591**
Option 3 ID : **630680964592**
Option 4 ID : **630680964593**
Status : **Answered**
Chosen Option : **3**

Website - www.dailyjobalert.in

PUNJAB POLICE

Police to its last particle is duty

Exam Name	Recruitment for the post of Sub Inspector in Cadres of District and Armed Police 20th Jun to 31st Jul 2023 Paper I
Application No	www.dailyjobalert.in
Roll No	Telegram - Daily Job Alert Punjab
Applicant Name	instagram - Daily Job Alert Punjab
Exam Date	29/07/2023
Shift	9:00 AM - 11:00 AM
Subject	Sub Inspector Paper I

Section : **General Awareness**

Q.1 ਕਿਸੇ ਸਿਵਲ ਸੇਵਕ ਦੇ ਦਫ਼ਤਰ ਵਿੱਚ ਆਉਣ ਤੋਂ ਪਹਿਲਾਂ ਆਪਣੇ ਜੀਵਨ ਸਾਥੀ ਨਾਲ ਮਤਭੇਦ ਹੋਣ ਕਰਕੇ ਉਸਦਾ ਆਚਰਣ ਪ੍ਰਭਾਵਿਤ ਨਹੀਂ ਹੋਣਾ ਚਾਹੀਦਾ। ਇਹ ਉਦਾਹਰਨ _____ ਨੂੰ ਦਰਸਾਉਂਦੀ ਹੈ।

Ans

✗ 1. ਪਰਸਪਰ ਵਿਰੋਧੀ ਭੂਮਿਕਾਵਾਂ (conflicting roles)

✗ 2. ਸੰਭਾਵਨਾਵਾਚੀ ਵਿਵਾਦ (potential conflict)

✗ 3. ਕਦਰਾਂ ਕੀਮਤਾਂ ਦਾ ਵਿਚਲਣ (divergence of values)

✓ 4. ਨੈਤਿਕ ਸ਼ਕਤੀ ਦੇ ਕਾਰਜ ਖੇਤਰ (domain of influence)

Question ID : **630680238329**
Option 1 ID : **630680924333**
Option 2 ID : **630680924335**
Option 3 ID : **630680924334**
Option 4 ID : **630680924332**
Status : **Answered**
Chosen Option : **4**

Q.2 ਮਾਨਸੂਨ ਆਉਣ ਦਾ ਸੁਆਗਤ ਕਰਨ ਲਈ ਪੰਜਾਬ ਦਾ ਕਿਹੜਾ ਤਿਉਹਾਰ ਮਨਾਇਆ ਜਾਂਦਾ ਹੈ?

Ans

✗ 1. ਲੋਹੜੀ

✗ 2. ਟਿੱਕਾ

✗ 3. ਛਪਾਰ ਦਾ ਮੇਲਾ

✓ 4. ਤੀਆਂ

Question ID : **630680238521**
Option 1 ID : **630680925103**
Option 2 ID : **630680925100**
Option 3 ID : **630680925102**
Option 4 ID : **630680925101**
Status : **Answered**
Chosen Option : **4**

Website - www.dailyjobalert.in

Q.3 **Who among the following was NOT one of the founding members of the Hindustan Socialist Republican Association?**

Ans
✔ 1. Motilal Nehru
✘ 2. Ram Prasad Bismil
✘ 3. Sachindra Nath Sanyal
✘ 4. Batukeshwar Dutt

Question ID : **630680163730**
Option 1 ID : **630680634066**
Option 2 ID : **630680634065**
Option 3 ID : **630680634067**
Option 4 ID : **630680634064**
Status : **Not Answered**
Chosen Option : **--**

Q.4 **Which country is NOT included in the proposed 5G club 'D10'?**

Ans
✔ 1. China
✘ 2. Japan
✘ 3. India
✘ 4. France

Question ID : **630680139331**
Option 1 ID : **630680539400**
Option 2 ID : **630680539399**
Option 3 ID : **630680539398**
Option 4 ID : **630680539401**
Status : **Answered**
Chosen Option : **4**

Q.5 **On 13 December 2021, from which island was a supersonic missile-assisted torpedo system, developed by the Defence Research and Development Organisation (DRDO), successfully launched?**

Ans
✔ 1. Wheeler Island
✘ 2. APJ Abdul Kalam Island
✘ 3. Parel Island
✘ 4. Cattle Island

Question ID : **630680145743**
Option 1 ID : **630680563901**
Option 2 ID : **630680563898**
Option 3 ID : **630680563900**
Option 4 ID : **630680563899**
Status : **Answered**
Chosen Option : **2**

Website - www.dailyjobalert.in

Q.6 **The proportion of GDP contributed by the industrial sector over the period from 1950-51 to 1990-91 _____.**

Ans

✗ 1. decreased from 24.8% to 11.6%

✗ 2. decreased from 34.9% to 15.8%

✗ 3. increased from 15.8% to 34.9%

✓ 4. increased from 11.8% to 24.6%

Question ID : **63068056654**
Option 1 ID : **630680218551**
Option 2 ID : **630680218553**
Option 3 ID : **630680218552**
Option 4 ID : **630680218550**
Status : **Not Answered**
Chosen Option : **--**

Q.7 **Which of the following classical dance is associated with Kalavati devi?**

Ans

✓ 1. Manipuri

✗ 2. Kathakali

✗ 3. Kuchipudi

✗ 4. Odissi

Question ID : **63068076468**
Option 1 ID : **630680295971**
Option 2 ID : **630680295972**
Option 3 ID : **630680295970**
Option 4 ID : **630680295969**
Status : **Answered**
Chosen Option : **2**

Q.8 **According to the National Forest Policy (1952) about _____ of the geographical area should be under forests.**

Ans

✗ 1. 30%

✗ 2. 28%

✓ 3. 33%

✗ 4. 25%

Question ID : **630680115198**
Option 1 ID : **630680446158**
Option 2 ID : **630680446160**
Option 3 ID : **630680446161**
Option 4 ID : **630680446159**
Status : **Answered**
Chosen Option : **2**

Website - www.dailyjobalert.in

Q.9 ਕੇਂਦਰ ਮੰਤਰੀ ਮੰਡਲ ਨੇ ਸਤੰਬਰ 2021 ਵਿੱਚ ਆਫ਼ਤ ਦੇ ਜੋਖ਼ਮ ਨੂੰ ਘੱਟ ਕਰਨ ਅਤੇ ਪ੍ਰਬੰਧਨ ਦੇ ਖੇਤਰ ਵਿੱਚ ਸਹਿਯੋਗ 'ਤੇ _____ ਦੇ ਨਾਲ ਇੱਕ ਸਮਝੌਤੇ (MoU)ਨੂੰ ਮਨਜ਼ੂਰੀ ਦਿੱਤੀ।

Ans
✔ 1. ਇਟਲੀ
✘ 2. ਫਰਾਂਸ
✘ 3. ਰੂਸ
✘ 4. ਬੇਲਜੀਅਮ

Question ID : **63068053261**
Option 1 ID : **630680205149**
Option 2 ID : **630680205146**
Option 3 ID : **630680205148**
Option 4 ID : **630680205147**
Status : **Answered**
Chosen Option : **3**

Q.10 _____ is the first state in India to adopt a robust digital reporting system that will capture critical impact indicators during floods.

Ans
✘ 1. Maharashtra
✘ 2. Kerala
✘ 3. Chhattisgarh
✔ 4. Assam

Question ID : **630680176325**
Option 1 ID : **630680683531**
Option 2 ID : **630680683529**
Option 3 ID : **630680683530**
Option 4 ID : **630680683528**
Status : **Not Answered**
Chosen Option : **--**

Q.11 Which of the following institutions has developed an artificial intelligence-based chest X-ray technique for covid-19A screening?

Ans
✘ 1. IIT- Hyderabad
✔ 2. IIT- Jodhpur
✘ 3. IIT- Bombay
✘ 4. IIT- Kanpur

Question ID : **630680115962**
Option 1 ID : **630680449180**
Option 2 ID : **630680449179**
Option 3 ID : **630680449181**
Option 4 ID : **630680449178**
Status : **Answered**
Chosen Option : **4**

Website - www.dailyjobalert.in

Q.12 **Who among the following argued that "The advent of the Maurya dynasty marks from darkness to light for the historian, chronology suddenly becomes definite, almost precise, a huge empire springs into existence…"?**

Ans
✔ 1. VA Smith
✘ 2. KP Jayaswal
✘ 3. RK Mookerji
✘ 4. NN Law

Question ID : **63068080440**
Option 1 ID : **630680311786**
Option 2 ID : **630680311788**
Option 3 ID : **630680311785**
Option 4 ID : **630680311787**
Status : **Not Answered**
Chosen Option : **--**

Q.13 **ਰਾਇਲਸੀਮਾ ਪਠਾਰ ਖੇਤਰ ਭਾਰਤੀ ਰਾਜ ਆਂਧਰਾ ਪ੍ਰਦੇਸ਼ ਦਾ ਇੱਕ ਭੂਗੋਲਿਕ ਖੇਤਰ ਹੈ ਜੋ _____ ਨਾਲ ਜੁੜਦਾ ਹੈ।**

Ans
✘ 1. ਗੰਗਾ ਨਦੀ
✔ 2. ਕ੍ਰਿਸ਼ਨਾ ਨਦੀ
✘ 3. ਕਾਵੇਰੀ ਨਦੀ
✘ 4. ਪੇਰੀਆਰ ਨਦੀ

Question ID : **630680125224**
Option 1 ID : **630680485663**
Option 2 ID : **630680485664**
Option 3 ID : **630680485665**
Option 4 ID : **630680485662**
Status : **Not Answered**
Chosen Option : **--**

Q.14 **Who among the following was awarded the European Union's top human rights prize, Sakharov Prize for Freedom of Thought, for 2021 by the European Parliament?**

Ans
✔ 1. Alexei Navalny
✘ 2. Nadia Murad
✘ 3. Malala Yousafzai
✘ 4. Donald Trump

Question ID : **63068058408**
Option 1 ID : **630680225329**
Option 2 ID : **630680225326**
Option 3 ID : **630680225327**
Option 4 ID : **630680225328**
Status : **Not Answered**
Chosen Option : **--**

Website - www.dailyjobalert.in

Q.15 _____ਵਿੱਚ ਪ੍ਰਵੇਸ਼ ਕਰਨ ਅਤੇ ਮੂਰਤੀ ਦੀ ਪੂਜਾ ਕਰਨ ਲਈ ਇੱਕ ਹੀ ਦਰਵਾਜ਼ੇ ਵਾਲਾ ਇੱਕ ਛੋਟਾ ਵਰਗਾਕਾਰ ਕਮਰਾ ਹੁੰਦਾ ਸੀ।

Ans
✗ 1. ਵਿਮਾਨ (Vimana)

✗ 2. ਸ਼ਿਖਰ (shikhara)

✗ 3. ਮੰਡਪ (Mandapa)

✓ 4. ਗਰਭਗ੍ਰਿਹ (Garbhagriha)

Question ID : **63068092867**
Option 1 ID : **630680360162**
Option 2 ID : **630680360159**
Option 3 ID : **630680360161**
Option 4 ID : **630680360160**
Status : **Not Answered**
Chosen Option : **--**

Q.16 In which year was the President's rule imposed in Punjab for the first time?

Ans
✗ 1. 1949
✗ 2. 1984
✓ 3. 1951
✗ 4. 1953

Question ID : **630680238504**
Option 1 ID : **630680925032**
Option 2 ID : **630680925035**
Option 3 ID : **630680925033**
Option 4 ID : **630680925034**
Status : **Answered**
Chosen Option : **1**

Q.17 ਵਾਤਾਵਰਣ ਦੀ ਵਿਘਟਨ ਨੂੰ ਸੋਖਣ ਦੀ ਸਮਰੱਥਾ ਨੂੰ _____ ਵੀ ਕਿਹਾ ਜਾਂਦਾ ਹੈ।

Ans
✗ 1. ਪੁਨਰ ਜਣਨ ਸਮਰੱਥਾ (regeneration capacity)

✗ 2. ਵਾਹਕ ਸਮਰੱਥਾ (carrying capacity)

✓ 3. ਸੋਖਣ ਸਮਰੱਥਾ (absorptive capacity)

✗ 4. ਪਚਾਉਣ ਸਮਰੱਥਾ (assimilating capacity)

Question ID : **63068056718**
Option 1 ID : **630680218809**
Option 2 ID : **630680218807**
Option 3 ID : **630680218806**
Option 4 ID : **630680218808**
Status : **Answered**
Chosen Option : **3**

Website - www.dailyjobalert.in

Q.18 ਜਲ੍ਹਿਆਂਵਾਲਾ ਬਾਗ ਸਾਕੇ ਦੇ ਵਿਰੋਧ ਵਿੱਚ ਇਹਨਾਂ ਵਿੱਚੋਂ ਕਿਸ ਨੇ ਆਪਣਾ ਨਾਈਟਹੁੱਡ ਦੀ ਉਪਾਧੀ ਤਿਆਗ ਦਿੱਤੀ ਸੀ?

Ans
- ✗ 1. ਬੰਕਿਮ ਚੰਦਰ ਚੈਟਰਜੀ
- ✗ 2. ਬੀ.ਸੀ. ਰਾਏ
- ✓ 3. ਰਬਿੰਦਰ ਨਾਥ ਟੈਗੋਰ
- ✗ 4. ਮੁਨਸ਼ੀ ਪ੍ਰੇਮਚੰਦ

Question ID : **630680146023**
Option 1 ID : **630680564991**
Option 2 ID : **630680564990**
Option 3 ID : **630680564992**
Option 4 ID : **630680564993**
Status : **Not Answered**
Chosen Option : **--**

Q.19 Stand-Up India Scheme facilitates bank loans between _____.

Ans
- ✗ 1. ₹1 lakh and ₹10 lakh
- ✗ 2. ₹5 crore and ₹10 crore
- ✗ 3. ₹1 crore and ₹5 crore
- ✓ 4. ₹10 lakh and ₹1 crore

Question ID : **63068050985**
Option 1 ID : **630680196206**
Option 2 ID : **630680196209**
Option 3 ID : **630680196208**
Option 4 ID : **630680196207**
Status : **Answered**
Chosen Option : **1**

Q.20 ਭਾਰਤ ਵਿੱਚ ਹੇਠ ਲਿਖੇ ਵਿੱਚੋਂ ਕਿਹੜਾ ਭੋਜਨ ਸੁਰੱਖਿਆ ਪ੍ਰੋਗਰਾਮ ਹੈ ਜੋ ਸਾਲ 2000 ਵਿੱਚ ਲਾਂਚ ਕੀਤਾ ਗਿਆ?

Ans
- ✗ 1. ਨੈਸ਼ਨਲ ਨਿਊਟ੍ਰੀਸ਼ਨਲ ਅਨੀਮੀਆ ਪ੍ਰੋਫਾਈਲੈਕਸਿਸ ਪ੍ਰੋਗਰਾਮ (National Nutritional Anaemia Prophylaxis Programme)
- ✗ 2. ਰਾਸ਼ਟਰੀ ਆਇਓਡੀਨ ਦੀ ਘਾਟ ਵਿਕਾਰ ਕੰਟਰੋਲ ਪ੍ਰੋਗਰਾਮ (National Iodine Deficiency Disorders Control Programme)
- ✗ 3. ਮਿਡ-ਡੇ-ਮੀਲ ਸਕੀਮ (Mid-Day Meal Scheme)
- ✓ 4. ਅੰਤੋਦਿਆ ਅੰਨ ਯੋਜਨਾ (Antyodaya Anna Yojana)

Question ID : **63068059350**
Option 1 ID : **630680229012**
Option 2 ID : **630680229011**
Option 3 ID : **630680229010**
Option 4 ID : **630680229013**
Status : **Answered**
Chosen Option : **3**

Website - www.dailyjobalert.in

Q.21 Which of the following Princely states was NOT a part of PEPSU?

Ans
✗ 1. Kalsia
✗ 2. Malerkotla
✓ 3. Nurpur
✗ 4. Jind

Question ID : **630680238420**
Option 1 ID : **630680924697**
Option 2 ID : **630680924696**
Option 3 ID : **630680924698**
Option 4 ID : **630680924699**
Status : **Answered**
Chosen Option : **1**

Q.22 Which of the following was the birthplace of the famous astronomer-astrologer Varahamihira?

Ans
✗ 1. Bhelsa (Vidisha)
✗ 2. Mahishmati (Maheshwar)
✓ 3. Kayatha (Kapitthaka)
✗ 4. Pataliputra (Patna)

Question ID : **63068087765**
Option 1 ID : **630680340448**
Option 2 ID : **630680340445**
Option 3 ID : **630680340446**
Option 4 ID : **630680340447**
Status : **Not Answered**
Chosen Option : **--**

Q.23 Which of the following monuments is NOT in Patiala district?

Ans
✓ 1. Tomb of Jamal Khan
✗ 2. Qila Beer
✗ 3. Baradari Moti Bagh
✗ 4. Qila Mubarak

Question ID : **630680238598**
Option 1 ID : **630680925410**
Option 2 ID : **630680925409**
Option 3 ID : **630680925408**
Option 4 ID : **630680925411**
Status : **Answered**
Chosen Option : **1**

Website - www.dailyjobalert.in

Q.24 **NITI Aayog, along with which international agency, launched Handbook on Sustainable Urban Plastic Waste Management in October 2021?**

Ans
- ✗ 1. International Union for Conservation of Nature (IUCN)
- ✗ 2. Global Green Growth Institute
- ✗ 3. United Nations Environment Programme (UNEP)
- ✓ 4. United Nations Development Programme (UNDP)

Question ID : **63068061931**
Option 1 ID : **630680239044**
Option 2 ID : **630680239045**
Option 3 ID : **630680239043**
Option 4 ID : **630680239042**
Status : **Not Answered**
Chosen Option : **--**

Q.25 **Who among the following was the first President of All India Kisan Sabha that was formed in 1936?**

Ans
- ✗ 1. Jay Prakash Narayan
- ✗ 2. Acharya Narendra Dev
- ✗ 3. Rash Behari Bose
- ✓ 4. Swami Sahajanand Saraswati

Question ID : **630680160036**
Option 1 ID : **630680619529**
Option 2 ID : **630680619530**
Option 3 ID : **630680619528**
Option 4 ID : **630680619531**
Status : **Not Answered**
Chosen Option : **--**

Q.26 **ਭਾਰਤ ਦੇ ਸੰਵਿਧਾਨ ਦੀ ਬਾਰ੍ਹਵੀਂ ਅਨੁਸੂਚੀ ਵਿੱਚ ਹੇਠ ਲਿਖਿਆਂ ਵਿੱਚੋਂ ਕਿਹੜਾ ਕਾਰਜ ਸ਼ਾਮਲ ਨਹੀਂ ਹੈ?**

Ans
- ✗ 1. ਚਮੜਾ ਸ਼ੋਧਕ ਕਾਰਖਾਨਿਆਂ ਦਾ ਨਿਯਮ
- ✗ 2. ਸ਼ਹਿਰੀ ਜੰਗਲਾਤ
- ✓ 3. ਮੱਛੀ ਪਾਲਣ
- ✗ 4. ਆਰਥਿਕ ਅਤੇ ਸਮਾਜਿਕ ਵਿਕਾਸ ਲਈ ਯੋਜਨਾਬੰਦੀ

Question ID : **63068061682**
Option 1 ID : **630680238047**
Option 2 ID : **630680238049**
Option 3 ID : **630680238048**
Option 4 ID : **630680238046**
Status : **Answered**
Chosen Option : **4**

DAILY JOB ALERT ਪੰਜਾਬ

Q.27 ਕਿਸ ਦੇਸ਼ ਦਾ ਤਿਉਹਾਰ 'ਡਰੈਗਨ ਬੋਟ ਫੈਸਟੀਵਲ' ਵਜੋਂ ਜਾਣਿਆ ਜਾਂਦਾ ਹੈ?

Ans
- ✗ 1. ਨੇਪਾਲ
- ✗ 2. ਮਲੇਸ਼ੀਆ
- ✗ 3. ਥਾਈਲੈਂਡ
- ✓ 4. ਚੀਨ

Question ID : **63068085320**
Option 1 ID : **630680330784**
Option 2 ID : **630680330785**
Option 3 ID : **630680330786**
Option 4 ID : **630680330787**
Status : **Answered**
Chosen Option : **3**

Q.28 **The Linguistic Data Consortium for Indian Languages (LDC-IL) was established in the year _____.**

Ans
- ✓ 1. 2007
- ✗ 2. 2001
- ✗ 3. 2005
- ✗ 4. 2003

Question ID : **63068076848**
Option 1 ID : **630680297489**
Option 2 ID : **630680297492**
Option 3 ID : **630680297490**
Option 4 ID : **630680297491**
Status : **Not Answered**
Chosen Option : **--**

Q.29 ਭਾਰਤੀ ਸੁਤੰਤਰਤਾ ਸੈਨਾਨੀ, ਪੰਜਾਬ ਕੇਸਰੀ ਦੇ ਨਾਮ ਨਾਲ ਮਸ਼ਹੂਰ ਲਾਲਾ ਲਾਜਪਤ ਰਾਏ ਦੀ ਮੌਤ ਬ੍ਰਿਟਿਸ਼ ਪੰਜਾਬੀ ਸੂਬੇ ਦੇ ਕਿਹੜੇ ਸ਼ਹਿਰ ਵਿੱਚ ਹੋਈ ਸੀ?

Ans
- ✓ 1. ਲਾਹੌਰ
- ✗ 2. ਗੁਜਰਾਂਵਾਲਾ
- ✗ 3. ਫੈਸਲਾਬਾਦ
- ✗ 4. ਗੋਬਿੰਦਪੁਰ

Question ID : **630680238478**
Option 1 ID : **630680924929**
Option 2 ID : **630680924930**
Option 3 ID : **630680924931**
Option 4 ID : **630680924928**
Status : **Not Answered**
Chosen Option : **--**

DAILY JOB Alert ਪੰਜਾਬ

Q.30 Which of the following Articles is NOT related to Indian citizenship?

Ans
✗ 1. Article 10
✓ 2. Article 12
✗ 3. Article 11
✗ 4. Article 9

Question ID : **630680134743**
Option 1 ID : **630680521791**
Option 2 ID : **630680521793**
Option 3 ID : **630680521792**
Option 4 ID : **630680521790**
Status : **Answered**
Chosen Option : **2**

Q.31 HYV ਤਕਨਾਲੋਜੀ ਦੀ ਸ਼ੁਰੂਆਤ ਤੋਂ ਪਹਿਲਾਂ, _____, ਭਾਰਤੀ ਕਿਸਾਨਾਂ ਵਿੱਚ ਕੁਝ ਸਮੇਂ ਲਈ ਜ਼ਮੀਨ ਖਾਲੀ ਛੱਡਣ ਦਾ ਇੱਕ ਆਮ ਅਭਿਆਸ ਸੀ ਤਾਂ ਜੋ ਇਹ ਆਪਣੀ ਉਪਜਾਊ ਸ਼ਕਤੀ ਨੂੰ ਮੁੜ ਪ੍ਰਾਪਤ ਕਰ ਸਕੇ।

Ans
✗ 1. ਫੂਸ ਖੇਤੀ (Chaffing)
✗ 2. ਚੋਣਵੀਂ ਪ੍ਰਜਨਨ ਖੇਤੀ(Selective breeding)
✓ 3. ਸੰਨਮੀ ਖੇਤੀ (Fallowing)
✗ 4. ਸਮੂਹਕ ਖੇਤੀ (Collective farming)

Question ID : **63068056648**
Option 1 ID : **630680218529**
Option 2 ID : **630680218528**
Option 3 ID : **630680218526**
Option 4 ID : **630680218527**
Status : **Not Answered**
Chosen Option : **--**

Q.32 According to the Grierson (Linguistic Survey of India, 1903-1928) there were ____ languages. Now, there are ____ scheduled languages in the Constitution of India.

Ans
✓ 1. 179; 22
✗ 2. 169; 23
✗ 3. 179; 23
✗ 4. 169; 22

Question ID : **630680119370**
Option 1 ID : **630680462570**
Option 2 ID : **630680462573**
Option 3 ID : **630680462572**
Option 4 ID : **630680462571**
Status : **Marked For Review**
Chosen Option : **1**

Website - www.dailyjobalert.in

Q.33 ਭਾਰਤ ਦੇ ਰਾਸ਼ਟਰਪਤੀ ਦਾ ਮਹਾਦੋਸ਼ (impeachment) ਸੰਸਦ ਵਿੱਚ ਇੱਕ _____ ਪ੍ਰਕਿਰਿਆ ਹੈ।

Ans
✗ 1. ਨਿਆਂਇਕ (judicial)

✓ 2. ਅਰਧ-ਨਿਆਂਇਕ (quasi-judicial)

✗ 3. ਗੈਰ-ਅਰਧ-ਨਿਆਂਇਕ (non-quasi-judicial)

✗ 4. ਪ੍ਰਬੰਧਕੀ (administrative)

Question ID : **630680100468**
Option 1 ID : **630680390568**
Option 2 ID : **630680390569**
Option 3 ID : **630680390570**
Option 4 ID : **630680390571**
Status : **Marked For Review**
Chosen Option : **1**

Q.34 ਅਸੰਗਤ ਦੀ ਪਛਾਣ ਕਰੋ।

Ans
✗ 1. ਗੋਬਰ ਗੈਸ

✗ 2. ਪੌਣ ਸ਼ਕਤੀ

✗ 3. ਸੂਰਜੀ ਊਰਜਾ

✓ 4. ਡੀਜ਼ਲ

Question ID : **63068078601**
Option 1 ID : **630680304453**
Option 2 ID : **630680304456**
Option 3 ID : **630680304454**
Option 4 ID : **630680304455**
Status : **Answered**
Chosen Option : **4**

Q.35 ਪੰਜਾਬ ਵਿੱਚ, ਚੱਪੜ ਚਿੜੀ ਵਿੱਚ ਹੇਠ ਲਿਖਿਆਂ ਵਿੱਚੋਂ ਕਿਹੜਾ ਭਵਨ-ਨਿਰਮਾਣ ਦਾ ਇੱਕ ਅਜੂਬਾ ਹੈ?

Ans
✗ 1. ਪੁਲ ਕੰਜਰੀ

✗ 2. ਲੋਧੀ ਕਿਲ੍ਹਾ

✓ 3. ਫਤਿਹ ਬੁਰਜ

✗ 4. ਜਗਤਜੀਤ ਸਿੰਘ ਪੈਲੇਸ

Question ID : **630680238449**
Option 1 ID : **630680924814**
Option 2 ID : **630680924815**
Option 3 ID : **630680924813**
Option 4 ID : **630680924812**
Status : **Not Answered**
Chosen Option : **--**

Website - www.dailyjobalert.in

Q.36 ਅਰੁਣਾਚਲ ਪ੍ਰਦੇਸ਼ ਦੀ ਕਿਹੜੀ ਜਨਜਾਤੀ ਤਾਪੁ ਨਾਚ ਕਰਦੀ ਹੈ?

Ans

✗ 1. ਨੋਕਟਸ ਜਨਜਾਤੀ (Noctes tribe)

✓ 2. ਆਦਿ ਜਨਜਾਤੀ (Adi tribe)

✗ 3. ਬੁਗਨ ਜਨਜਾਤੀ (Buguns tribe)

✗ 4. ਮੋਨਪਾ ਜਨਜਾਤੀ (Monpa tribe)

Question ID : **63068087811**
Option 1 ID : **630680340629**
Option 2 ID : **630680340632**
Option 3 ID : **630680340631**
Option 4 ID : **630680340630**
Status : **Not Answered**
Chosen Option : **--**

Q.37 Match the country with the year in which it announced its First Five-Year Plan and select the appropriate option.

Country	Year	
(a) India	(i)	1951
(b) Pakistan	(ii)	1953
(c) China	(iii)	1955

Ans

✗ 1. a-(iii); b-(ii); c-(i)

✗ 2. a-(ii); b-(i); c-(iii)

✗ 3. a-(i); b-(ii); c-(iii)

✓ 4. a-(i); b-(iii); c-(ii)

Question ID : **63068056722**
Option 1 ID : **630680218825**
Option 2 ID : **630680218823**
Option 3 ID : **630680218822**
Option 4 ID : **630680218824**
Status : **Answered**
Chosen Option : **4**

Q.38 ਨੈਸ਼ਨਲ ਇੰਸਟੀਚਿਊਟ ਫਾਰ ਇਮਪਾਵਰਮੈਂਟ ਆਫ ਪਰਸਨਜ਼ ਵਿਦ ਮਲਟੀਪਲ ਡਿਸਏਬਿਲਿਟੀਜ਼ (NIEPMD) ਦਾ ਮੁੱਖ ਦਫਤਰ ਕਿੱਥੇ ਸਥਿਤ ਹੈ?

Ans

✗ 1. ਭੋਪਾਲ

✗ 2. ਲਖਨਊ

✓ 3. ਚੇਨਈ

✗ 4. ਹੈਦਰਾਬਾਦ

Question ID : **630680238395**
Option 1 ID : **630680924599**
Option 2 ID : **630680924596**
Option 3 ID : **630680924598**
Option 4 ID : **630680924597**
Status : **Marked For Review**
Chosen Option : **4**

Website - www.dailyjobalert.in

Q.39 ਹੇਠ ਲਿਖਿਆਂ ਵਿੱਚੋਂ ਕਿਹੜੇ ਸਾਲ ਵਿੱਚ ਅਜੋਕੇ ਪਾਕਿਸਤਾਨ ਵਿੱਚ ਸਥਿਤ ਨਨਕਾਣਾ ਸਾਹਿਬ ਵਿੱਚ ਸਾਕਾ ਨਨਕਾਣਾ ਹੋਇਆ ਸੀ?

Ans
- ✗ 1. 1922
- ✗ 2. 1924
- ✗ 3. 1923
- ✓ 4. 1921

Question ID : **630680238486**
Option 1 ID : **630680924961**
Option 2 ID : **630680924963**
Option 3 ID : **630680924962**
Option 4 ID : **630680924960**
Status : **Answered**
Chosen Option : **2**

Q.40 ਹੇਠ ਦਿੱਤੇ ਕਥਨ ਵਿੱਚ ਕਿਸ ਨੈਤਿਕਤਾ ਦਾ ਹਵਾਲਾ ਦਿੱਤਾ ਗਿਆ ਹੈ, 'ਅਧਿਆਤਮਿਕ ਟੀਚੇ ਦੀ ਪ੍ਰਾਪਤੀ ਲਈ ਹੰਕਾਰਪੂਰਨ ਸੁੱਖਾਂ ਤੋਂ ਪਰਹੇਜ਼ ਕਰਨਾ ਸਹੀ ਕਿਰਿਆ ਹੈ'?

Ans
- ✗ 1. ਕਲਿਆਣਵਾਦ
- ✗ 2. ਉਪਯੋਗਤਾਵਾਦ
- ✓ 3. ਵੈਰਾਗਵਾਦ
- ✗ 4. ਉਦਾਰਵਾਦ

Question ID : **630680238350**
Option 1 ID : **630680924417**
Option 2 ID : **630680924419**
Option 3 ID : **630680924416**
Option 4 ID : **630680924418**
Status : **Answered**
Chosen Option : **3**

Q.41 **Which sportsperson created a national record in the men's 3000 m steeplechase at the Federation Cup held in March 2021?**

Ans
- ✗ 1. Murali Sreeshankar
- ✓ 2. Avinash Sable
- ✗ 3. Irfan Kolothum
- ✗ 4. Deena Ram

Question ID : **63068061978**
Option 1 ID : **630680239230**
Option 2 ID : **630680239232**
Option 3 ID : **630680239233**
Option 4 ID : **630680239231**
Status : **Not Answered**
Chosen Option : **--**

DAILY JOB Alert ਪੰਜਾਬ

Q.42 In January 2022, who became the first Black woman to appear on a US coin?

Ans
✔ 1. Maya Angelou
✘ 2. Toni Cade Bambara
✘ 3. Nellie Rathbone Bright
✘ 4. Anita Scott Coleman

Question ID : **63068090321**
Option 1 ID : **630680350059**
Option 2 ID : **630680350061**
Option 3 ID : **630680350060**
Option 4 ID : **630680350058**
Status : **Not Answered**
Chosen Option : **--**

Q.43 ਪੰਜਾਬ ਦੇ _____ ਨਾਚ ਦਾ ਇਤਿਹਾਸ ਸਾਨੂੰ 500 ਸਾਲ ਪਿੱਛੇ ਲੈ ਜਾਂਦਾ ਹੈ।

Ans
✘ 1. ਜਾਗੋ
✘ 2. ਡੰਕਾਰਾ
✔ 3. ਭੰਗੜਾ
✘ 4. ਝੂਮਰ

Question ID : **630680238603**
Option 1 ID : **630680925431**
Option 2 ID : **630680925429**
Option 3 ID : **630680925430**
Option 4 ID : **630680925428**
Status : **Answered**
Chosen Option : **3**

Q.44 ਪੰਜਾਬ ਦੇ ਲੁਧਿਆਣਾ ਵਿੱਚ ਲੱਗਣ ਵਾਲਾ ਜਰਗ ਦਾ ਮੇਲਾ ਕਿਸ ਦੇਵੀ ਨੂੰ ਸਮਰਪਿਤ ਹੈ?

Ans
✘ 1. ਕਾਲੀ
✘ 2. ਲਕਸ਼ਮੀ
✔ 3. ਸ਼ੀਤਲਾ
✘ 4. ਤ੍ਰਿਪੁਰਮਾਲਿਨੀ

Question ID : **630680238435**
Option 1 ID : **630680924759**
Option 2 ID : **630680924756**
Option 3 ID : **630680924758**
Option 4 ID : **630680924757**
Status : **Answered**
Chosen Option : **1**

DAILY JOB Alert ਪੰਜਾਬ

Q.45 A resolution for the removal of Chairman of Legislative Council of an Indian State shall not be moved unless at least _____ notice has been given of the intention to move the resolution.

Ans
✔ 1. 14 days
✘ 2. 27 days
✘ 3. 10 days
✘ 4. 20 days

Question ID : **630680114562**
Option 1 ID : **630680443615**
Option 2 ID : **630680443617**
Option 3 ID : **630680443614**
Option 4 ID : **630680443616**
Status : **Not Answered**
Chosen Option : **--**

Q.46 Under _____, the Parliament is empowered to make laws on any item included in the State List for the whole or any part of India while a proclamation of emergency is in operation.

Ans
✘ 1. Article 356
✔ 2. Article 250
✘ 3. Article 360
✘ 4. Article 223

Question ID : **63068051503**
Option 1 ID : **630680198249**
Option 2 ID : **630680198248**
Option 3 ID : **630680198246**
Option 4 ID : **630680198247**
Status : **Not Answered**
Chosen Option : **--**

Q.47 _____ ਨੇ ਸਿੱਖ ਗ੍ਰੰਥਾਂ ਨੂੰ ਅਪਡੇਟ ਕੀਤਾ ਅਤੇ ਕਰਤਾਰਪੁਰ ਪੋਥੀ ਤਿਆਰ ਕੀਤੀ, ਜਿਸ ਉੱਤੇ ਸਿੱਖਾਂ ਦੇ ਪਵਿੱਤਰ ਗ੍ਰੰਥ, ਆਦਿ ਗ੍ਰੰਥ, ਜਾਂ ਗੁਰੂ ਗ੍ਰੰਥ ਸਾਹਿਬ ("ਗੁਰੂ ਦੇ ਰੂਪ ਵਿੱਚ ਗ੍ਰੰਥ") ਆਧਾਰਿਤ ਹੈ।

Ans
✘ 1. ਗੁਰੂ ਅੰਗਦ ਦੇਵ ਜੀ
✔ 2. ਗੁਰੂ ਅਰਜਨ ਦੇਵ ਜੀ
✘ 3. ਗੁਰੂ ਅਮਰਦਾਸ ਜੀ
✘ 4. ਗੁਰੂ ਰਾਮਦਾਸ ਜੀ

Question ID : **630680238431**
Option 1 ID : **630680924740**
Option 2 ID : **630680924743**
Option 3 ID : **630680924741**
Option 4 ID : **630680924742**
Status : **Answered**
Chosen Option : **2**

Website - www.dailyjobalert.in

Q.48 Which Article of the Indian Constitution prohibits discrimination on grounds of religion, race, caste, sex or place of birth?

Ans
✗ 1. Article 19
✗ 2. Article 17
✓ 3. Article 15
✗ 4. Article 21

Question ID : **630680238370**
Option 1 ID : **630680924497**
Option 2 ID : **630680924498**
Option 3 ID : **630680924499**
Option 4 ID : **630680924496**
Status : **Not Answered**
Chosen Option : **--**

Q.49 Which of the following Articles of the Constitution of India deals with the organisation, composition and so on of the state legislature?

Ans
✗ 1. Articles 107 to 123
✗ 2. Articles 125 to 139
✓ 3. Articles 168 to 212
✗ 4. Articles 145 to 163

Question ID : **63068099223**
Option 1 ID : **630680385599**
Option 2 ID : **630680385598**
Option 3 ID : **630680385597**
Option 4 ID : **630680385596**
Status : **Not Answered**
Chosen Option : **--**

Q.50 Which of the following cities is situated on the mouth of the river Tapi?

Ans
✗ 1. Ankleshwar
✗ 2. Vadodara
✗ 3. Ahmedabad
✓ 4. Surat

Question ID : **63068054358**
Option 1 ID : **630680209475**
Option 2 ID : **630680209476**
Option 3 ID : **630680209474**
Option 4 ID : **630680209477**
Status : **Not Answered**
Chosen Option : **--**

Section : **Quantitative Aptitude and Numerical Skills**

Website - www.dailyjobalert.in

Q.51 **The area of a right-angled triangle is 150 m^2. If its base is 25 m, then find its perpendicular.**

Ans
✗ 1. 10 m
✓ 2. 12 m
✗ 3. 6 m
✗ 4. 5 m

Question ID : **630680103187**
Option 1 ID : **630680401007**
Option 2 ID : **630680401010**
Option 3 ID : **630680401008**
Option 4 ID : **630680401009**
Status : **Answered**
Chosen Option : **3**

Q.52 **The first two numbers are 15% and 25% more than the third number in respective order. The first number is what percentage of the second?**

Ans
✗ 1. 84%
✗ 2. 96%
✓ 3. 92%
✗ 4. 78%

Question ID : **630680120006**
Option 1 ID : **630680465058**
Option 2 ID : **630680465060**
Option 3 ID : **630680465059**
Option 4 ID : **630680465061**
Status : **Not Answered**
Chosen Option : **--**

Q.53 **A class of 25 students took a mathematics test. 15 students had an average score of 60. The remaining students had an average score of 80. What was the average score of the whole class?**

Ans
✗ 1. 58
✗ 2. 48
✓ 3. 68
✗ 4. 38

Question ID : **630680108191**
Option 1 ID : **630680419830**
Option 2 ID : **630680419831**
Option 3 ID : **630680419829**
Option 4 ID : **630680419828**
Status : **Not Answered**
Chosen Option : **--**

Website - www.dailyjobalert.in

Q.54 $14 - [32 \div \{36 - (34 - 24 \div \overline{14 - 2})\}]$ is equal to:

Ans
✔ 1. 6
✘ 2. 13
✘ 3. 8
✘ 4. 10

Question ID : **630680116212**
Option 1 ID : **630680450175**
Option 2 ID : **630680450177**
Option 3 ID : **630680450174**
Option 4 ID : **630680450176**
Status : **Answered**
Chosen Option : **1**

Q.55 **There are three partners A, B and C in a certain business. A puts in ₹2,000 for 5 months, B ₹1,200 for 6 months and C ₹2,500 for 3 months. Find the ratio of their shares in the profit.**

Ans
✘ 1. 100 : 82 : 85
✘ 2. 100 : 72 : 125
✘ 3. 100 : 92 : 95
✔ 4. 100 : 72 : 75

Question ID : **630680105253**
Option 1 ID : **630680409093**
Option 2 ID : **630680409091**
Option 3 ID : **630680409094**
Option 4 ID : **630680409092**
Status : **Answered**
Chosen Option : **2**

Q.56 **R walks 5.25 km in 1 hour and 10 minutes. His speed in km/h is _____.**

Ans
✘ 1. 4.75
✔ 2. 4.5
✘ 3. 5
✘ 4. 5.5

Question ID : **63068091910**
Option 1 ID : **630680356374**
Option 2 ID : **630680356377**
Option 3 ID : **630680356376**
Option 4 ID : **630680356375**
Status : **Answered**
Chosen Option : **2**

Website - www.dailyjobalert.in

Q.57 **A precious stone weighing 48 g costs ₹1,94,560. It accidentally breaks into two pieces having weights in the ratio of 3:5. If the price varies directly as the cube of the weights, then what is the loss (in ₹) incurred due to the breaking of the stone?**

Ans
✗ 1. ₹1,57,760
✗ 2. ₹1,47,860
✓ 3. ₹1,36,800
✗ 4. ₹1,54,630

Question ID : **630680136354**
Option 1 ID : **630680528062**
Option 2 ID : **630680528065**
Option 3 ID : **630680528063**
Option 4 ID : **630680528064**
Status : **Not Answered**
Chosen Option : **--**

Q.58 A solid metallic cylinder has radius 15.4 cm and height 45 cm. It is heated and drawn into a wire of diameter 4 mm. What is the length (to the nearest m) of the wire?

(Take $\pi = \frac{22}{7}$)

Ans
✗ 1. 2886
✓ 2. 2668
✗ 3. 2826
✗ 4. 2628

Question ID : **630680122804**
Option 1 ID : **630680476125**
Option 2 ID : **630680476123**
Option 3 ID : **630680476122**
Option 4 ID : **630680476124**
Status : **Not Answered**
Chosen Option : **--**

Q.59 Find what length of canvas $\frac{5}{6}$ m wide is required to make a conical tent 48 m in diameter and 7 m high. [Use $\pi = 3.14$]

Ans
✓ 1. 2260.8 m
✗ 2. 1570 m
✗ 3. 2250.8 m
✗ 4. 2280.8 m

Question ID : **63068099400**
Option 1 ID : **630680386305**
Option 2 ID : **630680386306**
Option 3 ID : **630680386304**
Option 4 ID : **630680386307**
Status : **Not Answered**
Chosen Option : **--**

Website - www.dailyjobalert.in

Q.60 $\left(\frac{81}{256}\right)^{-1/6}$ is equal to:

Ans

✗ 1. $\left(\frac{4}{3}\right)^{\frac{-2}{3}}$

✗ 2. $\frac{4}{3}$

✓ 3. $\left(\frac{4}{3}\right)^{\frac{2}{3}}$

✗ 4. $\left(\frac{1}{3}\right)^{\frac{2}{3}}$

Question ID : **63068076282**
Option 1 ID : **630680295235**
Option 2 ID : **630680295233**
Option 3 ID : **630680295236**
Option 4 ID : **630680295234**
Status : **Answered**
Chosen Option : **3**

Q.61 Simply the following.

$$\frac{(256)^{\frac{n}{4}} \times 4^{2n+1}}{16^{n} \times 4^{n-1}}$$

Ans

✗ 1. 25

✗ 2. 36

✗ 3. 9

✓ 4. 16

Question ID : **630680108179**
Option 1 ID : **630680419780**
Option 2 ID : **630680419781**
Option 3 ID : **630680419782**
Option 4 ID : **630680419783**
Status : **Answered**
Chosen Option : **4**

Website - www.dailyjobalert.in

Q.62 Find the value of Z if 293Z is divisible by 11.

Ans
✗ 1. 12
✗ 2. 28
✗ 3. 14
✓ 4. 7

Question ID : **630680101810**
Option 1 ID : **630680395601**
Option 2 ID : **630680395603**
Option 3 ID : **630680395602**
Option 4 ID : **630680395600**
Status : **Answered**
Chosen Option : **2**

Q.63 The LCM of 2,3 and 4 is:

Ans
✓ 1. 12
✗ 2. 18
✗ 3. 32
✗ 4. 24

Question ID : **63068078418**
Option 1 ID : **630680303733**
Option 2 ID : **630680303735**
Option 3 ID : **630680303736**
Option 4 ID : **630680303734**
Status : **Answered**
Chosen Option : **1**

Q.64

Simplify the following. $5-\left[\frac{3}{4}+\left\{3\frac{1}{2}-\left(0.7+\frac{1}{5}-\frac{1}{3}\right)\right\}\right]=?$

Ans
✗ 1. $\frac{69}{60}$
✓ 2. $\frac{79}{60}$
✗ 3. $\frac{29}{60}$
✗ 4. $\frac{19}{60}$

Question ID : **630680102024**
Option 1 ID : **630680396453**
Option 2 ID : **630680396452**
Option 3 ID : **630680396455**
Option 4 ID : **630680396454**
Status : **Answered**
Chosen Option : **2**

Website - www.dailyjobalert.in

Q.65 **If the mode of the data 78, 74, 62, 2x – 3, 57, 62, 57, 48 is 57, then what is the value of (x + 3)?**

Ans
✗ 1. 32
✓ 2. 33
✗ 3. 30
✗ 4. 34

Question ID : **630680196631**
Option 1 ID : **630680762824**
Option 2 ID : **630680762825**
Option 3 ID : **630680762823**
Option 4 ID : **630680762826**
Status : **Answered**
Chosen Option : **2**

Q.66 **The following table shows weights of 60 students in a class. Find the median weight of the students.**

Weight (Kg)	10	20	30	40	50	60	70
Number of Students	4	7	12	15	13	5	4

Ans
✗ 1. 50 kg
✗ 2. 60 kg
✗ 3. 30 kg
✓ 4. 40 kg

Question ID : **630680181982**
Option 1 ID : **630680705152**
Option 2 ID : **630680705153**
Option 3 ID : **630680705151**
Option 4 ID : **630680705150**
Status : **Answered**
Chosen Option : **4**

Q.67 **Nipa took a loan of ₹1,200 with simple interest for as many years as the rate of interest.If she paid ₹.432 as interest at the end of the loan period.What was the rate of interest?**

Ans
✓ 1. 6%
✗ 2. 9%
✗ 3. 12%
✗ 4. 3%

Question ID : **63068070182**
Option 1 ID : **630680271367**
Option 2 ID : **630680271368**
Option 3 ID : **630680271369**
Option 4 ID : **630680271366**
Status : **Not Answered**
Chosen Option : **--**

Website - www.dailyjobalert.in

Q.68 **Sukanya borrowed ₹20,000 from Anil at an interest rate of 12% per annum, compounded annually. What amount of money will Sukanya pay to Anil after 1.5 years to clear her loan?**

Ans
✔ 1. ₹23,744
✘ 2. ₹23,000
✘ 3. ₹24,000
✘ 4. ₹24,744

Question ID : **630680166251**
Option 1 ID : **630680643966**
Option 2 ID : **630680643965**
Option 3 ID : **630680643964**
Option 4 ID : **630680643967**
Status : **Not Answered**
Chosen Option : **--**

Q.69 **After allowing an 18% discount, the selling price of a table becomes ₹.492. The marked price is:**

Ans
✔ 1. ₹600
✘ 2. ₹150
✘ 3. ₹1,200
✘ 4. ₹300

Question ID : **630680205675**
Option 1 ID : **630680797514**
Option 2 ID : **630680797512**
Option 3 ID : **630680797511**
Option 4 ID : **630680797513**
Status : **Not Answered**
Chosen Option : **--**

Q.70 **The LCM of two numbers is 4620 and their HCF is 10. If one of these numbers is 330, then find the other number.**

Ans
✔ 1. 140
✘ 2. 318
✘ 3. 128
✘ 4. 279

Question ID : **630680102038**
Option 1 ID : **630680396510**
Option 2 ID : **630680396509**
Option 3 ID : **630680396511**
Option 4 ID : **630680396508**
Status : **Answered**
Chosen Option : **1**

Website - www.dailyjobalert.in

Q.71 **A man makes his upward journey at a speed of 16 km/h and downward journey at a speed of 28 km/h. What is his average speed for the entire journey (correct to two decimal places)?**

Ans
✗ 1. 19.36 km/h
✓ 2. 20.36 km/h
✗ 3. 16.36 km/h
✗ 4. 30.36 km/h

Question ID : **630680107369**
Option 1 ID : **630680416843**
Option 2 ID : **630680416840**
Option 3 ID : **630680416842**
Option 4 ID : **630680416841**
Status : **Answered**
Chosen Option : **2**

Q.72 **If the volume of the sphere is 8 times that of another sphere, then the ratio of their surface areas is:**

Ans
✗ 1. 8: 1
✗ 2. 2:3
✗ 3. 1:8
✓ 4. 4: 1

Question ID : **63068079591**
Option 1 ID : **630680308389**
Option 2 ID : **630680308392**
Option 3 ID : **630680308391**
Option 4 ID : **630680308390**
Status : **Answered**
Chosen Option : **3**

Q.73 **In 10 years, A will be twice as old as B was 10 years ago. If A is now 9 years older than B, the present age of B is ____.**

Ans
✗ 1. 29 years
✓ 2. 39 years
✗ 3. 19 years
✗ 4. 49 years

Question ID : **630680222899**
Option 1 ID : **630680865356**
Option 2 ID : **630680865357**
Option 3 ID : **630680865355**
Option 4 ID : **630680865358**
Status : **Not Answered**
Chosen Option : **--**

Website - www.dailyjobalert.in

Q.74 **S can complete a job in 12 days and U, in 18 days. S, U and K, working together, can complete the job in 6 days. In what time can K alone complete the job?**

Ans
- ✗ 1. 30 days
- ✗ 2. 20 days
- ✓ 3. 36 days
- ✗ 4. 24 days

Question ID : **630680138068**
Option 1 ID : **630680534548**
Option 2 ID : **630680534547**
Option 3 ID : **630680534549**
Option 4 ID : **630680534546**
Status : **Answered**
Chosen Option : **3**

Q.75 **Peter bought an item at a 20% discount on its original price. He sold it at a 30% increase on the price he bought it. The new sale price is by what percentage more than the original price?**

Ans
- ✗ 1. 8%
- ✗ 2. 7%
- ✗ 3. 9%
- ✓ 4. 4%

Question ID : **630680137649**
Option 1 ID : **630680532928**
Option 2 ID : **630680532926**
Option 3 ID : **630680532929**
Option 4 ID : **630680532927**
Status : **Not Answered**
Chosen Option : **--**

Q.76 If $x = \frac{0.3}{10}$, then the value of $\frac{5x+25x^2+125x^3}{0.1^3}$ is _____.

Ans
- ✗ 1. 17587.5
- ✗ 2. 17.875
- ✓ 3. 175.875
- ✗ 4. 1758.75

Question ID : **63068091895**
Option 1 ID : **630680356317**
Option 2 ID : **630680356314**
Option 3 ID : **630680356315**
Option 4 ID : **630680356316**
Status : **Not Answered**
Chosen Option : **--**

DAILY JOB Alert ਪੰਜਾਬ

Q.77 A, B and C are three partners of a company. They invested ₹3,000, ₹9,000 and ₹6,000, respectively. A gets 25% of the total profit to manage the company. The remaining profit is divided among A, B and C, in the ratio of their investments. At the end of the year, A's profit is ₹2,250 less than the sum of the profits of B and C. Find the share of C in the profit (in ₹).

Ans

✔ 1. 2250

✘ 2. 3735

✘ 3. 3375

✘ 4. 7375

Question ID : **630680121164**
Option 1 ID : **630680469621**
Option 2 ID : **630680469620**
Option 3 ID : **630680469618**
Option 4 ID : **630680469619**
Status : **Not Answered**
Chosen Option : **--**

Q.78 Simplify the following expression: $\frac{\frac{9}{4} \div \frac{7}{4} \times \frac{11}{4}}{\frac{9}{4} \div \frac{7}{4} \text{ of } \frac{11}{4}} \div 1.75$

Ans

✔ 1. $4\frac{9}{28}$

✘ 2. $9\frac{4}{75}$

✘ 3. $4\frac{9}{75}$

✘ 4. $9\frac{4}{28}$

Question ID : **630680116334**
Option 1 ID : **630680450643**
Option 2 ID : **630680450645**
Option 3 ID : **630680450644**
Option 4 ID : **630680450642**
Status : **Answered**
Chosen Option : **4**

Website - www.dailyjobalert.in

Q.79 A plane is drawn parallel to the base of a right circular cone dividing the altitude in the ratio of 2: 1 to chop off the conical part. The chopped off conical part is taller than the remaining portion. The ratio of the volume of the chopped off part and the remaining part is:

Ans
✔ 1. 8 : 19
✘ 2. 4 : 23
✘ 3. 1 : 26
✘ 4. 2 : 25

Question ID : **63068091882**
Option 1 ID : **630680356265**
Option 2 ID : **630680356264**
Option 3 ID : **630680356262**
Option 4 ID : **630680356263**
Status : **Not Answered**
Chosen Option : **--**

Q.80 The cost price of 1 pen is ₹750 and the selling price of 1 pen is ₹600. Find the loss percentage.

Ans
✔ 1. 20%
✘ 2. 30.45%
✘ 3. 25%
✘ 4. 21.42%

Question ID : **630680212925**
Option 1 ID : **630680825788**
Option 2 ID : **630680825790**
Option 3 ID : **630680825789**
Option 4 ID : **630680825787**
Status : **Answered**
Chosen Option : **2**

Section : **Punjabi Language**

Q.81 'ਜੋ ਜ਼ਖਮ ਸੱਜਰਾ ਹੋਵੇ'। ਲਈ ਇਕ ਸ਼ਬਦ ਦੀ ਚੋਣ ਕਰੋ:-

Ans
✔ 1. ਅੱਲਾ
✘ 2. ਬਹੁਤ ਪੁਰਾਣਾ
✘ 3. ਪੁਰਾਣਾ
✘ 4. ਨਵਾਂ

Question ID : **630680241286**
Option 1 ID : **630680935580**
Option 2 ID : **630680935581**
Option 3 ID : **630680935579**
Option 4 ID : **630680935582**
Status : **Answered**
Chosen Option : **4**

Website - www.dailyjobalert.in

Q.82 'ਹੀਰੇ ਜਵਾਹਰਾਤ ਦਾ ਵਪਾਰ ਕਰਨ ਵਾਲਾ' ਲਈ ਇਕ ਸ਼ਬਦ ਚੁਣੋ:-

Ans
✗ 1. ਸ਼ਾਹ
✓ 2. ਜੌਹਰੀ
✗ 3. ਦਰ
✗ 4. ਮੋਚੀ

Question ID : **630680241288**
Option 1 ID : **630680935589**
Option 2 ID : **630680935590**
Option 3 ID : **630680935587**
Option 4 ID : **630680935588**
Status : **Answered**
Chosen Option : **2**

Q.83 'ABORTION' ਸ਼ਬਦ ਦਾ ਪੰਜਾਬੀ ਅਨੁਵਾਦ ਚੁਣੋ:-

Ans
✗ 1. ਬੱਚਾ ਠਹਿਰਣਾ
✗ 2. ਜੋੜੇ ਬੱਚੇ
✓ 3. ਗਰਭਪਾਤ
✗ 4. ਵਿਦੇਸ਼ੀ ਧਰਤੀ

Question ID : **630680241290**
Option 1 ID : **630680935595**
Option 2 ID : **630680935597**
Option 3 ID : **630680935596**
Option 4 ID : **630680935598**
Status : **Answered**
Chosen Option : **3**

Q.84 'ਔਤਰਾ' ਦਾ ਵਿਰੋਧੀ ਸ਼ਬਦ ਕਿਹੜਾ ਹੈ:-

Ans
✗ 1. ਔਖਾ
✗ 2. ਆਮ
✗ 3. ਅੰਨ੍ਹਾਂ
✓ 4. ਸੌਤਰਾ

Question ID : **630680241285**
Option 1 ID : **630680935575**
Option 2 ID : **630680935577**
Option 3 ID : **630680935576**
Option 4 ID : **630680935578**
Status : **Answered**
Chosen Option : **4**

Website - www.dailyjobalert.in

Q.85 'ਅਕਾਸ਼' ਦਾ ਸਮਾਨਅਰਥੀ ਸ਼ਬਦ ਦੱਸੋ:-

Ans
1. ਬ੍ਰਹਿਮੰਡ
2. ਗਲੈਕਸੀ
3. ਅਸਮਾਨ
4. ਬੱਦਲ

Question ID : **630680241284**
Option 1 ID : **630680935573**
Option 2 ID : **630680935574**
Option 3 ID : **630680935571**
Option 4 ID : **630680935572**
Status : **Answered**
Chosen Option : **3**

Q.86 'ABSORB' ਸ਼ਬਦ ਦਾ ਪੰਜਾਬੀ ਅਨੁਵਾਦ ਚੁਣੋ:-

Ans
1. ਸਿਟਣਾ
2. ਸੋਖਣਾ
3. ਵਹਾਉਣਾ
4. ਪੀਣਾ

Question ID : **630680241291**
Option 1 ID : **630680935602**
Option 2 ID : **630680935599**
Option 3 ID : **630680935601**
Option 4 ID : **630680935600**
Status : **Answered**
Chosen Option : **2**

Q.87 'ਜੋ ਵਿਆਜ 'ਤੇ ਰੁਪਏ ਦਵੇ'। ਲਈ ਇਕ ਸ਼ਬਦ ਦੀ ਚੋਣ ਕਰੋ:-

Ans
1. ਜੌਹਰੀ
2. ਸਰਾਫ਼
3. ਸ਼ਾਹੂਕਾਰ
4. ਸਾਮੀ

Question ID : **630680241287**
Option 1 ID : **630680935584**
Option 2 ID : **630680935583**
Option 3 ID : **630680935585**
Option 4 ID : **630680935586**
Status : **Answered**
Chosen Option : **3**

Website - www.dailyjobalert.in

Q.88 'ਗੰਭੀਰ' ਸ਼ਬਦ ਦਾ ਸਮਾਨਾਰਥਕ ਹੈ:-

Ans
1. ਅਫਸੋਸ
2. ਉਦਾਸ
3. ਚਿੰਤਾ
4. ਸੰਜੀਦਾ

Question ID : **630680241282**
Option 1 ID : **630680935565**
Option 2 ID : **630680935564**
Option 3 ID : **630680935563**
Option 4 ID : **630680935566**
Status : **Answered**
Chosen Option : **4**

Q.89 ਉਹ ਸ਼ਬਦ, ਜਿਸ ਤੋਂ ਕੰਮ ਦੇ ਹੋਣ ਦਾ ਪਤਾ ਲੱਗਦਾ ਹੈ, ਉਸ ਨੂੰ ਕਿਹਾ ਜਾਂਦਾ ਹੈ:-

Ans
1. ਪੜਨਾਂਵ
2. ਕਿਰਿਆ
3. ਵਿਸ਼ੇਸ਼ਣ
4. ਨਾਂਵ

Question ID : **630680241276**
Option 1 ID : **630680935539**
Option 2 ID : **630680935540**
Option 3 ID : **630680935541**
Option 4 ID : **630680935542**
Status : **Answered**
Chosen Option : **2**

Q.90 ਜਿਹੜੇ ਚਿੰਨ੍ਹ ਸ਼ਬਦ ਦੇ ਉਚਾਰਣ ਵਿੱਚ ਸਹਾਇਤਾ ਕਰਦੇ ਹਨ ਉਨ੍ਹਾਂ ਨੂੰ ਕੀ ਕਿਹਾ ਜਾਂਦਾ ਹੈ?

Ans
1. ਮੁਕਤਾ
2. ਦੁੱਤ-ਅੱਖਰ
3. ਲਗਾਖਰ
4. ਲਗਾਂ-ਮਾਤਰਾਂ

Question ID : **630680241278**
Option 1 ID : **630680935548**
Option 2 ID : **630680935550**
Option 3 ID : **630680935549**
Option 4 ID : **630680935547**
Status : **Answered**
Chosen Option : **4**

Website - www.dailyjobalert.in

Q.91 ਹੇਠ ਲਿਖਿਆ ਵਿੱਚੋਂ ਕਿਹੜਾ ਸ਼ੁਧ ਸ਼ਬਦ ਹੈ:-

Ans
1. ਬੇਇਜਤ
2. ਬੇਤਜੀ
3. ਬੇਇੱਜ਼ਤੀ
4. ਬੇਜਿਤੀ

Question ID : **630680241280**
Option 1 ID : **630680935557**
Option 2 ID : **630680935558**
Option 3 ID : **630680935555**
Option 4 ID : **630680935556**
Status : **Answered**
Chosen Option : **3**

Q.92 ਜਿਹੜੇ ਸ਼ਬਦ ਕਿਸੇ ਖਾਸ ਪੁਰਖ ਜਾਂ ਸਥਾਨ ਲਈ ਵਰਤੇ ਜਾਣ, ਉਸ ਨੂੰ ਕਿਹਾ ਜਾਂਦਾ ਹੈ:

Ans
1. ਇੱਛਾ ਵਾਚਕ ਨਾਂਵ
2. ਭਾਵਵਾਚਕ ਨਾਂਵ
3. ਆਮ ਨਾਂਵ
4. ਖਾਸ ਨਾਂਵ

Question ID : **630680241277**
Option 1 ID : **630680935544**
Option 2 ID : **630680935545**
Option 3 ID : **630680935543**
Option 4 ID : **630680935546**
Status : **Answered**
Chosen Option : **4**

Q.93 ਹੇਠ ਲਿਖਿਆ ਵਿੱਚੋਂ ਕਿਹੜਾ ਸ਼ੁਧ ਸ਼ਬਦ ਹੈ:-

Ans
1. ਮੀਹਣਾ
2. ਮੇਣਾ
3. ਮਿਹਣਾ
4. ਮਿਹਨਾ

Question ID : **630680241281**
Option 1 ID : **630680935561**
Option 2 ID : **630680935559**
Option 3 ID : **630680935560**
Option 4 ID : **630680935562**
Status : **Answered**
Chosen Option : **3**

Website - www.dailyjobalert.in

Q.94 ਚਰਖਾ ਕੱਤਣ ਵਾਲੀ ਥਾਂ ਨੂੰ ਕਹਿੰਦੇ ਹਨ:-

Ans
1. ਤਬੇਲਾ
2. ਤੀਆਂ
3. ਸਾਂਝੀ
4. ਤ੍ਰਿੰਞਣ

Question ID : **630680241289**
Option 1 ID : **630680935591**
Option 2 ID : **630680935592**
Option 3 ID : **630680935594**
Option 4 ID : **630680935593**
Status : **Answered**
Chosen Option : **4**

Q.95 ਗੁਰਮੁਖੀ ਲਿੱਪੀ ਵਿਚ ਵਰਤੇ ਜਾਂਦੇ ਦੁੱਤ ਅੱਖਰਾਂ ਦੀ ਚੋਣ ਕਰੋ:-

Ans
1. ਹ, ਰ, ਵ
2. ਞ, ਵ, ਤ
3. ਹ, ਵ, ਸ
4. ਹ, ਰ, ਕ

Question ID : **630680241279**
Option 1 ID : **630680935553**
Option 2 ID : **630680935554**
Option 3 ID : **630680935552**
Option 4 ID : **630680935551**
Status : **Not Answered**
Chosen Option : **--**

Q.96 'ਅਸੰਭਵ' ਦਾ ਸਮਾਨਅਰਥੀ ਸ਼ਬਦ ਨਹੀਂ ਹੈ:-

Ans
1. ਔਖਾ
2. ਕਠਿਨ
3. ਵਿਥ
4. ਮੁਸ਼ਕਲ

Question ID : **630680241283**
Option 1 ID : **630680935567**
Option 2 ID : **630680935570**
Option 3 ID : **630680935569**
Option 4 ID : **630680935568**
Status : **Answered**
Chosen Option : **3**

Website - www.dailyjobalert.in

Comprehension:

ਪੰਜਾਬ ਦੇ ਬੜੇ ਸਾਹਿਤਕਾਰ ਹਨ। ਜਿਨ੍ਹਾਂ ਦਾ ਬੋਲੀ ਤੇ ਪੂਰੀ ਤਰ੍ਹਾਂ ਕਾਬੂ ਹੈ। ਪ੍ਰਿੰਸੀਪਲ ਤੇਜਾ ਸਿੰਘ ਪੰਜਾਬੀ ਦੇ ਉੱਘੇ ਸਾਹਿਤਕਾਰ ਹਨ। ਉਹਨਾਂ ਦੀਆਂ ਲਿਖਤਾਂ ਨੇ ਪੰਜਾਬੀ ਸਾਹਿਤ ਨੂੰ ਸ਼ਿਗਾਰਨ ਦਾ ਕੰਮ ਕੀਤਾ ਹੈ। ਪ੍ਰਿੰਸੀਪਲ ਤੇਜਾ ਸਿੰਘ ਜੀ ਦੀ ਵਾਰਤਕ ਸਾਹਿਤ ਨੂੰ ਬੜੀ ਮਹਾਨ ਦੇਣ ਹੈ। ਤੇਜਾ ਸਿੰਘ ਜੀ ਦੀ ਬੋਲੀ ਬੜੀ ਸਿੱਧੀ ਸਾਦੀ ਅਤੇ ਪ੍ਰਭਾਵਸ਼ਾਲੀ ਹੈ। ਸਾਡੇ ਹੋਰ ਵਾਰਤਕ ਲਿਖਾਰੀ ਜਾਂ ਤੇ ਆਪਣੀ ਲੇਖਣੀ ਤੇ ਬੌਧਿਕਤਾ ਦਾ ਭਾਰ ਪਾ ਦਿੰਦੇ ਹਨ ਜਾਂ ਉਪਭਾਵੁਕਤਾ ਤੋਂ ਕੰਮ ਲੈਂਦੇ ਹਨ। ਇਸ ਦੇ ਉਲਟ ਤੇਜਾ ਸਿੰਘ ਜੀ ਨਿੱਜੀ ਅਨੁਭਵਾਂ ਨੂੰ ਬੜੇ ਸਿੱਧੇ-ਸਾਦੇ ਸ਼ਬਦਾਂ ਵਿਚ ਪੜ੍ਹਨ ਵਾਲਿਆਂ ਨਾਲ ਸਾਂਝਾ ਕਰਦੇ ਹਨ। ਇੰਨ੍ਹਾਂ ਦੀ ਵਾਰਤਕ ਵਿੱਚ ਜਿਥੇ ਨਵਾਂ ਗਿਆਨ ਤੇ ਵਾਕਫ਼ੀਅਤ ਹੁੰਦੀ ਹੈ, ਉਥੇ ਇਨ੍ਹਾਂ ਦੇ ਨਿੱਜੀ ਤਜੁਰਬੇ ਵਾਰਤਕ ਵਿੱਚ ਕਹਾਣੀ ਜਿਹਾ ਸੁਆਦ ਭਰ ਦਿੰਦੇ ਹਨ। ਆਮ ਪੰਜਾਬੀ ਲੇਖਕ ਮਿਹਨਤ ਤੋਂ ਬਹੁਤ ਕਤਰਾਉਂਦੇ ਹਨ। ਕਈ ਅਜਿਹੇ ਹਨ ਜੋ ਛੇਤੀ- ਛੇਤੀ ਮਗਰੋਂ ਲਾਹੁਣ ਵਾਲਾ ਕੰਮ ਕਰਦੇ ਹਨ। ਉਹਨਾਂ ਦੀ ਲੇਖਣੀ ਦਾ ਪੱਧਰ ਇਸ ਤਰ੍ਹਾਂ ਬਹੁਤ ਨੀਵਾਂ ਹੋ ਜਾਂਦਾ ਹੈ। ਕਈ ਹੋਰ ਹਨ ਜੋ ਪੰਜਾਹ ਜਾਂ ਸੱਠ ਸਫੇ ਲਿਖਕੇ ਹੀ ਥੱਕ ਜਾਂਦੇ ਹਨ।

SubQuestion No : 97

Q.97 ਸਾਡੇ ਬਹੁਤ ਸਾਰੇ ਲੇਖਕਾਂ ਵਿੱਚ ਕੀ ਕਮਜ਼ੋਰੀਆਂ ਹਨ?

Ans

✔ 1. ਉਹਨਾਂ ਦੀ ਲੇਖਣੀ ਤੇ ਬੌਧਿਕਤਾ ਦਾ ਭਾਰ ਹੁੰਦਾ ਹੈ।

✘ 2. ਉਹ ਨਿੱਜ ਨੂੰ ਤਵੱਜੋ ਦਿੰਦੇ ਹਨ।

✘ 3. ਉਪ-ਭਾਸ਼ਾ ਦੀ ਵਰਤੋਂ

✘ 4. ਕੋਈ ਔਗੁਣ ਨਹੀਂ

Question ID : **630680241294**
Option 1 ID : **630680935609**
Option 2 ID : **630680935607**
Option 3 ID : **630680935610**
Option 4 ID : **630680935608**
Status : **Answered**
Chosen Option : **1**

Comprehension:

ਪੰਜਾਬ ਦੇ ਬੜੇ ਸਾਹਿਤਕਾਰ ਹਨ। ਜਿਨ੍ਹਾਂ ਦਾ ਬੋਲੀ ਤੇ ਪੂਰੀ ਤਰ੍ਹਾਂ ਕਾਬੂ ਹੈ। ਪ੍ਰਿੰਸੀਪਲ ਤੇਜਾ ਸਿੰਘ ਪੰਜਾਬੀ ਦੇ ਉੱਘੇ ਸਾਹਿਤਕਾਰ ਹਨ। ਉਹਨਾਂ ਦੀਆਂ ਲਿਖਤਾਂ ਨੇ ਪੰਜਾਬੀ ਸਾਹਿਤ ਨੂੰ ਸ਼ਿਗਾਰਨ ਦਾ ਕੰਮ ਕੀਤਾ ਹੈ। ਪ੍ਰਿੰਸੀਪਲ ਤੇਜਾ ਸਿੰਘ ਜੀ ਦੀ ਵਾਰਤਕ ਸਾਹਿਤ ਨੂੰ ਬੜੀ ਮਹਾਨ ਦੇਣ ਹੈ। ਤੇਜਾ ਸਿੰਘ ਜੀ ਦੀ ਬੋਲੀ ਬੜੀ ਸਿੱਧੀ ਸਾਦੀ ਅਤੇ ਪ੍ਰਭਾਵਸ਼ਾਲੀ ਹੈ। ਸਾਡੇ ਹੋਰ ਵਾਰਤਕ ਲਿਖਾਰੀ ਜਾਂ ਤੇ ਆਪਣੀ ਲੇਖਣੀ ਤੇ ਬੌਧਿਕਤਾ ਦਾ ਭਾਰ ਪਾ ਦਿੰਦੇ ਹਨ ਜਾਂ ਉਪਭਾਵੁਕਤਾ ਤੋਂ ਕੰਮ ਲੈਂਦੇ ਹਨ। ਇਸ ਦੇ ਉਲਟ ਤੇਜਾ ਸਿੰਘ ਜੀ ਨਿੱਜੀ ਅਨੁਭਵਾਂ ਨੂੰ ਬੜੇ ਸਿੱਧੇ-ਸਾਦੇ ਸ਼ਬਦਾਂ ਵਿਚ ਪੜ੍ਹਨ ਵਾਲਿਆਂ ਨਾਲ ਸਾਂਝਾ ਕਰਦੇ ਹਨ। ਇੰਨ੍ਹਾਂ ਦੀ ਵਾਰਤਕ ਵਿੱਚ ਜਿਥੇ ਨਵਾਂ ਗਿਆਨ ਤੇ ਵਾਕਫ਼ੀਅਤ ਹੁੰਦੀ ਹੈ, ਉਥੇ ਇਨ੍ਹਾਂ ਦੇ ਨਿੱਜੀ ਤਜੁਰਬੇ ਵਾਰਤਕ ਵਿੱਚ ਕਹਾਣੀ ਜਿਹਾ ਸੁਆਦ ਭਰ ਦਿੰਦੇ ਹਨ। ਆਮ ਪੰਜਾਬੀ ਲੇਖਕ ਮਿਹਨਤ ਤੋਂ ਬਹੁਤ ਕਤਰਾਉਂਦੇ ਹਨ। ਕਈ ਅਜਿਹੇ ਹਨ ਜੋ ਛੇਤੀ- ਛੇਤੀ ਮਗਰੋਂ ਲਾਹੁਣ ਵਾਲਾ ਕੰਮ ਕਰਦੇ ਹਨ। ਉਹਨਾਂ ਦੀ ਲੇਖਣੀ ਦਾ ਪੱਧਰ ਇਸ ਤਰ੍ਹਾਂ ਬਹੁਤ ਨੀਵਾਂ ਹੋ ਜਾਂਦਾ ਹੈ। ਕਈ ਹੋਰ ਹਨ ਜੋ ਪੰਜਾਹ ਜਾਂ ਸੱਠ ਸਫੇ ਲਿਖਕੇ ਹੀ ਥੱਕ ਜਾਂਦੇ ਹਨ।

SubQuestion No : 98

Q.98 ਉਪਰੋਕਤ ਪੈਰੇ ਦਾ ਸਿਰਲੇਖ ਹੈ:-

Ans

✘ 1. ਲੇਖਕਾਂ ਦਾ ਦੁਖਾਂਤ

✘ 2. ਪ੍ਰਭਾਵਸ਼ਾਲੀ ਸ਼ਬਦ

✘ 3. ਬੌਧਿਕ ਲੇਖਣੀ

✔ 4. ਪੰਜਾਬੀ ਬੋਲੀ ਦਾ ਸ਼ਿੰਗਾਰ ਪ੍ਰਿੰਸੀਪਲ ਤੇਜਾ ਸਿੰਘ

Question ID : **630680241296**
Option 1 ID : **630680935618**
Option 2 ID : **630680935617**
Option 3 ID : **630680935616**
Option 4 ID : **630680935615**
Status : **Answered**
Chosen Option : **3**

Website - www.dailyjobalert.in

Comprehension:

ਪੰਜਾਬ ਦੇ ਬੜੇ ਸਾਹਿਤਕਾਰ ਹਨ। ਜਿਨ੍ਹਾਂ ਦਾ ਬੋਲੀ ਤੇ ਪੂਰੀ ਤਰ੍ਹਾਂ ਕਾਬੂ ਹੈ। ਪ੍ਰਿੰਸੀਪਲ ਤੇਜਾ ਸਿੰਘ ਪੰਜਾਬੀ ਦੇ ਉੱਘੇ ਸਾਹਿਤਕਾਰ ਹਨ। ਉਹਨਾਂ ਦੀਆਂ ਲਿਖਤਾਂ ਨੇ ਪੰਜਾਬੀ ਸਾਹਿਤ ਨੂੰ ਸ਼ਿਗਾਰਨ ਦਾ ਕੰਮ ਕੀਤਾ ਹੈ। ਪ੍ਰਿੰਸੀਪਲ ਤੇਜਾ ਸਿੰਘ ਜੀ ਦੀ ਵਾਰਤਕ ਸਾਹਿਤ ਨੂੰ ਬੜੀ ਮਹਾਨ ਦੇਣ ਹੈ। ਤੇਜਾ ਸਿੰਘ ਜੀ ਦੀ ਬੋਲੀ ਬੜੀ ਸਿੱਧੀ ਸਾਦੀ ਅਤੇ ਪ੍ਰਭਾਵਸ਼ਾਲੀ ਹੈ। ਸਾਡੇ ਹੋਰ ਵਾਰਤਕ ਲਿਖਾਰੀ ਜਾਂ ਤੇ ਆਪਣੀ ਲੇਖਣੀ ਤੇ ਬੌਧਿਕਤਾ ਦਾ ਭਾਰ ਪਾ ਦਿੰਦੇ ਹਨ ਜਾਂ ਉਪਭਾਵੁਕਤਾ ਤੋਂ ਕੰਮ ਲੈਂਦੇ ਹਨ। ਇਸ ਦੇ ਉਲਟ ਤੇਜਾ ਸਿੰਘ ਜੀ ਨਿੱਜੀ ਅਨੁਭਵਾਂ ਨੂੰ ਬੜੇ ਸਿੱਧੇ-ਸਾਦੇ ਸ਼ਬਦਾਂ ਵਿਚ ਪੜ੍ਹਨ ਵਾਲਿਆਂ ਨਾਲ ਸਾਂਝਾ ਕਰਦੇ ਹਨ। ਇੰਨ੍ਹਾਂ ਦੀ ਵਾਰਤਕ ਵਿੱਚ ਜਿਥੇ ਨਵਾਂ ਗਿਆਨ ਤੇ ਵਾਕਫ਼ੀਅਤ ਹੁੰਦੀ ਹੈ, ਉਥੇ ਇਨ੍ਹਾਂ ਦੇ ਨਿੱਜੀ ਤਜੁਰਬੇ ਵਾਰਤਕ ਵਿੱਚ ਕਹਾਣੀ ਜਿਹਾ ਸੁਆਦ ਭਰ ਦਿੰਦੇ ਹਨ। ਆਮ ਪੰਜਾਬੀ ਲੇਖਕ ਮਿਹਨਤ ਤੋਂ ਬਹੁਤ ਕਤਰਾਉਂਦੇ ਹਨ। ਕਈ ਅਜਿਹੇ ਹਨ ਜੋ ਛੇਤੀ- ਛੇਤੀ ਮਗਰੋਂ ਲਾਹੁਣ ਵਾਲਾ ਕੰਮ ਕਰਦੇ ਹਨ। ਉਹਨਾਂ ਦੀ ਲੇਖਣੀ ਦਾ ਪੱਧਰ ਇਸ ਤਰ੍ਹਾਂ ਬਹੁਤ ਨੀਵਾਂ ਹੋ ਜਾਂਦਾ ਹੈ। ਕਈ ਹੋਰ ਹਨ ਜੋ ਪੰਜਾਹ ਜਾਂ ਸੱਠ ਸਫੇ ਲਿਖਕੇ ਹੀ ਥੱਕ ਜਾਂਦੇ ਹਨ।

SubQuestion No : 99

Q.99 ਤੇਜਾ ਸਿੰਘ ਦੀ ਵਾਰਤਕ ਵਿਚ ਹੁੰਦਾ ਹੈ:-

Ans
- ✗ 1. ਨਵਾਂ ਮੁਹਾਵਰਾ
- ✓ 2. ਨਵਾਂ ਗਿਆਨ ਤੇ ਵਾਕਫੀ
- ✗ 3. ਪਿਆਰ
- ✗ 4. ਲੋਕ ਸਾਹਿਤ

Question ID : **630680241295**
Option 1 ID : **630680935614**
Option 2 ID : **630680935612**
Option 3 ID : **630680935611**
Option 4 ID : **630680935613**
Status : **Answered**
Chosen Option : **2**

Comprehension:

ਪੰਜਾਬ ਦੇ ਬੜੇ ਸਾਹਿਤਕਾਰ ਹਨ। ਜਿਨ੍ਹਾਂ ਦਾ ਬੋਲੀ ਤੇ ਪੂਰੀ ਤਰ੍ਹਾਂ ਕਾਬੂ ਹੈ। ਪ੍ਰਿੰਸੀਪਲ ਤੇਜਾ ਸਿੰਘ ਪੰਜਾਬੀ ਦੇ ਉੱਘੇ ਸਾਹਿਤਕਾਰ ਹਨ। ਉਹਨਾਂ ਦੀਆਂ ਲਿਖਤਾਂ ਨੇ ਪੰਜਾਬੀ ਸਾਹਿਤ ਨੂੰ ਸ਼ਿਗਾਰਨ ਦਾ ਕੰਮ ਕੀਤਾ ਹੈ। ਪ੍ਰਿੰਸੀਪਲ ਤੇਜਾ ਸਿੰਘ ਜੀ ਦੀ ਵਾਰਤਕ ਸਾਹਿਤ ਨੂੰ ਬੜੀ ਮਹਾਨ ਦੇਣ ਹੈ। ਤੇਜਾ ਸਿੰਘ ਜੀ ਦੀ ਬੋਲੀ ਬੜੀ ਸਿੱਧੀ ਸਾਦੀ ਅਤੇ ਪ੍ਰਭਾਵਸ਼ਾਲੀ ਹੈ। ਸਾਡੇ ਹੋਰ ਵਾਰਤਕ ਲਿਖਾਰੀ ਜਾਂ ਤੇ ਆਪਣੀ ਲੇਖਣੀ ਤੇ ਬੌਧਿਕਤਾ ਦਾ ਭਾਰ ਪਾ ਦਿੰਦੇ ਹਨ ਜਾਂ ਉਪਭਾਵੁਕਤਾ ਤੋਂ ਕੰਮ ਲੈਂਦੇ ਹਨ। ਇਸ ਦੇ ਉਲਟ ਤੇਜਾ ਸਿੰਘ ਜੀ ਨਿੱਜੀ ਅਨੁਭਵਾਂ ਨੂੰ ਬੜੇ ਸਿੱਧੇ-ਸਾਦੇ ਸ਼ਬਦਾਂ ਵਿਚ ਪੜ੍ਹਨ ਵਾਲਿਆਂ ਨਾਲ ਸਾਂਝਾ ਕਰਦੇ ਹਨ। ਇੰਨ੍ਹਾਂ ਦੀ ਵਾਰਤਕ ਵਿੱਚ ਜਿਥੇ ਨਵਾਂ ਗਿਆਨ ਤੇ ਵਾਕਫ਼ੀਅਤ ਹੁੰਦੀ ਹੈ, ਉਥੇ ਇਨ੍ਹਾਂ ਦੇ ਨਿੱਜੀ ਤਜੁਰਬੇ ਵਾਰਤਕ ਵਿੱਚ ਕਹਾਣੀ ਜਿਹਾ ਸੁਆਦ ਭਰ ਦਿੰਦੇ ਹਨ। ਆਮ ਪੰਜਾਬੀ ਲੇਖਕ ਮਿਹਨਤ ਤੋਂ ਬਹੁਤ ਕਤਰਾਉਂਦੇ ਹਨ। ਕਈ ਅਜਿਹੇ ਹਨ ਜੋ ਛੇਤੀ- ਛੇਤੀ ਮਗਰੋਂ ਲਾਹੁਣ ਵਾਲਾ ਕੰਮ ਕਰਦੇ ਹਨ। ਉਹਨਾਂ ਦੀ ਲੇਖਣੀ ਦਾ ਪੱਧਰ ਇਸ ਤਰ੍ਹਾਂ ਬਹੁਤ ਨੀਵਾਂ ਹੋ ਜਾਂਦਾ ਹੈ। ਕਈ ਹੋਰ ਹਨ ਜੋ ਪੰਜਾਹ ਜਾਂ ਸੱਠ ਸਫੇ ਲਿਖਕੇ ਹੀ ਥੱਕ ਜਾਂਦੇ ਹਨ।

SubQuestion No : 100

Q.100 ਪ੍ਰਿੰਸੀਪਲ ਤੇਜਾ ਸਿੰਘ ਦੀ ਬੋਲੀ ਦੇ ਵਿਸ਼ੇਸ਼ ਗੁਣ ਕੀ ਹਨ?

Ans
- ✗ 1. ਬੌਧਿਕਤਾ ਵਾਲੀ
- ✗ 2. ਗੁੰਝਲਦਾਰ
- ✗ 3. ਉਪਭਾਵੁਕਤਾ ਵਾਲੀ
- ✓ 4. ਪ੍ਰਭਾਵਸ਼ਾਲੀ

Question ID : **630680241293**
Option 1 ID : **630680935603**
Option 2 ID : **630680935605**
Option 3 ID : **630680935604**
Option 4 ID : **630680935606**
Status : **Answered**
Chosen Option : **4**

Website - www.dailyjobalert.in

PUNJAB POLICE

Police to its last particle is duty

Exam Name	Recruitment for the post of Sub Inspector in Cadres of District and Armed Police 20th Jun to 31st Jul 2023 Paper I
Application No	www.dailyjobalert.in
Roll No	Telegram - Daily Job Alert Punjab
Applicant Name	instagram - Daily Job Alert Punjab
Exam Date	29/07/2023
Shift	12:30 PM - 2:30 PM
Subject	Sub Inspector Paper I

Section : **General Awareness**

Q.1 In which Article of the Constitution of India was the village panchayats considered a 'unit of self-government'?

Ans
- ✗ 1. Article 39
- ✗ 2. Article 41
- ✗ 3. Article 42
- ✓ 4. Article 40

Question ID : **63068050567**
Option 1 ID : **630680194582**
Option 2 ID : **630680194584**
Option 3 ID : **630680194585**
Option 4 ID : **630680194583**
Status : **Answered**
Chosen Option : **2**

Q.2 Which of the following Gods is also known as 'Nataraja'?

Ans
- ✗ 1. Vishnu
- ✗ 2. Krishna
- ✗ 3. Rama
- ✓ 4. Shiva

Question ID : **63068087698**
Option 1 ID : **630680340178**
Option 2 ID : **630680340180**
Option 3 ID : **630680340179**
Option 4 ID : **630680340177**
Status : **Answered**
Chosen Option : **1**

Website - www.dailyjobalert.in

Q.3 To celebrate the spiritual and cultural heritage of Amritsar, the Punjab Heritage and Tourism Promotion Board organises 'The Amritsar Sufi Festival'. This Sufi festival is celebrated in the month of _____.

Ans

✗ 1. January

✓ 2. February

✗ 3. March

✗ 4. April

Question ID : **630680238581**
Option 1 ID : **630680925340**
Option 2 ID : **630680925341**
Option 3 ID : **630680925342**
Option 4 ID : **630680925343**
Status : **Answered**
Chosen Option : **3**

Q.4 Ten Commandments (of Bible) are the source of guidance for Christians about their behaviour with the family, neighbours and society. What do you call this source of ethic in a private relationship?

Ans

✗ 1. Accountability

✓ 2. Divine command and religion

✗ 3. Social conditioning

✗ 4. Law of the land

Question ID : **630680238325**
Option 1 ID : **630680924318**
Option 2 ID : **630680924316**
Option 3 ID : **630680924317**
Option 4 ID : **630680924319**
Status : **Answered**
Chosen Option : **2**

Q.5 Who is the author of the original Natya Shastra written in Sanskrit?

Ans

✗ 1. Valmiki

✓ 2. Bharat Muni

✗ 3. Sukanya Rahman

✗ 4. Kalidas

Question ID : **630680160191**
Option 1 ID : **630680620137**
Option 2 ID : **630680620136**
Option 3 ID : **630680620138**
Option 4 ID : **630680620139**
Status : **Answered**
Chosen Option : **2**

DAILY JOB Alert

Q.6 How many classical languages are there in India, as of October 2021?

Ans
✗ 1. 4
✓ 2. 6
✗ 3. 12
✗ 4. 30

Question ID : **63068078075**
Option 1 ID : **630680302361**
Option 2 ID : **630680302364**
Option 3 ID : **630680302362**
Option 4 ID : **630680302363**
Status : **Answered**
Chosen Option : **2**

Q.7 The kingdom of Valabhi in Saurashtra was ruled by the _____who were vassals of the Guptas.

Ans
✗ 1. Gaudas
✗ 2. Hunas
✗ 3. Sakas
✓ 4. Maitrakas

Question ID : **63068053062**
Option 1 ID : **630680204353**
Option 2 ID : **630680204351**
Option 3 ID : **630680204350**
Option 4 ID : **630680204352**
Status : **Answered**
Chosen Option : **2**

Q.8 Identify the INCORRECT statement from the following options.

Ans
✗ 1. Initially, 14 languages were included in the Eighth Schedule of the Constitution of India.
✓ 2. Sindhi and Rajasthani languages were added in 1967 in the Eighth Schedule of the Constitution of India.
✗ 3. Konkani, Manipuri and Nepali languages were included in 1992 in the Eighth Schedule of the Constitution of India.
✗ 4. Bodo, Dogri, Maithili and Santhali languages were added in 2004 in the Eighth Schedule of the Constitution of India.

Question ID : **630680117194**
Option 1 ID : **630680454062**
Option 2 ID : **630680454063**
Option 3 ID : **630680454064**
Option 4 ID : **630680454065**
Status : **Answered**
Chosen Option : **3**

Website - www.dailyjobalert.in

Q.9 Which of the following rivers flows towards the west of India?

Ans
✔ 1. Narmada
✘ 2. Mahanadi
✘ 3. Subarnarekha
✘ 4. Godavari

Question ID : **630680115196**
Option 1 ID : **630680446150**
Option 2 ID : **630680446153**
Option 3 ID : **630680446152**
Option 4 ID : **630680446151**
Status : **Answered**
Chosen Option : **2**

Q.10 In India before entering upon the Office of the Governor, an oath or affirmation has to be made, in the presence of the _____.

Ans
✘ 1. Chief Justice of India
✘ 2. Nominated judge of the Supreme Court
✘ 3. President
✔ 4. Chief Justice of the High Court

Question ID : **630680100477**
Option 1 ID : **630680390605**
Option 2 ID : **630680390607**
Option 3 ID : **630680390604**
Option 4 ID : **630680390606**
Status : **Answered**
Chosen Option : **3**

Q.11 The World's first solar-heated tent was developed by _____.

Ans
✘ 1. Anil Kumar Mishra
✘ 2. Sumita Mitra
✔ 3. Sonam Wangchuk
✘ 4. Tejas Sidnal

Question ID : **630680113605**
Option 1 ID : **630680439956**
Option 2 ID : **630680439954**
Option 3 ID : **630680439955**
Option 4 ID : **630680439957**
Status : **Not Answered**
Chosen Option : **--**

Q.12 Jayaprakash Narayan, a famous freedom fighter, was one of the founding members of:

Ans
✘ 1. Revolutionary Socialist Party
✘ 2. Workers and Peasants Party
✘ 3. Communist Party of India
✔ 4. Congress Socialist Party

Question ID : **630680146026**
Option 1 ID : **630680565005**
Option 2 ID : **630680565002**
Option 3 ID : **630680565004**
Option 4 ID : **630680565003**
Status : **Answered**
Chosen Option : **2**

Website - www.dailyjobalert.in

Q.13 **At the time of independence, the _____ of trade was not diversified. It was largely confined to _____.**

Ans
✔ 1. direction, Great Britain
✘ 2. composition, coffee
✘ 3. direction, China
✘ 4. volume, ₹100 crore

Question ID : **63068059047**
Option 1 ID : **630680227812**
Option 2 ID : **630680227813**
Option 3 ID : **630680227811**
Option 4 ID : **630680227810**
Status : **Answered**
Chosen Option : **1**

Q.14 **When did India and Bangladesh sign an MoU on disaster management?**

Ans
✘ 1. January 2020
✔ 2. March 2021
✘ 3. January 2021
✘ 4. March 2020

Question ID : **63068050548**
Option 1 ID : **630680194509**
Option 2 ID : **630680194506**
Option 3 ID : **630680194507**
Option 4 ID : **630680194508**
Status : **Answered**
Chosen Option : **2**

Q.15 **Where was the 3rd National Open 400 m Championship organised in October 2021?**

Ans
✘ 1. Ambala
✔ 2. New Delhi
✘ 3. Mohali
✘ 4. Chandigarh

Question ID : **63068061954**
Option 1 ID : **630680239136**
Option 2 ID : **630680239134**
Option 3 ID : **630680239137**
Option 4 ID : **630680239135**
Status : **Answered**
Chosen Option : **3**

Website - www.dailyjobalert.in

Q.16 The remains of Buddhist stupa is found at which of the following villages in Punjab?

Ans

✗ 1. Akbarpur

✗ 2. Alampur

✓ 3. Sanghol

✗ 4. Aliwal

Question ID : **630680238595**
Option 1 ID : **630680925398**
Option 2 ID : **630680925396**
Option 3 ID : **630680925397**
Option 4 ID : **630680925399**
Status : **Answered**
Chosen Option : **2**

Q.17 In October 2014, the Government of India introduced a new scheme called _____, where Members of India's Parliament need to identify and develop one village from their constituencies.

Ans

✗ 1. Saansad Udaaharan Gram Yojana

✗ 2. Sustainable Village Development Scheme

✓ 3. Saansad Adarsh Gram Yojana

✗ 4. Upayukt Adarsh GaonYojana

Question ID : **63068056706**
Option 1 ID : **630680218760**
Option 2 ID : **630680218759**
Option 3 ID : **630680218758**
Option 4 ID : **630680218761**
Status : **Answered**
Chosen Option : **2**

Q.18 In which year famous Sufi Saint Mian Mir ji laid the foundation stone of Harmandir Sahib?

Ans

✗ 1. 1568

✗ 2. 1558

✓ 3. 1588

✗ 4. 1578

Question ID : **630680238557**
Option 1 ID : **630680925245**
Option 2 ID : **630680925244**
Option 3 ID : **630680925247**
Option 4 ID : **630680925246**
Status : **Answered**
Chosen Option : **1**

DAILY JOB Alert ਪੰਜਾਬ

Q.19 **In which of the following years was the Hindi name 'Rajya Sabha' adopted by the Council of States?**

Ans
- ✗ 1. 1951
- ✗ 2. 1952
- ✓ 3. 1954
- ✗ 4. 1953

Question ID : **63068099216**
Option 1 ID : **630680385568**
Option 2 ID : **630680385569**
Option 3 ID : **630680385571**
Option 4 ID : **630680385570**
Status : **Answered**
Chosen Option : **3**

Q.20 **To tackle the air pollution problem across the country, the Government of India launched the NCAP as a long-term programme. What does NCAP stand for?**

Ans
- ✗ 1. National Cooperation on Air Pollution
- ✗ 2. National Clean Agriculture Programme
- ✗ 3. National Conference on Agricultural Pollution
- ✓ 4. National Clean Air Programme

Question ID : **63068087970**
Option 1 ID : **630680341265**
Option 2 ID : **630680341266**
Option 3 ID : **630680341268**
Option 4 ID : **630680341267**
Status : **Answered**
Chosen Option : **4**

Q.21 The district of Fazilka is known for a special type of Jhumar which is an amalgamation of which two types of Jhumar dance?

Ans
- ✗ 1. Multani and Sutlej
- ✓ 2. Ravi and Sutlej
- ✗ 3. Chenab and Ravi
- ✗ 4. Sutlej and Taari

Question ID : **630680238465**
Option 1 ID : **630680924876**
Option 2 ID : **630680924878**
Option 3 ID : **630680924879**
Option 4 ID : **630680924877**
Status : **Answered**
Chosen Option : **1**

DAILY JOB Alert ਪੰਜਾਬ

Q.22 **How many people in developing countries did NOT have access to safe drinking water, according to the Human Development Report, 2016?**

Ans
✗ 1. 363 million
✗ 2. 662 million
✗ 3. 362 million
✓ 4. 663 million

Question ID : **63068049667**
Option 1 ID : **630680191100**
Option 2 ID : **630680191099**
Option 3 ID : **630680191101**
Option 4 ID : **630680191098**
Status : **Answered**
Chosen Option : **1**

Q.23 In which of the following years was a law passed that gave the Shiromani Gurdwara Parbandhak Committee the authority to manage Gurudwaras?

Ans
✓ 1. 1925
✗ 2. 1920
✗ 3. 1922
✗ 4. 1928

Question ID : **630680238494**
Option 1 ID : **630680924994**
Option 2 ID : **630680924992**
Option 3 ID : **630680924993**
Option 4 ID : **630680924995**
Status : **Answered**
Chosen Option : **1**

Q.24 **Asian Games 2030 will be hosted by which country?**

Ans
✓ 1. Qatar
✗ 2. Saudi Arabia
✗ 3. Japan
✗ 4. China

Question ID : **63068052723**
Option 1 ID : **630680202994**
Option 2 ID : **630680202995**
Option 3 ID : **630680202997**
Option 4 ID : **630680202996**
Status : **Answered**
Chosen Option : **1**

DAILY JOB Alert ਪੰਜਾਬ

Q.25 **As of 29th Dec 2021, who was the Chairman of Central Pollution Control Board, Ministry of Environment, Forest and Climate Change, Government of India?**

Ans
- ✗ 1. Dr. Prashant Gargava
- ✗ 2. Ashok Kashyap
- ✗ 3. PK Mishra
- ✓ 4. Tanmay Kumar

Question ID : **630680212774**
Option 1 ID : **630680825232**
Option 2 ID : **630680825233**
Option 3 ID : **630680825234**
Option 4 ID : **630680825231**
Status : **Answered**
Chosen Option : **4**

Q.26 **How can pelvic inflammatory diseases be caused?**

Ans
- ✓ 1. Through sexually transmitted infections
- ✗ 2. Through bacteria
- ✗ 3. Through fungus
- ✗ 4. Through surgeries

Question ID : **63068049676**
Option 1 ID : **630680191135**
Option 2 ID : **630680191134**
Option 3 ID : **630680191137**
Option 4 ID : **630680191136**
Status : **Answered**
Chosen Option : **2**

Q.27 **In 2014 members of _____ got minority status in India.**

Ans
- ✓ 1. Jainism
- ✗ 2. Buddhism
- ✗ 3. Hinduism
- ✗ 4. Judaism

Question ID : **630680183678**
Option 1 ID : **630680711721**
Option 2 ID : **630680711722**
Option 3 ID : **630680711723**
Option 4 ID : **630680711724**
Status : **Answered**
Chosen Option : **1**

Website - www.dailyjobalert.in

Q.28 Which mandalas of Rigveda Samhita are considered to be the earliest?

Ans
✗ 1. From 1 to 8
✗ 2. From 2 to 10
✓ 3. From 2 to 7
✗ 4. From 3 to 9

Question ID : **63068084282**
Option 1 ID : **630680326680**
Option 2 ID : **630680326683**
Option 3 ID : **630680326681**
Option 4 ID : **630680326682**
Status : **Answered**
Chosen Option : **2**

Q.29 After independence, how many times has the president's rule been imposed in Punjab (includes the erstwhile Punjab and East Punjab States Union or PEPSU) as of March 2023?

Ans
✗ 1. 5
✓ 2. 9
✗ 3. 1
✗ 4. 13

Question ID : **630680238425**
Option 1 ID : **630680924717**
Option 2 ID : **630680924718**
Option 3 ID : **630680924716**
Option 4 ID : **630680924719**
Status : **Answered**
Chosen Option : **2**

Q.30 Whose birth anniversary is celebrated as National Mathematics Day?

Ans
✗ 1. Aryabhata's
✗ 2. Dr. APJ Abdul Kalam's
✗ 3. Prof. CNR Rao's
✓ 4. Srinivasa Ramanujan's

Question ID : **630680139327**
Option 1 ID : **630680539384**
Option 2 ID : **630680539382**
Option 3 ID : **630680539385**
Option 4 ID : **630680539383**
Status : **Answered**
Chosen Option : **4**

Website - www.dailyjobalert.in

Q.31 In August 2021, India approved the first DNA based vaccine against COVID-19 for emergency use known as _____.

Ans
✗ 1. Covaxin
✗ 2. Sputnik V
✗ 3. Covishield
✓ 4. ZyCoV-D

Question ID : **630680100117**
Option 1 ID : **630680389164**
Option 2 ID : **630680389167**
Option 3 ID : **630680389166**
Option 4 ID : **630680389165**
Status : **Answered**
Chosen Option : **2**

Q.32 In 2019, the estimated GDP of China was around _____USD.

Ans
✓ 1. 14 trillion
✗ 2. 1 trillion
✗ 3. 3 trillion
✗ 4. 30 trillion

Question ID : **63068059109**
Option 1 ID : **630680228060**
Option 2 ID : **630680228058**
Option 3 ID : **630680228059**
Option 4 ID : **630680228061**
Status : **Answered**
Chosen Option : **3**

Q.33 Safdarjung's tomb is a sandstone and marble mausoleum in _____.

Ans
✓ 1. Delhi
✗ 2. Indore
✗ 3. Lucknow
✗ 4. Patna

Question ID : **630680164665**
Option 1 ID : **630680637772**
Option 2 ID : **630680637774**
Option 3 ID : **630680637773**
Option 4 ID : **630680637775**
Status : **Answered**
Chosen Option : **1**

Website - www.dailyjobalert.in

Q.34 **For which of his novels did Damon Galgut, a South African playwright and novelist,win the 2021 Booker Prize in November 2021?**

Ans
- ✗ 1. The Good Doctor
- ✗ 2. The Quarry
- ✗ 3. Arctic Summer
- ✓ 4. The Promise

Question ID : **63068068646**
Option 1 ID : **630680265274**
Option 2 ID : **630680265277**
Option 3 ID : **630680265276**
Option 4 ID : **630680265275**
Status : **Answered**
Chosen Option : **1**

Q.35 **In the second phase of the Green Revolution, _____, the HYV technology spread to a larger number of states and benefited more varieties of crops.**

Ans
- ✗ 1. mid-1980s to mid-1990s
- ✗ 2. mid-1960s to mid-1970s
- ✓ 3. mid-1970s to mid-1980s
- ✗ 4. mid-1950s to mid-1960s

Question ID : **63068056647**
Option 1 ID : **630680218524**
Option 2 ID : **630680218523**
Option 3 ID : **630680218522**
Option 4 ID : **630680218525**
Status : **Answered**
Chosen Option : **1**

Q.36 If someone believes in live-in relationship, to which aspect of morality does this refer?

Ans
- ✓ 1. Individual morality
- ✗ 2. Social morality
- ✗ 3. Religious morality
- ✗ 4. Natural morality

Question ID : **630680238355**
Option 1 ID : **630680924436**
Option 2 ID : **630680924438**
Option 3 ID : **630680924437**
Option 4 ID : **630680924439**
Status : **Answered**
Chosen Option : **1**

DAILY JOB Alert ਪੰਜਾਬ

Q.37 In which month is Hola Mohalla, initiated by Guru Gobind Singh ji, celebrated in Anandpur Sahib?

Ans

✗ 1. January

✗ 2. February

✓ 3. March

✗ 4. April

Question ID : **630680238586**
Option 1 ID : **630680925360**
Option 2 ID : **630680925361**
Option 3 ID : **630680925362**
Option 4 ID : **630680925363**
Status : **Answered**
Chosen Option : **1**

Q.38 Bachittar Natak is the compilation of which Sikh Guru?

Ans

✗ 1. Guru Hargobind Ji

✗ 2. Guru Angad Dev Ji

✗ 3. Guru Nanak Dev Ji

✓ 4. Guru Gobind Singh Ji

Question ID : **630680238577**
Option 1 ID : **630680925326**
Option 2 ID : **630680925325**
Option 3 ID : **630680925324**
Option 4 ID : **630680925327**
Status : **Answered**
Chosen Option : **4**

Q.39 Jastarwal Wetland, situated in the Block Harcha Chhina is in which district of Punjab?

Ans

✗ 1. Pathankot

✗ 2. Gurdaspur

✓ 3. Amritsar

✗ 4. Jalandhar

Question ID : **630680238597**
Option 1 ID : **630680925406**
Option 2 ID : **630680925405**
Option 3 ID : **630680925404**
Option 4 ID : **630680925407**
Status : **Answered**
Chosen Option : **1**

DAILY JOB Alert ਪੰਜਾਬ

Q.40 Mangrove forests are mainly found along the sea face of deltas created by which of the following rivers?

Ans
✗ 1. Narmada
✗ 2. Sindhu
✗ 3. Yamuna
✓ 4. Ganga

Question ID : **630680115194**
Option 1 ID : **630680446144**
Option 2 ID : **630680446145**
Option 3 ID : **630680446142**
Option 4 ID : **630680446143**
Status : **Answered**
Chosen Option : **4**

Q.41 Karewa formations are founded in the Kashmir Himalayas and are useful for the cultivation of _____ a local type of saffron.

Ans
✗ 1. Sargol
✓ 2. Zafran
✗ 3. Negin
✗ 4. Pushal

Question ID : **63068085271**
Option 1 ID : **630680330591**
Option 2 ID : **630680330590**
Option 3 ID : **630680330589**
Option 4 ID : **630680330588**
Status : **Answered**
Chosen Option : **2**

Q.42 Which of the following Articles implicitly laid down that the public should not write their names on the walls of historical monuments?

Ans
✗ 1. Article 52
✓ 2. Article 51A
✗ 3. Article 51
✗ 4. Article 53 (1)

Question ID : **630680176337**
Option 1 ID : **630680683578**
Option 2 ID : **630680683577**
Option 3 ID : **630680683576**
Option 4 ID : **630680683579**
Status : **Answered**
Chosen Option : **2**

Website - www.dailyjobalert.in

Q.43 What is the name of the online child-centric and illustrative complaint box launched by the Government of India, for reporting cases of child sexual abuse?

Ans
✗ 1. POSCO s-Box
✗ 2. POSCO t-Box
✗ 3. POSCO c-Box
✓ 4. POSCO e-Box

Question ID : **630680238389**
Option 1 ID : **630680924572**
Option 2 ID : **630680924575**
Option 3 ID : **630680924573**
Option 4 ID : **630680924574**
Status : **Answered**
Chosen Option : **1**

Q.44 The _____ was launched in 2015 by Prime Minister of India to ensure adequate robust sewage networks and water supply to bring about a transformation in urban areas.

Ans
✗ 1. National Urban Livelihood Mission
✗ 2. Swachh Bharat Mission-Urban 2.0
✓ 3. Atal Mission for Rejuvenation and Urban Transformation
✗ 4. National Rejuvenation and Urban Transportation

Question ID : **630680144710**
Option 1 ID : **630680559883**
Option 2 ID : **630680559885**
Option 3 ID : **630680559882**
Option 4 ID : **630680559884**
Status : **Answered**
Chosen Option : **3**

Q.45 According to the 44th Amendment, freedoms listed in Article 19 can be suspended only in case of:

Ans
✗ 1. elections in the region
✗ 2. proclamation of criminal emergency
✗ 3. proclamation of communal riots in the region
✓ 4. proclamation on the ground of war or external aggression

Question ID : **630680134741**
Option 1 ID : **630680521784**
Option 2 ID : **630680521782**
Option 3 ID : **630680521783**
Option 4 ID : **630680521785**
Status : **Answered**
Chosen Option : **4**

Website - www.dailyjobalert.in

Q.46 Under which of following Viceroys did the British army attack Tibet in 1903?

Ans
✗ 1. Lord Mountbatten
✗ 2. Lord Wavell
✗ 3. Lord Linlithgow
✓ 4. Lord Curzon

Question ID : **630680146038**
Option 1 ID : **630680565053**
Option 2 ID : **630680565051**
Option 3 ID : **630680565050**
Option 4 ID : **630680565052**
Status : **Answered**
Chosen Option : **4**

Q.47 Who among the following revolutionaries is called the 'Hero of Kakori Conspiracy'?

Ans
✗ 1. Chandra Shekhar Azad
✗ 2. Sukhdev
✗ 3. Bhagat Singh
✓ 4. Ram Prasad Bismil

Question ID : **630680164887**
Option 1 ID : **630680638629**
Option 2 ID : **630680638630**
Option 3 ID : **630680638628**
Option 4 ID : **630680638631**
Status : **Answered**
Chosen Option : **3**

Q.48 Maharaja Ranjit Singh was born in which city of British India?

Ans
✗ 1. Kasur
✗ 2. Lahore
✗ 3. Sargodha
✓ 4. Gujranwala

Question ID : **630680238480**
Option 1 ID : **630680924938**
Option 2 ID : **630680924936**
Option 3 ID : **630680924939**
Option 4 ID : **630680924937**
Status : **Answered**
Chosen Option : **4**

Website - www.dailyjobalert.in

Q.49 Where is the headquarters of the National Institute for the Empowerment of Persons with Visual Disabilities located?

Ans

✔ 1. Dehradun

✘ 2. Jaipur

✘ 3. Pune

✘ 4. Lucknow

Question ID : **630680238376**
Option 1 ID : **630680924520**
Option 2 ID : **630680924522**
Option 3 ID : **630680924523**
Option 4 ID : **630680924521**
Status : **Not Answered**
Chosen Option : **--**

Q.50 In India resolution for abolition or creation of Legislative Council has to be passed by a majority of not less than _____ of the members of the Assembly present and voting.

Ans

✘ 1. one-fourth

✔ 2. two-third

✘ 3. two-fourth

✘ 4. one-third

Question ID : **630680100482**
Option 1 ID : **630680390625**
Option 2 ID : **630680390626**
Option 3 ID : **630680390627**
Option 4 ID : **630680390624**
Status : **Answered**
Chosen Option : **2**

Section : **Quantitative Aptitude and Numerical Skills**

Q.51 If $2^a = 3^b = 6^c$, then find the value of $\frac{1}{a} + \frac{1}{b} - \frac{1}{c}$

Ans

✘ 1. 1

✔ 2. 0

✘ 3. $-\frac{1}{2}$

✘ 4. $\frac{1}{2}$

Question ID : **630680208122**
Option 1 ID : **630680806719**
Option 2 ID : **630680806720**
Option 3 ID : **630680806722**
Option 4 ID : **630680806721**
Status : **Answered**
Chosen Option : **3**

Website - www.dailyjobalert.in

Q.52 Which of the following is a recurring decimal?

Ans

✗ 1. $\frac{1}{2}$

✗ 2. $\frac{1}{10}$

✗ 3. $\frac{1}{5}$

✓ 4. $\frac{1}{3}$

Question ID : **630680103605**
Option 1 ID : **630680402664**
Option 2 ID : **630680402666**
Option 3 ID : **630680402665**
Option 4 ID : **630680402663**
Status : **Answered**
Chosen Option : **4**

Q.53 Two taps can fill a cistern in 18 hours and 24 hours, respectively. A third pipe can empty a full cistern in 21 hours. How long (in hours, correct to 1 decimal place) would it take to fill five-seventh of the empty tank if all three taps are operated simultaneously?

Ans

✗ 1. 18.3

✓ 2. 14.4

✗ 3. 15.5

✗ 4. 20.2

Question ID : **630680139484**
Option 1 ID : **630680540008**
Option 2 ID : **630680540009**
Option 3 ID : **630680540007**
Option 4 ID : **630680540006**
Status : **Answered**
Chosen Option : **4**

Q.54 A person crosses an 810-m-long street in 9 min. What is his speed (in km/h)?

Ans

✗ 1. 4.3

✓ 2. 5.4

✗ 3. 4.7

✗ 4. 5.8

Question ID : **630680103855**
Option 1 ID : **630680403653**
Option 2 ID : **630680403654**
Option 3 ID : **630680403651**
Option 4 ID : **630680403652**
Status : **Answered**
Chosen Option : **2**

Website - www.dailyjobalert.in

Q.55 Evaluate.

$$\sqrt[4]{\frac{0.3^2 + 0.4^2 + 0.5^2}{0.00003^2 + 0.00004^2 + 0.00005^2}}$$

Ans
✗ 1. 10
✓ 2. 100
✗ 3. 1000
✗ 4. 10000

Question ID : **63068076087**
Option 1 ID : **630680294454**
Option 2 ID : **630680294453**
Option 3 ID : **630680294455**
Option 4 ID : **630680294456**
Status : **Answered**
Chosen Option : **3**

Q.56 The volume of a right-circular cone is $314\frac{2}{7}$ cm^3. If the ratio of the base radius to the height is 5:12, then what is the slant height?

Ans
✗ 1. 7 cm
✗ 2. 12 cm
✓ 3. 13 cm
✗ 4. 10 cm

Question ID : **63068076126**
Option 1 ID : **630680294609**
Option 2 ID : **630680294611**
Option 3 ID : **630680294610**
Option 4 ID : **630680294612**
Status : **Answered**
Chosen Option : **1**

Q.57 What is the area of the triangle whose sides are 12 cm, 9 cm and 9 cm?

Ans
✗ 1. $36\sqrt{5}$ cm^2
✗ 2. 36 cm^2
✗ 3. 18 cm^2
✓ 4. $18\sqrt{5}$ cm^2

Question ID : **630680205677**
Option 1 ID : **630680797522**
Option 2 ID : **630680797520**
Option 3 ID : **630680797519**
Option 4 ID : **630680797521**
Status : **Answered**
Chosen Option : **4**

Website - www.dailyjobalert.in

Q.58 Kartik invested equal sums of money in two schemes. Under First scheme A, the compound interest rate was 10% p.a. and under scheme B, the compound interest rate was 12% p.a. The interest after 2 years on the sum invested in scheme A was ₹84. How much is the interest earned under scheme B after 2 years?

Ans
- ✗ 1. ₹165.00
- ✗ 2. ₹150.9
- ✗ 3. ₹163.79
- ✓ 4. ₹101.76

Question ID : **630680131683**
Option 1 ID : **630680509942**
Option 2 ID : **630680509945**
Option 3 ID : **630680509944**
Option 4 ID : **630680509943**
Status : **Answered**
Chosen Option : **4**

Q.59 The average score of a cricket batsman in three matches is 42 and in four other matches is 56. Find the average score in all seven matches.

Ans
- ✗ 1. 48
- ✗ 2. 52
- ✓ 3. 50
- ✗ 4. 54

Question ID : **630680108693**
Option 1 ID : **630680421700**
Option 2 ID : **630680421701**
Option 3 ID : **630680421702**
Option 4 ID : **630680421703**
Status : **Not Answered**
Chosen Option : **--**

Q.60 Rohit purchased a TV whose marked price is ₹86,700. If shopkeeper offered 23% discount on the MRP, then find the amount paid by Rohit for purchasing the TV.

Ans
- ✓ 1. ₹66,759
- ✗ 2. ₹73,579
- ✗ 3. ₹70,789
- ✗ 4. ₹68,769

Question ID : **630680115547**
Option 1 ID : **630680447541**
Option 2 ID : **630680447538**
Option 3 ID : **630680447539**
Option 4 ID : **630680447540**
Status : **Answered**
Chosen Option : **1**

Website - www.dailyjobalert.in

Q.61 **Find the mode of the following data.**

Variables	80	56	78	108	48
Frequency	7	3	12	10	5

Ans
✗ 1. 56
✗ 2. 108
✓ 3. 78
✗ 4. 80

Question ID : **630680198873**
Option 1 ID : **630680771221**
Option 2 ID : **630680771222**
Option 3 ID : **630680771219**
Option 4 ID : **630680771220**
Status : **Answered**
Chosen Option : **3**

Q.62 If $a = 0.25$ and $b = 0.75$, then the value of the expression $\frac{0.5}{b^2 - a^2}$ is _____.

Ans
✓ 1. 1
✗ 2. 0.25
✗ 3. 0.5
✗ 4. 0.75

Question ID : **63068094939**
Option 1 ID : **630680368454**
Option 2 ID : **630680368451**
Option 3 ID : **630680368452**
Option 4 ID : **630680368453**
Status : **Answered**
Chosen Option : **1**

Q.63 **A sum of ₹5,000 is divided into two parts. One part is deposited in bank A at simple interest at the rate of 5% per annum, and the other part is deposited in bank B at simple interest at 10% per annum. If the total annual interest received is ₹325, then the money deposited in bank A was:**

Ans
✗ 1. ₹5,000
✗ 2. ₹4,000
✓ 3. ₹3,500
✗ 4. ₹1,500

Question ID : **630680206367**
Option 1 ID : **630680800244**
Option 2 ID : **630680800246**
Option 3 ID : **630680800245**
Option 4 ID : **630680800243**
Status : **Answered**
Chosen Option : **3**

Website - www.dailyjobalert.in

Q.64 **Four bells ring at intervals of 10 minutes, 15 minutes, 25 minutes and 30 minutes, respectively. If all bells ring simultaneously at 10 a.m., at what time at the earliest will they ring again together?**

Ans
✗ 1. 12:00 p.m.
✗ 2. 12:15 p.m.
✓ 3. 12:30 p.m.
✗ 4. 1:00 p.m.

Question ID : **63068071083**
Option 1 ID : **630680274928**
Option 2 ID : **630680274926**
Option 3 ID : **630680274927**
Option 4 ID : **630680274929**
Status : **Answered**
Chosen Option : **3**

Q.65 **If the LCM and HCF of two numbers are 72 and 6, respectively. If one number is 18, then the second number is**

Ans
✓ 1. 24
✗ 2. 16
✗ 3. 28
✗ 4. 20

Question ID : **63068078420**
Option 1 ID : **630680303743**
Option 2 ID : **630680303742**
Option 3 ID : **630680303744**
Option 4 ID : **630680303741**
Status : **Answered**
Chosen Option : **1**

Q.66 **The length of the diagonal of a square is 12 cm. Find the area (in cm^2) of the square.**

Ans
✗ 1. 36
✗ 2. $72\sqrt{2}$
✓ 3. 72
✗ 4. 144

Question ID : **63068070337**
Option 1 ID : **630680271975**
Option 2 ID : **630680271974**
Option 3 ID : **630680271977**
Option 4 ID : **630680271976**
Status : **Answered**
Chosen Option : **3**

DAILY JOB Alert ਪੰਜਾਬ

Q.67 A cylindrical can is designed to have volume 2750/7 cubic units. The bottom costs double the top which in turn costs double the sides. If the height of the can is 4 times the diameter and the cost of the side is ₹14 square units, what is the cost of the can?

Ans
- ✗ 1. ₹5,250
- ✗ 2. ₹5,060
- ✗ 3. ₹5,500
- ✓ 4. ₹6,050

Question ID : **630680135139**
Option 1 ID : **630680523337**
Option 2 ID : **630680523335**
Option 3 ID : **630680523334**
Option 4 ID : **630680523336**
Status : **Not Answered**
Chosen Option : **--**

Q.68 A number is divided into two parts in such a way that one part is 10 more than the other. If the two parts are in the ratio 5 : 3, then find the number.

Ans
- ✗ 1. 32
- ✗ 2. 48
- ✓ 3. 40
- ✗ 4. 24

Question ID : **630680181995**
Option 1 ID : **630680705204**
Option 2 ID : **630680705203**
Option 3 ID : **630680705202**
Option 4 ID : **630680705205**
Status : **Answered**
Chosen Option : **3**

Q.69 A right angled sector of radius 4 cm is rolled up into a cone in such a way that the two binding radii are joined together. The curved surface area of the cone is:

Ans
- ✓ 1. 4π cm^2
- ✗ 2. 8π cm^2
- ✗ 3. 16π cm^2
- ✗ 4. 2π cm^2

Question ID : **630680103403**
Option 1 ID : **630680401855**
Option 2 ID : **630680401856**
Option 3 ID : **630680401857**
Option 4 ID : **630680401858**
Status : **Not Answered**
Chosen Option : **--**

Website - www.dailyjobalert.in

Q.70 Given that q = 8 for p = 2, p varies inversely as the square of q. Find the value of p when q = 16.

Ans

✗ 1. $\frac{1}{3}$

✗ 2. $\frac{3}{4}$

✗ 3. $\frac{5}{3}$

✓ 4. $\frac{1}{2}$

Question ID : **630680121575**
Option 1 ID : **630680471258**
Option 2 ID : **630680471259**
Option 3 ID : **630680471261**
Option 4 ID : **630680471260**
Status : **Not Answered**
Chosen Option : **--**

Q.71 If a sum of ₹80,000 is invested for a year at the rate of 4% per annum compounded half yearly, then find the compound interest.

Ans

✗ 1. ₹5,252

✗ 2. ₹2,525

✗ 3. ₹2,323

✓ 4. ₹3,232

Question ID : **630680206369**
Option 1 ID : **630680800253**
Option 2 ID : **630680800254**
Option 3 ID : **630680800252**
Option 4 ID : **630680800251**
Status : **Not Answered**
Chosen Option : **--**

Q.72 The loss incurred on selling 18 gift articles equals to the selling price of 7 gift articles. The loss percentage is:

Ans

✗ 1. 25%

✗ 2. 11%

✗ 3. 14%

✓ 4. 28%

Question ID : **630680131551**
Option 1 ID : **630680509450**
Option 2 ID : **630680509451**
Option 3 ID : **630680509452**
Option 4 ID : **630680509453**
Status : **Not Answered**
Chosen Option : **--**

Website - www.dailyjobalert.in

Q.73 **A room is being constructed in a house which can be finished in 12 days when 39 workers work for 5 hours a day. If 30 workers work for 6 hours a day, then in how many days will they complete the construction work?**

Ans

✗ 1. 14

✓ 2. 13

✗ 3. 16

✗ 4. 15

Question ID : **630680120889**
Option 1 ID : **630680468530**
Option 2 ID : **630680468533**
Option 3 ID : **630680468531**
Option 4 ID : **630680468532**
Status : **Answered**
Chosen Option : **2**

Q.74 **A number is increased by 10% and then again by 10%. By what percentage should the increased number be reduced to get the original number back (correct to two decimal places)?**

Ans

✓ 1. 17.36%

✗ 2. 15.35%

✗ 3. 16.35%

✗ 4. 14.35%

Question ID : **630680131465**
Option 1 ID : **630680509106**
Option 2 ID : **630680509108**
Option 3 ID : **630680509107**
Option 4 ID : **630680509109**
Status : **Answered**
Chosen Option : **1**

Q.75 The value of $\frac{3 \times 9^{n+1} - 9 \times 3^{2n}}{3 \times 3^{2n+3} - 9^{n+1}}$ is:

Ans

✗ 1. 1

✗ 2. $\frac{3}{4}$

✗ 3. $\frac{1}{2}$

✓ 4. $\frac{1}{4}$

Question ID : **63068070937**
Option 1 ID : **630680274359**
Option 2 ID : **630680274361**
Option 3 ID : **630680274358**
Option 4 ID : **630680274360**
Status : **Answered**
Chosen Option : **1**

Website - www.dailyjobalert.in

Q.76 If 5 litres of petrol costs ₹450, then what will be the cost for 8 litres?

Ans
✗ 1. ₹560
✗ 2. ₹640
✓ 3. ₹720
✗ 4. ₹820

Question ID : **630680121050**
Option 1 ID : **630680469169**
Option 2 ID : **630680469168**
Option 3 ID : **630680469167**
Option 4 ID : **630680469166**
Status : **Answered**
Chosen Option : **3**

Q.77 The speed of 4 different cars in a car race is given as 200 km/h, 210 km/h, 215 km/h and 225 km/h. Their weighted average speed with weights 1, 2, 3 and 4 is:

Ans
✓ 1. 216.5 km/h
✗ 2. 215.5 km/h
✗ 3. 215 km/h
✗ 4. 216 km/h

Question ID : **630680109041**
Option 1 ID : **630680423027**
Option 2 ID : **630680423025**
Option 3 ID : **630680423024**
Option 4 ID : **630680423026**
Status : **Answered**
Chosen Option : **1**

Q.78 Find the value of $\frac{4^{-1} \times 3^{3}}{8^{-2}}$.

Ans
✓ 1. 432
✗ 2. 256
✗ 3. 250
✗ 4. 438

Question ID : **630680102026**
Option 1 ID : **630680396461**
Option 2 ID : **630680396463**
Option 3 ID : **630680396460**
Option 4 ID : **630680396462**
Status : **Answered**
Chosen Option : **1**

Website - www.dailyjobalert.in

Q.79 **The weights (in kg) of 9 members of a school cricket team are 50, 63, x, 62, 64, 48, 51, 55, 48. If the mean weight is 56 kg, then the value of x is _____.**

Ans
✔ 1. 63
✘ 2. 48
✘ 3. 57
✘ 4. 64

Question ID : **630680206376**
Option 1 ID : **630680800281**
Option 2 ID : **630680800280**
Option 3 ID : **630680800282**
Option 4 ID : **630680800279**
Status : **Answered**
Chosen Option : **1**

Q.80 **Three numbers are in the ratio 3:4:5 and their LCM is 2400. Then, their HCF is:**

Ans
✔ 1. 40
✘ 2. 30
✘ 3. 16
✘ 4. 45

Question ID : **63068070928**
Option 1 ID : **630680274324**
Option 2 ID : **630680274322**
Option 3 ID : **630680274323**
Option 4 ID : **630680274325**
Status : **Answered**
Chosen Option : **1**

Section : **Punjabi Language**

Q.81 ਪੰਜਾਬੀ ਭਾਸ਼ਾ ਦੇ ਕਿੰਨੇ ਵਿਅੰਜਨ ਹਨ?

Ans
✘ 1. 31
✘ 2. 30
✘ 3. 34
✔ 4. 32

Question ID : **630680241300**
Option 1 ID : **630680935634**
Option 2 ID : **630680935631**
Option 3 ID : **630680935633**
Option 4 ID : **630680935632**
Status : **Answered**
Chosen Option : **3**

Website - www.dailyjobalert.in

Q.82 'ਬਹੁਤ ਵਧਾ ਚੜ੍ਹਾ ਕੇ ਕੀਤੀ ਗੱਲ'। ਲਈ ਇਕ ਸ਼ਬਦ ਹੈ:-

Ans
✗ 1. ਪਿਛੇਤੀ
✓ 2. ਅਤਿਕਥਨੀ
✗ 3. ਉਪਮਾ
✗ 4. ਦ੍ਰਿਸ਼ਟਾਂਤ

Question ID : **630680241308**
Option 1 ID : **630680935663**
Option 2 ID : **630680935666**
Option 3 ID : **630680935664**
Option 4 ID : **630680935665**
Status : **Answered**
Chosen Option : **2**

Q.83 ਕਮਰੇ ਵਿੱਚ ਆਰਾਮ ਨਾਲ ਬੈਠੇ, ਵਾਕ ਵਿੱਚ.....ਕਾਰਕ ਹੈ:-

Ans
✓ 1. ਅਧਿਕਰਨ ਕਾਰਕ
✗ 2. ਸਬੰਧਕ ਕਾਰਕ
✗ 3. ਕਰਮ ਕਾਰਕ
✗ 4. ਕਰਤਾ ਕਾਰਕ

Question ID : **630680241310**
Option 1 ID : **630680935673**
Option 2 ID : **630680935672**
Option 3 ID : **630680935671**
Option 4 ID : **630680935674**
Status : **Answered**
Chosen Option : **2**

Q.84 ਹੇਠ ਲਿਖਿਆ ਵਿੱਚੋਂ ਕਿਹੜਾ ਸ਼ਬਦ ਸ਼ੁੱਧ ਹੈ?

Ans
✓ 1. ਸ਼ਹਿਰ
✗ 2. ਸ਼ਹਰ
✗ 3. ਸਹਿਰ
✗ 4. ਸਿਹਰ

Question ID : **630680241301**
Option 1 ID : **630680935636**
Option 2 ID : **630680935635**
Option 3 ID : **630680935637**
Option 4 ID : **630680935638**
Status : **Answered**
Chosen Option : **1**

Website - www.dailyjobalert.in

Q.85 'ਪਾਪ' ਦਾ ਵਿਰੋਧੀ ਸ਼ਬਦ ਹੈ:-

Ans
✔ 1. ਪੁੰਨ
✘ 2. ਪ੍ਰੇਮ
✘ 3. ਚੰਗੇ ਕੰਮ
✘ 4. ਹਮਦਰਦੀ

Question ID : **630680241305**
Option 1 ID : **630680935653**
Option 2 ID : **630680935654**
Option 3 ID : **630680935651**
Option 4 ID : **630680935652**
Status : **Answered**
Chosen Option : **1**

Q.86 'ਓਟ' ਦਾ ਸਮਾਨਅਰਥੀ ਸ਼ਬਦ ਦੱਸੋ:-

Ans
✘ 1. ਉਂਧਾ
✘ 2. ਚੋਖਾ
✔ 3. ਆਸਰਾ
✘ 4. ਨੇਕ

Question ID : **630680241306**
Option 1 ID : **630680935656**
Option 2 ID : **630680935657**
Option 3 ID : **630680935655**
Option 4 ID : **630680935658**
Status : **Answered**
Chosen Option : **1**

Q.87 ਕਿਸੇ ਵਾਕ ਵਿੱਚ ਕੰਮ ਕਰਨ ਵਾਲੇ ਨੂੰ ਕੀ ਕਹਿੰਦੇ ਹਨ?

Ans
✘ 1. ਕਰਮ
✘ 2. ਕਿਰਿਆ
✔ 3. ਕਰਤਾ
✘ 4. ਪੁਰਖ

Question ID : **630680241298**
Option 1 ID : **630680935623**
Option 2 ID : **630680935624**
Option 3 ID : **630680935625**
Option 4 ID : **630680935626**
Status : **Answered**
Chosen Option : **3**

Website - www.dailyjobalert.in

Q.88 ਖੰਡੀ ਧੁਨੀ ਵਿਉਂਤ ਵਿੱਚ ਕੀ ਆਉਂਦਾ ਹੈ?

Ans
✗ 1. ਸੁਰ, ਵਿਅੰਜਨ
✗ 2. ਵਾਕ, ਸੁਰ
✗ 3. ਸੁਰ ਅਤੇ ਨਾਸਿਕਤਾ
✓ 4. ਸੁਰ, ਵਿਅੰਜਨ ਅਤੇ ਅਰਧ ਸੁਰ

Question ID : **630680241299**
Option 1 ID : **630680935627**
Option 2 ID : **630680935628**
Option 3 ID : **630680935629**
Option 4 ID : **630680935630**
Status : **Answered**
Chosen Option : **1**

Q.89 'ਗੁੱਝੇ ਭੇਦ ਲਭਣ ਵਾਲੇ ਨੂੰ' ਕੀ ਕਹਿੰਦੇ ਹਨ?

Ans
✓ 1. ਸੂਹੀਆ
✗ 2. ਸੂਰਮਾ
✗ 3. ਸਵਾਰਥੀ
✗ 4. ਸੇਵਾਦਾਰ

Question ID : **630680241307**
Option 1 ID : **630680935660**
Option 2 ID : **630680935659**
Option 3 ID : **630680935662**
Option 4 ID : **630680935661**
Status : **Answered**
Chosen Option : **1**

Q.90 'CHORD' ਸ਼ਬਦ ਦਾ ਪੰਜਾਬੀ ਅਨੁਵਾਦ ਚੁਣੋ:-

Ans
✗ 1. ਬਾਰ
✗ 2. ਜਾਰ
✓ 3. ਤਾਰ
✗ 4. ਵਾਰ

Question ID : **630680241312**
Option 1 ID : **630680935682**
Option 2 ID : **630680935681**
Option 3 ID : **630680935679**
Option 4 ID : **630680935680**
Status : **Not Answered**
Chosen Option : **--**

Website - www.dailyjobalert.in

Q.91 'ਸੁਰ' ਸ਼ਬਦ ਤੋਂ ਕੀ ਭਾਵ ਹੈ।

Ans
1. ਆਵਾਜ਼
2. ਬੋਲਣਾ
3. ਧੁਨੀ
4. ਗੀਤ

Question ID : **630680241303**
Option 1 ID : **630680935645**
Option 2 ID : **630680935646**
Option 3 ID : **630680935643**
Option 4 ID : **630680935644**
Status : **Answered**
Chosen Option : **4**

Q.92 ਪੰਜਾਬੀ ਦੀਆਂ ਸਵਰ ਧੁਨੀਆਂ ਹਨ:-

Ans
1. 8
2. 9
3. 7
4. 10

Question ID : **630680241309**
Option 1 ID : **630680935669**
Option 2 ID : **630680935667**
Option 3 ID : **630680935670**
Option 4 ID : **630680935668**
Status : **Answered**
Chosen Option : **1**

Q.93 'ਅੰਤਰ' ਸ਼ਬਦ ਦਾ ਸਮਾਨਅਰਥੀ ਸ਼ਬਦ ਨਹੀਂ ਹੈ:-

Ans
1. ਜਿਆਦਾ
2. ਭੇਦ
3. ਫਰਕ
4. ਵਿੱਥ

Question ID : **630680241304**
Option 1 ID : **630680935650**
Option 2 ID : **630680935647**
Option 3 ID : **630680935648**
Option 4 ID : **630680935649**
Status : **Answered**
Chosen Option : **1**

Website - www.dailyjobalert.in

Q.94 'CAUSE' ਸ਼ਬਦ ਦਾ ਪੰਜਾਬੀ ਅਨੁਵਾਦ ਚੁਣੋ:-

Ans
1. ਕਰਨਾ
2. ਸ੍ਰੋਤ
3. ਕਾਰਨ
4. ਕੀਤਾ ਗਿਆ

Question ID : **630680241311**
Option 1 ID : **630680935675**
Option 2 ID : **630680935677**
Option 3 ID : **630680935678**
Option 4 ID : **630680935676**
Status : **Answered**
Chosen Option : **3**

Q.95 ਹੇਠ ਲਿਖਿਆ ਵਿੱਚੋਂ ਕਿਹੜਾ ਸ਼ੁੱਧ ਸ਼ਬਦ ਹੈ?

Ans
1. ਗੰਦਪਰ੍ਹਭ
2. ਗੰਦਰ੍ਹਬ
3. ਗੰਦਰਬ
4. ਗੰਦਰਭ

Question ID : **630680241302**
Option 1 ID : **630680935642**
Option 2 ID : **630680935639**
Option 3 ID : **630680935640**
Option 4 ID : **630680935641**
Status : **Answered**
Chosen Option : **4**

Q.96 ਪੰਜਾਬੀ ਭਾਸ਼ਾ ਦੀ ਲਿੱਪੀ ਕਿਹੜੀ ਹੈ?

Ans
1. ਗੁਰਮੁਖੀ
2. ਰੋਮਨ
3. ਤਾਮਿਲ
4. ਦੇਵਨਾਗਰੀ

Question ID : **630680241297**
Option 1 ID : **630680935619**
Option 2 ID : **630680935621**
Option 3 ID : **630680935622**
Option 4 ID : **630680935620**
Status : **Answered**
Chosen Option : **4**

Website - www.dailyjobalert.in

Comprehension:

ਸੰਗਮਰਮਰ ਆਪਣੇ ਆਪ ਵਿੱਚ ਨਿਰੀ ਸੁੰਦਰ ਅਤੇ ਮੀਂਹ ਧੁੱਪ ਦਾ ਟਾਕਰਾ ਕਰਨ ਵਾਲੀ ਵਸਤੂ ਹੀ ਨਹੀਂ, ਸਗੋਂ ਜੋ ਕੋਮਲਤਾ, ਵੇਰਵਾ, ਮੁਲਾਇਮੀ ਅਤੇ ਸਵੱਛਤਾ ਸੰਗਮਰਮਰ ਵਿੱਚ ਪ੍ਰਗਟਾਈ ਜਾ ਸਕਦੀ ਹੈ। ਓਸ ਦੀ ਰੀਸ ਕੋਈ ਹੋਰ ਪੱਥਰ ਜਾਂ ਇਮਾਰਤੀ ਮਸਾਲਾ ਨਹੀਂ ਕਰ ਸਕਦਾ। ਸੰਗਮਰਮਰ ਦੀ ਘਾੜਤ ਜਾਂ ਬਣਤਰ ਵਿੱਚ ਕੁਝ ਵੀ ਲੁਕਿਆ ਨਹੀਂ ਰਹਿੰਦਾ, ਸੋ ਇਹ ਸ਼ੁੱਧ ਸੁੰਦਰਤਾ ਪ੍ਰਗਟਾਉਣ ਦਾ ਸਾਧਨ ਹੈ। ਯੂਨਾਨ ਵਿੱਚ ਪਹਿਲਾ ਪਹਿਲ ਸੰਗਮਰਮਰ ਦੀ ਵਰਤੋਂ ਮੰਦਰਾਂ ਅਤੇ ਹੋਰ ਇਮਾਰਤਾਂ ਲਈ ਹੋਈ ਮੰਨੀ ਜਾਂਦੀ ਹੈ। ਭਾਰਤ ਵਿੱਚ ਸੰਗਮਰਮਰ ਬਹੁਤ ਮਿਲ ਜਾਂਦਾ ਹੈ, ਇਸ ਲਈ ਇੱਥੋਂ ਦੀਆਂ ਕਈ ਸੁੰਦਰ ਇਮਾਰਤਾਂ ਲਈ ਇਸ ਦੀ ਵਰਤੋਂ ਕਰਨ ਦਾ ਰਿਵਾਜ਼ ਇਸ ਤੋਂ ਪਹਿਲਾਂ ਪੈ ਚੁੱਕਾ ਸੀ। ਤਾਜ ਮਹਲ ਤੇ ਮੋਤੀ ਮਸਜਿਦ ਅਤੇ ਹੋਰ ਅਨੇਕਾਂ ਮੰਦਰਾਂ ਵਿੱਚ ਇਸ ਦੇ ਪ੍ਰਯੋਗ ਨਾਲ ਜੋ ਸੁਖਸ਼ਮ ਤੇ ਕੋਮਲ ਪ੍ਰਭਾਵ ਉਤਪੰਨ ਹੋਇਆ ਸੀ, ਉਸ ਨੇ ਸ਼ਾਇਦ ਮਹਾਰਾਜਾ ਰਣਜੀਤ ਸਿੰਘ ਨੂੰ ਪ੍ਰੇਰਨਾ ਦਿੱਤੀ ਕਿ ਮੇਰੇ ਸਤਿਗੁਰਾਂ ਦਾ ਮੰਦਰ ਵੀ ਅਜਿਹਾ ਹੀ ਸੁੰਦਰ ਹੋਣਾ ਚਾਹੀਦਾ ਹੈ।

SubQuestion No : 97

Q.97 ਲੇਖਕ ਅਨੁਸਾਰ ਮਹਾਰਾਜਾ ਰਣਜੀਤ ਸਿੰਘ ਨੂੰ ਹਰਿਮੰਦਰ ਸਾਹਿਬ ਵਿਖੇ ਸੰਗਮਰਮਰ ਦੀ ਵਰਤੋਂ ਕਰਨ ਦੀ ਪ੍ਰੇਰਨਾ ਕਿਥੋਂ ਮਿਲੀ ?

Ans
✔ 1. ਤਾਜ ਮਹਿਲ ਤੇ ਮੋਤੀ ਮਸਜਿਦ ਤੋਂ
✘ 2. ਆਪਣੇ ਆਪ ਤੋਂ
✘ 3. ਅੰਗ੍ਰੇਜ਼ਾ ਤੋਂ
✘ 4. ਮੈਸੂਰ ਦੇ ਮਹਿਲ ਤੋਂ

Question ID : **630680241314**
Option 1 ID : **630680935685**
Option 2 ID : **630680935684**
Option 3 ID : **630680935683**
Option 4 ID : **630680935686**
Status : **Answered**
Chosen Option : **1**

Comprehension:

ਸੰਗਮਰਮਰ ਆਪਣੇ ਆਪ ਵਿੱਚ ਨਿਰੀ ਸੁੰਦਰ ਅਤੇ ਮੀਂਹ ਧੁੱਪ ਦਾ ਟਾਕਰਾ ਕਰਨ ਵਾਲੀ ਵਸਤੂ ਹੀ ਨਹੀਂ, ਸਗੋਂ ਜੋ ਕੋਮਲਤਾ, ਵੇਰਵਾ, ਮੁਲਾਇਮੀ ਅਤੇ ਸਵੱਛਤਾ ਸੰਗਮਰਮਰ ਵਿੱਚ ਪ੍ਰਗਟਾਈ ਜਾ ਸਕਦੀ ਹੈ। ਓਸ ਦੀ ਰੀਸ ਕੋਈ ਹੋਰ ਪੱਥਰ ਜਾਂ ਇਮਾਰਤੀ ਮਸਾਲਾ ਨਹੀਂ ਕਰ ਸਕਦਾ। ਸੰਗਮਰਮਰ ਦੀ ਘਾੜਤ ਜਾਂ ਬਣਤਰ ਵਿੱਚ ਕੁਝ ਵੀ ਲੁਕਿਆ ਨਹੀਂ ਰਹਿੰਦਾ, ਸੋ ਇਹ ਸ਼ੁੱਧ ਸੁੰਦਰਤਾ ਪ੍ਰਗਟਾਉਣ ਦਾ ਸਾਧਨ ਹੈ। ਯੂਨਾਨ ਵਿੱਚ ਪਹਿਲਾ ਪਹਿਲ ਸੰਗਮਰਮਰ ਦੀ ਵਰਤੋਂ ਮੰਦਰਾਂ ਅਤੇ ਹੋਰ ਇਮਾਰਤਾਂ ਲਈ ਹੋਈ ਮੰਨੀ ਜਾਂਦੀ ਹੈ। ਭਾਰਤ ਵਿੱਚ ਸੰਗਮਰਮਰ ਬਹੁਤ ਮਿਲ ਜਾਂਦਾ ਹੈ, ਇਸ ਲਈ ਇੱਥੋਂ ਦੀਆਂ ਕਈ ਸੁੰਦਰ ਇਮਾਰਤਾਂ ਲਈ ਇਸ ਦੀ ਵਰਤੋਂ ਕਰਨ ਦਾ ਰਿਵਾਜ਼ ਇਸ ਤੋਂ ਪਹਿਲਾਂ ਪੈ ਚੁੱਕਾ ਸੀ। ਤਾਜ ਮਹਲ ਤੇ ਮੋਤੀ ਮਸਜਿਦ ਅਤੇ ਹੋਰ ਅਨੇਕਾਂ ਮੰਦਰਾਂ ਵਿੱਚ ਇਸ ਦੇ ਪ੍ਰਯੋਗ ਨਾਲ ਜੋ ਸੁਖਸ਼ਮ ਤੇ ਕੋਮਲ ਪ੍ਰਭਾਵ ਉਤਪੰਨ ਹੋਇਆ ਸੀ, ਉਸ ਨੇ ਸ਼ਾਇਦ ਮਹਾਰਾਜਾ ਰਣਜੀਤ ਸਿੰਘ ਨੂੰ ਪ੍ਰੇਰਨਾ ਦਿੱਤੀ ਕਿ ਮੇਰੇ ਸਤਿਗੁਰਾਂ ਦਾ ਮੰਦਰ ਵੀ ਅਜਿਹਾ ਹੀ ਸੁੰਦਰ ਹੋਣਾ ਚਾਹੀਦਾ ਹੈ।

SubQuestion No : 98

Q.98 ਯੂਨਾਨ ਵਿੱਚ ਪਹਿਲਾਂ ਪਹਿਲ ਸੰਗਮਰਮਰ ਦੀ ਵਰਤੋਂ ਕਿਸ ਕੰਮ ਲਈ ਹੋਈ ਮੰਨੀ ਜਾਂਦੀ ਹੈ?

Ans
✘ 1. ਘਰਾਂ ਲਈ
✘ 2. ਬਜ਼ਾਰਾਂ ਲਈ
✔ 3. ਮੰਦਰਾਂ ਤੇ ਹੋਰ ਇਮਾਰਤਾਂ ਲਈ
✘ 4. ਫੁਟਪਾਥਾਂ ਲਈ

Question ID : **630680241315**
Option 1 ID : **630680935688**
Option 2 ID : **630680935689**
Option 3 ID : **630680935687**
Option 4 ID : **630680935690**
Status : **Answered**
Chosen Option : **3**

Website - www.dailyjobalert.in

Comprehension:

ਸੰਗਮਰਮਰ ਆਪਣੇ ਆਪ ਵਿੱਚ ਨਿਰੀ ਸੁੰਦਰ ਅਤੇ ਮੀਂਹ ਧੁੱਪ ਦਾ ਟਾਕਰਾ ਕਰਨ ਵਾਲੀ ਵਸਤੂ ਹੀ ਨਹੀਂ, ਸਗੋਂ ਜੋ ਕੋਮਲਤਾ, ਵੇਰਵਾ, ਮੁਲਾਇਮੀ ਅਤੇ ਸਵੱਛਤਾ ਸੰਗਮਰਮਰ ਵਿੱਚ ਪ੍ਰਗਟਾਈ ਜਾ ਸਕਦੀ ਹੈ। ਓਸ ਦੀ ਰੀਸ ਕੋਈ ਹੋਰ ਪੱਥਰ ਜਾਂ ਇਮਾਰਤੀ ਮਸਾਲਾ ਨਹੀਂ ਕਰ ਸਕਦਾ। ਸੰਗਮਰਮਰ ਦੀ ਘਾੜਤ ਜਾਂ ਬਣਤਰ ਵਿੱਚ ਕੁਝ ਵੀ ਲੁਕਿਆ ਨਹੀਂ ਰਹਿੰਦਾ, ਸੋ ਇਹ ਸ਼ੁੱਧ ਸੁੰਦਰਤਾ ਪ੍ਰਗਟਾਉਣ ਦਾ ਸਾਧਨ ਹੈ। ਯੂਨਾਨ ਵਿੱਚ ਪਹਿਲਾ ਪਹਿਲ ਸੰਗਮਰਮਰ ਦੀ ਵਰਤੋਂ ਮੰਦਰਾਂ ਅਤੇ ਹੋਰ ਇਮਾਰਤਾਂ ਲਈ ਹੋਈ ਮੰਨੀ ਜਾਂਦੀ ਹੈ। ਭਾਰਤ ਵਿੱਚ ਸੰਗਮਰਮਰ ਬਹੁਤ ਮਿਲ ਜਾਂਦਾ ਹੈ, ਇਸ ਲਈ ਇੱਥੋਂ ਦੀਆਂ ਕਈ ਸੁੰਦਰ ਇਮਾਰਤਾਂ ਲਈ ਇਸ ਦੀ ਵਰਤੋਂ ਕਰਨ ਦਾ ਰਿਵਾਜ਼ ਇਸ ਤੋਂ ਪਹਿਲਾਂ ਪੈ ਚੁੱਕਾ ਸੀ। ਤਾਜ ਮਹਲ ਤੇ ਮੋਤੀ ਮਸਜਿਦ ਅਤੇ ਹੋਰ ਅਨੇਕਾਂ ਮੰਦਰਾਂ ਵਿੱਚ ਇਸ ਦੇ ਪ੍ਰਯੋਗ ਨਾਲ ਜੋ ਸੂਖਸ਼ਮ ਤੇ ਕੋਮਲ ਪ੍ਰਭਾਵ ਉਤਪੰਨ ਹੋਇਆ ਸੀ, ਉਸ ਨੇ ਸ਼ਾਇਦ ਮਹਾਰਾਜਾ ਰਣਜੀਤ ਸਿੰਘ ਨੂੰ ਪ੍ਰੇਰਨਾ ਦਿੱਤੀ ਕਿ ਮੇਰੇ ਸਤਿਗੁਰਾਂ ਦਾ ਮੰਦਰ ਵੀ ਅਜਿਹਾ ਹੀ ਸੁੰਦਰ ਹੋਣਾ ਚਾਹੀਦਾ ਹੈ।

SubQuestion No : 99

Q.99 ਸੰਗਮਰਮਰ ਕੀ ਪ੍ਰਗਟਾਉਣ ਦਾ ਸਾਧਨ ਹੈ?

Ans
✔ 1. ਸੁੰਦਰਤਾ
✘ 2. ਨਖਰਾ
✘ 3. ਹਿਮਾਕਤ
✘ 4. ਪ੍ਰੇਮ

Question ID : **630680241317**
Option 1 ID : **630680935698**
Option 2 ID : **630680935695**
Option 3 ID : **630680935696**
Option 4 ID : **630680935697**
Status : **Answered**
Chosen Option : **1**

Comprehension:

ਸੰਗਮਰਮਰ ਆਪਣੇ ਆਪ ਵਿੱਚ ਨਿਰੀ ਸੁੰਦਰ ਅਤੇ ਮੀਂਹ ਧੁੱਪ ਦਾ ਟਾਕਰਾ ਕਰਨ ਵਾਲੀ ਵਸਤੂ ਹੀ ਨਹੀਂ, ਸਗੋਂ ਜੋ ਕੋਮਲਤਾ, ਵੇਰਵਾ, ਮੁਲਾਇਮੀ ਅਤੇ ਸਵੱਛਤਾ ਸੰਗਮਰਮਰ ਵਿੱਚ ਪ੍ਰਗਟਾਈ ਜਾ ਸਕਦੀ ਹੈ। ਓਸ ਦੀ ਰੀਸ ਕੋਈ ਹੋਰ ਪੱਥਰ ਜਾਂ ਇਮਾਰਤੀ ਮਸਾਲਾ ਨਹੀਂ ਕਰ ਸਕਦਾ। ਸੰਗਮਰਮਰ ਦੀ ਘਾੜਤ ਜਾਂ ਬਣਤਰ ਵਿੱਚ ਕੁਝ ਵੀ ਲੁਕਿਆ ਨਹੀਂ ਰਹਿੰਦਾ, ਸੋ ਇਹ ਸ਼ੁੱਧ ਸੁੰਦਰਤਾ ਪ੍ਰਗਟਾਉਣ ਦਾ ਸਾਧਨ ਹੈ। ਯੂਨਾਨ ਵਿੱਚ ਪਹਿਲਾ ਪਹਿਲ ਸੰਗਮਰਮਰ ਦੀ ਵਰਤੋਂ ਮੰਦਰਾਂ ਅਤੇ ਹੋਰ ਇਮਾਰਤਾਂ ਲਈ ਹੋਈ ਮੰਨੀ ਜਾਂਦੀ ਹੈ। ਭਾਰਤ ਵਿੱਚ ਸੰਗਮਰਮਰ ਬਹੁਤ ਮਿਲ ਜਾਂਦਾ ਹੈ, ਇਸ ਲਈ ਇੱਥੋਂ ਦੀਆਂ ਕਈ ਸੁੰਦਰ ਇਮਾਰਤਾਂ ਲਈ ਇਸ ਦੀ ਵਰਤੋਂ ਕਰਨ ਦਾ ਰਿਵਾਜ਼ ਇਸ ਤੋਂ ਪਹਿਲਾਂ ਪੈ ਚੁੱਕਾ ਸੀ। ਤਾਜ ਮਹਲ ਤੇ ਮੋਤੀ ਮਸਜਿਦ ਅਤੇ ਹੋਰ ਅਨੇਕਾਂ ਮੰਦਰਾਂ ਵਿੱਚ ਇਸ ਦੇ ਪ੍ਰਯੋਗ ਨਾਲ ਜੋ ਸੂਖਸ਼ਮ ਤੇ ਕੋਮਲ ਪ੍ਰਭਾਵ ਉਤਪੰਨ ਹੋਇਆ ਸੀ, ਉਸ ਨੇ ਸ਼ਾਇਦ ਮਹਾਰਾਜਾ ਰਣਜੀਤ ਸਿੰਘ ਨੂੰ ਪ੍ਰੇਰਨਾ ਦਿੱਤੀ ਕਿ ਮੇਰੇ ਸਤਿਗੁਰਾਂ ਦਾ ਮੰਦਰ ਵੀ ਅਜਿਹਾ ਹੀ ਸੁੰਦਰ ਹੋਣਾ ਚਾਹੀਦਾ ਹੈ।

SubQuestion No : 100

Q.100 ਕਿਹੜੀ ਚੀਜ਼ ਦੀ ਰੀਸ ਕੋਈ ਪੱਥਰ ਜਾਂ ਇਮਾਰਤੀ ਮਸਾਲਾ ਨਹੀਂ ਕਰ ਸਕਦਾ?

Ans
✔ 1. ਸੰਗਮਰਮਰ
✘ 2. ਟਾਇਲਾਂ
✘ 3. ਸੀਮੈਂਟ
✘ 4. ਇੱਟਾਂ

Question ID : **630680241316**
Option 1 ID : **630680935691**
Option 2 ID : **630680935693**
Option 3 ID : **630680935694**
Option 4 ID : **630680935692**
Status : **Answered**
Chosen Option : **1**

Website - www.dailyjobalert.in

PUNJAB POLICE

Police to its last particle is duty

Exam Name	Recruitment for the post of Sub Inspector in Cadres of District and Armed Police 20th Jun to 31st Jul 2023 S2 Paper II and III
Application No	www.dailyjobalert.in
Roll No	Telegram - Daily Job Alert Punjab
Applicant Name	instagram - Daily Job Alert Punjab
Exam Date	29/07/2023
Shift	4:00 PM - 7:00 PM
Subject	Sub Inspector Paper II and III

Section : **Logical and Analytical Reasoning and Data Interpretation**

Q.1 Following a certain logic, if 11 is related to 30 and 14 is related to 39, to which of the following is 17 related?

Ans
✗ 1. 45
✓ 2. 48
✗ 3. 62
✗ 4. 51

Question ID : **63068057021**
Option 1 ID : **630680220017**
Option 2 ID : **630680220015**
Option 3 ID : **630680220016**
Option 4 ID : **630680220014**
Status : **Answered**
Chosen Option : **2**

Q.2 In a code language, 'PLACE' is coded as ECFLP and 'FINER' is coded as RESIF. How will 'CABLE' be coded in the same language?

Ans
✗ 1. ANGLE
✗ 2. DANGL
✗ 3. GLADE
✓ 4. ELGAC

Question ID : **630680147817**
Option 1 ID : **630680571984**
Option 2 ID : **630680571985**
Option 3 ID : **630680571982**
Option 4 ID : **630680571983**
Status : **Answered**
Chosen Option : **4**

Website - www.dailyjobalert.in

Q.3 **FOREIGN is related to JSVIMKR in a certain way based on the English alphabetical order. In the same way, HISTORY is related to LMWXSVC. To which of the following is JUSTIFY related, following the same logic?**

Ans
✗ 1. NYMWXJC
✗ 2. NWMYXJC
✗ 3. NJYWXMM
✓ 4. NYWXMJC

Question ID : **63068056947**
Option 1 ID : **630680219718**
Option 2 ID : **630680219719**
Option 3 ID : **630680219721**
Option 4 ID : **630680219720**
Status : **Answered**
Chosen Option : **4**

Q.4 **Select the option that will come in place of the question mark (?)in the given series in order to make it logically complete.**
CF6, IL12, OR18, ?

Ans
✓ 1. UX24
✗ 2. TW25
✗ 3. UY24
✗ 4. VZ30

Question ID : **630680107952**
Option 1 ID : **630680418990**
Option 2 ID : **630680418989**
Option 3 ID : **630680418988**
Option 4 ID : **630680418991**
Status : **Answered**
Chosen Option : **1**

Q.5 **Three of the given letter-cluster pairs are alike in a certain way and thus form a group. Which is the one that does NOT belong to that group?**

Ans
✓ 1. CODING-XLWRNT
✗ 2. LEGACY-OVTZXB
✗ 3. GRASP-TIZHK
✗ 4. DISK-WRHP

Question ID : **63068091192**
Option 1 ID : **630680353525**
Option 2 ID : **630680353523**
Option 3 ID : **630680353522**
Option 4 ID : **630680353524**
Status : **Answered**
Chosen Option : **1**

Website - www.dailyjobalert.in

Q.6 **What should come in place of ? in the given series in order to make it logically complete?**
BD7, FH10, KM13, QS16, ?

Ans
✗ 1. WY19
✓ 2. XZ19
✗ 3. WZ21
✗ 4. XY18

Question ID : **630680109262**
Option 1 ID : **630680423828**
Option 2 ID : **630680423831**
Option 3 ID : **630680423830**
Option 4 ID : **630680423829**
Status : **Answered**
Chosen Option : **1**

Q.7 **What should come in place of the question mark (?) in the given series?**
4, 8, 14, 22, ?

Ans
✗ 1. 30
✗ 2. 29
✓ 3. 32
✗ 4. 36

Question ID : **630680122728**
Option 1 ID : **630680475825**
Option 2 ID : **630680475822**
Option 3 ID : **630680475823**
Option 4 ID : **630680475824**
Status : **Answered**
Chosen Option : **3**

Q.8 **What should come in place of the question mark (?) in the given series?**
10, 12, 16, 22, ?

Ans
✗ 1. 24
✗ 2. 28
✗ 3. 32
✓ 4. 30

Question ID : **630680122729**
Option 1 ID : **630680475829**
Option 2 ID : **630680475827**
Option 3 ID : **630680475828**
Option 4 ID : **630680475826**
Status : **Answered**
Chosen Option : **4**

Website - www.dailyjobalert.in

Q.9 **KALP is related to LPKA in a certain way based on the English alphabetical order. In the same way, PQNT is related to NTPQ. To which of the following is VTGX related using the same logic?**

Ans
✗ 1. GVXT
✗ 2. XVGT
✓ 3. GXVT
✗ 4. GXTV

Question ID : **63068058592**
Option 1 ID : **630680226015**
Option 2 ID : **630680226017**
Option 3 ID : **630680226014**
Option 4 ID : **630680226016**
Status : **Answered**
Chosen Option : **3**

Q.10 **What will be the day on 31 December 2012 if the day on 1 January 2012 is a Tuesday?**

Ans
✗ 1. Saturday
✓ 2. Wednesday
✗ 3. Monday
✗ 4. Tuesday

Question ID : **63068083876**
Option 1 ID : **630680325099**
Option 2 ID : **630680325096**
Option 3 ID : **630680325098**
Option 4 ID : **630680325097**
Status : **Answered**
Chosen Option : **4**

Q.11 **A, B, C, D, E and F are six friends who scored different marks in an examination.**
1.A scored two times more marks than C.
2.C scored four times more marks than E and two times more marks than F.
3.B was at the fifth position.
4.D scored the least marks.
Who among them was at the third position?

Ans
✗ 1. A
✗ 2. E
✗ 3. C
✓ 4. F

Question ID : **63068060447**
Option 1 ID : **630680233325**
Option 2 ID : **630680233324**
Option 3 ID : **630680233323**
Option 4 ID : **630680233322**
Status : **Answered**
Chosen Option : **3**

Website - www.dailyjobalert.in

Q.12 In a certain code language, 'COVISHIELD' is coded as '106' and 'COVAXIN' is coded as '88'. How will 'VACCINATION' be coded in that language?

Ans
1. 93
2. 97
3. 109
4. 111

Question ID : **630680166395**
Option 1 ID : **630680644532**
Option 2 ID : **630680644535**
Option 3 ID : **630680644533**
Option 4 ID : **630680644534**
Status : **Answered**
Chosen Option : **4**

Q.13 What is the number of days from 18 January 2021 to 27 July 2021, including both days?

Ans
1. 191
2. 189
3. 190
4. 192

Question ID : **63068058563**
Option 1 ID : **630680225900**
Option 2 ID : **630680225898**
Option 3 ID : **630680225899**
Option 4 ID : **630680225901**
Status : **Answered**
Chosen Option : **2**

Q.14 ਛੇ ਵਿਅਕਤੀ X, A, B, C, D, E ਹਨ। A ਦੀ ਉਮਰ, C ਦੀ ਉਮਰ ਦਾ 10% ਹੈ। 2 ਸਾਲ ਬਾਅਦ, D ਦੀ ਉਮਰ, E ਦੀ ਉਮਰ ਦਾ 2 ਗੁਣਾ ਹੋਵੇਗੀ। ਨਾਲ ਹੀ, D ਦੀ ਉਮਰ ਅਤੇ A ਦੀ ਉਮਰ ਦਾ ਗੁਣਨਫਲ B ਦੀ ਉਮਰ ਦਾ 10 ਗੁਣਾ ਹੈ ਅਤੇ C ਦੀ ਉਮਰ X ਦੀ ਉਮਰ ਦਾ 12 ਗੁਣਾ ਹੈ। B ਦੀ ਉਮਰ X ਦੀ ਉਮਰ ਨਾਲੋਂ 2.8 ਸਾਲ ਵੱਧ ਹੈ, ਜੋ ਕਿ 25 ਦਾ ਵਰਗ ਮੂਲ ਹੈ। D ਦੀ ਉਮਰ ਕਿੰਨੀ ਹੈ?

Ans
1. 13
2. 12
3. 10
4. 15

Question ID : **630680166747**
Option 1 ID : **630680645900**
Option 2 ID : **630680645901**
Option 3 ID : **630680645903**
Option 4 ID : **630680645902**
Status : **Answered**
Chosen Option : **3**

Website - www.dailyjobalert.in

Q.15 ਛੇ ਅੱਖਰ A, B, C, D, E ਅਤੇ F ਇੱਕ ਡਾਈਸ ਦੇ ਵੱਖ-ਵੱਖ ਪਾਸਿਆਂ 'ਤੇ ਲਿਖੇ ਹੋਏ ਹਨ। ਹੇਠਾਂ ਦਿੱਤੇ ਚਿੱਤਰ ਵਿੱਚ ਇਸ ਡਾਈਸ ਦੀਆਂ ਦੋ ਸਥਿਤੀਆਂ ਦਿਖਾਈਆਂ ਗਈਆਂ ਹਨ। C ਦੇ ਉਲਟ ਪਾਸੇ ਦਾ ਅੱਖਰ ਪਤਾ ਕਰੋ।

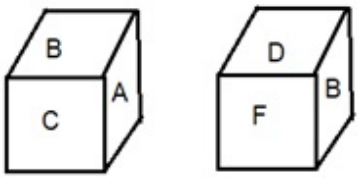

Ans
✔ 1. D
✘ 2. B
✘ 3. E
✘ 4. F

Question ID : **630680187297**
Option 1 ID : **630680726138**
Option 2 ID : **630680726137**
Option 3 ID : **630680726139**
Option 4 ID : **630680726140**
Status : **Answered**
Chosen Option : **4**

Q.16 Study the following pie-chart and answer the given question.
The following pie chart depicts the number of tickets sold in four months, out of the total number of tickets sold (which is 550) in four months together.

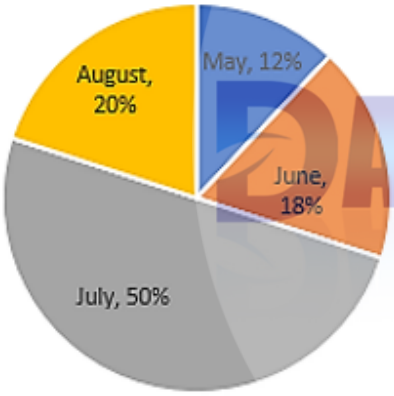

Out of the number of tickets sold in May, 50% were sold to females. Out of the total number of tickets sold in July, 40% were sold to females. What is the difference between the number of tickets sold to males in May and July?

Ans
✘ 1. 142
✔ 2. 132
✘ 3. 138
✘ 4. 146

Question ID : **630680172682**
Option 1 ID : **630680669148**
Option 2 ID : **630680669150**
Option 3 ID : **630680669149**
Option 4 ID : **630680669151**
Status : **Answered**
Chosen Option : **2**

Website - www.dailyjobalert.in

Q.17 ਵਿਨੈ 10ਵੀਂ ਜਮਾਤ ਦੇ ਵਿਦਿਆਰਥੀਆਂ ਦੀ ਲਾਈਨ ਦੇ ਦੋਵਾਂ ਸਿਰਿਆਂ ਤੋਂ 37ਵਾਂ ਹੈ। ਲਾਈਨ ਵਿੱਚੋਂ ਕਿੰਨੇ ਵਿਦਿਆਰਥੀਆਂ ਨੂੰ ਹਟਾਇਆ ਜਾਣਾ ਚਾਹੀਦਾ ਹੈ, ਤਾਂ ਜੋ ਲਾਈਨ ਵਿੱਚ ਸਿਰਫ਼ 50 ਵਿਦਿਆਰਥੀ ਹੋਣ?

Ans
✗ 1. 73
✗ 2. 10
✗ 3. 47
✓ 4. 23

Question ID : **630680106172**
Option 1 ID : **630680412587**
Option 2 ID : **630680412589**
Option 3 ID : **630680412590**
Option 4 ID : **630680412588**
Status : **Answered**
Chosen Option : **4**

Q.18 Tulip is facing the East. She walks 5 m and takes a right turn. Then she walks 7 m. She takes a right turn again and walks 9 m. Again, she takes a right turn and walks 2 m. Finally, she takes a right turn and walks 4 m. In which direction is Tulip facing now?

Ans
✗ 1. North
✗ 2. West
✓ 3. East
✗ 4. South

Question ID : **630680105851**
Option 1 ID : **630680411362**
Option 2 ID : **630680411359**
Option 3 ID : **630680411361**
Option 4 ID : **630680411360**
Status : **Answered**
Chosen Option : **2**

Q.19 What should come in place of ? in the given series in order to make it logically complete?
YW6, US12, PN24, JH48, ?

Ans
✗ 1. DB72
✗ 2. CD96
✗ 3. EC60
✓ 4. CA96

Question ID : **630680109268**
Option 1 ID : **630680423852**
Option 2 ID : **630680423855**
Option 3 ID : **630680423854**
Option 4 ID : **630680423853**
Status : **Answered**
Chosen Option : **4**

Website - www.dailyjobalert.in

Q.20 Refer to the following number series and answer the question.
6, 7, 5, 3, 4, 8, 9, 4, 3, 2, 1, 5, 7, 4.
How many odd numbers are there in the given series that are immediately succeeded by 2 even numbers?

Ans
✗ 1. Two
✗ 2. Three
✗ 3. Four
✓ 4. One

Question ID : **630680139211**
Option 1 ID : **630680538951**
Option 2 ID : **630680538950**
Option 3 ID : **630680538953**
Option 4 ID : **630680538952**
Status : **Answered**
Chosen Option : **4**

Q.21 Sita ranked 6th from the top and 10th from the bottom in her class. How many students are there in the class?

Ans
✗ 1. 16
✗ 2. 14
✗ 3. 17
✓ 4. 15

Question ID : **63068075674**
Option 1 ID : **630680292852**
Option 2 ID : **630680292851**
Option 3 ID : **630680292849**
Option 4 ID : **630680292850**
Status : **Answered**
Chosen Option : **1**

Q.22 ਜੇਕਰ A, B ਦਾ ਭਰਾ ਹੈ, C, A ਦੀ ਧੀ ਹੈ, D, A ਦੀ ਭੈਣ ਹੈ ਅਤੇ E, C ਦਾ ਭਰਾ ਹੈ, ਤਾਂ A ਦਾ E ਨਾਲ ਕੀ ਰਿਸ਼ਤਾ ਹੈ?

Ans
✗ 1. ਭਰਾ
✗ 2. ਭੈਣ
✗ 3. ਮਾਂ
✓ 4. ਪਿਤਾ

Question ID : **630680161853**
Option 1 ID : **630680626720**
Option 2 ID : **630680626721**
Option 3 ID : **630680626723**
Option 4 ID : **630680626722**
Status : **Answered**
Chosen Option : **4**

Website - www.dailyjobalert.in

Q.23 **Select the option in which the numbers are related in the same way as are the numbers in the given pairs.**
(4 : 20)
(9 : 90)

Ans
✔ 1. (11 : 132)
✘ 2. (5 : 26)
✘ 3. (6 : 36)
✘ 4. (8 : 65)

Question ID : **63068062246**
Option 1 ID : **630680240279**
Option 2 ID : **630680240280**
Option 3 ID : **630680240278**
Option 4 ID : **630680240281**
Status : **Answered**
Chosen Option : **3**

Q.24 'A * B' means 'A is the grandfather of B'

'A + B' means 'A is the husband of B'

'A ÷ B' means 'A is the son of B'

'A − B' means 'A is the wife of B'

If M has only one child, then how is G related to P in the expression 'G − L ÷ M * O + P'?

Ans
✔ 1. Mother-in-law
✘ 2. Husband's sister
✘ 3. Son-in-law
✘ 4. Daughter-in-law

Question ID : **630680127364**
Option 1 ID : **630680493726**
Option 2 ID : **630680493725**
Option 3 ID : **630680493724**
Option 4 ID : **630680493727**
Status : **Answered**
Chosen Option : **2**

DAILY JOB Alert

Q.25 ਦਿੱਤੇ ਗਏ ਕਥਨਾਂ ਅਤੇ ਸਿੱਟਿਆਂ ਨੂੰ ਧਿਆਨ ਨਾਲ ਪੜ੍ਹੋ। ਇਹ ਮੰਨਦੇ ਹੋਏ ਕਿ ਕਥਨਾਂ ਵਿੱਚ ਦਿੱਤੀ ਗਈ ਜਾਣਕਾਰੀ ਸਹੀ ਹੈ, ਭਾਵੇਂ ਇਹ ਆਮ ਤੌਰ 'ਤੇ ਗਿਆਤ ਤੱਥਾਂ ਨਾਲੋਂ ਭਿੰਨ ਲਗਦੀ ਹੋਵੇ, ਇਹ ਫੈਸਲਾ ਕਰੋ ਕਿ ਦਿੱਤੇ ਗਏ ਸਿੱਟਿਆਂ ਵਿੱਚੋਂ ਕਿਹੜੇ, ਕਥਨਾਂ ਦੀ ਤਰਕਪੂਰਨ ਢੰਗ ਨਾਲ ਪਾਲਣਾ ਕਰਦੇ ਹਨ।

ਕਥਨ:
ਸਾਰੇ ਮੋਂਕੀ, ਸੂਗਰ ਹਨ।
ਕੁਝ ਸੂਗਰ, ਬੈਰੀਜ਼ ਹਨ।
ਕੋਈ ਸੂਗਰ, ਹੈਨ ਨਹੀਂ ਹੈ।
ਸਿੱਟੇ:
(I)ਕੁਝ ਮੋਂਕੀ, ਹੈਨ ਹਨ।
(II)ਕੁਝ ਬੈਰੀਜ਼, ਮੋਂਕੀ ਹਨ।
(III)ਕੁਝ ਬੈਰੀਜ਼, ਹੈਨ ਨਹੀਂ ਹਨ।

Ans
✗ 1. ਜਾਂ ਤਾਂ ਸਿੱਟਾ I ਜਾਂ ਸਿੱਟਾ III ਪਾਲਣਾ ਕਰਦਾ ਹੈ
✗ 2. ਸਿਰਫ਼ ਸਿੱਟਾ I ਪਾਲਣਾ ਕਰਦਾ ਹੈ
✗ 3. ਸਾਰੇ ਸਿੱਟੇ I, II ਅਤੇ III ਪਾਲਣਾ ਕਰਦੇ ਹਨ
✓ 4. ਸਿਰਫ਼ ਸਿੱਟਾ III ਪਾਲਣਾ ਕਰਦਾ ਹੈ

Question ID : **630680107447**
Option 1 ID : **630680417146**
Option 2 ID : **630680417144**
Option 3 ID : **630680417147**
Option 4 ID : **630680417145**
Status : **Answered**
Chosen Option : **3**

Q.26 Select the letter-pair from among the given options that can replace the question mark (?) in the following series.
ZI, XG, ?, TC, RA

Ans
✗ 1. VF
✓ 2. VE
✗ 3. UE
✗ 4. UF

Question ID : **63068048606**
Option 1 ID : **630680187035**
Option 2 ID : **630680187036**
Option 3 ID : **630680187034**
Option 4 ID : **630680187037**
Status : **Answered**
Chosen Option : **2**

Q.27 Select the option in which the words share the same relationship as that shared by the given pair of words.

Convict : Prison

Ans
✗ 1. Peasant : Palace
✓ 2. Knight : Mansion
✗ 3. Bee : Barn
✗ 4. Soldier : Monastery

Question ID : **63068063309**
Option 1 ID : **630680244402**
Option 2 ID : **630680244404**
Option 3 ID : **630680244403**
Option 4 ID : **630680244405**
Status : **Answered**
Chosen Option : **2**

Website - www.dailyjobalert.in

Q.28 **Select the letter-cluster from among the given options that can replace the question mark (?) in the following series.**
AVA, BWE, ?, DYM, EZQ

Ans
✔ 1. CXI
✘ 2. CXF
✘ 3. CXJ
✘ 4. CYT

Question ID : **63068048600**
Option 1 ID : **630680187013**
Option 2 ID : **630680187011**
Option 3 ID : **630680187012**
Option 4 ID : **630680187010**
Status : **Answered**
Chosen Option : **3**

Q.29 **A certain number of people are sitting in a row, facing the north. Exactly seven people sit between P and S. T sits fourth to the right of S. Q sits third to the left of S. P sits third to the right of R. T and R occupy the corner positions of the row. If no other person is sitting in the row, then what is the total number of people seated?**

Ans
✘ 1. 15
✘ 2. 17
✘ 3. 14
✔ 4. 16

Question ID : **63068059384**
Option 1 ID : **630680229148**
Option 2 ID : **630680229149**
Option 3 ID : **630680229146**
Option 4 ID : **630680229147**
Status : **Answered**
Chosen Option : **3**

Q.30 **DF3 is related to WU9 in a certain way. In the same way, MC2 is related to NX4. To which of the following is ET4 related using the same logic?**

Ans
✘ 1. VH16
✔ 2. VG16
✘ 3. WG16
✘ 4. VG8

Question ID : **63068062320**
Option 1 ID : **630680240529**
Option 2 ID : **630680240528**
Option 3 ID : **630680240526**
Option 4 ID : **630680240527**
Status : **Answered**
Chosen Option : **2**

DAILY JOB Alert

Q.31 Four letter-clusters have been given out of which three are alike in some manner and one is different. Select the one that is different.

Ans
✗ 1. VSZ
✓ 2. SOV
✗ 3. MJQ
✗ 4. KHO

Question ID : **63068077066**
Option 1 ID : **630680298364**
Option 2 ID : **630680298363**
Option 3 ID : **630680298361**
Option 4 ID : **630680298362**
Status : **Answered**
Chosen Option : **1**

Q.32 In a certain code language, 'CAR539' is written as '319ECI', and 'BAT368' is written as '212CFH'.How will 'DOLL123' be written in that language?

Ans
✗ 1. 6433ABC
✗ 2. 4633CBA
✗ 3. 4633ACB
✓ 4. 4633ABC

Question ID : **63068057454**
Option 1 ID : **630680221660**
Option 2 ID : **630680221659**
Option 3 ID : **630680221661**
Option 4 ID : **630680221658**
Status : **Answered**
Chosen Option : **3**

Q.33 Town P is to the south of Town O. Town L is to the north-west of Town P. Town N is to the north-east of Town L. Town M is to the north-east of Town O. What is the position of Town M with respect to Town P?

Ans
✗ 1. North-West
✗ 2. South-West
✗ 3. South
✓ 4. North-East

Question ID : **630680187844**
Option 1 ID : **630680728235**
Option 2 ID : **630680728234**
Option 3 ID : **630680728236**
Option 4 ID : **630680728233**
Status : **Answered**
Chosen Option : **1**

Website - www.dailyjobalert.in

Q.34 **There are 6 people, P, V, S, T, U and F.**
P's age is one-fourth of V's age. U's age is 16. S's age is one-sixth of F's age, and F's age will be twice the age of V after 10 years. V's 8th birthday was celebrated 2 years ago. What is the difference between U's age and V's age?

Ans
✗ 1. 4
✗ 2. 3
✗ 3. 1
✓ 4. 6

Question ID : **63068078952**
Option 1 ID : **630680305846**
Option 2 ID : **630680305848**
Option 3 ID : **630680305847**
Option 4 ID : **630680305845**
Status : **Answered**
Chosen Option : **1**

Q.35 $\left[\frac{1}{8}\right]$ is related to $\left[\frac{1}{15}\right]$ following a certain logic. Following the same logic, $\left[\frac{1}{12}\right]$ is related to $\left[\frac{1}{23}\right]$.

To which of the following is $\left[\frac{1}{6}\right]$. related, following the same logic?

Ans
✗ 1. $\left[\frac{1}{25}\right]$
✗ 2. $\left[\frac{1}{23}\right]$
✓ 3. $\left[\frac{1}{11}\right]$
✗ 4. $\left[\frac{1}{17}\right]$

Question ID : **63068058974**
Option 1 ID : **630680227518**
Option 2 ID : **630680227520**
Option 3 ID : **630680227519**
Option 4 ID : **630680227521**
Status : **Answered**
Chosen Option : **3**

DAILY JOB Alert ਪੰਜਾਬ

Q.36 Which letter is midway between the ninth letter from the right and the third letter from the left?

(Left) P, S, J, C, B, D, L, V, D, K, M, O, U, I, Z, W, E (Right).

Ans
✔ 1. D
✘ 2. B
✘ 3. S
✘ 4. J

Question ID : **63068058167**
Option 1 ID : **630680224397**
Option 2 ID : **630680224394**
Option 3 ID : **630680224396**
Option 4 ID : **630680224395**
Status : **Answered**
Chosen Option : **1**

Comprehension:

Read the given information and answer the given questions.
D, E, F, G, H, I and J are seven friends sitting in a single row facing north. G is to the immediate right of F. H and D are the neighbours of I. E is to the immediate left of F and at the second place from the leftmost end. D is at the rightmost end.

SubQuestion No : 37

Q.37 Who is in the middle of the row?

Ans
✘ 1. I
✔ 2. G
✘ 3. H
✘ 4. F

Question ID : **63068082623**
Option 1 ID : **630680320476**
Option 2 ID : **630680320478**
Option 3 ID : **630680320477**
Option 4 ID : **630680320479**
Status : **Answered**
Chosen Option : **3**

Comprehension:

Read the given information and answer the given questions.
D, E, F, G, H, I and J are seven friends sitting in a single row facing north. G is to the immediate right of F. H and D are the neighbours of I. E is to the immediate left of F and at the second place from the leftmost end. D is at the rightmost end.

SubQuestion No : 38

Q.38 Who is to the immediate right of J?

Ans
✔ 1. E
✘ 2. G
✘ 3. H
✘ 4. F

Question ID : **63068082624**
Option 1 ID : **630680320480**
Option 2 ID : **630680320482**
Option 3 ID : **630680320483**
Option 4 ID : **630680320481**
Status : **Answered**
Chosen Option : **2**

Website - www.dailyjobalert.in

Comprehension:

Read the following information and answer the given question.

Seven boxes L, M, N, O, P, Q and R are kept one over the other but not necessarily in the same order. N is kept third from the top. Only three boxes are kept between R and Q. L is kept immediately below N. P is kept on one of the positions below N. M is kept immediately below P.

SubQuestion No : 39

Q.39 Which box is kept immediately above N?

Ans

✗ 1. L

✗ 2. R

✗ 3. Q

✓ 4. O

Question ID : **63068083451**
Option 1 ID : **630680323581**
Option 2 ID : **630680323580**
Option 3 ID : **630680323583**
Option 4 ID : **630680323582**
Status : **Answered**
Chosen Option : **2**

Comprehension:

Read the following information and answer the given question.

Seven boxes L, M, N, O, P, Q and R are kept one over the other but not necessarily in the same order. N is kept third from the top. Only three boxes are kept between R and Q. L is kept immediately below N. P is kept on one of the positions below N. M is kept immediately below P.

SubQuestion No : 40

Q.40 Which box is kept second from the bottom?

Ans

✗ 1. Q

✗ 2. M

✓ 3. P

✗ 4. L

Question ID : **63068083452**
Option 1 ID : **630680323584**
Option 2 ID : **630680323585**
Option 3 ID : **630680323587**
Option 4 ID : **630680323586**
Status : **Answered**
Chosen Option : **1**

Website - www.dailyjobalert.in

Comprehension:

In the following diagram rectangle represents merchants, Triangle represents uneducated, Circle represents people who have agriculture land and square represents tax payers.

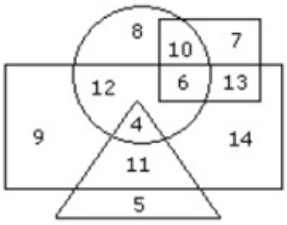

SubQuestion No : 41

Q.41 Which of the following represents the uneducated merchants who have no agriculture land?

Ans
✗ 1. 5
✗ 2. 9
✓ 3. 11
✗ 4. 4

Question ID : **630680115293**
Option 1 ID : **630680446531**
Option 2 ID : **630680446530**
Option 3 ID : **630680446533**
Option 4 ID : **630680446532**
Status : **Answered**
Chosen Option : **3**

Comprehension:

In the following diagram rectangle represents merchants, Triangle represents uneducated, Circle represents people who have agriculture land and square represents tax payers.

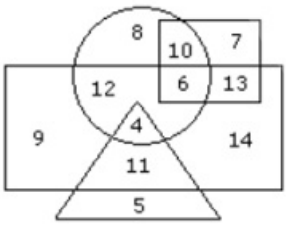

SubQuestion No : 42

Q.42 Which of the following represents merchants who are taxpayers who have agricultural land?

Ans
✓ 1. 6
✗ 2. 7
✗ 3. 10
✗ 4. 13

Question ID : **630680115294**
Option 1 ID : **630680446537**
Option 2 ID : **630680446534**
Option 3 ID : **630680446536**
Option 4 ID : **630680446535**
Status : **Answered**
Chosen Option : **1**

Website - www.dailyjobalert.in

Comprehension:

In a certain code,
'time is money' is coded as 'vw nx kp',
'don't waste time' is coded as 'um py nx',
'we need money'is coded as 'hl sw kp'

SubQuestion No : 43

Q.43 What is the code for 'money'?

Ans
✔ 1. kp
✘ 2. hl
✘ 3. vw
✘ 4. sw

Question ID : **63068056517**
Option 1 ID : **630680218003**
Option 2 ID : **630680218004**
Option 3 ID : **630680218002**
Option 4 ID : **630680218005**
Status : **Answered**
Chosen Option : **1**

Comprehension:

In a certain code,
'time is money' is coded as 'vw nx kp',
'don't waste time' is coded as 'um py nx',
'we need money'is coded as 'hl sw kp'

SubQuestion No : 44

Q.44 What does the code 'nx' stand for?

Ans
✔ 1. time
✘ 2. waste
✘ 3. don't
✘ 4. is

Question ID : **63068056518**
Option 1 ID : **630680218008**
Option 2 ID : **630680218007**
Option 3 ID : **630680218009**
Option 4 ID : **630680218006**
Status : **Answered**
Chosen Option : **4**

Website - www.dailyjobalert.in

Comprehension:

Study the given table to answer the questions that follow.

The table shows the number of students that appeared and passed in the 12th board examinations from four schools A, B, C and D in different years.

Year→ School ↓	2012		2013		2014		2015		2016	
	Appeared	Passed	Appeared	Passed	Appeared	Passed	Appeared	Passed	Appeared	Passed
A	80	78	81	76	84	82	82	80	80	79
B	85	81	86	83	82	79	79	77	80	78
C	78	77	79	76	80	78	81	79	83	80
D	78	76	80	75	83	75	79	75	81	77

SubQuestion No : 45

Q.45 In which year was the total number of students that failed in the 12th board examination from all the four schools the lowest?

Ans

✔ 1. 2012

✘ 2. 2015

✘ 3. 2016

✘ 4. 2014

Question ID : **630680110394**
Option 1 ID : **630680427890**
Option 2 ID : **630680427889**
Option 3 ID : **630680427887**
Option 4 ID : **630680427888**
Status : **Answered**
Chosen Option : **1**

Comprehension:

Study the given table to answer the questions that follow.

The table shows the number of students that appeared and passed in the 12th board examinations from four schools A, B, C and D in different years.

Year→ School ↓	2012		2013		2014		2015		2016	
	Appeared	Passed	Appeared	Passed	Appeared	Passed	Appeared	Passed	Appeared	Passed
A	80	78	81	76	84	82	82	80	80	79
B	85	81	86	83	82	79	79	77	80	78
C	78	77	79	76	80	78	81	79	83	80
D	78	76	80	75	83	75	79	75	81	77

SubQuestion No : 46

Q.46 From which school is the total number of students that failed in 12th board examination during 2012 to 2016 the highest?

Ans

✘ 1. B

✘ 2. C

✘ 3. A

✔ 4. D

Question ID : **630680110393**
Option 1 ID : **630680427884**
Option 2 ID : **630680427885**
Option 3 ID : **630680427883**
Option 4 ID : **630680427886**
Status : **Answered**
Chosen Option : **4**

Website - www.dailyjobalert.in

Comprehension:

Study the given table and answer the questions

Year	Types of cars / Sales (in thousands)					
	Sedan	Luxury	SUV	Minivan	Truck	Total
2001	76	143	115	102	107	543
2002	91	125	100	86	124	526
2003	95	115	76	104	130	520
2004	100	95	140	100	75	510
2005	90	75	135	75	90	465
2006	100	60	170	45	120	495
2007	130	100	130	100	140	600

Sales of cars manufactured by a company over the years

SubQuestion No : 47

Q.47 For which type of car there is a continuous decrease in sales from 2001 to 2006?

Ans

✗ 1. Truck

✗ 2. Sedan

✗ 3. Minivan

✓ 4. Luxury

Question ID : **63068082724**
Option 1 ID : **630680320799**
Option 2 ID : **630680320797**
Option 3 ID : **630680320796**
Option 4 ID : **630680320798**
Status : **Answered**
Chosen Option : **4**

Website - www.dailyjobalert.in

Comprehension:

Study the given table and answer the questions

Year	Types of cars / Sales (in thousands)					
	Sedan	Luxury	SUV	Minivan	Truck	Total
2001	76	143	115	102	107	543
2002	91	125	100	86	124	526
2003	95	115	76	104	130	520
2004	100	95	140	100	75	510
2005	90	75	135	75	90	465
2006	100	60	170	45	120	495
2007	130	100	130	100	140	600

Sales of cars manufactured by a company over the years

SubQuestion No : 48

Q.48 Which type of car has maximum total sales over all the years?

Ans

✗ 1. Truck

✗ 2. Luxury

✓ 3. SUV

✗ 4. Sedan

Question ID : **63068082725**
Option 1 ID : **630680320803**
Option 2 ID : **630680320802**
Option 3 ID : **630680320801**
Option 4 ID : **630680320800**
Status : **Answered**
Chosen Option : **3**

Website - www.dailyjobalert.in

Comprehension:

Read the given passage and answer the questions that follow.

Economic democracy or stakeholder democracy is a socioeconomic philosophy that proposes to shift decision-making power from corporate managers and corporate shareholders to a larger group of public stakeholders that includes workers, customers, suppliers, neighbours and the broader public. No single definition or approach encompasses economic democracy, but most proponents claim that modern property relations externalise costs, subordinate the general well-being to private profit, and deny the polity a democratic voice in economic policy decisions. In addition to these moral concerns, economic democracy makes practical claims, such as that it can compensate for capitalism's inherent effective demand gap.

SubQuestion No : 49

Q.49 What is the promise of economic democracy?

Ans

✗ 1. To increase private profit

✗ 2. To reduce weaknesses of capitalism

✓ 3. To compensate against loss caused by capitalism

✗ 4. To strengthen capitalism

Question ID : **630680248144**
Option 1 ID : **630680962739**
Option 2 ID : **630680962741**
Option 3 ID : **630680962742**
Option 4 ID : **630680962740**
Status : **Answered**
Chosen Option : **4**

Comprehension:

Read the given passage and answer the questions that follow.

Economic democracy or stakeholder democracy is a socioeconomic philosophy that proposes to shift decision-making power from corporate managers and corporate shareholders to a larger group of public stakeholders that includes workers, customers, suppliers, neighbours and the broader public. No single definition or approach encompasses economic democracy, but most proponents claim that modern property relations externalise costs, subordinate the general well-being to private profit, and deny the polity a democratic voice in economic policy decisions. In addition to these moral concerns, economic democracy makes practical claims, such as that it can compensate for capitalism's inherent effective demand gap.

SubQuestion No : 50

Q.50 Stakeholder democracy means:

Ans

✗ 1. participation in decision making

✓ 2. transfer of decision-making power to public stakeholders

✗ 3. participation in management

✗ 4. sharing of economic benefits

Question ID : **630680248143**
Option 1 ID : **630680962735**
Option 2 ID : **630680962736**
Option 3 ID : **630680962737**
Option 4 ID : **630680962738**
Status : **Answered**
Chosen Option : **4**

Section : **Digital Literacy and Computer Awareness**

Website - www.dailyjobalert.in

Q.51 The commonly used sound file format in MS PowerPoint 2010 is:

Ans
- ✗ 1. .EXE
- ✓ 2. .WAV
- ✗ 3. .VAT
- ✗ 4. .LOG

Question ID : **630680248020**
Option 1 ID : **630680962290**
Option 2 ID : **630680962288**
Option 3 ID : **630680962287**
Option 4 ID : **630680962289**
Status : **Answered**
Chosen Option : **1**

Q.52 A moving picture that appears on a computer screen when the user does not use the computer for a while is:

Ans
- ✗ 1. My Computer
- ✗ 2. Dashboard
- ✗ 3. Recycle Bin
- ✓ 4. Screen Saver

Question ID : **630680248007**
Option 1 ID : **630680962238**
Option 2 ID : **630680962237**
Option 3 ID : **630680962235**
Option 4 ID : **630680962236**
Status : **Answered**
Chosen Option : **1**

Q.53 Which of the following is NOT the most common cyber-attack?

Ans
- ✗ 1. Ransomware
- ✓ 2. Firmware
- ✗ 3. Phishing
- ✗ 4. Denial-of-service

Question ID : **630680248036**
Option 1 ID : **630680962354**
Option 2 ID : **630680962353**
Option 3 ID : **630680962351**
Option 4 ID : **630680962352**
Status : **Answered**
Chosen Option : **4**

Website - www.dailyjobalert.in

Q.54 Which of the following options is correct for changing display properties on Windows 10 operating system?

Ans
✗ 1. Go to Control Panel from the Start menu and select Privacy & Security options.
✗ 2. Right-click on the time at the right of the taskbar and change display settings.
✗ 3. Go to Control Panel from the Start menu and select Accessibility options.
✓ 4. Right click on desktop and select 'Personalize' from displaying options.

Question ID : **630680248011**
Option 1 ID : **630680962254**
Option 2 ID : **630680962252**
Option 3 ID : **630680962253**
Option 4 ID : **630680962251**
Status : **Answered**
Chosen Option : **4**

Q.55 Which of the following is NOT a screen element in Microsoft Word 2010?

Ans
✗ 1. Status bar
✗ 2. Title bar
✓ 3. Subtitle bar
✗ 4. Menu bar

Question ID : **630680248014**
Option 1 ID : **630680962263**
Option 2 ID : **630680962265**
Option 3 ID : **630680962266**
Option 4 ID : **630680962264**
Status : **Answered**
Chosen Option : **3**

Q.56 The popular object oriented programming language, used for general purpose is:

Ans
✗ 1. BASIC
✗ 2. PASCAL
✓ 3. C++
✗ 4. C

Question ID : **630680248008**
Option 1 ID : **630680962239**
Option 2 ID : **630680962240**
Option 3 ID : **630680962241**
Option 4 ID : **630680962242**
Status : **Answered**
Chosen Option : **3**

Website - www.dailyjobalert.in

Q.57 All of the following are common disadvantages of Instant Messaging in the workplace, EXCEPT:

Ans
✔ 1. group chats
✘ 2. potentially miss important messages
✘ 3. distraction
✘ 4. security risks

Question ID : **630680248033**
Option 1 ID : **630680962342**
Option 2 ID : **630680962340**
Option 3 ID : **630680962339**
Option 4 ID : **630680962341**
Status : **Answered**
Chosen Option : **4**

Q.58 Which of the following is NOT an Instant Messaging Application?

Ans
✘ 1. Telegram
✘ 2. WhatsApp
✘ 3. Signal
✔ 4. Transport

Question ID : **630680248032**
Option 1 ID : **630680962336**
Option 2 ID : **630680962335**
Option 3 ID : **630680962337**
Option 4 ID : **630680962338**
Status : **Answered**
Chosen Option : **4**

Q.59 Which keyboard shortcut is used in MS Word 2010 to apply bold formatting to the text?

Ans
✘ 1. Ctrl + U
✘ 2. Ctrl + I
✔ 3. Ctrl + B
✘ 4. Ctrl + S

Question ID : **630680248013**
Option 1 ID : **630680962259**
Option 2 ID : **630680962261**
Option 3 ID : **630680962260**
Option 4 ID : **630680962262**
Status : **Answered**
Chosen Option : **3**

Website - www.dailyjobalert.in

Q.60 Software that manages the computer hardware and user applications is called:

Ans
- ✗ 1. client
- ✓ 2. operating system
- ✗ 3. web
- ✗ 4. server

Question ID : **630680248010**
Option 1 ID : **630680962249**
Option 2 ID : **630680962247**
Option 3 ID : **630680962250**
Option 4 ID : **630680962248**
Status : **Answered**
Chosen Option : **2**

Q.61 Which of the following logical functions is available in MS Excel 2010?

Ans
- ✗ 1. COUNT()
- ✗ 2. DISC()
- ✓ 3. AND()
- ✗ 4. SUM()

Question ID : **630680248017**
Option 1 ID : **630680962277**
Option 2 ID : **630680962278**
Option 3 ID : **630680962275**
Option 4 ID : **630680962276**
Status : **Answered**
Chosen Option : **3**

Q.62 To exit from an MS PowerPoint 2010 slideshow, which keyboard shortcut key is used?

Ans
- ✗ 1. Home
- ✓ 2. Esc
- ✗ 3. End
- ✗ 4. F2

Question ID : **630680248019**
Option 1 ID : **630680962284**
Option 2 ID : **630680962286**
Option 3 ID : **630680962285**
Option 4 ID : **630680962283**
Status : **Answered**
Chosen Option : **2**

Q.63 The default Slide Orientation in MS PowerPoint is:

Ans
- ✓ 1. Landscape
- ✗ 2. Vertical
- ✗ 3. Portrait
- ✗ 4. Letter

Question ID : **630680248021**
Option 1 ID : **630680962294**
Option 2 ID : **630680962293**
Option 3 ID : **630680962291**
Option 4 ID : **630680962292**
Status : **Answered**
Chosen Option : **3**

Website - www.dailyjobalert.in

Q.64 The Subtotal option is available under which menu of MS Excel 2010?

Ans
✗ 1. Formulas
✗ 2. Insert
✓ 3. Data
✗ 4. Review

Question ID : **630680248018**
Option 1 ID : **630680962282**
Option 2 ID : **630680962280**
Option 3 ID : **630680962279**
Option 4 ID : **630680962281**
Status : **Answered**
Chosen Option : **1**

Q.65 Which of the following statements are true or false for changing system date and time on Windows 10 operating system?

(i) Right-click on the time at the bottom right of the screen and select Adjust Date/Time.
(ii) Go to Control Panel from the Start menu and select 'Clock, Language and Region' and select Date and Time.

Ans
✗ 1. (i) False, (ii) False
✗ 2. (i) False, (ii) True
✓ 3. (i) True, (ii) True
✗ 4. (i) True, (ii) False

Question ID : **630680248012**
Option 1 ID : **630680962258**
Option 2 ID : **630680962256**
Option 3 ID : **630680962257**
Option 4 ID : **630680962255**
Status : **Answered**
Chosen Option : **3**

Q.66 The following are the commonly used symmetric encryption algorithms, EXCEPT:

Ans
✓ 1. RSA
✗ 2. 3-DES
✗ 3. DES
✗ 4. AES

Question ID : **630680248035**
Option 1 ID : **630680962350**
Option 2 ID : **630680962349**
Option 3 ID : **630680962348**
Option 4 ID : **630680962347**
Status : **Answered**
Chosen Option : **2**

Website - www.dailyjobalert.in

Q.67 Using the internet, what allows users to directly connect with one another through groups, networks, and locations?

Ans
- ✗ 1. Social Servicing
- ✓ 2. Social Networking
- ✗ 3. Social Economics
- ✗ 4. Social Engineering

Question ID : **630680248028**
Option 1 ID : **630680962320**
Option 2 ID : **630680962319**
Option 3 ID : **630680962322**
Option 4 ID : **630680962321**
Status : **Answered**
Chosen Option : **2**

Q.68 Which of the following is NOT a basic type of Computer Network?

Ans
- ✗ 1. MAN
- ✗ 2. WAN
- ✓ 3. TAN
- ✗ 4. LAN

Question ID : **630680248022**
Option 1 ID : **630680962297**
Option 2 ID : **630680962298**
Option 3 ID : **630680962296**
Option 4 ID : **630680962295**
Status : **Answered**
Chosen Option : **1**

Q.69 Which tool is available in Google Chrome to save web pages that you want to read later?

Ans
- ✗ 1. Website list
- ✗ 2. Site List
- ✗ 3. History list
- ✓ 4. Reading list

Question ID : **630680248026**
Option 1 ID : **630680962311**
Option 2 ID : **630680962314**
Option 3 ID : **630680962313**
Option 4 ID : **630680962312**
Status : **Answered**
Chosen Option : **4**

Website - www.dailyjobalert.in

Q.70 While using the Internet, what does URL stand for?

Ans
✔ 1. Uniform Resource Locator
✘ 2. Unique Record Locator
✘ 3. Unique Resource Link
✘ 4. Uniform Record Link

Question ID : **630680248023**
Option 1 ID : **630680962299**
Option 2 ID : **630680962302**
Option 3 ID : **630680962301**
Option 4 ID : **630680962300**
Status : **Answered**
Chosen Option : **3**

Q.71 Which feature of a web browser helps you to save a particular website on your device for later use?

Ans
✘ 1. Home button
✘ 2. Tabbed browsing
✘ 3. Web address bar
✔ 4. Bookmark

Question ID : **630680248024**
Option 1 ID : **630680962305**
Option 2 ID : **630680962306**
Option 3 ID : **630680962304**
Option 4 ID : **630680962303**
Status : **Answered**
Chosen Option : **4**

Q.72 When a document is to be printed, the word processor has to be told as to how the document should appear on the page using Page Setup option, EXCEPT:

Ans
✘ 1. Margins
✔ 2. Graphics
✘ 3. Pages
✘ 4. Orientations

Question ID : **630680248015**
Option 1 ID : **630680962267**
Option 2 ID : **630680962268**
Option 3 ID : **630680962270**
Option 4 ID : **630680962269**
Status : **Answered**
Chosen Option : **2**

Website - www.dailyjobalert.in

Q.73 Which feature is available in Google Chrome to keep your browsing private?

Ans
✔ 1. Incognito mode
✘ 2. Private mode
✘ 3. Exclude mode
✘ 4. Safe mode

Question ID : **630680248025**
Option 1 ID : **630680962308**
Option 2 ID : **630680962307**
Option 3 ID : **630680962310**
Option 4 ID : **630680962309**
Status : **Answered**
Chosen Option : **1**

Q.74 The computer bus which is NOT used to transfer data between different components of a computer system is:

Ans
✘ 1. Data bus
✘ 2. Control bus
✘ 3. Address bus
✔ 4. Security bus

Question ID : **630680248009**
Option 1 ID : **630680962243**
Option 2 ID : **630680962245**
Option 3 ID : **630680962244**
Option 4 ID : **630680962246**
Status : **Answered**
Chosen Option : **2**

Q.75 All of the following are the advantages of VoIP, EXCEPT:

Ans
✘ 1. higher scalability
✘ 2. lower cost
✔ 3. latency and jitter
✘ 4. complete portability

Question ID : **630680248030**
Option 1 ID : **630680962329**
Option 2 ID : **630680962327**
Option 3 ID : **630680962330**
Option 4 ID : **630680962328**
Status : **Answered**
Chosen Option : **4**

Website - www.dailyjobalert.in

Q.76 Which type of chart in MS Excel 2010 is used to display data in a round shape and is cut into slices?

Ans
- ✗ 1. Bar chart
- ✗ 2. Area chart
- ✗ 3. Scatter plot
- ✓ 4. Pie chart

Question ID : **630680248016**
Option 1 ID : **630680962271**
Option 2 ID : **630680962273**
Option 3 ID : **630680962272**
Option 4 ID : **630680962274**
Status : **Answered**
Chosen Option : **4**

Q.77 Data encryption methods vary based on all of the following factors, EXCEPT:

Ans
- ✗ 1. the type of keys used
- ✓ 2. total number of users
- ✗ 3. encryption key length
- ✗ 4. the size of the encrypted data blocks

Question ID : **630680248034**
Option 1 ID : **630680962343**
Option 2 ID : **630680962346**
Option 3 ID : **630680962344**
Option 4 ID : **630680962345**
Status : **Answered**
Chosen Option : **1**

Q.78 Which of the following is NOT a video-sharing social media platform?

Ans
- ✗ 1. Facebook Watch
- ✗ 2. YouTube
- ✗ 3. TikTok
- ✓ 4. Quora

Question ID : **630680248029**
Option 1 ID : **630680962324**
Option 2 ID : **630680962323**
Option 3 ID : **630680962326**
Option 4 ID : **630680962325**
Status : **Answered**
Chosen Option : **4**

Website - www.dailyjobalert.in

Q.79 A Facebook instant messaging application where users can read all of their private communication on Facebook, including chat conversation history, is known as:

Ans
✔ 1. Messenger
✘ 2. Telegram
✘ 3. Facetime
✘ 4. WhatsApp

Question ID : **630680248031**
Option 1 ID : **630680962333**
Option 2 ID : **630680962331**
Option 3 ID : **630680962334**
Option 4 ID : **630680962332**
Status : **Answered**
Chosen Option : **1**

Q.80 Which social media platform is also known as a micro blogging service that allows users to post 280-character messages?

Ans
✘ 1. YouTube
✔ 2. Twitter
✘ 3. Flipkart
✘ 4. Pinterest

Question ID : **630680248027**
Option 1 ID : **630680962315**
Option 2 ID : **630680962316**
Option 3 ID : **630680962318**
Option 4 ID : **630680962317**
Status : **Answered**
Chosen Option : **2**

Section : **English Language**

Q.81 The following sentence has been split into four segments. Identify the segment that contains a grammatical error.

Autocratic leadership annoy/ people and they never want/ to work under the supervision/ of these leaders.

Ans
✘ 1. people and they never want
✘ 2. to work under the supervision
✘ 3. of these leaders
✔ 4. Autocratic leadership annoy

Question ID : **630680172382**
Option 1 ID : **630680667953**
Option 2 ID : **630680667954**
Option 3 ID : **630680667955**
Option 4 ID : **630680667952**
Status : **Answered**
Chosen Option : **4**

Website - www.dailyjobalert.in

Q.82 Sentences of a paragraph are given below. While the first and the last sentences (S1 and S6) are in the correct order, the sentences in between are jumbled up. Arrange the sentences in the correct order to form a meaningful and coherent paragraph.

S1. Disasters both manmade and natural expose the most vulnerable sections of society to grave danger.
P. One just needs to take a look at the colonies of the poorer sections of the society to find that they are invariably located in low-lying areas and are the first to get inundated by floods.
Q. Though the damages caused by floods is not of the magnitude of a tsunami, the more recurrent nature of the damage implies that its costs are much more than when a tsunami hits once in a hundred years.
R. It also throws up the interesting question as to whether human philanthropy is limited only to dramatic happenings like the tsunami.
S. It is believed that the effects of natural disasters are related to poverty levels of a society: it is often the poor who bear the brunt.
S6. After all, an undramatic drought is as much a disaster as this one was.

Ans
✔ 1. SPQR
✘ 2. PQSR
✘ 3. RSQP
✘ 4. QPSR

Question ID : **630680123836**
Option 1 ID : **630680480217**
Option 2 ID : **630680480215**
Option 3 ID : **630680480216**
Option 4 ID : **630680480214**
Status : **Answered**
Chosen Option : **1**

Q.83 Select the most appropriate ANTONYM of the word 'Soggy' in the given sentence.
It is believed that the soil of a place can be damp, muggy, hydrated, or arid according to the climate.

Ans
✘ 1. muggy
✔ 2. arid
✘ 3. hydrated
✘ 4. damp

Question ID : **63068085847**
Option 1 ID : **630680332849**
Option 2 ID : **630680332851**
Option 3 ID : **630680332850**
Option 4 ID : **630680332848**
Status : **Answered**
Chosen Option : **3**

DAILY JOB Alert ਪੰਜਾਬ

Q.84 **Select the option that can be used as a one-word substitute for the given group of words.**

One who travels on foot.

Ans
- ✗ 1. Amateur
- ✗ 2. Pessimist
- ✓ 3. Pedestrian
- ✗ 4. Patricide

Question ID : **630680129695**
Option 1 ID : **630680502389**
Option 2 ID : **630680502386**
Option 3 ID : **630680502387**
Option 4 ID : **630680502388**
Status : **Answered**
Chosen Option : **3**

Q.85 **Select the most appropriate option to fill in the blank.**

And with that, the three Briot Family Circus vehicles headed off the property and disappeared _____ the road.

Ans
- ✓ 1. down
- ✗ 2. between
- ✗ 3. on
- ✗ 4. among

Question ID : **630680115236**
Option 1 ID : **630680446312**
Option 2 ID : **630680446311**
Option 3 ID : **630680446310**
Option 4 ID : **630680446313**
Status : **Answered**
Chosen Option : **3**

Q.86 **Select the option that can be used as a one-word substitute for the given phrase.**

The first performance made by a person

Ans
- ✗ 1. Recent
- ✗ 2. Latest
- ✓ 3. Maiden
- ✗ 4. Modern

Question ID : **63068084653**
Option 1 ID : **630680328143**
Option 2 ID : **630680328140**
Option 3 ID : **630680328141**
Option 4 ID : **630680328142**
Status : **Answered**
Chosen Option : **3**

Website - www.dailyjobalert.in

Q.87 **Select the most appropriate ANTONYM of the word 'lament' in the sentence given below.**

When the Bollywood actors were coming to a destination in Delhi, the state people had to grin that day and could see traffic and crowd everywhere.

Ans
✗ 1. Crowd
✗ 2. Destination
✓ 3. Grin
✗ 4. Traffic

Question ID : **630680119610**
Option 1 ID : **630680463533**
Option 2 ID : **630680463530**
Option 3 ID : **630680463531**
Option 4 ID : **630680463532**
Status : **Answered**
Chosen Option : **3**

Q.88 **Select the sentence in which all the words are spelt correctly.**

Ans
✓ 1. More people cannot be accommodated in buildings like theatres that function with an air conditioning system.
✗ 2. More people cannot be accommadated in buildings like theatres that function with an air conditioning system.
✗ 3. More people cannot be acommodated in buildings like theatres that function with an air conditioning system.
✗ 4. More people cannot be accomodated in buildings like theatres that function with an air conditioning system.

Question ID : **630680131759**
Option 1 ID : **630680510246**
Option 2 ID : **630680510249**
Option 3 ID : **630680510247**
Option 4 ID : **630680510248**
Status : **Answered**
Chosen Option : **1**

Q.89 **Select the most appropriate option to fill in the blank.**

Mani will be reaching the place on _____ 5th of May 2021.

Ans
✗ 1. this
✓ 2. the
✗ 3. an
✗ 4. a

Question ID : **63068068176**
Option 1 ID : **630680263421**
Option 2 ID : **630680263418**
Option 3 ID : **630680263420**
Option 4 ID : **630680263419**
Status : **Answered**
Chosen Option : **1**

Website - www.dailyjobalert.in

Q.90 **The following sentence has been split into four segments. Identify the segment that contains a grammatical error.**
At the sight/ of a big snake,/ the children trembled/ of fear.

Ans
✗ 1. of a big snake
✓ 2. of fear
✗ 3. At the sight
✗ 4. the children trembled

Question ID : **630680176552**
Option 1 ID : **630680684433**
Option 2 ID : **630680684435**
Option 3 ID : **630680684432**
Option 4 ID : **630680684434**
Status : **Answered**
Chosen Option : **1**

Q.91 **Select the most appropriate ANTONYM of the given word.**
Grim

Ans
✗ 1. Harsh
✗ 2. Excruciating
✓ 3. Delightful
✗ 4. Stern

Question ID : **630680144528**
Option 1 ID : **630680559179**
Option 2 ID : **630680559181**
Option 3 ID : **630680559178**
Option 4 ID : **630680559180**
Status : **Answered**
Chosen Option : **3**

Q.92 **Select the most appropriate ANTONYM of the word in brackets to fill in the blank.**
Buffy the Vampire Slayer characters _____(subvert) the traditional roles from horror films.

Ans
✗ 1. corrupt
✗ 2. undermine
✓ 3. improve
✗ 4. sabotage

Question ID : **630680183026**
Option 1 ID : **630680709189**
Option 2 ID : **630680709191**
Option 3 ID : **630680709192**
Option 4 ID : **630680709190**
Status : **Answered**
Chosen Option : **3**

Website - www.dailyjobalert.in

Q.93 Select the sentence with the most appropriate use of preposition.

Ans
✗ 1. Last year, there was a large number of mangoes at the tree.
✓ 2. Last year, there was a large number of mangoes on the tree.
✗ 3. Last year, there was a large number of mangoes with the tree.
✗ 4. Last year, there was a large number of mangoes in the tree.

Question ID : **630680129457**
Option 1 ID : **630680501448**
Option 2 ID : **630680501449**
Option 3 ID : **630680501446**
Option 4 ID : **630680501447**
Status : **Answered**
Chosen Option : **2**

Q.94 Sentences of a paragraph are given below. While the first and the last sentences (S1 and S6) are in the correct order, the sentences in between are jumbled up. Arrange the sentences in the correct order to form a meaningful and coherent paragraph.

S1. Carnatic music is a system of music commonly associated with the southern part of the Indian subcontinent.
P. However, in contrast to Hindustani music, the main emphasis in Carnatic music is on vocal music.
Q. Although there are stylistic differences, the basic elements of sruti, swara, raga and tala form the foundation of improvisation and composition in both Carnatic and Hindustani music
R. The other being Hindustani music, which emerged as a distinct form in the 12th century due to Persian and Islamic influences in North India.
S. It is one of two main streams of India classical music that evolved from ancient Hindu traditions.
S6. It developed between the 16th and 19th centuries by prominent composers, such as Purandara Dasa and the Trinity of Carnatic music, Tyagaraja, Muthuswami Dikshitar and Syama sastri.

Ans
✗ 1. PSRQ
✗ 2. QPRS
✗ 3. PQRS
✓ 4. SRQP

Question ID : **630680123834**
Option 1 ID : **630680480208**
Option 2 ID : **630680480207**
Option 3 ID : **630680480209**
Option 4 ID : **630680480206**
Status : **Answered**
Chosen Option : **3**

Q.95 "ਮੈਂ ਵੋਟ ਪਾਉਣ ਦੇ ਆਪਣੇ ਹੱਕ ਦੀ ਹਮੇਸ਼ਾ ਵਰਤੋਂ ਕਰਦਾ ਹਾਂ।" ਇਸ ਵਾਕ ਦਾ ਅੰਗਰੇਜ਼ੀ ਅਨੁਵਾਦ ਹੈ:-

Ans
✗ 1. I always exercise my right to give my vote.
✓ 2. I always exercise my right to vote.
✗ 3. I always use my duty to vote.
✗ 4. I exercise my right to vote.

Question ID : **630680248107**
Option 1 ID : **630680962637**
Option 2 ID : **630680962636**
Option 3 ID : **630680962635**
Option 4 ID : **630680962638**
Status : **Answered**
Chosen Option : **3**

Website - www.dailyjobalert.in

Comprehension:

Read the given passage and answer the questions that follow.

Transportation has increased each person's mobility. Initially, one could walk about 20 miles a day; using a horse or bicycle would double or triple this range. Today, one can travel halfway around the world in a day. Through increased mobility, one's range of acquaintances can be worldwide. Business and professional interactions also can be on a worldwide basis. With such wide-scale travel opportunities, business and culture will never be the same. Transportation has increased employment opportunities, because one can travel to reach more potential jobs or a sales or professional person can cover a wider territory. In sparsely settled areas, for example, veterinarians and physicians make calls using small aircrafts. Transportation activities also provide employment opportunities: working for carriers and shippers, constructing vehicles and roadways, and working in government agencies involved with transportation.However, as transportation facilities and opportunities increase, there are some groups left behind. The poor, the feeble, the elderly and the disabled are in danger of being bypassed because they lack equal access to transportation systems. In many locations, automobile ownership and use is virtually a requirement. Society is uncertain as to what responsibilities it has for transportation systems that can be used by those without automobiles. Another negative impact relates to injuries and deaths caused by transportation. While airline crashes receive the most publicity, highway accidents cause a tremendous number of fatalities and injuries. Fortunately, the number is decreasing owing to considerable improvement in auto safety. This includes safer roads, lower speed limits, use of seat belts, and stricter enforcement of laws against driving while intoxicated. Automobiles feature improved and often government required safety equipment

SubQuestion No : 96

Q.96 Which of the following is an appropriate title for the passage?

Ans

✗ 1. Transportation or Mobile Management

✗ 2. Mobile Management Ensure The Network "Reach"

✗ 3. Global System for Mobile Communication

✓ 4. The Main Issues in Mobility Management

Question ID : **630680104625**
Option 1 ID : **630680406668**
Option 2 ID : **630680406670**
Option 3 ID : **630680406669**
Option 4 ID : **630680406667**
Status : **Answered**
Chosen Option : **4**

Website - www.dailyjobalert.in

Comprehension:

Read the given passage and answer the questions that follow.

Transportation has increased each person's mobility. Initially, one could walk about 20 miles a day; using a horse or bicycle would double or triple this range. Today, one can travel halfway around the world in a day. Through increased mobility, one's range of acquaintances can be worldwide. Business and professional interactions also can be on a worldwide basis. With such wide-scale travel opportunities, business and culture will never be the same. Transportation has increased employment opportunities, because one can travel to reach more potential jobs or a sales or professional person can cover a wider territory. In sparsely settled areas, for example, veterinarians and physicians make calls using small aircrafts. Transportation activities also provide employment opportunities: working for carriers and shippers, constructing vehicles and roadways, and working in government agencies involved with transportation.However, as transportation facilities and opportunities increase, there are some groups left behind. The poor, the feeble, the elderly and the disabled are in danger of being bypassed because they lack equal access to transportation systems. In many locations, automobile ownership and use is virtually a requirement. Society is uncertain as to what responsibilities it has for transportation systems that can be used by those without automobiles. Another negative impact relates to injuries and deaths caused by transportation. While airline crashes receive the most publicity, highway accidents cause a tremendous number of fatalities and injuries. Fortunately, the number is decreasing owing to considerable improvement in auto safety. This includes safer roads, lower speed limits, use of seat belts, and stricter enforcement of laws against driving while intoxicated. Automobiles feature improved and often government required safety equipment

SubQuestion No : 97

Q.97 The most appropriate ANTONYM of the word 'feeble' is:

Ans

✔ 1. healthy

✘ 2. sickly

✘ 3. infirm

✘ 4. frail

Question ID : **630680104627**
Option 1 ID : **630680406678**
Option 2 ID : **630680406677**
Option 3 ID : **630680406675**
Option 4 ID : **630680406676**
Status : **Answered**
Chosen Option : **3**

Website - www.dailyjobalert.in

Comprehension:

Read the given passage and answer the questions that follow.

Transportation has increased each person's mobility. Initially, one could walk about 20 miles a day; using a horse or bicycle would double or triple this range. Today, one can travel halfway around the world in a day. Through increased mobility, one's range of acquaintances can be worldwide. Business and professional interactions also can be on a worldwide basis. With such wide-scale travel opportunities, business and culture will never be the same. Transportation has increased employment opportunities, because one can travel to reach more potential jobs or a sales or professional person can cover a wider territory. In sparsely settled areas, for example, veterinarians and physicians make calls using small aircrafts. Transportation activities also provide employment opportunities: working for carriers and shippers, constructing vehicles and roadways, and working in government agencies involved with transportation.However, as transportation facilities and opportunities increase, there are some groups left behind. The poor, the feeble, the elderly and the disabled are in danger of being bypassed because they lack equal access to transportation systems. In many locations, automobile ownership and use is virtually a requirement. Society is uncertain as to what responsibilities it has for transportation systems that can be used by those without automobiles. Another negative impact relates to injuries and deaths caused by transportation. While airline crashes receive the most publicity, highway accidents cause a tremendous number of fatalities and injuries. Fortunately, the number is decreasing owing to considerable improvement in auto safety. This includes safer roads, lower speed limits, use of seat belts, and stricter enforcement of laws against driving while intoxicated. Automobiles feature improved and often government required safety equipment

SubQuestion No : 98

Q.98 Which of the following enforcement measures help prevent road accidents?

Ans

✗ 1. The important thing to remember is to be panic while driving

✓ 2. Implementing strict rules for safe roads, speed limits and enforcement of laws against drunk driving

✗ 3. Pedestrians or any animals suddenly crossing the road might have a fatal impact if you are careful

✗ 4. Using either mobile phones or ear phones while driving

Question ID : **630680104628**
Option 1 ID : **630680406682**
Option 2 ID : **630680406680**
Option 3 ID : **630680406681**
Option 4 ID : **630680406679**
Status : **Answered**
Chosen Option : **2**

Website - www.dailyjobalert.in

Comprehension:

Read the given passage and answer the questions that follow.

Transportation has increased each person's mobility. Initially, one could walk about 20 miles a day; using a horse or bicycle would double or triple this range. Today, one can travel halfway around the world in a day. Through increased mobility, one's range of acquaintances can be worldwide. Business and professional interactions also can be on a worldwide basis. With such wide-scale travel opportunities, business and culture will never be the same. Transportation has increased employment opportunities, because one can travel to reach more potential jobs or a sales or professional person can cover a wider territory. In sparsely settled areas, for example, veterinarians and physicians make calls using small aircrafts. Transportation activities also provide employment opportunities: working for carriers and shippers, constructing vehicles and roadways, and working in government agencies involved with transportation.However, as transportation facilities and opportunities increase, there are some groups left behind. The poor, the feeble, the elderly and the disabled are in danger of being bypassed because they lack equal access to transportation systems. In many locations, automobile ownership and use is virtually a requirement. Society is uncertain as to what responsibilities it has for transportation systems that can be used by those without automobiles. Another negative impact relates to injuries and deaths caused by transportation. While airline crashes receive the most publicity, highway accidents cause a tremendous number of fatalities and injuries. Fortunately, the number is decreasing owing to considerable improvement in auto safety. This includes safer roads, lower speed limits, use of seat belts, and stricter enforcement of laws against driving while intoxicated. Automobiles feature improved and often government required safety equipment

SubQuestion No : 99

Q.99 Which of the following is a FALSE inference of the passage?

Ans

✗ 1. Transportation has increased employment opportunities.

✓ 2. The number of injuries and deaths is increasing owing to considerable improvement in auto safety

✗ 3. Transportation causes a tremendous number of fatalities and injuries.

✗ 4. Transportation activities also provide employment opportunities

Question ID : **630680104629**
Option 1 ID : **630680406683**
Option 2 ID : **630680406686**
Option 3 ID : **630680406685**
Option 4 ID : **630680406684**
Status : **Answered**
Chosen Option : **2**

Website - www.dailyjobalert.in

Comprehension:

Read the given passage and answer the questions that follow.

Transportation has increased each person's mobility. Initially, one could walk about 20 miles a day; using a horse or bicycle would double or triple this range. Today, one can travel halfway around the world in a day. Through increased mobility, one's range of acquaintances can be worldwide. Business and professional interactions also can be on a worldwide basis. With such wide-scale travel opportunities, business and culture will never be the same. Transportation has increased employment opportunities, because one can travel to reach more potential jobs or a sales or professional person can cover a wider territory. In sparsely settled areas, for example, veterinarians and physicians make calls using small aircrafts. Transportation activities also provide employment opportunities: working for carriers and shippers, constructing vehicles and roadways, and working in government agencies involved with transportation.However, as transportation facilities and opportunities increase, there are some groups left behind. The poor, the feeble, the elderly and the disabled are in danger of being bypassed because they lack equal access to transportation systems. In many locations, automobile ownership and use is virtually a requirement. Society is uncertain as to what responsibilities it has for transportation systems that can be used by those without automobiles. Another negative impact relates to injuries and deaths caused by transportation. While airline crashes receive the most publicity, highway accidents cause a tremendous number of fatalities and injuries. Fortunately, the number is decreasing owing to considerable improvement in auto safety. This includes safer roads, lower speed limits, use of seat belts, and stricter enforcement of laws against driving while intoxicated. Automobiles feature improved and often government required safety equipment

SubQuestion No : 100

Q.100 The significance of transportation mobility _____.

Ans

✗ 1. to maximise transportation problem

✗ 2. is to transport a special type of linear programming

✓ 3. increases opportunities for individuals to undertake employment tasks

✗ 4. is a method for computing a basic feasible solution of a transportation problem

Question ID : **630680104626**
Option 1 ID : **630680406674**
Option 2 ID : **630680406672**
Option 3 ID : **630680406671**
Option 4 ID : **630680406673**
Status : **Answered**
Chosen Option : **3**

Section : **Qualifying Test of Punjabi Language**

Q.1 ਦੇਸੀ ਸਾਲ ਕਿਸ ਮਹੀਨੇ ਨਾਲ ਸ਼ੁਰੂ ਹੁੰਦਾ ਹੈ?

Ans

✗ 1. ਮਾਘ

✗ 2. ਕੱਤਕ

✗ 3. ਮੱਘਰ

✓ 4. ਚੇਤ

Question ID : **630680248704**
Option 1 ID : **630680964960**
Option 2 ID : **630680964961**
Option 3 ID : **630680964959**
Option 4 ID : **630680964962**
Status : **Answered**
Chosen Option : **4**

Website - www.dailyjobalert.in

Q.2 ਹੇਠ ਲਿਖਿਆਂ ਵਿਚ ਕਿਹੜਾ ਸ਼ਬਦ "ਉਨਤੀ" ਦਾ ਸਮਾਨਾਰਥਕ ਨਹੀਂ ਹੈ:-

Ans
✔ 1. ਪ੍ਰਸੰਸਾ
✘ 2. ਪ੍ਰਫੁੱਲਤਾ
✘ 3. ਖੁਸ਼ਹਾਲੀ
✘ 4. ਤਰੱਕੀ

Question ID : **630680248663**
Option 1 ID : **630680964798**
Option 2 ID : **630680964797**
Option 3 ID : **630680964796**
Option 4 ID : **630680964795**
Status : **Answered**
Chosen Option : **1**

Q.3 ਹੇਠ ਲਿਖੇ ਸ਼ਬਦਾਂ ਵਿਚ 'ਸੰਯੋਗ' ਦਾ ਸਹੀ ਅਰਥ ਨਹੀਂ ਹੈ:-

Ans
✘ 1. ਮਿਲਾਪ
✘ 2. ਅਯੋਗ
✘ 3. ਮੌਕਾ-ਮੇਲ
✔ 4. ਰਿਸ਼ਤਾ

Question ID : **630680248692**
Option 1 ID : **630680964911**
Option 2 ID : **630680964913**
Option 3 ID : **630680964912**
Option 4 ID : **630680964914**
Status : **Answered**
Chosen Option : **2**

Q.4 'ਬੱਚਿਆਂ ਨੂੰ ਜੁਗ ਜੁਗ ਜੀਣ ਲਈ _____ ਦਿੱਤੀ ਗਈ।'ਵਿਚ ਖਾਲੀ ਸਥਾਨ ਭਰਨ ਦਾ ਸਹੀ ਵਿਕਲਪ ਹੈ:-

Ans
✘ 1. ਨਸੀਹਤ
✘ 2. ਰਿਸ਼ਵਤ
✔ 3. ਅਸੀਸ
✘ 4. ਅਰਜ਼

Question ID : **630680248681**
Option 1 ID : **630680964868**
Option 2 ID : **630680964870**
Option 3 ID : **630680964867**
Option 4 ID : **630680964869**
Status : **Answered**
Chosen Option : **3**

Q.5 " ਆਕੜ"" ਦਾ ਵਿਰੋਧੀ ਸ਼ਬਦ ਹੈ:-

Ans
✘ 1. ਹਉਂ
✘ 2. ਹਉਮੈ
✘ 3. ਧਾਕੜ
✔ 4. ਹਲੀਮੀ

Question ID : **630680248662**
Option 1 ID : **630680964793**
Option 2 ID : **630680964792**
Option 3 ID : **630680964794**
Option 4 ID : **630680964791**
Status : **Answered**
Chosen Option : **4**

Website - www.dailyjobalert.in

Q.6 ਪੰਜਾਬੀ ਵਿਚ 49 ਅੰਕ ਨੂੰ ਕਿਵੇਂ ਲਿਖਦੇ ਹਨ?

Ans
✔ 1. ਉਨਿੰਜਾ
✘ 2. ਨਵਿੰਜਾ
✘ 3. ਉਨਿਜਾ
✘ 4. ਉਨਤਾਲੀ

Question ID : **630680248707**
Option 1 ID : **630680964972**
Option 2 ID : **630680964973**
Option 3 ID : **630680964971**
Option 4 ID : **630680964974**
Status : **Answered**
Chosen Option : **1**

Q.7 ਹੇਠ ਲਿਖਿਆਂ ਵਿਚ ਕਿਹੜੇ ਵਾਕ ਵਿਚ ਸਹੀ ਵਿਸ਼ਰਾਮ ਚਿੰਨ੍ਹ ਲੱਗੇ ਹਨ?

Ans
✘ 1. ਹੈ?! ਮੈਂ ਪਾਸ ਹੋ ਗਿਆ।
✘ 2. ਹੈਂ! ਮੈਂ ਪਾਸ ਹੋ ਗਿਆ?
✘ 3. ਹੈਂ, ਮੈਂ ਪਾਸ ਹੋ ਗਿਆ!
✔ 4. ਹੈਂ! ਮੈਂ ਪਾਸ ਹੋ ਗਿਆ।

Question ID : **630680248696**
Option 1 ID : **630680964930**
Option 2 ID : **630680964928**
Option 3 ID : **630680964929**
Option 4 ID : **630680964927**
Status : **Answered**
Chosen Option : **2**

Q.8 'ਲੜਕੀ ਦਾ ਸੈਂਡਲ ਡਿਗ ਪਿਆ' ਵਾਕ ਵਿਚ ਵਚਨ ਬਦਲੋ:-

Ans
✘ 1. ਲੜਕਿਆਂ ਦੇ ਸੈਂਡਲ ਡਿਗ ਪਏ
✔ 2. ਲੜਕੀਆਂ ਦੇ ਸੈਂਡਲ ਡਿਗ ਪਏ
✘ 3. ਲੜਕੀਆਂ ਦਾ ਸੈਂਡਲ ਡਿਗ ਪਿਆ
✘ 4. ਲੜਕੀ ਦੇ ਸੈਂਡਲ ਡਿਗ ਪਏ

Question ID : **630680248672**
Option 1 ID : **630680964834**
Option 2 ID : **630680964832**
Option 3 ID : **630680964833**
Option 4 ID : **630680964831**
Status : **Answered**
Chosen Option : **2**

Q.9 ਅੰਗਰੇਜ਼ੀ ਦੇ ਨੌਵੇਂ ਮਹੀਨੇ ਨੂੰ ਪੰਜਾਬੀ ਵਿਚ ਕਹਿੰਦੇ ਹਨ:-

Ans
✘ 1. ਜੂਨ
✘ 2. ਅਕਤੂਬਰ
✔ 3. ਸਤੰਬਰ
✘ 4. ਨਵੰਬਰ

Question ID : **630680248706**
Option 1 ID : **630680964970**
Option 2 ID : **630680964967**
Option 3 ID : **630680964968**
Option 4 ID : **630680964969**
Status : **Answered**
Chosen Option : **3**

DAILY JOB Alert ਪੰਜਾਬ
Website - www.dailyjobalert.in

Q.10 ਹੇਠ ਲਿਖੇ ਸ਼ਬਦਾਂ ਵਿਚ 'ਢਾਕ' ਦਾ ਸਹੀ ਅਰਥ ਹੈ:-

Ans
✔ 1. ਵੱਖੀ
✘ 2. ਮਲਮਲ
✘ 3. ਢੱਕਣਾ
✘ 4. ਪਿੱਠ

Question ID : **630680248690**
Option 1 ID : **630680964905**
Option 2 ID : **630680964904**
Option 3 ID : **630680964903**
Option 4 ID : **630680964906**
Status : **Answered**
Chosen Option : **4**

Q.11 'Merciless' ਸ਼ਬਦ ਦਾ ਪੰਜਾਬੀ ਅਨੁਵਾਦ ਹੈ:-

Ans
✔ 1. ਬੇਰਹਿਮ
✘ 2. ਮਿਹਰਬਾਨ
✘ 3. ਚਲਾਕ
✘ 4. ਦਿਆਲੂ

Question ID : **630680248701**
Option 1 ID : **630680964948**
Option 2 ID : **630680964949**
Option 3 ID : **630680964950**
Option 4 ID : **630680964947**
Status : **Answered**
Chosen Option : **1**

Q.12 ਸਹੀ ਵਿਸ਼ਰਾਮ ਚਿੰਨ੍ਹ ਵਾਲਾ ਵਾਕ ਹੈ:-

Ans
✘ 1. 'ਮੇਰੇ ਮਨ ਭਾਉਂਦੇ ਪੰਜਾਬੀ ਲੇਖਕ ਹਨ- ਮੋਹਣ ਸਿੰਘ, ਪੂਰਨ ਸਿੰਘ ਅਤੇ ਅੰਮ੍ਰਿਤਾ ਪ੍ਰੀਤਮ।
✘ 2. ਮੇਰੇ ਮਨ ਭਾਉਂਦੇ ਪੰਜਾਬੀ ਲੇਖਕ ਹਨ: ਮੋਹਣ ਸਿੰਘ, ਪੂਰਨ ਸਿੰਘ, ਅੰਮ੍ਰਿਤਾ ਪ੍ਰੀਤਮ
✘ 3. ਮੇਰੇ ਮਨ ਭਾਉਂਦੇ ਪੰਜਾਬੀ ਲੇਖਕ ਹਨ, ਮੋਹਣ ਸਿੰਘ, ਪੂਰਨ ਸਿੰਘ ਅਤੇ ਅੰਮ੍ਰਿਤਾ ਪ੍ਰੀਤਮ
✔ 4. ਮੇਰੇ ਮਨ ਭਾਉਂਦੇ ਪੰਜਾਬੀ ਲੇਖਕ ਹਨ: ਮੋਹਣ ਸਿੰਘ, ਪੂਰਨ ਸਿੰਘ ਅਤੇ ਅੰਮ੍ਰਿਤਾ ਪ੍ਰੀਤਮ।

Question ID : **630680248694**
Option 1 ID : **630680964919**
Option 2 ID : **630680964920**
Option 3 ID : **630680964921**
Option 4 ID : **630680964922**
Status : **Answered**
Chosen Option : **4**

Q.13 ਐਤਵਾਰ ਤੋਂ ਪਹਿਲਾਂ ਕਿਹੜਾ ਦਿਨ ਆਉਂਦਾ ਹੈ?

Ans
✘ 1. ਛਨਿਛਰਵਾਰ
✘ 2. ਛਨਿੱਚਰਵਾਰ
✘ 3. ਸ਼ਨਿੱਚਰਵਾਰ
✔ 4. ਸਨਿੱਚਰਵਾਰ

Question ID : **630680248708**
Option 1 ID : **630680964977**
Option 2 ID : **630680964978**
Option 3 ID : **630680964976**
Option 4 ID : **630680964975**
Status : **Answered**
Chosen Option : **3**

Website - www.dailyjobalert.in

Q.14 "ਮੋਰਨੀ" ਸ਼ਬਦ ਦਾ ਬਹੁਵਚਨ ਹੈ:-

Ans
1. ਮੋਰਨੀਏ
2. ਮੋਰ
3. ਮੋਰਾਂ
4. ਮੋਰਨੀਆਂ

Question ID : **630680248671**
Option 1 ID : **630680964828**
Option 2 ID : **630680964827**
Option 3 ID : **630680964830**
Option 4 ID : **630680964829**
Status : **Answered**
Chosen Option : **4**

Q.15 ਹੇਠ ਲਿਖਿਆਂ ਵਿਚ ਅਗੇਤਰ ਯੁਕਤ ਸ਼ਬਦ ਹੈ:-

Ans
1. ਘਰ
2. ਉਪਨਾਮ
3. ਖੇਡਣਾ
4. ਬੱਸ

Question ID : **630680248677**
Option 1 ID : **630680964853**
Option 2 ID : **630680964851**
Option 3 ID : **630680964852**
Option 4 ID : **630680964854**
Status : **Answered**
Chosen Option : **2**

Q.16 'ਮੁਗ਼ਲ" ਸ਼ਬਦ ਦਾ ਇਸਤਰੀ ਲਿੰਗ ਹੈ:-

Ans
1. ਮੁਗ਼ਲਾਣੀ
2. ਮੁਗ਼ਲਈ
3. ਮੋਗ਼ਲਣੀ
4. ਮੁਗ਼ਲੀ

Question ID : **630680248673**
Option 1 ID : **630680964838**
Option 2 ID : **630680964835**
Option 3 ID : **630680964837**
Option 4 ID : **630680964836**
Status : **Answered**
Chosen Option : **1**

Q.17 ਬੋਲ-ਚਾਲ ਦੀ ਭਾਸ਼ਾ ਨੂੰ ਲਿਖਣ ਲਗਿਆਂ ਕੋਈ ਅੱਖਰ ਛੱਡਿਆ ਜਾਵੇ ਤਾਂ ਕਿਹੜੇ ਵਿਸ਼ਰਾਮ ਚਿੰਨ੍ਹ ਦੀ ਵਰਤੋਂ ਹੁੰਦੀ ਹੈ?

Ans
1. ਦੁਬਿੰਦੀ ਡੈਸ਼
2. ਪੁੱਠੇ ਕਾਮੇ
3. ਜੋੜਨੀ
4. ਛੁੱਟ ਮਰੋੜੀ

Question ID : **630680248695**
Option 1 ID : **630680964923**
Option 2 ID : **630680964926**
Option 3 ID : **630680964924**
Option 4 ID : **630680964925**
Status : **Answered**
Chosen Option : **3**

Website - www.dailyjobalert.in

Q.18 'Delicate' ਸ਼ਬਦ ਦਾ ਪੰਜਾਬੀ ਅਨੁਵਾਦ ਨਹੀਂ ਹੈ:-

Ans
1. ਸੂਖਮ
2. ਨਾਜ਼ੁਕ
3. ਤੋਸ਼ਾ
4. ਕੋਮਲ

Question ID : **630680248699**
Option 1 ID : **630680964941**
Option 2 ID : **630680964939**
Option 3 ID : **630680964942**
Option 4 ID : **630680964940**
Status : **Answered**
Chosen Option : **1**

Q.19 ਪੰਜਾਬੀ ਵਿਚ 79 ਅੰਕ ਨੂੰ ਕਿਵੇਂ ਲਿਖਦੇ ਹਨ?

Ans
1. ਉਨਾਨਵੇਂ
2. ਉਨਾਸੀ
3. ਨਵਾਸੀ
4. ਉਨੱਤਰ

Question ID : **630680248705**
Option 1 ID : **630680964966**
Option 2 ID : **630680964964**
Option 3 ID : **630680964963**
Option 4 ID : **630680964965**
Status : **Answered**
Chosen Option : **2**

Q.20 "ਜਿਹੜੀ ਗੱਲ ਆਪਣੇ-ਆਪ ਨਾਲ ਬੀਤੀ ਹੋਏ" ਲਈ ਕੋਈ ਇਕ ਸ਼ਬਦ ਚੁਣੋ:-

Ans
1. ਆਤਮ ਬਾਤ
2. ਮੇਰੀ ਬਾਤ
3. ਜਗ ਬੀਤੀ
4. ਹੱਡ ਬੀਤੀ

Question ID : **630680248665**
Option 1 ID : **630680964804**
Option 2 ID : **630680964803**
Option 3 ID : **630680964805**
Option 4 ID : **630680964806**
Status : **Answered**
Chosen Option : **4**

Q.21 'ਆਪਣਾ ਬੱਚਾ _____ ਪਿਆਰਾ ਨਹੀਂ ਹੁੰਦਾ? ਵਿਚ ਖਾਲੀ ਸਥਾਨ ਭਰਨ ਦਾ ਸਹੀ ਵਿਕਲਪ ਹੈ:-

Ans
1. ਉਸ ਨੂੰ
2. ਬਿਲਕੁਲ
3. ਸੱਭ ਨੂੰ
4. ਕਿਸ ਨੂੰ

Question ID : **630680248680**
Option 1 ID : **630680964864**
Option 2 ID : **630680964866**
Option 3 ID : **630680964863**
Option 4 ID : **630680964865**
Status : **Answered**
Chosen Option : **4**

Website - www.dailyjobalert.in

Q.22 1263 ਨੂੰ ਪੰਜਾਬੀ ਸ਼ਬਦਾਂ ਵਿਚ ਲਿਖਣ ਦਾ ਸਹੀ ਵਿਕਲਪ ਹੈ:-

Ans
✔ 1. ਇਕ ਹਜ਼ਾਰ ਦੋ ਸੌ ਤ੍ਰੇਹਠ
✘ 2. ਇਕ ਹਜ਼ਾਰ ਦੋ ਸੌ ਤ੍ਰੇਸਠ
✘ 3. ਇਕ ਹਜ਼ਾਰ ਦੋ ਸੋ ਤ੍ਰੇਟ
✘ 4. ਬਾਰਾਂ ਸੌ ਤ੍ਰੇਹਠ

Question ID : **630680248709**
Option 1 ID : **630680964982**
Option 2 ID : **630680964981**
Option 3 ID : **630680964980**
Option 4 ID : **630680964979**
Status : **Answered**
Chosen Option : **1**

Q.23 "ਮਸਤੀ" ਦਾ ਸਮਾਨਾਰਥਕ ਸ਼ਬਦ ਹੈ:-

Ans
✔ 1. ਖ਼ੁਮਾਰੀ
✘ 2. ਚੈਨ
✘ 3. ਰੁਸਵਾਈ
✘ 4. ਸ਼ਾਂਤੀ

Question ID : **630680248661**
Option 1 ID : **630680964787**
Option 2 ID : **630680964788**
Option 3 ID : **630680964789**
Option 4 ID : **630680964790**
Status : **Answered**
Chosen Option : **1**

Q.24 'ਚੂਹੇ ਨੇ ਖੇਸ ਟੁੱਕ ਦਿੱਤਾ' ਵਾਕ ਦਾ ਲਿੰਗ ਬਦਲ ਕੇ ਲਿਖਿਆ ਸਹੀ ਵਾਕ ਹੈ:-

Ans
✔ 1. ਚੂਹੀ ਨੇ ਖੇਸੀ ਨੂੰ ਟੁੱਕ ਦਿੱਤਾ
✘ 2. ਚੂਹੀ ਨੇ ਖੇਸ ਨੂੰ ਟੁੱਕ ਦਿੱਤਾ
✘ 3. ਚੂਹੀਆਂ ਨੇ ਖੇਸੀ ਨੂੰ ਟੁੱਕ ਦਿੱਤਾ
✘ 4. ਚੂਹੇ ਨੇ ਖੇਸੀ ਨੂੰ ਟੁੱਕ ਦਿੱਤਾ

Question ID : **630680248675**
Option 1 ID : **630680964845**
Option 2 ID : **630680964843**
Option 3 ID : **630680964846**
Option 4 ID : **630680964844**
Status : **Answered**
Chosen Option : **1**

Q.25 'ਜਦੋਂ ਕੋਈ ਆਪ ਕੰਮ ਨਾ ਕਰ ਸਕੇ ਅਤੇ ਕਸੂਰ ਦੂਜਿਆਂ ਦਾ ਕੱਢੇ' ਤਾਂ ਕਿਸ ਅਖਾਣ ਦੀ ਵਰਤੋਂ ਕੀਤੀ ਜਾਂਦੀ ਹੈ:-

Ans
✘ 1. ਆਪੇ ਮੈਂ ਰੱਜੀ ਪੁੱਜੀ ਆਪੇ ਮੇਰੇ ਬੱਚੇ ਜੀਣ
✘ 2. ਉਖਲੀ 'ਚ ਸਿਰ ਦਿਤਾ ਤਾਂ ਡਰਨਾ ਕੀ
✘ 3. ਉਹ ਦਿਨ ਡੁੱਬਾ ਜਦ ਘੋੜੀ ਚੜ੍ਹਿਆ ਕੁਬਾ
✔ 4. ਉੱਠ ਨਾ ਸਕਾਂ, ਫਿੱਟੇ ਮੂਹ ਗੋਡਿਆਂ ਦਾ

Question ID : **630680248670**
Option 1 ID : **630680964823**
Option 2 ID : **630680964824**
Option 3 ID : **630680964826**
Option 4 ID : **630680964825**
Status : **Answered**
Chosen Option : **4**

Website - www.dailyjobalert.in

Q.26 'ਕਾਸ਼! ਮੈਂ ਮੰਤਰੀ ਹੁੰਦਾ। ਵਾਕ ਹੈ:-

Ans
1. ਸਧਾਰਨ ਵਾਕ
2. ਵਿਸਮਕ ਵਾਕ
3. ਸੰਯੁਕਤ ਵਾਕ
4. ਮਿਸ਼ਰਤ ਵਾਕ

Question ID : **630680248683**
Option 1 ID : **630680964875**
Option 2 ID : **630680964876**
Option 3 ID : **630680964877**
Option 4 ID : **630680964878**
Status : **Answered**
Chosen Option : **2**

Q.27 'Nude' ਸ਼ਬਦ ਦਾ ਪੰਜਾਬੀ ਅਨੁਵਾਦ ਹੈ:-

Ans
1. ਨਿਰਲੱਜ
2. ਨਗਨ
3. ਨਿਕੰਮਾ
4. ਅਰਕ

Question ID : **630680248702**
Option 1 ID : **630680964954**
Option 2 ID : **630680964952**
Option 3 ID : **630680964953**
Option 4 ID : **630680964951**
Status : **Answered**
Chosen Option : **2**

Q.28 " ਇੱਟ ਕੁੱਤੇ ਦਾ ਵੈਰ ਹੋਣਾ" ਮੁਹਾਵਰੇ ਦਾ ਅਰਥ ਹੈ:-

Ans
1. ਬਹੁਤ ਡਰ ਜਾਣਾ
2. ਡਾਢੀ ਦੁਸ਼ਮਣੀ ਹੋਣਾ
3. ਬਦਨਾਮੀ ਹੋਣਾ
4. ਕੁੱਤੇ ਨੂੰ ਪੱਥਰ ਮਾਰਨਾ

Question ID : **630680248667**
Option 1 ID : **630680964814**
Option 2 ID : **630680964811**
Option 3 ID : **630680964813**
Option 4 ID : **630680964812**
Status : **Answered**
Chosen Option : **2**

Q.29 'ਸਫਾਈ' ਸ਼ਬਦ ਵਿਚ ਪਿਛੇਤਰ ਹੈ:-

Ans
1. ਸ
2. ਸਫਾ
3. ਈ
4. ਆਈ

Question ID : **630680248678**
Option 1 ID : **630680964858**
Option 2 ID : **630680964857**
Option 3 ID : **630680964856**
Option 4 ID : **630680964855**
Status : **Answered**
Chosen Option : **3**

Website - www.dailyjobalert.in

Q.30 "ਜਿਹੜਾ ਮੇਟਿਆ ਨਾ ਜਾ ਸਕੇ' ਲਈ ਕੋਈ ਇਕ ਸ਼ਬਦ ਚੁਣੋ:-

Ans
✗ 1. ਅਮਿੱਤ
✗ 2. ਅਮੇਘ
✗ 3. ਅਲੱਖ
✓ 4. ਅਮਿਟ

Question ID : **630680248664**
Option 1 ID : **630680964799**
Option 2 ID : **630680964802**
Option 3 ID : **630680964800**
Option 4 ID : **630680964801**
Status : **Answered**
Chosen Option : **4**

Q.31 ਪੰਜਾਬੀ ਵਿਚ ਕਿੰਨੇ ਵਿਸ਼ਰਾਮ ਚਿੰਨ੍ਹ ਹਨ?

Ans
✓ 1. ਤੇਰਾਂ
✗ 2. ਬਾਰਾਂ
✗ 3. ਦਸ
✗ 4. ਨੌਂ

Question ID : **630680248698**
Option 1 ID : **630680964937**
Option 2 ID : **630680964936**
Option 3 ID : **630680964935**
Option 4 ID : **630680964938**
Status : **Answered**
Chosen Option : **3**

Q.32 ਵਿਸਮਕ ਲਈ ਪੰਜਾਬੀ ਵਿਚ ਕਿਹੜਾ ਚਿੰਨ੍ਹ ਵਰਤਿਆ ਜਾਂਦਾ ਹੈ?

Ans
✓ 1. !
✗ 2. <
✗ 3. :
✗ 4. ।

Question ID : **630680248693**
Option 1 ID : **630680964917**
Option 2 ID : **630680964918**
Option 3 ID : **630680964915**
Option 4 ID : **630680964916**
Status : **Answered**
Chosen Option : **1**

Q.33 ਹੇਠ ਲਿਖਿਆਂ ਵਿਚ ਪਿਛੇਤਰ ਯੁਕਤ ਸ਼ਬਦ ਹੈ:-

Ans
✗ 1. ਕਲਮ
✓ 2. ਤਰਤੀਬਵਾਰ
✗ 3. ਬੇਨਾਮ
✗ 4. ਸਵੈਮਾਣ

Question ID : **630680248679**
Option 1 ID : **630680964862**
Option 2 ID : **630680964861**
Option 3 ID : **630680964860**
Option 4 ID : **630680964859**
Status : **Answered**
Chosen Option : **1**

Website - www.dailyjobalert.in

Q.34 ਨਿਮਨ ਲਿਖਤ ਵਿਚ ਕਰਤਰੀ ਵਾਕ ਹੈ:-

Ans
- ✗ 1. ਤੁਹਾਨੂੰ ਹੁਣੇ ਜਾਣ ਦੀ ਆਗਿਆ ਹੋਈ।
- ✗ 2. ਹਰ ਬੱਚੇ ਦੁਆਰਾ ਜ਼ਰੂਰ ਪੜ੍ਹਿਆ ਜਾਏ।
- ✓ 3. ਰਜਨੀ ਰੋਟੀ ਪਕਾਉਂਦੀ ਹੈ।
- ✗ 4. ਰੋਟੀ ਰਜਨੀ ਦੁਆਰਾ ਪਕਾਈ ਜਾਂਦੀ ਹੈ।

Question ID : **630680248684**
Option 1 ID : **630680964882**
Option 2 ID : **630680964881**
Option 3 ID : **630680964879**
Option 4 ID : **630680964880**
Status : **Answered**
Chosen Option : **3**

Q.35 'Scope' ਸ਼ਬਦ ਦਾ ਪੰਜਾਬੀ ਅਨੁਵਾਦ ਹੈ:-

Ans
- ✗ 1. ਠੂਹਾਂ
- ✗ 2. ਤ੍ਰਿਸਕਾਰ
- ✓ 3. ਗੁੰਜਾਇਸ਼
- ✗ 4. ਯਾਨ

Question ID : **630680248703**
Option 1 ID : **630680964955**
Option 2 ID : **630680964956**
Option 3 ID : **630680964957**
Option 4 ID : **630680964958**
Status : **Answered**
Chosen Option : **3**

Q.36 ਕਿਹੜਾ ਸ਼ਬਦ ਸ਼ੁੱਧ ਹੈ:-

Ans
- ✗ 1. ਸੇਹਮਤੀ
- ✗ 2. ਸੈਹਮਤੀ
- ✗ 3. ਸਹਮਤੀ
- ✓ 4. ਸਹਿਮਤੀ

Question ID : **630680248687**
Option 1 ID : **630680964894**
Option 2 ID : **630680964892**
Option 3 ID : **630680964893**
Option 4 ID : **630680964891**
Status : **Answered**
Chosen Option : **4**

Q.37 'ਜੋ ਕਰੇਗਾ ਸੋ ਭਰੇਗਾ' ਵਾਕ ਹੈ:-

Ans
- ✗ 1. ਸੰਯੁਕਤ ਵਾਕ
- ✗ 2. ਸਧਾਰਨ ਵਾਕ
- ✓ 3. ਮਿਸ਼ਰਤ ਵਾਕ
- ✗ 4. ਗੁਝਲਦਾਰ ਵਾਕ

Question ID : **630680248682**
Option 1 ID : **630680964872**
Option 2 ID : **630680964873**
Option 3 ID : **630680964874**
Option 4 ID : **630680964871**
Status : **Answered**
Chosen Option : **1**

Website - www.dailyjobalert.in

Q.38 'ਅਨਹਦ' ਸ਼ਬਦ ਵਿਚ ਅਗੇਤਰ ਹੈ:-

Ans
✔ 1. ਅਨ
✘ 2. ਹਦ
✘ 3. ਅ
✘ 4. ਅਨਹ

Question ID : **630680248676**
Option 1 ID : **630680964847**
Option 2 ID : **630680964849**
Option 3 ID : **630680964848**
Option 4 ID : **630680964850**
Status : **Answered**
Chosen Option : **1**

Q.39 'ਸੰਦੂਕ' ਸ਼ਬਦ ਦਾ ਇਸਤਰੀ ਲਿੰਗ ਹੈ:-

Ans
✘ 1. ਸੰਦੂਕਾਂ
✔ 2. ਸੰਦੂਕੜੀ
✘ 3. ਸੰਦੋਕੜੀ
✘ 4. ਸੰਦੂਕੀ

Question ID : **630680248674**
Option 1 ID : **630680964842**
Option 2 ID : **630680964839**
Option 3 ID : **630680964841**
Option 4 ID : **630680964840**
Status : **Answered**
Chosen Option : **2**

Q.40 ਕਿਹੜਾ ਸ਼ਬਦ ਸ਼ੁੱਧ ਨਹੀਂ ਹੈ:-

Ans
✘ 1. ਕਢਾਉਣਾ
✘ 2. ਲੁਭਾਉਣਾ
✘ 3. ਨਚਾਉਣਾ
✔ 4. ਬਣੌਣਾ

Question ID : **630680248688**
Option 1 ID : **630680964898**
Option 2 ID : **630680964895**
Option 3 ID : **630680964896**
Option 4 ID : **630680964897**
Status : **Answered**
Chosen Option : **4**

Q.41 " ਆਪ ਮੋਏ ਜਗ ਪਰਲੋ" ਅਖਾਣ ਦਾ ਅਰਥ ਹੈ:-

Ans
✘ 1. ਆਪਣਾ ਕੰਮ ਕੱਢ ਕੇ ਲਾਂਭੇ ਹੋਣਾ
✘ 2. ਆਪ ਮਰ ਕੇ ਹੀ ਜਗ ਦੀ ਪ੍ਰਾਪਤੀ ਹੁੰਦੀ ਹੈ
✘ 3. ਮਰ ਕੇ ਜਗ ਤੇ ਪਰਲੋ ਆ ਜਾਂਦੀ ਹੈ
✔ 4. ਜੀ ਨਾਲ ਹੀ ਜਹਾਨ ਹੈ

Question ID : **630680248669**
Option 1 ID : **630680964821**
Option 2 ID : **630680964820**
Option 3 ID : **630680964819**
Option 4 ID : **630680964822**
Status : **Answered**
Chosen Option : **1**

Website - www.dailyjobalert.in

Q.42 ਕਿਹੜਾ ਸ਼ਬਦ ਅਸ਼ੁੱਧ ਹੈ?

Ans
- ✗ 1. ਨਜ਼ਦੀਕ
- ✗ 2. ਮਜਬੂਰ
- ✓ 3. ਮਜ਼ਬੂਰ
- ✗ 4. ਮਜ਼ਦੂਰ

Question ID : **630680248689**
Option 1 ID : **630680964901**
Option 2 ID : **630680964900**
Option 3 ID : **630680964902**
Option 4 ID : **630680964899**
Status : **Answered**
Chosen Option : **2**

Q.43 " ਅੱਗ ਦੇ ਭਾਅ ਹੋਣਾ" ਮੁਹਾਵਰੇ ਨੂੰ ਵਰਤ ਕੇ ਬਣਾਏ ਸ਼ਬਦ ਦੀ ਸਹੀ ਚੋਣ ਕਰੋ:-

Ans
- ✗ 1. ਅੱਗ ਲਾ ਕੇ ਭਾਅ ਨਹੀਂ ਪੁਛਦੇ ਕਿਉਂਕਿ ਇਹ ਮਰਿਆਦਾ ਨਹੀਂ ਹੈ।
- ✗ 2. ਏਨਾ ਦੂਰ ਨਾ ਜਾਓ ਕਿ ਅੱਗ ਦਾ ਭਾਅ ਲਗੇ।
- ✓ 3. ਮਹਿੰਗਾਈ ਦੇ ਜ਼ਮਾਨੇ ਵਿਚ ਹਰੇਕ ਚੀਜ਼ ਅੱਗ ਦੇ ਭਾਅ ਹੋ ਗਈ ਹੈ।
- ✗ 4. ਅੱਗ ਦੇ ਭਾਅ ਖਾਣਾ ਖਾਓ ਤਾਂ ਮਜ਼ਾ ਆਉਂਦਾ ਹੈ।

Question ID : **630680248668**
Option 1 ID : **630680964818**
Option 2 ID : **630680964817**
Option 3 ID : **630680964815**
Option 4 ID : **630680964816**
Status : **Answered**
Chosen Option : **3**

Q.44 ਹੇਠ ਲਿਖਿਆਂ ਵਿਚ ਕਿਹੜੇ ਵਾਕ ਵਿਚ ਸਹੀ ਵਿਸ਼ਰਾਮ ਚਿੰਨ੍ਹ ਲੱਗੇ ਹਨ?

Ans
- ✗ 1. ਹੇਠ ਲਿਖਿਆ ਸਮਾਨ ਭੇਜਿਆ ਜਾਵੇ:- ਇਕ ਸੂਟਕੇਸ, ਦੋ ਅਲਮਾਰੀਆਂ ਅਤੇ ਇਕ ਬੈਗ?
- ✓ 2. ਹੇਠ ਲਿਖਿਆ ਸਮਾਨ ਭੇਜਿਆ ਜਾਵੇ- ਇਕ ਸੂਟਕੇਸ, ਦੋ ਅਲਮਾਰੀਆਂ ਅਤੇ ਇਕ ਬੈਗ।
- ✗ 3. ਹੇਠ ਲਿਖਿਆ ਸਮਾਨ ਭੇਜਿਆ ਜਾਵੇ:- ਇਕ ਸੂਟਕੇਸ ਦੋ ਅਲਮਾਰੀਆਂ ਤੇ ਇਕ ਬੈਗ।
- ✗ 4. ਹੇਠ ਲਿਖਿਆ ਸਮਾਨ ਭੇਜਿਆ ਜਾਵੇ: ਇਕ ਸੂਟਕੇਸ, ਦੋ ਅਲਮਾਰੀਆਂ ਅਤੇ ਇਕ ਬੈਗ।

Question ID : **630680248697**
Option 1 ID : **630680964934**
Option 2 ID : **630680964931**
Option 3 ID : **630680964932**
Option 4 ID : **630680964933**
Status : **Answered**
Chosen Option : **4**

Q.45 'ਬਿਮਾਰ ਇਸਤਰੀ ਨੇ ਦਵਾਈ ਪੀਤੀ ਤੇ ਉਹ ਸੌਂ ਗਈ।'ਵਾਕ ਹੈ:-

Ans
- ✗ 1. ਮਿਸ਼ਰਤ ਵਾਕ
- ✗ 2. ਸਧਾਰਨ ਵਾਕ
- ✗ 3. ਵਿਸਮਕ ਵਾਕ
- ✓ 4. ਸੰਯੁਕਤ

Question ID : **630680248685**
Option 1 ID : **630680964886**
Option 2 ID : **630680964885**
Option 3 ID : **630680964884**
Option 4 ID : **630680964883**
Status : **Answered**
Chosen Option : **4**

Website - www.dailyjobalert.in

Q.46 " ਅਕਲ 'ਤੇ ਪਰਦਾ ਪੈਣਾ" ਮੁਹਾਵਰੇ ਦਾ ਅਰਥ ਹੈ:-

Ans
✔ 1. ਮੱਤ ਮਾਰੀ ਜਾਣੀ
✘ 2. ਅਕਲ ਆ ਜਾਣੀ
✘ 3. ਮੱਤ ਦਾ ਖਿਆਲ ਰੱਖਣਾ
✘ 4. ਅਕਲ ਨਾ ਆਉਣਾ

Question ID : **630680248666**
Option 1 ID : **630680964809**
Option 2 ID : **630680964807**
Option 3 ID : **630680964810**
Option 4 ID : **630680964808**
Status : **Answered**
Chosen Option : **1**

Q.47 ਨਿਮਨ ਲਿਖਤ ਵਿਚ ਕਿਹੜਾ ਵਾਕ ਅਸ਼ੁੱਧ ਹੈ:-

Ans
✘ 1. ਬੱਚੇ ਘਰ ਨਹੀਂ ਹਨ ਇਸ ਲਈ ਘਰ ਉਜਾੜ ਜਾਪਦਾ ਹੈ।
✘ 2. ਬੱਚੇ ਘਰ ਨਾ ਹੋਣ ਤਾਂ ਘਰ ਉਜਾੜ ਜਾਪਦਾ ਹੈ।
✔ 3. ਬੱਚੇ ਨਹੀਂ ਹਨ ਅਤੇ ਘਰ ਉਜਾੜ ਜਾਪਦਾ ਹੈ।
✘ 4. ਘਰ ਉਜਾੜ ਜਾਪਦਾ ਹੈ, ਕਿਉਂਕਿ ਬੱਚੇ ਘਰ ਨਹੀਂ ਹਨ।

Question ID : **630680248686**
Option 1 ID : **630680964889**
Option 2 ID : **630680964890**
Option 3 ID : **630680964887**
Option 4 ID : **630680964888**
Status : **Answered**
Chosen Option : **3**

Q.48 "ਗ਼ੁਲਾਮੀ" ਦਾ ਸਮਾਨਾਰਥਕ ਸ਼ਬਦ ਹੈ:-

Ans
✘ 1. ਪ੍ਰਾਧੀਨ
✘ 2. ਕੈਦ
✔ 3. ਪ੍ਰਾਧੀਨਤਾ
✘ 4. ਜੇਲ੍ਹ

Question ID : **630680248660**
Option 1 ID : **630680964786**
Option 2 ID : **630680964784**
Option 3 ID : **630680964785**
Option 4 ID : **630680964783**
Status : **Answered**
Chosen Option : **2**

Q.49 'Prior' ਸ਼ਬਦ ਦਾ ਪੰਜਾਬੀ ਅਨੁਵਾਦ ਹੈ:-

Ans
✘ 1. ਕਲਾ
✘ 2. ਪੂਰਵ ਅਧਿਕਾਰ
✘ 3. ਲਿਖਤ ਛਾਪ
✔ 4. ਅਗੇਤਰਾ

Question ID : **630680248700**
Option 1 ID : **630680964944**
Option 2 ID : **630680964946**
Option 3 ID : **630680964945**
Option 4 ID : **630680964943**
Status : **Answered**
Chosen Option : **4**

Website - www.dailyjobalert.in

Q.50 ਹੇਠ ਲਿਖੇ ਸ਼ਬਦਾਂ ਵਿਚ ਕਿਹੜਾ 'ਸੁਗੰਧ' ਦਾ ਸਹੀ ਅਰਥ ਹੈ?

Ans
1. ਦੁਰਗੰਧ
2. ਕਸਮ
3. ਖੁਸ਼ਬੋ
4. ਸੌਂਹ

Question ID : **630680248691**
Option 1 ID : **630680964908**
Option 2 ID : **630680964910**
Option 3 ID : **630680964907**
Option 4 ID : **630680964909**
Status : **Answered**
Chosen Option : **3**

Website - www.dailyjobalert.in

PUNJAB POLICE

Police to its last particle is duty

Exam Name	Recruitment for the post of Sub Inspector in Cadres of District and Armed Police 20th Jun to 31st Jul 2023 Paper I
Application No	www.dailyjobalert.in
Roll No	Telegram - Daily Job Alert Punjab
Applicant Name	instagram - Daily Job Alert Punjab
Exam Date	31/07/2023
Shift	9:00 AM - 11:00 AM
Subject	Sub Inspector Paper I

Section : **General Awareness**

Q.1 The government launched the National Rural Livelihood Mission (NRLM) as a measure to alleviate poverty. This scheme of the government is also known as _____.

Ans
✗ 1. Samridhhi
✗ 2. Aashwasan
✗ 3. Sanjeevani
✓ 4. Aajeevika

Question ID : **63068068710**
Option 1 ID : **630680265531**
Option 2 ID : **630680265533**
Option 3 ID : **630680265530**
Option 4 ID : **630680265532**
Status : **Answered**
Chosen Option : **1**

Q.2 The Khalsa Heritage Centre, a museum of the Sikh people, is located near which of the following cities of Punjab?

Ans
✗ 1. Kapurthala
✓ 2. Chandigarh
✗ 3. Amritsar
✗ 4. Ludhiana

Question ID : **630680238528**
Option 1 ID : **630680925129**
Option 2 ID : **630680925130**
Option 3 ID : **630680925128**
Option 4 ID : **630680925131**
Status : **Answered**
Chosen Option : **3**

Website - www.dailyjobalert.in

Q.3 **Identify the correct sequence from North to South of the following neighbouring countries of India.**

Ans
- ✗ 1. China < Pakistan < Maldives <Bangladesh
- ✓ 2. Afghanistan < Nepal < Bangladesh < Sri Lanka
- ✗ 3. Sri Lanka < Afghanistan < Nepal < Bhutan
- ✗ 4. Maldives < Bhutan < Myanmar < Sri Lanka

Question ID : **630680117176**
Option 1 ID : **630680453992**
Option 2 ID : **630680453990**
Option 3 ID : **630680453991**
Option 4 ID : **630680453993**
Status : **Answered**
Chosen Option : **2**

Q.4 **Who among the following was the first secretary of Naujawan Bharat Sabha established in 1926 in Punjab?**

Ans
- ✗ 1. Rajguru
- ✗ 2. Jatin Das
- ✗ 3. Sukhdev
- ✓ 4. Bhagat Singh

Question ID : **630680160035**
Option 1 ID : **630680619525**
Option 2 ID : **630680619527**
Option 3 ID : **630680619524**
Option 4 ID : **630680619526**
Status : **Answered**
Chosen Option : **2**

Q.5 **Which Indian state acquired the world's first genetically modified rubber plant in 2021?**

Ans
- ✓ 1. Assam
- ✗ 2. Maharashtra
- ✗ 3. Karnataka
- ✗ 4. West Bengal

Question ID : **630680113603**
Option 1 ID : **630680439946**
Option 2 ID : **630680439949**
Option 3 ID : **630680439948**
Option 4 ID : **630680439947**
Status : **Answered**
Chosen Option : **3**

Website - www.dailyjobalert.in

Q.6 **Based on the macro variations, India can be divided into how many physiographic divisions?**

Ans
- ✗ 1. Three
- ✗ 2. Five
- ✓ 3. Six
- ✗ 4. Four

Question ID : **630680115706**
Option 1 ID : **630680448162**
Option 2 ID : **630680448164**
Option 3 ID : **630680448165**
Option 4 ID : **630680448163**
Status : **Answered**
Chosen Option : **2**

Q.7 Consider the following lists:

	List I (Group)		List II (Founder)
1	Atmiya Sabha	(a)	Jyotiba Phule
2	Prarthana Sabha	(b)	Debendranath Tagore
3	Satyashodhak Samaj	(c)	Atmaram Pandurang
4	Tattvabodhini Sabha	(d)	Rammohan Roy

Select the correct answer using the code given below:

Ans
- ✗ 1. 1-b, 2-a, 3-d, 4-c
- ✗ 2. 1-d, 2-a, 3-b, 4-c
- ✓ 3. 1-d, 2-c, 3-a, 4-b
- ✗ 4. 1-d, 2-b, 3-a, 4-c

Question ID : **630680176082**
Option 1 ID : **630680682573**
Option 2 ID : **630680682575**
Option 3 ID : **630680682572**
Option 4 ID : **630680682574**
Status : **Answered**
Chosen Option : **1**

Q.8 Which of the following refers to the belief that the test of goodness or badness of a human action is the usefulness of that action?

Ans
- ✗ 1. Scholasticism
- ✗ 2. Rationalism
- ✗ 3. Intuitionism
- ✓ 4. Utilitarianism

Question ID : **630680238359**
Option 1 ID : **630680924455**
Option 2 ID : **630680924454**
Option 3 ID : **630680924453**
Option 4 ID : **630680924452**
Status : **Answered**
Chosen Option : **3**

Website - www.dailyjobalert.in

Q.9 Which Article of the Constitution of India is related to bar to interference by courts in electoral matters of Panchayats?

Ans
✗ 1. Article 243N
✗ 2. Article 243M
✗ 3. Article 243L
✓ 4. Article 243O

Question ID : **63068050585**
Option 1 ID : **630680194656**
Option 2 ID : **630680194655**
Option 3 ID : **630680194654**
Option 4 ID : **630680194657**
Status : **Answered**
Chosen Option : **2**

Q.10 Which Commission was set up to effectively review the working of the Government of India Act, 1919?

Ans
✗ 1. Strachey Commission
✗ 2. Hunter Commission
✓ 3. Simon Commission
✗ 4. Fraser Commission

Question ID : **630680119349**
Option 1 ID : **630680462487**
Option 2 ID : **630680462489**
Option 3 ID : **630680462488**
Option 4 ID : **630680462486**
Status : **Answered**
Chosen Option : **2**

Q.11 Which of the following rivers originates out of India?

Ans
✗ 1. Ravi
✗ 2. Jhelum
✗ 3. Beas
✓ 4. Brahmaputra

Question ID : **63068085274**
Option 1 ID : **630680330602**
Option 2 ID : **630680330603**
Option 3 ID : **630680330600**
Option 4 ID : **630680330601**
Status : **Answered**
Chosen Option : **4**

Website - www.dailyjobalert.in

Q.12 In October 2021, India successfully test-fired its longest-range, surface-to-surface ballistic missile, Agni-V, from:

Ans
✗ 1. Thumbe (Kerala)
✓ 2. APJ Abdul Kalam Island (Odisha)
✗ 3. Satish Dhawan Space Centre (Andhra Pradesh)
✗ 4. Barren Island (Andaman and Nicobar Islands)

Question ID : **630680145740**
Option 1 ID : **630680563887**
Option 2 ID : **630680563888**
Option 3 ID : **630680563886**
Option 4 ID : **630680563889**
Status : **Answered**
Chosen Option : **2**

Q.13 In which article of the Constitution of India is it mentioned that it shall be the duty of every citizen of India to cherish and follow the noble ideals which inspired our national struggle for freedom?

Ans
✓ 1. 51 A (b)
✗ 2. 51 A (e)
✗ 3. 51 A (c)
✗ 4. 51 A (d)

Question ID : **630680158989**
Option 1 ID : **630680615426**
Option 2 ID : **630680615425**
Option 3 ID : **630680615424**
Option 4 ID : **630680615427**
Status : **Answered**
Chosen Option : **2**

Q.14 The discourse between Gargi and Yajnavalkya in the court of King Janaka was mentioned in the _____.

Ans
✗ 1. Isavasya Upanishad
✗ 2. Aitareya Upanishad
✗ 3. Kaushitaki Upanishad
✓ 4. Brahadaranyaka Upanishad

Question ID : **63068053050**
Option 1 ID : **630680204305**
Option 2 ID : **630680204302**
Option 3 ID : **630680204303**
Option 4 ID : **630680204304**
Status : **Answered**
Chosen Option : **4**

DAILY JOB Alert ਪੰਜਾਬ

Q.15 Moorish Mosque which was commissioned by Maharaja Jagatjit Singh and designed by the French architect Monsieur M Manteaux is in which district of Punjab?

Ans
✗ 1. Mansa
✗ 2. Bathinda
✓ 3. Kapurthala
✗ 4. Amritsar

Question ID : **630680238600**
Option 1 ID : **630680925416**
Option 2 ID : **630680925417**
Option 3 ID : **630680925419**
Option 4 ID : **630680925418**
Status : **Answered**
Chosen Option : **3**

Q.16 The main objective of the 'Kishori Shakti Yojana' is to improve the nutritional and health status of girls belonging to the age group of _____ years.

Ans
✗ 1. 18-21
✓ 2. 11-18
✗ 3. 15-18
✗ 4. 10-15

Question ID : **630680238368**
Option 1 ID : **630680924488**
Option 2 ID : **630680924490**
Option 3 ID : **630680924489**
Option 4 ID : **630680924491**
Status : **Answered**
Chosen Option : **4**

Q.17 Who released the India's State of Forest Report 2021?

Ans
✗ 1. Sh. Prakash Javedkar
✓ 2. Sh. Bhupender Yadav
✗ 3. Sh. Narendera Modi
✗ 4. Sh. Anurag Thakur

Question ID : **630680212570**
Option 1 ID : **630680824421**
Option 2 ID : **630680824420**
Option 3 ID : **630680824419**
Option 4 ID : **630680824422**
Status : **Answered**
Chosen Option : **1**

Website - www.dailyjobalert.in

Q.18 **What were the senior officers entrusted with the task of touring the empire every five years and performing an audit as well as keeping a check on the provincial administration of the Mauryan Empire called?**

Ans
- ✗ 1. Amatyas
- ✗ 2. Rajukas
- ✓ 3. Pradeshikas
- ✗ 4. Durgapatis

Question ID : **63068087757**
Option 1 ID : **630680340414**
Option 2 ID : **630680340416**
Option 3 ID : **630680340413**
Option 4 ID : **630680340415**
Status : **Answered**
Chosen Option : **3**

Q.19 According to the 'Rig Veda', which of the following rivers was known as 'Parusni'?

Ans
- ✓ 1. Ravi
- ✗ 2. Chenab
- ✗ 3. Sutlej
- ✗ 4. Beas

Question ID : **630680238433**
Option 1 ID : **630680924750**
Option 2 ID : **630680924751**
Option 3 ID : **630680924748**
Option 4 ID : **630680924749**
Status : **Answered**
Chosen Option : **3**

Q.20 **In which of the following years was the Indian Forest Service established as the third All India Service?**

Ans
- ✗ 1. 1972
- ✗ 2. 1968
- ✗ 3. 1963
- ✓ 4. 1966

Question ID : **63068099212**
Option 1 ID : **630680385555**
Option 2 ID : **630680385554**
Option 3 ID : **630680385552**
Option 4 ID : **630680385553**
Status : **Answered**
Chosen Option : **1**

DAILY JOB Alert ਪੰਜਾਬ

Q.21 **In the first seven plans, trade was characterised by what is commonly called_____.**

Ans
- ✗ 1. an export substitution strategy
- ✓ 2. an inward looking trade strategy
- ✗ 3. a licensing strategy
- ✗ 4. a labour intensive strategy

Question ID : **63068056653**
Option 1 ID : **630680218547**
Option 2 ID : **630680218546**
Option 3 ID : **630680218548**
Option 4 ID : **630680218549**
Status : **Answered**
Chosen Option : **3**

Q.22 **_____ indicated that the state would lead the process of industrialisation in the economy.**

Ans
- ✗ 1. IPR-1964
- ✗ 2. IPR-1952
- ✓ 3. IPR-1956
- ✗ 4. IPR-1960

Question ID : **63068059045**
Option 1 ID : **630680227805**
Option 2 ID : **630680227802**
Option 3 ID : **630680227803**
Option 4 ID : **630680227804**
Status : **Answered**
Chosen Option : **2**

Q.23 Which of the following is the popular Winter Harvest Festival of Punjab state?

Ans
- ✓ 1. Lohri
- ✗ 2. Hola Mohalla
- ✗ 3. Teeyan
- ✗ 4. Basant Panchmi

Question ID : **630680238514**
Option 1 ID : **630680925072**
Option 2 ID : **630680925074**
Option 3 ID : **630680925073**
Option 4 ID : **630680925075**
Status : **Answered**
Chosen Option : **4**

Website - www.dailyjobalert.in

Q.24 Virat Kohli broke the record of becoming the quickest batsman to complete 23000 runs in international cricket in 2021. In how many innings did he reach this feat?

Ans
✗ 1. 514
✓ 2. 490
✗ 3. 511
✗ 4. 493

Question ID : **630680139157**
Option 1 ID : **630680538741**
Option 2 ID : **630680538738**
Option 3 ID : **630680538740**
Option 4 ID : **630680538739**
Status : **Answered**
Chosen Option : **4**

Q.25 In August 2021, who won the Hungarian Grand Prix?

Ans
✗ 1. Fernando Alonso
✓ 2. Esteban Ocon
✗ 3. Lewis Hamilton
✗ 4. Sebastian Vettel

Question ID : **63068090328**
Option 1 ID : **630680350087**
Option 2 ID : **630680350086**
Option 3 ID : **630680350088**
Option 4 ID : **630680350089**
Status : **Answered**
Chosen Option : **3**

Q.26 Which of the following tribes of Nagaland performs the Monyu Asho dance?

Ans
✓ 1. Phom Nagas
✗ 2. Sumi Nagas
✗ 3. Angami Nagas
✗ 4. Chakesang Nagas

Question ID : **63068092881**
Option 1 ID : **630680360215**
Option 2 ID : **630680360218**
Option 3 ID : **630680360217**
Option 4 ID : **630680360216**
Status : **Answered**
Chosen Option : **2**

Q.27 What do you call a specific group of people who share common characteristics?

Ans
✗ 1. Organisation
✗ 2. Public
✓ 3. Community
✗ 4. Population

Question ID : **63068054932**
Option 1 ID : **630680211758**
Option 2 ID : **630680211760**
Option 3 ID : **630680211761**
Option 4 ID : **630680211759**
Status : **Answered**
Chosen Option : **3**

Website - www.dailyjobalert.in

Q.28 **With reference to the Executive in the states in India, which of the following statements is/are correct?**
1.At the state level, the executive comprises the Governor, the Chief Minister and the Council of Ministers.
2.The Governor of a state is appointed by the Union Cabinet.
3.Indian citizens above 30 years of age are eligible for appointment as Governor of a state.

Ans
✗ 1. Only 1 and 2
✓ 2. Only 1
✗ 3. Only 1 and 3
✗ 4. Only 3

Question ID : **630680117217**
Option 1 ID : **630680454157**
Option 2 ID : **630680454154**
Option 3 ID : **630680454155**
Option 4 ID : **630680454156**
Status : **Answered**
Chosen Option : **1**

Q.29 **The following oil fields are located in Assam, EXCEPT:**

Ans
✗ 1. Moran-Hugrijan
✗ 2. Galeki
✗ 3. Nahar Katiya
✓ 4. Kharsang

Question ID : **63068059734**
Option 1 ID : **630680230507**
Option 2 ID : **630680230509**
Option 3 ID : **630680230506**
Option 4 ID : **630680230508**
Status : **Answered**
Chosen Option : **3**

Q.30 **UGC is the funding authority for university education in India. UGC stands for _____.**

Ans
✗ 1. Universal Grants Commission
✓ 2. University Grants Commission
✗ 3. Universal Grants Council
✗ 4. University Grants Council

Question ID : **63068059089**
Option 1 ID : **630680227979**
Option 2 ID : **630680227981**
Option 3 ID : **630680227978**
Option 4 ID : **630680227980**
Status : **Answered**
Chosen Option : **2**

Website - www.dailyjobalert.in

Q.31 The Punjab Reorganization Act was passed in the year _____.

Ans
✗ 1. 1950
✓ 2. 1966
✗ 3. 1971
✗ 4. 1962

Question ID : **630680238421**
Option 1 ID : **630680924700**
Option 2 ID : **630680924702**
Option 3 ID : **630680924703**
Option 4 ID : **630680924701**
Status : **Answered**
Chosen Option : **2**

Q.32 Which of the following is the official language of china?

Ans
✗ 1. Wu
✗ 2. Foochow
✗ 3. Hakka
✓ 4. Mandarin

Question ID : **630680115741**
Option 1 ID : **630680448302**
Option 2 ID : **630680448303**
Option 3 ID : **630680448305**
Option 4 ID : **630680448304**
Status : **Answered**
Chosen Option : **2**

Q.33 Which country is separated from India by the Gulf of Mannar?

Ans
✓ 1. Sri Lanka
✗ 2. China
✗ 3. Myanmar
✗ 4. Afghanistan

Question ID : **630680115827**
Option 1 ID : **630680448642**
Option 2 ID : **630680448645**
Option 3 ID : **630680448644**
Option 4 ID : **630680448643**
Status : **Answered**
Chosen Option : **1**

Website - www.dailyjobalert.in

Q.34 Which Amendment Act included the Right to Education in the list of Fundamental Rights?

Ans
✔ 1. 86th Amendment Act
✘ 2. 92nd Amendment Act
✘ 3. 74th Amendment Act
✘ 4. 73rd Amendment Act

Question ID : **630680134740**
Option 1 ID : **630680521780**
Option 2 ID : **630680521781**
Option 3 ID : **630680521779**
Option 4 ID : **630680521778**
Status : **Answered**
Chosen Option : **3**

Q.35 Which Schedule of the Constitution of India lists various languages to be used for government purposes in India?

Ans
✘ 1. Schedule 7
✔ 2. Schedule 8
✘ 3. Schedule 6
✘ 4. Schedule 11

Question ID : **63068086124**
Option 1 ID : **630680333929**
Option 2 ID : **630680333930**
Option 3 ID : **630680333928**
Option 4 ID : **630680333931**
Status : **Answered**
Chosen Option : **1**

Q.36 What is the name of the development practice listed during the Rio summit?

Ans
✘ 1. Agenda 20
✘ 2. Agenda 22
✔ 3. Agenda 21
✘ 4. Agenda 19

Question ID : **63068049672**
Option 1 ID : **630680191119**
Option 2 ID : **630680191121**
Option 3 ID : **630680191120**
Option 4 ID : **630680191118**
Status : **Answered**
Chosen Option : **1**

Website - www.dailyjobalert.in

Q.37 Which State/Union Territory government in September 2021 launched a Rural Enterprises Acceleration Programme titled 'Saath' for Self Help Group (SHG) women aimed at economic empowerment and development of rural women?

Ans
✔ 1. Jammu and Kashmir
✘ 2. Uttarakhand
✘ 3. Arunachal Pradesh
✘ 4. Himachal Pradesh

Question ID : **630680134089**
Option 1 ID : **630680519250**
Option 2 ID : **630680519252**
Option 3 ID : **630680519253**
Option 4 ID : **630680519251**
Status : **Answered**
Chosen Option : **2**

Q.38 ICMR launched MUDRA Toolbox for dementia patients in which of the following Indian languages?

Ans
✘ 1. Hindi, English, Bengali, Kannada, Malayalam
✔ 2. Hindi, Bengali, Telugu, Kannada, Malayalam
✘ 3. Hindi, Bengali, Tamil, Kannada, Telugu
✘ 4. Hindi, English Tamil, Telugu, Kannada

Question ID : **630680127555**
Option 1 ID : **630680494481**
Option 2 ID : **630680494483**
Option 3 ID : **630680494482**
Option 4 ID : **630680494480**
Status : **Answered**
Chosen Option : **1**

Q.39 Under the Maternity Benefit (Amendment) Act, 2017, the government has increased the duration of paid maternity leave from 12 weeks to _____ weeks.

Ans
✘ 1. 35
✘ 2. 30
✔ 3. 26
✘ 4. 18

Question ID : **630680238386**
Option 1 ID : **630680924562**
Option 2 ID : **630680924561**
Option 3 ID : **630680924560**
Option 4 ID : **630680924563**
Status : **Answered**
Chosen Option : **3**

Website - www.dailyjobalert.in

Q.40 **Chennakeshava Temple is a medieval architecture in the state of _____.**

Ans
✗ 1. Goa
✓ 2. Karnataka
✗ 3. Kerala
✗ 4. Maharashtra

Question ID : **630680138991**
Option 1 ID : **630680538076**
Option 2 ID : **630680538075**
Option 3 ID : **630680538074**
Option 4 ID : **630680538077**
Status : **Answered**
Chosen Option : **2**

Q.41 In which year was the Battle of Bhangani fought between Guru Gobind Singh Ji and Bhim Chand (king of Bilaspur)?

Ans
✓ 1. 1688
✗ 2. 1694
✗ 3. 1692
✗ 4. 1690

Question ID : **630680238551**
Option 1 ID : **630680925220**
Option 2 ID : **630680925223**
Option 3 ID : **630680925222**
Option 4 ID : **630680925221**
Status : **Answered**
Chosen Option : **2**

Q.42 **To which of the following states does Kelucharan Mohapatra, the legendary Indian classical dancer, belong?**

Ans
✗ 1. Andhra Pradesh
✗ 2. Bihar
✗ 3. Assam
✓ 4. Odisha

Question ID : **63068089801**
Option 1 ID : **630680347978**
Option 2 ID : **630680347979**
Option 3 ID : **630680347981**
Option 4 ID : **630680347980**
Status : **Answered**
Chosen Option : **1**

Website - www.dailyjobalert.in

Q.43 The Patiala Craft Mela is held in Punjab state in which of the following months?

Ans
✗ 1. October
✗ 2. September
✗ 3. May
✓ 4. February

Question ID : **630680238474**
Option 1 ID : **630680924915**
Option 2 ID : **630680924914**
Option 3 ID : **630680924912**
Option 4 ID : **630680924913**
Status : **Answered**
Chosen Option : **2**

Q.44 What is the capital of Lakshadweep?

Ans
✗ 1. Minicoy
✗ 2. Agatti
✓ 3. Kavaratti
✗ 4. Kadmat

Question ID : **63068099125**
Option 1 ID : **630680385205**
Option 2 ID : **630680385207**
Option 3 ID : **630680385204**
Option 4 ID : **630680385206**
Status : **Answered**
Chosen Option : **1**

Q.45 Haryana was separated from the state of Punjab in which of the following years?

Ans
✓ 1. 1966
✗ 2. 1956
✗ 3. 1963
✗ 4. 1953

Question ID : **630680238414**
Option 1 ID : **630680924675**
Option 2 ID : **630680924673**
Option 3 ID : **630680924674**
Option 4 ID : **630680924672**
Status : **Answered**
Chosen Option : **1**

DAILY JOB Alert ਪੰਜਾਬ

Q.46 Which Union Territory tops in the ranking of SDG India Index 2020-21?

Ans
✔ 1. Chandigarh
✘ 2. Ladakh
✘ 3. Lakshadweep
✘ 4. Puducherry

Question ID : **63068098969**
Option 1 ID : **630680384582**
Option 2 ID : **630680384583**
Option 3 ID : **630680384580**
Option 4 ID : **630680384581**
Status : **Answered**
Chosen Option : **4**

Q.47 Which of the following is an environmental ethic that humans are expected to follow?

Ans
✘ 1. Going to a place of worship
✘ 2. Respecting the opposite gender
✘ 3. Punctuality in school
✔ 4. Less usage of plastic

Question ID : **630680238332**
Option 1 ID : **630680924344**
Option 2 ID : **630680924346**
Option 3 ID : **630680924345**
Option 4 ID : **630680924347**
Status : **Answered**
Chosen Option : **4**

Q.48 Which of the following is a female folk dance in Punjab?

Ans
✘ 1. Jhumar
✘ 2. Julli
✔ 3. Gidda
✘ 4. Bhangra

Question ID : **630680238607**
Option 1 ID : **630680925446**
Option 2 ID : **630680925445**
Option 3 ID : **630680925447**
Option 4 ID : **630680925444**
Status : **Answered**
Chosen Option : **3**

Website - www.dailyjobalert.in

Q.49 Who amongst the following won the German Book Trade's 2021 Peace Prize?

Ans
✗ 1. Amartya Sen
✓ 2. Tsitsi Dangarembga
✗ 3. Max Tau
✗ 4. Saul Friedlander

Question ID : **63068058405**
Option 1 ID : **630680225314**
Option 2 ID : **630680225315**
Option 3 ID : **630680225317**
Option 4 ID : **630680225316**
Status : **Answered**
Chosen Option : **1**

Q.50 In _____, PEPSU was merged into Punjab state, and several northern districts of Punjab in the Himalayas were added to Himachal Pradesh.

Ans
✗ 1. 1947
✗ 2. 1954
✗ 3. 1949
✓ 4. 1956

Question ID : **630680238491**
Option 1 ID : **630680924980**
Option 2 ID : **630680924982**
Option 3 ID : **630680924981**
Option 4 ID : **630680924983**
Status : **Answered**
Chosen Option : **2**

Section : **Quantitative Aptitude and Numerical Skills**

Q.51 Find the smallest number to be added to 1000, so that 35 divides the sum exactly.

Ans
✓ 1. 15
✗ 2. 35
✗ 3. 1015
✗ 4. 20

Question ID : **63068094390**
Option 1 ID : **630680366257**
Option 2 ID : **630680366256**
Option 3 ID : **630680366258**
Option 4 ID : **630680366255**
Status : **Answered**
Chosen Option : **1**

Website - www.dailyjobalert.in

Q.52 A motorcycle goes 10 metres in two seconds. Find its speed in km/h.

Ans
✔ 1. 18
✘ 2. 36
✘ 3. 40
✘ 4. 32

Question ID : **63068079832**
Option 1 ID : **630680309356**
Option 2 ID : **630680309355**
Option 3 ID : **630680309353**
Option 4 ID : **630680309354**
Status : **Answered**
Chosen Option : **1**

Q.53 If the slant length of a cone is 3.5 times the diameter, then the ratio of the value of the volume of the cone and slant height is _____ if the diameter is 2

Ans
✘ 1. $7\pi : 4\sqrt{3}$
✔ 2. $4\pi : 7\sqrt{3}$
✘ 3. $3\pi : 7\sqrt{3}$
✘ 4. $4\pi : 3\sqrt{7}$

Question ID : **63068094982**
Option 1 ID : **630680368626**
Option 2 ID : **630680368623**
Option 3 ID : **630680368624**
Option 4 ID : **630680368625**
Status : **Answered**
Chosen Option : **1**

Q.54 The area of an equilateral triangle with side 4 cm is ____.

Ans
✘ 1. $16\ cm^2$
✔ 2. $4\sqrt{3}\ cm^2$
✘ 3. $\sqrt{3}\ cm^2$
✘ 4. $16\sqrt{3}\ cm^2$

Question ID : **63068094377**
Option 1 ID : **630680366203**
Option 2 ID : **630680366204**
Option 3 ID : **630680366206**
Option 4 ID : **630680366205**
Status : **Answered**
Chosen Option : **4**

Website - www.dailyjobalert.in

Q.55 **X can cultivate 7/10 part of the land in 15 days. After that, he completes the remaining work in 4 days with the help of Y. In how many days will X and Y together do the same work?**

Ans

✗ 1. $1\frac{3}{7}$ days

✗ 2. $\frac{3}{40}$ days

✗ 3. $\frac{7}{3}$ days

✓ 4. $13\frac{1}{3}$ days

Question ID : **630680139496**
Option 1 ID : **630680540052**
Option 2 ID : **630680540050**
Option 3 ID : **630680540053**
Option 4 ID : **630680540051**
Status : **Answered**
Chosen Option : **4**

Q.56 **A refrigerator wholesaler has offered a scheme of 10% discount on its listed price. He purchased a refrigerator for ₹45,000 and still gained 15%. Find the listed price of the refrigerator.**

Ans

✓ 1. ₹57,500

✗ 2. ₹56,500

✗ 3. ₹58,500

✗ 4. ₹57,800

Question ID : **630680131481**
Option 1 ID : **630680509170**
Option 2 ID : **630680509172**
Option 3 ID : **630680509173**
Option 4 ID : **630680509171**
Status : **Answered**
Chosen Option : **3**

Q.57

Which of the following is the value of the given expression?

$$\frac{16}{72} \times 81^{0.12} \times 9^{0.06} \times 3^{1.4}$$

Ans

✓ 1. 2

✗ 2. $9^{1.4}$

✗ 3. 3^2

✗ 4. 81

Question ID : **630680208125**
Option 1 ID : **630680806731**
Option 2 ID : **630680806734**
Option 3 ID : **630680806733**
Option 4 ID : **630680806732**
Status : **Answered**
Chosen Option : **1**

Website - www.dailyjobalert.in

Q.58 The value of $\frac{5^2}{(3^2+4^2)^4} \div \left(\frac{1}{625}\right)^{1.5} \times \left(\frac{2}{3}\right)^{-2}$ is:

Ans

✗ 1. $\frac{4}{9}$

✗ 2. $\frac{225}{4}$

✓ 3. $\frac{9}{4}$

✗ 4. $\frac{100}{9}$

Question ID : **63068094932**
Option 1 ID : **630680368425**
Option 2 ID : **630680368423**
Option 3 ID : **630680368426**
Option 4 ID : **630680368424**
Status : **Answered**
Chosen Option : **2**

Q.59 What is the LCM of $\frac{2}{3}, \frac{8}{9}, \frac{16}{81}, \frac{10}{27}$?

Ans

✗ 1. $\frac{3}{80}$

✗ 2. $\frac{380}{3}$

✓ 3. $\frac{80}{3}$

✗ 4. $\frac{30}{8}$

Question ID : **63068068469**
Option 1 ID : **630680264581**
Option 2 ID : **630680264579**
Option 3 ID : **630680264578**
Option 4 ID : **630680264580**
Status : **Answered**
Chosen Option : **3**

DAILY JOB Alert ਪੰਜਾਬ

Q.60 Simplify the following. $\frac{5 \times 0.5 \times 0.05 \times 0.005 \times 50}{6 \times 0.6 \times 0.06 \times 0.006 \times 60}$

Ans

✗ 1. $\frac{3145}{7796}$

✗ 2. $\frac{3115}{7766}$

✓ 3. $\frac{3125}{7776}$

✗ 4. $\frac{3135}{7786}$

Question ID : **630680103474**
Option 1 ID : **630680402142**
Option 2 ID : **630680402139**
Option 3 ID : **630680402140**
Option 4 ID : **630680402141**
Status : **Answered**
Chosen Option : **3**

Q.61 **A man goes from a place X to Y at a speed of 40 km/h and returns from Y to X at a speed of 10 km/h. The average speed for the whole journey is:**

Ans

✗ 1. 8 km/h

✗ 2. 4 km/h

✓ 3. 16 km/h

✗ 4. 20 km/h

Question ID : **630680112230**
Option 1 ID : **630680434647**
Option 2 ID : **630680434646**
Option 3 ID : **630680434648**
Option 4 ID : **630680434649**
Status : **Answered**
Chosen Option : **3**

Website - www.dailyjobalert.in

Q.62 Given that q = 4 for p = 1 and p varies inversely as square of q. Which of the following options is equal to the value of p for q = 8?

Ans

✗ 1. $\frac{1}{2}$

✗ 2. $\frac{1}{16}$

✓ 3. $\frac{1}{4}$

✗ 4. $\frac{1}{8}$

Question ID : **630680138411**
Option 1 ID : **630680535867**
Option 2 ID : **630680535869**
Option 3 ID : **630680535866**
Option 4 ID : **630680535868**
Status : **Not Answered**
Chosen Option : **--**

Q.63 Find the volume of a sphere whose diameter is 84cm.

Ans

✗ 1. $512643cm^3$

✓ 2. $310464cm^3$

✗ 3. $610254cm^3$

✗ 4. $216439cm^3$

Question ID : **630680101830**
Option 1 ID : **630680395680**
Option 2 ID : **630680395681**
Option 3 ID : **630680395682**
Option 4 ID : **630680395683**
Status : **Answered**
Chosen Option : **4**

Q.64 In a 50-litre mixture of milk and water, there is 16% water. How much water should be added to it so as to increase the percentage of water to 40%?

Ans

✗ 1. 60 litres

✓ 2. 20 litres

✗ 3. 30 litres

✗ 4. 35 litres

Question ID : **630680115622**
Option 1 ID : **630680447839**
Option 2 ID : **630680447841**
Option 3 ID : **630680447840**
Option 4 ID : **630680447838**
Status : **Answered**
Chosen Option : **2**

Website - www.dailyjobalert.in

Q.65 If $\left(\frac{9}{4}\right)^{3/2} \times \left(\frac{16}{81}\right)^{2} \div \left(\frac{2}{3}\right)^{4+a} = \frac{9}{4}$, then $\frac{5^a}{a}$ is _____.

Ans
1. 5
2. $\frac{125}{3}$
3. $\frac{625}{4}$
4. $\frac{25}{2}$

Question ID : **63068091894**
Option 1 ID : **630680356312**
Option 2 ID : **630680356310**
Option 3 ID : **630680356313**
Option 4 ID : **630680356311**
Status : **Not Answered**
Chosen Option : **--**

Q.66 If the cost price of 20 bulbs is equal to the selling price of 36 bulbs, then what is the loss percentage?

Ans
1. 44.44%
2. 43.22%
3. 44.01%
4. 44.25%

Question ID : **630680131122**
Option 1 ID : **630680507759**
Option 2 ID : **630680507760**
Option 3 ID : **630680507761**
Option 4 ID : **630680507758**
Status : **Answered**
Chosen Option : **1**

Q.67 Rajesh travelled from Howrah to Kolkata by bike at a speed of 15 km/h and returned to Howrah at a speed of 30 km/h. The average speed for the whole journey is:

Ans
1. 20 km/h
2. 22.5 km/h
3. 24 km/h
4. 40 km/h

Question ID : **630680107702**
Option 1 ID : **630680418100**
Option 2 ID : **630680418102**
Option 3 ID : **630680418103**
Option 4 ID : **630680418101**
Status : **Answered**
Chosen Option : **1**

Website - www.dailyjobalert.in

Q.68 ₹20,250 is divided among A, B and C in such a way that the share of A is $\frac{7}{8}$ of the combined share of B and C. Find A's share.

Ans
✗ 1. ₹8,592
✓ 2. ₹9,450
✗ 3. ₹7,545
✗ 4. ₹8,000

Question ID : **630680203980**
Option 1 ID : **630680791119**
Option 2 ID : **630680791120**
Option 3 ID : **630680791121**
Option 4 ID : **630680791122**
Status : **Answered**
Chosen Option : **2**

Q.69 **When a number is divided by 483, the remainder is 19. What will be the remainder when the same number is divided by 23?**

Ans
✓ 1. 19
✗ 2. 17
✗ 3. 18
✗ 4. 21

Question ID : **63068079801**
Option 1 ID : **630680309229**
Option 2 ID : **630680309231**
Option 3 ID : **630680309232**
Option 4 ID : **630680309230**
Status : **Answered**
Chosen Option : **1**

Q.70 **The mean of the data using the relation between mean, median and mode when it is given that mode is 32.5 and median is 25.5, is:**

Ans
✗ 1. 11
✓ 2. 22
✗ 3. 66
✗ 4. 44

Question ID : **630680195480**
Option 1 ID : **630680758389**
Option 2 ID : **630680758391**
Option 3 ID : **630680758392**
Option 4 ID : **630680758390**
Status : **Not Answered**
Chosen Option : **--**

Website - www.dailyjobalert.in

Q.71 $\frac{3}{4}$ of the difference between $2\frac{1}{6}$ and $1\frac{1}{9}$ is subtracted from $\frac{3}{4}$ of $4\frac{1}{3}$. The resultant value is:

Ans

✗ 1. $\frac{59}{48}$

✓ 2. $\frac{59}{24}$

✗ 3. $\frac{78}{24}$

✗ 4. $\frac{48}{59}$

Question ID : **63068076093**
Option 1 ID : **630680294477**
Option 2 ID : **630680294478**
Option 3 ID : **630680294480**
Option 4 ID : **630680294479**
Status : **Answered**
Chosen Option : **2**

Q.72 **Three spheres of radii 15 m, 9 m and 12 m are melted to form a new sphere. Find the radius of the new sphere.**

Ans

✗ 1. 6 m

✗ 2. 12 m

✗ 3. 24 m

✓ 4. 18 m

Question ID : **630680121603**
Option 1 ID : **630680471362**
Option 2 ID : **630680471363**
Option 3 ID : **630680471365**
Option 4 ID : **630680471364**
Status : **Answered**
Chosen Option : **2**

Q.73 If the simple interest on a certain sum for 4 years is $\frac{10}{25}$ of the sum, then the rate of interest per annum is:

Ans

✗ 1. 9%

✗ 2. 11%

✗ 3. 12%

✓ 4. 10%

Question ID : **630680222884**
Option 1 ID : **630680865295**
Option 2 ID : **630680865297**
Option 3 ID : **630680865298**
Option 4 ID : **630680865296**
Status : **Answered**
Chosen Option : **4**

Website - www.dailyjobalert.in

Q.74 Let $x = \frac{\left(\frac{3}{2}\right)^3}{3^6} \times 5^2(2^4+3^2)^{0.5}$. Then the value of $x^{-\frac{2}{3}}$ is:

Ans

✗ 1. $\frac{6}{5}$

✗ 2. $\frac{25}{36}$

✗ 3. $\frac{5}{6}$

✓ 4. $\frac{36}{25}$

Question ID : **63068079124**
Option 1 ID : **630680306535**
Option 2 ID : **630680306534**
Option 3 ID : **630680306536**
Option 4 ID : **630680306533**
Status : **Not Answered**
Chosen Option : **--**

Q.75 **If 0.25 : x :: 5 : 9, then x = ?**

Ans

✗ 1. 0.75

✗ 2. 0.25

✗ 3. 0.55

✓ 4. 0.45

Question ID : **630680125158**
Option 1 ID : **630680485412**
Option 2 ID : **630680485410**
Option 3 ID : **630680485413**
Option 4 ID : **630680485411**
Status : **Answered**
Chosen Option : **4**

Q.76 **If the mean of four observations, x + 1,x + 2,x + 3 and x + 4 is 68.5, find the mean of the first two observations.**

Ans

✓ 1. 67.5

✗ 2. 61.5

✗ 3. 60.5

✗ 4. 65.5

Question ID : **630680198871**
Option 1 ID : **630680771214**
Option 2 ID : **630680771212**
Option 3 ID : **630680771211**
Option 4 ID : **630680771213**
Status : **Answered**
Chosen Option : **2**

Website - www.dailyjobalert.in

Q.77 **A man is four times as old his son. After 6 years, the man's age will be three times that of his son. The sum of their present ages is:**

Ans
✗ 1. 90 years
✗ 2. 80 years
✓ 3. 60 years
✗ 4. 70 years

Question ID : **630680206385**
Option 1 ID : **630680800315**
Option 2 ID : **630680800316**
Option 3 ID : **630680800318**
Option 4 ID : **630680800317**
Status : **Answered**
Chosen Option : **3**

Q.78 **A solid cylinder having a radius of its base as 14 cm and length as 26 cm is bisected from its height to get two identical cylinders. What is the percentage increase in the total surface area?**

Ans
✗ 1. 48.15%
✗ 2. 40%
✗ 3. 50.15%
✓ 4. 35%

Question ID : **630680112256**
Option 1 ID : **630680434740**
Option 2 ID : **630680434741**
Option 3 ID : **630680434738**
Option 4 ID : **630680434739**
Status : **Answered**
Chosen Option : **3**

Q.79 **If ₹164 is due in 4 years at 2% simple interest per annum, what is the present worth?**

Ans
✗ 1. ₹151.75
✗ 2. ₹151.05
✓ 3. ₹151.85
✗ 4. ₹151.95

Question ID : **630680131495**
Option 1 ID : **630680509229**
Option 2 ID : **630680509228**
Option 3 ID : **630680509226**
Option 4 ID : **630680509227**
Status : **Answered**
Chosen Option : **3**

Website - www.dailyjobalert.in

Q.80 An article marked for ₹60,000 is available in two schemes of discount. Under scheme 1, successive discounts of 10%, 18% and 15% are offered. Under scheme 2, successive discounts of 5%, 10% and 16% are offered. Find the difference in the selling prices under the two schemes.

Ans
✗ 1. ₹5,400
✗ 2. ₹5,424
✓ 3. ₹5,454
✗ 4. ₹5,444

Question ID : **630680104350**
Option 1 ID : **630680405615**
Option 2 ID : **630680405616**
Option 3 ID : **630680405618**
Option 4 ID : **630680405617**
Status : **Answered**
Chosen Option : **3**

Section : **Punjabi Language**

Q.81 ਸ਼ਬਦ ਕਿੰਨੇ ਪ੍ਰਕਾਰ ਦੇ ਹੁੰਦੇ ਹਨ?

Ans
✗ 1. 7
✗ 2. 5
✗ 3. 6
✓ 4. 8

Question ID : **630680241320**
Option 1 ID : **630680935708**
Option 2 ID : **630680935707**
Option 3 ID : **630680935709**
Option 4 ID : **630680935710**
Status : **Answered**
Chosen Option : **4**

Q.82 ਪੰਜਾਬੀ ਭਾਸ਼ਾ ਦੇ ਵਿਅੰਜਨ 'ਠ' ਦਾ ਉਚਾਰਨ ਸਥਾਨ ਕਿਹੜਾ ਹੈ:-

Ans
✓ 1. ਕਠੋਰ ਤਾਲਵੀ
✗ 2. ਮੂਰਧੁਨੀ
✗ 3. ਦੰਤੀ
✗ 4. ਹੋਂਠੀ

Question ID : **630680241331**
Option 1 ID : **630680935752**
Option 2 ID : **630680935754**
Option 3 ID : **630680935753**
Option 4 ID : **630680935751**
Status : **Answered**
Chosen Option : **1**

Website - www.dailyjobalert.in

Q.83 'ਅਸੀਂ ਜਾਣਦੇ ਹਾਂ ਸਭ ਕੁਝ।' ਵਾਕ ਨੂੰ ਸ਼ੁੱਧ ਕਰਕੇ ਲਿਖੋ।

Ans
1. ਅਸੀਂ ਸਭ ਕੁਝ ਹੀ ਜਾਣਦੇ ਹਾਂ।
2. ਅਸੀਂ ਸਭ ਕੁਝ ਜਾਣਦੇ ਹਾਂ।
3. ਅਸੀਂ ਕੁਝ ਸਭ ਜਾਣਦੇ ਹਾਂ।
4. ਅਸੀਂ ਜਾਣਦੇ ਹਾਂ ਕੁਝ ਸਭ।

Question ID : **630680241324**
Option 1 ID : **630680935726**
Option 2 ID : **630680935724**
Option 3 ID : **630680935725**
Option 4 ID : **630680935723**
Status : **Answered**
Chosen Option : **2**

Q.84 ਪੜਨਾਂਵ ਦੀਆ ਕਿੰਨੀਆਂ ਕਿਸਮਾਂ ਹਨ?

Ans
1. ਦੋ
2. ਪੰਜ
3. ਚਾਰ
4. ਛੇ

Question ID : **630680241318**
Option 1 ID : **630680935699**
Option 2 ID : **630680935700**
Option 3 ID : **630680935701**
Option 4 ID : **630680935702**
Status : **Answered**
Chosen Option : **2**

Q.85 'ਜਨਮ' ਸ਼ਬਦ ਦਾ ਵਿਰੋਧੀ ਸ਼ਬਦ ਕਿਹੜਾ ਹੈ?

Ans
1. ਜਾਣੂ
2. ਝਗੜਾ
3. ਮੌਤ
4. ਜੰਗ

Question ID : **630680241326**
Option 1 ID : **630680935734**
Option 2 ID : **630680935733**
Option 3 ID : **630680935731**
Option 4 ID : **630680935732**
Status : **Answered**
Chosen Option : **3**

Website - www.dailyjobalert.in

Q.86 'CAPTURE' ਸ਼ਬਦ ਦਾ ਪੰਜਾਬੀ ਅਨੁਵਾਦ ਚੁਣੋ:-

Ans
✔ 1. ਕਬਜ਼ਾ ਕਰਨਾ
✘ 2. ਜਾਣ ਦੇਣਾ
✘ 3. ਨਾਲ ਰੱਖਣਾ
✘ 4. ਆਜ਼ਾਦ ਕਰਨਾ

Question ID : **630680241333**
Option 1 ID : **630680935761**
Option 2 ID : **630680935762**
Option 3 ID : **630680935760**
Option 4 ID : **630680935759**
Status : **Answered**
Chosen Option : **1**

Q.87 'ABUSE' ਸ਼ਬਦ ਦਾ ਪੰਜਾਬੀ ਅਨੁਵਾਦ ਚੁਣੋ:-

Ans
✘ 1. ਗੁੱਸੇ ਨਾਲ ਦੇਖਣਾ
✘ 2. ਮਾਰਨਾ
✘ 3. ਲੜਾਈ
✔ 4. ਦੁਰਵਿਹਾਰ

Question ID : **630680241332**
Option 1 ID : **630680935757**
Option 2 ID : **630680935755**
Option 3 ID : **630680935756**
Option 4 ID : **630680935758**
Status : **Answered**
Chosen Option : **4**

Q.88 ਹੇਠ ਲਿਖਿਆ ਵਿੱਚੋਂ ਕਿਹੜਾ ਸ਼ੁੱਧ ਸ਼ਬਦ ਹੈ?

Ans
✘ 1. ਬਰੀ
✘ 2. ਬੱਰੀ
✘ 3. ਬਰ੍ਹੀ
✔ 4. ਬੱਘੀ

Question ID : **630680241323**
Option 1 ID : **630680935720**
Option 2 ID : **630680935722**
Option 3 ID : **630680935719**
Option 4 ID : **630680935721**
Status : **Answered**
Chosen Option : **2**

Website - www.dailyjobalert.in

Q.89 'ਜਿਸ ਦੀ ਔਲਾਦ ਹੋਵੇ।' ਉਸ ਨੂੰ ਕੀ ਕਹਿੰਦੇ ਹਨ?

Ans
✗ 1. ਖਰੂੜ
✗ 2. ਖਾਂਗੜ
✗ 3. ਔਤਰਾਂ
✓ 4. ਸੌਤਰਾ

Question ID : **630680241329**
Option 1 ID : **630680935746**
Option 2 ID : **630680935744**
Option 3 ID : **630680935743**
Option 4 ID : **630680935745**
Status : **Answered**
Chosen Option : **4**

Q.90 'ਪਦ' ਸ਼ਬਦ ਦਾ ਸਮਾਨਾਰਥੀ ਸ਼ਬਦ ਦੱਸੋ।

Ans
✗ 1. ਉੰਝਾ
✓ 2. ਅਹੁਦਾ
✗ 3. ਨੇਕ
✗ 4. ਚੋਖਾ

Question ID : **630680241327**
Option 1 ID : **630680935735**
Option 2 ID : **630680935737**
Option 3 ID : **630680935738**
Option 4 ID : **630680935736**
Status : **Answered**
Chosen Option : **2**

Q.91 'ਝੱਲਾ' ਸ਼ਬਦ ਦਾ ਵਿਰੋਧੀ ਸ਼ਬਦ ਕਿਹੜਾ ਹੈ?

Ans
✓ 1. ਸਿਆਣਾ
✗ 2. ਸੱਚਾ
✗ 3. ਝੂਠ
✗ 4. ਕੁੱਠਾ

Question ID : **630680241325**
Option 1 ID : **630680935730**
Option 2 ID : **630680935728**
Option 3 ID : **630680935729**
Option 4 ID : **630680935727**
Status : **Answered**
Chosen Option : **1**

Website - www.dailyjobalert.in

Q.92 'ਔਹ', 'ਇਹ' ਪੜਨਾਂਵ ਦੀ ਕਿਹੜੀ ਕਿਸਮ ਹੈ?

Ans
1. ਪ੍ਰਸ਼ਨਵਾਚਕ ਪੜਨਾਂਵ
2. ਸਬੰਧਵਾਚਕ ਪੜਨਾਂਵ
3. ਅਨਿਸ਼ਚੇਵਾਚਕ ਪੜਨਾਂਵ
4. ਨਿਸ਼ਚੇਵਾਚਕ ਪੜਨਾਂਵ ✔

Question ID : **630680241319**
Option 1 ID : **630680935706**
Option 2 ID : **630680935705**
Option 3 ID : **630680935703**
Option 4 ID : **630680935704**
Status : **Answered**
Chosen Option : **4**

Q.93 'ਜੋ ਦੂਜਿਆ ਦੇ ਕੰਮਾਂ ਵਿੱਚ ਖਾਮ-ਖਾਹ ਦਖ਼ਲ ਦੇਵੇ।' ਉਸ ਨੂੰ ਕੀ ਕਹਿੰਦੇ ਹਨ?

Ans
1. ਖਰੜ
2. ਖਾਂਗੜ
3. ਖੜਪੈਂਚ ✔
4. ਖਿੱਲ

Question ID : **630680241328**
Option 1 ID : **630680935742**
Option 2 ID : **630680935739**
Option 3 ID : **630680935740**
Option 4 ID : **630680935741**
Status : **Answered**
Chosen Option : **3**

Q.94 ਪੰਜਾਬੀ ਵਾਕ ਨੂੰ ਖਤਮ ਕਰਨ ਲਈ ਕਿਸ ਵਿਸ਼ਰਾਮ ਚਿੰਨ੍ਹ ਦੀ ਵਰਤੋਂ ਕੀਤੀ ਜਾਂਦੀ ਹੈ?

Ans
1. ਦੁਬਿੰਦੀ
2. ਡੰਡੀ ✔
3. ਕਾਮਾ
4. ਬਰੈਕਟ

Question ID : **630680241330**
Option 1 ID : **630680935750**
Option 2 ID : **630680935747**
Option 3 ID : **630680935748**
Option 4 ID : **630680935749**
Status : **Answered**
Chosen Option : **2**

Website - www.dailyjobalert.in

Q.95 ਪੰਜਾਬੀ ਦੀਆਂ ਅਨੁਨਾਸਕੀ ਧੁਨੀਆਂ ਕਿਹੜੀਆਂ ਹਨ?

Ans
✗ 1. ਠ,ਝ,ਗ,ਭ,ਤ
✗ 2. ਗ,ਰ,ਤ,ਵ,ਮ
✓ 3. ਝ,ਢ,ਨ,ਣ,ਮ
✗ 4. ਤ,ਥ,ਦ,ਭ,ਨ

Question ID : **630680241321**
Option 1 ID : **630680935714**
Option 2 ID : **630680935712**
Option 3 ID : **630680935713**
Option 4 ID : **630680935711**
Status : **Answered**
Chosen Option : **4**

Q.96 ਹੇਠ ਲਿਖਿਆ ਵਿੱਚੋਂ ਕਿਹੜਾ ਸ਼ੁੱਧ ਸ਼ਬਦ ਹੈ?

Ans
✗ 1. ਪਿਣਾ
✗ 2. ਪੀਨਾਂ
✓ 3. ਪੀਣਾ
✗ 4. ਪੀਨਾ

Question ID : **630680241322**
Option 1 ID : **630680935717**
Option 2 ID : **630680935718**
Option 3 ID : **630680935715**
Option 4 ID : **630680935716**
Status : **Answered**
Chosen Option : **3**

Comprehension:

ਗੁਰੂ ਜੀ ਬੜੀ ਸੋਚ ਵਿਚਾਰ ਪਿੱਛੋਂ ਇਸ ਸਿੱਟੇ ਤੇ ਪੁੱਜੇ ਕਿ ਤਾਲੀਮ ਹਾਸਲ ਕਰਨ ਦਾ ਸ਼ੌਕ ਸਿੱਖਾਂ ਵਿੱਚ ਆਮ ਹੋਣਾ ਚਾਹੀਦਾ ਹੈ। ਉਹ ਆਪ ਹਿੰਦੀ, ਸੰਸਕ੍ਰਿਤ, ਫਾਰਸੀ, ਅਰਬੀ ਤੇ ਪੰਜਾਬੀ ਦੇ ਉੱਚ ਵਿਦਵਾਨ ਸਨ। ਉਨ੍ਹਾਂ ਨੇ ਕਵੀ ਦਰਬਾਰਾਂ ਦਾ ਰਿਵਾਜ਼ ਇਸ ਲਈ ਚਲਾਇਆ ਕਿ ਲੋਕਾਂ ਵਿੱਚ ਵਿੱਦਿਆ ਦਾ ਸ਼ੌਕ ਪੈਦਾ ਹੋ ਜਾਵੇ। ਇਨ੍ਹਾਂ ਦਰਬਾਰਾਂ ਵਿੱਚ ਬੜੀ ਉੱਚ ਕੋਟੀ ਦੇ ਸ਼ਾਇਰ ਇੱਕਠੇ ਹੁੰਦੇ। ਕਵਿਤਾ ਅਤੇ ਲੇਖਣੀ ਦੇ ਮੁਕਾਬਲੇ ਹੁੰਦੇ। ਜਿਹੜੇ ਪਹਿਲੇ ਨੰਬਰਾਂ 'ਤੇ ਰਹਿੰਦੇ ਉਨ੍ਹਾਂ ਨੂੰ ਗੁਰ ਦਰਬਾਰ ਤੋਂ ਸਿਰੋਪਾ ਤੇ ਇਨਾਮ ਮਿਲਦਾ। ਗੁਰੂ ਜੀ ਨੇ ਆਪ ਆਪਣੇ ਜੀਵਨ ਦੇ ਕੁਝ ਸਾਲ ਖਾਲਸਾ-ਪੰਥ ਸਜਾਉਣ ਤੋਂ ਪਹਿਲਾਂ ਇਕਾਂਤ ਵਿੱਚ ਪਹਾੜੀ ਟਿੱਲੇ 'ਤੇ ਗੁਜ਼ਾਰੇ ਸਨ। ਇਸ ਸਮੇਂ ਆਪ ਨੇ ਕਈ ਪੁਸਤਕਾਂ ਰਚੀਆਂ ਅਤੇ ਕਈ ਬਹੁਮੁੱਲੇ ਹਿੰਦੀ ਤੇ ਸੰਸਕ੍ਰਿਤ ਗ੍ਰੰਥਾਂ ਦੇ ਤਰਜਮੇ ਕੀਤੇ ਤੇ ਹੋਰਾਂ ਤੋਂ ਵੀ ਕਰਵਾਏ। ਅਫਸੋਸ ਕਿ ਇਹ ਭਾਰੀ ਵਿੱਦਿਆ ਦਾ ਖਜ਼ਾਨਾ ਲੜਾਈ ਦੌਰਾਨ ਸਰਸਾ ਨਦੀ ਦੀ ਭੇਟ ਚੜ੍ਹ ਗਿਆ।

SubQuestion No : 97

Q.97 **ਕਵੀ ਦਰਬਾਰਾਂ ਦਾ ਰਿਵਾਜ਼ ਕਿਉਂ ਪਾਇਆ ਗਿਆ?**

Ans
✓ 1. ਲੋਕਾਂ ਵਿੱਚ ਵਿੱਦਿਆ ਦਾ ਸ਼ੌਕ ਪੈਦਾ ਕਰਨ ਲਈ।
✗ 2. ਵੱਧ ਕਵਿਤਾ ਲਿਖੀ ਜਾ ਸਕੇ।
✗ 3. ਲੋਕਾਂ ਦਾ ਕਵਿਤਾ ਨਾਲ ਮਨੋਰੰਜਨ ਕਰਨ ਲਈ।
✗ 4. ਕਵੀਆਂ ਨੂੰ ਸਨਮਾਨਿਤ ਕਰਨ ਲਈ।

Question ID : **630680241336**
Option 1 ID : **630680935767**
Option 2 ID : **630680935769**
Option 3 ID : **630680935770**
Option 4 ID : **630680935768**
Status : **Answered**
Chosen Option : **1**

Website - www.dailyjobalert.in

Comprehension:

ਗੁਰੂ ਜੀ ਬੜੀ ਸੋਚ ਵਿਚਾਰ ਪਿੱਛੋਂ ਇਸ ਸਿੱਟੇ ਤੇ ਪੁੱਜੇ ਕਿ ਤਾਲੀਮ ਹਾਸਲ ਕਰਨ ਦਾ ਸ਼ੌਕ ਸਿੱਖਾਂ ਵਿੱਚ ਆਮ ਹੋਣਾ ਚਾਹੀਦਾ ਹੈ। ਉਹ ਆਪ ਹਿੰਦੀ, ਸੰਸਕ੍ਰਿਤ, ਫਾਰਸੀ, ਅਰਬੀ ਤੇ ਪੰਜਾਬੀ ਦੇ ਉੱਚ ਵਿਦਵਾਨ ਸਨ। ਉਨ੍ਹਾਂ ਨੇ ਕਵੀ ਦਰਬਾਰਾਂ ਦਾ ਰਿਵਾਜ਼ ਇਸ ਲਈ ਚਲਾਇਆ ਕਿ ਲੋਕਾਂ ਵਿੱਚ ਵਿੱਦਿਆ ਦਾ ਸ਼ੌਕ ਪੈਦਾ ਹੋ ਜਾਵੇ। ਇਨ੍ਹਾਂ ਦਰਬਾਰਾਂ ਵਿੱਚ ਬੜੀ ਉੱਚ ਕੋਟੀ ਦੇ ਸ਼ਾਇਰ ਇੱਕਠੇ ਹੁੰਦੇ। ਕਵਿਤਾ ਅਤੇ ਲੇਖਣੀ ਦੇ ਮੁਕਾਬਲੇ ਹੁੰਦੇ। ਜਿਹੜੇ ਪਹਿਲੇ ਨੰਬਰਾਂ 'ਤੇ ਰਹਿੰਦੇ ਉਨ੍ਹਾਂ ਨੂੰ ਗੁਰ ਦਰਬਾਰ ਤੋਂ ਸਿਰੋਪਾ ਤੇ ਇਨਾਮ ਮਿਲਦਾ। ਗੁਰੂ ਜੀ ਨੇ ਆਪ ਆਪਣੇ ਜੀਵਨ ਦੇ ਕੁਝ ਸਾਲ ਖਾਲਸਾ-ਪੰਥ ਸਜਾਉਣ ਤੋਂ ਪਹਿਲਾਂ ਇਕਾਂਤ ਵਿੱਚ ਪਹਾੜੀ ਟਿੱਲੇ 'ਤੇ ਗੁਜ਼ਾਰੇ ਸਨ। ਇਸ ਸਮੇਂ ਆਪ ਨੇ ਕਈ ਪੁਸਤਕਾਂ ਰਚੀਆਂ ਅਤੇ ਕਈ ਬਹੁਮੁੱਲੇ ਹਿੰਦੀ ਤੇ ਸੰਸਕ੍ਰਿਤ ਗ੍ਰੰਥਾਂ ਦੇ ਤਰਜਮੇ ਕੀਤੇ ਤੇ ਹੋਰਾਂ ਤੋਂ ਵੀ ਕਰਵਾਏ। ਅਫਸੋਸ ਕਿ ਇਹ ਭਾਰੀ ਵਿੱਦਿਆ ਦਾ ਖਜ਼ਾਨਾ ਲੜਾਈ ਦੌਰਾਨ ਸਰਸਾ ਨਦੀ ਦੀ ਭੇਟ ਚੜ੍ਹ ਗਿਆ।

SubQuestion No : 98

Q.98 ਗੁਰੂ ਜੀ ਨੇ ਪੁਸਤਕਾਂ ਦੀ ਰਚਨਾ ਕਿੱਥੇ ਕੀਤੀ?

Ans

✗ 1. ਪਹਾੜੀ

✗ 2. ਉੱਚੀ ਥਾਂ

✓ 3. ਪਹਾੜੀ ਟਿੱਲੇ 'ਤੇ

✗ 4. ਢਾਹਾ

Question ID : **630680241338**
Option 1 ID : **630680935776**
Option 2 ID : **630680935778**
Option 3 ID : **630680935777**
Option 4 ID : **630680935775**
Status : **Answered**
Chosen Option : **3**

Comprehension:

ਗੁਰੂ ਜੀ ਬੜੀ ਸੋਚ ਵਿਚਾਰ ਪਿੱਛੋਂ ਇਸ ਸਿੱਟੇ ਤੇ ਪੁੱਜੇ ਕਿ ਤਾਲੀਮ ਹਾਸਲ ਕਰਨ ਦਾ ਸ਼ੌਕ ਸਿੱਖਾਂ ਵਿੱਚ ਆਮ ਹੋਣਾ ਚਾਹੀਦਾ ਹੈ। ਉਹ ਆਪ ਹਿੰਦੀ, ਸੰਸਕ੍ਰਿਤ, ਫਾਰਸੀ, ਅਰਬੀ ਤੇ ਪੰਜਾਬੀ ਦੇ ਉੱਚ ਵਿਦਵਾਨ ਸਨ। ਉਨ੍ਹਾਂ ਨੇ ਕਵੀ ਦਰਬਾਰਾਂ ਦਾ ਰਿਵਾਜ਼ ਇਸ ਲਈ ਚਲਾਇਆ ਕਿ ਲੋਕਾਂ ਵਿੱਚ ਵਿੱਦਿਆ ਦਾ ਸ਼ੌਕ ਪੈਦਾ ਹੋ ਜਾਵੇ। ਇਨ੍ਹਾਂ ਦਰਬਾਰਾਂ ਵਿੱਚ ਬੜੀ ਉੱਚ ਕੋਟੀ ਦੇ ਸ਼ਾਇਰ ਇੱਕਠੇ ਹੁੰਦੇ। ਕਵਿਤਾ ਅਤੇ ਲੇਖਣੀ ਦੇ ਮੁਕਾਬਲੇ ਹੁੰਦੇ। ਜਿਹੜੇ ਪਹਿਲੇ ਨੰਬਰਾਂ 'ਤੇ ਰਹਿੰਦੇ ਉਨ੍ਹਾਂ ਨੂੰ ਗੁਰ ਦਰਬਾਰ ਤੋਂ ਸਿਰੋਪਾ ਤੇ ਇਨਾਮ ਮਿਲਦਾ। ਗੁਰੂ ਜੀ ਨੇ ਆਪ ਆਪਣੇ ਜੀਵਨ ਦੇ ਕੁਝ ਸਾਲ ਖਾਲਸਾ-ਪੰਥ ਸਜਾਉਣ ਤੋਂ ਪਹਿਲਾਂ ਇਕਾਂਤ ਵਿੱਚ ਪਹਾੜੀ ਟਿੱਲੇ 'ਤੇ ਗੁਜ਼ਾਰੇ ਸਨ। ਇਸ ਸਮੇਂ ਆਪ ਨੇ ਕਈ ਪੁਸਤਕਾਂ ਰਚੀਆਂ ਅਤੇ ਕਈ ਬਹੁਮੁੱਲੇ ਹਿੰਦੀ ਤੇ ਸੰਸਕ੍ਰਿਤ ਗ੍ਰੰਥਾਂ ਦੇ ਤਰਜਮੇ ਕੀਤੇ ਤੇ ਹੋਰਾਂ ਤੋਂ ਵੀ ਕਰਵਾਏ। ਅਫਸੋਸ ਕਿ ਇਹ ਭਾਰੀ ਵਿੱਦਿਆ ਦਾ ਖਜ਼ਾਨਾ ਲੜਾਈ ਦੌਰਾਨ ਸਰਸਾ ਨਦੀ ਦੀ ਭੇਟ ਚੜ੍ਹ ਗਿਆ।

SubQuestion No : 99

Q.99 ਗੁਰੂ ਜੀ ਨੇ ਕਿੰਨੇ ਸਾਲ ਇਕਾਂਤ ਵਿੱਚ ਪਹਾੜੀ ਟਿੱਲੇ ਉੱਤੇ ਗੁਜ਼ਾਰੇ?

Ans

✗ 1. 20 ਸਾਲ

✓ 2. ਕੁੱਝ ਸਾਲ

✗ 3. 15 ਸਾਲ

✗ 4. 10 ਸਾਲ

Question ID : **630680241335**
Option 1 ID : **630680935766**
Option 2 ID : **630680935763**
Option 3 ID : **630680935765**
Option 4 ID : **630680935764**
Status : **Answered**
Chosen Option : **2**

Comprehension:

ਗੁਰੂ ਜੀ ਬੜੀ ਸੋਚ ਵਿਚਾਰ ਪਿੱਛੋਂ ਇਸ ਸਿੱਟੇ ਤੇ ਪੁੱਜੇ ਕਿ ਤਾਲੀਮ ਹਾਸਲ ਕਰਨ ਦਾ ਸ਼ੌਕ ਸਿੱਖਾਂ ਵਿੱਚ ਆਮ ਹੋਣਾ ਚਾਹੀਦਾ ਹੈ। ਉਹ ਆਪ ਹਿੰਦੀ, ਸੰਸਕ੍ਰਿਤ, ਫਾਰਸੀ, ਅਰਬੀ ਤੇ ਪੰਜਾਬੀ ਦੇ ਉੱਚ ਵਿਦਵਾਨ ਸਨ। ਉਨ੍ਹਾਂ ਨੇ ਕਵੀ ਦਰਬਾਰਾਂ ਦਾ ਰਿਵਾਜ਼ ਇਸ ਲਈ ਚਲਾਇਆ ਕਿ ਲੋਕਾਂ ਵਿੱਚ ਵਿੱਦਿਆ ਦਾ ਸ਼ੌਕ ਪੈਦਾ ਹੋ ਜਾਵੇ। ਇਨ੍ਹਾਂ ਦਰਬਾਰਾਂ ਵਿੱਚ ਬੜੀ ਉੱਚ ਕੋਟੀ ਦੇ ਸ਼ਾਇਰ ਇੱਕਠੇ ਹੁੰਦੇ। ਕਵਿਤਾ ਅਤੇ ਲੇਖਣੀ ਦੇ ਮੁਕਾਬਲੇ ਹੁੰਦੇ। ਜਿਹੜੇ ਪਹਿਲੇ ਨੰਬਰਾਂ 'ਤੇ ਰਹਿੰਦੇ ਉਨ੍ਹਾਂ ਨੂੰ ਗੁਰ ਦਰਬਾਰ ਤੋਂ ਸਿਰੋਪਾ ਤੇ ਇਨਾਮ ਮਿਲਦਾ। ਗੁਰੂ ਜੀ ਨੇ ਆਪ ਆਪਣੇ ਜੀਵਨ ਦੇ ਕੁਝ ਸਾਲ ਖਾਲਸਾ-ਪੰਥ ਸਜਾਉਣ ਤੋਂ ਪਹਿਲਾਂ ਇਕਾਂਤ ਵਿੱਚ ਪਹਾੜੀ ਟਿੱਲੇ 'ਤੇ ਗੁਜ਼ਾਰੇ ਸਨ। ਇਸ ਸਮੇਂ ਆਪ ਨੇ ਕਈ ਪੁਸਤਕਾਂ ਰਚੀਆਂ ਅਤੇ ਕਈ ਬਹੁਮੁੱਲੇ ਹਿੰਦੀ ਤੇ ਸੰਸਕ੍ਰਿਤ ਗ੍ਰੰਥਾਂ ਦੇ ਤਰਜਮੇ ਕੀਤੇ ਤੇ ਹੋਰਾਂ ਤੋਂ ਵੀ ਕਰਵਾਏ। ਅਫਸੋਸ ਕਿ ਇਹ ਭਾਰੀ ਵਿੱਦਿਆ ਦਾ ਖਜ਼ਾਨਾ ਲੜਾਈ ਦੌਰਾਨ ਸਰਸਾ ਨਦੀ ਦੀ ਭੇਟ ਚੜ੍ਹ ਗਿਆ।

SubQuestion No : 100

Q.100 ਕਿਹੜਾ ਖਜ਼ਾਨਾ ਸਰਸਾ ਨਦੀ ਵਿੱਚ ਤਬਾਹ ਹੋ ਗਿਆ ਸੀ?

Ans

✗ 1. ਕੀਮਤੀ ਗਹਿਣੇ

✗ 2. ਕੀਮਤੀ ਕੱਪੜੇ

✗ 3. ਰੁਪਇਆ ਪੈਸਾ

✓ 4. ਰਚੇ ਹੋਏ ਗ੍ਰੰਥ

Question ID : **630680241337**
Option 1 ID : **630680935771**
Option 2 ID : **630680935774**
Option 3 ID : **630680935773**
Option 4 ID : **630680935772**
Status : **Answered**
Chosen Option : **4**

DAILY JOB Alert ਪੰਜਾਬ

PUNJAB POLICE

Police to its last particle is duty

Exam Name	Recruitment for the post of Sub Inspector in Cadres of District and Armed Police 20th Jun to 31st Jul 2023 S2 Paper II and III
Application No	www.dailyjobalert.in
Roll No	Telegram - Daily Job Alert Punjab
Applicant Name	instagram - Daily Job Alert Punjab
Exam Date	31/07/2023
Shift	12:30 PM - 3:30 PM
Subject	Sub Inspector Paper II and III

Section : **Logical and Analytical Reasoning and Data Interpretation**

Q.1 Rita starts from point A and drives 2 km towards the east. She then takes a left turn, drives 5 km and then again turns left and drives 2 km. She then takes a final left turn and drives 3 km and stops at point E. How far and towards which direction should she drive in order to reach point A again?

Ans
✔ 1. 2 km, south
✘ 2. 2 km, north
✘ 3. 3 km, north
✘ 4. 3 km, south

Question ID : **630680166396**
Option 1 ID : **630680644537**
Option 2 ID : **630680644536**
Option 3 ID : **630680644538**
Option 4 ID : **630680644539**
Status : **Answered**
Chosen Option : **1**

Q.2 In a code language, 'WALKED' is coded as DEOOAW and 'ENJOYS' is coded as SYMSNE. How will 'FRIGHT' be coded in the same language?

Ans
✘ 1. FTGRES
✘ 2. TKHFLR
✔ 3. THLKRF
✘ 4. FSHLKT

Question ID : **630680147839**
Option 1 ID : **630680572070**
Option 2 ID : **630680572071**
Option 3 ID : **630680572073**
Option 4 ID : **630680572072**
Status : **Answered**
Chosen Option : **3**

Website - www.dailyjobalert.in

Q.3 'S + T' means 'S is the husband of T'

'S − T' means 'S is the mother of T'

'S * T' means 'S is the daughter of T'

'S ÷ T' means 'S is the sister of T'

What is the relation of A with F in the expression 'D * E ÷ A + B − F'?

Ans
1. Son
2. Father
3. Mother's brother
4. Brother

Question ID : **630680127367**
Option 1 ID : **630680493737**
Option 2 ID : **630680493736**
Option 3 ID : **630680493738**
Option 4 ID : **630680493739**
Status : **Answered**
Chosen Option : **2**

Q.4 **Select the letter-cluster from among the given options that can replace the question mark (?) in the following series.**
GOZ, JQX, ?, PUT, SWR

Ans
1. MSU
2. MRU
3. MST
4. MSV

Question ID : **63068048604**
Option 1 ID : **630680187027**
Option 2 ID : **630680187026**
Option 3 ID : **630680187028**
Option 4 ID : **630680187029**
Status : **Answered**
Chosen Option : **4**

Q.5 **Select the option in which the words share the same relationship as that shared by the given pair of words.**

Doctor : Stethoscope

Ans
1. Surgeon : Test tube
2. Warrior : Battlefield
3. Woodcutter : Wood
4. Sculptor : Chisel

Question ID : **63068063298**
Option 1 ID : **630680244358**
Option 2 ID : **630680244359**
Option 3 ID : **630680244361**
Option 4 ID : **630680244360**
Status : **Answered**
Chosen Option : **3**

Website - www.dailyjobalert.in

Q.6 **PN13F is related to SK16C in a certain way. In the same way, L12QK is related to O9TH. Similarly, following the same pattern, DPH23 is related to GMK20. To which of the following is T21CR related, following the same logic?**

Ans
✗ 1. Q24AU
✗ 2. W24AO
✓ 3. W18FO
✗ 4. Q18FU

Question ID : **63068077039**
Option 1 ID : **630680298256**
Option 2 ID : **630680298254**
Option 3 ID : **630680298253**
Option 4 ID : **630680298255**
Status : **Answered**
Chosen Option : **3**

Q.7 **What should come in place of the question mark (?) in the given series in order to make it logically complete?**
A20D, C30G, E42J, G56M, ?

Ans
✓ 1. I72P
✗ 2. H70S
✗ 3. H30R
✗ 4. I72R

Question ID : **630680127181**
Option 1 ID : **630680493154**
Option 2 ID : **630680493153**
Option 3 ID : **630680493156**
Option 4 ID : **630680493155**
Status : **Answered**
Chosen Option : **1**

Q.8 **How many leap years are there in the first 400 years of a calendar?**

Ans
✗ 1. 99
✓ 2. 97
✗ 3. 100
✗ 4. 98

Question ID : **63068083875**
Option 1 ID : **630680325094**
Option 2 ID : **630680325093**
Option 3 ID : **630680325095**
Option 4 ID : **630680325092**
Status : **Answered**
Chosen Option : **2**

Website - www.dailyjobalert.in

Q.9 **Select the option in which the words share the same relationship as that shared by the given pair of words.**

Spanner : Grip

Ans
✗ 1. Dig : Chisel
✗ 2. Auger : Scoop
✓ 3. Shield : Guard
✗ 4. Needle : Machine

Question ID : **63068063295**
Option 1 ID : **630680244348**
Option 2 ID : **630680244347**
Option 3 ID : **630680244349**
Option 4 ID : **630680244346**
Status : **Not Answered**
Chosen Option : **--**

Q.10 **30 people are sitting in a row facing north. Roma is 15th from the right end of the row. If Aman sits 5th to the right of Roma, what is Aman's position from the right end of the row?**

Ans
✗ 1. 8th
✓ 2. 10th
✗ 3. 9th
✗ 4. 11th

Question ID : **630680117498**
Option 1 ID : **630680455229**
Option 2 ID : **630680455227**
Option 3 ID : **630680455226**
Option 4 ID : **630680455228**
Status : **Answered**
Chosen Option : **2**

Q.11 **OXYGEN is related to YXONEG in a certain way based on the English alphabetical order. In the same way, HOCKEY is related to COHYEK. Following the same logic, which of the following is POETRY related to?**

Ans
✗ 1. YRTEOP
✗ 2. QPFUSZ
✓ 3. EOPYRT
✗ 4. ONCSQX

Question ID : **630680104883**
Option 1 ID : **630680407666**
Option 2 ID : **630680407663**
Option 3 ID : **630680407665**
Option 4 ID : **630680407664**
Status : **Answered**
Chosen Option : **3**

DAILY JOB Alert

Q.12 **J, K, L, M, N and O are of different heights. O is shorter than N but not the shortest among all. L is taller than M but shorter than K. Only four persons are taller than O. N is shorter than M. Who is the tallest among all?**

Ans
✔ 1. K
✘ 2. O
✘ 3. N
✘ 4. M

Question ID : **630680189101**
Option 1 ID : **630680733213**
Option 2 ID : **630680733216**
Option 3 ID : **630680733215**
Option 4 ID : **630680733214**
Status : **Answered**
Chosen Option : **1**

Q.13 **Sunny walks 10 metres eastwards. He turns left and walks 5 metres, then turns right and walks 2 metres. What is the total distance he travels(in metres) and in which direction is he facing now?**

Ans
✘ 1. 10, East
✘ 2. 12, West
✔ 3. 17, East
✘ 4. 7, North

Question ID : **630680106029**
Option 1 ID : **630680412017**
Option 2 ID : **630680412016**
Option 3 ID : **630680412018**
Option 4 ID : **630680412015**
Status : **Answered**
Chosen Option : **3**

Q.14 **If 1 January 2011 was a Saturday, then what day of the week was it on 31 December 2011?**

Ans
✔ 1. Saturday
✘ 2. Monday
✘ 3. Sunday
✘ 4. Friday

Question ID : **63068058559**
Option 1 ID : **630680225884**
Option 2 ID : **630680225883**
Option 3 ID : **630680225885**
Option 4 ID : **630680225882**
Status : **Answered**
Chosen Option : **1**

Website - www.dailyjobalert.in

Q.15 **Select the option in which the letter-clusters share the same relationship as that shared by the given pair of letter-clusters.**
RTV : NPR

Ans
✗ 1. RTU : KJL
✗ 2. BDF : XYZ
✓ 3. JLN : FHJ
✗ 4. ACD : CDF

Question ID : **63068050137**
Option 1 ID : **630680192872**
Option 2 ID : **630680192871**
Option 3 ID : **630680192873**
Option 4 ID : **630680192870**
Status : **Answered**
Chosen Option : **3**

Q.16 **5 is related to 20 following a certain logic. Following the same logic, 7 is related to 30. To which of the following is 9 related, following the same logic?**

Ans
✗ 1. 50
✓ 2. 40
✗ 3. 54
✗ 4. 45

Question ID : **63068049487**
Option 1 ID : **630680190380**
Option 2 ID : **630680190379**
Option 3 ID : **630680190381**
Option 4 ID : **630680190378**
Status : **Answered**
Chosen Option : **2**

Q.17 **In the given letter-cluster, how many such vowels are there, each of which is immediately preceded by a consonant and also immediately followed by a consonant?**

(Left) G I E A P U V E F I M A E U (Right)

Ans
✓ 1. 3
✗ 2. 4
✗ 3. 2
✗ 4. 1

Question ID : **630680172163**
Option 1 ID : **630680667091**
Option 2 ID : **630680667089**
Option 3 ID : **630680667090**
Option 4 ID : **630680667088**
Status : **Answered**
Chosen Option : **1**

Website - www.dailyjobalert.in

Q.18 **In the given letter-cluster, which letter is fourth to the left of the sixth letter from the left end?**

(Left) D Q B M O V C K R Z N U Y (Right)

Ans
✗ 1. R
✓ 2. Q
✗ 3. B
✗ 4. N

Question ID : **630680172153**
Option 1 ID : **630680667050**
Option 2 ID : **630680667048**
Option 3 ID : **630680667051**
Option 4 ID : **630680667049**
Status : **Answered**
Chosen Option : **2**

Q.19 **What should come in place of the question mark (?) in the given series?**
3, 8, 15, 24, ?

Ans
✗ 1. 30
✓ 2. 35
✗ 3. 40
✗ 4. 45

Question ID : **630680122727**
Option 1 ID : **630680475818**
Option 2 ID : **630680475819**
Option 3 ID : **630680475820**
Option 4 ID : **630680475821**
Status : **Answered**
Chosen Option : **2**

Q.20 **Which of the following numbers will replace the question mark (?) in the given series?**
42, 43, 47, 56, 72, ?

Ans
✗ 1. 92
✗ 2. 100
✓ 3. 97
✗ 4. 98

Question ID : **630680157532**
Option 1 ID : **630680609658**
Option 2 ID : **630680609659**
Option 3 ID : **630680609657**
Option 4 ID : **630680609656**
Status : **Answered**
Chosen Option : **3**

Website - www.dailyjobalert.in

Q.21 **In a row of 42 primary class students facing the North for a photograph, Nayana is 4th to the left of Pranita. If Pranita is 20th from the left end of the row, then what is the position of Nayana from the right end of the row?**

Ans
✔ 1. 27
✘ 2. 25
✘ 3. 26
✘ 4. 24

Question ID : **630680107149**
Option 1 ID : **630680415992**
Option 2 ID : **630680415994**
Option 3 ID : **630680415995**
Option 4 ID : **630680415993**
Status : **Answered**
Chosen Option : **1**

Q.22 **The given pie chart depicts the number of tickets sold for five different cities, out of the total number of tickets sold (which is 1050) for the given five cities together. Study the chart and answer the question that follows.**

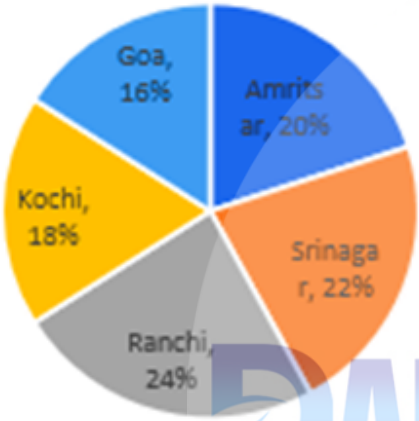

Out of the number of tickets sold for Srinagar, 121 were sold to females. Out of the total number of tickets sold for Kochi, 98 were sold to females. What is the difference between the number of tickets sold to males for Srinagar and Kochi?

Ans
✔ 1. 19
✘ 2. 21
✘ 3. 16
✘ 4. 17

Question ID : **630680161803**
Option 1 ID : **630680626541**
Option 2 ID : **630680626543**
Option 3 ID : **630680626542**
Option 4 ID : **630680626540**
Status : **Answered**
Chosen Option : **1**

Website - www.dailyjobalert.in

Q.23 **Four letter-clusters have been given, out of which three are alike in some manner and one is different. Select the one that is different.**

Ans
✗ 1. AEMQ
✗ 2. TXFJ
✗ 3. IMUY
✓ 4. PTBG

Question ID : **630680105004**
Option 1 ID : **630680408130**
Option 2 ID : **630680408127**
Option 3 ID : **630680408129**
Option 4 ID : **630680408128**
Status : **Answered**
Chosen Option : **4**

Q.24 **QNUM is related to PPRQ in a certain way based on the English alphabetical order. In the same way, DONT is related to CQKX. To which of the following is HORN related, following the same logic?**

Ans
✓ 1. GQOR
✗ 2. GPQS
✗ 3. GQPS
✗ 4. GPNR

Question ID : **63068077032**
Option 1 ID : **630680298228**
Option 2 ID : **630680298226**
Option 3 ID : **630680298225**
Option 4 ID : **630680298227**
Status : **Answered**
Chosen Option : **1**

Q.25 **What should come in place of the question mark (?) in the given series in order to make it logically complete?**
A11E, F16J, K21O, P26T, ?

Ans
✗ 1. S33W
✓ 2. U31Y
✗ 3. U31Z
✗ 4. Q31Y

Question ID : **630680127179**
Option 1 ID : **630680493147**
Option 2 ID : **630680493145**
Option 3 ID : **630680493146**
Option 4 ID : **630680493148**
Status : **Answered**
Chosen Option : **2**

Website - www.dailyjobalert.in

Q.26 **What should come in place of the question mark (?) in the given series in order to make it logically complete?**

11XW, 22UT, 33RQ, ?

Ans

✗ 1. 44OP

✓ 2. 44ON

✗ 3. 44MN

✗ 4. 44OM

Question ID : **630680124727**
Option 1 ID : **630680483750**
Option 2 ID : **630680483753**
Option 3 ID : **630680483752**
Option 4 ID : **630680483751**
Status : **Answered**
Chosen Option : **2**

Q.27 **The sequence of folding a piece of paper and the manner in which the folded paper is cut is shown in the following figures. How would this paper look when unfolded?**

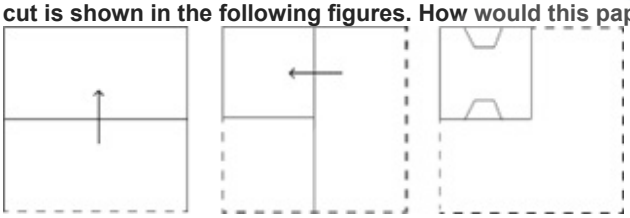

Ans

✗ 1.

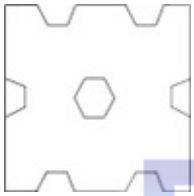

✗ 2.

✓ 3.

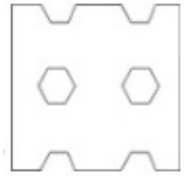

✗ 4.

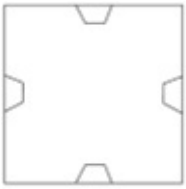

Question ID : **630680177311**
Option 1 ID : **630680687423**
Option 2 ID : **630680687420**
Option 3 ID : **630680687422**
Option 4 ID : **630680687421**
Status : **Answered**
Chosen Option : **3**

Website - www.dailyjobalert.in

Q.28 P, Q, R, S, T and U are selected for a university admission interview, according to the marks they have obtained in the entrance test.
The test was out of 140 marks which included 40 marks for multiple-choice questions, 40 for short answer questions, and 60 for long answer questions.
R got full marks for the multiple-choice questions and half marks for the short answer questions and got 30% of what P got in the long answer questions. T and U scored 50% of the total marks of the short answer and multiple-choice questions. S scored 10 marks more than T and U in the short answer and multiple-choice questions. T, U and S each scored 50 marks in the long answer questions. P scored 10% more than U in the long answer questions and a total of 60 in the short answer and multiple-choice questions. Q scored 20 less than P.
Who got the lowest score?

Ans
1. T
2. R
3. U
4. S

Question ID : **63068048400**
Option 1 ID : **630680186264**
Option 2 ID : **630680186262**
Option 3 ID : **630680186265**
Option 4 ID : **630680186263**
Status : **Answered**
Chosen Option : **2**

Q.29 31 is related to 256 following a certain logic. Following the same logic, 12 is related to 81.
To which of the following is 23 related, following the same logic?

Ans
1. 650
2. 625
3. 575
4. 550

Question ID : **63068058977**
Option 1 ID : **630680227530**
Option 2 ID : **630680227531**
Option 3 ID : **630680227532**
Option 4 ID : **630680227533**
Status : **Answered**
Chosen Option : **2**

Q.30 Select the option that is related to the third number in the same way as the second number is related to the first number and the sixth number is related to the fifth number.
28 : 70 :: 34 : ? :: 36 : 90

Ans
1. 79
2. 85
3. 83
4. 87

Question ID : **63068048649**
Option 1 ID : **630680187206**
Option 2 ID : **630680187208**
Option 3 ID : **630680187207**
Option 4 ID : **630680187209**
Status : **Answered**
Chosen Option : **2**

Website - www.dailyjobalert.in

Q.31 Read the given statements and conclusions carefully. Assuming that the information given in the statements is true, even if it appears to be at variance with commonly known facts, decide which of the given conclusions logically follows from the statements.
Statements:
Few drakes are bronze.
Most bronze are pipes.
All pipes are flocks.
Conclusions:
(I)Few drakes are pipes.
(II) Some flocks are drakes.
(III) Some bronzes are flocks.

Ans
1. Either conclusion I or conclusion III follows
2. Only conclusion I follows
3. Only conclusion III follows
4. All the conclusions I, II and III follow

Question ID : **630680107448**
Option 1 ID : **630680417150**
Option 2 ID : **630680417148**
Option 3 ID : **630680417149**
Option 4 ID : **630680417151**
Status : **Answered**
Chosen Option : **4**

Q.32 A certain number of people are sitting in a row, facing the north. B, who is at one of the extreme ends of the row, sits to the immediate left of K. Only one person sits between K and Q. R sits second to the right of M. S sits to the immediate right of P. J is the immediate neighbour of both S and M. D is the immediate neighbour of both Q and P. O sits second to the right of R. If no other person is sitting in the row, then what is the total number of people seated?

Ans
1. 12
2. 11
3. 10
4. 13

Question ID : **630680112282**
Option 1 ID : **630680434844**
Option 2 ID : **630680434843**
Option 3 ID : **630680434842**
Option 4 ID : **630680434845**
Status : **Answered**
Chosen Option : **3**

Q.33 Select the alpha-numeric term from among the given options that can replace the question mark (?) in the following series.
UB2, YX7, CT17, GP32, ?

Ans
1. KM52
2. KL52
3. LM52
4. LM47

Question ID : **63068053437**
Option 1 ID : **630680205811**
Option 2 ID : **630680205812**
Option 3 ID : **630680205810**
Option 4 ID : **630680205813**
Status : **Answered**
Chosen Option : **1**

Website - www.dailyjobalert.in

Q.34 **In a certain code language, 'AID' is written as 'EHB' and 'URN' is written as 'OQV'. How will 'INK' be written in that language?**

Ans
✗ 1. JMJ
✗ 2. LOJ
✗ 3. JML
✓ 4. LMJ

Question ID : **630680158220**
Option 1 ID : **630680612411**
Option 2 ID : **630680612408**
Option 3 ID : **630680612409**
Option 4 ID : **630680612410**
Status : **Answered**
Chosen Option : **4**

Q.35 **In a group of 6 kids R, S, T, U, V and W, each one is of a different age. T is younger than U, who is older than W, who is older than V and R only. If S is older than U, who is the oldest among all of them?**

Ans
✗ 1. U
✗ 2. W
✓ 3. S
✗ 4. T

Question ID : **63068057951**
Option 1 ID : **630680223557**
Option 2 ID : **630680223555**
Option 3 ID : **630680223556**
Option 4 ID : **630680223554**
Status : **Answered**
Chosen Option : **3**

Q.36 **Raman is the son of Vidya and Kishore. Rupa is the mother of Kishore and the wife of Gaurav. Manisha is the only daughter of Gaurav.**
How is Manisha related to Raman?

Ans
✗ 1. Mother
✗ 2. Sister
✓ 3. Father's sister
✗ 4. Father's mother

Question ID : **630680128192**
Option 1 ID : **630680496731**
Option 2 ID : **630680496730**
Option 3 ID : **630680496732**
Option 4 ID : **630680496733**
Status : **Answered**
Chosen Option : **3**

Website - www.dailyjobalert.in

Comprehension:

Read the given information and answer the questions that follows.
L, M, N, O and P are sitting on a bench. All are facing towards north. L is sitting next to M. N is sitting next to O. O is not sitting with P, who is on the left end of the bench. N is at the second position from the right. L is to the right of M and P. L and N are sitting together.

SubQuestion No : 37

Q.37 At which position is M sitting?

Ans

✗ 1. 3rd from the right

✗ 2. 2nd from the right

✗ 3. 3rd from the left

✓ 4. 2nd from the left

Question ID : **63068082617**
Option 1 ID : **630680320463**
Option 2 ID : **630680320461**
Option 3 ID : **630680320460**
Option 4 ID : **630680320462**
Status : **Answered**
Chosen Option : **4**

Comprehension:

Read the given information and answer the questions that follows.
L, M, N, O and P are sitting on a bench. All are facing towards north. L is sitting next to M. N is sitting next to O. O is not sitting with P, who is on the left end of the bench. N is at the second position from the right. L is to the right of M and P. L and N are sitting together.

SubQuestion No : 38

Q.38 Who is sitting between L and O?

Ans

✗ 1. L

✗ 2. P

✓ 3. N

✗ 4. M

Question ID : **63068082618**
Option 1 ID : **630680320464**
Option 2 ID : **630680320466**
Option 3 ID : **630680320467**
Option 4 ID : **630680320465**
Status : **Answered**
Chosen Option : **3**

Website - www.dailyjobalert.in

Comprehension:

Read the given information and answer the questions.
Seven boxes P, Q, R, S, T, U and V are kept one over the other but not necessarily in the same order. Q is kept fifth from the bottom. Only four boxes are kept between S and R. P is kept immediately below U. Only one box is kept below R. T is kept immediately above Q.

SubQuestion No : 39

Q.39 Which box is kept second from the top?

Ans
✗ 1. P
✓ 2. T
✗ 3. U
✗ 4. S

Question ID : **63068083443**
Option 1 ID : **630680323563**
Option 2 ID : **630680323562**
Option 3 ID : **630680323561**
Option 4 ID : **630680323560**
Status : **Answered**
Chosen Option : **2**

Comprehension:

Read the given information and answer the questions.
Seven boxes P, Q, R, S, T, U and V are kept one over the other but not necessarily in the same order. Q is kept fifth from the bottom. Only four boxes are kept between S and R. P is kept immediately below U. Only one box is kept below R. T is kept immediately above Q.

SubQuestion No : 40

Q.40 How many boxes are kept between U and V?

Ans
✗ 1. One
✗ 2. Four
✗ 3. Three
✓ 4. Two

Question ID : **63068083442**
Option 1 ID : **630680323556**
Option 2 ID : **630680323559**
Option 3 ID : **630680323558**
Option 4 ID : **630680323557**
Status : **Answered**
Chosen Option : **4**

Website - www.dailyjobalert.in

Comprehension:

Study the given diagram carefully and answer the questions that follow. The numbers in the different sections indicate the number of persons.

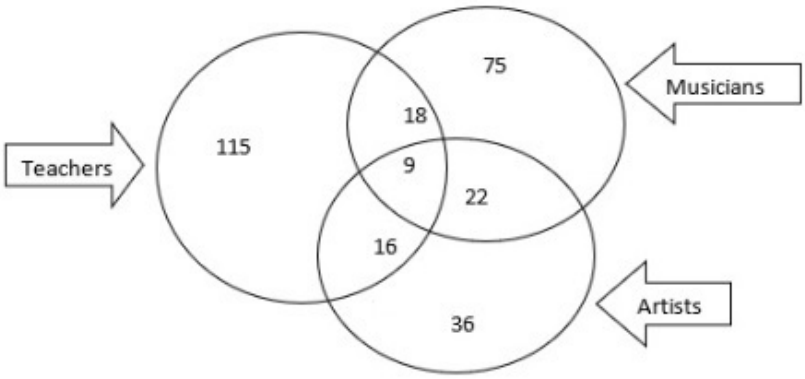

SubQuestion No : 41

Q.41 How many teachers can teach music but NOT art?

Ans

✗ 1. 16

✗ 2. 9

✗ 3. 22

✓ 4. 18

Question ID : **630680105568**
Option 1 ID : **630680410326**
Option 2 ID : **630680410323**
Option 3 ID : **630680410324**
Option 4 ID : **630680410325**
Status : **Answered**
Chosen Option : **4**

DAILY JOB Alert ਪੰਜਾਬ

Comprehension:

Study the given diagram carefully and answer the questions that follow. The numbers in the different sections indicate the number of persons.

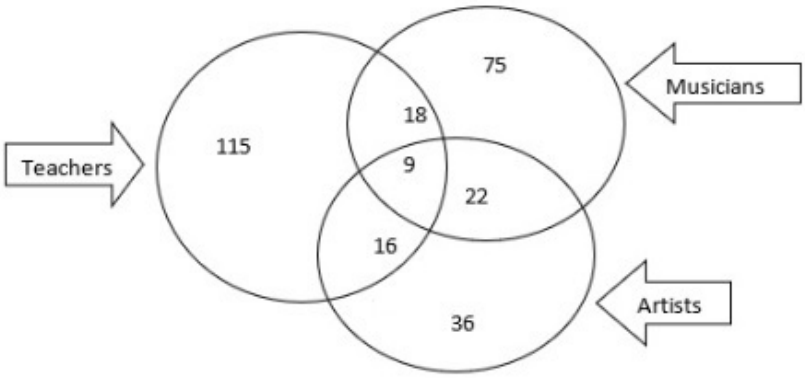

SubQuestion No : 42

Q.42 How many artists are also musicians but NOT teachers?

Ans
1. 16
2. 18
3. 9
4. 22 ✔

Question ID : **630680105569**
Option 1 ID : **630680410330**
Option 2 ID : **630680410327**
Option 3 ID : **630680410328**
Option 4 ID : **630680410329**
Status : **Answered**
Chosen Option : **4**

Comprehension:

In a certain code,
'dogs are loyal' is coded as 'sd gh nt',
'loyal friends live' is coded as 'dp gh fp',
'friends are amazing' is coded as 'ay sd dp'.

SubQuestion No : 43

Q.43 What is the code for 'friends'?

Ans
1. sd
2. ay
3. fp
4. dp ✔

Question ID : **630680109052**
Option 1 ID : **630680423067**
Option 2 ID : **630680423066**
Option 3 ID : **630680423064**
Option 4 ID : **630680423065**
Status : **Answered**
Chosen Option : **4**

Website - www.dailyjobalert.in

Comprehension:

In a certain code,
'dogs are loyal' is coded as 'sd gh nt',
'loyal friends live' is coded as 'dp gh fp',
'friends are amazing' is coded as 'ay sd dp'.

SubQuestion No : 44

Q.44 What does the code 'sd' stand for?

Ans
✗ 1. dogs
✓ 2. are
✗ 3. friends
✗ 4. loyal

Question ID : **630680109053**
Option 1 ID : **630680423071**
Option 2 ID : **630680423068**
Option 3 ID : **630680423070**
Option 4 ID : **630680423069**
Status : **Answered**
Chosen Option : **2**

Comprehension:

The given table shows the percentage of marks scored by 5 students in different classes. Study the table and answer the following questions.

STUDENTS	CLASS				
	V	VI	VII	VIII	IX
Chavi	85	79	87	75	84
Gargi	74	78	72	81	83
Mohan	64	62	70	68	61
Ramesh	82	83	89	79	85
Harshit	91	85	93	94	96

SubQuestion No : 45

Q.45 What is the average percentage of marks that Chavi scored?

Ans
✗ 1. 0.78
✗ 2. 85%
✓ 3. 82%
✗ 4. 83%

Question ID : **630680110434**
Option 1 ID : **630680428002**
Option 2 ID : **630680427999**
Option 3 ID : **630680428001**
Option 4 ID : **630680428000**
Status : **Answered**
Chosen Option : **3**

DAILY JOB Alert ਪੰਜਾਬ

Comprehension:

The given table shows the percentage of marks scored by 5 students in different classes. Study the table and answer the following questions.

STUDENTS	CLASS				
	V	VI	VII	VIII	IX
Chavi	85	79	87	75	84
Gargi	74	78	72	81	83
Mohan	64	62	70	68	61
Ramesh	82	83	89	79	85
Harshit	91	85	93	94	96

SubQuestion No : 46

Q.46 If in class VII, the total marks of all subjects are 600, then how many marks were scored by Mohan?

Ans

✗ 1. 500

✗ 2. 480

✗ 3. 400

✓ 4. 420

Question ID : **630680110435**
Option 1 ID : **630680428003**
Option 2 ID : **630680428005**
Option 3 ID : **630680428004**
Option 4 ID : **630680428006**
Status : **Answered**
Chosen Option : **4**

Comprehension:

The following table shows the marks scored by six students in five subjects. The numbers in the brackets indicate the maximum marks that can be scored in that subject.

Marks of students in different subjects (Max.Marks)

Name	Science (100)	Arts (80)	History (150)	PE (100)	English (150)
Joseph	80	35	110	60	135
Kriti	55	60	125	45	115
Maina	80	40	140	40	130
Supreet	45	45	110	95	120
Jai	80	60	90	80	90
Dev	65	50	85	100	120

SubQuestion No : 47

Q.47 What are the average marks of the students in History?

Ans

✗ 1. 120

✗ 2. 140

✗ 3. 210

✓ 4. 110

Question ID : **63068060543**
Option 1 ID : **630680233645**
Option 2 ID : **630680233644**
Option 3 ID : **630680233643**
Option 4 ID : **630680233642**
Status : **Answered**
Chosen Option : **4**

Website - www.dailyjobalert.in

Comprehension:

The following table shows the marks scored by six students in five subjects. The numbers in the brackets indicate the maximum marks that can be scored in that subject.

Marks of students in different subjects (Max.Marks)

Name	Science (100)	Arts (80)	History (150)	PE (100)	English (150)
Joseph	80	35	110	60	135
Kriti	55	60	125	45	115
Maina	80	40	140	40	130
Supreet	45	45	110	95	120
Jai	80	60	90	80	90
Dev	65	50	85	100	120

SubQuestion No : 48

Q.48 How many students obtained 70% and above in Arts?

Ans

✗ 1. 4

✗ 2. 3

✓ 3. 2

✗ 4. 5

Question ID : **63068060544**
Option 1 ID : **630680233648**
Option 2 ID : **630680233647**
Option 3 ID : **630680233646**
Option 4 ID : **630680233649**
Status : **Answered**
Chosen Option : **2**

Comprehension:

Read the given passage and answer the questions that follow.

The rule of law is a set of principles, or ideals, for ensuring an orderly and just society. Many countries throughout the world strive to uphold the rule of law where no one is above the law, everyone is treated equally under the law, everyone is held accountable to the same laws, there are clear and fair processes for enforcing laws, there is an independent judiciary, and human rights are guaranteed for all.
Even in absence of Article 21 in the Constitution, the state has got no power to deprive a person of his life and liberty without the authority of law. Without such sanctity of life and liberty, the distinction between a lawless society and one governed by laws would cease to have any meaning. Rule of Law is now the accepted norm of all civilized societies.

SubQuestion No : 49

Q.49 The state CANNOT deprive a person of his life and liberty without _____.

Ans

✗ 1. compliance to procedural law

✗ 2. violation of laws of India

✗ 3. only in exceptional circumstances

✓ 4. authority of law

Question ID : **630680248147**
Option 1 ID : **630680962747**
Option 2 ID : **630680962748**
Option 3 ID : **630680962749**
Option 4 ID : **630680962750**
Status : **Answered**
Chosen Option : **4**

Website - www.dailyjobalert.in

Comprehension:

Read the given passage and answer the questions that follow.

The rule of law is a set of principles, or ideals, for ensuring an orderly and just society. Many countries throughout the world strive to uphold the rule of law where no one is above the law, everyone is treated equally under the law, everyone is held accountable to the same laws, there are clear and fair processes for enforcing laws, there is an independent judiciary, and human rights are guaranteed for all.
Even in absence of Article 21 in the Constitution, the state has got no power to deprive a person of his life and liberty without the authority of law. Without such sanctity of life and liberty, the distinction between a lawless society and one governed by laws would cease to have any meaning. Rule of Law is now the accepted norm of all civilized societies.

SubQuestion No : 50

Q.50 Which of the following is important for ensuring a just society?

Ans
✗ 1. Freedom of speech
✗ 2. Sovereign Government
✓ 3. Rule of law
✗ 4. Secular policies

Question ID : **630680248146**
Option 1 ID : **630680962746**
Option 2 ID : **630680962745**
Option 3 ID : **630680962743**
Option 4 ID : **630680962744**
Status : **Answered**
Chosen Option : **3**

Section : **Digital Literacy and Computer Awareness**

Q.51 Which of the following is NOT an advantage of social media?

Ans
✗ 1. It allows making new connections.
✓ 2. It allows the creation of fraudulent social media profiles.
✗ 3. It helps to make promotion and advertising.
✗ 4. It helps the government to raise public awareness.

Question ID : **630680248059**
Option 1 ID : **630680962443**
Option 2 ID : **630680962446**
Option 3 ID : **630680962444**
Option 4 ID : **630680962445**
Status : **Answered**
Chosen Option : **2**

Q.52 Which of the following is NOT a type of Internet search engine?

Ans
✗ 1. DuckDuckGo
✓ 2. Cisco
✗ 3. Yahoo!
✗ 4. Google

Question ID : **630680248055**
Option 1 ID : **630680962430**
Option 2 ID : **630680962429**
Option 3 ID : **630680962428**
Option 4 ID : **630680962427**
Status : **Answered**
Chosen Option : **2**

Website - www.dailyjobalert.in

Q.53 What allows a user to type notes that may be needed to prepare a presentation in MS PowerPoint 2010 but will NOT be shown during the slide show?

Ans
- ✗ 1. Slide Pane
- ✓ 2. Notes Pane
- ✗ 3. Task Pane
- ✗ 4. Assignment Pane

Question ID : **630680248050**
Option 1 ID : **630680962407**
Option 2 ID : **630680962408**
Option 3 ID : **630680962409**
Option 4 ID : **630680962410**
Status : **Answered**
Chosen Option : **3**

Q.54 The most common 7-bit ASCII encoding scheme in computers used for alphanumeric characters, operators, punctuation symbols and control characters is:

Ans
- ✗ 1. Asian Symbolic Code for Identity Interchange
- ✗ 2. American Standard Case for Information Identity
- ✓ 3. American Standard Code for Information Interchange
- ✗ 4. African Standard Code for International Identity

Question ID : **630680248037**
Option 1 ID : **630680962356**
Option 2 ID : **630680962357**
Option 3 ID : **630680962358**
Option 4 ID : **630680962355**
Status : **Answered**
Chosen Option : **3**

Q.55 Which of the following is NOT a type of operating system?

Ans
- ✗ 1. Windows OS
- ✗ 2. Linux OS
- ✗ 3. Unix OS
- ✓ 4. Dell OS

Question ID : **630680248041**
Option 1 ID : **630680962373**
Option 2 ID : **630680962371**
Option 3 ID : **630680962372**
Option 4 ID : **630680962374**
Status : **Answered**
Chosen Option : **1**

Website - www.dailyjobalert.in

Q.56 Which of the following are the correct steps for changing mouse properties in Windows 10?

(i) Go to 'Control Panel' from the Start menu.
(ii) Click on 'Mouse' under Devices and Printers.
(iii) Select 'Hardware and Sound'.
(iv) Change required mouse properties and 'Apply' changes.

Ans
✗ 1. (i), (ii) and (iii) only
✗ 2. (i), (ii), (iii) and (iv)
✗ 3. (ii), (iii) and (iv) only
✓ 4. (i), (iii), (ii) and (iv)

Question ID : **630680248042**
Option 1 ID : **630680962376**
Option 2 ID : **630680962375**
Option 3 ID : **630680962378**
Option 4 ID : **630680962377**
Status : **Answered**
Chosen Option : **4**

Q.57 The following are the disadvantages of VoIP, EXCEPT:

Ans
✗ 1. Requires Good Internet Connection
✓ 2. Portability
✗ 3. Latency and Jitter
✗ 4. Security

Question ID : **630680248060**
Option 1 ID : **630680962447**
Option 2 ID : **630680962450**
Option 3 ID : **630680962448**
Option 4 ID : **630680962449**
Status : **Answered**
Chosen Option : **2**

Q.58 A social media platform to help make better use of an individual's or organisation's professional network is:

Ans
✓ 1. LinkedIn
✗ 2. Tumblr
✗ 3. TikTok
✗ 4. YouTube

Question ID : **630680248058**
Option 1 ID : **630680962441**
Option 2 ID : **630680962442**
Option 3 ID : **630680962439**
Option 4 ID : **630680962440**
Status : **Answered**
Chosen Option : **1**

Website - www.dailyjobalert.in

Q.59 The world's most popular online video-sharing platform that allows users to discover, watch and share originally created videos is:

Ans
✔ 1. YouTube
✘ 2. LinkedIn
✘ 3. Quora
✘ 4. Pinterest

Question ID : **630680248057**
Option 1 ID : **630680962437**
Option 2 ID : **630680962435**
Option 3 ID : **630680962438**
Option 4 ID : **630680962436**
Status : **Answered**
Chosen Option : **1**

Q.60 To remove all conditional formatting from the entire MS Excel worksheet, the user can use the option of:

Ans
✔ 1. Clear rules
✘ 2. Delete rules
✘ 3. Deduct rules
✘ 4. Remove rules

Question ID : **630680248048**
Option 1 ID : **630680962401**
Option 2 ID : **630680962399**
Option 3 ID : **630680962402**
Option 4 ID : **630680962400**
Status : **Answered**
Chosen Option : **2**

Q.61 Where do you add text on MS PowerPoint 2010 slides?

Ans
✘ 1. In a notes pane
✘ 2. In a slide sorter
✔ 3. In a text box
✘ 4. In a comment box

Question ID : **630680248051**
Option 1 ID : **630680962413**
Option 2 ID : **630680962414**
Option 3 ID : **630680962411**
Option 4 ID : **630680962412**
Status : **Answered**
Chosen Option : **3**

Website - www.dailyjobalert.in

Q.62 What does the Internet TCP/IP model stand for?

Ans
✔ 1. Transmission Control Protocol/Internet Protocol
✘ 2. Transmission Connection Platform/Internet Protocol
✘ 3. Transmission Communication Protocol/Internet Platform
✘ 4. Transmission Control Protocol/Internal Platform

Question ID : **630680248053**
Option 1 ID : **630680962419**
Option 2 ID : **630680962421**
Option 3 ID : **630680962422**
Option 4 ID : **630680962420**
Status : **Answered**
Chosen Option : **1**

Q.63 The bar located at the top of the spreadsheet window is called:

Ans
✔ 1. title bar
✘ 2. scroll bar
✘ 3. status bar
✘ 4. menu bar

Question ID : **630680248046**
Option 1 ID : **630680962391**
Option 2 ID : **630680962394**
Option 3 ID : **630680962393**
Option 4 ID : **630680962392**
Status : **Answered**
Chosen Option : **1**

Q.64 The unique identification number for every computer in a network is called:

Ans
✘ 1. name address
✘ 2. postal address
✘ 3. email address
✔ 4. IP address

Question ID : **630680248052**
Option 1 ID : **630680962418**
Option 2 ID : **630680962417**
Option 3 ID : **630680962415**
Option 4 ID : **630680962416**
Status : **Answered**
Chosen Option : **4**

Q.65 Which of the following is NOT a paragraph formatting option in MS Word 2010?

Ans
✘ 1. Line spacing
✘ 2. Indentation
✔ 3. Effects
✘ 4. Alignment

Question ID : **630680248043**
Option 1 ID : **630680962382**
Option 2 ID : **630680962380**
Option 3 ID : **630680962381**
Option 4 ID : **630680962379**
Status : **Answered**
Chosen Option : **3**

Website - www.dailyjobalert.in

Q.66 The Page Setup dialog box enables users to set all the margins in MS Word 2010, EXCEPT:

Ans
✔ 1. Base
✘ 2. Left
✘ 3. Top
✘ 4. Right

Question ID : **630680248045**
Option 1 ID : **630680962388**
Option 2 ID : **630680962389**
Option 3 ID : **630680962387**
Option 4 ID : **630680962390**
Status : **Answered**
Chosen Option : **1**

Q.67 FaceTime, proprietary video telephony application is provided by:

Ans
✔ 1. Apple
✘ 2. Google
✘ 3. Microsoft
✘ 4. Amazon

Question ID : **630680248061**
Option 1 ID : **630680962452**
Option 2 ID : **630680962453**
Option 3 ID : **630680962451**
Option 4 ID : **630680962454**
Status : **Answered**
Chosen Option : **1**

Q.68 The keyboard shortcut to redo text editing in MS Word 2010 is:

Ans
✔ 1. Ctrl + Y
✘ 2. Ctrl + P
✘ 3. Ctrl + Z
✘ 4. Ctrl + H

Question ID : **630680248044**
Option 1 ID : **630680962384**
Option 2 ID : **630680962383**
Option 3 ID : **630680962385**
Option 4 ID : **630680962386**
Status : **Answered**
Chosen Option : **1**

Website - www.dailyjobalert.in

Q.69 **State whether the following statements are true or false for Random Access Memory (RAM) in a computer.**

(i) RAM is a volatile memory as the data is lost when the power is turned off.
(ii) RAM is also called the secondary memory.

Ans
✗ 1. (i) True, (ii) True
✓ 2. (i) True, (ii) False
✗ 3. (i) False, (ii) False
✗ 4. (i) False, (ii) True

Question ID : **630680248039**
Option 1 ID : **630680962363**
Option 2 ID : **630680962364**
Option 3 ID : **630680962366**
Option 4 ID : **630680962365**
Status : **Answered**
Chosen Option : **2**

Q.70 **Which of the following is a local-based device storage application?**

Ans
✓ 1. WhatsApp
✗ 2. Facebook Messenger
✗ 3. Skype
✗ 4. Telegram

Question ID : **630680248062**
Option 1 ID : **630680962457**
Option 2 ID : **630680962458**
Option 3 ID : **630680962456**
Option 4 ID : **630680962455**
Status : **Answered**
Chosen Option : **3**

Q.71 **The 'Device and Printers' option to add or remove printers is available under _____ of the Control Panel in Windows 10.**

Ans
✗ 1. System and Security
✓ 2. Hardware and Sound
✗ 3. Programs
✗ 4. Ease of Access

Question ID : **630680248040**
Option 1 ID : **630680962369**
Option 2 ID : **630680962368**
Option 3 ID : **630680962367**
Option 4 ID : **630680962370**
Status : **Answered**
Chosen Option : **2**

Website - www.dailyjobalert.in

Q.72 The factor that does NOT affect computer performance is:

Ans
✗ 1. type of the video card
✓ 2. size of the computer monitor
✗ 3. CPU speed
✗ 4. amount of RAM

Question ID : **630680248038**
Option 1 ID : **630680962361**
Option 2 ID : **630680962359**
Option 3 ID : **630680962362**
Option 4 ID : **630680962360**
Status : **Answered**
Chosen Option : **2**

Q.73 Following are the advantages of instant messaging applications, EXCEPT:

Ans
✗ 1. real-time communication
✓ 2. complex set up
✗ 3. team building
✗ 4. Convenience

Question ID : **630680248063**
Option 1 ID : **630680962459**
Option 2 ID : **630680962460**
Option 3 ID : **630680962461**
Option 4 ID : **630680962462**
Status : **Answered**
Chosen Option : **2**

Q.74 The following options are available in Microsoft PowerPoint 2010 to create a new presentation, EXCEPT:

Ans
✓ 1. Backgrounds
✗ 2. Themes
✗ 3. Sample Templates
✗ 4. Blank Presentation

Question ID : **630680248049**
Option 1 ID : **630680962405**
Option 2 ID : **630680962404**
Option 3 ID : **630680962406**
Option 4 ID : **630680962403**
Status : **Answered**
Chosen Option : **1**

Website - www.dailyjobalert.in

Q.75 State whether the following statements are true or false for cyber safety tips.

(i) Use anti-virus software.
(ii) Use insecure Wi-Fi networks in public places.
(iii) Use strong passwords.

Ans
✗ 1. (i) True, (ii) True, (iii) False
✗ 2. (i) True, (ii) True, (iii) True
✗ 3. (i) False, (ii) True, (iii) True
✓ 4. (i) True, (ii) False, (iii) True

Question ID : **630680248066**
Option 1 ID : **630680962472**
Option 2 ID : **630680962471**
Option 3 ID : **630680962474**
Option 4 ID : **630680962473**
Status : **Answered**
Chosen Option : **4**

Q.76 The common use of Web browser tabs is:

Ans
✓ 1. to open multiple webpages in the same browser window
✗ 2. to reset Wi-Fi connection
✗ 3. to view two websites side-by-side
✗ 4. to ensure protection from hackers

Question ID : **630680248054**
Option 1 ID : **630680962426**
Option 2 ID : **630680962424**
Option 3 ID : **630680962423**
Option 4 ID : **630680962425**
Status : **Answered**
Chosen Option : **1**

Q.77 Data encryption is necessary to provide the following functionalities, EXCEPT:

Ans
✓ 1. Data Breach
✗ 2. Data Integrity
✗ 3. Data Privacy
✗ 4. Data Security

Question ID : **630680248064**
Option 1 ID : **630680962465**
Option 2 ID : **630680962464**
Option 3 ID : **630680962463**
Option 4 ID : **630680962466**
Status : **Answered**
Chosen Option : **2**

Website - www.dailyjobalert.in

Q.78 Following are the commonly used asymmetric encryption algorithms, EXCEPT:

Ans
✗ 1. elliptic curve cryptography
✗ 2. RSA algorithm
✓ 3. advanced encryption standard
✗ 4. Diffie-Hellman key exchange

Question ID : **630680248065**
Option 1 ID : **630680962469**
Option 2 ID : **630680962467**
Option 3 ID : **630680962468**
Option 4 ID : **630680962470**
Status : **Answered**
Chosen Option : **3**

Q.79 An MS Excel or LibreOffice Calc file is called:

Ans
✗ 1. database
✓ 2. workbook
✗ 3. document
✗ 4. presentation

Question ID : **630680248047**
Option 1 ID : **630680962398**
Option 2 ID : **630680962396**
Option 3 ID : **630680962395**
Option 4 ID : **630680962397**
Status : **Answered**
Chosen Option : **2**

Q.80 The keyboard shortcut to print web pages from a Google Chrome web browser is:

Ans
✗ 1. Ctrl + W
✗ 2. Ctrl + D
✓ 3. Ctrl + P
✗ 4. Ctrl + T

Question ID : **630680248056**
Option 1 ID : **630680962431**
Option 2 ID : **630680962434**
Option 3 ID : **630680962432**
Option 4 ID : **630680962433**
Status : **Answered**
Chosen Option : **3**

Section : **English Language**

Website - www.dailyjobalert.in

Q.81 **The following sentence has been divided into parts. One of them may contain an error. Select the part that contains the error from the given options. If you don't find any error, mark 'No error' as your answer.**
To make life beautiful and happy,/ a good husband should be /very loyal with his wife.

Ans
✔ 1. Very loyal with his wife
✘ 2. No error
✘ 3. To make life beautiful and happy
✘ 4. A good husband should be

Question ID : **630680176550**
Option 1 ID : **630680684426**
Option 2 ID : **630680684427**
Option 3 ID : **630680684424**
Option 4 ID : **630680684425**
Status : **Answered**
Chosen Option : **4**

Q.82 **Select the correct/standard collocation to complete the following sentence.**

She will _____ her professional examinations later this year.

Ans
✔ 1. take
✘ 2. write
✘ 3. make
✘ 4. perform

Question ID : **63068069792**
Option 1 ID : **630680269827**
Option 2 ID : **630680269826**
Option 3 ID : **630680269828**
Option 4 ID : **630680269829**
Status : **Answered**
Chosen Option : **4**

Q.83 **Select the sentence from the given options that has the most appropriate ANTONYM of 'keen'**

Ans
✔ 1. Rishabh either hates me or is indifferent.
✘ 2. Nandan is also an avid photographer.
✘ 3. Later, he devoted his time entirely to farming.
✘ 4. I had an intense desire to serve him.

Question ID : **63068085780**
Option 1 ID : **630680332580**
Option 2 ID : **630680332583**
Option 3 ID : **630680332582**
Option 4 ID : **630680332581**
Status : **Answered**
Chosen Option : **1**

DAILY JOB Alert

Q.84 **Select the option that can be used as a one-word substitute for the given group of words.**

It is the cooperation of two or more organisations to produce an effect which is greater than the sum of their separate effects.

Ans
✗ 1. Allergy
✗ 2. Hypothesis
✗ 3. Energy
✓ 4. Synergy

Question ID : **630680129760**
Option 1 ID : **630680502639**
Option 2 ID : **630680502640**
Option 3 ID : **630680502638**
Option 4 ID : **630680502641**
Status : **Answered**
Chosen Option : **2**

Q.85 **The given sentence is divided into four segments. Select the option that has the segment with the grammatical error.**

We wish we had/ seen and experience/ more before making/ critical life choices.

Ans
✓ 1. seen and experience
✗ 2. critical life choices
✗ 3. We wish we had
✗ 4. more before making

Question ID : **630680129261**
Option 1 ID : **630680500671**
Option 2 ID : **630680500673**
Option 3 ID : **630680500670**
Option 4 ID : **630680500672**
Status : **Answered**
Chosen Option : **3**

Q.86 **" ਕਈ ਮਸਲੇ ਹੇਠਲੇ ਪੱਧਰ 'ਤੇ ਹੀ ਹੱਲ ਹੋ ਸਕਦੇ ਹਨ।" ਇਸ ਵਾਕ ਦਾ ਅੰਗਰੇਜ਼ੀ ਅਨੁਵਾਦ ਹੈ:-**

Ans
✗ 1. Many issues can have been solved at the upper level.
✗ 2. Many issues would be raised at the lower level.
✗ 3. Money matters can be solved at the lower level.
✓ 4. Many issues can be solved at the lower level.

Question ID : **630680248108**
Option 1 ID : **630680962640**
Option 2 ID : **630680962642**
Option 3 ID : **630680962639**
Option 4 ID : **630680962641**
Status : **Answered**
Chosen Option : **4**

Website - www.dailyjobalert.in

Q.87 Select the most appropriate ANTONYM of the given word.
Propagate

Ans
✗ 1. Assured
✓ 2. Suppress
✗ 3. Dissuade
✗ 4. Amiable

Question ID : **630680167010**
Option 1 ID : **630680646900**
Option 2 ID : **630680646903**
Option 3 ID : **630680646901**
Option 4 ID : **630680646902**
Status : **Answered**
Chosen Option : **2**

Q.88 Sentences of a paragraph are given below in jumbled order. Arrange the sentences in the correct order to form a meaningful and coherent paragraph.

A. They can weigh more than 150 tons and be over 100 feet long.
B. Whales are the largest animals that have ever lived on land.
C. Their hind legs disappeared over time and their front legs became flippers.
D. It is believed that millions of years ago, whales could have walked on land.

Ans
✗ 1. BDAC
✗ 2. ABCD
✗ 3. ACBD
✓ 4. BDCA

Question ID : **630680124914**
Option 1 ID : **630680484462**
Option 2 ID : **630680484464**
Option 3 ID : **630680484463**
Option 4 ID : **630680484465**
Status : **Answered**
Chosen Option : **4**

Q.89 Select the option that can be used as a one-word substitute for the given group of words.
One who imitates the voice and gestures of another

Ans
✗ 1. Joker
✓ 2. Mimic
✗ 3. Clown
✗ 4. Actor

Question ID : **630680129512**
Option 1 ID : **630680501667**
Option 2 ID : **630680501668**
Option 3 ID : **630680501669**
Option 4 ID : **630680501666**
Status : **Answered**
Chosen Option : **2**

Website - www.dailyjobalert.in

Q.90 **Select the most appropriate preposition to fill in the blank.**
He received the scholarship six months _____ joining the college.

Ans
- ✗ 1. from
- ✗ 2. ago
- ✓ 3. before
- ✗ 4. across

Question ID : **630680168441**
Option 1 ID : **630680652379**
Option 2 ID : **630680652376**
Option 3 ID : **630680652378**
Option 4 ID : **630680652377**
Status : **Answered**
Chosen Option : **3**

Q.91 **Select the most appropriate option to fill in the blanks.**
Yesterday was _____ first lecture for the new joiners and it was _____ most boring lecture ever heard by me.

Ans
- ✗ 1. an, a
- ✓ 2. the, the
- ✗ 3. a, an
- ✗ 4. the, an

Question ID : **63068080471**
Option 1 ID : **630680311911**
Option 2 ID : **630680311909**
Option 3 ID : **630680311910**
Option 4 ID : **630680311912**
Status : **Answered**
Chosen Option : **2**

Q.92 **Select the most appropriate ANTONYM of the word 'hypocrisy' in the sentence given below.**

The objective and scheme behind any investigation are to find out the deceitfulness pretence or reliability of the case.

Ans
- ✗ 1. Scheme
- ✓ 2. Reliability
- ✗ 3. Pretence
- ✗ 4. Objective

Question ID : **630680119609**
Option 1 ID : **630680463527**
Option 2 ID : **630680463529**
Option 3 ID : **630680463528**
Option 4 ID : **630680463526**
Status : **Answered**
Chosen Option : **2**

Website - www.dailyjobalert.in

Q.93 Select the most appropriate ANTONYM of the following word.

Mayhem

Ans
✗ 1. Mutilation
✗ 2. Rampage
✓ 3. Order
✗ 4. Detriment

Question ID : **63068069807**
Option 1 ID : **630680269886**
Option 2 ID : **630680269888**
Option 3 ID : **630680269887**
Option 4 ID : **630680269889**
Status : **Answered**
Chosen Option : **4**

Q.94 Identity the spelling error in the given sentence.

Seeing the high price of the bat, a precisely swift and smooth performance is guaranted.

Ans
✓ 1. guaranted
✗ 2. performance
✗ 3. precisely
✗ 4. swift

Question ID : **63068087419**
Option 1 ID : **630680339064**
Option 2 ID : **630680339063**
Option 3 ID : **630680339061**
Option 4 ID : **630680339062**
Status : **Answered**
Chosen Option : **1**

Q.95 Parts of a sentence are given below in jumbled order. Arrange the parts in the correct order to form a meaningful sentence.

A. the selected candidates
B. will maintain
C. Future Skills Prime
D. the records of

Ans
✗ 1. CDBA
✓ 2. CBDA
✗ 3. ADBC
✗ 4. ABCD

Question ID : **630680124980**
Option 1 ID : **630680484723**
Option 2 ID : **630680484722**
Option 3 ID : **630680484724**
Option 4 ID : **630680484725**
Status : **Answered**
Chosen Option : **2**

Website - www.dailyjobalert.in

Comprehension:

Read the given passage and answer the questions that follow.

The fall of the Roman Empire was the first step of Monasteries in the third century. A young man named Saint Anthony led and taught the teachings of Christ in Western Europe. Saint Anthony led a worldly routine to follow Christ's life as fully as possible. The concepts of Monachism include the removal from society to focus on God. "It is a religion in which one renounces worldly pursuits to devote oneself fully to spiritual work".
Monachism can be found in numerous religious systems including Braham , Buddhist, Jewish, Christian and many more. “Monasteries in the medieval society encouraged literacy, promoted learning, and preserved classical ancient literature”. It helped shaped society by providing religious institutions, economic centres, and educational places, and facilitated play in social roles. Monastic orders will also be further explained. Soon after Christianity became legal around (300 CE), was when monasticism became a new spiritual movement. “Early monks lived as hermits; a loner who practised self-degradation”. Some monks would graze in fields others would restrain themselves to small cages or would even place heavy weights around their necks. All showing their devotion to God. People were stating that their bodies were not belonged to the state but to God . The Roman Empire was a big deal due to people owing themselves to the Empire. Virginity for men and women was considered the highest spiritual standard. Sustaining sexual relations until marriage was also seen as a high standard and those were praised.
Monks were to study the bible for their daily prayer rounds and be in a life of worship. People could join and pray, contemplate and solitude to absolve sins. “Some monastic churches were meant only for the residents, but others had accommodations for visiting pilgrims or lay worshippers”.“Communal prayer was eight times a day which was called the divine office or Opus Dei (work of God). The Divine Office was inspired by the Old Covenant. Practices depended on the individual monastery. The division given by St. Benedict in his ruling, with prayer hours of Lauds (Morning Prayer) offered at sunrise, Prime (1st hour of the day), Terce (3rd hour, or Mid-morning), Sext (6th hour or Midday). None (9th hour or Mid-Afternoon), Vespers (Evening Prayer) offered at sunset, and Compline (Night Prayer) before going to bed”. Not every monk was integrating this routine into their schedule, but this can be seen throughout monasteries. Monasteries were a sight for economic exchange. The Rule of St. Benedict is the guideline for religious communities. The Benedict idea was then exploited in patronage and wealth by the 11thCentury there was an uprise of the people within towns (around the monastery). Meaning more land being taken over and more money circumcising in the air. Many monasteries were located on important trade routes, that attracted craftsmen. There was a growth in markets and trade. Monks were known for their skills in various trades. Some monks owned farms and animals. They would grow their food for either community consumption or trade. Many monasteries were often built in the deep wilderness, so they would have room for expansion. It was also seen that people would donate chunks of land to their favourite monastery, which would only benefit them in the end. As more people settled in the monasteries there seemed to be more ‘sin’. There was a competition for scarce resources, which people started getting greedy.“A group of Christians known as ‘Cistercians’ formed; in search of monasteries not trembling because of wealth. These new monasteries were built in areas that were secluded. They showed no sign of wealth. “The Cistercians had committed themselves to be self-sufficient and thus ran agricultural businesses and workshops in which raw materials were processed and craftsmen made their products”. They hired ‘lay brothers’ who oversaw the monasteries commercial business.
“Ancient education spread to the developing centres of monastic education throughout Western Europe”. A book called, Education and Culture in the Barbarian West by Pierre Riche, brought to light the role of women as educators, which was a huge step for women at this time, since previously they were forbidden to do such an act. Also, Riche notes the use of song in the education in monasteries. Children were exposed to liturgical training. “That training included children becoming aware of the hierarchy, and discipline and ritual patterns of the monastery”. Verbal and physical imitation was seen across medieval society. Monastic teachers highly used physical discipline, which helped the instruction of material. In the Roman East, a new way of thinking called the Basil of Caesarea helped the education of Monks. It encouraged useful work and silent meditation and discouraged prolonged fasts. Monasteries were also known for their massive libraries.“Libraries housed the breviary, texts for the Divine Office, to missals, gospels, antiphonaries, and graduals for the choir, was standard in monastic libraries, as were the books of the Bible and theological works by Saint Augustine, Gregory the Great, and other patristic writers”. A man by the name of Cassiodorus believed the study of classical literature was essential to better understand the bible. He also encouraged the copy of books to make sure Monks had access to any readings. A lot of Greek and Latin texts are around now because they were copied in monasteries.
“Cassiodorus steer monasteries in housing a collection, preservation, and transmission of knowledge”.

SubQuestion No : 96

Q.96 Identify the most appropriate fact that has been mentioned in the passage correctly.

Ans

✗ 1. Communal prayer was held 18 times a day.,This was called the Divine Office.

✗ 2. Only the virginity of women was considered the highest spiritual standard.

✓ 3. Monastic teachers highly used physical discipline which helped the instruction of material.

✗ 4. The new monasteries were built in areas that were full of wealth.

Website - www.dailyjobalert.in

Question ID : **630680204144**

Option 1 ID : **630680791716**
Option 2 ID : **630680791715**
Option 3 ID : **630680791717**
Option 4 ID : **630680791718**
Status : **Answered**
Chosen Option : **3**

Website - www.dailyjobalert.in

Comprehension:

Read the given passage and answer the questions that follow.

The fall of the Roman Empire was the first step of Monasteries in the third century. A young man named Saint Anthony led and taught the teachings of Christ in Western Europe. Saint Anthony led a worldly routine to follow Christ's life as fully as possible. The concepts of Monachism include the removal from society to focus on God. "It is a religion in which one renounces worldly pursuits to devote oneself fully to spiritual work".
Monachism can be found in numerous religious systems including Braham , Buddhist, Jewish, Christian and many more. “Monasteries in the medieval society encouraged literacy, promoted learning, and preserved classical ancient literature”. It helped shaped society by providing religious institutions, economic centres, and educational places, and facilitated play in social roles. Monastic orders will also be further explained. Soon after Christianity became legal around (300 CE), was when monasticism became a new spiritual movement. “Early monks lived as hermits; a loner who practised self-degradation”. Some monks would graze in fields others would restrain themselves to small cages or would even place heavy weights around their necks. All showing their devotion to God. People were stating that their bodies were not belonged to the state but to God . The Roman Empire was a big deal due to people owing themselves to the Empire. Virginity for men and women was considered the highest spiritual standard. Sustaining sexual relations until marriage was also seen as a high standard and those were praised.
Monks were to study the bible for their daily prayer rounds and be in a life of worship. People could join and pray, contemplate and solitude to absolve sins. “Some monastic churches were meant only for the residents, but others had accommodations for visiting pilgrims or lay worshippers”.“Communal prayer was eight times a day which was called the divine office or Opus Dei (work of God). The Divine Office was inspired by the Old Covenant. Practices depended on the individual monastery. The division given by St. Benedict in his ruling, with prayer hours of Lauds (Morning Prayer) offered at sunrise, Prime (1st hour of the day), Terce (3rd hour, or Mid-morning), Sext (6th hour or Midday). None (9th hour or Mid-Afternoon), Vespers (Evening Prayer) offered at sunset, and Compline (Night Prayer) before going to bed”. Not every monk was integrating this routine into their schedule, but this can be seen throughout monasteries. Monasteries were a sight for economic exchange. The Rule of St. Benedict is the guideline for religious communities. The Benedict idea was then exploited in patronage and wealth by the 11thCentury there was an uprise of the people within towns (around the monastery). Meaning more land being taken over and more money circumcising in the air. Many monasteries were located on important trade routes, that attracted craftsmen. There was a growth in markets and trade. Monks were known for their skills in various trades. Some monks owned farms and animals. They would grow their food for either community consumption or trade. Many monasteries were often built in the deep wilderness, so they would have room for expansion. It was also seen that people would donate chunks of land to their favourite monastery, which would only benefit them in the end. As more people settled in the monasteries there seemed to be more ‘sin’. There was a competition for scarce resources, which people started getting greedy.“A group of Christians known as ‘Cistercians’ formed; in search of monasteries not trembling because of wealth. These new monasteries were built in areas that were secluded. They showed no sign of wealth. “The Cistercians had committed themselves to be self-sufficient and thus ran agricultural businesses and workshops in which raw materials were processed and craftsmen made their products”. They hired ‘lay brothers’ who oversaw the monasteries commercial business.
“Ancient education spread to the developing centres of monastic education throughout Western Europe”. A book called, Education and Culture in the Barbarian West by Pierre Riche, brought to light the role of women as educators, which was a huge step for women at this time, since previously they were forbidden to do such an act. Also, Riche notes the use of song in the education in monasteries. Children were exposed to liturgical training. “That training included children becoming aware of the hierarchy, and discipline and ritual patterns of the monastery”. Verbal and physical imitation was seen across medieval society. Monastic teachers highly used physical discipline, which helped the instruction of material. In the Roman East, a new way of thinking called the Basil of Caesarea helped the education of Monks. It encouraged useful work and silent meditation and discouraged prolonged fasts. Monasteries were also known for their massive libraries.“Libraries housed the breviary, texts for the Divine Office, to missals, gospels, antiphonaries, and graduals for the choir, was standard in monastic libraries, as were the books of the Bible and theological works by Saint Augustine, Gregory the Great, and other patristic writers”. A man by the name of Cassiodorus believed the study of classical literature was essential to better understand the bible. He also encouraged the copy of books to make sure Monks had access to any readings. A lot of Greek and Latin texts are around now because they were copied in monasteries.
“Cassiodorus steer monasteries in housing a collection, preservation, and transmission of knowledge”.

SubQuestion No : 97

Q.97 Identify the structure of the passage.

Ans

✗ 1. Comparison or contrast

✗ 2. Cause and effect

✓ 3. Sequence or process

✗ 4. Problem and solution

Question ID : **630680204145**

Website - www.dailyjobalert.in

Option 1 ID : **630680791722**
Option 2 ID : **630680791719**
Option 3 ID : **630680791721**
Option 4 ID : **630680791720**
Status : **Answered**
Chosen Option : **3**

Website - www.dailyjobalert.in

Comprehension:

Read the given passage and answer the questions that follow.

The fall of the Roman Empire was the first step of Monasteries in the third century. A young man named Saint Anthony led and taught the teachings of Christ in Western Europe. Saint Anthony led a worldly routine to follow Christ's life as fully as possible. The concepts of Monachism include the removal from society to focus on God. "It is a religion in which one renounces worldly pursuits to devote oneself fully to spiritual work".
Monachism can be found in numerous religious systems including Braham , Buddhist, Jewish, Christian and many more. “Monasteries in the medieval society encouraged literacy, promoted learning, and preserved classical ancient literature”. It helped shaped society by providing religious institutions, economic centres, and educational places, and facilitated play in social roles. Monastic orders will also be further explained. Soon after Christianity became legal around (300 CE), was when monasticism became a new spiritual movement. “Early monks lived as hermits; a loner who practised self-degradation”. Some monks would graze in fields others would restrain themselves to small cages or would even place heavy weights around their necks. All showing their devotion to God. People were stating that their bodies were not belonged to the state but to God . The Roman Empire was a big deal due to people owing themselves to the Empire. Virginity for men and women was considered the highest spiritual standard. Sustaining sexual relations until marriage was also seen as a high standard and those were praised.
Monks were to study the bible for their daily prayer rounds and be in a life of worship. People could join and pray, contemplate and solitude to absolve sins. “Some monastic churches were meant only for the residents, but others had accommodations for visiting pilgrims or lay worshippers”.“Communal prayer was eight times a day which was called the divine office or Opus Dei (work of God). The Divine Office was inspired by the Old Covenant. Practices depended on the individual monastery. The division given by St. Benedict in his ruling, with prayer hours of Lauds (Morning Prayer) offered at sunrise, Prime (1st hour of the day), Terce (3rd hour, or Mid-morning), Sext (6th hour or Midday). None (9th hour or Mid-Afternoon), Vespers (Evening Prayer) offered at sunset, and Compline (Night Prayer) before going to bed”. Not every monk was integrating this routine into their schedule, but this can be seen throughout monasteries. Monasteries were a sight for economic exchange. The Rule of St. Benedict is the guideline for religious communities. The Benedict idea was then exploited in patronage and wealth by the 11thCentury there was an uprise of the people within towns (around the monastery). Meaning more land being taken over and more money circumcising in the air. Many monasteries were located on important trade routes, that attracted craftsmen. There was a growth in markets and trade. Monks were known for their skills in various trades. Some monks owned farms and animals. They would grow their food for either community consumption or trade. Many monasteries were often built in the deep wilderness, so they would have room for expansion. It was also seen that people would donate chunks of land to their favourite monastery, which would only benefit them in the end. As more people settled in the monasteries there seemed to be more ‘sin’. There was a competition for scarce resources, which people started getting greedy.“A group of Christians known as ‘Cistercians’ formed; in search of monasteries not trembling because of wealth. These new monasteries were built in areas that were secluded. They showed no sign of wealth. “The Cistercians had committed themselves to be self-sufficient and thus ran agricultural businesses and workshops in which raw materials were processed and craftsmen made their products”. They hired ‘lay brothers’ who oversaw the monasteries commercial business.
“Ancient education spread to the developing centres of monastic education throughout Western Europe”. A book called, Education and Culture in the Barbarian West by Pierre Riche, brought to light the role of women as educators, which was a huge step for women at this time, since previously they were forbidden to do such an act. Also, Riche notes the use of song in the education in monasteries. Children were exposed to liturgical training. “That training included children becoming aware of the hierarchy, and discipline and ritual patterns of the monastery”. Verbal and physical imitation was seen across medieval society. Monastic teachers highly used physical discipline, which helped the instruction of material. In the Roman East, a new way of thinking called the Basil of Caesarea helped the education of Monks. It encouraged useful work and silent meditation and discouraged prolonged fasts. Monasteries were also known for their massive libraries.“Libraries housed the breviary, texts for the Divine Office, to missals, gospels, antiphonaries, and graduals for the choir, was standard in monastic libraries, as were the books of the Bible and theological works by Saint Augustine, Gregory the Great, and other patristic writers”. A man by the name of Cassiodorus believed the study of classical literature was essential to better understand the bible. He also encouraged the copy of books to make sure Monks had access to any readings. A lot of Greek and Latin texts are around now because they were copied in monasteries.
“Cassiodorus steer monasteries in housing a collection, preservation, and transmission of knowledge”.

SubQuestion No : 98

Q.98 Select an appropriate title for the passage.

Ans

✗ 1. The Role of Rituals and Beliefs of the Monastery

✓ 2. The Role of Monasteries in Medieval Society

✗ 3. The Spread of Monastic Education throughout Western Europe

✗ 4. The Rise of Monachism in Society

Question ID : **630680204142**

Website - www.dailyjobalert.in

Option 1 ID : **630680791709**
Option 2 ID : **630680791707**
Option 3 ID : **630680791710**
Option 4 ID : **630680791708**
Status : **Answered**
Chosen Option : **4**

Website - www.dailyjobalert.in

Comprehension:

Read the given passage and answer the questions that follow.

The fall of the Roman Empire was the first step of Monasteries in the third century. A young man named Saint Anthony led and taught the teachings of Christ in Western Europe. Saint Anthony led a worldly routine to follow Christ's life as fully as possible. The concepts of Monachism include the removal from society to focus on God. "It is a religion in which one renounces worldly pursuits to devote oneself fully to spiritual work".
Monachism can be found in numerous religious systems including Braham , Buddhist, Jewish, Christian and many more. “Monasteries in the medieval society encouraged literacy, promoted learning, and preserved classical ancient literature”. It helped shaped society by providing religious institutions, economic centres, and educational places, and facilitated play in social roles. Monastic orders will also be further explained. Soon after Christianity became legal around (300 CE), was when monasticism became a new spiritual movement. “Early monks lived as hermits; a loner who practised self-degradation”. Some monks would graze in fields others would restrain themselves to small cages or would even place heavy weights around their necks. All showing their devotion to God. People were stating that their bodies were not belonged to the state but to God . The Roman Empire was a big deal due to people owing themselves to the Empire. Virginity for men and women was considered the highest spiritual standard. Sustaining sexual relations until marriage was also seen as a high standard and those were praised.
Monks were to study the bible for their daily prayer rounds and be in a life of worship. People could join and pray, contemplate and solitude to absolve sins. “Some monastic churches were meant only for the residents, but others had accommodations for visiting pilgrims or lay worshippers”.“Communal prayer was eight times a day which was called the divine office or Opus Dei (work of God). The Divine Office was inspired by the Old Covenant. Practices depended on the individual monastery. The division given by St. Benedict in his ruling, with prayer hours of Lauds (Morning Prayer) offered at sunrise, Prime (1st hour of the day), Terce (3rd hour, or Mid-morning), Sext (6th hour or Midday). None (9th hour or Mid-Afternoon), Vespers (Evening Prayer) offered at sunset, and Compline (Night Prayer) before going to bed”. Not every monk was integrating this routine into their schedule, but this can be seen throughout monasteries. Monasteries were a sight for economic exchange. The Rule of St. Benedict is the guideline for religious communities. The Benedict idea was then exploited in patronage and wealth by the 11thCentury there was an uprise of the people within towns (around the monastery). Meaning more land being taken over and more money circumcising in the air. Many monasteries were located on important trade routes, that attracted craftsmen. There was a growth in markets and trade. Monks were known for their skills in various trades. Some monks owned farms and animals. They would grow their food for either community consumption or trade. Many monasteries were often built in the deep wilderness, so they would have room for expansion. It was also seen that people would donate chunks of land to their favourite monastery, which would only benefit them in the end. As more people settled in the monasteries there seemed to be more ‘sin’. There was a competition for scarce resources, which people started getting greedy.“A group of Christians known as ‘Cistercians’ formed; in search of monasteries not trembling because of wealth. These new monasteries were built in areas that were secluded. They showed no sign of wealth. “The Cistercians had committed themselves to be self-sufficient and thus ran agricultural businesses and workshops in which raw materials were processed and craftsmen made their products”. They hired ‘lay brothers’ who oversaw the monasteries commercial business.
“Ancient education spread to the developing centres of monastic education throughout Western Europe”. A book called, Education and Culture in the Barbarian West by Pierre Riche, brought to light the role of women as educators, which was a huge step for women at this time, since previously they were forbidden to do such an act. Also, Riche notes the use of song in the education in monasteries. Children were exposed to liturgical training. “That training included children becoming aware of the hierarchy, and discipline and ritual patterns of the monastery”. Verbal and physical imitation was seen across medieval society. Monastic teachers highly used physical discipline, which helped the instruction of material. In the Roman East, a new way of thinking called the Basil of Caesarea helped the education of Monks. It encouraged useful work and silent meditation and discouraged prolonged fasts. Monasteries were also known for their massive libraries.“Libraries housed the breviary, texts for the Divine Office, to missals, gospels, antiphonaries, and graduals for the choir, was standard in monastic libraries, as were the books of the Bible and theological works by Saint Augustine, Gregory the Great, and other patristic writers”. A man by the name of Cassiodorus believed the study of classical literature was essential to better understand the bible. He also encouraged the copy of books to make sure Monks had access to any readings. A lot of Greek and Latin texts are around now because they were copied in monasteries.
“Cassiodorus steer monasteries in housing a collection, preservation, and transmission of knowledge”.

SubQuestion No : 99

Q.99 What does the phrase ‘money circumcising in the air’ mean?

Ans

✔ 1. Increase in the exploitation of wealth and prosperity.

✘ 2. Transfer of money from one person to another.

✘ 3. Wastage of money by an individual or group.

✘ 4. Use of more resources than needed during elections.

Question ID : **630680204146**

Website - www.dailyjobalert.in

Option 1 ID : **630680791723**
Option 2 ID : **630680791726**
Option 3 ID : **630680791725**
Option 4 ID : **630680791724**
Status : **Answered**
Chosen Option : **1**

Website - www.dailyjobalert.in

Comprehension:

Read the given passage and answer the questions that follow.

The fall of the Roman Empire was the first step of Monasteries in the third century. A young man named Saint Anthony led and taught the teachings of Christ in Western Europe. Saint Anthony led a worldly routine to follow Christ's life as fully as possible. The concepts of Monachism include the removal from society to focus on God. "It is a religion in which one renounces worldly pursuits to devote oneself fully to spiritual work".
Monachism can be found in numerous religious systems including Braham , Buddhist, Jewish, Christian and many more. “Monasteries in the medieval society encouraged literacy, promoted learning, and preserved classical ancient literature”. It helped shaped society by providing religious institutions, economic centres, and educational places, and facilitated play in social roles. Monastic orders will also be further explained. Soon after Christianity became legal around (300 CE), was when monasticism became a new spiritual movement. “Early monks lived as hermits; a loner who practised self-degradation”. Some monks would graze in fields others would restrain themselves to small cages or would even place heavy weights around their necks. All showing their devotion to God. People were stating that their bodies were not belonged to the state but to God . The Roman Empire was a big deal due to people owing themselves to the Empire. Virginity for men and women was considered the highest spiritual standard. Sustaining sexual relations until marriage was also seen as a high standard and those were praised.
Monks were to study the bible for their daily prayer rounds and be in a life of worship. People could join and pray, contemplate and solitude to absolve sins. “Some monastic churches were meant only for the residents, but others had accommodations for visiting pilgrims or lay worshippers”.“Communal prayer was eight times a day which was called the divine office or Opus Dei (work of God). The Divine Office was inspired by the Old Covenant. Practices depended on the individual monastery. The division given by St. Benedict in his ruling, with prayer hours of Lauds (Morning Prayer) offered at sunrise, Prime (1st hour of the day), Terce (3rd hour, or Mid-morning), Sext (6th hour or Midday). None (9th hour or Mid-Afternoon), Vespers (Evening Prayer) offered at sunset, and Compline (Night Prayer) before going to bed”. Not every monk was integrating this routine into their schedule, but this can be seen throughout monasteries. Monasteries were a sight for economic exchange. The Rule of St. Benedict is the guideline for religious communities. The Benedict idea was then exploited in patronage and wealth by the 11thCentury there was an uprise of the people within towns (around the monastery). Meaning more land being taken over and more money circumcising in the air. Many monasteries were located on important trade routes, that attracted craftsmen. There was a growth in markets and trade. Monks were known for their skills in various trades. Some monks owned farms and animals. They would grow their food for either community consumption or trade. Many monasteries were often built in the deep wilderness, so they would have room for expansion. It was also seen that people would donate chunks of land to their favourite monastery, which would only benefit them in the end. As more people settled in the monasteries there seemed to be more ‘sin’. There was a competition for scarce resources, which people started getting greedy.“A group of Christians known as ‘Cistercians’ formed; in search of monasteries not trembling because of wealth. These new monasteries were built in areas that were secluded. They showed no sign of wealth. “The Cistercians had committed themselves to be self-sufficient and thus ran agricultural businesses and workshops in which raw materials were processed and craftsmen made their products”. They hired ‘lay brothers’ who oversaw the monasteries commercial business.
“Ancient education spread to the developing centres of monastic education throughout Western Europe”. A book called, Education and Culture in the Barbarian West by Pierre Riche, brought to light the role of women as educators, which was a huge step for women at this time, since previously they were forbidden to do such an act. Also, Riche notes the use of song in the education in monasteries. Children were exposed to liturgical training. “That training included children becoming aware of the hierarchy, and discipline and ritual patterns of the monastery”. Verbal and physical imitation was seen across medieval society. Monastic teachers highly used physical discipline, which helped the instruction of material. In the Roman East, a new way of thinking called the Basil of Caesarea helped the education of Monks. It encouraged useful work and silent meditation and discouraged prolonged fasts. Monasteries were also known for their massive libraries.“Libraries housed the breviary, texts for the Divine Office, to missals, gospels, antiphonaries, and graduals for the choir, was standard in monastic libraries, as were the books of the Bible and theological works by Saint Augustine, Gregory the Great, and other patristic writers”. A man by the name of Cassiodorus believed the study of classical literature was essential to better understand the bible. He also encouraged the copy of books to make sure Monks had access to any readings. A lot of Greek and Latin texts are around now because they were copied in monasteries.
“Cassiodorus steer monasteries in housing a collection, preservation, and transmission of knowledge”.

SubQuestion No : 100

Q.100 What is the passage based on?

Ans

✗ 1. The formation of Cistercians

✗ 2. The fall of the Roman Empire

✓ 3. The rise of monasteries

✗ 4. The influence of divine office

Question ID : **630680204143**

Website - www.dailyjobalert.in

Option 1 ID : **630680791714**
Option 2 ID : **630680791711**
Option 3 ID : **630680791712**
Option 4 ID : **630680791713**
Status : **Answered**
Chosen Option : **3**

Section : **Qualifying Test of Punjabi Language**

Q.1 **"ਉਹ ਜੰਗ ਜਿਸ ਵਿਚ ਬਹੁਤ ਸਾਰੇ ਲੋਕ ਮਾਰੇ ਜਾਣ' ਲਈ ਕੋਈ ਇਕ ਸ਼ਬਦ ਚੁਣੋ:-**

Ans
✗ 1. ਸ਼ਹਾਦਤ
✗ 2. ਖੂਨ ਖਰਾਬਾ
✓ 3. ਘੱਲੂਘਾਰਾ
✗ 4. ਕਤਲੇਆਮ

Question ID : **630680248714**
Option 1 ID : **630680964999**
Option 2 ID : **630680965002**
Option 3 ID : **630680965000**
Option 4 ID : **630680965001**
Status : **Answered**
Chosen Option : **3**

Q.2 **'ਫਕੀਰ" ਸ਼ਬਦ ਦਾ ਇਸਤਰੀ ਲਿੰਗ ਹੈ:-**

Ans
✓ 1. ਫਕੀਰਨ
✗ 2. ਫਕੀਰੀ
✗ 3. ਫਕੀਰਤ
✗ 4. ਫਕੀਰਕ

Question ID : **630680248723**
Option 1 ID : **630680965037**
Option 2 ID : **630680965035**
Option 3 ID : **630680965036**
Option 4 ID : **630680965038**
Status : **Answered**
Chosen Option : **1**

Q.3 **'ਜਿਉਂਦਾ ਬੰਦਾ ਸੌ ਕੰਮ ਆਉਂਦਾ ਹੈ ਪਰ ਮਰੇ ਹੋਏ ਬੰਦੇ ਦਾ ਕੀ ਫਾਇਦਾ ।'ਵਾਕ ਹੈ:-**

Ans
✗ 1. ਮਿਸ਼ਰਤ ਵਾਕ
✗ 2. ਵਿਸਮਕ ਵਾਕ
✓ 3. ਸੰਯੁਕਤ
✗ 4. ਸਧਾਰਨ ਵਾਕ

Question ID : **630680248738**
Option 1 ID : **630680965098**
Option 2 ID : **630680965096**
Option 3 ID : **630680965095**
Option 4 ID : **630680965097**
Status : **Answered**
Chosen Option : **3**

Website - www.dailyjobalert.in

Q.4 ਹੇਠ ਲਿਖਿਆਂ ਵਿਚ ਕਿਹੜਾ ਸ਼ਬਦ "ਧਨਵਾਨ" ਦਾ ਸਮਾਨਾਰਥਕ ਨਹੀਂ ਹੈ:-

Ans
- ✗ 1. ਅਮੀਰ
- ✗ 2. ਦੌਲਤਮੰਦ
- ✗ 3. ਧਨਾਢ
- ✓ 4. ਕਿਰਪਾਲੂ

Question ID : **630680248713**
Option 1 ID : **630680964995**
Option 2 ID : **630680964996**
Option 3 ID : **630680964997**
Option 4 ID : **630680964998**
Status : **Answered**
Chosen Option : **4**

Q.5 "ਜਿਸ ਥਾਂ ਪੈਸੇ, ਰੁਪਏ ਆਦਿ ਦੇ ਸਿੱਕੇ ਬਣਾਏ ਜਾਂਦੇ ਹਨ" ਲਈ ਕੋਈ ਇਕ ਸ਼ਬਦ ਚੁਣੋ:-

Ans
- ✓ 1. ਟਕਸਾਲ
- ✗ 2. ਨੋਟ ਘਾੜਾ
- ✗ 3. ਬੈਂਕ
- ✗ 4. ਛਾਪਾਖਾਨਾ

Question ID : **630680248716**
Option 1 ID : **630680965008**
Option 2 ID : **630680965009**
Option 3 ID : **630680965010**
Option 4 ID : **630680965007**
Status : **Answered**
Chosen Option : **1**

Q.6 ਹੇਠ ਲਿਖਿਆਂ ਵਿਚ ਅਗੇਤਰ ਯੁਕਤ ਸ਼ਬਦ ਹੈ:-

Ans
- ✓ 1. ਕੁਸੰਗ
- ✗ 2. ਸ਼ਾਹ
- ✗ 3. ਚੰਗਾ
- ✗ 4. ਗੈਰ

Question ID : **630680248728**
Option 1 ID : **630680965056**
Option 2 ID : **630680965058**
Option 3 ID : **630680965057**
Option 4 ID : **630680965055**
Status : **Answered**
Chosen Option : **1**

Q.7 ਹੇਠ ਲਿਖਿਆਂ ਵਿਚ ਕਿਹੜੇ ਵਾਕ ਵਿਚ ਸਹੀ ਵਿਸ਼ਰਾਮ ਚਿੰਨ੍ਹ ਲੱਗੇ ਹਨ?

Ans
- ✗ 1. ਹੌਲੀ ਗੱਲ ਕਰੋ:- ਕੰਧਾਂ ਨੂੰ ਵੀ ਕੰਨ ਹੁੰਦੇ ਹਨ।
- ✗ 2. ਹੌਲੀ ਗੱਲ ਕਰੋ; ਕੰਧਾਂ ਨੂੰ ਵੀ ਕੰਨ ਹੁੰਦੇ ਹਨ।
- ✓ 3. ਹੌਲੀ ਗੱਲ ਕਰੋ, ਕੰਧਾਂ ਨੂੰ ਵੀ ਕੰਨ ਹੁੰਦੇ ਹਨ।
- ✗ 4. ਹੌਲੀ ਗੱਲ ਕਰੋ, ਕੰਧਾਂ ਨੂੰ ਵੀ ਕੰਨ ਹੁੰਦੇ ਹਨ!

Question ID : **630680248749**
Option 1 ID : **630680965141**
Option 2 ID : **630680965139**
Option 3 ID : **630680965142**
Option 4 ID : **630680965140**
Status : **Answered**
Chosen Option : **3**

Website - www.dailyjobalert.in

Q.8 'ਰਵੱਈਆ' ਸ਼ਬਦ ਵਿਚ ਪਿਛੇਤਰ ਹੈ:-

Ans
- ✗ 1. ਆ
- ✗ 2. ਰਵ
- ✓ 3. ਅਈਆ
- ✗ 4. ਈਆ

Question ID : **630680248729**
Option 1 ID : **630680965060**
Option 2 ID : **630680965062**
Option 3 ID : **630680965061**
Option 4 ID : **630680965059**
Status : **Answered**
Chosen Option : **3**

Q.9 'Performance' ਸ਼ਬਦ ਦਾ ਪੰਜਾਬੀ ਅਨੁਵਾਦ ਨਹੀਂ ਹੈ:-

Ans
- ✓ 1. ਪੇਸ਼ਮਾਨੀ
- ✗ 2. ਕਰਤਬ
- ✗ 3. ਪ੍ਰਦਰਸ਼ਨ
- ✗ 4. ਨਿਭਾਅ

Question ID : **630680248752**
Option 1 ID : **630680965153**
Option 2 ID : **630680965151**
Option 3 ID : **630680965152**
Option 4 ID : **630680965154**
Status : **Answered**
Chosen Option : **4**

Q.10 "ਸੰਤੋਖ" ਦਾ ਸਮਾਨਾਰਥਕ ਸ਼ਬਦ ਹੈ:-

Ans
- ✗ 1. ਮਨੋਹਰ
- ✓ 2. ਸਬਰ
- ✗ 3. ਵਡਿਆਈ
- ✗ 4. ਝਿਜਕ

Question ID : **630680248710**
Option 1 ID : **630680964986**
Option 2 ID : **630680964983**
Option 3 ID : **630680964984**
Option 4 ID : **630680964985**
Status : **Answered**
Chosen Option : **2**

Q.11 ਹੇਠ ਲਿਖਿਆਂ ਵਿਚ ਪਿਛੇਤਰ ਯੁਕਤ ਸ਼ਬਦ ਹੈ:-

Ans
- ✓ 1. ਦਿਆਲੂ
- ✗ 2. ਖੁਸਕਿਸਮਤ
- ✗ 3. ਨਿਤਾਣਾ
- ✗ 4. ਮਹਾਰਾਜਾ

Question ID : **630680248731**
Option 1 ID : **630680965068**
Option 2 ID : **630680965067**
Option 3 ID : **630680965069**
Option 4 ID : **630680965070**
Status : **Answered**
Chosen Option : **1**

Website - www.dailyjobalert.in

Q.12 ਨਿਮਨ ਲਿਖਤ ਵਿਚ ਕਿਹੜਾ ਵਾਕ ਅਸ਼ੁੱਧ ਹੈ:-

Ans
- ✗ 1. ਬੱਚਿਆਂ ਨੂੰ ਸਕੂਲ ਛੱਡ ਕੇ ਮੈਂ ਵਿਹਲਾ ਹੋ ਗਿਆ।
- ✗ 2. ਰਮਨ ਮੇਰਾ ਪਿਆਰਾ ਮਿੱਤਰ ਹੈ।
- ✗ 3. ਰੱਬ ਦਾ ਦਿੱਤਾ ਸਭ ਕੁਝ ਹੈ।
- ✓ 4. ਗੋਬੀ ਦੀ ਪਨ੍ਹੀਰੀ ਲਿਆਦੀ ਹੈ।

Question ID : **630680248739**
Option 1 ID : **630680965102**
Option 2 ID : **630680965100**
Option 3 ID : **630680965099**
Option 4 ID : **630680965101**
Status : **Answered**
Chosen Option : **4**

Q.13 "ਉਹ ਪਾਠ ਜਿਹੜਾ ਨਿਰੰਤਰ ਚਲੇ" ਲਈ ਕੋਈ ਇਕ ਸ਼ਬਦ ਚੁਣੋ:-

Ans
- ✗ 1. ਸਹਿਜ ਪਾਠ
- ✗ 2. ਸੰਪਟ ਪਾਠ
- ✗ 3. ਆਤਮ ਪਾਠ
- ✓ 4. ਅਖੰਡ ਪਾਠ

Question ID : **630680248715**
Option 1 ID : **630680965003**
Option 2 ID : **630680965006**
Option 3 ID : **630680965004**
Option 4 ID : **630680965005**
Status : **Answered**
Chosen Option : **4**

Q.14 'ਪਹਾੜੀਆ' ਸ਼ਬਦ ਦਾ ਇਸਤਰੀ ਲਿੰਗ ਹੈ:-

Ans
- ✗ 1. ਪਹਾੜੇ
- ✗ 2. ਪਹਾੜਨੀ
- ✗ 3. ਪਹਾੜੀ
- ✓ 4. ਪਹਾੜਨ

Question ID : **630680248724**
Option 1 ID : **630680965041**
Option 2 ID : **630680965040**
Option 3 ID : **630680965039**
Option 4 ID : **630680965042**
Status : **Answered**
Chosen Option : **4**

Q.15 'ਇਹ ਮੋਟਰ ਕਾਰ ਕਿਸਦੀ ਹੈ?' ਵਾਕ ਹੈ:-

Ans
- ✗ 1. ਗੁੰਝਲਦਾਰ ਵਾਕ
- ✗ 2. ਸੰਯੁਕਤ ਪ੍ਰਸ਼ਨਵਾਚਕ ਵਾਕ
- ✓ 3. ਸਧਾਰਨ ਪ੍ਰਸ਼ਨਵਾਚਕ ਵਾਕ
- ✗ 4. ਮਿਸ਼ਰਤ ਵਾਕ

Question ID : **630680248735**
Option 1 ID : **630680965083**
Option 2 ID : **630680965084**
Option 3 ID : **630680965085**
Option 4 ID : **630680965086**
Status : **Answered**
Chosen Option : **3**

DAILY JOB Alert ਪੰਜਾਬ
Website - www.dailyjobalert.in

Q.16 "ਖੰਡ ਖੀਰ ਹੋਣਾ" ਮੁਹਾਵਰੇ ਨੂੰ ਵਰਤ ਕੇ ਬਣਾਏ ਸ਼ਬਦ ਦੀ ਸਹੀ ਚੋਣ ਕਰੋ:-

Ans
1. ਏਨਾ ਕੌੜਾ ਨਾ ਬੋਲੋ ਕਿ ਖੰਡ ਖੀਰ ਲਗੇ।
2. ਖੰਡ ਮਹਿੰਗੀ ਹੋਣ ਕਾਰਣ ਖੀਰ ਨਹੀਂ ਬਣਦੀ।
3. ਪਾਲੀ ਤੇ ਬਾਲੀ ਪਹਿਲਾਂ ਦੁਸ਼ਮਣ ਸਨ ਪਰ ਅੱਜ ਕੱਲ ਬੜੇ ਖੰਡ ਖੀਰ ਹੋਏ ਪਏ ਹਨ।
4. ਖੰਡ ਖੀਰ ਖਾਓਗੇ ਤਾਂ ਸ਼ੂਗਰ ਹੋਏਗੀ ਹੀ।

Question ID : **630680248717**
Option 1 ID : **630680965013**
Option 2 ID : **630680965011**
Option 3 ID : **630680965012**
Option 4 ID : **630680965014**
Status : **Answered**
Chosen Option : **3**

Q.17 "ਹਰੇ" ਦਾ ਵਿਰੋਧੀ ਸ਼ਬਦ ਹੈ:-

Ans
1. ਸੁੱਕਾ
2. ਬੇਰੰਗ
3. ਪਾਣੀ
4. ਹਾਰਾ

Question ID : **630680248712**
Option 1 ID : **630680964992**
Option 2 ID : **630680964993**
Option 3 ID : **630680964994**
Option 4 ID : **630680964991**
Status : **Answered**
Chosen Option : **2**

Q.18 ਨਿਮਨ ਲਿਖਤ ਵਿਚ ਕਿਹੜਾ ਵਾਕ ਸ਼ੁੱਧ ਹੈ:-

Ans
1. ਪਾਨੀ ਗਰਮ ਕਰੋ।
2. ਕੋਲੀ ਵਿਚ ਕੜ੍ਹਾ ਪਾ ਦਿਓ।
3. ਮੇਰੇ ਮਾਤਾ ਜੀ ਅੰਦਰ ਹਨ।
4. ਮੋਟਰ ਸਾਈਕਲ ਲਿਯਾਂਦੀ ਹੈ।

Question ID : **630680248740**
Option 1 ID : **630680965103**
Option 2 ID : **630680965105**
Option 3 ID : **630680965106**
Option 4 ID : **630680965104**
Status : **Answered**
Chosen Option : **3**

Q.19 ਦੇਸੀ ਸਾਲ ਦਾ ਆਖਰੀ ਮਹੀਨਾ ਹੈ:-

Ans
1. ਫੱਗਣ
2. ਕੱਤਕ
3. ਜੇਠ
4. ਮਾਘ

Question ID : **630680248756**
Option 1 ID : **630680965168**
Option 2 ID : **630680965170**
Option 3 ID : **630680965169**
Option 4 ID : **630680965167**
Status : **Answered**
Chosen Option : **1**

Website - www.dailyjobalert.in

Q.20 'ਬਾਲੜੀ' ਸ਼ਬਦ ਦਾ ਪੁਲਿੰਗ ਹੈ:-

Ans
- ✗ 1. ਬਾਲੋ
- ✗ 2. ਮੁੰਡਾ
- ✓ 3. ਬਾਲ
- ✗ 4. ਲੜਕਾ

Question ID : **630680248725**
Option 1 ID : **630680965044**
Option 2 ID : **630680965045**
Option 3 ID : **630680965043**
Option 4 ID : **630680965046**
Status : **Answered**
Chosen Option : **3**

Q.21 'ਚਮਤਕਾਰ' ਵਿਚ ਪਿਛੇਤਰ ਹੈ:-

Ans
- ✗ 1. ਕਾਰ
- ✗ 2. ਰ
- ✓ 3. ਆਰ
- ✗ 4. ਤਕਾਰ

Question ID : **630680248730**
Option 1 ID : **630680965064**
Option 2 ID : **630680965065**
Option 3 ID : **630680965066**
Option 4 ID : **630680965063**
Status : **Answered**
Chosen Option : **1**

Q.22 "ਕਮਲੀ ਕੁੜੀ ਦੁਪਹਿਰੇ ਗਿੱਧਾ" ਅਖਾਣ ਦਾ ਅਰਥ ਹੈ:-

Ans
- ✗ 1. ਆਪਣਾ ਕੰਮ ਕੱਢ ਕੇ ਲਾਂਭੇ ਹੋਣਾ
- ✗ 2. ਮੂਰਖ ਵੀ ਕੁਝ ਕਰਨ ਲੱਗਿਆਂ ਸਮਾਂ ਵਿਚਾਰਦਾ ਹੈ
- ✗ 3. ਕਮਲੀ ਔਰਤ ਕੋਈ ਕੰਮ ਚੰਗਾ ਨਹੀਂ ਕਰਦੀ
- ✓ 4. ਮੂਰਖ ਬੰਦਾ ਵੀ ਕੁਝ ਕਰਨ ਲੱਗਿਆਂ ਸਮਾਂ ਨਹੀਂ ਵਿਚਾਰਦਾ

Question ID : **630680248718**
Option 1 ID : **630680965017**
Option 2 ID : **630680965015**
Option 3 ID : **630680965018**
Option 4 ID : **630680965016**
Status : **Answered**
Chosen Option : **4**

DAILY JOB Alert ਪੰਜਾਬ

Q.23 'ਮਹਾਂਭਾਰਤ ਦਾ _____ ਦੁਰਯੋਧਨ ਇਕ ਬਹਾਦਰ ਇਨਸਾਨ ਸੀ ਪਰ ਪਖੰਡੀ ਵੀ ਸੀ। ਵਿਚ ਖਾਲੀ ਸਥਾਨ ਭਰਨ ਦਾ ਸਹੀ ਵਿਕਲਪ ਹੈ:-

Ans
✔ 1. ਖਲਨਾਇਕ
✘ 2. ਹੀਰੋ
✘ 3. ਕੌਰਵ
✘ 4. ਨਾਇਕ

Question ID : **630680248734**
Option 1 ID : **630680965079**
Option 2 ID : **630680965080**
Option 3 ID : **630680965082**
Option 4 ID : **630680965081**
Status : **Answered**
Chosen Option : **3**

Q.24 "ਜਿਸਮ" ਦਾ ਸਮਾਨਾਰਥਕ ਸ਼ਬਦ ਹੈ:-

Ans
✘ 1. ਤ੍ਰਿਪਤੀ
✘ 2. ਚਮੜੀ
✔ 3. ਬਦਨ
✘ 4. ਸਿਹਤ

Question ID : **630680248711**
Option 1 ID : **630680964990**
Option 2 ID : **630680964987**
Option 3 ID : **630680964989**
Option 4 ID : **630680964988**
Status : **Answered**
Chosen Option : **3**

Q.25 ਕਿਸੇ ਵਿਸ਼ੇਸ਼ ਵਿਚਾਰ ਦੀ ਲੜੀ ਵਿਚ ਬੱਝੇ ਉਪਵਾਕਾਂ ਵਿਚਕਾਰ ਕਿਹੜੇ ਵਿਸ਼ਰਾਮ ਚਿੰਨ੍ਹ ਦੀ ਵਰਤੋਂ ਹੁੰਦੀ ਹੈ?

Ans
✔ 1. ਕਾਮਾ-ਬਿੰਦੀ
✘ 2. ਦੁਬਿੰਦੀ ਡੈਸ਼
✘ 3. ਛੁੱਟ ਮਰੋੜੀ
✘ 4. ਪੁੱਠੇ ਕਾਮੇ

Question ID : **630680248748**
Option 1 ID : **630680965136**
Option 2 ID : **630680965135**
Option 3 ID : **630680965137**
Option 4 ID : **630680965138**
Status : **Answered**
Chosen Option : **4**

Website - www.dailyjobalert.in

Q.26 'Humanity' ਸ਼ਬਦ ਦਾ ਪੰਜਾਬੀ ਅਨੁਵਾਦ ਹੈ:-

Ans
1. ਇਨਸਾਨ
2. ਇਮਾਨਦਾਰੀ
3. ਮਾਨਵਤਾ
4. ਮਾਨਵ

Question ID : **630680248753**
Option 1 ID : **630680965157**
Option 2 ID : **630680965158**
Option 3 ID : **630680965155**
Option 4 ID : **630680965156**
Status : **Answered**
Chosen Option : **3**

Q.27 'Transformation' ਸ਼ਬਦ ਦਾ ਪੰਜਾਬੀ ਅਨੁਵਾਦ ਹੈ:-

Ans
1. ਤਰਜਮਾ
2. ਰੂਪਾਂਤਰਣ
3. ਅਦਲਾ-ਬਦਲ
4. ਅਨੁਵਾਦ

Question ID : **630680248755**
Option 1 ID : **630680965164**
Option 2 ID : **630680965166**
Option 3 ID : **630680965165**
Option 4 ID : **630680965163**
Status : **Answered**
Chosen Option : **2**

Q.28 ਵਿਸ਼ਰਾਮ ਚਿੰਨ੍ਹ 'ਕਾਮਾ' ਦੀ ਵਰਤੋਂ ਕਦੋਂ ਕੀਤੀ ਜਾਂਦੀ ਹੈ?

Ans
1. ਸੰਯੁਕਤ ਵਾਕ ਬਣਾਉਣ ਲਈ
2. ਵਾਕ ਤੇ ਵਾਕ ਅੰਸ਼ ਨੂੰ ਬਰਾਬਰ ਰੱਖਣ ਲਈ
3. ਅਲਪ ਵਿਸ਼ਰਾਮ ਲਈ
4. ਦੋ ਵਾਕਾਂ ਨੂੰ ਜੋੜਨ ਲਈ

Question ID : **630680248747**
Option 1 ID : **630680965134**
Option 2 ID : **630680965131**
Option 3 ID : **630680965133**
Option 4 ID : **630680965132**
Status : **Answered**
Chosen Option : **3**

Q.29 'ਹਾਜ਼ਿਰ' ਸ਼ਬਦ ਨਾਲ ਕਿਹੜਾ ਅਗੇਤਰ ਲਾਇਆ ਜਾ ਸਕਦਾ ਹੈ:-

Ans
1. ਗ਼ੈਰ
2. ਹਾਜ਼ਿ
3. ਨਾ
4. ਹਾ

Question ID : **630680248727**
Option 1 ID : **630680965051**
Option 2 ID : **630680965054**
Option 3 ID : **630680965052**
Option 4 ID : **630680965053**
Status : **Answered**
Chosen Option : **1**

Website - www.dailyjobalert.in

Q.30 'ਸੱਚ _____ ਦਾ ਚਿੰਨ੍ਹ ਹੈ।'ਵਿਚ ਖਾਲੀ ਸਥਾਨ ਭਰਨ ਦਾ ਸਹੀ ਵਿਕਲਪ ਹੈ:-

Ans
1. ਮਨੁੱਖ
2. ਕੁੜ
3. ਪਖੰਡ
4. ਪਵਿੱਤਰਤਾ

Question ID : **630680248732**
Option 1 ID : **630680965073**
Option 2 ID : **630680965071**
Option 3 ID : **630680965074**
Option 4 ID : **630680965072**
Status : **Answered**
Chosen Option : **4**

Q.31 'ਮੇਲੇ ਵਿਚ _____ ਲੋਕਾਂ ਨੂੰ ਮਜ਼ੇ ਕਰਦਿਆਂ ਦੇਖਿਆ।'ਵਿਚ ਖਾਲੀ ਸਥਾਨ ਭਰਨ ਦਾ ਸਹੀ ਵਿਕਲਪ ਹੈ:-

Ans
1. ਮੌਜ ਦੇ
2. ਦੇਖਦਿਆਂ
3. ਘੁੰਮਦਿਆਂ
4. ਰੋਂਦੇ

Question ID : **630680248733**
Option 1 ID : **630680965076**
Option 2 ID : **630680965075**
Option 3 ID : **630680965077**
Option 4 ID : **630680965078**
Status : **Answered**
Chosen Option : **3**

Q.32 'Humid' ਸ਼ਬਦ ਦਾ ਪੰਜਾਬੀ ਅਨੁਵਾਦ ਨਹੀਂ ਹੈ:-

Ans
1. ਗਿੱਲਾ
2. ਤਰ
3. ਨੰਗੇਜ਼
4. ਸਿੱਲਾ

Question ID : **630680248754**
Option 1 ID : **630680965159**
Option 2 ID : **630680965161**
Option 3 ID : **630680965160**
Option 4 ID : **630680965162**
Status : **Answered**
Chosen Option : **2**

Q.33 'ਕੱਲ੍ਹ ਨਾਮ ਕਾਲ ਦਾ' ਅਖਾਣ ਦਾ ਅਰਥ ਹੈ:-

Ans
1. ਬਿਨਾਂ ਮਜਬੂਰੀ ਦੇ ਕੰਮ ਕਰਨਾ
2. ਜਿਹੜਾ ਕੰਮ ਅੱਜ ਹੋ ਜਾਵੇ ਚੰਗਾ ਹੈ
3. ਕਿਸੇ ਨਾਲ ਮਾੜਾ ਵਰਤਣਾ ਠੀਕ ਨਹੀਂ ਹੁੰਦਾ
4. ਨਾਮ ਦੇ ਉਲਟ ਕੰਮ ਕਰਨਾ

Question ID : **630680248719**
Option 1 ID : **630680965020**
Option 2 ID : **630680965022**
Option 3 ID : **630680965019**
Option 4 ID : **630680965021**
Status : **Answered**
Chosen Option : **2**

Website - www.dailyjobalert.in

Q.34 ਨਿਮਨ ਲਿਖਤ ਵਿਚ ਕਰਮਣੀ ਵਾਕ ਹੈ:-

Ans
✗ 1. ਮੈਂ ਬਾਜ਼ਾਰ ਜਾਵਾਂਗਾ।
✗ 2. ਸਿਮਰ ਨੇ ਗੀਤ ਗਾਇਆ।
✓ 3. ਮੋਟਰਸਾਈਕਲ ਮੇਰੇ ਦੁਆਰਾ ਧੋਤਾ ਜਾਏਗਾ।
✗ 4. ਹਰ ਬੱਚਾ ਟੂਰ 'ਤੇ ਜਾਏਗਾ।

Question ID : **630680248737**
Option 1 ID : **630680965091**
Option 2 ID : **630680965094**
Option 3 ID : **630680965092**
Option 4 ID : **630680965093**
Status : **Answered**
Chosen Option : **3**

Q.35 'ਖੁਸ਼ਦਿਲ' ਸ਼ਬਦ ਵਿਚ ਅਗੇਤਰ ਹੈ:-

Ans
✗ 1. ਦਿਲ
✓ 2. ਖੁਸ਼
✗ 3. ਇਲ
✗ 4. ਖੁ

Question ID : **630680248726**
Option 1 ID : **630680965049**
Option 2 ID : **630680965048**
Option 3 ID : **630680965050**
Option 4 ID : **630680965047**
Status : **Answered**
Chosen Option : **2**

Q.36 ਪੰਜਾਬੀ ਵਿਚ 69 ਅੰਕ ਨੂੰ ਕਿਵੇਂ ਲਿਖਦੇ ਹਨ?

Ans
✓ 1. ਉਨੱਤਰ
✗ 2. ਉਨਾਸੀ
✗ 3. ਨਵਾਸੀ
✗ 4. ਅਨੱਤਰ

Question ID : **630680248757**
Option 1 ID : **630680965173**
Option 2 ID : **630680965172**
Option 3 ID : **630680965171**
Option 4 ID : **630680965174**
Status : **Answered**
Chosen Option : **2**

Q.37 ਹੇਠ ਲਿਖੇ ਸ਼ਬਦਾਂ ਵਿਚ 'ਸਰਵਜਨਕ ਕਰਜ਼ਾ' ਦਾ ਸਹੀ ਅਰਥ ਹੈ:-

Ans
✓ 1. ਸਰਕਾਰ ਦੁਆਰਾ ਲਿਆ ਗਿਆ ਕਰਜ਼ਾ
✗ 2. ਸਮੂਹ ਕਰਜ਼ਾ
✗ 3. ਸਮਾਜ ਦਾ ਕਰਜ਼ਾ
✗ 4. ਸਾਰਿਆ ਦਾ ਕਰਜ਼ਾ

Question ID : **630680248744**
Option 1 ID : **630680965120**
Option 2 ID : **630680965122**
Option 3 ID : **630680965121**
Option 4 ID : **630680965119**
Status : **Answered**
Chosen Option : **2**

DAILY JOB Alert ਪੰਜਾਬ
Website - www.dailyjobalert.in

Q.38 ਕਿਹੜਾ ਸ਼ਬਦ ਅਸ਼ੁੱਧ ਹੈ?

Ans
✗ 1. ਕਰਤਵ
✗ 2. ਕੌੜਾ
✓ 3. ਕਉੜਾ
✗ 4. ਸਮਾਧੀ

Question ID : **630680248743**
Option 1 ID : **630680965118**
Option 2 ID : **630680965115**
Option 3 ID : **630680965117**
Option 4 ID : **630680965116**
Status : **Answered**
Chosen Option : **3**

Q.39 ਹੇਠ ਲਿਖਿਆਂ ਵਿਚ ਕਿਹੜੇ ਵਾਕ ਵਿਚ ਸਹੀ ਵਿਸ਼ਰਾਮ ਚਿੰਨ੍ਹ ਲੱਗੇ ਹਨ?

Ans
✗ 1. ਸੋਹਣ ਪੜ੍ਹ ਰਿਹਾ ਸੀ, ਮੋਹਣ ਖੇਡ ਰਿਹਾ ਸੀ ਪਰ ਮਨੋਹਰ ਸੁੱਤਾ ਪਿਆ ਸੀ?
✗ 2. ਸੋਹਣ ਪੜ੍ਹ ਰਿਹਾ ਸੀ, ਮੋਹਣ ਖੇਡ ਰਿਹਾ ਸੀ ਪਰ, ਮਨੋਹਰ ਸੁੱਤਾ ਪਿਆ ਸੀ।
✗ 3. ਸੋਹਣ ਪੜ੍ਹ ਰਿਹਾ ਸੀ, ਮੋਹਣ ਖੇਡ ਰਿਹਾ ਸੀ, ਪਰ ਮਨੋਹਰ ਸੁੱਤਾ ਪਿਆ ਸੀ।
✓ 4. ਸੋਹਣ ਪੜ੍ਹ ਰਿਹਾ ਸੀ, ਮੋਹਣ ਖੇਡ ਰਿਹਾ ਸੀ ਪਰ ਮਨੋਹਰ ਸੁੱਤਾ ਪਿਆ ਸੀ।

Question ID : **630680248750**
Option 1 ID : **630680965145**
Option 2 ID : **630680965146**
Option 3 ID : **630680965144**
Option 4 ID : **630680965143**
Status : **Answered**
Chosen Option : **4**

Q.40 ਅੰਗਰੇਜ਼ੀ ਦੇ 7ਵੇਂ ਮਹੀਨੇ ਨੂੰ ਪੰਜਾਬੀ ਵਿਚ ਕਹਿੰਦੇ ਹਨ:-

Ans
✗ 1. ਜੂਨ
✗ 2. ਅਕਤੂਬਰ
✓ 3. ਜੁਲਾਈ
✗ 4. ਨਵੰਬਰ

Question ID : **630680248758**
Option 1 ID : **630680965178**
Option 2 ID : **630680965175**
Option 3 ID : **630680965176**
Option 4 ID : **630680965177**
Status : **Answered**
Chosen Option : **3**

Q.41 ਹੇਠ ਲਿਖੇ ਸ਼ਬਦਾਂ ਵਿਚ 'ਵੱਟ ਚੜ੍ਹਨਾ' ਦਾ ਸਹੀ ਅਰਥ ਨਹੀਂ ਹੈ:-

Ans
✓ 1. ਗੁਸਾ ਆਉਣਾ
✗ 2. ਪਿਆਰ ਕਰਨਾ
✗ 3. ਬੱਦਲ ਚੜ੍ਹਨਾ
✗ 4. ਮੀਂਹ ਆਉਣਾ

Question ID : **630680248746**
Option 1 ID : **630680965128**
Option 2 ID : **630680965127**
Option 3 ID : **630680965130**
Option 4 ID : **630680965129**
Status : **Answered**
Chosen Option : **1**

Website - www.dailyjobalert.in

Q.42 'ਮੁੰਡੇ ਨੇ ਫਲ ਖਾ ਲਿਆ' ਵਾਕ ਵਿਚ ਵਚਨ ਬਦਲੋ:-

Ans
1. ਮੁੰਡਿਆਂ ਨੇ ਫਲਾਂ ਨੂੰ ਖਾ ਲਿਆ
2. ਮੁੰਡਿਆਂ ਨੇ ਫਲ ਖਾਧਾ
3. ਮੁੰਡਿਆਂ ਨੇ ਫਲ ਖਾ ਲਏ
4. ਮੁੰਡੇ ਫਲ ਖਾ ਚੁਕੇ

Question ID : **630680248722**
Option 1 ID : **630680965034**
Option 2 ID : **630680965031**
Option 3 ID : **630680965032**
Option 4 ID : **630680965033**
Status : **Answered**
Chosen Option : **1**

Q.43 'Immortal' ਸ਼ਬਦ ਦਾ ਪੰਜਾਬੀ ਅਨੁਵਾਦ ਹੈ:-

Ans
1. ਸੰਵੇਦਨਸ਼ੀਲ
2. ਮਰਿਆ ਹੋਇਆ
3. ਮਰਜੀਵੜਾ
4. ਅਮਰ

Question ID : **630680248751**
Option 1 ID : **630680965149**
Option 2 ID : **630680965147**
Option 3 ID : **630680965148**
Option 4 ID : **630680965150**
Status : **Answered**
Chosen Option : **2**

Q.44 "ਜੂੰ" ਸ਼ਬਦ ਦਾ ਬਹੁਵਚਨ ਹੈ:-

Ans
1. ਜੂੰਹਾਂ
2. ਜੂਆਂ
3. ਜੂਏਂ
4. ਜੂਵਾਂ

Question ID : **630680248720**
Option 1 ID : **630680965024**
Option 2 ID : **630680965026**
Option 3 ID : **630680965023**
Option 4 ID : **630680965025**
Status : **Answered**
Chosen Option : **2**

Q.45 ਕਿਹੜਾ ਸ਼ਬਦ ਸ਼ੁੱਧ ਨਹੀਂ ਹੈ:-

Ans
1. ਜੇਲਮ
2. ਸ਼ਹਿਰ
3. ਡੂੰਘਾ
4. ਜਿਹਲਮ

Question ID : **630680248742**
Option 1 ID : **630680965111**
Option 2 ID : **630680965114**
Option 3 ID : **630680965113**
Option 4 ID : **630680965112**
Status : **Answered**
Chosen Option : **1**

Website - www.dailyjobalert.in

Q.46 'ਵਾਹ! ਕਿੰਨਾ ਮਨਮੋਹਕ ਨਜ਼ਾਰਾ ਹੈ।'ਵਾਕ ਹੈ:-

Ans
1. ਸਧਾਰਨ ਹਾਂਵਾਚਕ ਵਾਕ
2. ਸਧਾਰਨ ਵਿਸਮੇਵਾਚਕ ਵਾਕ
3. ਸਧਾਰਨ ਵਾਕ
4. ਸੰਯੁਕਤ ਵਿਸਮਕ ਵਾਕ

Question ID : **630680248736**
Option 1 ID : **630680965088**
Option 2 ID : **630680965090**
Option 3 ID : **630680965087**
Option 4 ID : **630680965089**
Status : **Answered**
Chosen Option : **4**

Q.47 ਕਿਹੜਾ ਸ਼ਬਦਜੋੜ ਸ਼ੁੱਧ ਹੈ:-

Ans
1. ਅਨਹੋਇਆ
2. ਅਨਹੋਈਆ
3. ਅਣਹੁਇਆ
4. ਅਣਹੋਇਆ

Question ID : **630680248741**
Option 1 ID : **630680965107**
Option 2 ID : **630680965109**
Option 3 ID : **630680965110**
Option 4 ID : **630680965108**
Status : **Answered**
Chosen Option : **4**

Q.48 "ਗਊ" ਸ਼ਬਦ ਦਾ ਬਹੁਵਚਨ ਹੈ:-

Ans
1. ਗਾਂ
2. ਗਊਆਂ
3. ਗਾਵਾਂ
4. ਗਊਏਂ

Question ID : **630680248721**
Option 1 ID : **630680965027**
Option 2 ID : **630680965029**
Option 3 ID : **630680965028**
Option 4 ID : **630680965030**
Status : **Answered**
Chosen Option : **3**

Q.49 ਹੇਠ ਲਿਖੇ ਸ਼ਬਦਾਂ ਵਿਚ ਕਿਹੜਾ 'ਸੁਰ' ਦਾ ਸਹੀ ਅਰਥ ਹੈ?

Ans
1. ਹੇਕ
2. ਸੂਰ
3. ਫਤਹਿ
4. ਧੁਨੀ

Question ID : **630680248745**
Option 1 ID : **630680965123**
Option 2 ID : **630680965126**
Option 3 ID : **630680965124**
Option 4 ID : **630680965125**
Status : **Answered**
Chosen Option : **4**

Website - www.dailyjobalert.in

Q.50 465 ਨੂੰ ਪੰਜਾਬੀ ਸ਼ਬਦਾਂ ਵਿਚ ਲਿਖਣ ਦਾ ਸਹੀ ਵਿਕਲਪ ਹੈ:-

Ans
1. ਚਾਰ ਸੌ ਪੈਂਟ
2. ਚਾਰ ਸੌ ਪੈਂਠ
3. ਚਾਰ ਸੋ ਪੈਂਠ
4. ਚਾਰ ਸੌ ਪੈਸਠ

Question ID : **630680248759**
Option 1 ID : **630680965179**
Option 2 ID : **630680965182**
Option 3 ID : **630680965181**
Option 4 ID : **630680965180**
Status : **Answered**
Chosen Option : **2**

DAILY JOB Alert ਪੰਜਾਬ

PUNJAB POLICE

Police to its last particle is duty

Exam Name	Recruitment for the post of Sub Inspector in Cadres of District and Armed Police 15th 31st July 2023 S3 Paper II and III
Application No	www.dailyjobalert.in
Roll No	Telegram - Daily Job Alert Punjab
Applicant Name	instagram - Daily Job Alert Punjab
Exam Date	31/07/2023
Shift	5:00 PM - 8:00 PM
Subject	Sub Inspector Paper II and III

Section : **Logical and Analytical Reasoning and Data Interpretation**

Q.1 In a certain code language, 'PAPER' is written as 'QCSIW', and 'CLOTH' is written as 'DNRXM'.How will 'LETTER' be written in that language?

Ans
✗ 1. MHWXJX
✗ 2. MGXXJX
✓ 3. MGWXJX
✗ 4. MGWWJX

Question ID : **63068057455**
Option 1 ID : **630680221663**
Option 2 ID : **630680221664**
Option 3 ID : **630680221662**
Option 4 ID : **630680221665**
Status : **Answered**
Chosen Option : **3**

Q.2 Select the alphanumeric-cluster from among the given options that can replace the question mark (?) in the following series.
J5I, H6K, F11M, D17O,?

Ans
✗ 1. A28R
✗ 2. B26Q
✗ 3. C26P
✓ 4. B28Q

Question ID : **630680131458**
Option 1 ID : **630680509080**
Option 2 ID : **630680509081**
Option 3 ID : **630680509079**
Option 4 ID : **630680509078**
Status : **Answered**
Chosen Option : **4**

Website - www.dailyjobalert.in

Q.3 In each of the following questions three statements are given and these statements are followed by three conclusions numbered (I), (II) and (III). You have to take the given three statements to be true even if they seem to be at variance from commonly known facts. Read the conclusions and then decide which of the given conclusions logically follows from the three given statements, disregarding commonly known facts.
Statements:
No guitar is piano.
No piano is drum.
Some drums are tabla.
Conclusions:
I: Some tabla can never be piano.
II: No drum is guitar.
III: Some piano can be tabla.

Ans
✗ 1. Only I follows
✗ 2. Only II and III follow
✓ 3. Only I and III follow
✗ 4. Only I and II follow

Question ID : **630680105921**
Option 1 ID : **630680411627**
Option 2 ID : **630680411630**
Option 3 ID : **630680411628**
Option 4 ID : **630680411629**
Status : **Answered**
Chosen Option : **3**

Q.4 In a certain code, 'ae bi cee' is related to 'Apple is blue', 'dik eff' is related to 'black orange', 'cee fut eff' is related to 'orange is flower'. What is 'Black flower' related to as per the same code?

Ans
✗ 1. eff cee
✗ 2. eff fut
✗ 3. dik eff
✓ 4. fut dik

Question ID : **630680104894**
Option 1 ID : **630680407708**
Option 2 ID : **630680407709**
Option 3 ID : **630680407707**
Option 4 ID : **630680407710**
Status : **Answered**
Chosen Option : **4**

Q.5 In a code language, 'TRUNK' is coded as RTNUN and 'BLAZE' is coded as LBZAH. How will 'QUOTH' be coded in the same language?

Ans
✗ 1. UQSPH
✗ 2. UPQOH
✗ 3. UPQST
✓ 4. UQTOK

Question ID : **630680147834**
Option 1 ID : **630680572051**
Option 2 ID : **630680572053**
Option 3 ID : **630680572050**
Option 4 ID : **630680572052**
Status : **Answered**
Chosen Option : **4**

Website - www.dailyjobalert.in

Q.6 Select the alpha-numeric term from among the given options that can replace the question mark (?) in the following series.
X2, A8, Y14, B20, Z26, ?

Ans
✗ 1. A32
✓ 2. C32
✗ 3. D32
✗ 4. C30

Question ID : **63068053436**
Option 1 ID : **630680205806**
Option 2 ID : **630680205807**
Option 3 ID : **630680205809**
Option 4 ID : **630680205808**
Status : **Answered**
Chosen Option : **2**

Q.7 A and B are younger than F.B and D are younger than A. E is the oldest. F is older than C. C is not the youngest. How many of these are younger than F?

Ans
✓ 1. Four
✗ 2. Two
✗ 3. Three
✗ 4. Five

Question ID : **630680118369**
Option 1 ID : **630680458612**
Option 2 ID : **630680458611**
Option 3 ID : **630680458610**
Option 4 ID : **630680458613**
Status : **Answered**
Chosen Option : **1**

Q.8 A group of numbers and symbols is coded using letter codes as per the codes given below and the conditions that follow. Study the given codes and conditions and answer the question that follows.

Numbers/symbols	%	8	2	$	9	3	&	7	@	6	*	5	#	4
Codes	Y	D	W	K	G	P	N	C	H	L	S	J	T	A

Conditions – (i)If the first element is a number and the last element a perfect square, the codes for these two (the first and last elements) are to be interchanged.
(ii)If both the second and third elements are symbols, the third element is to be coded as the code for the second element.
(iii)If the first element is a symbol and the fourth element is an odd number, the first and fourth elements are to be coded as ©.
What will be the code for the following group?
7 # $ 3 6

Ans
✗ 1. L T K P C
✓ 2. C T T P L
✗ 3. C K K P L
✗ 4. © T K © L

Question ID : **630680186805**
Option 1 ID : **630680724171**
Option 2 ID : **630680724170**
Option 3 ID : **630680724172**
Option 4 ID : **630680724169**
Status : **Answered**
Chosen Option : **2**

Website - www.dailyjobalert.in

Q.9 **Select the alphanumeric-cluster from among the given options that can replace the question mark (?) in the following series.**
AB1, FG3, MN5, ?

Ans
✔ 1. VW7
✘ 2. WX11
✘ 3. YZ11
✘ 4. UV7

Question ID : **63068048832**
Option 1 ID : **630680187874**
Option 2 ID : **630680187876**
Option 3 ID : **630680187877**
Option 4 ID : **630680187875**
Status : **Answered**
Chosen Option : **1**

Q.10 **Which of the following years will have the same calendar as that of year 2021?**

Ans
✘ 1. 2026
✘ 2. 2025
✔ 3. 2027
✘ 4. 2028

Question ID : **63068058560**
Option 1 ID : **630680225888**
Option 2 ID : **630680225886**
Option 3 ID : **630680225889**
Option 4 ID : **630680225887**
Status : **Answered**
Chosen Option : **3**

Q.11 **What should come in place of the question mark (?) in the given series in order to make it logically complete?**
VR24, UQ26, TP28, ?

Ans
✔ 1. SO30
✘ 2. HD30
✘ 3. OK30
✘ 4. NJ30

Question ID : **630680105867**
Option 1 ID : **630680411423**
Option 2 ID : **630680411425**
Option 3 ID : **630680411426**
Option 4 ID : **630680411424**
Status : **Answered**
Chosen Option : **1**

Website - www.dailyjobalert.in

Q.12 **CALIF is related to XAOIU in a certain way based on the English alphabetical order. In the same way, FIXED is related to UICEW. To which of the following is LAYER related, following the same logic?**

Ans
✗ 1. OACEI
✗ 2. OBBFI
✓ 3. OABEI
✗ 4. OAEEI

Question ID : **63068056951**
Option 1 ID : **630680219737**
Option 2 ID : **630680219734**
Option 3 ID : **630680219735**
Option 4 ID : **630680219736**
Status : **Answered**
Chosen Option : **3**

Q.13 **Which of the following numbers will replace the question mark (?) in the given series?**
12, 16, 13, 17, 14, 18, 15, ?

Ans
✗ 1. 17
✗ 2. 18
✗ 3. 20
✓ 4. 19

Question ID : **630680157529**
Option 1 ID : **630680609647**
Option 2 ID : **630680609646**
Option 3 ID : **630680609645**
Option 4 ID : **630680609644**
Status : **Answered**
Chosen Option : **4**

Q.14 **In the given letter-cluster, which letter is third to the left of the eighth letter from the left end?**

(Left) F H M R O J V X B D N P (Right)

Ans
✗ 1. H
✗ 2. V
✓ 3. O
✗ 4. B

Question ID : **630680172157**
Option 1 ID : **630680667066**
Option 2 ID : **630680667064**
Option 3 ID : **630680667067**
Option 4 ID : **630680667065**
Status : **Answered**
Chosen Option : **3**

Website - www.dailyjobalert.in

Q.15 I am a man. How is my mother-in-law's only daughter's mother-in-law related to me?

Ans
✗ 1. Daughter
✗ 2. Mother's sister
✓ 3. Mother
✗ 4. Sister

Question ID : **630680127262**
Option 1 ID : **630680493396**
Option 2 ID : **630680493393**
Option 3 ID : **630680493394**
Option 4 ID : **630680493395**
Status : **Answered**
Chosen Option : **3**

Q.16 Ranjan is facing the North. She walks 3 m, takes a left turn and walks 7 m. Again, she takes a left turn and walks 7 m. Again, she takes a left turn and walks 4 m. Finally, she takes a left turn and walks 4 m. In which direction is Ranjan from the starting point?

Ans
✓ 1. West
✗ 2. South
✗ 3. East
✗ 4. North

Question ID : **630680105850**
Option 1 ID : **630680411355**
Option 2 ID : **630680411356**
Option 3 ID : **630680411357**
Option 4 ID : **630680411358**
Status : **Answered**
Chosen Option : **3**

Q.17 What should come in place of the question mark (?) in the given series in order to make it logically complete?
B25D, F36H, J49L, N64P, ?

Ans
✗ 1. R72P
✗ 2. S72T
✗ 3. O81P
✓ 4. R81T

Question ID : **630680127175**
Option 1 ID : **630680493131**
Option 2 ID : **630680493132**
Option 3 ID : **630680493129**
Option 4 ID : **630680493130**
Status : **Answered**
Chosen Option : **4**

Website - www.dailyjobalert.in

Q.18 8 is related to 3 following a certain logic. Following the same logic, 12 is related to 5.
Which of the following numbers is related to 8 using the same logic?

Ans
✗ 1. 17
✓ 2. 18
✗ 3. 20
✗ 4. 15

Question ID : **63068063353**
Option 1 ID : **630680244579**
Option 2 ID : **630680244580**
Option 3 ID : **630680244581**
Option 4 ID : **630680244578**
Status : **Answered**
Chosen Option : **2**

Q.19 What should come in place of the question mark (?) in the given series?
11, 16, 23, 32, 43, ?

Ans
✗ 1. 53
✗ 2. 62
✓ 3. 56
✗ 4. 61

Question ID : **630680118158**
Option 1 ID : **630680457810**
Option 2 ID : **630680457811**
Option 3 ID : **630680457812**
Option 4 ID : **630680457813**
Status : **Answered**
Chosen Option : **3**

Q.20 A, B, C, D, E and F are 6 students who appeared for a Mathematics exam. C and D got exactly the same marks. F got the highest marks in the class. A and C got the least marks. B and E's marks was the median of the whole data.
Who got more marks than D?

Ans
✗ 1. A, E and F
✗ 2. D, E and F
✓ 3. B, E and F
✗ 4. C, E and F

Question ID : **63068078959**
Option 1 ID : **630680305875**
Option 2 ID : **630680305876**
Option 3 ID : **630680305873**
Option 4 ID : **630680305874**
Status : **Answered**
Chosen Option : **3**

Website - www.dailyjobalert.in

Q.21 **In the given letter-cluster, how many such consonants are there, each of which is immediately followed by a vowel?**

(Left) O B C F E H M R A Z X Y W (Right)

Ans
- ✗ 1. 1
- ✗ 2. 3
- ✓ 3. 2
- ✗ 4. 4

Question ID : **630680172161**
Option 1 ID : **630680667081**
Option 2 ID : **630680667082**
Option 3 ID : **630680667083**
Option 4 ID : **630680667080**
Status : **Answered**
Chosen Option : **3**

Q.22 **Select the option in which the letter-cluster pair share the same relationship as that shared by the given pair of letter-cluster.**
GOLY : TLOB

Ans
- ✗ 1. QHSC : ISHW
- ✗ 2. PNCR : KMXH
- ✓ 3. KBFD : PYUW
- ✗ 4. SKYE : EYKS

Question ID : **63068060334**
Option 1 ID : **630680232872**
Option 2 ID : **630680232873**
Option 3 ID : **630680232871**
Option 4 ID : **630680232870**
Status : **Answered**
Chosen Option : **1**

Q.23 **Select the option in which the numbers are related in the same way as are the numbers in the given triad.**
(25 : 5 : 5)

Ans
- ✗ 1. (36 : 4 : 6)
- ✗ 2. (12 : 3 : 3)
- ✓ 3. (36 : 3 : 12)
- ✗ 4. (12 : 4 : 6)

Question ID : **63068062252**
Option 1 ID : **630680240303**
Option 2 ID : **630680240304**
Option 3 ID : **630680240302**
Option 4 ID : **630680240305**
Status : **Answered**
Chosen Option : **3**

Website - www.dailyjobalert.in

Q.24 **Six letters A, B, C, D, E and F are written on different faces of a dice. Two positions of this dice are shown in the following figure. Find the letter on the face opposite to E.**

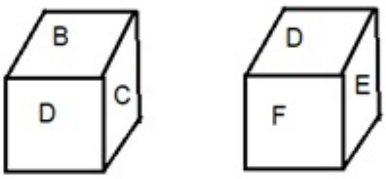

Ans
✗ 1. C
✓ 2. B
✗ 3. D
✗ 4. A

Question ID : **630680187301**
Option 1 ID : **630680726154**
Option 2 ID : **630680726156**
Option 3 ID : **630680726155**
Option 4 ID : **630680726153**
Status : **Answered**
Chosen Option : **2**

Q.25 **Select the option that is related to the fifth number in the same way as the fourth number is related to the third number and the second number is related to the first number.**
47 : 56 :: 58 : 80 :: 67 : ?

Ans
✓ 1. 84
✗ 2. 82
✗ 3. 90
✗ 4. 88

Question ID : **63068062314**
Option 1 ID : **630680240502**
Option 2 ID : **630680240504**
Option 3 ID : **630680240505**
Option 4 ID : **630680240503**
Status : **Answered**
Chosen Option : **1**

Q.26 In a row of people all facing north, Tina is 7th from the right end. Manju is 16th from the right end. Manju is exactly between Deepak and Tina. If Deepak is 10th from the left end of the row, then how many people in total are there in the row?

Ans
✓ 1. 34
✗ 2. 35
✗ 3. 36
✗ 4. 33

Question ID : **630680107012**
Option 1 ID : **630680415513**
Option 2 ID : **630680415514**
Option 3 ID : **630680415515**
Option 4 ID : **630680415512**
Status : **Answered**
Chosen Option : **1**

Website - www.dailyjobalert.in

Q.27 **Study the following pie-chart and answer the given question.**
The following pie chart depicts the number of sweaters purchased of four brands (P, Q, R and S), out of the total number of sweaters purchased (which is 240) of the four brands together.

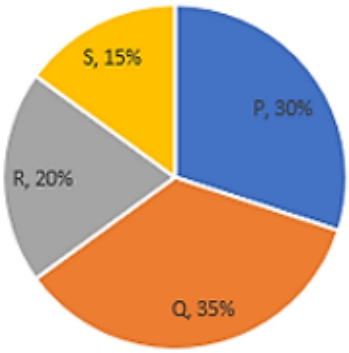

Out of the total number of sweaters purchased of brands Q, R and S together, three-fourth were merino wool sweaters. What is the total number of merino wool sweaters purchased of brands Q, R and S?

Ans
✔ 1. 126
✘ 2. 136
✘ 3. 120
✘ 4. 132

Question ID : **630680172680**
Option 1 ID : **630680669143**
Option 2 ID : **630680669142**
Option 3 ID : **630680669141**
Option 4 ID : **630680669140**
Status : **Answered**
Chosen Option : **1**

Q.28 **Three of the following four are alike in a certain way and thus form a group. Which is the one that does NOT belong to that group?**

Ans
✔ 1. TRP
✘ 2. YUW
✘ 3. MIK
✘ 4. FBD

Question ID : **630680108278**
Option 1 ID : **630680420145**
Option 2 ID : **630680420147**
Option 3 ID : **630680420146**
Option 4 ID : **630680420144**
Status : **Answered**
Chosen Option : **1**

Website - www.dailyjobalert.in

Q.29 **Four letter-clusters have been given, out of which three are alike in some manner and one is different. Select the one that is different.**

Ans
✗ 1. PRUZ
✗ 2. NPSX
✗ 3. EGJO
✓ 4. BDGM

Question ID : **630680105006**
Option 1 ID : **630680408136**
Option 2 ID : **630680408138**
Option 3 ID : **630680408135**
Option 4 ID : **630680408137**
Status : **Answered**
Chosen Option : **4**

Q.30 **A certain number of people are sitting in a row, facing the north. O sits second to the right of R. Only one person sits between K and Q. R sits second to the right of M. S sits to the immediate right of P. Only J sits between S and M. Only D sits between Q and P. If no other person is sitting in the row, then what is the total number of people seated?**

Ans
✓ 1. 12
✗ 2. 11
✗ 3. 10
✗ 4. 13

Question ID : **630680221094**
Option 1 ID : **630680858227**
Option 2 ID : **630680858226**
Option 3 ID : **630680858225**
Option 4 ID : **630680858228**
Status : **Answered**
Chosen Option : **1**

Q.31 **Salman walked for 80 m towards West. He took a left turn and walked for 60 m. He then took a right turn and walked for 40 m. He again took a right turn and walked for 60 m. How far was he from the starting point?**

Ans
✓ 1. 120 m
✗ 2. 100 m
✗ 3. 140 m
✗ 4. 60 m

Question ID : **630680172766**
Option 1 ID : **630680669466**
Option 2 ID : **630680669465**
Option 3 ID : **630680669467**
Option 4 ID : **630680669464**
Status : **Answered**
Chosen Option : **1**

Website - www.dailyjobalert.in

Q.32 **All 40 students in a class are standing in a straight line facing north. Deepa is 15th from the right end while Karthik is 20th from the left end. How many students stand between Deepa and Karthik?**

Ans
✗ 1. 6
✓ 2. 5
✗ 3. 8
✗ 4. 7

Question ID : **630680105155**
Option 1 ID : **630680408731**
Option 2 ID : **630680408732**
Option 3 ID : **630680408734**
Option 4 ID : **630680408733**
Status : **Answered**
Chosen Option : **2**

Q.33 **Three of the following four are alike in a certain way and thus form a group. Which is the one that does NOT belong to that group?**

Ans
✓ 1. UYX
✗ 2. JNL
✗ 3. BFD
✗ 4. PTR

Question ID : **630680108280**
Option 1 ID : **630680420155**
Option 2 ID : **630680420153**
Option 3 ID : **630680420152**
Option 4 ID : **630680420154**
Status : **Answered**
Chosen Option : **1**

Q.34 **Pointing to a boy in a photograph, Shefali said, "He is the son of the only child of my grandfather". How is Shefali related to the boy in the portrait?**

Ans
✓ 1. Sister
✗ 2. Mother's mother
✗ 3. Mother's sister
✗ 4. Mother

Question ID : **630680125625**
Option 1 ID : **630680487163**
Option 2 ID : **630680487165**
Option 3 ID : **630680487164**
Option 4 ID : **630680487162**
Status : **Answered**
Chosen Option : **1**

Website - www.dailyjobalert.in

Q.35 If 27 October 2011 was Thursday, then what was the day of the week on 23 September 2022?

Ans
✗ 1. Saturday
✗ 2. Wednesday
✗ 3. Sunday
✓ 4. Friday

Question ID : **630680159727**
Option 1 ID : **630680618368**
Option 2 ID : **630680618369**
Option 3 ID : **630680618371**
Option 4 ID : **630680618370**
Status : **Answered**
Chosen Option : **1**

Q.36 M, N, O, P, Q and R are students of class 9th who scored different marks in final exam. M scored less than O. Only N scored between M and O. Q scored less than R and more than O. P scored the minimum. How many students scored more than O?

Ans
✓ 1. 2
✗ 2. 1
✗ 3. 3
✗ 4. 4

Question ID : **630680105765**
Option 1 ID : **630680411066**
Option 2 ID : **630680411064**
Option 3 ID : **630680411065**
Option 4 ID : **630680411063**
Status : **Answered**
Chosen Option : **1**

Comprehension:

Read the given passage and answer the questions.
There are eight people, namely A, B, C, D, E, F, G and H sitting around a round-table for a conference on an ongoing pandemic situation.(from centre of the table north is upward and south is downward) Exactly eight chairs are available and each chair has a 2-yard distance from each of the other chairs. Below is the seating arrangement and answer the following question accordingly.
E is sitting in the North direction. A is sitting to the immediate right and F is sitting to the immediate left of E, respectively. D is facing exact North and towards his immediate right G and his immediate left H are sitting, respectively. C is sitting second left of D. B is sitting directly opposite to C across the table.

SubQuestion No : 37

Q.37 In which direction is B sitting?

Ans
✗ 1. West
✓ 2. East
✗ 3. North-West
✗ 4. North-East

Question ID : **630680109294**
Option 1 ID : **630680423943**
Option 2 ID : **630680423942**
Option 3 ID : **630680423941**
Option 4 ID : **630680423940**
Status : **Answered**
Chosen Option : **2**

Website - www.dailyjobalert.in

Comprehension:

Read the given passage and answer the questions.
There are eight people, namely A, B, C, D, E, F, G and H sitting around a round-table for a conference on an ongoing pandemic situation.(from centre of the table north is upward and south is downward) Exactly eight chairs are available and each chair has a 2-yard distance from each of the other chairs. Below is the seating arrangement and answer the following question accordingly.
E is sitting in the North direction. A is sitting to the immediate right and F is sitting to the immediate left of E, respectively. D is facing exact North and towards his immediate right G and his immediate left H are sitting, respectively. C is sitting second left of D. B is sitting directly opposite to C across the table.

SubQuestion No : 38

Q.38 In which direction is A sitting?

Ans
✔ 1. North-West
✘ 2. South-East
✘ 3. North-East
✘ 4. South-West

Question ID : **630680109295**
Option 1 ID : **630680423947**
Option 2 ID : **630680423945**
Option 3 ID : **630680423946**
Option 4 ID : **630680423944**
Status : **Answered**
Chosen Option : **3**

Comprehension:

Read the given passage and answer the questions.
Each of the boxes 1, 2, 3, 4, 5 and 6 will be delivered on a different day of a week, starting from Monday and ending on Saturday of the same week. Box 6 on Thursday. Only two boxes will be delivered between boxes 6 and 2. Box 4 will be delivered on Saturday. Box 5 will be delivered immediately before box 4. Box 1 will be delivered immediately after box 2.

SubQuestion No : 39

Q.39 How many boxes will be delivered after box 3?

Ans
✘ 1. Four
✔ 2. Three
✘ 3. Two
✘ 4. One

Question ID : **63068083587**
Option 1 ID : **630680324011**
Option 2 ID : **630680324010**
Option 3 ID : **630680324009**
Option 4 ID : **630680324008**
Status : **Answered**
Chosen Option : **2**

Website - www.dailyjobalert.in

Comprehension:

Read the given passage and answer the questions.
Each of the boxes 1, 2, 3, 4, 5 and 6 will be delivered on a different day of a week, starting from Monday and ending on Saturday of the same week. Box 6 on Thursday. Only two boxes will be delivered between boxes 6 and 2. Box 4 will be delivered on Saturday. Box 5 will be delivered immediately before box 4. Box 1 will be delivered immediately after box 2.

SubQuestion No : 40

Q.40 Which of the following boxes will be delivered on Wednesday?

Ans
✗ 1. Box 6
✗ 2. Box 5
✗ 3. Box 2
✓ 4. Box 3

Question ID : **63068083586**
Option 1 ID : **630680324007**
Option 2 ID : **630680324006**
Option 3 ID : **630680324005**
Option 4 ID : **630680324004**
Status : **Answered**
Chosen Option : **4**

Comprehension:

Study the following figure and answer the questions given .

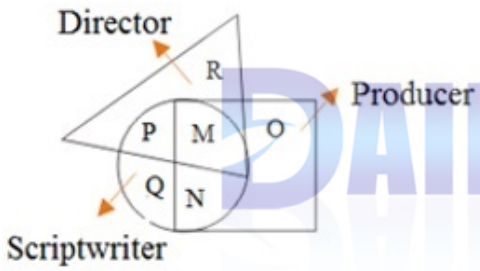

SubQuestion No : 41

Q.41 Who among the following are Directors who are Script writers but NOT producers?

Ans
✗ 1. Q
✗ 2. P+M
✗ 3. M
✓ 4. P

Question ID : **630680115297**
Option 1 ID : **630680446545**
Option 2 ID : **630680446544**
Option 3 ID : **630680446543**
Option 4 ID : **630680446542**
Status : **Answered**
Chosen Option : **4**

Website - www.dailyjobalert.in

Comprehension:

Study the following figure and answer the questions given .

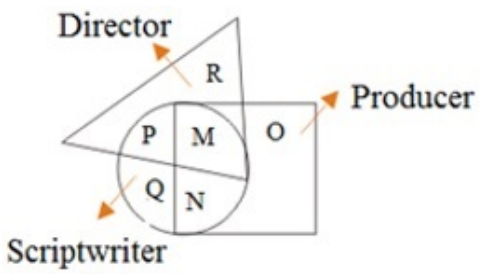

SubQuestion No : 42

Q.42 What does N represent?

Ans

✗ 1. Producers who are both Scriptwriters and Directors

✓ 2. Producers who are Scriptwriters but not Directors

✗ 3. Scriptwriters who are not Producers

✗ 4. Producers who are not Scriptwriters

Question ID : **630680115296**
Option 1 ID : **630680446540**
Option 2 ID : **630680446539**
Option 3 ID : **630680446541**
Option 4 ID : **630680446538**
Status : **Answered**
Chosen Option : **2**

Comprehension:

In a certain code,
'her beauty surreal' is coded as 'mu gh zt',
'beauty and beast' is coded as 'ep gh fk',
'the surreal beast' is coded as 'ao mu ep'.

SubQuestion No : 43

Q.43 What is the code for 'surreal'?

Ans

✗ 1. ao

✓ 2. mu

✗ 3. zt

✗ 4. gh

Question ID : **630680109068**
Option 1 ID : **630680423111**
Option 2 ID : **630680423109**
Option 3 ID : **630680423110**
Option 4 ID : **630680423108**
Status : **Answered**
Chosen Option : **2**

Website - www.dailyjobalert.in

Comprehension:

In a certain code,
'her beauty surreal' is coded as 'mu gh zt',
'beauty and beast' is coded as 'ep gh fk',
'the surreal beast' is coded as 'ao mu ep'.

SubQuestion No : 44

Q.44 What is the code for 'beast'?

Ans
✔ 1. Ep
✘ 2. gh
✘ 3. mu
✘ 4. fk

Question ID : **630680109067**
Option 1 ID : **630680423107**
Option 2 ID : **630680423104**
Option 3 ID : **630680423106**
Option 4 ID : **630680423105**
Status : **Answered**
Chosen Option : **1**

Comprehension:

The given table shows the number of different electronic equipment sold by an electronic showroom in different years.
Study the table and answer the following questions.

Year	ELECTRONIC EQUIPMENTS				
	Geyser	AC	Refrigerator	Washing Machine	Television
2010	120	183	287	105	277
2011	179	150	235	144	300
2012	135	219	256	156	236
2013	213	179	279	190	217
2014	278	253	226	205	345

SubQuestion No : 45

Q.45 What was the average number of washing machines sold by the showroom from the year 2010 to 2014?

Ans
✘ 1. 165
✘ 2. 162
✘ 3. 161
✔ 4. 160

Question ID : **630680110428**
Option 1 ID : **630680427985**
Option 2 ID : **630680427983**
Option 3 ID : **630680427986**
Option 4 ID : **630680427984**
Status : **Answered**
Chosen Option : **4**

Website - www.dailyjobalert.in

Comprehension:

The given table shows the number of different electronic equipment sold by an electronic showroom in different years.
Study the table and answer the following questions.

Year	ELECTRONIC EQUIPMENTS				
	Geyser	AC	Refrigerator	Washing Machine	Television
2010	120	183	287	105	277
2011	179	150	235	144	300
2012	135	219	256	156	236
2013	213	179	279	190	217
2014	278	253	226	205	345

SubQuestion No : 46

Q.46 What was the increase in the sale of refrigerators in the showroom from the year 2012 to 2013?

Ans
✔ 1. 23
✘ 2. 18
✘ 3. 20
✘ 4. 33

Question ID : **630680110429**
Option 1 ID : **630680427987**
Option 2 ID : **630680427989**
Option 3 ID : **630680427988**
Option 4 ID : **630680427990**
Status : **Answered**
Chosen Option : **1**

Comprehension:

The given table shows the number of vacancies released by the government in different years for different posts. Study the table and answer the following questions.

Year	POSTS			
	Patwar	Lower division clerk	Junior engineer	Lab Assistant
2016-17	500	1000	110	460
2017-18	650	1120	150	580
2018-19	675	1170	225	650
2019-20	700	1200	250	720
2020-21	850	1240	300	790

SubQuestion No : 47

Q.47 What is the percentage increase in the number of vacancies for the post of Lower division clerk from 2016-17 to 2020-21?

Ans
✘ 1. 20%
✘ 2. 29%
✔ 3. 24%
✘ 4. 30%

Question ID : **630680110455**
Option 1 ID : **630680428058**
Option 2 ID : **630680428055**
Option 3 ID : **630680428057**
Option 4 ID : **630680428056**
Status : **Answered**
Chosen Option : **3**

Website - www.dailyjobalert.in

Comprehension:

The given table shows the number of vacancies released by the government in different years for different posts. Study the table and answer the following questions.

Year	POSTS			
	Patwar	Lower division clerk	Junior engineer	Lab Assistant
2016-17	500	1000	110	460
2017-18	650	1120	150	580
2018-19	675	1170	225	650
2019-20	700	1200	250	720
2020-21	850	1240	300	790

SubQuestion No : 48

Q.48 If reservation for the O.B.C. category for the post of Patwar in 2020-21 is 18%, then what is the number of vacancies for the post of Patwar reserved for the O.B.C. category?

Ans

✔ 1. 153

✘ 2. 164

✘ 3. 149

✘ 4. 150

Question ID : **630680110456**
Option 1 ID : **630680428059**
Option 2 ID : **630680428061**
Option 3 ID : **630680428062**
Option 4 ID : **630680428060**
Status : **Answered**
Chosen Option : **1**

DAILY JOB Alert ਪੰਜਾਬ

Comprehension:

Read the given passage and answer the questions that follow.

Article 19(1)(a) of the Constitution of India states that, all citizens shall have the right to freedom. The philosophy behind this Article lies in the Preamble of the Constitution, where a solemn resolve is made to secure to all its citizen, liberty of thought and expression. The Right of Freedom of Speech and Expression implies that every citizen has the rights to express his views, opinions, belief, and convictions freely by mouth, writing, printing or through any other methods. The exercise of this right is, however, subject to reasonable restrictions for certain purposes being imposed under Article 19(2) of the Constitution of India. It can be restricted provided three distinct and independent prerequisites are satisfied.
i. The restriction shall have the power to enforce it by statute. Executive orders or administrative acts which lack the sanction of law cannot curb freedom of speech.
ii. The law shall fall firmly under one or more headings of the restriction provided for in Article 19(2). Restriction on freedom of speech cannot be enforced on such omnibus grounds as “in the general public's interest”, which is permissible in the case of constitutional freedoms such as commerce and business free.
iii. The restriction must be reasonable. It must not be excessive or disproportionate. The procedure and the manner of imposition of the restriction also must be just, fair, and reasonable.

SubQuestion No : 49

Q.49 Right to freedom is found in the Constitution of India in which of the following EXCEPT Article 19(1)?

Ans

✗ 1. Article 14

✓ 2. Preamble

✗ 3. Schedule III

✗ 4. Article 22

Question ID : **630680248149**
Option 1 ID : **630680962752**
Option 2 ID : **630680962751**
Option 3 ID : **630680962754**
Option 4 ID : **630680962753**
Status : **Answered**
Chosen Option : **2**

Website - www.dailyjobalert.in

Comprehension:

Read the given passage and answer the questions that follow.

Article 19(1)(a) of the Constitution of India states that, all citizens shall have the right to freedom. The philosophy behind this Article lies in the Preamble of the Constitution, where a solemn resolve is made to secure to all its citizen, liberty of thought and expression. The Right of Freedom of Speech and Expression implies that every citizen has the rights to express his views, opinions, belief, and convictions freely by mouth, writing, printing or through any other methods. The exercise of this right is, however, subject to reasonable restrictions for certain purposes being imposed under Article 19(2) of the Constitution of India. It can be restricted provided three distinct and independent prerequisites are satisfied.
i. The restriction shall have the power to enforce it by statute. Executive orders or administrative acts which lack the sanction of law cannot curb freedom of speech.
ii. The law shall fall firmly under one or more headings of the restriction provided for in Article 19(2). Restriction on freedom of speech cannot be enforced on such omnibus grounds as "in the general public's interest", which is permissible in the case of constitutional freedoms such as commerce and business free.
iii. The restriction must be reasonable. It must not be excessive or disproportionate. The procedure and the manner of imposition of the restriction also must be just, fair, and reasonable.

SubQuestion No : 50

Q.50 Which of the following is NOT a ground for restricting freedom of speech?

Ans
✗ 1. Restriction is backed by statute.
✓ 2. It need not be based on rule of reason.
✗ 3. On one of the grounds of 19(2) only.
✗ 4. It must be prudent.

Question ID : **630680248150**
Option 1 ID : **630680962755**
Option 2 ID : **630680962756**
Option 3 ID : **630680962757**
Option 4 ID : **630680962758**
Status : **Answered**
Chosen Option : **2**

Section : **Digital Literacy and Computer Awareness**

Q.51 Which of the following is NOT an example of a text alignment option in a word processing software?

Ans
✗ 1. Center
✗ 2. Justify
✓ 3. Underline
✗ 4. Right

Question ID : **630680248073**
Option 1 ID : **630680962499**
Option 2 ID : **630680962500**
Option 3 ID : **630680962502**
Option 4 ID : **630680962501**
Status : **Answered**
Chosen Option : **2**

Website - www.dailyjobalert.in

Q.52 Which of the following is a common business use of social media platforms?

Ans
✔ 1. Advertising products and services
✘ 2. Uploading financial data
✘ 3. Posting personal updates
✘ 4. Sharing memes and jokes

Question ID : **630680248089**
Option 1 ID : **630680962565**
Option 2 ID : **630680962566**
Option 3 ID : **630680962563**
Option 4 ID : **630680962564**
Status : **Answered**
Chosen Option : **1**

Q.53 What is a placeholder in PowerPoint?

Ans
✘ 1. A type of slide animation
✘ 2. A type of chart or graph
✘ 3. A type of transition
✔ 4. A pre-formatted container on a slide for content

Question ID : **630680248079**
Option 1 ID : **630680962523**
Option 2 ID : **630680962526**
Option 3 ID : **630680962525**
Option 4 ID : **630680962524**
Status : **Answered**
Chosen Option : **4**

Q.54 Which of the following is a common method of protecting against cybersecurity threats?

Ans
✘ 1. Clicking on unknown links and attachments
✘ 2. Downloading unknown files
✘ 3. Posting personal information online
✔ 4. Using a virtual private network (VPN)

Question ID : **630680248096**
Option 1 ID : **630680962593**
Option 2 ID : **630680962594**
Option 3 ID : **630680962591**
Option 4 ID : **630680962592**
Status : **Answered**
Chosen Option : **4**

Q.55 Which of the following is a necessary device for using VoIP communication?

Ans
✘ 1. A cable TV subscription
✔ 2. A computer or mobile device
✘ 3. A fax machine
✘ 4. A landline phone

Question ID : **630680248090**
Option 1 ID : **630680962570**
Option 2 ID : **630680962569**
Option 3 ID : **630680962568**
Option 4 ID : **630680962567**
Status : **Answered**
Chosen Option : **1**

Website - www.dailyjobalert.in

Q.56 A computer communication is defined as:

Ans
✗ 1. the process of typing a document in a word processor
✓ 2. the process of transferring data between computers
✗ 3. the process of connecting a printer to a computer
✗ 4. the process of copying files between different storage devices

Question ID : **630680248082**
Option 1 ID : **630680962538**
Option 2 ID : **630680962535**
Option 3 ID : **630680962536**
Option 4 ID : **630680962537**
Status : **Answered**
Chosen Option : **2**

Q.57 Which of the following is the purpose of a device driver in an operating system?

Ans
✓ 1. To manage hardware resources
✗ 2. To provide a user interface
✗ 3. To run application programs
✗ 4. To control access to files and folders

Question ID : **630680248072**
Option 1 ID : **630680962495**
Option 2 ID : **630680962496**
Option 3 ID : **630680962497**
Option 4 ID : **630680962498**
Status : **Answered**
Chosen Option : **3**

Q.58 Which of the following are Web browsers?

(i) Safari
(ii) Mozilla Firefox
(iii) ChatGPT

Ans
✗ 1. Only (i) and (iii)
✗ 2. (i), (ii) and (iii)
✗ 3. Only (ii) and (iii)
✓ 4. Only (i) and (ii)

Question ID : **630680248084**
Option 1 ID : **630680962544**
Option 2 ID : **630680962546**
Option 3 ID : **630680962545**
Option 4 ID : **630680962543**
Status : **Answered**
Chosen Option : **4**

DAILY JOB Alert ਪੰਜਾਬ

Q.59 Which of the following is an example of a command-line interface (CLI) in MS Windows?

Ans
- ✗ 1. Control Panel
- ✗ 2. Finder
- ✓ 3. Command Prompt
- ✗ 4. Windows Explorer

Question ID : **630680248071**
Option 1 ID : **630680962494**
Option 2 ID : **630680962492**
Option 3 ID : **630680962493**
Option 4 ID : **630680962491**
Status : **Answered**
Chosen Option : **2**

Q.60 Which of the following social media platforms is primarily used for live streaming and includes features like chat and emotes?

Ans
- ✗ 1. TikTok
- ✓ 2. Twitch
- ✗ 3. Twitter
- ✗ 4. LinkedIn

Question ID : **630680248088**
Option 1 ID : **630680962561**
Option 2 ID : **630680962559**
Option 3 ID : **630680962560**
Option 4 ID : **630680962562**
Status : **Answered**
Chosen Option : **1**

Q.61 Which of the following is a characteristic of a CPU?

Ans
- ✗ 1. It is responsible for displaying output on a computer.
- ✓ 2. It is responsible for processing data in a computer.
- ✗ 3. It is responsible for inputting data into a computer.
- ✗ 4. It is responsible for storing data in a computer.

Question ID : **630680248067**
Option 1 ID : **630680962476**
Option 2 ID : **630680962477**
Option 3 ID : **630680962478**
Option 4 ID : **630680962475**
Status : **Answered**
Chosen Option : **2**

Website - www.dailyjobalert.in

Q.62 Which of the following is a peripheral device in a computer system?

Ans
✔ 1. Mouse
✘ 2. CPU
✘ 3. Hard Disk Drive (HDD)
✘ 4. RAM

Question ID : **630680248068**
Option 1 ID : **630680962482**
Option 2 ID : **630680962479**
Option 3 ID : **630680962481**
Option 4 ID : **630680962480**
Status : **Answered**
Chosen Option : **4**

Q.63 In MS Excel, which of the following is/are used to perform calculations?

(i) Formulas
(ii) Functions
(iii) Data sorting

Ans
✔ 1. Only (i) and (ii)
✘ 2. (i), (ii) and (iii)
✘ 3. Only (i)
✘ 4. Only (ii)

Question ID : **630680248078**
Option 1 ID : **630680962521**
Option 2 ID : **630680962522**
Option 3 ID : **630680962519**
Option 4 ID : **630680962520**
Status : **Answered**
Chosen Option : **1**

Q.64 Which of the following is NOT a function of an operating system?

Ans
✘ 1. To run application programs
✘ 2. To manage hardware resources
✘ 3. To provide a user interface
✔ 4. To compile a high-level program

Question ID : **630680248070**
Option 1 ID : **630680962490**
Option 2 ID : **630680962487**
Option 3 ID : **630680962489**
Option 4 ID : **630680962488**
Status : **Answered**
Chosen Option : **2**

Website - www.dailyjobalert.in

Q.65 Which of the following social media platforms is primarily used for photo and video sharing and includes features like filters and stories?

Ans
✔ 1. Instagram
✘ 2. Facebook
✘ 3. LinkedIn
✘ 4. Snapchat

Question ID : **630680248087**
Option 1 ID : **630680962555**
Option 2 ID : **630680962558**
Option 3 ID : **630680962557**
Option 4 ID : **630680962556**
Status : **Answered**
Chosen Option : **1**

Q.66 Which of the following types of data CANNOT be entered into an Excel cell?

Ans
✘ 1. Date
✔ 2. Image
✘ 3. Text
✘ 4. Number

Question ID : **630680248076**
Option 1 ID : **630680962513**
Option 2 ID : **630680962514**
Option 3 ID : **630680962511**
Option 4 ID : **630680962512**
Status : **Answered**
Chosen Option : **2**

Q.67 What is the purpose of a table in a word processing document?

Ans
✘ 1. To create charts and graphs
✘ 2. To add images to the document
✔ 3. To organise information into rows and columns
✘ 4. To insert hyperlinks in the document

Question ID : **630680248075**
Option 1 ID : **630680962508**
Option 2 ID : **630680962507**
Option 3 ID : **630680962509**
Option 4 ID : **630680962510**
Status : **Answered**
Chosen Option : **1**

DAILY JOB Alert ਪੰਜਾਬ

Q.68 State whether the following statements are true or false.

(i) Press the Enter key to create a new paragraph in Microsoft Word.
(ii) Ctrl+E is used to centre align text in Microsoft Word.

Ans
✔ 1. (i) True, (ii) True
✘ 2. (i) False, (ii) False
✘ 3. (i) True, (ii) False
✘ 4. (i) False, (ii) True

Question ID : **630680248074**
Option 1 ID : **630680962503**
Option 2 ID : **630680962506**
Option 3 ID : **630680962504**
Option 4 ID : **630680962505**
Status : **Answered**
Chosen Option : **3**

Q.69 The process of indexing web contents to a search engine's database is called:

Ans
✘ 1. Meta search engine
✘ 2. Web mining
✘ 3. Search engine optimization (SEO)
✔ 4. Web crawler

Question ID : **630680248085**
Option 1 ID : **630680962548**
Option 2 ID : **630680962549**
Option 3 ID : **630680962547**
Option 4 ID : **630680962550**
Status : **Answered**
Chosen Option : **3**

Q.70 What are the advantages of using transitions in a presentation?

(i) Enhance presentation's appearance
(ii) Underline key points
(iii) Grab people's attention

Ans
✔ 1. (i), (ii) and (iii)
✘ 2. Only (i) and (iii)
✘ 3. Only (ii) and (iii)
✘ 4. Only (i) and (ii)

Question ID : **630680248081**
Option 1 ID : **630680962534**
Option 2 ID : **630680962532**
Option 3 ID : **630680962533**
Option 4 ID : **630680962531**
Status : **Answered**
Chosen Option : **2**

Website - www.dailyjobalert.in

Q.71 State whether the following statements are true or false.

(i) In Excel, a workbook is a collection of worksheets.
(ii) Ctrl+Shift+$ is used to format a cell as currency in Excel.

Ans
✗ 1. (i) False, (ii) True
✓ 2. (i) True, (ii) True
✗ 3. (i) True, (ii) False
✗ 4. (i) False, (ii) False

Question ID : **630680248077**
Option 1 ID : **630680962517**
Option 2 ID : **630680962515**
Option 3 ID : **630680962516**
Option 4 ID : **630680962518**
Status : **Not Answered**
Chosen Option : **--**

Q.72 Which of the following is a common method of data encryption?

Ans
✗ 1. Password protection
✗ 2. Two-factor authentication
✓ 3. AES encryption
✗ 4. One Time Password (OTP)

Question ID : **630680248095**
Option 1 ID : **630680962588**
Option 2 ID : **630680962589**
Option 3 ID : **630680962590**
Option 4 ID : **630680962587**
Status : **Answered**
Chosen Option : **1**

Q.73 What is virtual private networking (VPN)?

Ans
✓ 1. An encrypted connection over the Internet from a device to a network
✗ 2. A way of accessing financial services over the internet
✗ 3. A type of online gaming platform
✗ 4. A way of buying and selling goods and services over the internet

Question ID : **630680248083**
Option 1 ID : **630680962541**
Option 2 ID : **630680962539**
Option 3 ID : **630680962540**
Option 4 ID : **630680962542**
Status : **Answered**
Chosen Option : **1**

Website - www.dailyjobalert.in

Q.74 Which of the following are examples of system software?

(i) Microsoft Edge
(ii) Android
(iii) Java Compiler
(iv) Adobe Photoshop

Ans
✗ 1. Only (ii), (iii) and (iv)
✓ 2. Only (ii) and (iii)
✗ 3. Only (i) and (ii)
✗ 4. Only (iii) and (iv)

Question ID : **630680248069**
Option 1 ID : **630680962486**
Option 2 ID : **630680962484**
Option 3 ID : **630680962483**
Option 4 ID : **630680962485**
Status : **Answered**
Chosen Option : **2**

Q.75 Why is data encryption important?

Ans
✓ 1. To protect sensitive information from unauthorised access
✗ 2. To make data easier to access
✗ 3. To ensure data is backed up properly
✗ 4. To upload data faster

Question ID : **630680248094**
Option 1 ID : **630680962583**
Option 2 ID : **630680962585**
Option 3 ID : **630680962584**
Option 4 ID : **630680962586**
Status : **Answered**
Chosen Option : **1**

Q.76 Which of the following are examples of VoIP communication services?

(i) Skype
(ii) Netflix
(iii) Amazon Prime Video
(iv) Nextiva

Ans
✗ 1. Only (ii) and (iii)
✓ 2. Only (i) and (iv)
✗ 3. Only (i) and (iii)
✗ 4. Only (ii) and (iv)

Question ID : **630680248091**
Option 1 ID : **630680962573**
Option 2 ID : **630680962572**
Option 3 ID : **630680962571**
Option 4 ID : **630680962574**
Status : **Answered**
Chosen Option : **1**

DAILY JOB Alert

Q.77 Which of the following are potential disadvantages of using instant messaging (IM)?

(i) Overwhelming message notifications
(ii) Limited message length
(iii) Higher costs

Ans
✔ 1. Only (i) and (ii)
✘ 2. Only (ii) and (iii)
✘ 3. (i), (ii) and (iii)
✘ 4. Only (i) and (iii)

Question ID : **630680248093**
Option 1 ID : **630680962579**
Option 2 ID : **630680962581**
Option 3 ID : **630680962582**
Option 4 ID : **630680962580**
Status : **Answered**
Chosen Option : **3**

Q.78 What is instant messaging (IM)?

Ans
✔ 1. A way of sending messages in real-time via an online messaging platform
✘ 2. A way of sending messages by a carrier pigeon
✘ 3. A way of sending messages via social media
✘ 4. A way of sending messages via traditional mail

Question ID : **630680248092**
Option 1 ID : **630680962577**
Option 2 ID : **630680962575**
Option 3 ID : **630680962576**
Option 4 ID : **630680962578**
Status : **Answered**
Chosen Option : **1**

Q.79 Which of the following statements about PowerPoint view is/are correct?

(i) Slide Sorter view displays all the slides in your presentation in horizontally sequenced thumbnails.
(ii) Use Outline view to create an outline or story board for your presentation.
(iii) The key benefit to working in Master view is that it allows you to view your notes while delivering your presentation.

Ans
✔ 1. Only (i) and (ii)
✘ 2. (i), (ii) and (iii)
✘ 3. Only (ii) and (iii)
✘ 4. Only (i) and (iii)

Question ID : **630680248080**
Option 1 ID : **630680962527**
Option 2 ID : **630680962530**
Option 3 ID : **630680962529**
Option 4 ID : **630680962528**
Status : **Not Answered**
Chosen Option : **--**

DAILY JOB Alert ਪੰਜਾਬ

Q.80 What is the purpose of a bookmark in a web browser?

Ans
✔ 1. To save a website's URL for easy access later
✘ 2. To customise the appearance of a website
✘ 3. To create a backup copy of a website's content
✘ 4. To block pop-up ads on a website

Question ID : **630680248086**
Option 1 ID : **630680962551**
Option 2 ID : **630680962553**
Option 3 ID : **630680962554**
Option 4 ID : **630680962552**
Status : **Answered**
Chosen Option : **1**

Section : **English Language**

Q.81 Parts of a sentence are given below in jumbled order. Arrange the parts in the correct order to form a meaningful sentence.
A.the children
B.technology based
C.of today are
D.with the latest
E.well versed
F.gadgets

Ans
✘ 1. A, C, B, D, E, F
✔ 2. A, C, E, D, B, F
✘ 3. A, C, D, E, B, F
✘ 4. A, D, C, E, B, F

Question ID : **630680113200**
Option 1 ID : **630680438364**
Option 2 ID : **630680438362**
Option 3 ID : **630680438365**
Option 4 ID : **630680438363**
Status : **Answered**
Chosen Option : **2**

Q.82 Select the most appropriate word OPPOSITE in meaning to the italicised word to fill in the blank.
Ram is very bold but his younger brother is too _____ to raise his voice.

Ans
✘ 1. fragile
✔ 2. timid
✘ 3. cruel
✘ 4. arrogant

Question ID : **630680170359**
Option 1 ID : **630680660029**
Option 2 ID : **630680660030**
Option 3 ID : **630680660032**
Option 4 ID : **630680660031**
Status : **Answered**
Chosen Option : **2**

Website - www.dailyjobalert.in

Q.83 Select the most appropriate option to fill in the blank.

Few of my envious friends _____ did wrong to me.

Ans
✔ 1. deliberately
✘ 2. gently
✘ 3. scarcely
✘ 4. vividly

Question ID : **630680121890**
Option 1 ID : **630680472504**
Option 2 ID : **630680472503**
Option 3 ID : **630680472502**
Option 4 ID : **630680472505**
Status : **Answered**
Chosen Option : **1**

Q.84 Select the most appropriate ANTONYM of the underlined word to fill in the blank.
She is always alert but her brother is very _____ .

Ans
✘ 1. arrogant
✘ 2. humble
✘ 3. inert
✔ 4. careless

Question ID : **630680167048**
Option 1 ID : **630680647054**
Option 2 ID : **630680647055**
Option 3 ID : **630680647053**
Option 4 ID : **630680647052**
Status : **Answered**
Chosen Option : **4**

Q.85 Identify the adjective in the given sentence.
My uncle lives in the next house.

Ans
✘ 1. Uncle
✔ 2. Next
✘ 3. House
✘ 4. Lives

Question ID : **630680167244**
Option 1 ID : **630680647748**
Option 2 ID : **630680647750**
Option 3 ID : **630680647751**
Option 4 ID : **630680647749**
Status : **Answered**
Chosen Option : **2**

Website - www.dailyjobalert.in

Q.86 Select the most appropriate option to fill in the blank.

An apple a day, keeps _____ doctor away.

Ans
✗ 1. an
✗ 2. a
✓ 3. the
✗ 4. this

Question ID : **63068068183**
Option 1 ID : **630680263448**
Option 2 ID : **630680263447**
Option 3 ID : **630680263446**
Option 4 ID : **630680263449**
Status : **Answered**
Chosen Option : **3**

Q.87 Select the option that can be used as a one-word substitute for the given group of words.

It is something, generally money, which is given to someone in recognition of loss or injury.

Ans
✓ 1. Compensation
✗ 2. Escalation
✗ 3. Defamation
✗ 4. Extortion

Question ID : **630680129757**
Option 1 ID : **630680502629**
Option 2 ID : **630680502626**
Option 3 ID : **630680502627**
Option 4 ID : **630680502628**
Status : **Answered**
Chosen Option : **1**

Q.88 Select the option that can be used as a one-word substitute for the given group of words.

The study of rock and soil

Ans
✗ 1. Botany
✗ 2. Geography
✗ 3. Astronomy
✓ 4. Geology

Question ID : **630680129645**
Option 1 ID : **630680502188**
Option 2 ID : **630680502186**
Option 3 ID : **630680502189**
Option 4 ID : **630680502187**
Status : **Answered**
Chosen Option : **4**

Website - www.dailyjobalert.in

Q.89 **Parts of a sentence are given below in jumbled order. Arrange the parts in the correct order to form a meaningful sentence.**
A.through thick and thin
B.since childhood
C.have been together
D.are inseparable and
E. these three friends

Ans
✗ 1. A, E, B, D, C
✗ 2. C, D, A, E, B
✓ 3. E, D, C, B, A
✗ 4. B, A, C, D, E

Question ID : **630680113204**
Option 1 ID : **630680438379**
Option 2 ID : **630680438380**
Option 3 ID : **630680438378**
Option 4 ID : **630680438381**
Status : **Answered**
Chosen Option : **3**

Q.90 **Select the most appropriate ANTONYM of the underlined word.**

Narcotics is one of several <u>shady</u> businesses that the group indulges in.

Ans
✗ 1. Sunless
✗ 2. Superior
✗ 3. Shifty
✓ 4. Reputable

Question ID : **630680124997**
Option 1 ID : **630680484792**
Option 2 ID : **630680484790**
Option 3 ID : **630680484791**
Option 4 ID : **630680484793**
Status : **Answered**
Chosen Option : **4**

Q.91 **Select the sentence with the most appropriate use of preposition.**

Ans
✗ 1. We were looking into the documents that were hidden in a safe.
✗ 2. We were looking to the documents that were hidden in a safe.
✗ 3. We were looking over the documents that were hidden in a safe.
✓ 4. We were looking for the documents that were hidden in a safe.

Question ID : **630680132481**
Option 1 ID : **630680513058**
Option 2 ID : **630680513059**
Option 3 ID : **630680513061**
Option 4 ID : **630680513060**
Status : **Answered**
Chosen Option : **4**

Website - www.dailyjobalert.in

Q.92 Select the most appropriate ANTONYM of the given word.

Repulsive

Ans
- ✗ 1. Infinitive
- ✗ 2. Divisive
- ✓ 3. Attractive
- ✗ 4. Cognitive

Question ID : **630680129564**
Option 1 ID : **630680501876**
Option 2 ID : **630680501875**
Option 3 ID : **630680501877**
Option 4 ID : **630680501874**
Status : **Answered**
Chosen Option : **3**

Q.93 Select the most appropriate prepositions to fill in the blanks.
To get to the Electrical Department, you have to go _____ those stairs and then _____ the left side of the corridor.

Ans
- ✗ 1. through, over
- ✓ 2. up, along
- ✗ 3. towards, from
- ✗ 4. up, into

Question ID : **630680166988**
Option 1 ID : **630680646815**
Option 2 ID : **630680646813**
Option 3 ID : **630680646812**
Option 4 ID : **630680646814**
Status : **Answered**
Chosen Option : **1**

Q.94 Identity the spelling error in the given sentence.

We should follow the prescription of doctors as they belong to one of the most indispensible sections of society that takes care of us.

Ans
- ✓ 1. indispensible
- ✗ 2. society
- ✗ 3. prescription
- ✗ 4. follow

Question ID : **630680104673**
Option 1 ID : **630680406839**
Option 2 ID : **630680406841**
Option 3 ID : **630680406840**
Option 4 ID : **630680406842**
Status : **Answered**
Chosen Option : **1**

Website - www.dailyjobalert.in

Q.95 "ਅੱਜ ਅਦਾਲਤ ਸਮਲਿੰਗੀ ਵਿਆਹ ਦੇ ਮੁਕੱਦਮੇ ਬਾਰੇ ਫੈਸਲਾ ਸੁਣਾਏਗੀ।" ਇਸ ਵਾਕ ਦਾ ਅੰਗਰੇਜ਼ੀ ਅਨੁਵਾਦ ਹੈ:-

Ans
1. Today the court will pronounce judgment on double sex marriage case.
2. Today the court will announce judgment on same-sex marriage case.
3. Today the court will pronounce judgment on homosexual marriage case.
4. Today the court will pronounce judgment on same-sexual marriage case.

Question ID : **630680248109**
Option 1 ID : **630680962646**
Option 2 ID : **630680962645**
Option 3 ID : **630680962643**
Option 4 ID : **630680962644**
Status : **Answered**
Chosen Option : **4**

Comprehension:

Read the given passage and answer the questions that follow.
It has been the tradition of our country that man is not measured merely in terms of money, and this is particularly true of scholars who impart education to others. In ancient times, a student used to live with his teacher or the Acharya and, just like the latter's own children, became a member of the family.
The Guru had to bear the entire burden of maintaining the pupil and in lieu of fees, the pupil would gather wood from the forests or take the cows for grazing. Till comparatively recent times, it used to be considered improper to charge any fees for imparting education. But times have now changed.
India cannot keep herself isolated from the rest of the world. Not only cotton, wheat, and maize but everything else of value is measured in terms of money. We should neither feel surprised nor should we blame anyone of those who have adopted the educational profession as a career, also measure their worth in terms of money.
Such a development was inevitable, for, when social recognition is based on money, teachers could not but fail to come under its influence. Teachers have, therefore, begun to make demands for more money. Previously, the students used to discharge their obligations towards their teacher by serving him while they were his students and later, when they had completed their education and entered family life, by imparting education to others.

SubQuestion No : 96

Q.96 Select the most apt title for the passage.

Ans
1. Obligations of the Students towards their Teachers
2. Changing Role of Students and Teachers due to Development
3. Social Recognition
4. Educational Profession as a Career

Question ID : **630680181973**
Option 1 ID : **630680705114**
Option 2 ID : **630680705117**
Option 3 ID : **630680705115**
Option 4 ID : **630680705116**
Status : **Answered**
Chosen Option : **4**

Website - www.dailyjobalert.in

Comprehension:

Read the given passage and answer the questions that follow.
It has been the tradition of our country that man is not measured merely in terms of money, and this is particularly true of scholars who impart education to others. In ancient times, a student used to live with his teacher or the Acharya and, just like the latter's own children, became a member of the family.
The Guru had to bear the entire burden of maintaining the pupil and in lieu of fees, the pupil would gather wood from the forests or take the cows for grazing. Till comparatively recent times, it used to be considered improper to charge any fees for imparting education. But times have now changed.
India cannot keep herself isolated from the rest of the world. Not only cotton, wheat, and maize but everything else of value is measured in terms of money. We should neither feel surprised nor should we blame anyone of those who have adopted the educational profession as a career, also measure their worth in terms of money.
Such a development was inevitable, for, when social recognition is based on money, teachers could not but fail to come under its influence. Teachers have, therefore, begun to make demands for more money. Previously, the students used to discharge their obligations towards their teacher by serving him while they were his students and later, when they had completed their education and entered family life, by imparting education to others.

SubQuestion No : 97

Q.97 According to the passage, why have teachers started demanding more money?

Ans

✔ 1. Because social recognition is now based on money

✘ 2. Because teachers now really work hard for their students

✘ 3. Because now the students are not supposed to do household chores for their gurus

✘ 4. Because needs have increased now

Question ID : **630680181975**
Option 1 ID : **630680705123**
Option 2 ID : **630680705125**
Option 3 ID : **630680705124**
Option 4 ID : **630680705122**
Status : **Answered**
Chosen Option : **1**

DAILY JOB Alert ਪੰਜਾਬ

Comprehension:

Read the given passage and answer the questions that follow.
It has been the tradition of our country that man is not measured merely in terms of money, and this is particularly true of scholars who impart education to others. In ancient times, a student used to live with his teacher or the Acharya and, just like the latter's own children, became a member of the family.
The Guru had to bear the entire burden of maintaining the pupil and in lieu of fees, the pupil would gather wood from the forests or take the cows for grazing. Till comparatively recent times, it used to be considered improper to charge any fees for imparting education. But times have now changed.
India cannot keep herself isolated from the rest of the world. Not only cotton, wheat, and maize but everything else of value is measured in terms of money. We should neither feel surprised nor should we blame anyone of those who have adopted the educational profession as a career, also measure their worth in terms of money.
Such a development was inevitable, for, when social recognition is based on money, teachers could not but fail to come under its influence. Teachers have, therefore, begun to make demands for more money. Previously, the students used to discharge their obligations towards their teacher by serving him while they were his students and later, when they had completed their education and entered family life, by imparting education to others.

SubQuestion No : 98

Q.98 Select the option that can be used as a one-word substitute for the given group of words.
A heavy load

Ans
✔ 1. Burden
✘ 2. Impart
✘ 3. Blame
✘ 4. Inevitable

Question ID : **630680181971**
Option 1 ID : **630680705107**
Option 2 ID : **630680705109**
Option 3 ID : **630680705108**
Option 4 ID : **630680705106**
Status : **Answered**
Chosen Option : **1**

Website - www.dailyjobalert.in

Comprehension:

Read the given passage and answer the questions that follow.
It has been the tradition of our country that man is not measured merely in terms of money, and this is particularly true of scholars who impart education to others. In ancient times, a student used to live with his teacher or the Acharya and, just like the latter's own children, became a member of the family.
The Guru had to bear the entire burden of maintaining the pupil and in lieu of fees, the pupil would gather wood from the forests or take the cows for grazing. Till comparatively recent times, it used to be considered improper to charge any fees for imparting education. But times have now changed.
India cannot keep herself isolated from the rest of the world. Not only cotton, wheat, and maize but everything else of value is measured in terms of money. We should neither feel surprised nor should we blame anyone of those who have adopted the educational profession as a career, also measure their worth in terms of money.
Such a development was inevitable, for, when social recognition is based on money, teachers could not but fail to come under its influence. Teachers have, therefore, begun to make demands for more money. Previously, the students used to discharge their obligations towards their teacher by serving him while they were his students and later, when they had completed their education and entered family life, by imparting education to others.

SubQuestion No : 99

Q.99 Select the most appropriate ANTONYM of the given word.
Obligation

Ans
✔ 1. Unaccountable
✘ 2. Constraint
✘ 3. Burden
✘ 4. Commitment

Question ID : **630680181972**
Option 1 ID : **630680705113**
Option 2 ID : **630680705112**
Option 3 ID : **630680705110**
Option 4 ID : **630680705111**
Status : **Answered**
Chosen Option : **1**

DAILY JOB Alert ਪੰਜਾਬ

Comprehension:

Read the given passage and answer the questions that follow.
It has been the tradition of our country that man is not measured merely in terms of money, and this is particularly true of scholars who impart education to others. In ancient times, a student used to live with his teacher or the Acharya and, just like the latter's own children, became a member of the family.
The Guru had to bear the entire burden of maintaining the pupil and in lieu of fees, the pupil would gather wood from the forests or take the cows for grazing. Till comparatively recent times, it used to be considered improper to charge any fees for imparting education. But times have now changed.
India cannot keep herself isolated from the rest of the world. Not only cotton, wheat, and maize but everything else of value is measured in terms of money. We should neither feel surprised nor should we blame anyone of those who have adopted the educational profession as a career, also measure their worth in terms of money.
Such a development was inevitable, for, when social recognition is based on money, teachers could not but fail to come under its influence. Teachers have, therefore, begun to make demands for more money. Previously, the students used to discharge their obligations towards their teacher by serving him while they were his students and later, when they had completed their education and entered family life, by imparting education to others.

SubQuestion No : 100

Q.100 According to the passage, which of the following is NOT correct?

Ans
✗ 1. The students would take the cows for grazing.
✗ 2. The students would gather wood from the forests for their gurus.
✓ 3. The students would pay formal fees to their Gurus in ancient times.
✗ 4. The students used to discharge their obligations towards their teacher.

Question ID : **630680181974**
Option 1 ID : **630680705121**
Option 2 ID : **630680705120**
Option 3 ID : **630680705118**
Option 4 ID : **630680705119**
Status : **Answered**
Chosen Option : **3**

Section : **Qualifying Test of Punjabi Language**

Q.1 ਨਿਮਨ ਲਿਖਤ ਵਿਚ ਕਿਹੜਾ ਵਾਕ ਅਸ਼ੁੱਧ ਹੈ:-

Ans
✗ 1. ਸੂਲਾਂ ਉਗੀਆਂ ਦੇ ਮੂੰਹ ਤਿੱਖੇ ਹੁੰਦੇ ਹਨ।
✗ 2. ਅੱਗਾ ਦੌੜ ਤੇ ਪਿਛਾ ਚੌੜ।
✗ 3. ਉਚੀ ਦੁਕਾਨ ਤੇ ਫਿੱਕਾ ਪਕਵਾਨ।
✓ 4. ਮੈਂ ਦੇਣਾ ਤੁਹਾਡਾ ਕਦੇ ਨਹੀਂ ਦੇ ਸਕਦਾ।

Question ID : **630680248792**
Option 1 ID : **630680965313**
Option 2 ID : **630680965311**
Option 3 ID : **630680965314**
Option 4 ID : **630680965312**
Status : **Answered**
Chosen Option : **4**

Website - www.dailyjobalert.in

Q.2 'Discourse' ਸ਼ਬਦ ਦਾ ਪੰਜਾਬੀ ਅਨੁਵਾਦ ਹੈ:-

Ans
✗ 1. ਬਦਤਮੀਜ਼
✗ 2. ਪ੍ਰਤੀਬਧ
✗ 3. ਤਾਰਕਿਕ
✓ 4. ਪ੍ਰਵਚਨ

Question ID : **630680248803**
Option 1 ID : **630680965357**
Option 2 ID : **630680965358**
Option 3 ID : **630680965355**
Option 4 ID : **630680965356**
Status : **Answered**
Chosen Option : **3**

Q.3 ਸਧਾਰਨ ਵਾਕ ਦੇ ਅੰਤ ਵਿਚ ਕਿਹੜਾ ਵਿਸ਼ਰਾਮ ਚਿੰਨ੍ਹ ਲਗਦਾ ਹੈ?

Ans
✓ 1. ਡੰਡੀ
✗ 2. ਪੁੱਠਾ ਕਾਮਾ
✗ 3. ਦੁਬਿੰਦੀ
✗ 4. ਡੈਸ਼ ਤੇ ਡੰਡੀ

Question ID : **630680248801**
Option 1 ID : **630680965347**
Option 2 ID : **630680965349**
Option 3 ID : **630680965348**
Option 4 ID : **630680965350**
Status : **Answered**
Chosen Option : **1**

Q.4 ਹੇਠ ਲਿਖਿਆਂ ਵਿਚ ਕਿਹੜਾ ਸ਼ਬਦ "ਚਿੰਤਾਤੁਰ" ਦਾ ਸਮਾਨਾਰਥਕ ਨਹੀਂ ਹੈ:-

Ans
✗ 1. ਪ੍ਰੇਸ਼ਾਨ
✗ 2. ਫਿਕਰਮੰਦ
✓ 3. ਕੈੜਾ
✗ 4. ਉਦਾਸ

Question ID : **630680248764**
Option 1 ID : **630680965200**
Option 2 ID : **630680965199**
Option 3 ID : **630680965202**
Option 4 ID : **630680965201**
Status : **Answered**
Chosen Option : **3**

Q.5 ਹੇਠ ਲਿਖਿਆਂ ਵਿਚ ਕਿਹੜੇ ਵਾਕ ਵਿਚ ਸਹੀ ਵਿਸ਼ਰਾਮ ਚਿੰਨ੍ਹ ਲੱਗੇ ਹਨ?

Ans
✗ 1. ਦੁੱਖ-ਸੁੱਖ, ਭਲਾ-ਬੁਰਾ, ਚੰਗਾ-ਮੰਦਾ- ਮਨੁੱਖ ਦੇ ਆਪਣੇ ਹੱਥ ਵਿਚ ਨਹੀਂ ਹੈ।
✗ 2. ਦੁੱਖ-ਸੁੱਖ, ਭਲਾ-ਬੁਰਾ, ਚੰਗਾ-ਮੰਦਾ ਮਨੁੱਖ ਦੇ ਆਪਣੇ ਹੱਥ ਵਿਚ ਨਹੀਂ ਹੈ।
✓ 3. ਦੁੱਖ-ਸੁੱਖ, ਭਲਾ-ਬੁਰਾ, ਚੰਗਾ-ਮੰਦਾ, ਮਨੁੱਖ ਦੇ ਆਪਣੇ ਹੱਥ ਵਿਚ ਨਹੀਂ ਹੈ।
✗ 4. ਦੁੱਖ,ਸੁੱਖ, ਭਲਾ,ਬੁਰਾ, ਚੰਗਾ,ਮੰਦਾ ਮਨੁੱਖ ਦੇ ਆਪਣੇ ਹੱਥ ਵਿਚ ਨਹੀਂ ਹੈ।

Question ID : **630680248799**
Option 1 ID : **630680965340**
Option 2 ID : **630680965339**
Option 3 ID : **630680965341**
Option 4 ID : **630680965342**
Status : **Answered**
Chosen Option : **2**

DAILY JOB Alert ਪੰਜਾਬ
Website - www.dailyjobalert.in

Q.6 'ਬਾਰੀ" ਸ਼ਬਦ ਦਾ ਪੁਲਿੰਗ ਹੈ:-

Ans
✗ 1. ਖਿੜਕੀ
✗ 2. ਬਾਰੀਆਂ
✗ 3. ਦਰਵਾਜ਼ਾ
✓ 4. ਬਾਰ

Question ID : **630680248776**
Option 1 ID : **630680965249**
Option 2 ID : **630680965247**
Option 3 ID : **630680965250**
Option 4 ID : **630680965248**
Status : **Answered**
Chosen Option : **2**

Q.7 ਅੰਗਰੇਜ਼ੀ ਦੇ 5ਵੇਂ ਮਹੀਨੇ ਨੂੰ ਪੰਜਾਬੀ ਵਿਚ ਕਹਿੰਦੇ ਹਨ:-

Ans
✗ 1. ਅਗਸਤ
✓ 2. ਮਈ
✗ 3. ਅਪ੍ਰੈਲ
✗ 4. ਜੂਨ

Question ID : **630680248807**
Option 1 ID : **630680965371**
Option 2 ID : **630680965372**
Option 3 ID : **630680965373**
Option 4 ID : **630680965374**
Status : **Answered**
Chosen Option : **2**

Q.8 8432 ਨੂੰ ਪੰਜਾਬੀ ਸ਼ਬਦਾਂ ਵਿਚ ਲਿਖਣ ਦਾ ਸਹੀ ਵਿਕਲਪ ਹੈ:-

Ans
✗ 1. ਚੌਰਾਸੀ ਸੌ ਬੱਤੀਸ
✗ 2. ਅਠ ਹਜਾਰ ਚਾਰ ਸੌ ਬੱਤੀਸ
✗ 3. ਚੁਰਾਸੀ ਸੌ ਬੱਤੀ
✓ 4. ਅਠ ਹਜ਼ਾਰ ਚਾਰ ਸੌ ਬੱਤੀ

Question ID : **630680248809**
Option 1 ID : **630680965382**
Option 2 ID : **630680965380**
Option 3 ID : **630680965379**
Option 4 ID : **630680965381**
Status : **Answered**
Chosen Option : **3**

Q.9 "ਜਿਸ ਨੂੰ ਕਿਸੇ ਚੀਜ਼ ਦਾ ਤਜਰਬਾ ਨਾ ਹੋਵੇ" ਲਈ ਕੋਈ ਇਕ ਸ਼ਬਦ ਚੁਣੋ:-

Ans
✗ 1. ਤਜਰਬਾਤੀ
✗ 2. ਨਿਕਰਮਾ
✓ 3. ਅਨਾੜੀ
✗ 4. ਅਸਿਖਿਅਕ

Question ID : **630680248766**
Option 1 ID : **630680965210**
Option 2 ID : **630680965208**
Option 3 ID : **630680965209**
Option 4 ID : **630680965207**
Status : **Answered**
Chosen Option : **4**

Website - www.dailyjobalert.in

Q.10 ਹੇਠ ਲਿਖੇ ਸ਼ਬਦਾਂ ਵਿਚ 'ਘੜੀ ਦਾ ਪ੍ਰਾਹੁਣਾ' ਦਾ ਸਹੀ ਅਰਥ ਹੈ:-

Ans
1. ਲਾੜਾ
2. ਮਰਨ ਕਿਨਾਰੇ
3. ਵਿਆਹ ਵਾਲਾ ਮੁੰਡਾ
4. ਹੋਣ ਵਾਲਾ ਜਵਾਈ

Question ID : **630680248794**
Option 1 ID : **630680965322**
Option 2 ID : **630680965319**
Option 3 ID : **630680965321**
Option 4 ID : **630680965320**
Status : **Answered**
Chosen Option : **2**

Q.11 'ਮੇਰੇ ਲਈ ਕੰਪਿਊਟਰ ਲਿਆਓ' ਵਾਕ ਵਿਚ ਵਚਨ ਬਦਲੋ:-

Ans
1. ਸਾਡੇ ਲਈ ਕੰਪਿਊਟਰ ਲਿਆਓ
2. ਸਾਡੇ ਲਈ ਕੰਪਿਊਟਰਾਂ ਲਿਆਓ
3. ਸਾਡੇ ਸਾਰਿਆਂ ਲਈ ਕੰਪਿਊਟਰ ਲਿਆਓ
4. ਸਾਰਿਆ ਲਈ ਕੰਪਿਊਟਰ ਲਿਆਓ

Question ID : **630680248775**
Option 1 ID : **630680965245**
Option 2 ID : **630680965244**
Option 3 ID : **630680965246**
Option 4 ID : **630680965243**
Status : **Answered**
Chosen Option : **3**

Q.12 'ਸ਼ਬਦਾਂ ਦੀਆਂ ਅੱਠ _____ ਦੇ ਨਾਮ ਲਿਖੋ।' ਵਿਚ ਖਾਲੀ ਸਥਾਨ ਭਰਨ ਦਾ ਸਹੀ ਵਿਕਲਪ ਹੈ:-

Ans
1. ਰੂਪਾਂ
2. ਸ਼੍ਰੇਣੀਆਂ
3. ਮਾਤਰਾਵਾਂ
4. ਕਾਰਕਾਂ

Question ID : **630680248785**
Option 1 ID : **630680965286**
Option 2 ID : **630680965285**
Option 3 ID : **630680965284**
Option 4 ID : **630680965283**
Status : **Answered**
Chosen Option : **2**

Q.13 'ਸਹਿਯੋਗ' ਸ਼ਬਦ ਵਿਚ ਅਗੇਤਰ ਹੈ:-

Ans
1. ਯੋਗ
2. ਗ
3. ਸਹ
4. ਸਹਿ

Question ID : **630680248779**
Option 1 ID : **630680965262**
Option 2 ID : **630680965261**
Option 3 ID : **630680965260**
Option 4 ID : **630680965259**
Status : **Answered**
Chosen Option : **4**

Website - www.dailyjobalert.in

Q.14 "ਸੰਘਣਾ" ਦਾ ਵਿਰੋਧੀ ਸ਼ਬਦ ਹੈ:-

Ans
✔ 1. ਵਿਰਲਾ
✘ 2. ਸੁੱਕਾ
✘ 3. ਲੱਸੀ
✘ 4. ਗਾੜਾ

Question ID : **630680248762**
Option 1 ID : **630680965191**
Option 2 ID : **630680965192**
Option 3 ID : **630680965194**
Option 4 ID : **630680965193**
Status : **Answered**
Chosen Option : **1**

Q.15 ਨਿਮਨ ਲਿਖਤ ਵਿਚ ਕਿਹੜਾ ਵਾਕ ਸ਼ੁੱਧ ਹੈ:-

Ans
✘ 1. ਪਾਣੀ ਦਾ ਗਿਲਾਸ ਮੈਨੂੰ ਦਿਓ।
✘ 2. ਮਜ਼ਦੂਰਾਂ ਹੜਤਾਲ ਕਰ ਦਿੱਤੀ
✘ 3. ਅੱਜ ਰਾਮ ਤੇ ਸ਼ੀਲਾ ਆਵੇਗੀ।
✔ 4. ਘੋੜਾ ਬਹੁਤ ਤੇਜ਼ ਦੌੜਦਾ ਹੈ।

Question ID : **630680248791**
Option 1 ID : **630680965308**
Option 2 ID : **630680965310**
Option 3 ID : **630680965307**
Option 4 ID : **630680965309**
Status : **Answered**
Chosen Option : **4**

Q.16 ਹੇਠ ਲਿਖਿਆਂ ਵਿਚ ਅਗੇਤਰ ਯੁਕਤ ਸ਼ਬਦ ਹੈ:-

Ans
✔ 1. ਨਵਰੂਪ
✘ 2. ਸੰਗ
✘ 3. ਤੇਲੀ
✘ 4. ਹਕੀਮ

Question ID : **630680248780**
Option 1 ID : **630680965265**
Option 2 ID : **630680965264**
Option 3 ID : **630680965266**
Option 4 ID : **630680965263**
Status : **Answered**
Chosen Option : **1**

Q.17 " ਸੁਲੱਖਣਾ" ਦਾ ਵਿਰੋਧੀ ਸ਼ਬਦ ਹੈ:-

Ans
✔ 1. ਕੁਲੱਛਣਾ
✘ 2. ਹਰੱਖਣਾ
✘ 3. ਦੁਰਾਚਾਰੀ
✘ 4. ਇਮਾਨਦਾਰ

Question ID : **630680248805**
Option 1 ID : **630680965364**
Option 2 ID : **630680965365**
Option 3 ID : **630680965366**
Option 4 ID : **630680965363**
Status : **Answered**
Chosen Option : **3**

Website - www.dailyjobalert.in

Q.18 ਹੇਠ ਲਿਖਿਆਂ ਵਿਚ ਪਿਛੇਤਰ ਯੁਕਤ ਸ਼ਬਦ ਹੈ:-

Ans
- ✗ 1. ਅਕਾਲ
- ✗ 2. ਮਹਾਰਾਣੀ
- ✗ 3. ਸਮਕਾਲੀ
- ✓ 4. ਮਿਠਾਸ

Question ID : **630680248783**
Option 1 ID : **630680965277**
Option 2 ID : **630680965278**
Option 3 ID : **630680965275**
Option 4 ID : **630680965276**
Status : **Answered**
Chosen Option : **2**

Q.19 'Grace' ਸ਼ਬਦ ਦਾ ਪੰਜਾਬੀ ਅਨੁਵਾਦ ਹੈ:-

Ans
- ✗ 1. ਕ੍ਰਿਪਾ
- ✗ 2. ਦਰਜਾਬੰਦੀ
- ✓ 3. ਸ਼ੋਭਾ
- ✗ 4. ਛਬੀਹੀਣ

Question ID : **630680248804**
Option 1 ID : **630680965361**
Option 2 ID : **630680965362**
Option 3 ID : **630680965359**
Option 4 ID : **630680965360**
Status : **Answered**
Chosen Option : **1**

Q.20 ਸਹੀ ਵਿਸ਼ਰਾਮ ਚਿੰਨ੍ਹ ਵਾਲਾ ਵਾਕ ਹੈ:-

Ans
- ✗ 1. ਉਸਦਾ ਨਾਮ ਤਾਰਾ ਸਿੰਘ "ਮਸਕੀਨ" ਹੈ।
- ✗ 2. ਉਸਦਾ ਨਾਮ ਤਾਰਾ ਸਿੰਘ ਮਸਕੀਨ ਹੈ।
- ✗ 3. ਉਸਦਾ ਨਾਮ 'ਤਾਰਾ ਸਿੰਘ ਮਸਕੀਨ' ਹੈ।
- ✓ 4. ਉਸਦਾ ਨਾਮ ਤਾਰਾ ਸਿੰਘ 'ਮਸਕੀਨ' ਹੈ।

Question ID : **630680248798**
Option 1 ID : **630680965336**
Option 2 ID : **630680965335**
Option 3 ID : **630680965338**
Option 4 ID : **630680965337**
Status : **Answered**
Chosen Option : **1**

Q.21 ਪੰਜਾਬੀ ਵਿਚ 75 ਅੰਕ ਨੂੰ ਕਿਵੇਂ ਲਿਖਦੇ ਹਨ?

Ans
- ✗ 1. ਪਜੰਤਰ
- ✗ 2. ਪੰਜਿੱਤਰ
- ✗ 3. ਪੰਜੱਥਰ
- ✓ 4. ਪੰਝਤਰ

Question ID : **630680248808**
Option 1 ID : **630680965378**
Option 2 ID : **630680965376**
Option 3 ID : **630680965375**
Option 4 ID : **630680965377**
Status : **Answered**
Chosen Option : **3**

Website - www.dailyjobalert.in

Q.22 "ਮੌਤ ਤੋਂ ਪਿਛੋਂ ਆਇਆ ਸਾਲਾਨਾ ਮੌਤ ਦਾ ਦਿਨ' ਲਈ ਕੋਈ ਇਕ ਸ਼ਬਦ ਚੁਣੋ:-

Ans
✗ 1. ਵਰ੍ਹੇਗੰਢ
✗ 2. ਸਾਲਾ
✗ 3. ਸ਼ਹਾਦਤ
✓ 4. ਬਰਸੀ

Question ID : **630680248765**
Option 1 ID : **630680965205**
Option 2 ID : **630680965206**
Option 3 ID : **630680965204**
Option 4 ID : **630680965203**
Status : **Answered**
Chosen Option : **4**

Q.23 'ਕੀ ਤੁਹਾਨੂੰ ਸਾਡਾ ਸੱਦਾ-ਪੱਤਰ ਪ੍ਰਵਾਨ ਹੈ?' ਵਾਕ ਹੈ:-

Ans
✗ 1. ਸਧਾਰਨ ਵਾਕ
✗ 2. ਸੰਯੁਕਤ ਵਾਕ
✓ 3. ਪ੍ਰਸ਼ਨਵਾਚਕ ਵਾਕ
✗ 4. ਵਿਸਮਕ ਵਾਕ

Question ID : **630680248790**
Option 1 ID : **630680965305**
Option 2 ID : **630680965306**
Option 3 ID : **630680965303**
Option 4 ID : **630680965304**
Status : **Answered**
Chosen Option : **3**

Q.24 "ਕਮੀਜ਼" ਸ਼ਬਦ ਦਾ ਬਹੁਵਚਨ ਹੈ:-

Ans
✓ 1. ਕਮੀਜ਼ਾਂ
✗ 2. ਕਮੀਜ਼ਿਆਂ
✗ 3. ਕੁੜਤੇ
✗ 4. ਕੁੜਤੀਆਂ

Question ID : **630680248773**
Option 1 ID : **630680965238**
Option 2 ID : **630680965237**
Option 3 ID : **630680965235**
Option 4 ID : **630680965236**
Status : **Answered**
Chosen Option : **1**

Q.25 ਦੇਸੀ ਸਾਲ ਦਾ ਚੌਥਾ ਮਹੀਨਾ ਹੈ:-

Ans
✗ 1. ਜੇਠ
✗ 2. ਕੱਤਕ
✓ 3. ਹਾੜ
✗ 4. ਅੱਸੂ

Question ID : **630680248806**
Option 1 ID : **630680965369**
Option 2 ID : **630680965370**
Option 3 ID : **630680965367**
Option 4 ID : **630680965368**
Status : **Answered**
Chosen Option : **3**

Website - www.dailyjobalert.in

Q.26 'ਬੂਟਾ' ਸ਼ਬਦ ਦਾ ਇਸਤਰੀ ਲਿੰਗ ਹੈ:-

Ans
✔ 1. ਬੂਟੀ
✘ 2. ਦਰਖਤ
✘ 3. ਪੇੜ
✘ 4. ਰੁੱਖ

Question ID : **630680248777**
Option 1 ID : **630680965251**
Option 2 ID : **630680965253**
Option 3 ID : **630680965252**
Option 4 ID : **630680965254**
Status : **Answered**
Chosen Option : **1**

Q.27 "ਬੂਹੇ" ਸ਼ਬਦ ਦਾ ਇਕਵਚਨ ਹੈ:-

Ans
✘ 1. ਦਰ
✘ 2. ਬੂਹਿਆਂ
✔ 3. ਬੂਹਾ
✘ 4. ਬੂਹੀਆਂ

Question ID : **630680248774**
Option 1 ID : **630680965242**
Option 2 ID : **630680965240**
Option 3 ID : **630680965239**
Option 4 ID : **630680965241**
Status : **Answered**
Chosen Option : **3**

Q.28 ਹੇਠ ਲਿਖੇ ਸ਼ਬਦਾਂ ਵਿਚ ਕਿਹੜਾ 'ਸਾਨ੍ਹਾਂ ਦਾ ਭੇੜ' ਦਾ ਸਹੀ ਅਰਥ ਹੈ?

Ans
✘ 1. ਪਹਿਲਵਾਨਾ ਦਾ ਘੋਲ
✘ 2. ਤਾਕਤਵਰ ਦੀ ਫਤਹਿ
✘ 3. ਬਲਦਾਂ ਦੀ ਲੜਾਈ
✔ 4. ਤਾਕਤਵਰਾਂ ਦੀ ਲੜਾਈ

Question ID : **630680248795**
Option 1 ID : **630680965326**
Option 2 ID : **630680965324**
Option 3 ID : **630680965323**
Option 4 ID : **630680965325**
Status : **Answered**
Chosen Option : **4**

Q.29 "ਅੱਠੇ ਅੱਠ ਮਾਰਨੀਆਂ" ਮੁਹਾਵਰੇ ਦਾ ਅਰਥ ਹੈ:-

Ans
✘ 1. ਕੁਝ ਵੀ ਪੱਲੇ ਨਾ ਹੋਣਾ
✘ 2. ਸਭ ਕੁਝ ਹੜੱਪ ਕਰ ਜਾਣਾ
✘ 3. ਚਲਾਕੀ ਕਰਨੀ
✔ 4. ਮੌਜਾਂ ਮਨਾਣੀਆਂ

Question ID : **630680248769**
Option 1 ID : **630680965221**
Option 2 ID : **630680965220**
Option 3 ID : **630680965222**
Option 4 ID : **630680965219**
Status : **Answered**
Chosen Option : **4**

Website - www.dailyjobalert.in

Q.30 'ਇਕਰਾਰ' ਦਾ ਸਮਾਨਾਰਥਕ ਸ਼ਬਦ ਹੈ:-

Ans
1. ਅੜਚਨ
2. ਪ੍ਰਣਾਮ
3. ਸਵੱਲਾ
4. ਕੌਲ

Question ID : **630680248760**
Option 1 ID : **630680965186**
Option 2 ID : **630680965184**
Option 3 ID : **630680965183**
Option 4 ID : **630680965185**
Status : **Answered**
Chosen Option : **3**

Q.31 ਵਿਸ਼ਰਾਮ ਚਿੰਨ੍ਹ 'ਦੁਬਿੰਦੀ' ਦੀ ਵਰਤੋਂ ਕਦੋਂ ਕੀਤੀ ਜਾਂਦੀ ਹੈ?

Ans
1. ਕਿਸੇ ਸ਼ਬਦ, ਵਾਕ-ਅੰਸ਼ ਜਾਂ ਵਾਕ ਦਾ ਵੇਰਵਾ ਦੇਣ ਲਈ
2. ਅਲਪ ਵਿਸ਼ਰਾਮ ਲਈ
3. ਉਦਾਹਰਨ ਦੇਣ ਲਈ
4. ਕਿਸੇ ਦੀ ਕਹੀ ਗੱਲ ਦੁਹਰਾਉਣ ਲਈ

Question ID : **630680248797**
Option 1 ID : **630680965334**
Option 2 ID : **630680965333**
Option 3 ID : **630680965331**
Option 4 ID : **630680965332**
Status : **Answered**
Chosen Option : **4**

Q.32 'ਸਣਾਨੂੰ ਬਹਿਮਾ ਭਰਮਾਂ ਵਿਚ ਨਹੀਂ ਪੈਨਾ ਚਾਹੀਦਾ' ਵਾਕ ਵਿਚ ਵਾਕ-ਵਿਚਾਰ ਦੇ ਪੱਖ ਤੋਂ ਤਰੁੱਟੀ ਹੈ:-

Ans
1. ਅਧਿਕਾਰ ਦੀ
2. ਤਰਤੀਬ ਦੀ
3. ਮੇਲ ਦੀ
4. ਸ਼ਬਦ-ਜੋੜ ਦੀ

Question ID : **630680248787**
Option 1 ID : **630680965292**
Option 2 ID : **630680965293**
Option 3 ID : **630680965291**
Option 4 ID : **630680965294**
Status : **Answered**
Chosen Option : **4**

Q.33 'ਅਕਲਾਂ ਬਾਝੋਂ ਖੂਹ ਖਾਲੀ' ਅਖਾਣ ਦੀ ਵਰਤੋਂ ਕੀਤੀ ਜਾਂਦੀ ਹੈ:-

Ans
1. ਜਦੋਂ ਪੂਰੀ ਸਮਝ ਵਰਤ ਕੇ ਵੀ ਨੁਕਸਾਨ ਹੋ ਜਾਵੇ
2. ਜਦੋਂ ਕਿਸੇ ਕੰਮ ਦਾ ਲਾਭ ਨਾ ਮਿਲੇ
3. ਜਦੋਂ ਕੋਈ ਮੂਰਖਤਾ ਵਾਲੀ ਗੱਲ ਕਰੇ
4. ਬਿਨਾਂ ਮਜਬੂਰੀ ਦੇ ਕੰਮ ਕਰਨਾ ਪਵੇ ਤਾਂ

Question ID : **630680248771**
Option 1 ID : **630680965227**
Option 2 ID : **630680965230**
Option 3 ID : **630680965229**
Option 4 ID : **630680965228**
Status : **Answered**
Chosen Option : **3**

Website - www.dailyjobalert.in

Q.34 "ਅੱਖ ਸੇਜਲ ਹੋਣੀ" ਮੁਹਾਵਰੇ ਦਾ ਅਰਥ ਹੈ:-

Ans
✔ 1. ਅਥਰੂ ਡਿਗਣੇ
✘ 2. ਅੱਖ ਦੁਖਣੀ ਆਉਣੀ
✘ 3. ਮੁਸੀਬਤ ਆਉਣੀ
✘ 4. ਨਜ਼ਰੋਂ ਡਿਗਣਾ

Question ID : **630680248768**
Option 1 ID : **630680965217**
Option 2 ID : **630680965215**
Option 3 ID : **630680965218**
Option 4 ID : **630680965216**
Status : **Answered**
Chosen Option : **1**

Q.35 'ਰੋਗਣ' ਸ਼ਬਦ ਦਾ ਪੁਲਿੰਗ ਹੈ:-

Ans
✘ 1. ਬਿਮਾਰ
✘ 2. ਰੋਗ-ਯੁਕਤ
✘ 3. ਢਿੱਲੀ
✔ 4. ਰੋਗੀ

Question ID : **630680248778**
Option 1 ID : **630680965256**
Option 2 ID : **630680965257**
Option 3 ID : **630680965258**
Option 4 ID : **630680965255**
Status : **Answered**
Chosen Option : **4**

Q.36 'ਸ਼ੇਰ ਅਤੇ ਹਾਥੀ _____ ਵਿਚ ਰਹਿੰਦੇ ਹਨ ਪਰ ਇਨਸਾਨ _____ ਪ੍ਰਾਣੀ ਹੈ। ਵਿਚ ਖਾਲੀ ਸਥਾਨ ਭਰਨ ਦੇ ਸਹੀ ਵਿਕਲਪਾਂ ਦਾ ਜੁੱਟ ਹੈ:-

Ans
✘ 1. ਸਮਾਜ-ਸਿਆਣਾ
✘ 2. ਸਮਾਜ-ਜੰਗਲਾਤੀ
✔ 3. ਜੰਗਲ-ਸਮਾਜਿਕ
✘ 4. ਜੰਗਲ-ਘਰ

Question ID : **630680248786**
Option 1 ID : **630680965290**
Option 2 ID : **630680965289**
Option 3 ID : **630680965288**
Option 4 ID : **630680965287**
Status : **Answered**
Chosen Option : **3**

DAILY JOB Alert ਪੰਜਾਬ

Q.37 "ਕਰੂੰਬਲ" ਸ਼ਬਦ ਦਾ ਬਹੁਵਚਨ ਹੈ:-

Ans
1. ਕਰੂੰਬਾਂ
2. ਕਰਬਲਾ
3. ਕਰੂੰਬਲੇਂ
4. ਕਰੂੰਬਲਾਂ

Question ID : **630680248772**
Option 1 ID : **630680965231**
Option 2 ID : **630680965233**
Option 3 ID : **630680965234**
Option 4 ID : **630680965232**
Status : **Answered**
Chosen Option : **4**

Q.38 '_____ ਮਨੁੱਖ ਦੇ ਸੜੈ-ਪ੍ਰਗਟਾਵੇ ਦਾ ਸਭ ਤੋਂ ਮਹਤਵਪੂਰਨ ਹਿੱਸਾ ਹੈ।'ਵਿਚ ਖਾਲੀ ਸਥਾਨ ਭਰਨ ਦਾ ਸਹੀ ਵਿਕਲਪ ਹੈ:-

Ans
1. ਸ਼ਬਦ
2. ਵਿਆਕਰਨ
3. ਬੋਲੀ
4. ਵਿਚਾਰ

Question ID : **630680248784**
Option 1 ID : **630680965280**
Option 2 ID : **630680965282**
Option 3 ID : **630680965279**
Option 4 ID : **630680965281**
Status : **Answered**
Chosen Option : **3**

Q.39 'Classical' ਸ਼ਬਦ ਦਾ ਪੰਜਾਬੀ ਅਨੁਵਾਦ ਹੈ:-

Ans
1. ਸ਼ਾਸਤਰੀ
2. ਵਰਗੀਕ੍ਰਿਤ
3. ਕ੍ਰਮਬਧ
4. ਗੁਪਤ

Question ID : **630680248802**
Option 1 ID : **630680965353**
Option 2 ID : **630680965351**
Option 3 ID : **630680965354**
Option 4 ID : **630680965352**
Status : **Answered**
Chosen Option : **1**

Website - www.dailyjobalert.in

Q.40 ਵਿਰੋਧੀ ਸ਼ਬਦਾਂ ਦਾ ਸਹੀ ਜੁੱਟ ਹੈ:-

Ans
✗ 1. ਲੱਜਾ-ਸ਼ਰਮ
✓ 2. ਸਦਾਚਾਰ-ਦੁਰਾਚਾਰ
✗ 3. ਸ਼ਰਮਿੰਦਾ-ਇਮਾਨਦਾਰ
✗ 4. ਧਾਕੜ-ਬਹਾਦਰ

Question ID : **630680248763**
Option 1 ID : **630680965195**
Option 2 ID : **630680965197**
Option 3 ID : **630680965196**
Option 4 ID : **630680965198**
Status : **Answered**
Chosen Option : **2**

Q.41 ਹੇਠ ਲਿਖਿਆਂ ਵਿਚ ਕਿਹੜੇ ਵਾਕ ਵਿਚ ਸਹੀ ਵਿਸ਼ਰਾਮ ਚਿੰਨ੍ਹ ਲੱਗੇ ਹਨ?

Ans
✗ 1. ਉਸਨੇ ਆਖਿਆ.'ਅਸੀਂ ਵੀ ਕਦੇ ਅਮੀਰ ਸਾਂ।'
✗ 2. ਉਸਨੇ ਆਖਿਆ.ਅਸੀਂ ਵੀ ਕਦੇ ਅਮੀਰ ਸਾਂ।
✓ 3. ਉਸਨੇ ਆਖਿਆ, "ਅਸੀਂ ਵੀ ਕਦੇ ਅਮੀਰ ਸਾਂ।"
✗ 4. ਉਸਨੇ ਆਖਿਆ" ਅਸੀਂ ਵੀ ਕਦੇ ਅਮੀਰ ਸਾਂ।"

Question ID : **630680248800**
Option 1 ID : **630680965344**
Option 2 ID : **630680965343**
Option 3 ID : **630680965346**
Option 4 ID : **630680965345**
Status : **Answered**
Chosen Option : **3**

Q.42 'ਸ਼ੁਕੀਨ' ਵਿਚ ਪਿਛੇਤਰ ਹੈ:-

Ans
✗ 1. ਨ
✗ 2. ਕੀਨ
✗ 3. ਸ਼ੁ
✓ 4. ਈਨ

Question ID : **630680248782**
Option 1 ID : **630680965272**
Option 2 ID : **630680965271**
Option 3 ID : **630680965274**
Option 4 ID : **630680965273**
Status : **Answered**
Chosen Option : **4**

Q.43 ਨਿਮਨ ਲਿਖਤ ਵਿਚ ਕਰਤਰੀ ਵਾਕ ਹੈ:-

Ans
✗ 1. ਤੁਹਾਨੂੰ ਹੁਣੇ ਜਾਣ ਦੀ ਆਗਿਆ ਹੋਈ।
✗ 2. ਹਰ ਬੱਚੇ ਦੁਆਰਾ ਪੜ੍ਹਨਾ ਜ਼ਰੂਰੀ ਹੈ।
✗ 3. ਸ਼ੀਸ਼ਾ ਹਰਸ਼ਦੀਪ ਤੋਂ ਟੁੱਟਾ।
✓ 4. ਉਹ ਪਾਗਲ ਨੂੰ ਮਖੌਲ ਕਰ ਰਹੇ ਹਨ ।

Question ID : **630680248789**
Option 1 ID : **630680965299**
Option 2 ID : **630680965301**
Option 3 ID : **630680965300**
Option 4 ID : **630680965302**
Status : **Answered**
Chosen Option : **4**

DAILY JOB Alert ਪੰਜਾਬ
Website - www.dailyjobalert.in

Q.44 'ਧਰਮਸ਼ਾਲਾ' ਸ਼ਬਦ ਵਿਚ ਪਿਛੇਤਰ ਹੈ:-

Ans
1. ਲਾ
2. ਆ
3. ਸ਼ਾਲਾ
4. ਆਲਾ

Question ID : **630680248781**
Option 1 ID : **630680965269**
Option 2 ID : **630680965267**
Option 3 ID : **630680965270**
Option 4 ID : **630680965268**
Status : **Answered**
Chosen Option : **3**

Q.45 ਹੇਠ ਲਿਖੇ ਸ਼ਬਦਾਂ ਵਿਚ 'ਲਾਈ ਲਗ' ਦਾ ਸਹੀ ਅਰਥ ਹੈ:-

Ans
1. ਅੱਗ ਲਾਉਣ ਵਾਲਾ
2. ਲੜਾਈ ਵਿਚ ਤੇਲ ਪਾਉਣ ਵਾਲਾ
3. ਕੰਨਾਂ ਦਾ ਕੱਚਾ
4. ਲਾ ਕੇ ਬੁਝਾਉਣ ਵਾਲਾ

Question ID : **630680248796**
Option 1 ID : **630680965328**
Option 2 ID : **630680965329**
Option 3 ID : **630680965327**
Option 4 ID : **630680965330**
Status : **Answered**
Chosen Option : **3**

Q.46 'ਤਾਜ ਮਹਿਲ ਕਿੰਨਾ ਸੁੰਦਰ ਹੈ!' ਵਾਕ ਹੈ:-

Ans
1. ਮਿਸ਼ਰਤ ਵਾਕ
2. ਸੰਯੁਕਤ ਵਾਕ
3. ਵਿਸਮਕ ਵਾਕ
4. ਸਧਾਰਨ ਵਾਕ

Question ID : **630680248788**
Option 1 ID : **630680965296**
Option 2 ID : **630680965298**
Option 3 ID : **630680965297**
Option 4 ID : **630680965295**
Status : **Answered**
Chosen Option : **3**

Q.47 'ਜਦੋਂ ਕੋਈ ਬਹੁਤ ਦੁਖੀ ਬੰਦਾ ਆਪਣਾ ਦੁੱਖ ਬਿਆਨ ਨਾ ਕਰ ਸਕੇ' ਤਾਂ ਕਿਸ ਅਖਾਣ ਦੀ ਵਰਤੋਂ ਕੀਤੀ ਜਾਂਦੀ ਹੈ:-

Ans
1. ਈਸਬਗੋਲ ਤੇ ਕੁਝ ਨਾ ਫੋਲ
2. ਈਦ ਪਿਛੋਂ ਤੰਬਾ ਫੂਕਣਾ ਏ
3. ਅੱਖੀਂ ਡਿੱਠਾ ਭਾਵੇ ਨਾ ਮੂਰਖ ਬਹੇ ਨਿਲੱਜ
4. ਆਪੇ ਬੀਬੀ ਕੋਕਾਂ, ਮੱਤਾਂ ਦੇਵੇ ਲੋਕਾਂ

Question ID : **630680248770**
Option 1 ID : **630680965223**
Option 2 ID : **630680965224**
Option 3 ID : **630680965225**
Option 4 ID : **630680965226**
Status : **Answered**
Chosen Option : **1**

Website - www.dailyjobalert.in

Q.48 ਸਮਾਨਾਰਥਕ ਸ਼ਬਦਾਂ ਦਾ ਸਹੀ ਜੁੱਟ ਹੈ:-

Ans
✔ 1. ਸ਼ਰਮ-ਹਯਾ
✘ 2. ਚੇਤੰਨ- ਮਨੋਹਰ
✘ 3. ਤ੍ਰਿਸ਼ਨਾ-ਰੱਜ
✘ 4. ਬਦਨ-ਚਮੜੀ

Question ID : **630680248761**
Option 1 ID : **630680965188**
Option 2 ID : **630680965187**
Option 3 ID : **630680965190**
Option 4 ID : **630680965189**
Status : **Answered**
Chosen Option : **1**

Q.49 ਕਿਹੜਾ ਸ਼ਬਦ ਸ਼ੁੱਧ ਨਹੀਂ ਹੈ:-

Ans
✔ 1. ਗੁਨਵਾਨ
✘ 2. ਗੁਣਵਾਨ
✘ 3. ਗੋਦੜੀ
✘ 4. ਅਨੁਮਾਨ

Question ID : **630680248793**
Option 1 ID : **630680965318**
Option 2 ID : **630680965315**
Option 3 ID : **630680965317**
Option 4 ID : **630680965316**
Status : **Answered**
Chosen Option : **1**

Q.50 "ਉਹ ਜ਼ਮੀਨ ਜਿੱਥੇ ਕੁਝ ਨਾ ਉੱਗਦਾ ਹੋਵੇ" ਲਈ ਕੋਈ ਇਕ ਸ਼ਬਦ ਚੁਣੋ:-

Ans
✘ 1. ਭੂਮੀ ਰਹਿਤ
✔ 2. ਬੰਜਰ
✘ 3. ਉਪਜਾਊ
✘ 4. ਰੇਹਮਾਰੀ

Question ID : **630680248767**
Option 1 ID : **630680965211**
Option 2 ID : **630680965214**
Option 3 ID : **630680965212**
Option 4 ID : **630680965213**
Status : **Answered**
Chosen Option : **2**

DAILY JOB Alert ਪੰਜਾਬ